捷思课堂
学习资料 | 升学信息 | 教育心得
扫码关注获取更多学习资料

姓名 学号 班级 学校 密 封 线



期末测试卷

时间：80 分钟　满分：100 分

题　号	一	二	三	四	五	六	七	总分
得　分								

一　填空题。（每空 1 分，共 19 分）

1. 傍晚面对太阳落下的方向，左面是（　　），右面是（　　）。
2. 晚上 8：30 用 24 时计时法表示是（　　）。
3. 2011 年的七、八、九三个月共有（　　）天。
4. 25×52 的积是（　　）位数。
5. 在一道有余数的除法算式中，如果除数是 6，余数最大是（　　）。
6. 在（　　）里填数。

   700 平方分米＝（　　）平方米　　50 平方米＝（　　）平方分米

   3 平方米＝（　　）平方分米　　10 平方分米＝（　　）平方厘米

   （　　）×8＝200　　（　　）÷7＝21……5
7. 2012 年 8 月 4 日是星期六，那么 2012 年 9 月 1 日是星期（　　）。
8. 下图是用边长为 1 厘米的小正方形拼成的，它的周长是（　　），面积是（　　）。

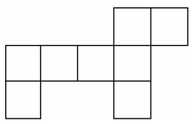

9. 一场排球比赛从 19：30 开始，共进行了 165 分钟。比赛是在（　　）时（　　）分结束的。
10. 如果每辆货车每次运相同数量的洗衣机，4 辆货车 3 次运 96 台洗衣机，那么 4 辆货车 1 次运（　　）台洗衣机，1 辆货车 1 次运（　　）台洗衣机。

二　判断题。（对的画“√”，错的画“×”）（每题 1 分，共 5 分）

1. 在一道没有余数的除法算式中，如果被除数是除数的 3 倍，商一定是 3。（　　）
2. 冬冬是 2009 年 2 月 29 日出生的。（　　）
3. 6□2÷6，当商中间有 0 时，□里一定填 0。（　　）
4. 7、8、0、6 可以组成 12 个没有重复数字的两位数。（　　）
5. 两个长方形相比较，面积大的长方形，周长也一定大。（　　）

三　选择题。（把正确答案的字母填在括号里）（每题 1 分，共 5 分）

1. 下面算式中，商的中间和末尾都没有 0 的算式是（　　）。

   A. 316÷3　　B. 502÷2　　C. 562÷4　　D. 720÷8
2. 一块黑板的面积大约是 4（　　）。

   A. 平方分米　　B. 平方米　　C. 平方厘米　　D. 米
3. 阳阳从家出发，先向东走，再向北走就能到丽丽家，丽丽家在阳阳家的（　　）。

   A. 东面　　B. 北面　　C. 东北面　　D. 西南面
4. 右图中的两个图形（　　）。

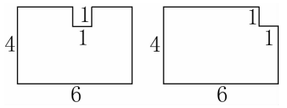

   A. 周长相等，面积不相等

   B. 面积相等，周长不相等

   C. 周长和面积都相等

   D. 周长和面积都不相等
5. 一个三位数除以 7，商最少是（　　）位数。

   A. 一　　B. 二　　C. 三　　D. 四

四　在○里填上“＞”“＜”或“＝”。（8 分）

322÷2 ○ 425÷5　　29×21 ○ 39×12　　210×10 ○ 2100

0.8 ○ 0.08　　2 元 3 角 ○ 2.3 元　　400 平方厘米 ○ 4 平方分米

7.3 分米 ○ 7 分米 3 厘米　　0.3 ○ 0.5

五　计算题。（1 题 4 分，2 题 8 分，3 题 6 分，4 题 3 分，共 21 分）

1. 口算。

   4000÷8＝　　12×6＝　　15×40＝　　350÷5＝

   420÷7＝　　30×60＝　　0.2＋0.4＝　　1.9－0.9＝
2. 用竖式计算，带△的要验算。

   △352÷7＝　　57×92＝　　13.5－4.8＝　　8.7＋4.6＝
3. 脱式计算。

   420÷7×15　　350－150÷2　　（634－376）÷3

关注微信公众号“捷思课堂”获取更多学习资料！

捷思课堂
学习资料 | 升学信息 | 教育心得
扫码关注获取更多学习资料

4. 求下面图形的面积。

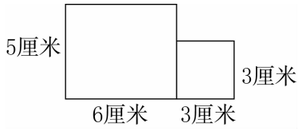

六 认真做一做。（1题8分，2题6分，共14分）

1. 看图填空并回答问题。

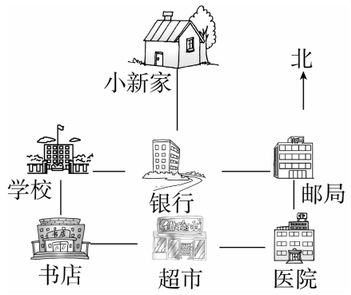

（1）银行在小新家的（　　）方。邮局在超市的（　　）角。

（2）医院的正西方向有（　　）和（　　）。

（3）学校在银行的（　　）方。

（4）小新从家到书店应怎样走？（写出一种即可）

2. 下面是三（2）班同学最喜欢的图书调查情况。

儿童文学类	科普类	动漫类	其他
男：正丁	男：正正	男：正下	男：丌
女：正丌	女：正	女：正丁	女：下

请你根据上面的情况完成下表。

人数 / 图书种类 / 性别	儿童文学类	科普类	动漫类	其他
男				
女				

（1）男生最喜欢（　　）类图书的人最多。

（2）女生最喜欢（　　）类图书的人最多。

七 解决问题。（每题4分，共28分）

1. 三年级学生参加植树活动，男生有128人，女生有112人，每4人植一棵树，三年级一共植了多少棵树？

2. 一块长500米，宽20米的长方形阔叶林，如果每平方米的阔叶林每天能制造70克氧气，这块阔叶林每天能制造多少千克氧气？

3. 儿童剧场每天播出3场电影，昨天和今天共售出954张票，平均每场售票多少张？

4. 4位老师带50名学生去参观公园。怎样买票最合算？共需多少钱？

票价：
成人票：10元/张　学生票：半价
团体票（10人及10人以上）：6元/张

5. 一辆汽车的油箱最多能装汽油85千克，每千克汽油最多行驶15千米，一天小李叔叔加满汽油送一位客人从A地到B地去，已知A地到B地的公路长是728千米。

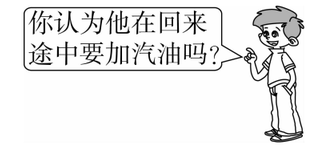

6. 四个图案排成一行，共有多少种不同的排法？

7. 两根长都为0.6米的纸条粘在一起，重叠部分长0.1米。粘在一起后的纸条长多少米？

自己说说

我的心情

老师点评

家长点评

密 封 线

关注微信公众号“捷思课堂”获取更多学习资料！