捷思课堂
学习资料 | 升学信息 | 教育心得
扫码关注获取更多学习资料

期末检测卷

（40 分钟　100 分）　☞(答案见 82 页)

开始计时：_____

一　我会填。（每空 1 分，共 27 分）

1. 3 □ 4÷5，要使商的末尾是 0，□ 里可以填(　　)。
2. 25×40 的积的末尾有(　　)个 0。
3. 在下面的括号里填上适当的单位名称。
   三(1)班学生王宁的身高是 1.41(　　)，体重是 29.4(　　)，她使用的数学课本封面的面积约为 630(　　)，她所在的教室的面积约为 48(　　)。
4. 一个长方形和一个正方形的周长相等，长方形长 7 米，宽 3 米，正方形的周长是(　　)米，面积是(　　)平方米。
5. 9 平方米＝(　　)平方分米
   7 平方分米＝(　　)平方厘米
   600 平方分米＝(　　)平方米
   1 米＝(　　)分米
   1 米 3 分米＝(　　)米
   4 年＝(　　)个月
   36 个月＝(　　)年
6. 2016 年上半年有(　　)天，是(　　)个星期。2016 年 7 月和 8 月，李明只需到校 5 天，其余时间都放暑假，9 月 1 日开学，他今年的暑假有(　　)天。
7. 在○里填上“＞”“＜”或“＝”。

   2 角 ○ 0.5 元　　8 分米 ○ 0.8 米

   0.9 元 ○ 1 元　　6 分米 ○ 4.6 分米

8. 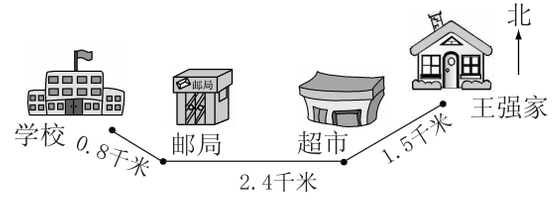

   王强从家先向(　　)方向走到超市，再向(　　)方向走到邮局，最后向(　　)方向走到学校。王强每天早晨从家到学校要走(　　)千米。晚上放学回家，他走到邮局时发现自己的数学书忘带了，又回学校去取，这样他比平时放学多走(　　)千米。

二　我是小法官。（对的画“√”，错的画“×”）（每题 1 分，共 5 分）

1. 小丽只过了 4 个生日，她一定只有 4 岁。(　　)
2. 用 9 个边长是 4 厘米的小正方形拼成不同的图形，这些图形的面积相等，周长也相等。(　　)
3. 南京长江大桥的全长是6.77 千米，横线上的数读作：六点七七。(　　)
4. 玲玲家真大！四室两厅，约有 200 平方分米。(　　)
5. 用 0、4、7、8 可以组成 8 个不同的两位数。(　　)

三　我会选。（把正确答案的字母填在括号里）（每题 1 分，共 5 分）

1. 数学书的定价是 4 元 6 角，用小数表示是(　　)。
   A. 4.60 元　　B. 4.06 元
   C. 0.46 元　　D. 46.0 元
2. 红红某天 21：40 上床睡觉，第二天早上 6：30 起床。红红一共睡了(　　)。
   A. 8 小时 50 分钟　　B. 15 小时 10 分钟
   C. 9 小时 50 分钟　　D. 7 小时 50 分钟
3. 下面三个图形中，图形(　　)的面积最大。（每个□代表 1 平方厘米）

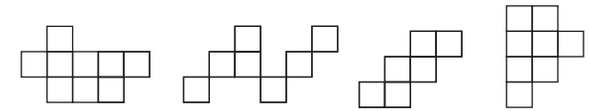

4. 下列图形中的涂色部分不能用 0.4 表示的是(　　)。

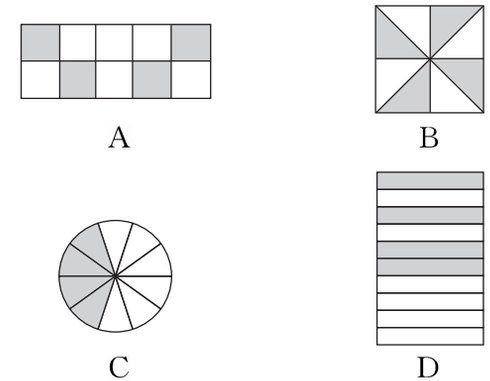

关注微信公众号“捷思课堂”获取更多学习资料！

捷思课堂
学习资料 | 升学信息 | 教育心得
扫码关注获取更多学习资料

5. 有 5 种不同的鲜花，任选两种插在一个花瓶里，有（　　）种插法。

A. 8　　B. 10　　C. 12　　D. 14

四 我会算。（2 题 8 分，其余每题 6 分，共 20 分）

1. 直接写得数。

240÷3＝　　40×50＝　　5.3＋2.4＝

11×8＝　　0÷9＝　　9.5－1.3＝

2. 用竖式计算。

702÷6＝　　45×93＝

6.5＋3.9＝　　9.2－3.8＝

3. 脱式计算。

126÷9÷7　　7×4×36

五 画一画。（10 分）

在下面的方格纸上分别画出一个面积是 24 平方厘米的长方形和一个面积是 16 平方厘米的正方形。（每个小方格表示 1 平方厘米）

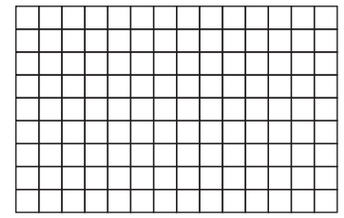

六 我会解决问题。（5 题 9 分，其余每题 6 分，共 33 分）

1. 瓷器厂要将 768 个花瓶装箱运走，每 8 个花瓶装一箱，4 次运完，平均每次要运多少箱？

2. 同学们分成 6 个大组去参观科技馆，每个大组有 4 个小队，每队有 15 人，参观科技馆的一共有多少人？如果每辆车限乘 35 人，11 辆车能把这些同学一次送走吗？

3.（情境题）



4.（易错题）用一张长 60 厘米的长方形纸，刚好可以剪 3 个正方形（如图），这张长方形纸的面积是多少平方厘米？合多少平方分米？



5. 下面是甲、乙两个超市四个月的营业额。

营业额/万元 \ 月份	6	7	8	9
甲超市	21.6	18.9	20.3	22.1
乙超市	19.6	20.7	22.5	21.4

（1）甲超市在（　　）月份的营业额最高。乙超市在（　　）月份的营业额最高。

（2）甲超市 9 月份的营业额比乙超市 9 月份的营业额多（　　）万元。

（3）乙超市 4 个月的营业总额是（　　）万元。

（4）你还能提出其他数学问题并解答吗？

结束时间：_____

关注微信公众号“捷思课堂”获取更多学习资料！