捷思课堂
学习资料 | 升学信息 | 教育心得
扫码关注获取更多学习资料

姓名 学号 班级 学校 密 封 线



期末测试卷（1）

时间：80 分钟　满分：100 分

题　号	一	二	三	四	五	六	七	总　分
得　分								

一　直接写得数。（6 分）

15×4＝	96÷3＝	63×0＝	1－0.6＝
150÷3＝	24×30＝	320－200＝	0.5＋0.7＝
240÷4＝	0÷9＝	0.9－0.2＝	606÷6＝

二　我会填。（每空 1 分，共 28 分）

1. 25 的 13 倍是（　　）；83 乘 49 大约是（　　）。
2. 27 厘米写成分数是（　　）米，写成小数是（　　）米，读作（　　）米。
3. 下午 4：20，用 24 时计时法表示是（　　）；21：00 是晚上（　　）。
4. （1）先填上小数，再在◯里填上“＞”或“＜”。



（　　）◯（　　）

（2）在◯里填上“＞”或“＜”。

0.3 ◯ 0.03　　0.45 ◯ 0.54　　0.39 ◯ 0.4

5. 在括号里填上合适的小数。

9 角＝（　　）元　　7 分＝（　　）元　　1 元 3 角＝（　　）元

6. 2016 年是（　　）年，二月有（　　）天，全年有（　　）天。
7. 500 cm^2＝（　　）dm^2　　700 dm^2＝（　　）m^2

24 个月＝（　　）年　　360 分钟＝（　　）小时

8. 填上合适的单位。

数学课本封面的面积大约是 5（　　）　教室地面的面积约是 63（　　）

小红身高大约是 152（　　）　小明的大拇指指甲的面积大约是 1（　　）

9. 1 路公交车到达 A 站后，下去 9 人，又上来 14 人，这时车上有 30 人。到达 A 站前车上有（　　）人。

三　我会判断。（对的打“√”，错的打“×”）（每题 1 分，共 4 分）

1. 圆是轴对称图形。（　　）
2. 周长不相等的长方形，面积也一定不相等。（　　）
3. 2020 年第一季度有 90 天。（　　）
4. 一枚邮票的面积是 4 平方分米。（　　）

四　我会选。（每题 1 分，共 4 分）

1. 一个正方形的周长是 24 厘米，它的面积是（　　）平方厘米。

A. 24　　B. 32　　C. 36

2. 605÷5 的商是（　　）位数。

A. 一　　B. 两　　C. 三

3. 大于 0.1 而小于 0.2 的小数有（　　）个。

A. 0　　B. 1　　C. 无数

4. 8、9 两个月一共有（　　）天。

A. 60　　B. 61　　C. 62

五　计算。（1 题 8 分，2 题 18 分，共 26 分）

1. 用竖式计算，带“★”的要验算。

6.7＋4.5＝　　427÷7＝　　38.4－12.6＝　　★68×75＝

2. 脱式计算。

28×25÷7　　603÷9×85　　135＋85÷5

72－72÷8　　707÷(152－145)　　612÷3÷2

六　哪些图形是轴对称图形？（是的打“√”）（5 分）



（　　）（　　）（　　）（　　）（　　）

关注微信公众号“捷思课堂”获取更多学习资料！

七 解决问题。（1～3题每题3分，6题6分，其余每题4分，共27分）

1. 三（2）班共有42人，每人一瓶可乐，一共需要多少钱？



2. 一共有224本书，平均每个书架每层放多少本？

3. 公司要在一面墙上做广告（如图），价格是每平方米16元，做广告共需要多少钱？

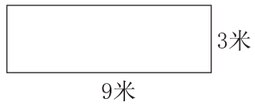

4. 一辆汽车上午8：30从甲地出发，下午4：30到达乙地，两地之间的距离是多少千米？



5. 

每箱48元，300元能买多少瓶？

6. 逛超市。



（1）买1千克草莓和1千克番茄，共需多少钱？

（2）小欣买了3千克香蕉和1千克葡萄，还剩下17.6元，你知道她带了多少钱吗？

7. 小丽有一些零花钱，上星期花了总钱数的一半少5元，这星期花了余下的一半多6元，这时小丽还有4元钱。小丽原来有多少钱？

自己说说

我的心情

老师点评

家长点评

密 封 线

捷思课堂
学习资料 | 升学信息 | 教育心得
扫码关注获取更多学习资料

关注微信公众号“捷思课堂”获取更多学习资料！