捷思课堂
学习资料 | 升学信息 | 教育心得
扫码关注获取更多学习资料

姓名 学号 班级 学校 密 封 线



期中测试卷

第一～五单元

时间:60 分钟　满分:100 分

题　号	一	二	三	四	五	六	总　分
得　分							

一　填一填。(每空 1 分,共 16 分)

1. 每份分得(　　),叫平均分,把 24 平均分成(　　)份,每份是 6。

2. 根据下图列式为(　　),表示把(　　)条金鱼,每(　　)条为一份,可以分成(　　)份。



3. 电风扇转动是(　　)现象,拉开抽屉是(　　)现象。(填“平移”或“旋转”)

4. 计算 35－15÷5 时,要先算(　　)法,后算(　　)法。

5. 在没有括号的算式里,只有(　　)法或只有(　　)法,都要按从左往右的顺序进行计算。

6. 下面哪些图形是轴对称图形?在(　　)里打“√”。

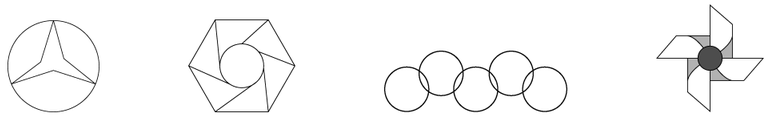

(　　)　(　　)　(　　)　(　　)

二　判断。(对的画“√”,错的画“×”)(每题 1 分,共 5 分)

1. 用“正”字统计 5 月份天气情况,一个“正”字代表 1 天。(　　)

2. 60－23－18 与 60－(23－18)的运算顺序不相同,但运算结果相同。(　　)

3. 车在行驶的过程中,既有平移现象,也有旋转现象。(　　)

4. 计算 45－35÷5 时应该先算减法。(　　)

5. 72 里面有几个 8?列成算式是 72÷8＝9。(　　)

三　选一选。(把正确答案的序号填在括号里)(每题 2 分,共 10 分)

1. 右图列成综合算式正确的是(　　)。

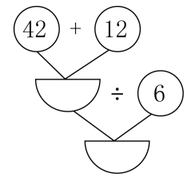

A. 42＋12÷6　　B. 42÷6＋12　　C. (42＋12)÷6

2. 下面剪纸中,不是轴对称图形的是(　　)。

A. 　B. 　C. 

3. 从 36 中连续减去 9,减(　　)次才能使结果等于 0。

A. 27　　B. 4　　C. 9

4. 根据“九九八十一”这句口诀可以写(　　)道算式。

A. 4　　B. 3　　C. 2

5. 下面的现象中,不是平移的是(　　)。

A. 　B. 　C. 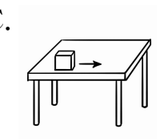

四　算一算,填一填。(1 题 12 分,2 题 18 分,3 题 6 分,共 36 分)

1. 看谁算得对又快。

15－5＝	6×3＝	24＋6＝	3×4÷2＝
48÷6＝	35÷7＝	45÷5＝	40－5×8＝
9÷1＝	8÷8＝	6×6＝	1＋1×1＝

2. 计算。

6＋3×9	(42＋14)÷7	2×9÷3
65－30÷5	76－(28＋19)	72÷8÷3

荣德基

关注微信公众号“捷思课堂”获取更多学习资料!

捷思课堂
学习资料 | 升学信息 | 教育心得
扫码关注获取更多学习资料

3. 在◯里填上“＞”“＜”或“＝”。

29－18－7 ◯ 29－(18＋7)　　9×9 ◯ 9＋9　　4×5－2 ◯ 4×(5－2)

(13＋27)÷5 ◯ 6×3－10　　35÷7 ◯ 45÷5　　7÷7×9 ◯ 9÷9×7

五　下面哪些鱼通过平移可以与▷重合？把它们涂上颜色。(3分)

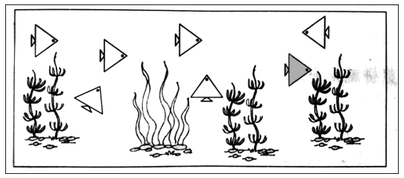

六　解决问题。(每题6分，共30分)

1. 二年级举行了“中国历史”知识竞赛，分两轮进行，总得分情况如下表。





二(1)班	二(2)班
56分	62分

第二轮二(2)班得了多少分？

2. 你知道每只刺猬分了多少个果子吗？



3. 小小快餐店。

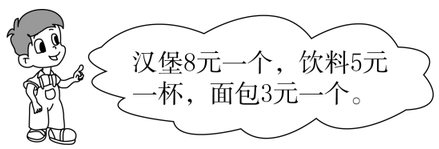



(1)30元钱可以买几杯饮料？

(2)小伟有29元，买了一杯饮料后，剩下的钱想买面包，能买几个？

(3)如果你有50元钱，你想买什么？还剩下多少元？

4. 开心游乐园。

价目表		
太空舱	每张票9元	每舱坐4人
高空缆车	每张票8元	每辆坐6人

(1)54元钱最多能买几张太空舱的票？

(2)二年级男生有32人，女生有16人，如果都坐高空缆车，需要几辆？

(3)请你提出一个用除法解决的问题并解答。

5. 右面是小威记录一个月的天气情况。

(1)把记录的结果填在下表中。

天气			
天数			

	正正正丅
	正正一
	下

(2)这个月共有多少天？你认为这个月属于哪个季节？

自己说说　我的心情　老师点评　家长点评

密　封　线

好卷

关注微信公众号“捷思课堂”获取更多学习资料！