捷思课堂
学习资料 | 升学信息 | 教育心得
扫码关注获取更多学习资料

姓名 学号 密 封 班级 线 学校



名校期中测试卷

时间:60 分钟　满分:100 分

题　号	一	二	三	四	五	六	总　分
得　分							

一　直接写出得数。(12 分)

56÷8=	5×6=	42−6=	48+50=
40−5=	8÷8=	18÷3=	27÷9=
3+7=	8÷4=	81−9=	6+30=

二　填一填。(7 题 3 分,其余每空 1 分,共 16 分)

1. 计算 24÷6 时,所用的口诀是(　　);根据口诀“六八四十八”可得的除法算式是(　　)和(　　)。

2. 4 个(　　)是 36,28 里面有(　　)个 4。

3. 拧水龙头是(　　)现象,苹果从树上落下来是(　　)现象。

4. 

把这些苹果平均放在 6 个盘子里,每盘放(　　)个;如果把这些苹果每 4 个放一盘,可以放(　　)盘。

5. 计算 3×6÷2 时,应先算(　　)法,再算(　　)法。

6. 写出商是 7 的两道除法算式:(　　)和(　　)。

7. 把下面的算式按得数的大小从小到大排一排。

45÷5　　24−6　　72÷9　　6×4　　49÷7

三　判断。(对的画“√”,错的画“×”)(每题 1 分,共 5 分)

1. 24÷4=6 表示把 24 平均分成 6 份,每份是 4。(　　)

2. 
它们都是轴对称图形。(　　)

3. (　　)×6<36,括号里最大能填 5。(　　)

4. 计算 63÷9+7 时,应该先算 63÷9。(　　)

5. 从 30 里面连续减 5,减 5 次还剩下 5。(　　)

四　选一选。(把正确答案的序号填在括号里)(每题 2 分,共 10 分)

1. 通过平移能得到图案甲的是(　　)。

甲 　A. 　B. 　C. 

2. ○+○+○+○=32,○代表的数是(　　)。

A. 7　　B. 8　　C. 9

3. 男生有 15 人,女生有 12 人,共分成 3 个小组,平均每个小组有(　　)人。

A. 5　　B. 4　　C. 9

4. 一盒草莓 49 个,吃掉 7 个后,把剩下的平均分给 6 个小朋友,每个小朋友分几个?正确的算式是(　　)。

A. 49−7−6　　B. 49÷7　　C. (49−7)÷6

5. 18 加上 12 除以 6 的商,和是多少?下列说法不正确的是(　　)。

A. 第一步先求商　　B. 第一步先求 18 加 12 的和

C. 列成算式是 18+12÷6

五　算一算,填一填。(1 题 18 分,其余每题 6 分,共 30 分)

1. 计算。

24+16÷8	45÷9×7	5×8−6
42−30÷6	62−(38+24)	4+5×5

2. 在○里填上“+”“−”“×”“÷”或“<”“>”“=”。

48÷8 ○ 54÷9	4 ○ 5>3+6	36 ○ 9=4
36÷6 ○ 2+3	3+6×5 ○ 45	81 ○ 9<10

荣德基

关注微信公众号“捷思课堂”获取更多学习资料!

捷思课堂
学习资料 | 升学信息 | 教育心得
扫码关注获取更多学习资料

3. 先填空，再列综合算式。



综合算式：_____

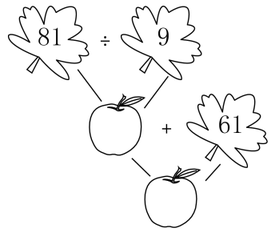

综合算式：_____

六 解决问题。（1～3题每题5分，4、5题每题6分，共27分）

1. 看电影。

票价
成人：8元
儿童：6元



2.





剩下的要4天修完，平均每天修多少米？

3. 星星农场今年粮食大丰收，准备运到粮店出售。一共运了多少袋粮食？





4. 快乐的儿童乐园。



价目表

过山车	每次4元	每辆4人
摇摆车	每次6元	每辆6人
碰碰车	每次8元	每辆3人

（1）都坐过山车，需要几辆？

（2）都坐碰碰车需要几辆？共要花多少钱？

（3）你还能提出其他用乘法或除法解决的问题并解答吗？

5. 右图是方方调查本班同学最喜欢看的动画片情况。

（1）最喜欢看《　　》的人数最多，最喜欢看《　　》的人数最少。

（2）参与调查的一共有多少人？

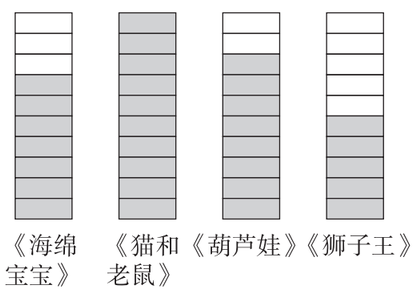

（3）如果每个▭表示5名同学，那么喜欢看《海绵宝宝》和《狮子王》各有多少人？

自己说说

我的心情

老师点评

家长点评

密 封 线

关注微信公众号“捷思课堂”获取更多学习资料！