捷思课堂
学习资料 | 升学信息 | 教育心得
扫码关注获取更多学习资料

姓名 学号 班级 学校 密 封 线



期末测试卷

时间:60 分钟　满分:100 分

题　号	一	二	三	四	五	六	七	总　分
得　分								

一　口算。(12 分)

9×5=	760−700=	40÷8=	1200+800=
6÷6=	63−9=	7×7=	240−70=
24÷6=	30÷5=	900+1000=	8÷1=

二　填空。(每空 1 分,共 18 分)

1. 16 个气球每 4 个扎成一束,可以扎成(　　)束;49 个苹果,(　　)只刺猬来运,平均每只运 7 个。

2. □÷5=6……△,△最大是(　　),最小是(　　)。

3. 在 6×6÷4 中,应该先算(　　)法;在 9×(14÷2)中,应该先算(　　)法。

4. 四千零四写作(　　),7080 读作(　　)。

5. 6999 后面紧接着的 3 个数分别是(　　)、(　　)、(　　)。

6. 从一个数中,连续减去 4 个 5,还剩 1,这个数是(　　)。

7. 在○里填上“>”“<”或“=”。

42÷6 ○ 8　　7000 克 ○ 7 千克　　12÷2 ○ 18÷3

1500−500 ○ 500　　6 千克 ○ 6100 克　　8×4 ○ 8÷4

三　判断。(对的画“√”,错的画“×”)(每题 1 分,共 5 分)

1. 读万以内的数,只要是零都要读。(　　)

2. 用5 0 1 6四张卡片,组成最小的四位数是 1560。(　　)

3. 求 20 里面有几个 5,列式为 4×5=20。(　　)

4. 甲比乙高 10 cm,乙比丙矮 12 cm,那么甲最高,乙最矮。(　　)

5. 仰卧起坐这种运动是旋转现象,引体向上这种运动是平移现象。(　　)

四　选一选。(把正确答案的序号填在括号里)(每题 2 分,共 10 分)

1. 3508>3□09,□里可以填(　　)。

A. 6～9　　B. 5　　C. 0～4

2. 2 个图钉大约重(　　)。

A. 1 克　　B. 100 克　　C. 1 千克

3. 一组图形的排列顺序是△○□▱△○□▱△……,那么第 25 个图形是(　　)。

A. △　　B. ○　　C. □　　D. ▱

4. 你认为下列图形中轴对称图形有(　　)个。



A. 1　　B. 2　　C. 3　　D. 4

5. 下面哪个算盘上的数读作一万,你的选择是(　　)。

A. 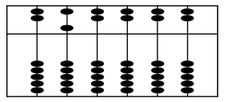

B. 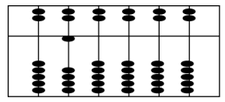

C. 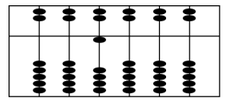

五　计算。(1 题 8 分,2 题 9 分,共 17 分)

1. 用竖式计算。

50÷6=　　78÷8=　　45÷5=　　19÷2=

2. 计算。

80−40÷5　　3+6×4　　32÷(65−57)

六　按要求解决问题。(每题 4 分,共 8 分)

1. 写出上面数的近似数。

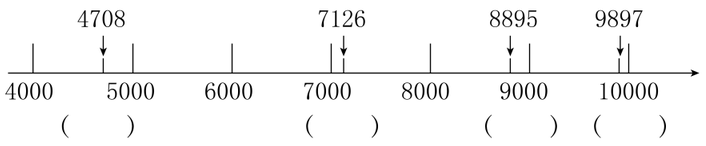

关注微信公众号“捷思课堂”获取更多学习资料!

捷思课堂
学习资料 | 升学信息 | 教育心得
扫码关注获取更多学习资料

2. 下面哪些树叶平移后能与灰色的树叶重合？圈一圈。



七 解决问题。（每题 6 分，共 30 分）

1. 3 个篮子可以放 27 根萝卜，6 个这样的篮子可以放多少根萝卜？

2. 幼儿园买来 54 个皮球。

（1）每个箱子装 8 个，至少需要几个箱子？

（2）如果每个皮球 9 元，50 元最多可以买几个？

3. 二（1）班第一小组一共捐了 27 本故事书和 32 本科技书。可以送给几位小朋友？

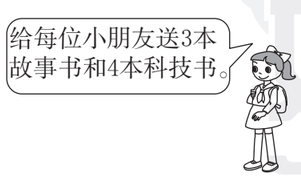

4. 小亮调查水果价格如下表：

水果	苹果	梨	香蕉	石榴
价格	4 元/500 克	3 元/500 克	2 元/500 克	7 元/500 克

（1）买 1 千克苹果和 500 克梨需要多少钱？

（2）买 1500 克香蕉和 1500 克石榴需要多少钱？

5. 下面是创力家电公司某周末的家电销售情况。

电视机　正

冰　箱　正正

空　调　正正正

洗衣机　正

根据上面的统计结果完成下面的统计表。

电器	电视机	冰箱	空调	洗衣机
台数				

（1）根据调查结果，你认为创力家电公司近期多进哪种电器？

（2）你还能提出其他数学问题并解答吗？

自己说说

我的心情

老师点评

家长点评

密 封 线

关注微信公众号“捷思课堂”获取更多学习资料！