捷思课堂
学习资料 | 升学信息 | 教育心得
扫码关注获取更多学习资料

姓名 学号 班级 学校 密 封 线

期中测试卷（一）

第一～五单元

时间：60 分钟　满分：100 分

题　号	一	二	三	四	五	六	总　分
得　分							

一　看谁算得又对又快。（10 分）

420＋70＝	650＋80＝	380＋20＝	280－150＝
460－30＝	460－80＝	53÷7＝	90＋40＝
720－80＝	3000＋5000＝	30＋170＝	900－260＝
70＋300＝	510＋70＝	800－90＝	70÷9＝
600＋130＝	570－50＝	8000－6000＝	4000＋700＝

二　我会填。（1 题 4 分，2 题 2 分，其余每空 1 分，共 32 分）

1.

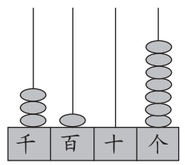

（　　）个千、（　　）个百和（　　）个一组成（　　）。

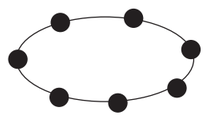

32 个珠子最多可以穿成（　　）串，还剩（　　）个。

2.



□÷□＝□（堆）……□（个）

3. 7 个百和 8 个十合起来是（　　）；由 8 个千和 6 个十组成的数是（　　）。

4. 一个数的最高位是万位，它是（　　）位数。

5. 下面的 5 各表示多少？

570 中的 5 表示（　　）。　　805 中的 5 表示（　　）。

5346 中的 5 表示（　　）。　　9053 中的 5 表示（　　）。

6.

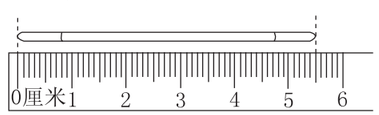

（　　）毫米

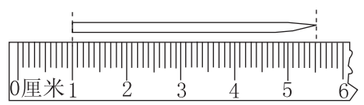

（　　）毫米

7. 比 525 米长 90 米的是（　　）米，比 900 少 460 的数是（　　）。

8. 友谊商场 6 月份卖出 415 台冰箱，7 月份卖出 491 台冰箱，这两个月共卖出（　　）台冰箱，7 月份比 6 月份多卖出（　　）台。

9. 比一比，在○里填上“＞”“＜”或“＝”。

999 ○ 1000　　6543 ○ 6534　　4 千米 ○ 500 毫米

800 米 ○ 8 千米　　9 厘米 ○ 1 分米　　500 厘米 ○ 50 分米

10. 1 分米－4 厘米＝（　　）厘米

58 厘米－38 厘米＝（　　）厘米＝（　　）分米

11. 在一道除法算式中，除数和商都是 7，余数最大是（　　），这时被除数是（　　）。

12. 按照规律在（　　）里画出第 34 个图形。

☆☆☆◇◇○☆☆☆◇◇○☆☆☆◇◇○☆☆……（　　）……

三　读数、写数、排序我能行。（2 题 3 分，其余每题 2 分，共 7 分）

1. 分别写出下面横线上的数。

某水库自然风景区内约有一千七百零八公顷森林，约有三千六百五十九公顷滩地。

写作：（　　）（　　）

2. 分别读出下面横线上的数。

某山主峰高度为3556 米，巍峨壮丽，其保护区内有高约2590 米的高山，山上生长着成片的油松林，云杉混交林，而在2400 米的高山阳坡上，生长着浅绿色的山杨。

读作：（　　）（　　）（　　）。

3. 把上面的 5 个数按从大到小的顺序排列。

四　按要求做一做。（1、2 题每题 3 分，3 题 4 分，共 10 分）

1. 下面三张照片哪张是从恐龙的后面拍的？在正确答案的下面画“○”；哪张是从恐龙的侧面拍的？在正确答案的下面画“×”。



（　　）　　（　　）　　（　　）

2. 下面右边的图分别是谁看到的？连一连。





关注微信公众号“捷思课堂”获取更多学习资料！

3. 量一量。

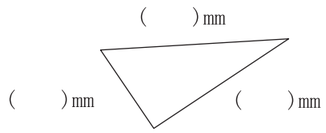

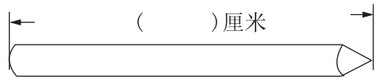

五 我会算。（1 题 3 分，2 题 14 分，共 17 分）

1. 估一估。

293＋304≈　　506＋292≈　　704－595≈

902－704≈　　101＋897≈　　404－98≈

2. 用竖式计算，带★的要验算。

70÷8＝　　43÷5＝　　★674＋235＝

542－218＝　　490＋215＝　　★948－657＝

六 解决问题。（1、2 题每题 9 分，3 题 6 分，共 24 分）

1. （1）有 55 枝花，把这些花平均插在 9 个花瓶里，每个花瓶里插几枝？还剩几枝？

（2）2 米布做一条床单，19 米布最多可以做多少条床单？

（3）二（1）班有 38 人租面包车去春游，每辆面包车限乘 8 人，至少需要租几辆面包车？

2. 购物。


495元


137元


195元


308元

（1）妈妈买一个和一辆，她大约要付多少元？

（2）一个电饭煲比一辆自行车贵多少元？

（3）李阿姨要买一个旅行包和一个电饭煲，带 800 元够吗？

3. 小朋友按照下面的规律穿珠子，48 颗珠子里面有多少颗白珠子？有多少颗黑珠子？

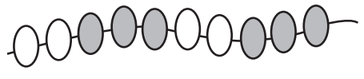

捷思课堂
学习资料 | 升学信息 | 教育心得
扫码关注获取更多学习资料
自己说说
我的心情
老师点评
家长点评
密
封
线
好卷