捷思课堂
学习资料 | 升学信息 | 教育心得
扫码关注获取更多学习资料

姓名 学号 班级 学校 密 封 线



期中测试卷（二）

第一～五单元

时间：60 分钟　满分：100 分

题　号	一	二	三	四	五	六	七	总　分
得　分								

一　我会填。（每空 1 分，共 20 分）

1.

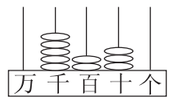

读作：_____　　写作：_____

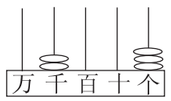

读作：_____　　写作：_____

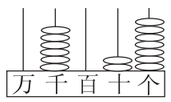

读作：_____　　写作：_____

2. 3465 的最高位是（　　）位，“6”在（　　）位上，表示（　　）；“3”在（　　）位上，表示（　　）。

3. 40 个十是（　　），10 个（　　）是 10000。

4. 一台录音机，原价为 478 元，现价为 380 元，便宜了（　　）元。

5. 有 29 个，每 4 个装一盒，至少需要（　　）个盒子。

6. 照这样穿下去，第 28 个小球是（　　）。

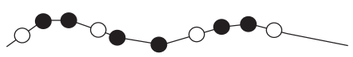

7. 在（　　）里填上适当的长度单位。

一只鞋子大约长 2（　　）。　　一张课桌大约高 70（　　）。

一粒黄豆大约长 7（　　）。　　一条高速公路长 550（　　）。

二　仔细判一判。（对的打“√”，错的打“×”）（每题 1 分，共 5 分）

1. 从右边起，第四位是千位。（　　）

2. 在有余数的除法里，余数要比商小。（　　）

3. 54÷7＝8……2（　　）

4. 与 998 相邻的两个数是 999 和 1000。（　　）

5. 636 中的两个 6 都表示 6 个一。（　　）

三　精心选一选。（每题 1 分，共 5 分）

1. 下面的数中，与最小的四位数最接近的是（　　）。

A. 9999　　B. 1111　　C. 999

2. 你走 10 步大约是（　　）。

A. 6 米　　B. 6 分米　　C. 6 厘米

3. 这支铅笔的长度还差（　　）毫米就是 6 厘米长。

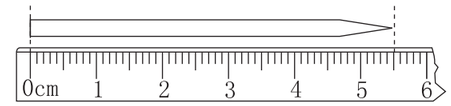

A. 5　　B. 3　　C. 7

4. 5007 读作（　　）。

A. 五千零零七　　B. 五千零七　　C. 五零零七

5. 由 4 个千、6 个十、8 个一组成的数是（　　）。

A. 4680　　B. 4068　　C. 4608

四　想一想，填一填，画一画。（4 题 12 分，其余每题 4 分，共 24 分）

1. 在你认为合适的答案下面画“√”。

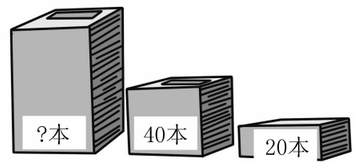

300 本	80 本	120 本

2. 给你 500 元，买哪两样东西，剩的钱最少？在你认为合适的答案下面画“√”。

赛车 231 元	电风扇 150 元	电饭煲 260 元

3. 画一画，再写数。

（1）4 个百、5 个十、2 个一

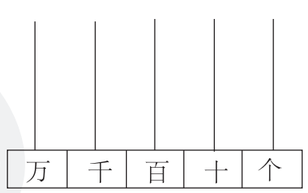

写作：（　　）

（2）五千零二

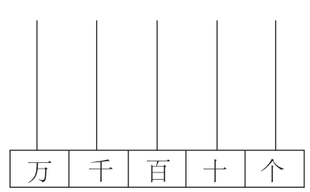

写作：（　　）

荣德基

关注微信公众号“捷思课堂”获取更多学习资料！

捷思课堂
学习资料 | 升学信息 | 教育心得
扫码关注获取更多学习资料

4. 想一想，画一画。

（1）13 根小棒，每 3 根一份，可以分成（　　）份，还剩（　　）根。

□ ÷ □ = □（份）……□（根）

下面已经给出一些小棒，请你接着画一画，圈一圈。

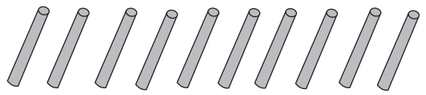

（2）13 根小棒，平均分成 4 份，每份（　　）根，还剩（　　）根。

13 ÷ 4 = □（根）……□（根）

下面已经给出一些小棒，请你接着画一画，圈一圈。

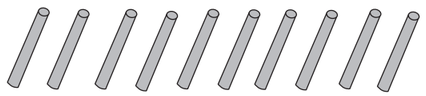

五 我会算。（1 题 6 分，2 题 10 分，共 16 分）

1. 直接写得数。

400＋60＝	540－40＝	67÷8＝	520＋90＝
500＋500＝	44÷5＝	180＋320＝	680＋200＝
1000－700＝	560－420＝	56÷9＝	160＋540＝

2. 用竖式计算，带★的要验算。

62÷9＝　　592＋103＝　　★238＋254＝　　★907－265＝

六 右边的那幅图是谁看到的？写出其字母代号。（6 分）



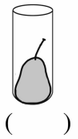

（　　）

七 解决问题。（每题 8 分，共 24 分）

1. 一盒饼干 8 元钱，王叔叔带了 70 元。

（1）他最多可以买多少盒？剩下多少元？

（2）如果他想多买一盒，还差多少元？

2. 丽丽统计全校学生最喜欢吃的水果情况如下：

桃子	梨	苹果
303 人	198 人	399 人

（1）最喜欢吃梨和苹果的一共大约有多少人？

（2）最喜欢吃桃子的比最喜欢吃苹果的大约少多少人？

3. 小红家在艺术宫正西边 420 米处，在人民医院正东边 270 米处。

（1）小红家到艺术宫比到人民医院远多少米？


人民医院


小红家

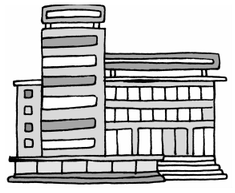
艺术宫

北 ↑

（2）从人民医院到艺术宫要走多少米？

好卷

自己说说

密 我的心情

封 老师点评

线

家长点评



关注微信公众号“捷思课堂”获取更多学习资料！