捷思课堂
学习资料 | 升学信息 | 教育心得
扫码关注获取更多学习资料

期中检测卷

（40 分钟　100 分）　(答案见 83 页)

开始计时：_____

一 填一填。（每空 0.5 分，共 17 分）

1. 13 个萝卜，平均分给 4 只小兔，每只小兔分(　　)个，还余(　　)个。

   算式是□÷□=□（个）……□（个）

2. 在□÷6=4……□中，余数最大是（　　）。

3. 有一个数，百位上是 2，个位上是 4，十位上是 0，这个数是（　　）。

4. 8002 读作（　　），三千九百写作（　　）。

5. 按规律填数。

（1）2080、2090、(　　)、(　　)。

（2）3200、3100、(　　)、(　　)。

6. 5 厘米=（　　）毫米

   400 分米=（　　）米

7. 在（　　）里填上合适的单位名称。





厚约 2（　　）　每小时约行 70（　　）

8. 在○里填上“>”“<”或“=”。

   6 厘米○50 毫米

   500 厘米○50 分米

   9 厘米○1 分米

   5 千米○50 米

9. 用数字 3、6、9 组成没有重复数字的最大三位数是（　　），最小的三位数是（　　）。

10. 把下面的数按照从大到小的顺序排列。



（　　）>（　　）>（　　）>（　　）>（　　）

11. 如果 32 + △ = 120，那么 120 − △=（　　）。

12. 观察下面的物体。（三个球并排）



（1）从侧面看到的图形是（　　）个圆。

（2）从上面看到的图形是（　　）个圆。

（3）从前面看到的图形是（　　）个圆。

13. 老师把 42 名同学分组做游戏，按 1、2、3 的顺序轮流报数，报 1 的同学分在 A 组，报 2 的同学分在 B 组，报 3 的同学分在 C 组，笑笑排在第 25 个，她应分在（　　）组。

二 判断。（每题 2 分，共 12 分）

1. 读数和写数都从个位起。（　　）

2. 操场的跑道一圈通常是 400 千米。（　　）

3. 与 999 相邻的两个数是 900 和 1000。（　　）

4. 37÷6=5……7。（　　）

5. 一个四位数，最高位上是 8，十位上的数比最高位上的数少 2，其余数位上都是 0，这个数是 8060。（　　）

关注微信公众号“捷思课堂”获取更多学习资料！

捷思课堂
学习资料 | 升学信息 | 教育心得
扫码关注获取更多学习资料

6. 从上面、侧面、前面观察长方体，看到的图形一定都不相同。（　　）

三 选一选。（每题 2 分，共 12 分）

1. 一支铅笔原来长 2 分米，用去了 1 厘米，还剩下（　　）。

A. 1 厘米　B. 10 厘米　C. 19 厘米

2. 下面各数中，最接近 600 的数是（　　）。

A. 598　B. 697　C. 508

3. 一百一百地数，数到 3900，下一个数应该是（　　）。

A. 3901　B. 3910　C. 4000

4. 4265＝（　　）＋200＋60＋5。

A. 4　B. 400　C. 4000

5. 小白兔要将 83 个蘑菇分装在篮子里，如果每个篮子放 9 个蘑菇，至少需要（　　）个篮子。

A. 8　B. 9　C. 10

6. 在 7077 这个数中，右起第三个 7 表示（　　）。

A. 7 个十　B. 7 个一

C. 7 个千

四 计算。（1 题 9 分，2 题 4 分，3 题 10 分，共 23 分）

1. 口算。

300－40＝　　24÷3＝

230＋60＝　　370－150＝

54÷9＝　　6×5＝

72＋21＝　　70－50＋20＝

120＋220＝

2. 估算。

899＋103≈　　796－418≈

288＋311≈　　513－289≈

3. 用竖式计算，带☆的要验算。

38÷7＝　　☆397＋251＝

485＋321＝　　☆981－264＝

五 他们分别看到了什么？连一连，（3 分）





六 解决问题。（1～3 题每题 5 分，4～6 题每题 6 分，共 33 分）

1.



小红家和奶奶家相距多少千米？

关注微信公众号“捷思课堂”获取更多学习资料！

捷思课堂
学习资料 | 升学信息 | 教育心得
扫码关注获取更多学习资料

2. 两人共踢了多少下？

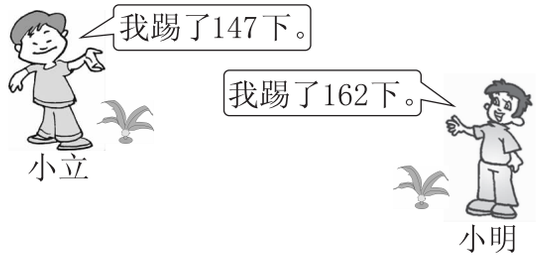

3.

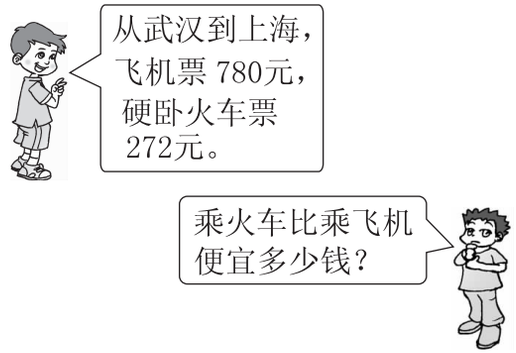

4.



5. 把40个鸡蛋装在下面的盒子里，至少需要多少个这样的盒子才能将这些鸡蛋都装完？

6.



（1）买一件上衣和一条裙子，大约需要多少元？

（2）你还能提出什么问题？提出一个并解答。

结束时间：_____

关注微信公众号“捷思课堂”获取更多学习资料！