捷思课堂
学习资料 | 升学信息 | 教育心得
扫码关注获取更多学习资料

姓名_____ 学号_____ 班级_____ 学校_____ 密 封 线



期末测试卷（一）

时间：60 分钟　满分：100 分＋10 分

题　号	一	二	三	四	五	六	七	附加题	总　分
得　分									

一　看谁算得又对又快。（10 分）

34＋53＝	27＋43＝	50÷8＝	62÷9＝
56＋44＝	42＋25＝	90＋80＝	35－22＝
80－21＝	600＋4000＝	20÷3＝	1000－800＝
37＋26＝	1200－400＝	98－63＝	7000＋1000＝
401－195≈	202＋397≈	497－206≈	802－395≈

二　我会填。（每空 1 分，共 26 分）

1. 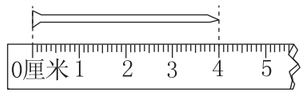

铁钉长（　　）厘米

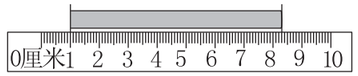

小棒长（　　）毫米

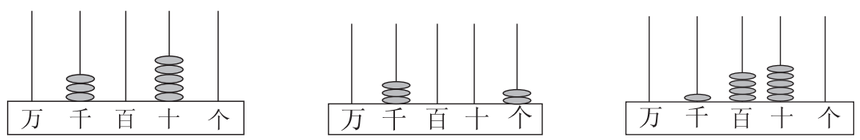

2.

写作：_____

读作：_____

写作：_____

3. 把一堆花生平均分给 4 个小朋友，如果有剩余，可能剩（　　）个。
4. 一万里面有（　　）个千，10 个百是（　　），40 个百是（　　）。
5. 一台电脑的价钱是 3994 元，约是（　　）元。
6. 6 米＝（　　）分米　　230 毫米＝（　　）厘米
   4 千米＝（　　）米　　47 厘米＝（　　）毫米
7. 把 19 块蛋糕装在盒子里，每 8 块装一盒，至少需要（　　）个盒子；一根绳子长 17 米，剪成 2 米长的跳绳，最多能剪（　　）根这样的跳绳。
8. 找规律填数。
   （1）7700、7800、7900、（　　）、（　　）、8200。
   （2）9150、（　　）、（　　）、8850、8750。
9. □÷6＝7……☆，☆最大是（　　），这时□是（　　）。
10. 用 5、0、0、3 四个数字组成最大的四位数是（　　），最小的四位数是（　　），一个零都不读的四位数是（　　）。
11. ，第 25 颗是（　　）色的。

三　选一选。（每题 1 分，共 5 分）

1. 下列数中，最接近 6000 的是（　　）。
   A. 5892　　B. 6435　　C. 6902
2. 下面的数中，一个零也不读的是（　　）。
   A. 2900　　B. 2090　　C. 2009
3. 四年级有 306 人，五年级有 298 人，二年级的学生人数比四、五年级的学生总人数少一些，二年级可能有（　　）名学生。
   A. 290　　B. 590　　C. 620
4. 由 5 个千和 4 个十组成的数是（　　）。
   A. 504　　B. 5040　　C. 5004
5. 把长方形桌面锯掉一个角，剩余部分的形状就是（　　）。
   A. 五边形　　B. 三角形　　C. 以上都有可能

四　用竖式计算，带“★”的要验算。（14 分）

55÷6＝	★296＋315＝	708－547＋265＝
478＋356＝	★800－525＝	928－679－175＝

五　它们看到的分别是羊的哪一面？小猴看到的画“√”，小狗看到的画“×”，小兔看到的画“○”。（6 分）



（　）　（　）　（　）

荣德基

关注微信公众号“捷思课堂”获取更多学习资料！

六 下面是光明小学二年级同学参加部分兴趣小组的记录情况。（1题6分，2题5分，共11分）

航模组	书法组	美术组	电脑组	科技组
正丅	正	正正丆	正正下	丆

1. 把统计出的数据整理到下面的表格中。

合计	航模组	书法组	美术组	电脑组	科技组
（　　）人	（　　）人	（　　）人	（　　）人	（　　）人	（　　）人

2. 参加舞蹈组的人数是参加航模组和科技组人数总和的2倍，参加舞蹈组的有多少人？

七 解决问题。（1～4题每题4分，5、6题每题6分，共28分）

1. 一本笔记本2元，明明有15元钱，最多可以买几本？

2. 一根绳子，对折两次后长5分米，这根绳子原来有多少米长？

3. 水果店共运进了637千克西瓜，上午卖出了182千克，下午卖出了310千克，还剩多少千克？

4. 王阿姨买了一套茶具，茶壶每个48元，6个杯子一共54元。一个茶壶比一个杯子贵多少钱？



5. 19只小动物参加森林运动会，用面包车送走8只小动物后，剩下的坐小汽车，至少需要几辆小汽车？



6. 七星瓢虫和蝴蝶一共有多少只？



附加题 （10分）

下面题目中的字母分别代表几？

$$\begin{array}{r} a\ b\ c\ d \\ +\ a\ b\ c\ d \\ \hline 7\ 4\ 5\ 8 \end{array}$$

$a=$（　　）　　$b=$（　　）　　$c=$（　　）　　$d=$（　　）

自己说说

我的心情

老师点评

家长点评

密 封 线

关注微信公众号“捷思课堂”获取更多学习资料！