捷思课堂
学习资料 | 升学信息 | 教育心得
扫码关注获取更多学习资料

姓名＿＿＿＿＿＿ 学号＿＿＿＿＿＿ 班级＿＿＿＿＿＿ 学校＿＿＿＿＿＿
密 封 线

小学毕业会考模拟卷（一）

时间：90 分钟　满分：100 分

题　号	一	二	三	四	五	六	总　分
得　分							

一　我会填。（每空 1 分，共 21 分）

1. 地球上海洋面积是 362000000 平方千米，改写成用“万”作单位的数是（　　）万平方千米，省略“亿”位后面的尾数约是（　　）亿平方千米。
2. 夏天，济南气温高达三十九摄氏度，记作＋39 ℃；冬天，长春的气温低至零下二十九摄氏度，记作（　　）。
3. 在括号里填上适当的数。

   8090 毫米＝（　　）米　　4 吨 50 千克＝（　　）吨

   6.06 立方米＝（　　）升　　3.05 小时＝（　　）小时（　　）分
4. 把$\frac{4}{5}$千克茶叶平均装在 6 个盒子里，每盒装这些茶叶的（　　），每盒装（　　）千克。
5. 美术班有男生 6 人，女生 15 人，如果按学号任意点名，点到（　　）的可能性大。（填“男生”或“女生”）
6. $\frac{7}{8}$∶0.375 化成最简整数比是（　　），比值是（　　）。
7. 甲数是 24，甲、乙两数的最小公倍数是 168，最大公因数是 4，那么乙数是（　　）。
8. 有一个最简分数，如果分子加上 1，则分子比分母少 2；如果分母加上 1，则分数值等于$\frac{1}{2}$。原来的分数是（　　）。
9. 一个圆柱，如果将高截短 3 厘米，其表面积减少 18.84 平方厘米，这个圆柱的体积减少（　　）立方厘米。
10. 如果$\frac{x}{8}=y$，那么 x 和 y 成（　　）比例。如果$\frac{8}{x}=y$，那么 x 和 y 成（　　）比例。
11. 用 18 根 1 米长的小棒拼成一个长方形，有（　　）种不同的拼法，面积最大是（　　）平方米，最小是（　　）平方米。

二　我会辨。（每题 1 分，共 5 分）

1. 真分数都小于 1，假分数都大于 1。（　　）
2. 小亮身高 1.5 米，在平均水深 1.4 米的水池中学游泳没有危险。（　　）
3. 绘制折线统计图可以较好地反映出物价的升降情况。（　　）
4. 1996 年，2000 年，2014 年的第一季度都是 91 天。（　　）
5. 3 个连续自然数的和一定是 3 的倍数。（　　）

三　我会选。（将正确答案的序号填在括号里）（每题 1 分，共 5 分）

1. 把一根底面直径为 2 米的圆柱锯成相同的三段小圆柱，表面积增加了（　　）平方米。

   A. 6.28　　B. 9.42　　C. 12.56
2. 三个连续偶数，其中最小的一个是 n，那么另外两个数是（　　）。

   A. $n+2$ 和 $n-2$　　B. $n+2$ 和 $n+4$　　C. $n-2$ 和 $n-4$
3. 王明上山时每小时行 4 千米，下山时每小时行 5 千米，他上、下山的平均速度是每小时（　　）千米。

   A. 4.5　　B. $\frac{2}{9}$　　C. $4\frac{4}{9}$
4. 1、2、3、5 都是 30 的（　　）。

   A. 因数　　B. 质因数　　C. 质数
5. 在比例尺是 1∶30000000 的地图上，量得甲、乙两地的距离是 5.6 厘米，一辆汽车按 3∶2的比分两天行完全程，两天行驶的路程差是（　　）千米。

   A. 672　　B. 1008　　C. 336

四　我会算。（1 题 4 分，2 题 12 分，3 题 6 分，共 22 分）

1. 直接写出得数。

   $0.3\times1.5=$　　$\frac{7}{18}\times\frac{3}{14}=$　　$3.75\times\left(0.375-\frac{3}{8}\right)=$　　$0.3+\frac{3}{100}\div\frac{3}{10}=$

   $42\div60\%=$　　$0.5\div0.01=$　　$\frac{4}{9}\div\frac{2}{3}\times\frac{9}{4}\times\frac{2}{3}=$　　$24\times\left(\frac{1}{4}+\frac{1}{6}+\frac{1}{8}\right)=$
2. 用你喜欢的方法计算。

   （1）$\frac{1}{25}\times99+\frac{1}{25}$　　（2）$3.75+839-1.75+161$

   （3）$\left(\frac{1}{2}-\frac{1}{6}\right)\times\frac{3}{5}\div\frac{1}{5}$　　（4）$\left[1.4+\left(5.4-\frac{9}{4}\right)\times\frac{8}{3}\right]\times\frac{9}{10}$

关注微信公众号“捷思课堂”获取更多学习资料！

3. 解比例或方程。

（1）60%x+14=32.6　　（2）1.8∶x=7.2∶0.8

五 动手操作题。（1题3分，2题9分，共12分）

1. 右图是一个正方体的展开图，请你在3个空格中填上合适的数字，使得在原正方体中，两个相对面上的数字之和都是10。

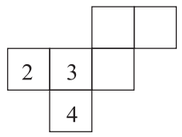

2. 按要求做题。

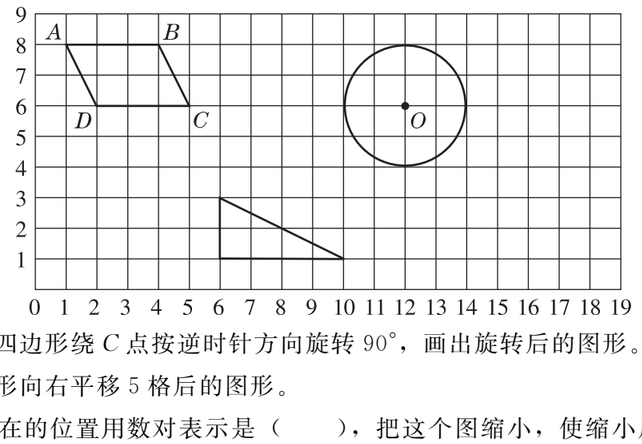

（1）把图中的平行四边形绕C点按逆时针方向旋转90°，画出旋转后的图形。

（2）画出图中三角形向右平移5格后的图形。

（3）圆的圆心O所在的位置用数对表示是（　　），把这个图缩小，使缩小后的半径与原半径的比是1∶2。

六 解决问题。（6题10分，其余每题5分，共35分）

1. 美美的妈妈是一位作家，最近写了一本书，获得稿费3800元。按规定，一次稿费超过800元的部分按14%的税率纳税，美美的妈妈实得稿费多少元？

2. 某修路队修一段公路，总长12千米。开工3天修了1.5千米。照这样计算，修完这段公路还要多少天？（用比例解）

3. 下图是根据某市2013年1月1日至6日最高气温所绘制的条形统计图。

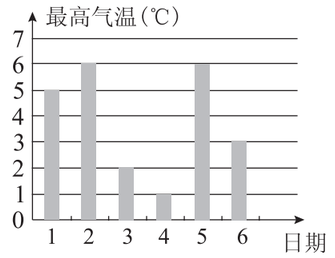

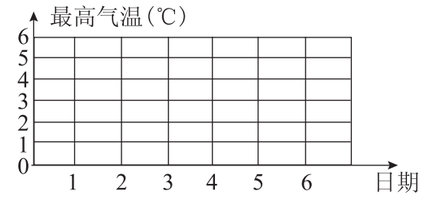

（1）请根据条形统计图中提供的数据，绘制折线统计图。

（2）如果要反映这六天最高气温的变化情况，应采用折线统计图还是条形统计图？

4. 在30米长的一段路的一侧植树，从头到尾共植4棵，相邻两棵树之间的距离是多少米？

5. 王晶星期天想帮妈妈做家务，下面是分别所需时间：

拖地（5分钟）　擦桌子（3分钟）　炒菜（6分钟）　淘米（2分钟）　煮饭（20分钟）

怎样做得快？至少要用多少分钟？

6. 加工一批零件，师傅每天加工54个，如果徒弟单独加工，17天完成，现在两人同时工作，完成任务时，师徒二人加工零件个数的比是9∶8，这批零件有多少个？

捷思课堂
学习资料 | 升学信息 | 教育心得
扫码关注获取更多学习资料
自己说说
我的心情
密
封
线
老师点评
家长点评
好卷