捷思课堂
学习资料 | 升学信息 | 教育心得
扫码关注获取更多学习资料

小学毕业会考模拟卷（三）

一、1. 32　4　80　60　八

2. 74030.809　七万四千零三十点八零九　74030.81

3. 30

4. 750　750＝2×3×5×5×5

5. 25　27　29

6. 1.16 米

7. 45　10080　2.07

8. 平移　旋转

9. 6　4

10. 75.36　[点拨]减少的表面积就是截去小圆柱的侧面积。

11. 条形　折线

二、1. ×　2. ×

3. ×　[点拨]余数应该是 400。

4. ×　5. √

三、1. B　2. B　3. A　4. A　5. C

四、1. $\frac{3}{4}$　$\frac{7}{20}$　80　2.17

0.98　$1\frac{1}{2014}$　201000　3.5

2. (1) 3.5×9.9＋0.35

＝3.5×9.9＋3.5×0.1

＝3.5×（9.9＋0.1）

＝35

(2) $36\times\left(\frac{2}{3}+\frac{5}{9}-\frac{1}{6}\right)$

$=36\times\frac{2}{3}+36\times\frac{5}{9}-36\times\frac{1}{6}$

＝24＋20－6

＝38

(3) 0.8×［1÷（4.2－3.95）］

＝0.8×［1÷0.25］

＝0.8×4

＝3.2

关注微信公众号“捷思课堂”获取更多学习资料！

捷思课堂
学习资料 | 升学信息 | 教育心得
扫码关注获取更多学习资料

(4) $\left(\frac{8}{15}+\frac{9}{20}\times\frac{2}{3}\right)\div\frac{1}{12}$

$=\left(\frac{8}{15}+\frac{3}{10}\right)\times 12$

$=10$

3. (1) $x=12$　(2) $x=\frac{14}{15}$

五、1. (1) 西　60　500

(2)

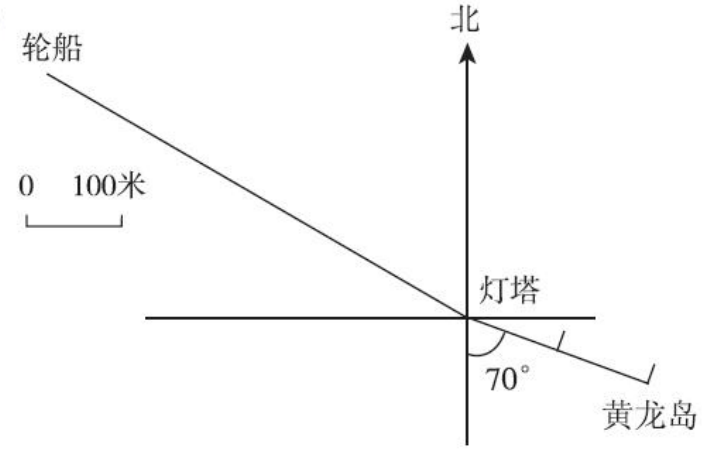

2.

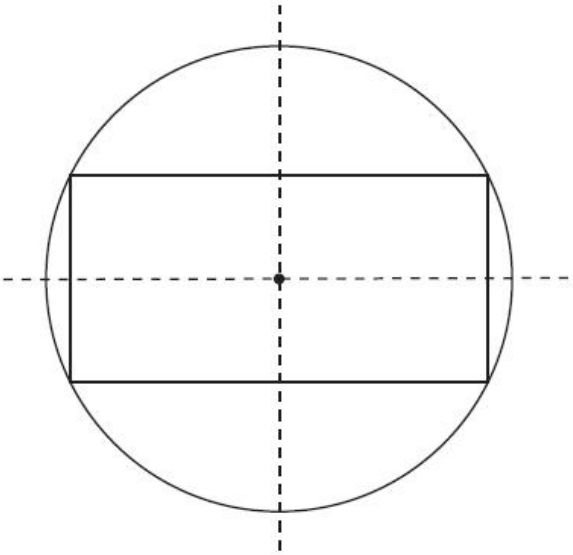

3.

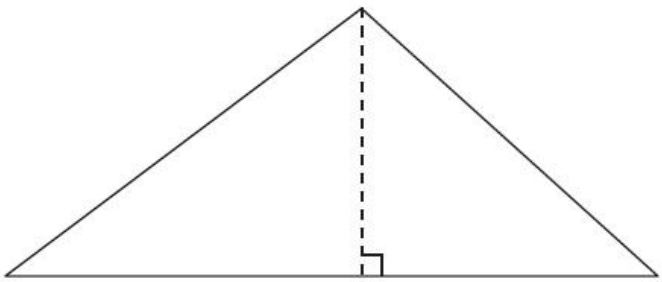

测量结果及计算面积略。

关注微信公众号“捷思课堂”获取更多学习资料！

捷思课堂
学习资料 | 升学信息 | 教育心得
扫码关注获取更多学习资料

六、1. $(384-64)\div(38+42)=320\div80=4$（小时）

答：乙车出发后经过 4 小时两车相遇。

2. 解：设这个水库里共有 x 万条鱼。

$3000:x=20:4$

$20x=3000\times4$

$x=600$

答：这个水库里共有 600 万条鱼。

[点拨]列的比例可以不同，如 $3000:20=x:4$。

3. $600\times\frac{1}{1+2}=200$（元）　$600\times\frac{1}{1+3}=150$（元）

$600-200-150=250$（元）　答：丙应付 250 元。

4. $3.14\times(20\div2)^2\times18=3.14\times100\times18=5652$（立方分米）

$0.72\times5652\div1000$　4（吨）　答：油罐最多能装 4 吨汽油。

5. 白兔
黑兔
40只

解：设白兔有 x 只，则黑兔有 $\frac{3}{5}x$ 只。

$x+\frac{3}{5}x=40$

$x=40\times\frac{5}{8}$

$x=25$

$\frac{3}{5}x=25\times\frac{3}{5}=15$

答：黑兔有 15 只。

6. 解：设这支队伍的长度为 x 千米。

$\frac{x}{11-7}+\frac{x}{11+7}=0.22$

$\frac{x}{4}+\frac{x}{18}=0.22$

$\frac{x}{4}\times36+\frac{x}{18}\times36=0.22\times36$

$9x+2x=7.92$

$x=0.72$

答：这支队伍的长度为 0.72 千米。

关注微信公众号“捷思课堂”获取更多学习资料！