捷思课堂
学习资料 | 升学信息 | 教育心得
扫码关注获取更多学习资料

姓名 学号 密 封 班级 线 学校

期中测试卷

第一～四单元

时间：80 分钟　满分：100 分

题　号	一	二	三	四	五	六
得　分						

一　填一填。（每题 2 分，共 22 分）

1. 657－(　　) ＝179　　(　　)÷34＝45　　(　　)×26＝1300

2. 209－44＝165，45÷3＝15，165÷15＝11，将这三个算式改写成综合算式是(　　)。

3. 
①　②　③　④

以上四个图形中，从前面看，形状是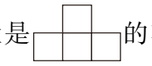的有（　　）；从左面看，形状是的有（　　）；从上面看，形状是的有（　　）。

4. 在□里填上合适的数，在○里填上合适的运算符号。

72×125＝□×(□×125)　　99×82＋99＝□×(□○□)

5. 在○里填上“＞”“＜”或“＝”。

84÷6÷2 ○ 84÷（6÷2）　3.4 千克○3 千克 40 克　0.49 ○ 0.490

6. 19.495 保留整数是（　　），保留一位小数是（　　），精确到百分位是(　　)。

7. 一个两位小数，十位和百分位上的数字都是 2，其余各位都是 0，这个数是（　　），读作（　　）。百分位上的“2”表示（　　）。

8. 按从小到大的顺序排列下列各数：0.9、0.96、0.096、0.906、9.6（　　）。

9. 我国最大的百科全书《永乐大典》共计22877卷，改写成以“万”作单位的数是（　　），保留两位小数是（　　）。

10. 0.9 里面有（　　）个$\frac{1}{100}$，把 0.0305 扩大到它的 100 倍是（　　）。

11. 20×125×5×8＝(20×5)×(125×8)，这里运用了（　　）律。

二　辨一辨。（对的画“√”，错的画“×”）（每题 1 分，共 5 分）

1. 去掉 6.700 和 50.90 中的“0”，它们的大小不变。（　　）

2. 如图，从前面和左面看到的图形相同。（　　）

3. 78＋22－78＋22＝0。（　　）

4. 将 3.50 的小数点去掉，相当于把这个数扩到它的 100 倍。（　　）

5. 910÷35＝910÷7×5。（　　）

三　选一选。（把正确答案的序号填在括号里）（每题 1 分，共 5 分）

1. 算式 24×5÷6 和算式 24＋5－6 的运算顺序（　　）。

A. 一样　　B. 不一样　　C. 不能相比　　D. 无法确定

2. 与 73×101 的计算结果相等的式子是（　　）。

A. 73×100＋1　　B. 73×100＋73　　C. 73×(100－1)　　D. 73×(101－1)

3. 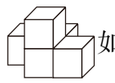如图，从上面看到的形状是（　　）。


A　　B　　C　　D

4. 把 4.06 的小数点先向左移动 2 位，再向右移动 3 位，最后向左移动 2 位的结果是（　　）。

A. 4060　　B. 406　　C. 0.406　　D. 0.0406

5. 大于 0.6 而小于 0.7 的两位小数有（　　）个。

A. 0　　B. 9　　C. 无数　　D. 没有

四　算一算。（1 题 8 分，2 题 10 分，3 题 12 分，共 30 分）

1. 直接写得数。

64×3÷8＝	6×6－20＝	0.045×100＝	0.9÷100＝
0×36÷6＝	50×(20－2)＝	14×6＝	4×80－4×55＝

2. 先在□里填上适当的数，再列出综合算式。

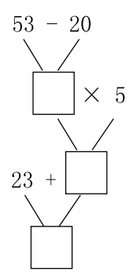

综合算式：_____

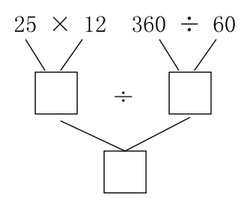

综合算式：_____

关注微信公众号“捷思课堂”获取更多学习资料！

捷思课堂
学习资料 | 升学信息 | 教育心得
扫码关注获取更多学习资料

3. 计算下列各题，能简算的要简算。

5×[537－(47＋137)]　　(87－25)×12÷6　　102×65

125×808　　263＋48＋137＋42　　1200÷25÷8

五　连一连。(12 分)

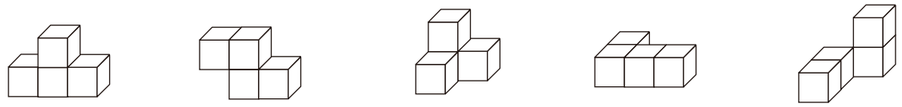

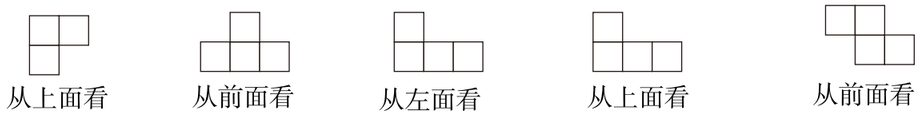

从上面看　从前面看　从左面看　从上面看　从前面看

六　解决问题。(5 题 6 分，其余每题 5 分，共 26 分)

1. 一捆电线长 400 米，第一次用去了 136 米，第二次用去了 64 米，第三次用去了 150 米，这捆电线还剩下多少米？

2. 食堂一次购回大米 8 袋和色拉油 8 瓶，一共用了多少元？



75元　50元

3. 100 千克花生可以榨油 39 千克，10 千克花生可以榨油多少千克？1 吨花生可以榨油多少千克？

4. 某水泥厂生产了 1200 吨水泥，用载重 24 吨的大卡车 5 辆运往建筑工地。几次可以运完？

5. 阳光旅行社推出“赏花一日游”活动，现推出两种方案：
方案一：大人：180 元/人　　小孩：120 元/人
方案二：团体 10 人以上（含 10 人），150 元/人
(1) 8 个大人，4 个小孩，选哪种方案更划算？

(2) 8 个小孩，4 个大人，选哪种方案更划算？

自己说说

我的心情

老师点评

家长点评

密　封　线

关注微信公众号“捷思课堂”获取更多学习资料！