捷思课堂
学习资料 | 升学信息 | 教育心得
扫码关注获取更多学习资料

姓名 学号 班级 学校 密 封 线



期末测试卷（一）

时间：80 分钟　满分：100 分

题　号	一	二	三	四	五	六	总　分
得　分							

一　填一填。（每空 1 分，共 27 分）

1. 由 3 个一、9 个十分之一、4 个千分之一组成的小数是（　　），精确到十分位得到的近似数是（　　），保留两位小数得到的近似数是（　　）。
2. 把 3.625 扩大到它的（　　）倍是 3625，把（　　）的小数点向左移动两位是 0.0068。
3. 把下面各数按从大到小的顺序排列。

   6.85　　8.065　　5.86　　8.56　　8.605

   （　　）＞（　　）＞（　　）＞（　　）＞（　　）
4. 一个三角形的两个内角分别是 34°和 75°，这个三角形是（　　）三角形。
5. 小军有 a 枚邮票，小刚的邮票比小军的 3 倍还多 2 枚，小刚有（　　）枚邮票。当 $a=12$ 时，小刚有（　　）枚邮票。
6. 一根长 13 厘米的小棒，截成整厘米长的三段围成三角形，这三段长可以是（　　）厘米、（　　）厘米、（　　）厘米。
7. $45\times25\times4\times2=(45\times2)\times(25\times4)$，应用了（　　）律和（　　）律。
8. 在◯里填上“＞”“＜”或“＝”。

   3 吨 60 千克◯3.6 吨　　8 平方米◯790 平方分米

   4.9 元◯4.90 元　　4 千米 50 米◯4.05 千米
9. 月球是地球的卫星，距地球的平均距离是384401 千米，将横线上的数改写成用“万”作单位的数是（　　）万，保留一位小数得到的近似数是（　　）万。
10. 一个三位小数精确到百分位得到的近似数是 2.82，这个小数最大是（　　），最小是（　　）。
11. 三（1）班有 35 人订了《语文报》，有 18 人订了《数学报》，其中 9 人既订了《语文报》又订了《数学报》。三（1）班一共有（　　）人订了报纸。

二　辨一辨。（每题 1 分，共 5 分）

1. a^2 与 $2a$ 的意义相同，大小相等。（　　）
2. 0.86 表示百分之八十六。（　　）
3. 6.2 和 6.200 的大小相等，计数单位也相同。（　　）
4. 两个周长相等的梯形，它们的形状不一定完全一样。（　　）
5. 一个物体从前面看到的图形是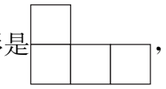，它一定是由 4 个小正方体拼成的。（　　）

三　选一选。（将正确答案的字母填在括号里）（每题 1 分，共 5 分）

1. 小欣要把自己家院子里的花池围上篱笆，篱笆扎成（　　）的形状更牢固一些。

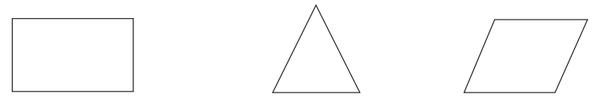

A　　B　　C

2. 把 69.304 精确到百分位得到的近似数是（　　）。

   A. 69.31　　B. 70.00　　C. 69.30
3. 把 12.5 先缩小到原来的$\frac{1}{100}$，再扩大到得到的数的 1000 倍是（　　）。

   A. 12.5　　B. 125　　C. 1.25
4. 用一条线段把一个平行四边形分成一个直角三角形和一个梯形，最多有（　　）条这样的线段。

   A. 1　　B. 2　　C. 4
5. 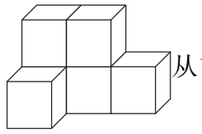从前面看到的形状是（　　）。

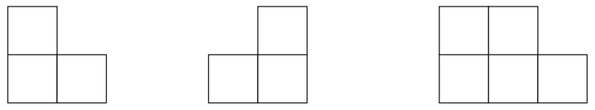

A　　B　　C

四　画一画。（6 分）

在点子图上画一个等腰梯形、一个平行四边形，并分别画出其中的一条高。

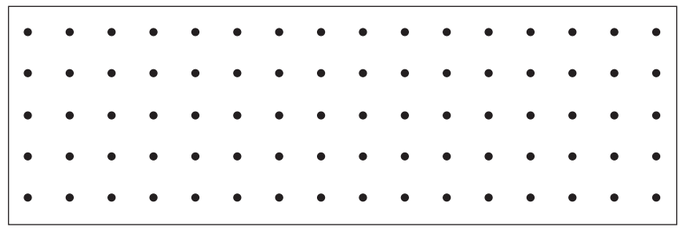

五　算一算。（1 题 3 分，4 题 18 分，其余每题 6 分，共 33 分）

1. 直接写得数。

0÷149＝	1000×0.32＝	45.5－45＝
0.43＋9.6＝	92÷100＝	6÷6×6÷6＝

关注微信公众号“捷思课堂”获取更多学习资料！

捷思课堂
学习资料 | 升学信息 | 教育心得
扫码关注获取更多学习资料

2. 用竖式计算并验算。

（1）82.36－46.59＝　　（2）23.74＋6.3＝

3. 把下面的分数先化成小数，再计算。

（1）$\frac{2}{10}+\frac{2}{100}$　　（2）$\frac{12}{100}-\frac{8}{100}$　　（3）$\frac{65}{100}-\frac{72}{1000}$

4. 脱式计算。（能简算的要简算）

（1）125×17×8　　（2）39×102　　（3）5.6－1.71－0.29

（4）48.32－(21.08－14.39)　　（5）720÷12÷6　　（6）99×99＋99

六 解决问题。（1题2分，2，5题每题6分，其余每题5分，共24分）

1. 如图，∠1＝30°，∠2＝45°，∠3＝60°，求∠4和∠5的度数。

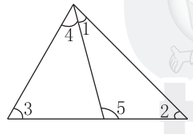

2. 一本故事书，玲玲每天看 x 页，一周后还剩 y 页。

（1）请你用含有字母的式子表示这本书共有多少页。

（2）当 $x=21$，$y=72$ 时，这本书共有多少页？

3. 小明的爸爸准备去旅游，他用60元买了一个水壶和一把雨伞，剩下的钱再买两瓶风油精够吗？



4. 学校要为体育老师每人买一套运动服，上衣125元，裤子85元，一共有5位体育老师。准备1200元够吗？

5. 下面是幸福小区便民超市某种饮料2015年四个季度销售量统计图。

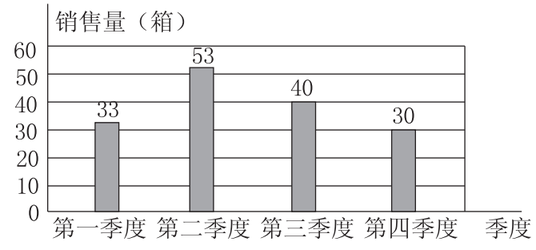

（1）观察统计图，你认为哪个季度的销售量最多？该季度销售量最多的原因是什么？

（2）平均每个月的销售量是多少？

自己说说
我的心情
老师点评
家长点评
密
封
线

关注微信公众号“捷思课堂”获取更多学习资料！