教辅资料站
电子教辅　试卷练习
知识总结　备课资源
扫码关注获取更多学习资料

荣德基 主编

典中点®

综合应用创新题 典中点

一本在做题中教会你学习方法的书

荣德基典中点

福建专用



一年级 数学

下（R版）

本册主编：夏　娟　于延庆

陕西新华出版传媒集团
陕西人民教育出版社
·西安·

目录 CONTENTS

第1单元 认识图形（二）

第1课时 认识平面图形 …… 1
第2课时 平面图形的拼组 …… 2
第3课时 七巧板 …… 3
第4课时 平面图形的变式练习 …… 4
双休创新练（一）
1. 巧用平面图形 …… 5
2. 巧数平面图形 …… 6

第2单元 20以内的退位减法

第1课时 十几减9 …… 7
第2课时 十几减9的基本练习 …… 8
第3课时 十几减9的提高练习 …… 9
第4课时 十几减8 …… 10
第5课时 十几减7,6 …… 11
第6课时 用减法解决实际问题 …… 12
第7课时 十几减8,7,6的提高练习 …… 13
第8课时 十几减5,4,3,2 …… 14
第9课时 20以内的退位减法的练习 …… 15
第10课时 有多余条件的解决问题 …… 16
第11课时 求一个数比另一个数多（少）几的解决问题 …… 17
整理和复习
1. 20以内的退位减法的计算 …… 18
2. 用减法解决问题 …… 19
双休创新练（二）
1. 用减法解决实际问题 …… 20
2. 简单的年龄问题 …… 21

第3单元 分类与整理

第1课时 按指定标准分类与整理 …… 22
第2课时 自选标准进行分类计数 …… 23

第4单元 100以内数的认识

第1课时 数100以内的数 …… 24
第2课时 100以内数的组成 …… 25
第3课时 100以内数的读写 …… 26
第4课时 100以内数的顺序 …… 27
第5课时 100以内数的大小比较 …… 28
第6课时 描述数的大小关系 …… 29
双休创新练（三）
1. 100以内数的认识 …… 30
2. 神奇的百数表 …… 31
第7课时 解决“装满”和“需要”的问题 …… 32
第8课时 整十数加一位数及相应的减法 …… 33
第9课时 整十数加一位数及相应的减法的练习 …… 34
第10课时 摆一摆，想一想 …… 35
双休创新练（四）
1. 整十数加一位数及相应的减法的应用 …… 36
2. 100以内数的认识的典型题目 …… 37

第5单元 认识人民币

第1课时 认识元、角、分 …… 38
第2课时 人民币单位之间的进率 …… 39
第3课时 认识1元以上的人民币 …… 40
第4课时 人民币单位之间的换算 …… 41
第5课时 人民币的简单计算 …… 42

来源集中识
微信公众号 教辅资料站

关注微信公众号“教辅资料站”获取更多学习资料

第 6 课时　在钱数限定的情况下购物 …… 43
双休创新练（五）
1. 人民币在生活中的应用 …… 44
2. 购物付钱的方法妙用 …… 45

第 6 单元　100 以内的加法和减法（一）

第 1 课时　整十数加、减整十数 …… 46
第 2 课时　两位数加一位数（不进位）、整十数 …… 47
第 3 课时　两位数加一位数（进位） …… 48
第 4 课时　两位数加一位数、整十数的基本练习 …… 49
第 5 课时　两位数加一位数、整十数的提高练习 …… 50
第 6 课时　两位数减一位数（不退位）、整十数 …… 51
第 7 课时　两位数减一位数（退位）、整十数 …… 52
第 8 课时　两位数减一位数（退位）、整十数的练习 …… 53
双休创新练（六）
1. 两位数加减一位数的特殊题型练习 …… 54
2. 错中求解的妙用 …… 55
第 9 课时　小括号 …… 56
第 10 课时　有小括号的两步计算及用加减法解决实际问题的练习 …… 57
第 11 课时　同数连加的实际应用 …… 58
第 12 课时　连减同数的实际应用 …… 59
第 13 课时　解决问题的综合应用 …… 60
整理和复习
1. 100 以内的加法和减法的计算 …… 61
2. 100 以内的加法和减法的实际问题 …… 62
双休创新练（七）
1. 巧用同数连加、连减同数 …… 63
2. 巧填运算符号 …… 64

第 7 单元　找规律

第 1 课时　找图形和简单数字的变化规律 …… 65
第 2 课时　数之间的规律 …… 66
第 3 课时　运用规律解决问题 …… 67
第 4 课时　找规律的综合练习 …… 68
双休创新练（八）
1. 找规律在生活中的应用 …… 69
2. 用加法解决间隔问题 …… 70

第 8 单元　总复习

第 1 课时　100 以内数的认识 …… 71
第 2 课时　100 以内数的加减法（一） …… 72
第 3 课时　100 以内数的加减法（二） …… 73
第 4 课时　认识人民币 …… 74
第 5 课时　图形与几何 …… 75
第 6 课时　统计与找规律 …… 76

活页部分

第 1 单元过关检测卷 …… 77
第 2 单元过关检测卷 …… 81
第 3、4 单元过关检测卷 …… 85
期中检测卷 …… 89
第 5 单元过关检测卷 …… 93
第 6 单元过关检测卷 …… 97
第 7 单元过关检测卷 …… 101
期末检测卷 …… 105
参考答案及点拨 …… 109

课课重点

关注微信公众号“教辅资料站”获取更多学习资料

第1课时　认识平面图形

基础导学练

知识点 认识平面图形


认识平面图形

1. 在第二行方格中，将与第一行方格同类型的图形涂上黑色。

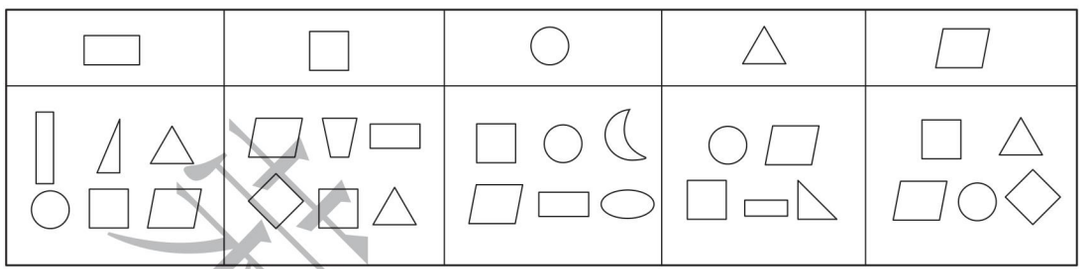

易错点 同时数多种图形时容易数漏

2. 数一数，填一填。

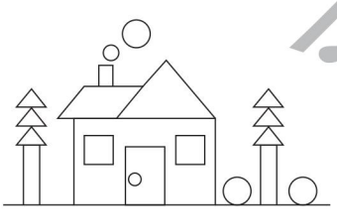

□（　　）个　○（　　）个
▭（　　）个　▱（　　）个
△（　　）个

应用提升练

提升点1 平面图形和立体图形之间的区别和联系

3. 用哪个物体可以画出最左边的图形？请把它圈起来。

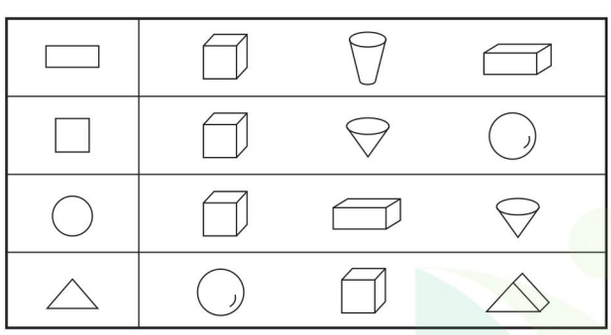

提升点2 认识生活中的平面图形

4. 这些标志的表面分别是什么形状？









（　　）　（　　）　（　　）　（　　）

告诉你 长方形、正方形、平行四边形、三角形、圆都是平面图形，都是物体（立体图形）的一个面。

口算训练

2 + 4 =
8 − 7 =
7 + 2 =
3 + 5 =
1 + 7 =
5 + 2 =
10 − 3 =
3 − 1 =
4 + 3 =
5 + 4 =
6 + 3 =
7 − 2 =
8 − 2 =
9 − 3 =
8 − 4 =

关注微信公众号“教辅资料站”获取更多学习资料

第 2 课时　平面图形的拼组

口算训练

19 − 5 =

13 + 4 =

12 + 5 =

7 + 6 =

4 + 8 =

0 + 7 =

5 + 6 =

11 + 7 =

11 + 6 =

9 + 5 =

14 − 3 =

19 − 8 =

4 + 7 =

8 + 8 =

9 + 9 =

基础导学练

知识点1 用同样的图形拼组基本图形

1. 选一选，拼一拼。

（1）（　　）和（　　）可以拼成正方形。



（2）（　　）和（　　）可以拼成长方形。



知识点2 同一个图形不同的分法分成的图形不同

2. 沿虚线折一折，填一填。

（1） 折出了两个相同的（　　）形。

（2）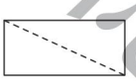 折出了两个相同的（　　）形。

（3）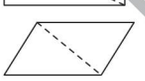 折出了两个相同的（　　）形。

易错点 拼组图形时一些特殊条件没注意

3. 选一选，下面说法正确的是（　　）。

①两个三角形一定能拼成一个平行四边形

②两个相同的长方形一定能拼成一个正方形

③两个完全一样的，一定可以拼成一个长方形

应用提升练

提升点 巧妙拼组图形

4. 下面的图形分别是由哪些图形拼成的？

（1）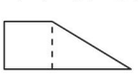（　　）形和（　　）形。

（2）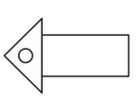（　　）形、（　　）形和（　　）。

5. 画一条直线，将下列图形分割成符合要求的图形。



两个不同的长方形　　两个相同的三角形　　大小相同的两个图形

用一些相同的图形可以拼出一个新的图形。

告诉你

关注微信公众号“教辅资料站”获取更多学习资料

第3课时 七巧板

基础导学练

知识点1 认识七巧板

1. 有趣的七巧板，填一填。

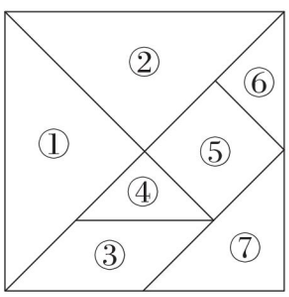

（1）七巧板是由（　　）种图形组成的，其中有（　　）个三角形。

（2）七巧板中两个相同的图形是①号和（　　）号，还有（　　）号和（　　）号。

（3）①号和②号可以拼成（　　）形、（　　）形和（　　）形。

知识点2 用七巧板拼组图形

2. 下面两个图形分别是由右边的七巧板组成的，在两个图形中标出每块板对应的编号。

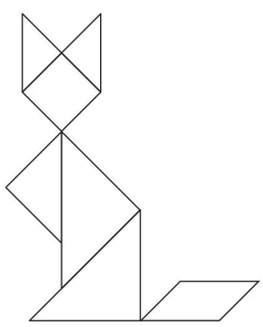

狐狸

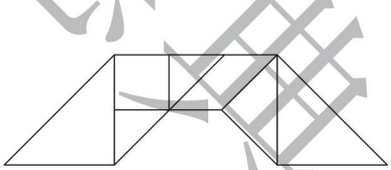

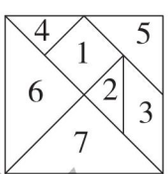

小桥

易错点 用七巧板按要求拼图形时容易出错

3. 用七巧板中的几块或全部板拼一个平行四边形。（把拼成的图形画下来）

应用提升练

提升点 用七巧板拼图案

4. 看一看，下面的图形像什么？

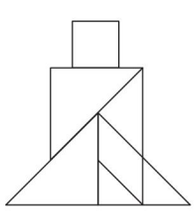

（　　）

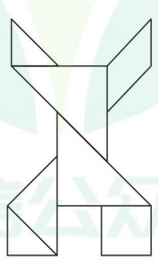

（　　）

口算训练

16 − 5 =

9 + 5 =

6 + 8 =

15 − 3 =

16 + 3 =

9 + 7 =

16 − 6 =

5 + 12 =

8 + 4 =

3 + 8 =

18 − 10 =

17 − 2 =

19 − 0 =

13 + 6 =

14 + 2 =



利用七巧板可以拼成许多有趣的图案。

关注微信公众号“教辅资料站”获取更多学习资料

第 4 课时　平面图形的变式练习

口算训练

6 + 8 =

10 − 8 =

13 − 2 =

15 + 2 =

13 + 2 =

14 − 0 =

9 + 7 =

17 − 10 =

8 + 8 =

9 + 6 =

18 − 8 =

17 − 5 =

19 − 6 =

6 + 13 =

5 + 13 =

题型 1 寻找图中缺少的图形

1. 下图中缺（　　）块。

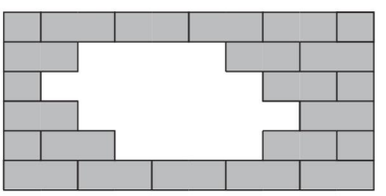

题型 2 立体图形和平面图形的联系

2. 右边的三个图形分别是左边长方体的哪个面？连一连。



下面　

左面　

后面　

题型 3 图形的拼组

3. 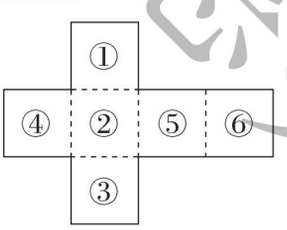

沿虚线折一折，它变成了（　　）体，其中②号面与（　　）号面相对，①号面与（　　）号面相对。

4. 每组中，右边哪两个图形能拼成左边的图形？请把它们圈起来。

（1）

（2）

5. 先找到一个与左边相同的图案，再涂一涂。　【导学号：09986001】

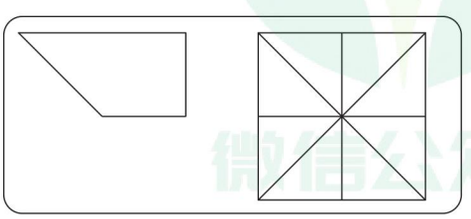

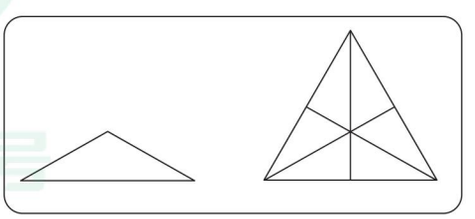

微信公众号 教辅资料站

关注微信公众号“教辅资料站”获取更多学习资料

双休创新练(一)

1. 巧用平面图形

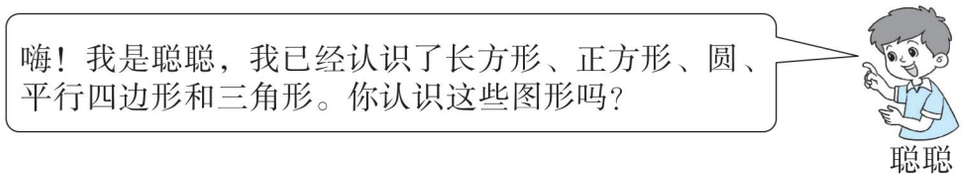

1. 圈一圈。(把能画出左边图形的物体圈出来)

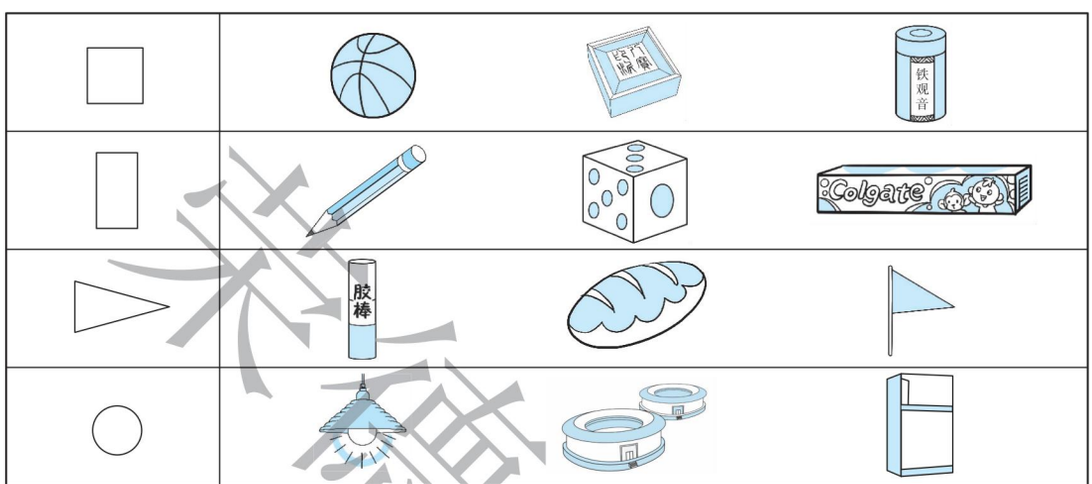

2. 填一填。

(1) 黑板面是（　　）形的，少先队员的红领巾是（　　）形的，自行车的车轮是（　　）的。

(2) 至少用（　　）根同样长的小棒才能拼成一个长方形。

3. 下面的图形是由几个相同的图形拼成的？数一数。

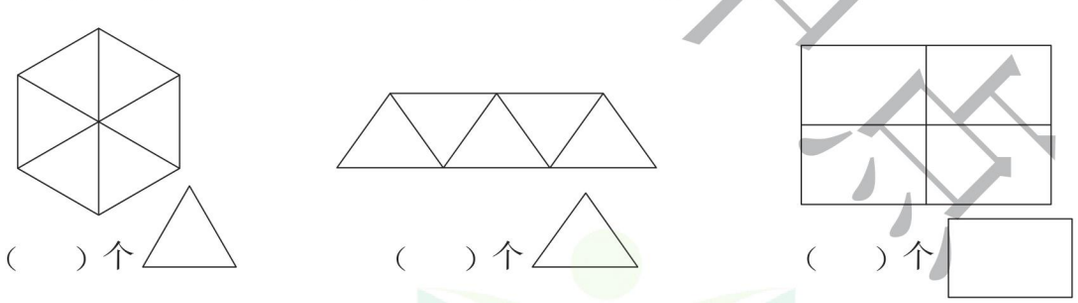

4. 下面的图形分别是从上面哪幅图上剪下来的？连一连。

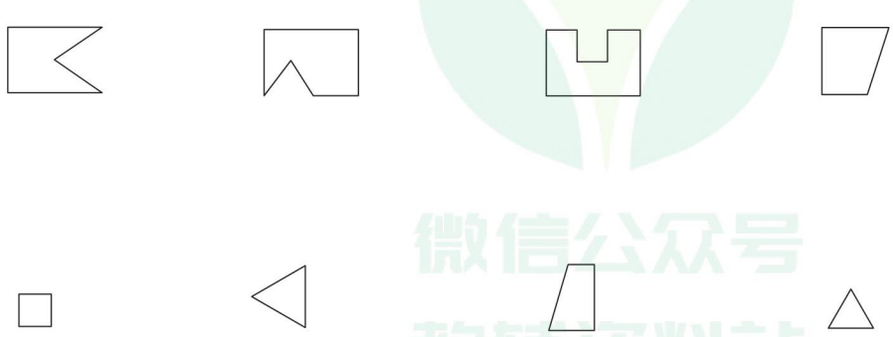

来源：作业帮
微信公众号
教辅资料站

关注微信公众号“教辅资料站”获取更多学习资料

2．巧数平面图形

名师点金

数图形时，小朋友们往往会数“显露在外”的图形，却很容易忽视“隐蔽在内”的图形。不管是数“显露在外”的图形还是“隐蔽在内”的图形，都要做到有条理、有顺序、不重复、不遗漏。

妙用1 如果许多图形混合在一起，观察时要有次序，有条理地分类，做不同的记号

1．下图由哪些图形组成，各有多少个？

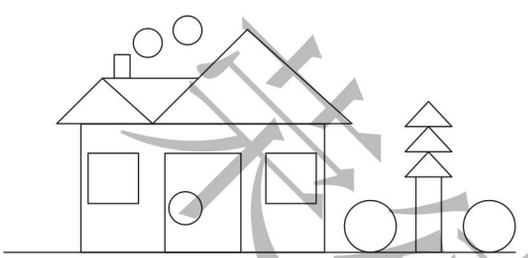

□有（　　）个
□有（　　）个
△有（　　）个
○有（　　）个

妙用2 先数单个的图形，再数由2个图形组成的图形……依次类推，最后把所有的图形个数相加

2．数一数，各图形中有多少个正方形？　【导学号：09986002】

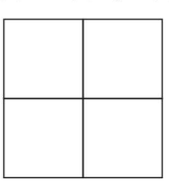

（　　）个

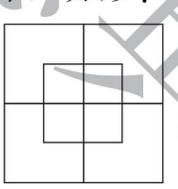

（　　）个

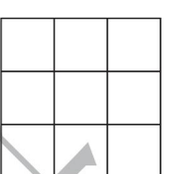

（　　）个

3．数一数，各图形中有多少个长方形？　【导学号：09986003】



（　　）个



（　　）个



（　　）个

4．数一数，各图形中有多少个三角形？　【导学号：09986004】

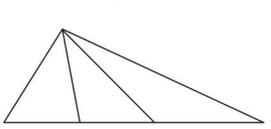

（　　）个



（　　）个

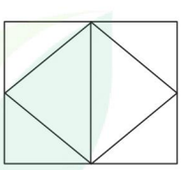

（　　）个

5．数一数，（　　）个正方形里有☆。



获德典书店
微信公众号
教辅资料站

关注微信公众号“教辅资料站”获取更多学习资料

第1课时　十几减9

基础导学练

知识点 掌握十几减9的多种算法

1. 圈一圈，填一填。

十几减9

（1）



15－9＝□

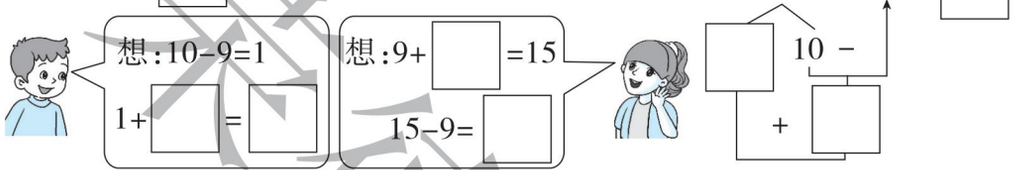

（2）



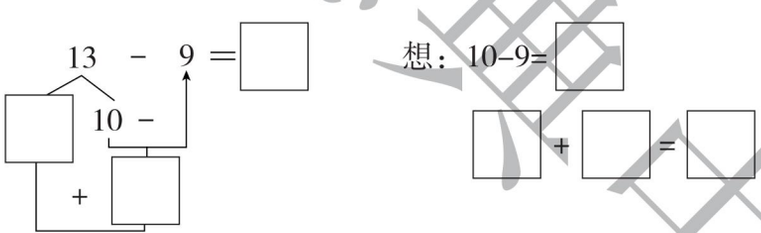

易错点 运用十几减9的知识解决问题

2. 请把下列算式按得数从大到小排列。



16－9　　18－9　　17－9　　12－9　　14－9

（　　）＞（　　）＞（　　）＞（　　）＞（　　）

应用提升练

提升点 提高十几减9的应用能力

3. 厦门大学花坛里的花开了，小蜜蜂开开心心地去采花蜜。

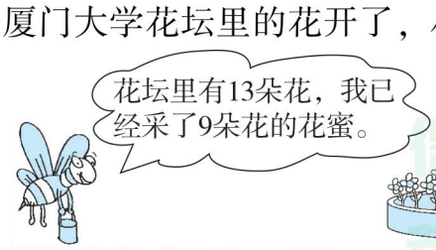

还有几朵花的花蜜没有采？

□ ○ □ ＝ □（朵）

口算训练

14－9＝

13－9＝

15－9＝

17－5＝

16－3＝

19－9＝

12－9＝

16－9＝

11－9＝

18－9＝

15－4＝

19－2＝

19－10＝

18－6＝

14－3＝

告诉你　计算十几减9的方法：点数法、破十法、想加算减法。

关注微信公众号“教辅资料站”获取更多学习资料

第 2 课时　十几减 9 的基本练习

口算训练

9 + 7 − 10 =

13 − 9 − 3 =

19 − 9 − 7 =

10 + 4 − 9 =

12 − 9 + 2 =

16 − 9 − 3 =

11 − 9 + 2 =

16 − 9 + 3 =

8 + 6 − 2 =

14 − 9 + 6 =

8 + 9 − 10 =

12 − 9 + 4 =

11 − 9 + 5 =

16 − 9 + 5 =

13 − 2 − 1 =

题型 1 通过多种形式的练习提高计算能力

1. 邮递员送信。（连一连）

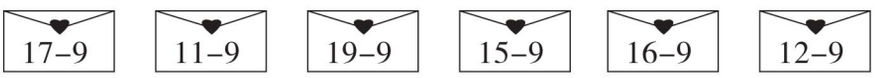



得数大于5的



得数小于5的

2. 写算式并算出得数。

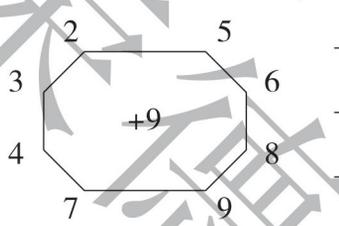

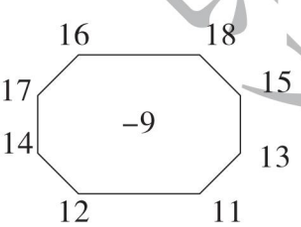

3. 在○里填上“＞”“＜”或“＝”。

4 + 3 ○ 17 − 9　　15 − 9 ○ 5 + 9　　7 + 8 ○ 9 + 6

14 − 9 ○ 15 − 9　　16 − 10 ○ 13 − 9　　12 − 0 ○ 0 + 12

题型 2 运用十几减 9 的知识解决生活中的问题

4. 解决问题。

（1）



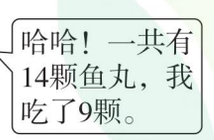



还剩几颗鱼丸？

□ ○ □ = □（颗）

（2）树上结了 17 个文旦柚。





树上还剩几个文旦柚？

□ ○ □ = □（个）

来德典中点
微信公众号
教辅资料站

关注微信公众号“教辅资料站”获取更多学习资料

第3课时 十几减9的提高练习

题型1 从算式中探索规律

1. 将下面的数分别减去9，从得数中你发现了什么？

10	11	12	13	14	15	16	17	18

我发现：所得的结果比被减数个位上的数_____。

2. 看图列式。

（1）

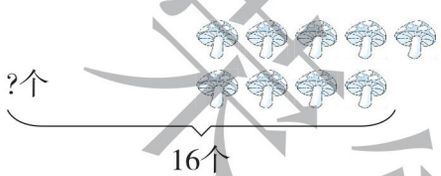

□○□=□（个）

（2）

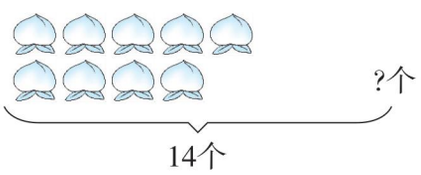

□○□=□（个）

题型2 解决问题

3. 还差多少元？

□○□=□（元）



4. 一共摆了多少盆红花？ 【导学号：09986005】



□○□=□（盆）

口算训练

3 + 8 =

7 + 9 =

9 + 6 =

18 − 10 =

4 + 7 =

5 + 9 =

9 − 9 =

13 − 9 =

12 − 9 =

17 − 9 =

14 − 9 =

15 − 9 =

18 − 9 =

16 − 9 =

11 − 9 =

荣德基中小
微信公众号
教辅资料站

关注微信公众号“教辅资料站”获取更多学习资料

第 4 课时　十几减 8

口算训练

7 + 8 =

14 − 9 =

8 + 5 =

8 + 6 =

16 − 8 =

8 + 8 =

12 − 8 =

11 + 8 =

16 + 3 =

14 − 8 + 3 =

16 − 8 − 5 =

13 − 8 + 2 =

12 − 8 − 3 =

11 − 8 + 2 =

17 − 8 + 8 =

基础导学练

知识点 十几减 8 的多种算法

十几减8

1. 圈一圈，填一填。

（1）



15 − 8 = □

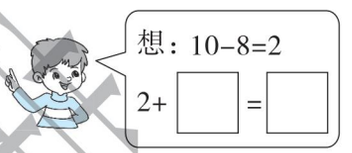

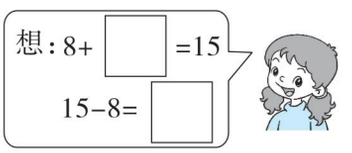

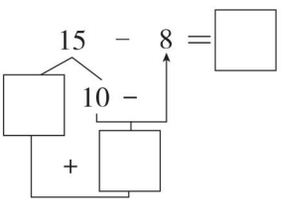

（2）



14 − 8 = □

2. 比一比，算一算。

5 + 8 = 13 − 8 =	8 + 3 = 11 − 8 =	8 + 9 = 17 − 8 =

应用提升练

提升点 通过多种形式的练习提高计算能力

3. 在○里填上“＞”“＜”或“＝”。

12 − 8 ○ 4　　14 − 8 ○ 6　　17 − 8 ○ 8

4. 将下面的数分别减去 8，从得数中你发现了什么？

11	12	13	14	15	16	17	18

我发现：十几减 8 的差就等于＿＿＿＿＿＿＿＿＿＿。

思维拓展练

5. 照样子，在□里填上合适的数。

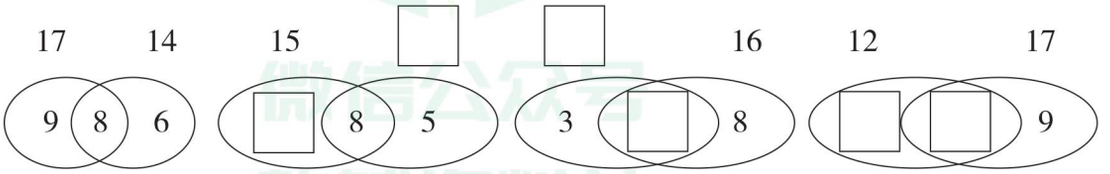

计算十几减 8 的方法：点数法、破十法、想加算减法。

告诉你

关注微信公众号“教辅资料站”获取更多学习资料

第5课时 十几减7，6

基础导学练

知识点 十几减7，6的多种算法

1. 看图列式。

(1)

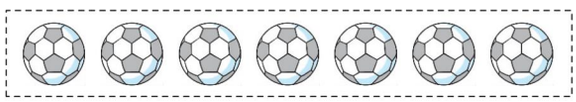

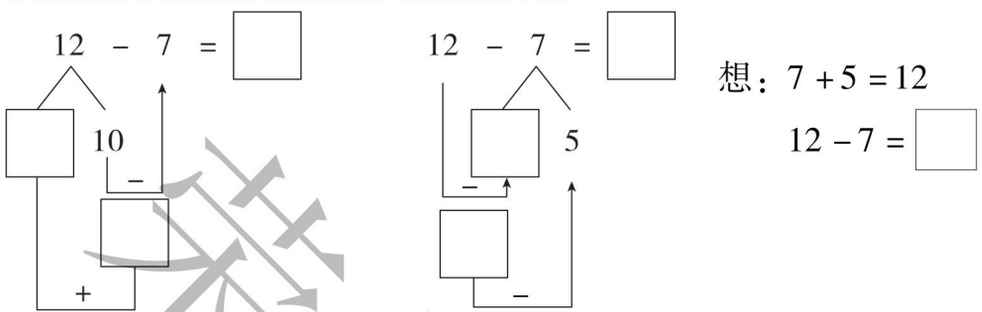

(2)



13 − □ = □　　13 − □ = □

应用提升练

提升点 提高学生的计算能力

2. 连一连。



3. 在○里填上“＞”“＜”或“＝”。

16 − 9 ○ 15 − 6　　13 − 8 ○ 4　　14 − 7 ○ 16 − 8

12 − 6 ○ 15 − 7　　14 − 8 ○ 6　　16 − 7 ○ 8

思维拓展练

4. 算一算，你有什么发现？

(1) 12 − 9 = 2 + □ = □　　(2) 12 − 8 = 2 + □ = □

(3) 12 − 7 = 2 + □ = □　　(4) 12 − 6 = 2 + □ = □

我发现：计算十几减几的退位减法时，可以直接用被减数个位的数字加上（　　）减去减数的差。

口算训练

13 − 8 =

12 − 9 =

10 − 8 =

16 − 8 =

11 − 8 =

5 + 7 =

15 − 8 =

16 + 2 =

19 − 5 =

9 + 3 − 7 =

12 − 7 + 5 =

14 − 6 − 2 =

14 − 7 − 7 =

11 − 6 + 3 =

13 − 6 − 3 =

15 − 8 − 6 =

17 − 7 − 6 =



计算十几减7，6的方法与计算十几减9的方法相同。

荣德基中小学
微信公众号
教辅资料站
关注微信公众号“教辅资料站”获取更多学习资料

第 6 课时　用减法解决实际问题

口算训练

7 + 8 =

15 − 7 =

6 + 7 =

13 − 7 =

15 − 9 =

7 + 9 =

16 − 7 =

16 − 9 =

11 − 7 =

12 − 7 =

13 − 6 =

8 + 6 =

14 − 7 =

15 − 8 =

13 − 9 =

基础导学练

知识点 从总数里去掉一部分，求剩下部分用减法

1. 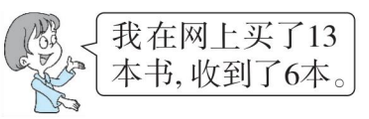

还有几本书没有收到？

□ ○ □ = □（本）

2. 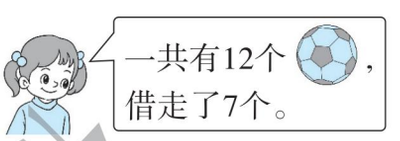

还剩几个？

□ ○ □ = □（个）

易错点 看不懂表格，不能提取有效信息解决问题

3. 下面是博士文具店昨天销售的文具情况。

文具	原有	卖出	还剩
	14 个	6 个	
	11 个	7 个	
	12 支		8 支

应用提升练

提升点 收集不同的信息提出不同的问题

4. 一共有 15 只鸡。



（1）右边有 7 只鸡，左边有几只鸡？（2）公鸡有 6 只，母鸡有几只？

□ ○ □ = □（只）　　□ ○ □ = □（只）

5. 红红和明明一起收集带有福建题材的邮票。红红收集了 14 张，明明收集了 8 张，红红送（　　）张邮票给明明，他们俩的邮票就一样多了。

关注微信公众号“教辅资料站”获取更多学习资料

第 7 课时　十几减 8，7，6 的提高练习

题型1 通过多种形式的练习提高计算能力

1. 把出错的蘑菇找出来，并改正它。（对的画“√”，错的画“×”并改正）

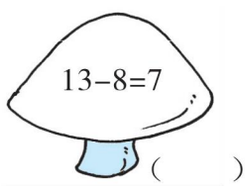

（　　）

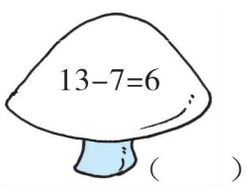

（　　）



（　　）



改正：_____　　改正：_____　　改正：_____

2. 小马拉车。

（1）



6	7	8	9
7			

（2）



6	7	8	9

我发现：被减数不变，减数越大，差越（　　）。

题型2 运用加减法之间的关系解决填数问题

3. 将 6，7，8，9 填入□里，使等式成立。（每个数只能用一次）

□ + □ = □ + □

题型3 运用减法解决问题

4. 学校要举办合唱比赛。一年级合唱队还需要选几个男生？





□ ○ □ = □（　　）

5. 一条道路的一边种了 7 棵蒲葵，现在要在每相邻两棵蒲葵之间种一棵枣葵，一共要种多少棵枣葵？

口算训练

9 + 6 =

11 − 8 =

5 + 7 =

6 + 8 =

15 − 8 =

12 − 6 =

12 − 8 =

13 − 6 =

11 − 9 =

17 − 8 =

11 − 7 =

9 + 4 =

8 + 6 =

3 + 9 =

6 + 6 =

获得更多电子资料请关注微信公众号“教辅资料站”
微信公众号
教辅资料站

关注微信公众号“教辅资料站”获取更多学习资料

第 8 课时　十几减 5，4，3，2

口算训练

3 + 8 =

11 − 2 =

12 − 6 =

6 + 9 =

12 − 4 =

13 − 5 =

16 − 8 =

7 + 9 =

16 − 9 =

10 + 8 =

12 + 5 =

13 − 4 =

15 − 6 =

9 + 5 =

13 − 7 =

基础导学练

知识点 掌握十几减 5，4，3，2 的多种算法

1. 算一算。

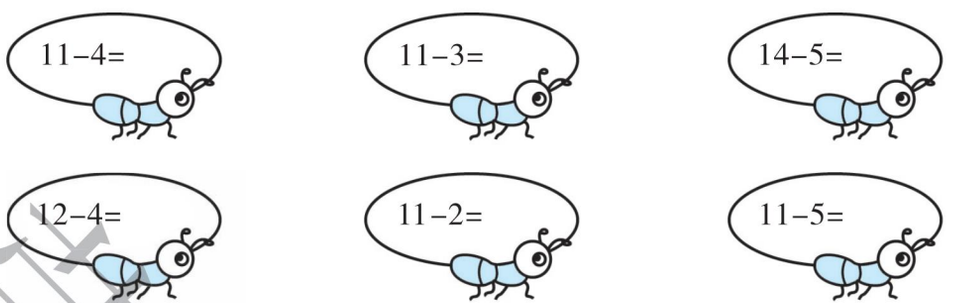

2. 比一比，算一算。



易错点 不理解题意，没有按得数相同来填

3. 填一填，使每组算式的得数相同。

（1）

12−6

11− (　　)

(　　) +4

（2）

12−3

5+ (　　)

13− (　　)

应用提升练

提升点 提高解决问题的能力

4. 看图列式。

（1）

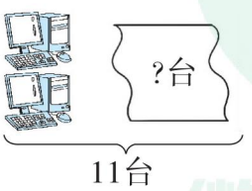

□ ○ □ = □（台）

（2）

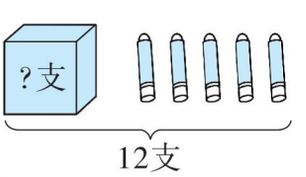

□ ○ □ = □（支）

关注微信公众号“教辅资料站”获取更多学习资料

第 9 课时　20 以内的退位减法的练习

题型1 通过多种形式的练习提高计算能力

1. 看谁算得快。

12 − 4 − 3 =　　6 + 7 + 5 =　　11 − 3 + 6 =

5 + 8 − 2 =　　13 − 4 + 8 =　　18 − 3 + 2 =

2. （1）14 − 9 = □ − □ = □ − □ = □ + □

（2）15 − 6 = □ − □ = □ + □ = □ − □

题型2 用减法解决实际问题

3. 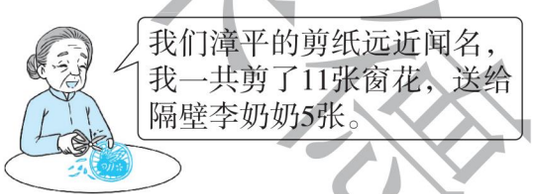

还剩多少张窗花？

□ ○ □ = □（　　）

4. 

猫妈妈钓了几条鱼？

□ ○ □ = □（　　）

5. 下课了，厦门市大同小学一年级的小朋友在玩捉迷藏。



（1）一共有 13 棵树，左边有 5 棵树，右边有几棵树？

□ ○ □ = □（　　）

（2）一共有 12 个同学在玩捉迷藏，其中 3 个同学是捉人的，那么藏起来的有几个同学？

□ ○ □ = □（　　）

口算训练

18 − 8 =

17 − 8 =

12 + 4 =

5 + 7 =

11 + 4 =

12 − 5 =

11 − 8 =

12 − 9 =

12 + 3 =

9 + 7 =

13 − 5 =

16 − 7 =

12 + 6 =

15 − 4 =

15 − 9 =

禁止复印
微信公众号 教辅资料站

关注微信公众号“教辅资料站”获取更多学习资料

第 10 课时　有多余条件的解决问题

口算训练

11 − 5 =

14 − 6 =

13 + 3 =

12 − 6 =

16 − 8 =

17 − 9 =

2 + 9 =

12 − 8 =

18 − 4 =

3 + 8 =

11 − 4 =

12 − 5 =

16 − 7 =

10 + 8 =

14 + 4 =

基础导学练

知识点 解决含有多余条件的实际问题

1. 请先圈出与问题无关的条件，再解答。

（1）小明的文具盒里有 13 支铅笔和 3 块橡皮，文文借走了 4 支铅笔，文具盒里还有几支铅笔？

□ ○ □ = □ （　　）

（2）宠物乐园有 11 只狗和 6 只猫，有 6 只狗在狗舍外面玩，狗舍里面有几只狗？

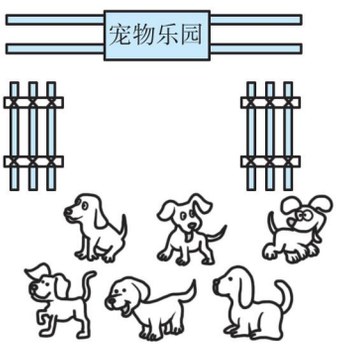

□ ○ □ = □ （　　）

易错点 求一共飞走了几只小鸟错用连减的方法解决

2. 树上有 19 只小鸟，一共飞走了几只小鸟？



应用提升练

提升点 多次运用有效信息解决问题

3. 小明和小芳每人投了 12 个球。



小明

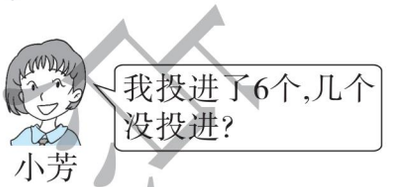

小芳

□ ○ □ = □ （　　）　　□ ○ □ = □ （　　）

4. 一共有11个人在排队跳远，其中女生有4人，还有5人没跳。



几人已经跳了？排队跳远的男生有几人？

【导学号：09986006】

□ ○ □ = □ （　　）

□ ○ □ = □ （　　）

解决问题时先弄清所求问题与哪些条件相关。

告诉你

关注微信公众号“教辅资料站”获取更多学习资料

第 11 课时　求一个数比另一个数多（少）几的解决问题

基础导学练

知识点 求一个数比另一个数多（少）几用减法计算

1. 爱心玩具店进了 12 个玩具小熊，9 个玩具小马。玩具小熊比玩具小马多几个？

玩具小熊：○○○○○○○○○○○○

玩具小马：●●●●●●●●●

求玩具小熊比玩具小马多几个，就是求 □ 比 □ 多多少，用（　　）法计算。

□ ○ □ = □（　　）

2. 

求小红比小军少剪几个 ☆，就是求 □ 比 □ 少多少，用（　　）法计算。

小红比小军少剪几个 ☆？

□ ○ □ = □（　　）

易错点 多个条件在一起时不能选出与问题有关的条件

3. 三人比赛跳绳。



（1）红红和冬冬一共跳了多少下？

□ ○ □ = □（　　）

（2）芳芳比冬冬多跳几下？

□ ○ □ = □（　　）

应用提升练

提升点 能提取有效信息并解答问题

4. 2017 年星星小学开展了回收废旧电池活动，下面是一年级各班回收废旧电池的情况。

班级	一（1）班	一（2）班	一（3）班
节数	12	7	8

（1）一（1）班比一（2）班多回收几节？

□ ○ □ = □（　　）

（2）一（3）班再回收几节就和一(1)班同样多？

□ ○ □ = □（　　）

口算训练

12 − 2 =

11 − 3 =

14 − 5 =

16 − 7 =

14 + 5 =

12 + 7 =

19 − 6 =

18 − 8 =

10 + 9 =

15 + 3 =

15 − 8 =

14 + 3 =

12 − 6 =

11 − 7 =

14 − 8 =



求一个数比另一个数多（少）几也就是求两个数相差多少，用减法计算。

关注微信公众号“教辅资料站”获取更多学习资料

1. 20 以内的退位减法的计算

口算训练

12 − 6 =

0 + 18 =

14 − 3 =

6 + 9 =

8 + 8 =

11 − 2 =

12 − 4 =

12 − 8 =

13 − 5 =

16 − 7 − 2 =

8 + 5 − 7 =

11 − 4 + 3 =

13 + 4 − 7 =

15 − 6 − 5 =

3 + 9 − 5 =

题型1 20 以内的退位减法的基本练习

1. 摘苹果。（连一连）



2. 在○里填上“＞”“＜”或“＝”。

15 − 8 ○ 8　　12 − 7 ○ 4　　18 − 9 ○ 10

9 + 7 ○ 15　　13 − 6 ○ 6　　14 − 9 ○ 2 + 3

3. 从 12，8，5，13 中选 3 个数，写出两道加法算式和两道减法算式。

□ + □ = □　　□ + □ = □

□ − □ = □　　□ − □ = □

题型2 20 以内退位减法的提高练习

4. （　　）里最大能填几？

12 − （　　）＞5　　8 + （　　）＜16　　17 − （　　）＞8

7 + （　　）＜15　　15 − （　　）＞7　　7 + （　　）＜12

5. 小熊可以怎样选物体？（连一连）



6. 莆田多荔枝，著名文学家郭沫若对莆田的第一印象便是“荔城无处不荔枝”。老师给小丽和小芳各 13 颗荔枝，小丽吃了 8 颗，小芳吃了 6 颗，谁剩下的多？多几颗？（请你画图试一试）

荣德典中点

关注微信公众号“教辅资料站”获取更多学习资料

2. 用减法解决问题

题型1 看图列式

1. 看图列式。

(1) 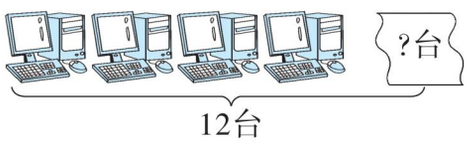

(2) 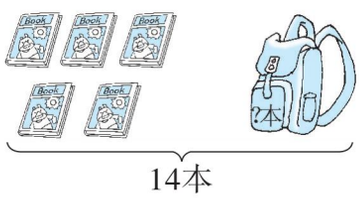

□ ○ □ = □ (　　)　　□ ○ □ = □ (　　)

题型2 用减法解决问题

2. 

小亮比小刚多钓几条鱼？

□ ○ □ = □ (　　)

3. 

小白拔了多少个萝卜？

□ ○ □ = □ (　　)

4. 下面是三个小朋友的年龄。

 乐乐	 欢欢	 亮亮
13 岁	7 岁	9 岁

(1) 乐乐比欢欢大几岁？

□ ○ □ = □ (　　)

(2) 亮亮比乐乐小几岁？

□ ○ □ = □ (　　)

5. 

从左边口袋拿 5 个苹果放到右边口袋里，那么右边口袋比左边口袋多 (　　) 个苹果。

口算训练

13 − 4 =

6 + 8 =

6 + 6 =

13 − 5 =

16 − 8 =

14 − 6 =

12 − 5 =

11 − 4 =

12 − 2 =

12 − 3 =

11 − 6 =

17 − 8 =

17 − 7 =

17 − 3 =

16 − 4 =

关注微信公众号“教辅资料站”获取更多学习资料

1. 用减法解决实际问题



1. 一起去鼓浪屿捡贝壳。

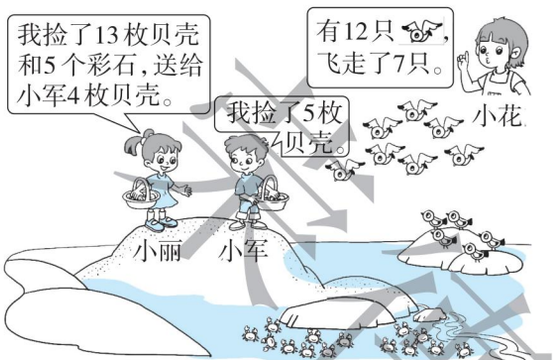

(1) 小丽还有几枚贝壳？

□ ○ □ = □ (　　)

(2) 现在还有多少只？

□ ○ □ = □ (　　)

(3) 原来小军比小丽少捡了多少枚贝壳？

□ ○ □ = □ (　　)

2.



(1) 右边有几只鸭子？

□ ○ □ = □ (　　)

(2) 戴帽子的鸭子有几只？

□ ○ □ = □ (　　)

3.



(1) 玩捉迷藏的有几人？

□ ○ □ = □ (　　)

(2) 做游戏的同学中有 8 名男生，女生有多少名？

□ ○ □ = □ (　　)

关注微信公众号“教辅资料站”获取更多学习资料

2. 简单的年龄问题

名师点金

通过比年龄大小，猜年龄大小等题目，你就会知道过一年大家都要长一岁，两个人的年龄差是不会变的。根据这个道理可以让复杂问题简单化。

妙用1 无论过多少年，两者的年龄差始终不变

1.

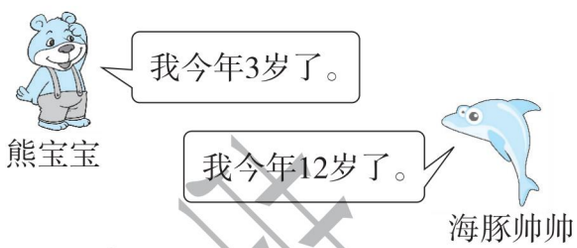

7年后，海豚帅帅比熊宝宝大几岁？

□○□=□（　　）

2.

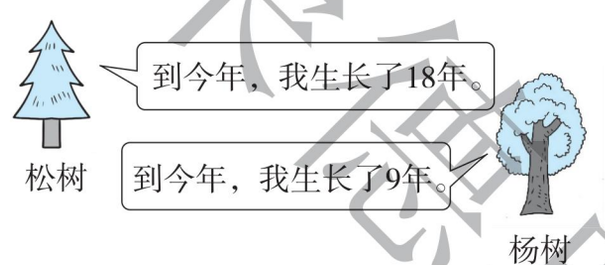

20年后松树比杨树多生长几年？

□○□=□（　　）

妙用2 一人一年长一岁，两人一年长两岁

3.



当丁丁13岁时，当当多少岁？

4. 哥哥今年10岁，弟弟今年6岁，两年前两人的年龄和是多少岁？

禁止复制 来源集中点

关注微信公众号“教辅资料站”获取更多学习资料

口算训练

19 − 9 =

15 − 7 =

15 − 9 =

18 − 9 =

7 + 5 =

13 − 4 =

5 + 7 =

12 − 5 =

17 − 6 =

6 + 8 =

17 − 8 =

12 − 3 =

15 − 5 =

0 + 18 =

17 − 0 =

第1课时　按指定标准分类与整理

基础导学练

知识点 按指定标准分类与整理的方法

1. 连一连。





易错点 分类整理时数据统计错误

2. 按要求分类。（填序号）

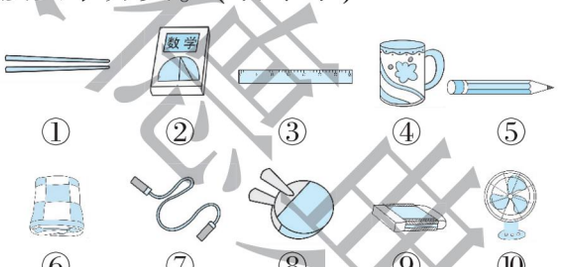

学习用品有（　　）。

体育用品有（　　）。

生活用品有（　　）。

应用提升练

提升点 按不同的标准分类



3. 分类并整理。



（1）按交通工具的种类分一分，在下面涂一涂，填一填。

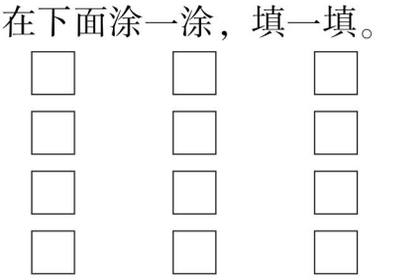

船（　　）艘

飞机（　　）架

车（　　）辆

（2）按卡片的形状分一分，在下面涂一涂，填一填。

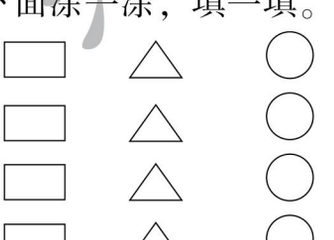

长方形（　　）张

三角形（　　）张

圆（　　）张

按不同的标准进行计数统计，最终结果往往不同。

告诉你

关注微信公众号“教辅资料站”获取更多学习资料

第 2 课时　自选标准进行分类计数

基础导学练

知识点 自选标准进行分类计数并理解简单的统计表

1．给小动物分类。



（1）把这些小动物分成三组，可以怎样分？

只数			

（2）把这些小动物分成两组，可以怎样分？

只数		

应用提升练

提升点 根据统计图来填写统计表并解决问题

2．我会分类整理。

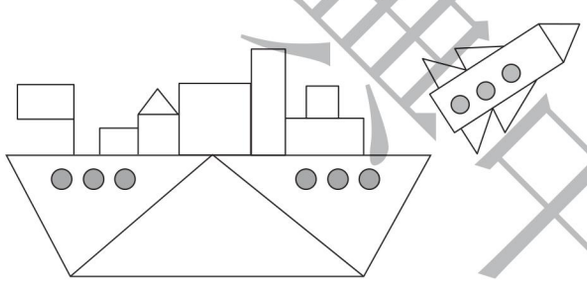

（1）按形状分一分，涂一涂，填一填。

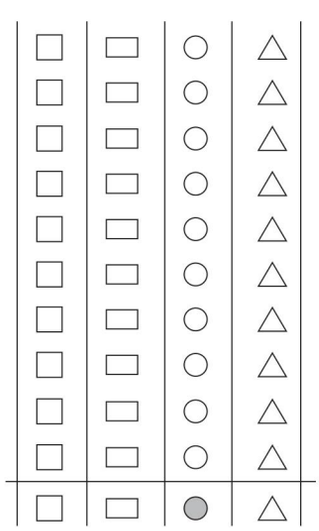

□有（　　）个

□有（　　）个

○有（　　）个

△有（　　）个

（2）①如果把这些图形分成两组，可以怎样分？

我这样分：_____

②根据分类的结果，你能提出一个数学问题吗？

口算训练

2 + 8 =

12 − 6 =

14 − 5 =

18 − 3 =

6 + 13 =

12 + 7 =

16 − 7 =

11 − 8 =

12 − 9 =

13 − 6 =

12 − 5 =

14 − 9 =

9 + 4 =

12 − 10 =

5 + 8 =



把数据进行分类整理并按一定的顺序排列起来制成的表格就是简单的统计表。

关注微信公众号“教辅资料站”获取更多学习资料

口算训练

( ) + 5 = 12

6 + ( ) = 15

9 + ( ) = 14

14 − ( ) = 5

16 − ( ) = 8

( ) − 3 = 12

9 + ( ) = 11

12 − ( ) = 3

15 − ( ) = 7

14 + ( ) = 19

15 − ( ) = 6

11 − ( ) = 8

12 − ( ) = 4

6 + ( ) = 13

7 + ( ) = 16

第1课时 数100以内的数

基础导学练

知识点 数100以内的数的方法

1. 数一数，苹果和桃各有多少个？

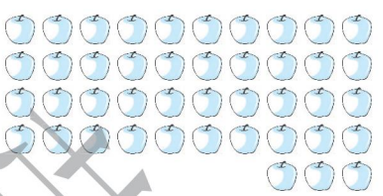

（ ）个苹果

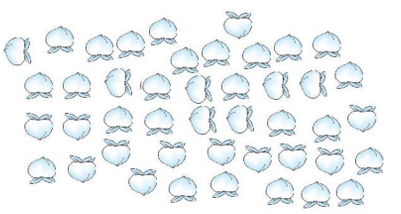

（ ）个桃

我发现（ ）个（ ）个地数更方便。



2. 先圈出10个，再估一估，一共有（ ）个。

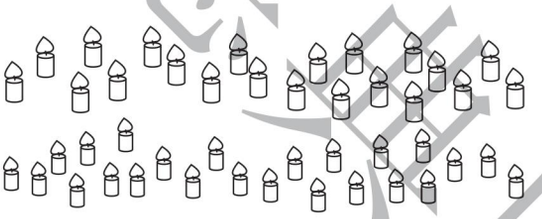

易错点 数到几十九时不知道下一个数是什么

3. 在下面的数后面连续数出四个数。

（1）四十八、（ ）、（ ）、（ ）、（ ）。

（2）九十六、（ ）、（ ）、（ ）、（ ）。

应用提升练

提升点 熟练按顺序数数，培养数感

4. 请按顺序将点连起来。

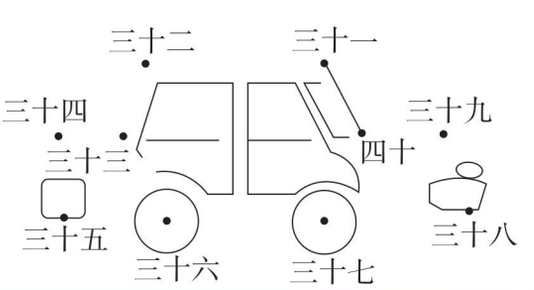

数数的方法有一个一个地数、两个两个地数，五个五个地数、十个十个地数……

告诉你

关注微信公众号“教辅资料站”获取更多学习资料

第 2 课时　100 以内数的组成

基础导学练

知识点 认识计数单位“百”及 100 以内数的组成

1. 数一数，填一填。

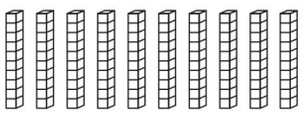

（　　）个十是（　　）。



（　　）个十和（　　）个一是（　　）。



（　　）个十和（　　）个一是（　　）。

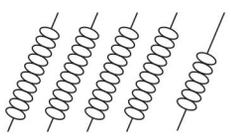

（　　）个十和（　　）个一是（　　）。

易错点 没有理解数位上每一个数的意义

2. 下面说法正确的是（　　）。

①七十三里面有 3 个十和 7 个一

②39 和 93 中的两个“3”表示的意义相同

③四十九添一是四十

④一百里面有 10 个十

应用提升练

提升点 通过练习数的组成培养数感

3. 猜猜我是谁。　　【导学号：09986007】



（　　）



（　　）



（　　）



（　　）

口算训练

14 − (　) = 10

9 + (　) = 12

15 − (　) = 6

3 + (　) = 11

6 + (　) = 12

9 + (　) = 14

15 − (　) = 10

8 + (　) = 13

11 − (　) = 4

6 + (　) = 14

14 − (　) = 5

7 + (　) = 11

16 − (　) = 14

18 − (　) = 0

(　) + 15 = 18



几十是由几个十组成的，几十几是由几个十和几个一组成的。

关注微信公众号“教辅资料站”获取更多学习资料

第 3 课时　100 以内数的读写

口算训练

19 − 9 − 7 =

10 + 5 − 7 =

7 + 8 − 9 =

16 − 9 − 2 =

18 − 3 − 2 =

13 − 8 − 2 =

14 − 9 + 6 =

8 + 6 − 8 =

13 − 9 + 5 =

9 + 7 − 10 =

15 − 9 − 2 =

16 − 3 − 9 =

11 − 9 + 2 =

10 + 7 − 9 =

16 − 6 + 5 =

基础导学练

读数 写数

知识点 100 以内数的读法和写法

1. 读一读，写一写。



读作：＿＿＿＿　＿＿＿＿　＿＿＿＿　＿＿＿＿

写作：＿＿＿＿　＿＿＿＿　＿＿＿＿　＿＿＿＿

2. 按要求写出横线上的数。



2018年10月1日，中华人民共和国成立69周年。

读作：＿＿＿＿



福建省远洋渔业企业达到29家。

读作：＿＿＿＿



写作：＿＿＿＿



写作：＿＿＿＿

易错点 读写数时混淆个位和十位上的数、写数时十位写错

3. 下面说法正确的是（　　）。

①从右边起，第一位是个位，第二位是十位，第三位是百位

②93 个位上的数是 9，十位上的数是 3

③八十八写作：808

应用提升练

提升点 进一步体会各数位上数的意义

4. 按要求填一填。　【导学号：09986008】

52　60　25　90　100　75　88　5　80　58

个位是0的数　　十位是8的数　　个位是5的数　　十位是5的数

关注微信公众号“教辅资料站”获取更多学习资料

写数时从最高位写起，几十就在十位写几，几个一就在个位写几，哪个数位上一个也没有写“0”占位。

告诉你

第 4 课时　100 以内数的顺序

基础导学练

知识点 探索百数表的排列规律

1. 填一填，涂一涂。

1									10
	12							19	
		23					28		
			34			37			
				45	46				
				55	56				
			64			67			
		73					78		
	82							89	
91								100	

（1）按顺序填数。

（2）给个位是 4 的数涂上红色，个位是 0 的数涂上黄色。

（3）给个位和十位数字相同的数涂上蓝色。

（4）从上往下数，第 7 行第 7 个数是（　　），第 8 行第 5 个数是（　　）。

易错点 未掌握百数表中的规律，截取一部分后不能正确填数

2. 按百数表的规律填数。

（1）

	43	

（2）

	66

（3）

	58	

（4）

	78	

应用提升练

提升点 进一步体会 100 以内数的顺序

3. 先填数，再回答问题。

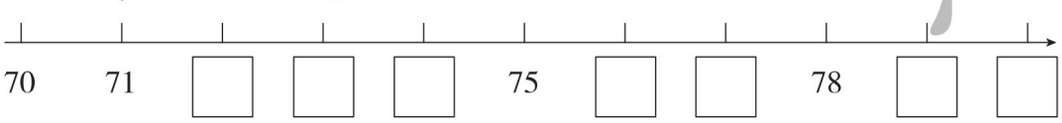

77 更接近（　　），74 更接近（　　）。（选填“70”或“80”）

4. 按规律填一填。

（1）45　46　47　　

（2）50　　70　80　　

口算训练

10 + 3 − 7 =

16 − 8 − 6 =

14 − 6 − 7 =

5 + 6 − 8 =

16 − 7 + 6 =

8 + 3 − 4 =

4 + 8 − 6 =

3 + 9 − 2 =

5 + 8 − 6 =

10 + 7 − 5 =

12 + 4 − 8 =

17 − 8 − 3 =

12 − 9 + 7 =

16 − 9 + 8 =

15 − 4 − 3 =

告诉你　百数表中，一行中相邻两个数左边的数比右边的数少 1，一列中相邻两个数上面的数比下面的数少 10。

关注微信公众号“教辅资料站”获取更多学习资料

第 5 课时　100 以内数的大小比较

口算训练

5 + 8 + 6 =

12 − 4 − 4 =

16 − 9 + 6 =

19 − 4 − 7 =

13 − 6 − 2 =

8 + 6 − 7 =

7 + 6 − 9 =

18 − 3 − 4 =

12 − 5 + 4 =

13 − 4 + 8 =

16 − 10 + 7 =

15 − 5 − 3 =

18 − 2 − 7 =

19 − 5 − 4 =

12 − 7 − 3 =

基础导学练

知识点 体会 100 以内数的大小比较的方法

1. 先填数，再比较大小。

（1）

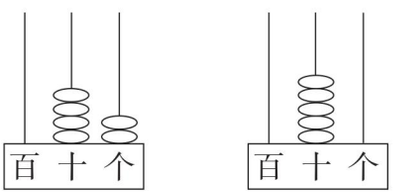

（　　）◯（　　）

（2）

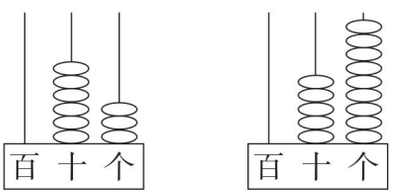

（　　）◯（　　）

2. 在◯里填上“＞”“＜”或“＝”。

35 ◯ 38　　47 ◯ 74　　70 ◯ 7 个十

44 ◯ 55　　86 ◯ 68　　66 ◯ 77

3. 按要求分一分。



比30小的数　　比50大比80小的数　　比80大的数

应用提升练

提升点 通过多种形式的练习进一步巩固 100 以内数的大小比较

4. 把下列各数按从大到小的顺序排队。



（　　）＞（　　）＞（　　）＞（　　）＞（　　）＞（　　）＞（　　）

5. 填一填。

25 ＜ □　　□ ＞ 79　　□ ＜ 50

68 ＜ □　　□ ＜ 100　　□ ＞ 37

比较两位数的大小：十位上的数字大这个数就大，十位上的数字相同，个位上的数字大这个数就大。

告诉你

关注微信公众号“教辅资料站”获取更多学习资料

第 6 课时　描述数的大小关系

基础导学练

知识点 理解“多一些”“多得多”“少一些”“少得多”的含义

1. 连一连。


39只


86只


42只

少得多　多得多　少一些　多一些


比



比



比



比


易错点 不能正确描述两数之间的相对大小关系

2. 永泰县的芙蓉李丰收了，采摘包装后运往全国各地。用“多一些”“多得多”“少一些”“少得多”填空。



98筐



26筐



100筐

（1）①号比②号（　　），②号比①号（　　）。

（2）③号比①号（　　），①号比③号（　　）。

应用提升练

提升点 通过解决实际问题，体会两数之间的相对大小关系

3. 选择合适的答案。（在合适的答案下面画“√”）

（1）





大象的平均寿命是多少岁？

23 岁	28 岁	80 岁

（2）

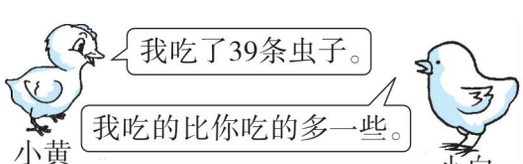

小白可能吃了多少条虫子？

31 条	42 条	95 条

口算训练

12 − 7 − 5 =

15 − 8 − 4 =

11 + 5 + 3 =

12 + 3 − 2 =

14 − 6 + 8 =

12 − 9 + 2 =

15 − 3 + 3 =

12 − 3 + 5 =

9 + 6 − 5 =

18 − 7 − 3 =

12 − 2 + 8 =

16 − 2 + 4 =

11 − 9 − 2 =

0 + 15 − 3 =

12 + 6 − 4 =



两个数比较接近，用多（少）一些来描述；两个数相差较大，用多（少）得多来描述。

关注微信公众号“教辅资料站”获取更多学习资料

1. 100 以内数的认识



1. 给下面的房子编号。

甲队：房子号码是个位和十位数字相同的数。



乙队：房子号码是个位是 6 的两位数。



2. 踢毽子比赛。（在合适的答案下面画“⊙”）

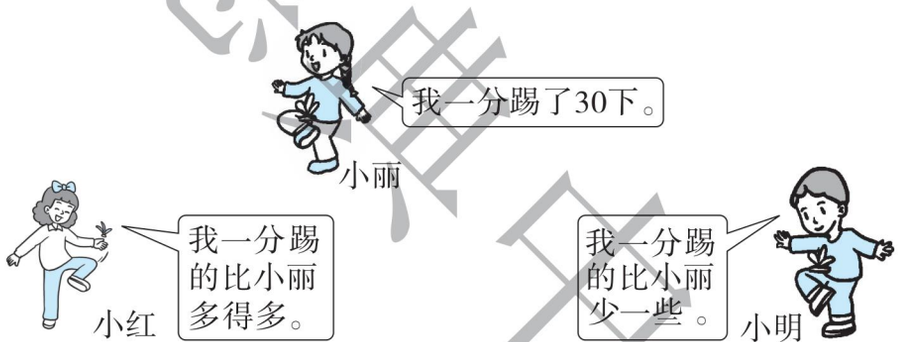

	31 下	27 下	50 下	32 下
小红				
小明				

3. 猜数比赛。 【导学号：09986009】

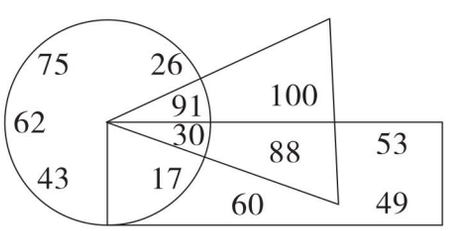

（1）它是圆里最大的数，它是（　　）。

（2）它在圆和长方形里，比 30 小，它是（　　）。

（3）它在长方形里，比 60 小，比 49 大，它是（　　）。

关注微信公众号“教辅资料站”获取更多学习资料

2. 神奇的百数表

名师点金

百数表存在的规律：每行数中左右相邻的两个数相差1，每列数中上下相邻的两个数相差10。

1. 下面分别是百数表的一部分，请在下面的空格中填上适当的数。

（1）

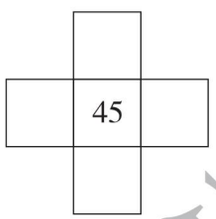

（2）

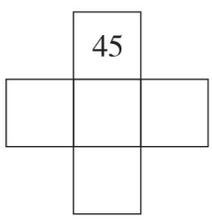

（3）

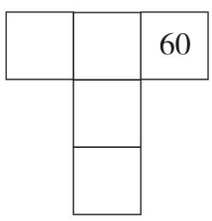

（4）



（5）

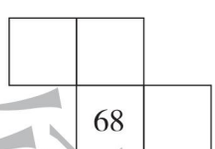

（6）

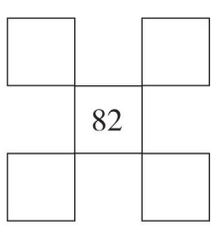

2. 根据百数表填一填。

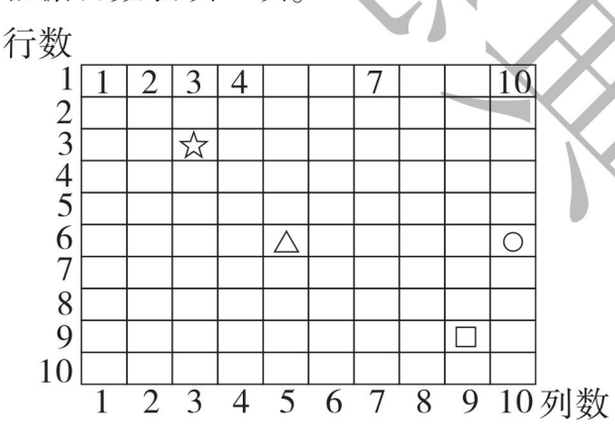

（1）完成下面的表格。

	☆	○	△	□
第几行				
第几列				
数				

（2）第3行第7列是（　　），第9行第10列是（　　）。

（3）40在第（　　）行第（　　）列。

（4）在百数表中，77四周的数是（　　）、（　　）、（　　）、（　　）。

（5）74向上四行，再向右三列的数是（　　）。

荣德集中点

关注微信公众号“教辅资料站”获取更多学习资料

第 7 课时　解决“装满”和“需要”的问题

口算训练

14 − 4 =

11 − 7 =

15 − 7 =

16 − 8 =

12 − 6 =

19 − 6 =

13 − 6 + 8 =

7 + 6 + 5 =

14 − 6 − 6 =

13 − 8 + 8 =

12 − 5 + 7 =

15 − 6 − 0 =

8 + 9 − 8 =

7 + 8 − 3 =

10 − 6 + 2 =

基础导学练

知识点 解决一个数里面有几个另一个数的简单实际问题

1. 10 个乒乓球装一盒，可以装满几盒？

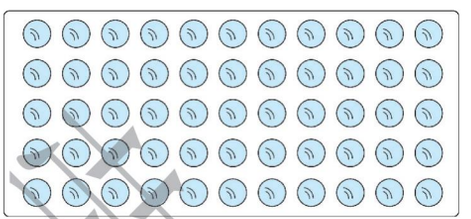



我用圈一圈的方法，也请小朋友圈一圈，发现可以装满（　　）盒。

共有（　　）个乒乓球，再想（　　）里面有（　　）个十和（　　）个一，所以就可以装满（　　）盒。



易错点 难以理解“装满”和“需要”的区别

2. 15 个福橘，4 个装一袋。



（1）可以装满（　　）袋。

（2）需要（　　）个袋子装。

应用提升练

提升点 求一个数里面有几个另一个数的稍复杂实际问题

3. 5 个  装一袋，装了 6 袋。如果 10 个装一袋，可以装几袋？

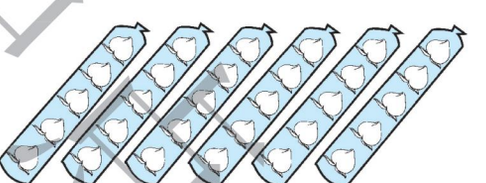

4. 6 个箱子能装下这些  吗？

【导学号：09986010】



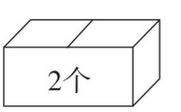

5. 有多少块巧克力？

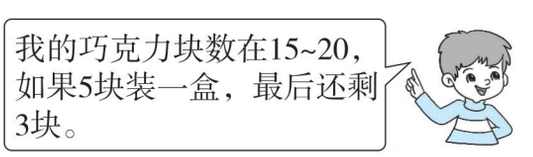

利用数一数、圈一圈、数的组成等方法可以解决求一个数里面有几个另一个数的问题。

告诉你

关注微信公众号“教辅资料站”获取更多学习资料

第 8 课时　整十数加一位数及相应的减法

基础导学练

知识点 计算整十数加一位数及相应的减法

1. 看图写算式。

（1）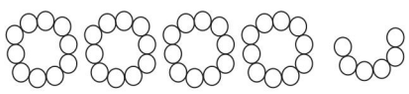

40 + □ = □

（2）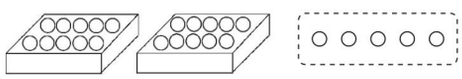

25 − □ = □

（3）

□ + □ = □　　□ + □ = □

□ − □ = □　　□ − □ = □

2. 在○里填上“＞”“＜”或“＝”。

40 + 6 ○ 36　　79 − 9 ○ 70　　4 + 50 ○ 55　　63 − 30 ○ 2

45 − 5 ○ 41　　58 − 50 ○ 5　　74 − 4 ○ 70　　40 + 7 ○ 50

易错点 解决“够吗”的问题时结论出错

3.



应用提升练

提升点 运用逆向思维解决问题

4. 某网站举办了一场歌唱比赛，要多少个“赞”才能获奖？

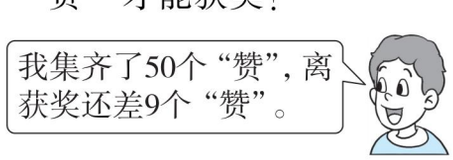

5. 找规律填数。

65	60	
5		

38	30	
8		

82	□	
2		

□	20	
3		

口算训练

3 + 8 =

9 + 5 =

88 − 80 =

8 + 50 =

23 − 20 =

99 − 9 =

46 − 40 =

67 − 60 =

70 + 5 =

48 − 8 =

36 − 6 =

37 − 30 =

2 + 90 =

57 − 7 =

98 − 90 =



计算整十数加一位数及相应的减法时，可以用数的组成及连续数数的方法进行计算。

关注微信公众号“教辅资料站”获取更多学习资料

第 9 课时　整十数加一位数及相应的减法的练习

口算训练

7 + 60 =

59 − 9 =

30 + 4 =

17 − 9 =

8 + 50 =

3 + 60 =

95 − 5 =

68 − 8 =

13 + 5 =

72 − 2 =

70 − 60 =

89 − 80 =

76 − 6 =

5 + 40 =

42 − 2 =

题型1 整十数加一位数及相应的减法的计算练习

1. 小小投递员。（连一连）

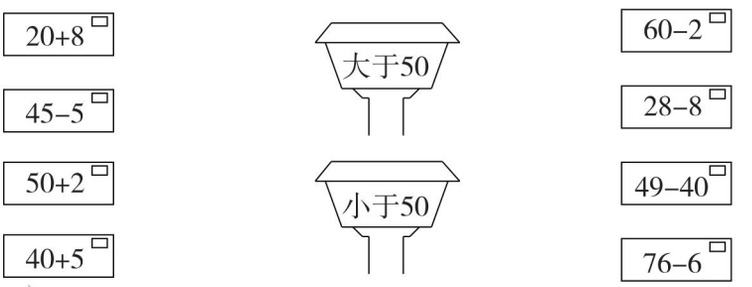

2. 在□里填上合适的数。

86=□+6　　7+□=27　　□−4=40

90=99−□　　50+□=54　　88=80+□

题型2 利用整十数加一位数及相应的减法解决问题

3. 套圈游戏。



（1）明明套中了（　　）分。

（2）芳芳比明明少套中（　　）分。

4.

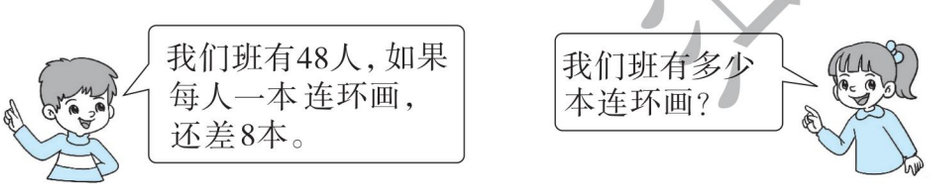

□ ○ □ = □（　　）

5. 想一想，算一算。

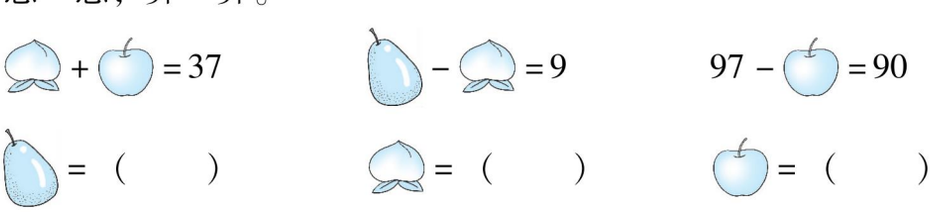

关注微信公众号“教辅资料站”获取更多学习资料

第 10 课时　摆一摆，想一想

活动1 借助摆珠子巩固数位和位数的概念

1. 把一个珠子放在十位或个位上，分别表示什么数？你有什么发现？

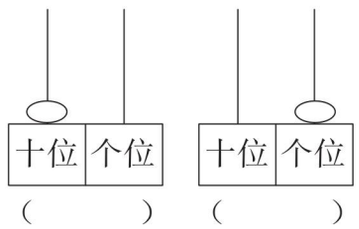

（　　）（　　）



我发现：同样的数字在不同的数位上，表示的意义（　　）。（填“相同”或“不同”）

活动2 用 3 个珠子摆数发现规律

2. 你能用 3 个●摆出不同的两位数吗？你发现了什么？

十位	个位	摆出的数



我发现：用3个●摆出的两位数，个位和十位上的数相加的和是（　　）。

活动3 用多个珠子摆数探索珠子的个数与摆出数的个数之间的关系

3. 在个位、十位上摆一摆，填一填。　【导学号：09986011】

●的个数	摆出的数	摆出数的个数
4 个●		
5 个●		
6 个●		
7 个●		



我发现：摆出数的个数总比●的个数（　　）。

4. 用 9 个●摆两位数，使组成的数十位上的数字比个位上的数字小。

【导学号：09986012】

十位	个位	摆出的数

5. 个位与十位的数字相加的和是 12，且在 60 与 90 之间的数有（　　）。

口算训练

20 + 5 =

35 − 5 =

44 − 4 =

42 − 2 =

53 − 3 =

55 − 50 =

86 − 6 =

95 − 5 =

77 − 7 =

6 + 9 =

9 + 20 =

3 + 40 =

47 − 7 =

29 − 9 =

30 + 6 =

关注微信公众号“教辅资料站”获取更多学习资料

双休创新练(四)

1. 整十数加一位数及相应的减法的应用



嗨！聪聪又和大家见面了，我们学习了解决整十数加一位数及相应的减法的问题，下面让我们一起来做题吧！

聪聪

1. 

2. 42 个枇杷，8 个装一盘，还差几个正好装 6 盘？

3. 36 只猴子想吃桃。

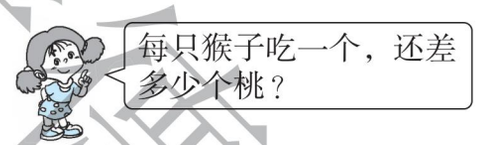



4. 兰兰和亮亮看同一本书，谁看的页数多？

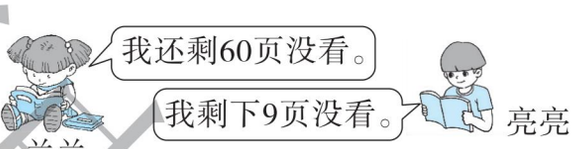

5. 漳州市的荔枝丰收啦！请提出一个数学问题并解答。

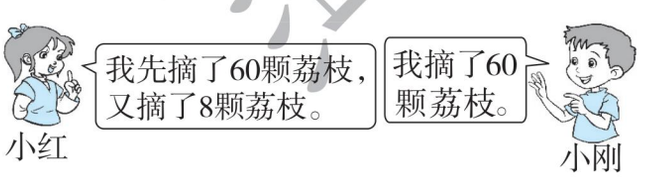

6. 选择正确的数学问题填空（填序号），并列式解答。

王东有 36 本故事书，26 本连环画，他借给小南 6 本故事书，_____？

①一共有多少本故事书　②还剩多少本故事书　③还剩多少本连环画

□ ○ □ = □ （　　）

关注微信公众号“教辅资料站”获取更多学习资料

2. 100以内数的认识的典型题目

妙用1 运用转化法和推理法求算式中的未知数

1. 在（　　）里填上合适的数。

（　　）+30=37　　56−（　　）=50　　48=（　　）+（　　）

（　　）+60=62　　73−（　　）=70　　54=（　　）+（　　）

2.（1）□=30　　☆=8　　△=58

□+☆=（　　）　　△−☆=（　　）

（2）○=29　　▱=20　　□=9

○−▱=（　　）　　○−□=（　　）

妙用2 解决（　　）里最大能填几的问题时，想和比右边的数小1，差比右边的数大1

3.（　　）里最大能填几？

40+（　　）<48　　50+（　　）<52　　70+（　　）<79

75−（　　）>70　　84−（　　）>80　　67−（　　）>60

妙用3 组两位数时，先确定最高位，再确定个位

4. 用3，5，8这三个数字组成不同的两位数，每个数字只能用一次，最大是多少？最小是多少？

5. 一个两位数，个位和十位上的数字合起来是8，这个两位数可能是多少？

荣德集中点

关注微信公众号“教辅资料站”获取更多学习资料

学号 姓名 班级 学校

第 1 单元过关检测卷

时间：40 分钟　满分：100 分

题　号	一	二	三	四	五	六	七	总分
得　分								

一 填一填。（每空 1 分，共 10 分）

1. 硬币正面的形状是（　　），黑板的面是（　　）形，数学书的面是(　　）形。

2. 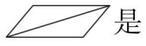是由两个相同的（　　）形拼成的（　　）形。

3. 至少用（　　）个相同的正方形可以拼成一个大的正方形。

4. 一个正方形可以剪成两个相同的（　　）形。

5. 把一张正方形纸沿虚线对折，对折后的图形是（　　）形，有（　　）个。

6. 盒子里抽出的图形可能是（　　）形。

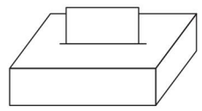

二 选一选。（每题 2 分，共 10 分）

1. 猜一猜，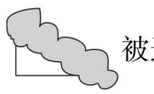被遮住的图形不可能是（　　）。

①　②　③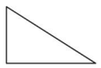　④

2. 把一张正方形纸对折，不能折出的图形是（　　）。

①长方形　②正方形　③圆　④三角形

3. 七巧板中共有（　　）种不同的图形。

①7　②5　③3　④4

4. 把下图折成正方体，b 的对面是（　　）。

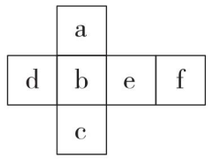

①a　②f　③e　④d

5. 至少用（　　）根这样的小棒，可以摆成一个长方形。

①4　②6　③8　④10

三 连一连。（共 18 分）

1. 下面这些物体的表面是什么形状？请你用线连一连。（10 分）






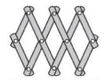



2. 沿着虚线剪开，将得到的图形连起来。（8 分）





一年级 数学 下（R版）福建专用

关注微信公众号“教辅资料站”获取更多学习资料

四 数一数。（10 分）

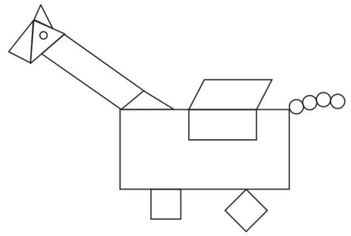

□（　　）个　　○（　　）个　　▱（　　）个

▭（　　）个　　△（　　）个

五 动手操作。（共 32 分）

1. 右边的图形分别是长方体的哪个面？用线连起来。（6 分）



上面

前面

右面

2. 在点子图上画一个长方形和一个正方形。（8 分）

3. 在每组图中，先找到一个和左边相同的图案再给这个图案涂色。（8 分）

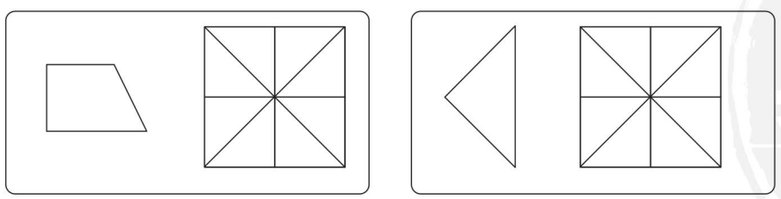

4. 剪一剪。（在图中用虚线画出来）（10 分）

（1）剪三刀，把下图剪成四个大小一样的小正方形。



（2）剪一刀，把下图剪成一个三角形和一个平行四边形。

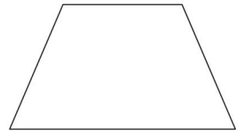

六 趣味七巧板。（14 分）

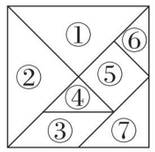

下面是我用七巧板拼出来的图形，你知道用了哪几块七巧板吗？你能把每块的序号在图中标出来吗？试试看！



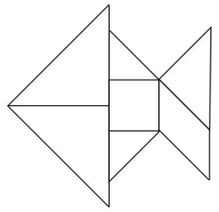

七 小熊补墙，画一画，数一数，填一填。（6 分）

缺了（　　）块砖。

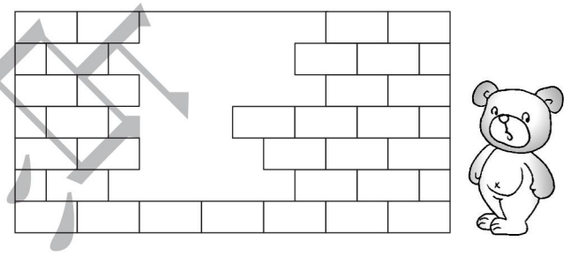

荣德基 典中点

密 封 线

关注微信公众号“教辅资料站”获取更多学习资料

学号 姓名 班级 学校

密 封 线

一年级 数学 下（R版）福建专用

第 2 单元过关检测卷

时间：40 分钟　满分：100 分

题　号	一	二	三	四	五	六	七	八	九	十	总分
得　分											

一 我会算。（共 22 分）

1. 看谁先过河。（12 分）

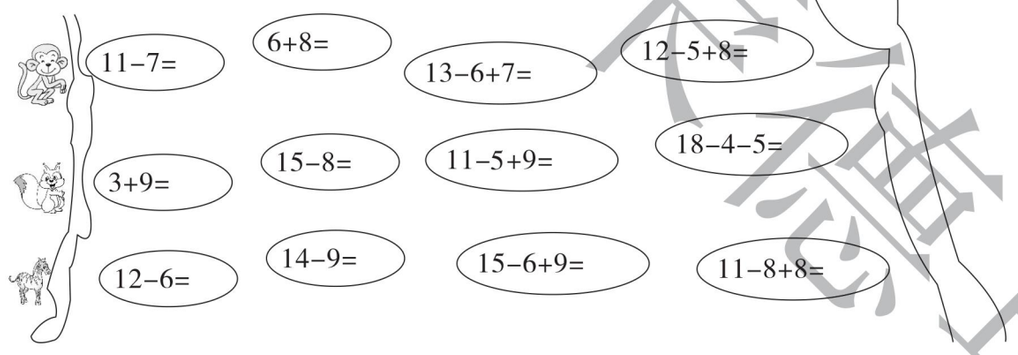

2. 在○里填上合适的数。（6 分）

11 −○=5　　12 −○=8　　○−6=6

14 −○=5　　○+8=17　　15 −6 =○

3. 在◯里填上“ >”“ <”或“ =”。（4 分）

12 −9 ◯ 4　　13 −9 ◯ 5

12 −7 ◯ 13 −8　　10 +2 ◯ 17 −8

二 猜猜小动物各是几？（每题 2 分，共 8 分）

1. 

（　　）

2. 

（　　）

3. 

（　　）

4. 

（　　）

三 我会写。（共 10 分）

1. 先在（　　）里填上合适的数，再根据每组的加法算式分别写出两道减法算式。（6 分）

（1）

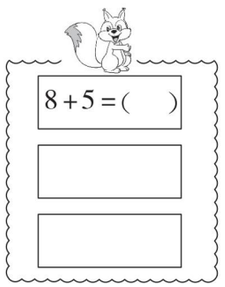

（2）



2. 从 12，8，4，13 中选三个数写出两道加法和两道减法算式。（4 分）

□ + □ = □　　□ + □ = □

□ − □ = □　　□ − □ = □

四 小猫钓的可能是哪两条鱼？（连一连）（4 分）



五 下面每组算式的得数相同，请在○中填上合适的数。（6 分）

（1）

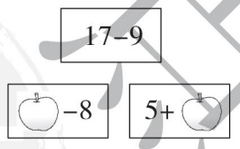

（2）

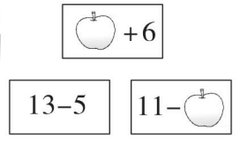

（3）

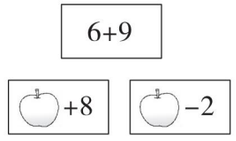

六 我会选。（每题 2 分，共 6 分）

1. 开学啦！红红带了 20 元钱去商店买学习用品，买笔用了 8 元，买尺子用了 2 元，她用去了多少元钱？在解“她用去了多少元钱？”时，信息（　　）没有用到，是多余条件。

①红红带了 20 元钱　　②买笔用了 8 元

③买尺子用了 2 元　　④她用去了多少元钱

典中点 荣德基
关注微信公众号“教辅资料站”获取更多学习资料

2. 小力在做一道减法算式时，把减数9看成了6，算出得数是8，原来正确的得数是（　　）。

①17　　②14　　③11　　④5

3. 小明在做一道减法算式时，先算10－9＝1，再算1＋5＝6，他计算的算式是（　　）。

①11－9　　②15－9　　③16－9　　④12－6

七 用自己喜欢的方式画图表示“12－8”。（6分）

八 完成表格。（9分）

	原有	卖出	还剩
	12台	5台	（　　）台
	（　　）辆	9辆	9辆
	15块	（　　）块	8块

九 看图列式计算。（每题3分，共6分）

1. 

□ ○ □ ＝ □ （　　）

2. 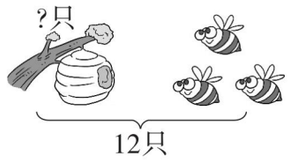

□ ○ □ ＝ □ （　　）

十 解决问题。（共23分）

1. （4分）



□ ○ □ ＝ □ （　　）

2. 下面是2016年里约奥运会中部分国家所获得的铜牌数。（8分）

法国	意大利	德国
14块	8块	15块

（1）法国所获得的铜牌比意大利多几块？

□ ○ □ ＝ □ （　　）

（2）你能再提一个数学问题并解答吗？

_____

□ ○ □ ＝ □ （　　）

3. （5分）

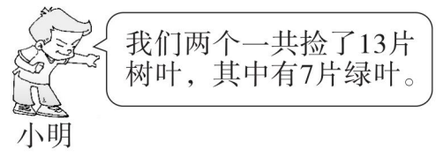

小明捡了几片树叶？

□ ○ □ ＝ □ （　　）

4. 周末，一（1）班家委会成员组织部分同学一起去儿童乐园游玩。（6分）

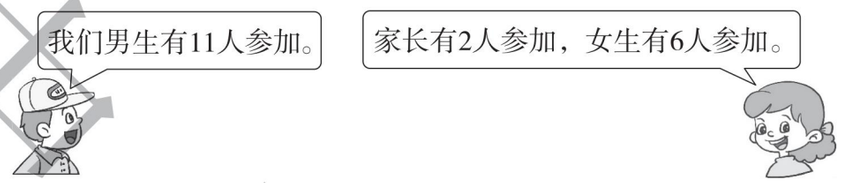

（1）女生比男生少多少人？

□ ○ □ ＝ □ （　　）

口答：女生比男生少（　　）人。

（2）从学校出发到儿童乐园，坐哪辆车合适？



□ ○ □ ○ □ ＝ □ （　　）

口答：坐限坐（　　）人的车合适。

典中点 荣德基

关注微信公众号“教辅资料站”获取更多学习资料

学号 姓名 班级 学校

密 封 线

一年级 数学下（R版）福建专用

第3、4单元过关检测卷

时间：40分钟　满分：100分

题　号	一	二	三	四	五	六	总分
得　分							

一 填一填。（8题2分，其余每空1分，共27分）

1. 98里面有9个（　　）和（　　）个一，2个十和4个一组成的数是(　　)。
2. 6个十是（　　），（　　）个十是100。
3. 计数器上，从右边起第一位是（　　）位，第二位是（　　）位，第三位是（　　）位。
4. 和68相邻的两个数是（　　）和（　　）。
5. 最小的两位数是（　　），最大的两位数是（　　）。
6. 按规律填数。

   37，38，39，（　　），（　　），（　　），（　　）。

   27，37，47，（　　），（　　），（　　），（　　）。
7. 根据百数表，在空白的方框内填上合适的数。

26	

8. 把37，49，91，72，84，11按从小到大的顺序排列。

   （　　）<（　　）<（　　）<（　　）<（　　）<（　　）
9. 填序号。



①　②　③　④　⑤　⑥

⑦　⑧　⑨　⑩　⑪　⑫

水果有（　　），蔬菜有（　　）。

二 选一选。（每题2分，共16分）

1. 比28大，比33小的数是（　　）。

   ①32　　②27　　③34　　④36
2. 65比（　　）大得多。

   ①66　　②90　　③9　　④56
3. 与56个位相同的数是（　　）。

   ①59　　②60　　③76　　④65
4. 用3个○可以摆出（　　）个不同的数。

   ①3
   ②2
   ③4
   ④5

十位	个位	组成的数

5. 与不同类的是（　　）。

   ①　②　③　④
6. 关于“56”，下面说法不正确的是（　　）。

   ①56里面有5个十和6个一

   ②56比一位数大

   ③56和75里面都有“5”，两个5都表示5个十

   ④57前面一个数是56
7. □8+7的和可能是（　　）

   ①78　　②70　　③27　　④55
8. 教室里原有20名男生，（　　），还剩下多少名男生？要求这个问题，括号里应选择（　　）。

   ①有2名男教师走进教室　　②有3名女生走出教室

   ③有3名男生走出教室　　④有3名男生走进教室

三 我会算。（共21分）

1. 直接写出得数。（8分）

80+5=	76−6=	64−60=	8+70=
49−9=	83−3=	95−90=	9+9=

荣德基 典中点 关注微信公众号“教辅资料站”获取更多学习资料

2. 在◯里填上“＞”“＜”或“＝”。（8 分）

40 + 8 ◯ 49　　30 + 7 ◯ 20　　78 ◯ 87　　75 − 5 ◯ 70

3. 在◯里填上合适的数。（5 分）

□ + 8 = 78　　63 − □ = 60

□ − 40 = 6　　□ + □ = 72

四 快乐的课外活动。（共 8 分）



1. 按参加每项活动的人数分一分，涂一涂。（4 分）



打乒乓球　踢毽子　打羽毛球　跳绳

2. 如果把这些同学分成两组，可以怎样分？填一填。（4 分）

五 故事书可能有多少本？在合适的答案下面画“√”。（5 分）



99 本	40 本	87 本

六 解决问题。（共 23 分）

1. （5 分）



欢欢一共要背多少个词语？

□ ◯ □ = □（　　）

2. （8 分）

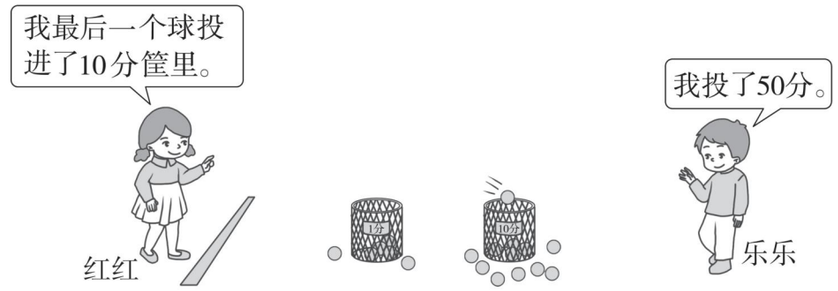

（1）红红投了多少分？

□ ◯ □ = □（　　）

（2）乐乐比红红少投了几分？

□ ◯ □ = □（　　）

3. （5 分）

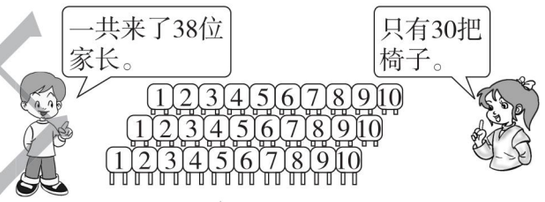

还缺多少把椅子？

□ ◯ □ = □（　　）

4. 40 枚贝壳，每 9 枚贝壳穿一条手链，能穿多少条手链？（5 分）



典中点 荣德基
密 封 线
关注微信公众号“教辅资料站”获取更多学习资料

期中检测卷

时间：40 分钟　满分：100 分

题　号	一	二	三	四	五	六	七	总分
得　分								

一 填一填。（每空 1 分，共 27 分）

1. （1）按顺序填数。

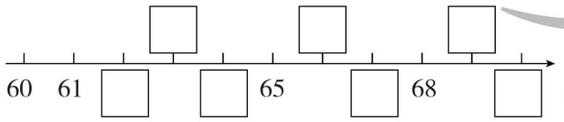

（2）65 前面的一个数是（　　），后面的一个数是（　　）。

（3）65 和 69 这两个数中，（　　）更接近 64，（　　）更接近 70。

2. 36 中的（　　）在十位上，表示（　　）个十，6 在（　　）位上，表示（　　）个（　　）。

3. 比 50 小，个位上是 8 的数有（　　）。

4. 下图中的小火车有（　　）个正方形，（　　）个三角形，（　　）个圆，（　　）个长方形。

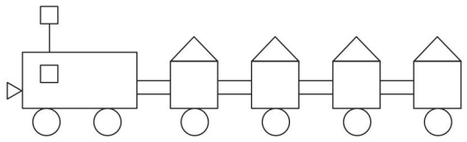

5. 如果把下图围成一个正方体，（　　）的对面是 5，1 的对面是（　　）。

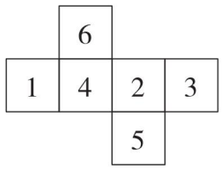

6. 最大的一位数是（　　），最小的两位数是（　　），它们的和是（　　），差是（　　）。

二 选一选。（每题 2 分，共 12 分）

1. 篮球队中男生有 68 人，女生比男生少得多，女生可能有（　　）人。

①20　　②65　　③92　　④70

2. 一个两位数，个位和十位上的数字合起来是 8，这个两位数不可能是(　　)。

①53　　②47　　③80　　④26

3. 下图中有（　　）个长方形。

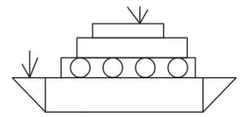

①2　　②3　　③4　　④5

4. 一个两位数，最高位上是 2，最低位上是 9，这个数是（　　）。

①92　　②29　　③90　　④20

5. 8 块橡皮装一盒，能装满（　　）盒。

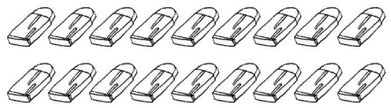

①3　　②2　　③4　　④1

6. 下面说法正确的是（　　）。

①用两个完全相同的三角形，一定可以拼成一个长方形

②58 和 50、60 相比，更接近 50

③90 个一和 9 个十同样多

④二十七是 7 个十和 2 个一组成的

三 算一算。（共 22 分）

1. 直接写出得数。（8 分）

14 − 6 =	12 − 4 + 20 =	14 − (　　) = 8	11 − (　　) = 9
13 − 7 =	6 + 50 − 4 =	(　　) + 60 = 62	90 + (　　) = 99

2. 在◯里填上“ > ”“ < ”或“ = ”。（6 分）

25 ◯ 52　　15 − 8 ◯ 9 + 2　　18 − 6 ◯ 11 − 5

90 ◯ 19　　60 ◯ 67 − 7　　70 − 30 ◯ 30

3. 小蝌蚪找妈妈。（连一连）（8 分）

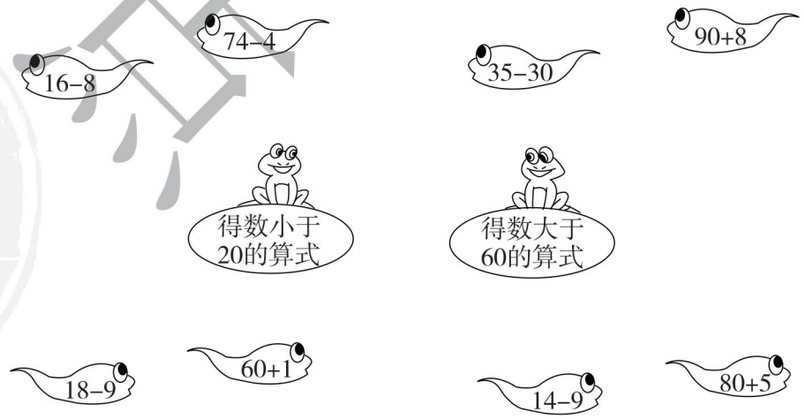

关注微信公众号“教辅资料站”获取更多学习资料

四 看图列式计算。（每题 3 分，共 6 分）

1.



□ ○ □ = □ （　　）

2.

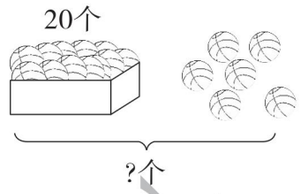

□ ○ □ = □ （　　）

五 猜一猜。（在合适的答案下面画“√”）（4 分）

小红跳了 48 下。

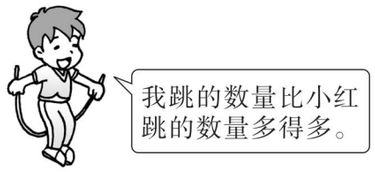

男孩可能跳了多少下？

45 下	52 下	85 下



女孩可能跳了多少下？

45 下	52 下	85 下

六 走进图形世界。（共 8 分）

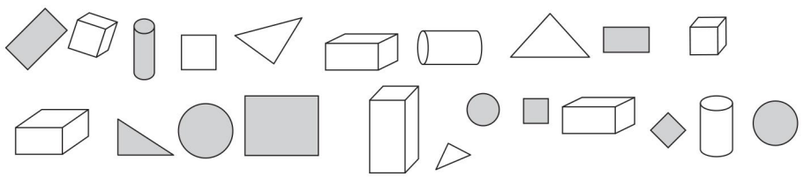

1. 按形状分一分，涂一涂。（4 分）

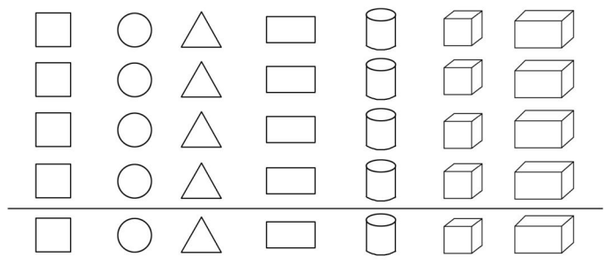

2. 如果把这些图形分成两组，可以怎样分？把分组的结果表示出来。（4 分）



七 解决问题。（共 21 分）

1. （5 分）



车上有多少位乘客？

□ ○ □ = □ （　　）

2. 在正确的答案后面画“√”。（6 分）



□ ○ □ = □ （　　）

够（　　）　　不够（　　）

3. 一（1）班开展“收集废电池，减少污染”活动，全班一共收集了 73 节废电池。（10 分）

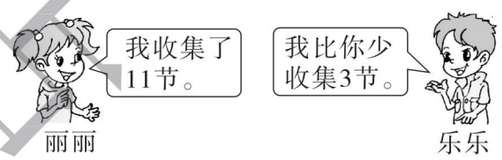

（1）乐乐收集了多少节？

□ ○ □ = □ （　　）

（2）乐乐和丽丽一共收集了多少节？

□ ○ □ = □ （　　）

密 封 线
荣德基 典中点
关注微信公众号“教辅资料站”获取更多学习资料

荣德基小学系列 典中点

参考答案及点拨

一年级 数学 下（R版）福建专用

课时部分

第1单元 认识图形(二)

第1课时 认识平面图形

1.

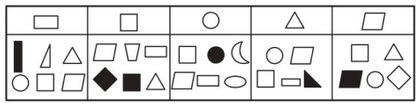

2. □（ 2 ）个 ○（ 5 ）个
□（ 5 ）个 ▱（ 1 ）个
△（ 7 ）个

3.

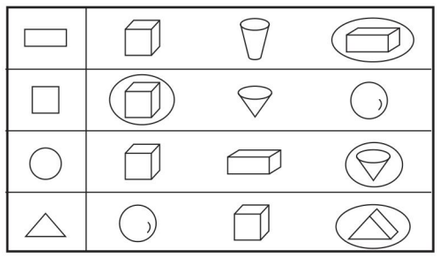

4. 正方形 长方形 三角形 圆

口算训练：6 1 9 8 8 7 7 2 7 9
9 5 6 6 4

第2课时 平面图形的拼组

1.（1）① ②（2）① ③
2.（1）长方（2）三角（3）三角
3. ③ 点拨：①两个相同的三角形一定能拼成一个平行四边形。②只有当长方形的长是宽的2倍时，两个相同的长方形才能拼成一个正方形。
4.（1）正方 三角（2）三角 长方 圆
5.

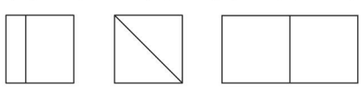

（答案不唯一）

口算训练：14 17 17 13 12 7 11
18 17 14 11 11 11 16 18

第3课时 七巧板

1.（1）3 5（2）② ④ ⑥
（3）正方 三角 平行四边
2.（略） 3.（略） 4.（略）

口算训练：11 14 14 12 19 16 10
17 12 11 8 15 19 19 16

第4课时 平面图形的变式练习

1. 10
2. 下面
左面
后面

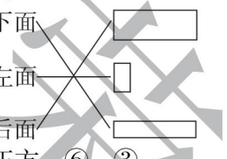

3. 正方 ⑥ ③
4.（1）



（2）

5.（略）

口算训练：14 2 11 17 15 14 16 7
16 15 10 12 13 19 18

双休创新练（一）

1. 巧用平面图形

1. 略 2.（1）长方 三角 圆（2）6
3. 6 5 4
4.

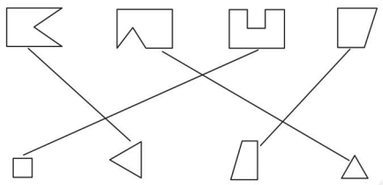

2. 巧数平面图形

1. 4 2 6 5 2. 5 10 14
3. 3 5 5 4. 6 5 6 5. 6

第2单元 20以内的退位减法

第1课时 十几减9

1.（圈一圈略）（1）6 5 6 6 6

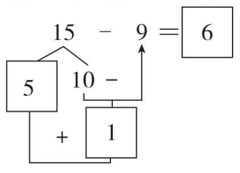

（2）

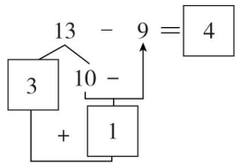

1 1 3 4

2. 18 −9 > 17 −9 > 16 −9 > 14 −9 > 12 −9
点拨：先算出各算式的得数，再把算式按得数从大到小排列。
3. 13 −9 = 4

口算训练：5 4 6 12 13 10 3 7 2
9 11 17 9 12 11

第2课时 十几减9的基本练习

1.

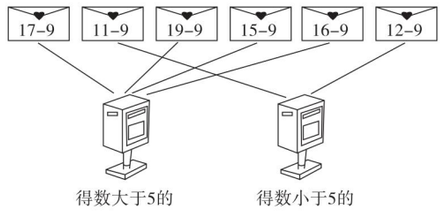

2. 2 +9 = 11　5 +9 = 14　6 +9 = 15
8 +9 = 17　9 +9 = 18　7 +9 = 16
4 +9 = 13　3 +9 = 12　16 −9 = 7
18 −9 = 9　15 −9 = 6　13 −9 = 4
11 −9 = 2　12 −9 = 3　14 −9 = 5
17 −9 = 8
3. < < = < > =
4.（1）14 −9 = 5（2）17 −9 = 8

口算训练：6 1 3 5 5 4 4 10 12
11 7 7 7 12 10

第3课时 十几减9的提高练习

1. 1 2 3 4 5 6 7 8 9 多1
2.（1）16 −9 = 7（2）14 −9 = 5
3. 15 −9 = 6 4. 9 −1 = 8

口算训练：11 16 15 8 11 14 0 4
3 8 5 6 9 7 2

第4课时 十几减8

1.（圈一圈略）（1）7 5 7 7 7

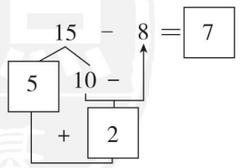

（2）6

2. 13 5 11 3 17 9 3. = = >
4. 3 4 5 6 7 8 9 10 被减数个位上的数加2

5.

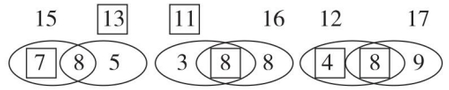

口算训练：15 5 13 14 8 16 4 19
19 9 3 7 1 5 17

第5课时 十几减7，6

1.（1）

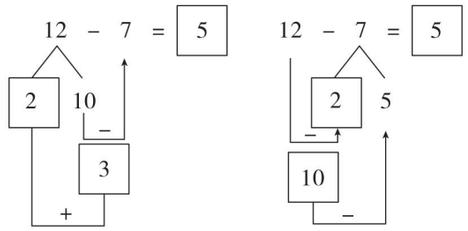

5
（2）6 7 7 6

2.

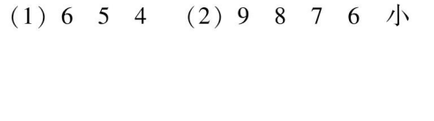

3. < > < < = >
4.（1）1 3（2）2 4（3）3 5
（4）4 6 10

口算训练：5 3 2 8 3 12 7 18 14
5 10 6 0 8 4 1 4

第6课时 用减法解决实际问题

1. 13 −6 = 7
2. 12 −7 = 5
3.

文具	原有	卖出	还剩
	14个	6个	8个
	11个	7个	4个
	12支	4支	8支

4.（1）15 −7 = 8（2）15 −6 = 9
5. 3

口算训练：15 8 13 6 6 16 9 7 4
5 7 14 7 7 4

第7课时 十几减8，7，6的提高练习

1. × 改正：13 −8 = 5 √
× 改正：14 −7 = 7
2.（1）6 5 4（2）9 8 7 6 小

关注微信公众号“教辅资料站”获取更多学习资料

3. 6 + 9 = 7 + 8（答案不唯一）
4. 11 − 6 = 5（个）
5. 7 − 1 = 6（棵）

口算训练：15　3　12　14　7　6　4　7　2　9　4　13　14　12　12

第 8 课时　十几减 5，4，3，2

1. 7　8　9　8　9　6
2. 8　8　8　8　5　5
3. （1）5　2

   点拨：先算出 12 − 6 = 6，再算 11 −（　　）= 6，（　　）+ 4 = 6。

   （2）4　4

   点拨：先算出 12 − 3 = 9，再算 5 +（　　）= 9，13 −（　　）= 9。
4. （1）11 − 2 = 9　（2）12 − 5 = 7

口算训练：11　9　6　15　8　8　8　16　7　18　17　9　9　14　6

第 9 课时　20 以内的退位减法的练习

1. 5　18　14　11　17　17
2. （1）13 − 8　12 − 7　2 + 3

   （2）16 − 7　5 + 4　17 − 8

   （答案不唯一）
3. 11 − 5 = 6（张）
4. 12 − 4 = 8（条）
5. （1）13 − 5 = 8（棵）

   （2）12 − 3 = 9（个）

口算训练：10　9　16　12　15　7　3　3　15　16　8　9　18　11　6

第 10 课时　有多余条件的解决问题

1. （1）与问题无关的条件：3 块橡皮

   13 − 4 = 9（支）

   （2）与问题无关的条件：6 只猫

   11 − 6 = 5（只）
2. 8 + 6 = 14（只）　点拨：求一共飞走了几只小鸟，与一共有 19 只小鸟无关。
3. 12 − 9 = 3（个）

   12 − 6 = 6（个）
4. 11 − 5 = 6（人）　11 − 4 = 7（人）

口算训练：6　8　16　6　8　8　11　4　14　11　7　7　9　18　18

第 11 课时　求一个数比另一个数多（少）几的解决问题

1. 12　9　减　12 − 9 = 3（个）
2. 7　16　减　16 − 7 = 9（个）
3. （1）8 + 9 = 17（下）

   （2）13 − 8 = 5（下）
4. （1）12 − 7 = 5（节）

   （2）12 − 8 = 4（节）

口算训练：10　8　9　9　19　19　13　10　19　18　7　17　6　4　6

整理和复习

1. 20 以内的退位减法的计算

1.

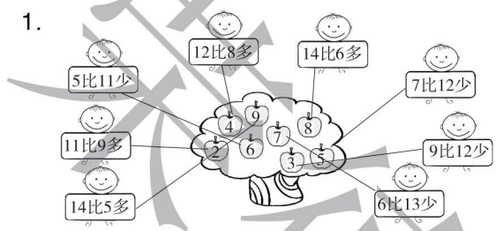

2. <　>　<　>　>　=
3. 8 + 5 = 13　5 + 8 = 13

   13 − 5 = 8　13 − 8 = 5
4. 6　7　8　7　7　4
5.

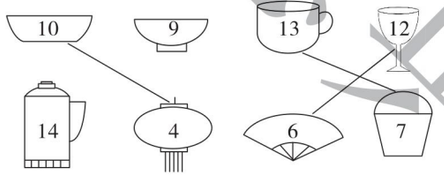

6. 小芳剩下的多，多 2 颗。（画图略）

口算训练：6　18　11　15　16　9　8　4　8　7　6　10　10　4　7

2. 用减法解决问题

1. （1）12 − 4 = 8（台）

   （2）14 − 5 = 9（本）
2. 15 − 9 = 6（条）
3. 13 − 5 = 8（个）
4. （1）13 − 7 = 6（岁）

   （2）13 − 9 = 4（岁）
5. 10

口算训练：9　14　12　8　8　8　7　7　10　9　5　9　10　14　12

双休创新练（二）

1. 用减法解决实际问题

1. （1）13 − 4 = 9（枚）

   （2）12 − 7 = 5（只）

   （3）13 − 5 = 8（枚）
2. （1）14 − 8 = 6（只）

   （2）14 − 7 = 7（只）
3. （1）16 − 7 = 9（人）

   （2）16 − 8 = 8（名）

2. 简单的年龄问题

1. 12 − 3 = 9（岁）
2. 18 − 9 = 9（年）
3. 13 − 9 = 4（岁）　4 + 16 = 20（岁）
4. 10 + 6 − 2 − 2 = 12（岁）

第 3 单元　分类与整理

第 1 课时　按指定标准分类与整理

1.

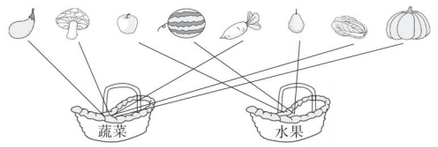

2. ②③⑤⑨　⑦⑧　①④⑥⑩
3. （1）（涂一涂略）　3　3　4

   （2）（涂一涂略）　3　4　3

口算训练：10　8　6　9　12　9　12　7　11　14　9　9　10　18　17

第 2 课时　自选标准进行分类计数

1. （1）（答案不唯一）

	天上飞的	水里游的	地上走的
只数	2	2	5

   （2）（答案不唯一）

	哺乳动物	非哺乳动物
只数	6	3

2. （1）（涂一涂略）　3　5　9　9

   （2）①（答案不唯一）灰色图形和白色图形

	白色图形	灰色图形
个数	17	9

   ②（略）

口算训练：10　6　9　15　19　19　9　3　3　7　7　5　13　2　13

第 4 单元　100 以内数的认识

第 1 课时　数 100 以内的数

1. 43　44　10　10
2. （图略）　45
3. （1）四十九　五十　五十一　五十二

   （2）九十七　九十八　九十九　一百
4. （连线略）

口算训练：7　9　5　9　8　15　2　9　8　5　9　3　8　7　9

第 2 课时　100 以内数的组成

1. 10　100　5　2　52　3　2　32　4　6　46
2. ④　点拨：①七十三里面有 7 个十和 3 个一。②39 里面的“3”表示 3 个十，93 里面的“3”表示 3 个一。③四十九添一是五十。
3. 69　37　42　100

口算训练：4　3　9　8　6　5　5　5　7　8　9　4　2　18　3

第 3 课时　100 以内数的读写

1. 三十四　34　三十　30　六十六　66　一百　100
2. 六十九　二十九　73　32
3. ①　点拨：②93 个位上的数是 3，十位上的数是 9。

   ③八十八写作：88。
4.

个位是0的数	十位是8的数
60　90　100　80	88　80

个位是5的数	十位是5的数
25　75　5	52　58

口算训练：3　8　6　5　13　3　11　6　9　6　4　4　4　8　15

第 4 课时　100 以内数的顺序

1. （1）（略）　（2）（略）　（3）（略）

   （4）67　75
2. （1）

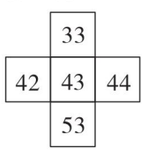

   （2）

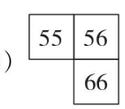

   （3）

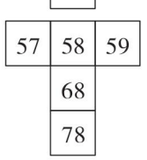

   （4）

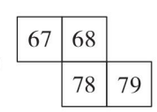

关注微信公众号“教辅资料站”获取更多学习资料

3. 72　73　74　76　77　79　80　80　70

4.（1）48　49　（2）60　90

口算训练：6　2　1　3　15　7　6　10　7　12　8　6　10　15　8

第 5 课时　100 以内数的大小比较

1.（1）42 < 50　（2）63 > 59

2. <　<　=　<　>　<

3.

比30小的数	比50大比80小的数
19　29	62　78

比80大的数

96　92　100

4. 100 > 87 > 76 > 65 > 56 > 49 > 26

5.（答案不唯一）26　80　48　69　90　38

口算训练：19　4　13　8　5　7　4　11　11　17　13　7　9　10　2

第 6 课时　描述数的大小关系

1.

2.（1）多得多　少得多

（2）多一些　少一些

3.（1）

23 岁	28 岁	80 岁
		√

（2）

31 条	42 条	95 条
	√	

口算训练：0　3　19　13　16　5　15　14　10　8　18　18　0　12　14

双休创新练（三）

1. 100 以内数的认识

1. 甲队：22　33　44　55　66　77　88　99

乙队：26　36　46　56　66　76　86　96

2. 小红：50 下　小明：27 下

3.（1）91　（2）17　（3）53

2. 神奇的百数表

1.（1）

	35	
44	45	46
	55	

（2）

	45	
54	55	56
	65	

（3）

58	59	60
	69	
	79	

（4）

78		
88	89	90
	99	

（5）

57	58
	68	69

（6）

71		73
	82	
91		93

2.（1）

	☆	○	△	□
行	3	6	6	9
列	3	10	5	9
数	23	60	55	89

（2）27　90　（3）4　10　（4）67　87　76　78　（5）37

第 7 课时　解决"装满"和"需要"的问题

1.（圈一圈略）　5　55　55　5　5　5

2.（1）3　（2）4

3. 3 袋。　4. 不能。　5. 18 块。

口算训练：10　4　8　8　6　13　15　18　2　13　14　9　9　12　6

第 8 课时　整十数加一位数及相应的减法

1.（1）6　46　（2）5　20

（3）40 + 7 = 47　7 + 40 = 47　47 − 7 = 40　47 − 40 = 7

2. >　=　<　>　<　>　=　<

3. 20 + 5 = 25（名）　25 > 24　不够

4. 50 + 9 = 59（个）

5. 80　23

口算训练：11　14　8　58　3　90　6　7　75　40　30　7　92　50　8

第 9 课时　整十数加一位数及相应的减法的练习

1.

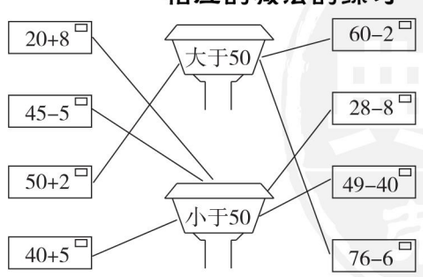

2. 80　20　44　9　4　8

3.（1）34　（2）4

4. 48 − 8 = 40（本）

5. 39　30　7

口算训练：67　50　34　8　58　63　90　60　18　70　10　9　70　45　40

第 10 课时　摆一摆，想一想

1. 10　1　不同　2.（填表略）　3

3.

●的个数	摆出的数	摆出数的个数
4 个●	40，31，22，13，4	5
5 个●	50，41，32，23，14，5	6
6 个●	60，51，42，33，24，15，6	7
7 个●	70，61，52，43，34，25，16，7	8

多 1

4.（略）

5. 66　75　84

口算训练：25　30　40　40　50　5　80　90　70　15　29　43　40　20　36

双休创新练（四）

1. 整十数加一位数及相应的减法的应用

1. 8 个班。

2. 6 个。

3. 36 − 30 = 6（个）

4. 60 > 9　亮亮看的页数多。

5.（答案不唯一）小红摘了多少颗荔枝？60 + 8 = 68（颗）

6. ②　36 − 6 = 30（本）

2. 100 以内数的认识的典型题目

1. 7　6　40　8　2　3　50　4

2.（1）38　50　（2）9　20

3. 7　1　8　4　3　6

4. 最大：85　最小：35

5. 80，71，62，53，44，35，26，17。

第 5 单元　认识人民币

第 1 课时　认识元、角、分

1.

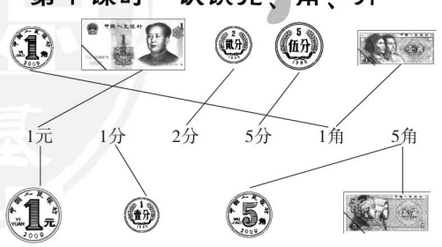

2. 2　6　1　7　7　3. 略

口算训练：16　49　8　8　8　38　39　73　7　20　18　7　80　50　70

第 2 课时　人民币单位之间的进率

1. 50　8　1　2　70　100

2.（略）

3.（1）5　10　100　（2）5　2

点拨：1 元 = 10 角 = 100 分，1 角 = 10 分。

4.（略）

口算训练：9　58　9　75　20　3　60　68　80　6　8　6　36　49　35

第 3 课时　认识 1 元以上的人民币

1. 16　35　90　40

2.（1）2　5　10　（2）5　10

（3）1　8（或 2　6　或 3　4　或 4　2）

3.（略）

4.（1）②④　（2）①⑤　（3）②③⑦

口算训练：78　80　4　9　90　40　20　40　7　9　30　10　17　7　40

第 4 课时　人民币单位之间的换算

1. 36　99　47　8　2　7　8　6　5

2. 4　14　10　1　1　4　4　9　1　2

3. <　<　>　=　<　>

4. 300 分 < 35 角 < 3 元 8 角 < 30 元

口算训练：5　30　50　30　60　3　6　12　11　18　70　40　90　60　70

第 5 课时　人民币的简单计算

1.（1）5 + 9 = 14 元

（2）5 元 5 角 − 3 元 5 角 = 2 元

（3）（答案不唯一）用 10 元钱刚好可以买哪两种物品？9 + 1 = 10 元　用 10 元钱刚好可以买一块蛋糕和一瓶果汁。

2.

买的物品	应付的金额	实际付的金额	应找回的金额
	12 元		3 元
	13 元 3 角		7 角
	19 元		1 元

口算训练：15　0　6　4　11　17　10　28

关注微信公众号"教辅资料站"获取更多学习资料

9　30　90　8　65　7　6

第 6 课时　在钱数限定的情况下购物

1.

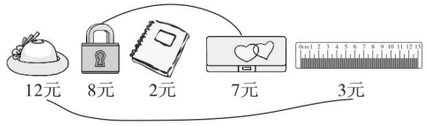

2.



3.

47 元
√

点拨：付了 5 张 10 元就是 50 元，找回的钱比 6 元少，说明买玩具木马要四十多元。

4. ③　⑤　①　⑥

口算训练：9　50　8　30　97　40　50　30
40　11　7　17　20　80　60

双休创新练（五）

1. 人民币在生活中的应用

1. 书包（√）
2. （1）2
（2）2
（3）（答案不唯一）用 3 元钱最多可以买几支铅笔？5 支。
3. （1）8 + 2 = 10（元）
（2）19 − 5 = 14（元）
（3）8 + 9 = 17（元）
买了魔方和玩具兔。

2. 购物付钱的方法妙用

1.

	1 元	5 角	1 角
方法一	1 枚		2 枚
方法二		2 枚	2 枚
方法三			12 枚

2. （1）3　（2）6
3. （1）1 张 5 元，1 枚 5 角
（2）3 枚 1 元，2 枚 1 角
（3）1 张 5 元，1 枚 1 元

第 6 单元　100 以内的加法和减法（一）

第 1 课时　整十数加、减整十数

1. 90　5　4　9　90　50　5　50
2. 30 + 20 = 50　50 − 30 = 20
50 − 20 = 30
3. 10　100　5　50　8　80
4. （1）90　20　30　（2）60　40　80
5. （1）30 + 20 = 50（元）
（2）100 − 50 = 50（元）
（3）（答案不唯一）买一个蛋糕，一个书包和一件衬衫一共多少钱？
30 + 20 + 50 = 100（元）

口算训练：18　40　20　14　14　48　90
5　70　3　6　3　30　10　20

第 2 课时　两位数加一位数（不进位）、整十数

1. （1）

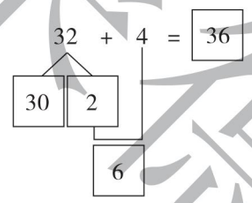

6　6　36

（2）

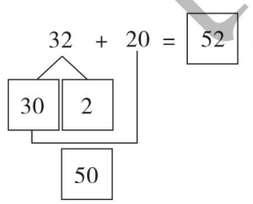

50　50　52

2. 57　93　29　83　74　92　65　92
3. 22 + 3 = 25　20 + 56 = 76　3 + 26 = 29
点拨：个位加个位，十位加十位。
4. <　<　>　=　<　=

口算训练：35　48　65　7　2　7　20　30
83　74　84　88　85　69　76

第 3 课时　两位数加一位数（进位）

1. （1）（圈一圈略）

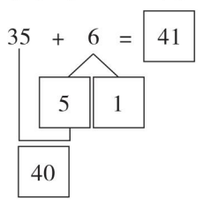

35 + 5 = 40
40 + 1 = 41
（2）（圈一圈略）

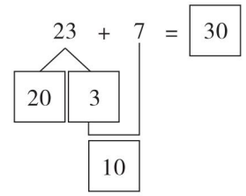

3 + 7 = 10
20 + 10 = 30

2. 12　42　11　31　16　56
3. （1）21　28　35　（2）27　36　45
4.

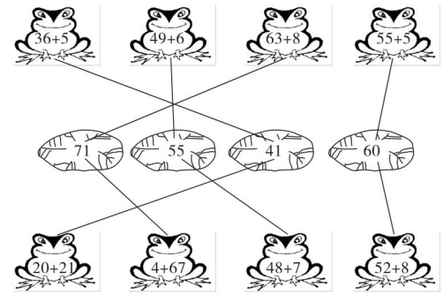

口算训练：50　90　82　56　75　66　60
85　82　50　45　42　64　62　78

第 4 课时　两位数加一位数、整十数的基本练习

1.

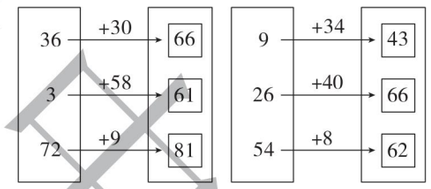

2.



3. （1）43 + 5 = 48（个）
（2）5 + 25 = 30（岁）
（3）34 + 20 = 54（盆）
（4）28 + 6 = 34（个）

口算训练：52　75　40　84　61　95　57
99　92　53　40　72　82　63　52

第 5 课时　两位数加一位数、整十数的提高练习

1. 5 + 66 + 20 > 38 + 40 + 9 > 36 + 20 + 8 > 26 + 7 + 30 > 41 + 9 + 10
2. 10 + 80 = 20 + 70 = 30 + 60 = 40 + 50（答案不唯一）
3. 文文：30 + 20 + 20 = 70（分）
笑笑：25 + 25 + 30 = 80（分）　70 < 80
笑笑的得分多。
4. （1）50 + 33 + 9 = 92（元）　92 < 100　够
（2）最少花：33 + 9 = 42（元）
最多花：50 + 33 = 83（元）

口算训练：45　55　45　86　77　67　65
83　93　92　51　66　58　73　82

第 6 课时　两位数减一位数（不退位）、整十数

1. （1）（圈一圈略）

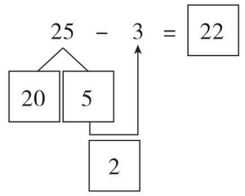

5 − 3 = 2
20 + 2 = 22
（2）（圈一圈略）

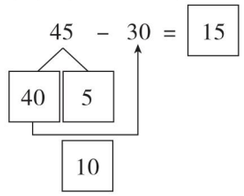

40 − 30 = 10
10 + 5 = 15

2. 36　9　62　17　91　28
3. 49 − 3 = 46　58 − 20 = 38　87 − 5 = 82
4. 45 − 4 = 41（盆）
5. 52 − 20 = 32（只）

口算训练：5　53　61　32　87　96　84　7
44　47　74　32　36　62　73

第 7 课时　两位数减一位数（退位）、整十数

1. （1）（圈一圈略）

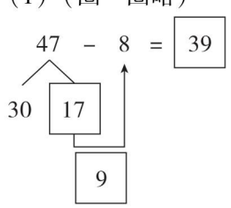

17 − 8 = 9

关注微信公众号“教辅资料站”获取更多学习资料

30 + 9 = 39

（2）（圈一圈略）

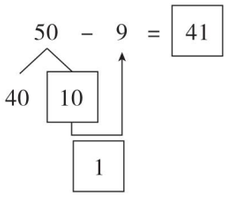

10 − 9 = 1

40 + 1 = 41

2. 9　29　46　10　77　32

3. （1）64　56　48　40

（2）48　42　36　30

4. 26 − 8 = 18（枚）

口算训练：13　18　28　81　8　53　39　25　43　28　15　19　79　10　4

第 8 课时　两位数减一位数（退位）、整十数的练习

1. （1）71　66　74　24

（2）82　78　98　58

2. ＞　＞　＜　＝　＜　＜

3. 8　8　7　7　10　10　5　5

4. 43 − 6 = 37（位）

5. 30 − 9 = 21（套）

6. （1）20 − 9 = 11（元）

（2）28 − 9 = 19（元）

口算训练：5　9　32　22　10　38　65　35　53　46　16　58

双休创新练（六）

1. 两位数加减一位数的特殊题型练习

1. 33 − 8 = 25（岁）

2. 40 − 10 = 30（岁）　30 + 6 = 36（岁）

3. 19 + 20 = 39（页）　39 + 1 = 40（页）

4. 58 + 3 = 61（人）　20 + 48 = 68（人）

68 ＞ 61　租一辆②号车和一辆③号车。

5. 30 + 1 = 31（名）

2. 错中求解的妙用

1. 8 − 5 = 3　34 + 3 = 37

2. 70 − 30 = 40　95 − 40 = 55

3. 75 − 70 = 5　30 + 5 = 35

4. 65 − 60 = 5　30 − 5 = 25

第 9 课时　小括号

1. （1）15 − 8 = 7　7 + 6 = 13

（2）8 + 6 = 14　15 − 14 = 1

（3）减　加　42

2. 14 − 6 + 2 = 10　15 − 6 − 3 = 6

14 − (6 + 2) = 6　15 − (6 + 3) = 6

28 + 9 + 1 = 38　83 − 20 − 30 = 33

28 + (9 + 1) = 38　83 − (20 + 30) = 33

3. （1）×　改正：56 − （7 − 2）= 51

点拨：先算小括号里面的减法，再算小括号外面的减法。

（2）×　改正：83 − （6 + 4）= 73

点拨：先算小括号里面的加法，再算小括号外面的减法。

（3）√

4. 方法一：40 − 4 − 6 = 30（个）

方法二：40 − (4 + 6) = 30（个）

口算训练：64　58　25　34　22　72　50　44　38　25　62　36　74　85　76

第 10 课时　有小括号的两步计算及用加减法解决实际问题的练习

1. （1）43　63　（2）65　41

（3）21　31

2. （1）＜　＜　＜　（2）＜　＞　＝

3. （1）45 − 20 − 20 = 5（人）

或 45 −（20 + 20）= 5（人）

（2）（答案不唯一）女生比男生多多少人？25 − (45 − 25) = 5（人）

4. 28 − (12 + 8) = 8（枚）

口算训练：41　23　34　59　33　31　37　28　42　51　8　33　27　45　38

第 11 课时　同数连加的实际应用

1. 5 + 5 + 5 = 15

辆数	1	2	3
人数	5	10	15

15

2. 7 + 7 + 7 = 21（条）

3. 8 + 8 + 8 = 24（块）　25 ＞ 24　不够

4. 5 + 5 + 5 = 15（元）　15 − 10 = 5（元）

5. 3 + 3 + 3 + 3 = 12（个）

口算训练：24　43　73　48　63　45　15　28　45　16　53　47　41　49　56

第 12 课时　连减同数的实际应用

1. （圈一圈略）

（1）

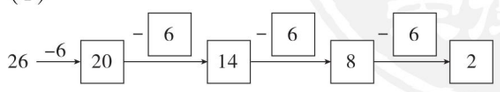

4　2

（2）3

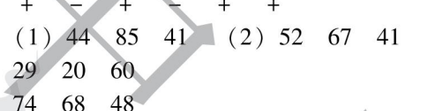

3

2. 5 次

点拨：18 $\xrightarrow{-4}$ 14 $\xrightarrow{-4}$ 10 $\xrightarrow{-4}$ 6 $\xrightarrow{-4}$ 2。

3. 可以装满 5 盒。

口算训练：15　7　63　6　25　43　52　25　8　46　75　52　48　27　29

第 13 课时　解决问题的综合应用

1. 5 个碗

2. 8 + 8 + 8 + 8 = 32（本）

3. 30 − 4 = 26（元）

4. （1）32 − 20 = 12（节）

（2）20 − 9 = 11（节）

（3）（答案不唯一）二（1）班比二（3）班多收集多少节？

32 − 9 = 23（节）

5. 25 + 20 = 45（人），45 ＜ 48，一组和二组。或 20 + 26 = 46（人），46 ＜ 48，二组和三组。

口算训练：29　67　37　68　26　47　46　49　13　45　8　17　28　80　41

整理和复习

1. 100 以内的加法和减法的计算

1. 68　14　25　58　88　19

2. ＋　－　＋　－　＋　＋

3. （1）44　85　41　（2）52　67　41

4. 29　20　60

74　68　48

38　43　39

5. 7　78　0　49　32　25（最后三个空答案不唯一）

6. （1）72　76　80　（2）55　47　39

口算训练：41　8　41　77　35　27　51　79　32　33　88　42　41　49　37

2. 100 以内的加法和减法的实际问题

1. 36 $\xrightarrow{-9}$ 27 $\xrightarrow{-9}$ 18 $\xrightarrow{-9}$ 9 $\xrightarrow{-9}$ 0

需要 4 次才能把雪梨运完。

2. 8 + 8 + 8 + 8 = 32（个）

3. 9 + 9 + 9 + 9 = 36（元）　36 ＞ 30　不够。

4. 26 $\xrightarrow{-6}$ 20 $\xrightarrow{-6}$ 14 $\xrightarrow{-6}$ 8 $\xrightarrow{-6}$ 2

最多做 4 个花灯，还剩 2 张纸。

5. （1）56 − 30 = 26（人）

（2）（答案不唯一）获奖的女生有多少人？

30 − 9 = 21（人）

口算训练：9　16　57　43　47　73　68　22　54　76　9　78　32　35　14

双休创新练（七）

1. 巧用同数连加、连减同数

1.

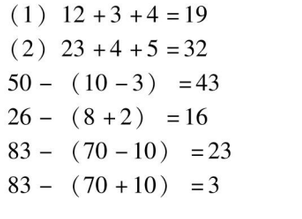

2. （1）24

（2）21

3. （答案不唯一）每个小朋友分一个，够吗？7 + 7 + 7 = 21（个）　21 ＜ 22，不够。

4. 方法一：54 − 4 − 3 = 47（个）

方法二：54 − (4 + 3) = 47（个）

5. 4 + 4 + 4 + 4 = 16（人）

16 $\xrightarrow{-6}$ 10 $\xrightarrow{-6}$ 4

2 + 1 = 3（张）

2. 巧填运算符号

1. （1）－　＋　＋　－　－　－

（2）＋　－　＋　＋　＋　－

2. （答案不唯一）

（1）7 + 2 − 1 = 8　（2）8 + 4 − 3 = 9

（3）5 + 6 − 3 = 8　（4）9 − 5 + 2 = 6

（5）4 − 4 + 4 − 4 = 0

（6）4 + 4 − 4 − 4 = 0

（7）(4 + 4) − (4 + 4) = 0

（8）4 + (4 − 4) − 4 = 0

3. （1）12 + 3 + 4 = 19

（2）23 + 4 + 5 = 32

4. 50 −（10 − 3）= 43

26 −（8 + 2）= 16

83 −（70 − 10）= 23

83 −（70 + 10）= 3

第 7 单元　找规律

第 1 课时　找图形和简单数字的变化规律

1. （1）圈第二个　（2）圈第一个

（3）圈第二个

关注微信公众号“教辅资料站”获取更多学习资料

2. （1）
3 2 3 2 3 2 3 2

（2）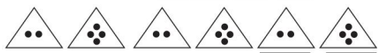
2 4 2 4 2 4

3. 

4. （1）3 2 1 （2）9

口算训练：90 32 28 63 54 69 56
61 42 50 51 66 47 21 25

第 2 课时 数之间的规律

1. （1）（画图略） 5 6
（2）（画图略） 4 2
2. （1）24 28 32 （2）34 28
3. （1）
（2）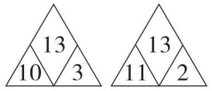
4. （1）（画图略） 15 （2）（画图略） 6
（3）11 8

口算训练：26 45 25 82 74 36 24
52 54 44 73 30 50 55 47

第 3 课时 运用规律解决问题

1. （1）画 5 个灰色圆圈
（2）依次画 1 个★，1 个☆，1 个◇，2 个★。
2. 2 3
3. （略）
4. 28 0 27 0 6 + 6 + 6 + 6 = 24
24 − 6 − 6 − 6 − 6 = 0
5. （3）√

口算训练：15 9 17 62 67 74 94
42 86 39 27 78 50 71 64

第 4 课时 找规律的综合练习

1. （1）5 13 （2）80 50 （3）19
2. （3）√
3. （1）男 （2）（答案不唯一）从左往右，第 15 个同学是男孩还是女孩？答：女孩。
4. 1 4

口算训练：75 24 23 57 43 81 9
52 64 66 54 45 65 71 64

双休创新练（八）

1. 找规律在生活中的应用

1. （1）2 3 （2）10 15 21
（3）7 28 21 + 7 = 28
2. （1）6 （2）9 （3）28
3. （1）3 2
（2）1 + 2 + 3 + 4 + 5 = 15（颗）
（3）（略）

2. 用加法解决间隔问题

1. 5 − 1 = 4（次） 3 + 3 + 3 + 3 = 12（分）
2. 14 + 14 = 28（级）
3. 4 − 1 = 3 2 + 2 + 2 = 6（秒）
4. 10 − 1 = 9
2 + 2 + 2 + 2 + 2 + 2 + 2 + 2 + 2 = 18（米）

第 8 单元 总复习

第 1 课时 100 以内数的认识

1. （1）38 40 76 72
（2）7 8 （3）69 六十九
（4）55 57 （5）63 9 77 19 50
36 9 < 19 < 36 < 50 < 63 < 77
2. 88 人 ○
3. （1）20 + 8 = 28（个）
（2）30 + 30 + 30 = 90（下）

口算训练：29 61 40 47 81 56 63
60 68 72 66 74 90 46 45

第 2 课时 100 以内数的加减法（一）

1. < < = > = > < =
2. （答案不唯一）56 62 28 43 62
68 25 45
3. 9 元 12 元 16 元 12 元
4. 100 − 40 − 50 = 10（元）
或 100 −（40 + 50）= 10（元）
5. （答案不唯一）（1）丽丽还有多少个灯笼没做？
30 − 3 = 27（个）
（2）芳芳已经做了多少个灯笼？
30 − 8 = 22（个）

口算训练：56 54 49 34 68 43 35
83 95 65 34 41 67 54 67

第 3 课时 100 以内数的加减法（二）

1. （1）减 加 20 加 减 20
（2）56 + 8 = 64 58 + 6 = 64
（3）59 （4）6
2. 63 10 26 54 19 64
3. 5 只。
4. 玩具枪 玩具坦克 玩具熊 玩具熊猫
5. 6 + 6 + 6 + 6 = 24（块） 25 > 24 不够。

口算训练：68 50 90 60 79 56 82
94 63 44 31 23 39 47 95

第 4 课时 认识人民币

1. （1）元 角 分 （2）60 38 7
（3）3 9 46 6 4 8
（4）65 6 6
2. 97 元 △
3. 9 + 4 = 13（元） 正好可以买一本连环画和一盒牛奶。
4. （1）15 − 10 = 5（元）
（2）2 元 − 1 元 3 角 = 7 角

口算训练：80 49 1 6 7 20 36 2
7 4 5 300 4 5 5 76 3 4 9 1

第 5 课时 图形与几何

1. （1）三角 长方
（2）（答案不唯一）平行四边 长方
（3）4
（4）3 正方形 平行四边形
（5）11
2. （第 1，第 3 幅图答案不唯一）
3. 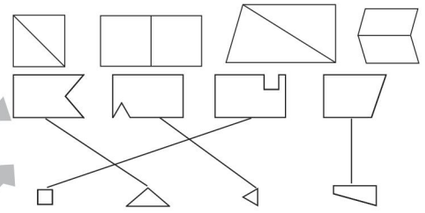
4.

口算训练：34 9 2 8 9 12 1 2 6
3 9 1 1 7 4 7 5 8 5

第 6 课时 统计与找规律

1. （1）○□☆ （2）△△○○
（3）□☆☆
2. （1）46 38 （2）45 54
（3）24 31
3. 4 3
4. （1）（略）
（2）3 个 5 个 4 个
（3）

	4 个孔的	2 个孔的
数量	5 个	7 个

口算训练：43 71 51 2 50 47 56
54 4 28 35 49 45 78 15

检测卷部分

第 1 单元过关检测卷

一、1. 圆 长方 长方
2. 三角 平行四边 3. 4
4. 三角（答案不唯一）
5. 三角 4 6. 长方（答案不唯一）
二、1. ① 2. ③ 3. ③ 4. ② 5. ②
三、
1. 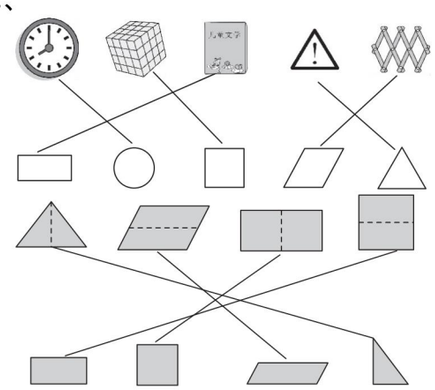
2.
四、2 5 2 2 4
五、1.

2.（略） 3.（略）
4.（1）
（2）（答案不唯一）

六、

（①与②，④与⑥标注位置可以互换）
七、16 （画一画略）

第 2 单元过关检测卷

一、1. 4 14 14 15 12 7 15 9 6
5 18 11
2. 6 4 12 9 9 9
3. < < = >

关注微信公众号“教辅资料站”获取更多学习资料

二、1. 15　2. 7　3. 14　4. 8

三、1.（1）13　13－5＝8　13－8＝5

（2）8　14－8＝6　14－6＝8

2. 8＋4＝12　4＋8＝12

12－4＝8　12－8＝4

四、

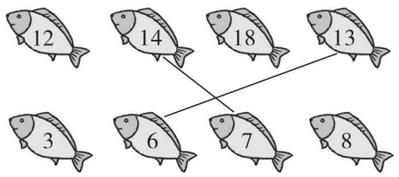

五、（1）16　3　（2）2　3　（3）7　17

六、1. ①　2. ④　3. ②

七、（画图略）

八、7　18　7

九、1. 17－9＝8（块）

2. 12－3＝9（只）

十、1. 11－3＝8（只）

2.（1）14－8＝6（块）

（2）（答案不唯一）意大利所获得的铜牌比德国少几块？15－8＝7（块）

3. 13－8＝5（片）

4.（1）11－6＝5（人）　5

（2）11＋6＋2＝19（人）

20

第3、4单元过关检测卷

一、1. 十　8　24　2. 60　10

3. 个　十　百

4. 67　69

5. 10　99

6. 40　41　42　43

57　67　77　87

7.

26	27
36	37

8. 11　37　49　72　84　91

9. ①③⑤⑦⑨⑩⑪　②④⑥⑧⑫

二、1. ①　2. ③　3. ③　4. ③　5. ②

6. ③　7. ④　8. ③

三、1. 85　70　4　78　40　80　5　18

2. ＜　＞　＜　＝

3. 70　3　46　70　2（最后两个空答案不唯一）

四、1.（略）

2.（答案不唯一）

	男生	女生
人数	7	8

五、

99本	40本	87本
		√

六、1. 40＋9＝49（个）

2.（1）50＋4＝54（分）

（2）54－50＝4（分）

3. 38－30＝8（把）

4. 4条。

期中检测卷

一、1.（1）62　63　64　66　67　69　70

（2）64　66　（3）65　69

2. 3　3　个　6　一

3. 48，38，28，18，8

4. 6　5　6　5　5. 6　2

6. 9　10　19　1

二、1. ①　2. ②　3. ③　4. ②　5. ②

6. ③

三、1. 8　28　6　2　6　52　2　9

2. ＜　＜　＞　＞　＝　＞

3.

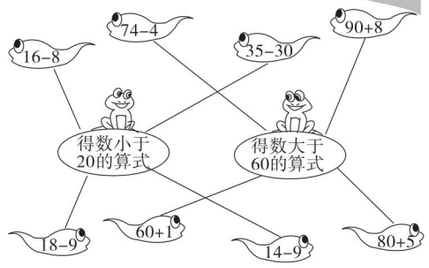

四、1. 12－6＝6（个）

2. 20＋6＝26（个）

五、

45下	52下	85下
		√

45下	52下	85下
√		

六、1.（略）

2.（答案不唯一）

	平面图形	立体图形
个数	13	9

七、1. 12－3＝9（位）

2. 5＋40＝45（名）　够（√）

3.（1）11－3＝8（节）

（2）11＋8＝19（节）

第5单元过关检测卷

一、1. 2　4

2. 2　2（答案不唯一）

3. 7　6　26　7

4. 6　90　8　4　2　6　1　100　55

5. 元　分　角　元

二、1. ③　2. ②　3. ③　4. ④　5. ②

三、1　3　7　3　8　2　3　3　3

四、＝　＜　＝　＞　＞　＜　＜　＜

五、1.（√）　（　）

2.（　）　（√）　（　）

六、

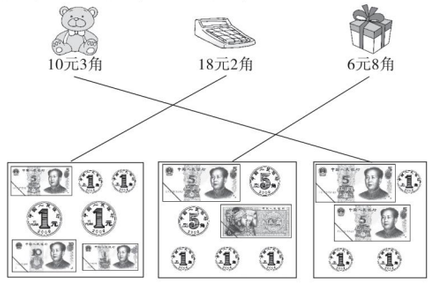

七、1.

买的物品			
要付的钱数	5元8角	1元4角	7元2角
付出的钱数			
应找回的钱数	2角	6角	2元8角

2.

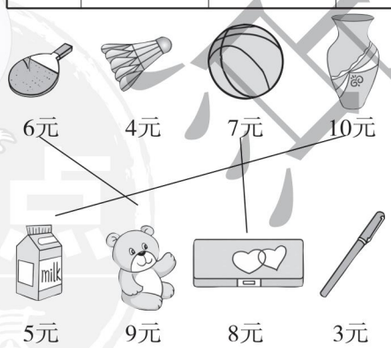

3.

59元	39元	29元
	√	

4.（1）1元2角＋8角＝2元

（2）12元6角－2元＝10元6角

（3）12元6角＋2元＝14元6角

15元＞14元6角　钱够。

（4）（答案不唯一）买一个转笔刀和一副三角尺共需多少钱？

2元＋8角＝2元8角

第6单元过关检测卷

一、1.

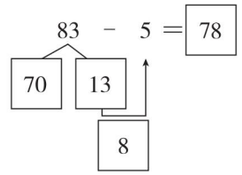

13　5　8　70　8　78

2. 28　47

3. 5　40　10　10　6　58　36

（最后五个空答案不唯一）

4. ＞　＜　＞　＞　＞　＝

5. 32　28　24　20　6. 62　68　74　80

7. 4　2　8. 够

二、1. ①　2. ②　3. ②　4. ①　5. ②

三、1. 65　57　73　42　18　100　28　57

2.（1）38　58　32　26

（2）23　46　65　45

3.（1）35　55　59　69

（2）51　47　77　83

四、1. 5＋5＋5＋5＋5＝25（人）

2.（1）30－8＝22（元）

（2）48－8＝40（元）

（3）（答案不唯一）一双鞋子和一个闹钟一共多少钱？

30＋8＝38（元）

3. 36＋9＝45（块）

4. 28－（6＋14）＝8（根）

5. 10 $\xrightarrow{-4}$ 6 $\xrightarrow{-4}$ 2

口答：可以放满2个笼子。

6. 35＋20＝55（页）

55＋1＝56（页）

第7单元过关检测卷

一、1. 14　16

2. 66　52　38

3. 44　55　66

关注微信公众号“教辅资料站”获取更多学习资料

4. 40　50　70

5. （1）

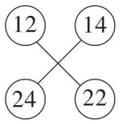

（2）

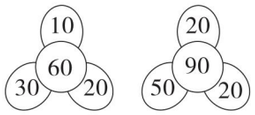

（3）

12	7
8	3

14	9
9	4

（4）

	35	
44	45	
54		

36		
	47	
		58

66	
76	
	87

二、（略）

三、1. ☆★☆★☆★☆★☆

2. ♡♡♡♡♡♡♡♡♡

3. ○●○○●○○○●○○○○●

四、1. ②　2. ②　3. ②　4. ④　5. ③

五、1.

8	10	12	14	（　　）
3	5	7	9	（　　）
1	4	7	10	（ √ ）
90	92	94	96	（　　）

2.

30	29	28	27	（　　）
18	19	20	21	（ √ ）
12	11	10	9	（　　）
52	51	50	49	（　　）

六、1. ㊳　40

2. ㊿　44

3. ㉙　38

4. ㊵　58

七、1. 2　1　1

2.

爱	读	书
书	爱	读
读	书	爱

（填法不唯一）

3. 母　4　9

4. 1　4

期末检测卷

一、1. 86　八十六

2. 70　69　71

3. 长方形　长方形（或正方形）

4. 46　26

5. 40　65　3　6　4　8

6. E　A

7. （1）66　55　44　（2）○○●

8. ＞　＜　＜　＞

9. 9

10. 8

二、1. ②　2. ③　3. ④　4. ②　5. ④

三、1. 5　7　69　36　17　46　47　7

2. 44　6　25　70　54　75

3. 6　12　0　0　8　60　42

（最后三个空答案不唯一）

四、1.

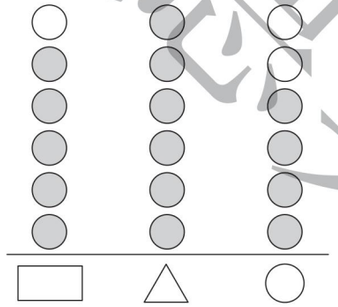

2.

	灰色	白色
个数	7	8

五、1. 40 $\xrightarrow{-6}$ 34 $\xrightarrow{-6}$ 28 $\xrightarrow{-6}$ 22 $\xrightarrow{-6}$ 16 $\xrightarrow{-6}$ 10 $\xrightarrow{-6}$ 4

口答：最多可以分给 6 个班。

2. 20 − 8 = 12（支）

3. 方法一：90 − 30 − 40 = 20（根）

方法二：90 −（30 + 40）= 20（根）

4. （1）32 − 20 = 12（元）

（2）20 − 8 = 12（元）

（3）20 + 5 = 25（元）

（4）32 + 8 = 40（元）

40 + 10 = 50（元）

口答：用 50 元正好能买书包、布娃娃、日记本。

来福典中点

荣德基 主编

福建专用

典中点®

综合应用创新题 典中点

活页检测卷

后附全书参考答案及点拨

一年级 数学

下（R版）

陕西新华出版传媒集团
陕西人民教育出版社

关注微信公众号“教辅资料站”获取更多学习资料

第1单元　认识图形（二）

第1节　认识平面图形

列基础　划重点

1. **认识平面图形：**长方形、正方形、平行四边形、三角形和圆都是平面图形，都是物体（立体图形）的一个面，即“面在体上”。

如：

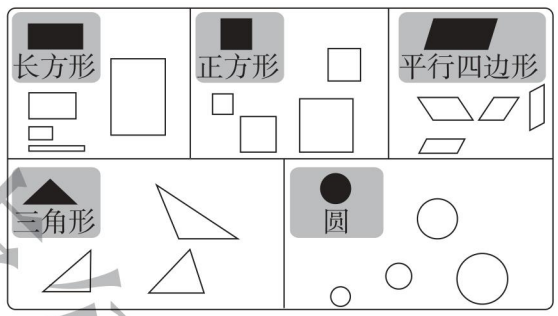

2. **用同样的图形拼图形：**用同样的某种平面图形可以拼成更大的这种平面图形或其他平面图形。

如：用2个可以拼成或，用4个可以拼成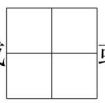或。

3. **用七巧板拼图形：**一套七巧板是由1个正方形、1个平行四边形和5个三角形组成的。

利用一套七巧板可以拼成各种各样的图形。

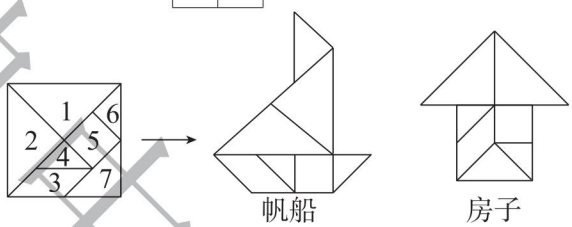

划拓展

利用图形组合来数出图形个数。



数一数此图共有（　　）个长方形。

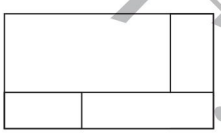

分析：

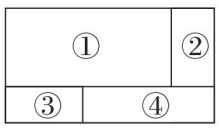

通过观察发现，基本长方形有4个：①、②、③、④；2个基本长方形组成的新长方形有2个：①+②，③+④；还有1个大长方形：①+②+③+④。

规范解答：7

划易错

易错点1：没有正确区分平面图形和立体图形。

1. 

橡皮的形状是（长方形）。（ × ）　　**改正：**长方体

小试牛刀：黑板面是长方形的。（　　）

关注微信公众号“教辅资料站”获取更多学习资料

易错点2：平面图形的形状与摆放位置无关。

2. 右图中是正方形的有（②）（ × ）

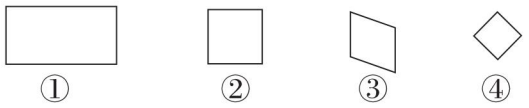

改正：②④

小试牛刀：在右图中的平行四边形下面画“√”。

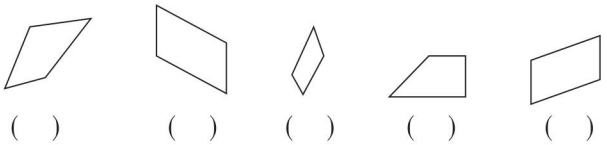

划方法

利用尝试探索法分割图形。

尝试探索法：按照自己认为可能的想法，通过尝试，探索规律，从而获得解题方法。一般来说，在尝试时可以提出假设或猜想，但无论是假设或猜想，都要目的明确，恰当、合理。

例（1）加一条线，分成一个平行四边形和一个三角形。



（2）加两条线，分成一个长方形和两个同样的三角形。



思路分析：角和边是平面图形的基本元素，因此分割图形时，可以从角、边入手尝试。

（1）要分成一个平行四边形和一个三角形，从图形右边的斜边着手。

（2）要分成一个长方形和两个同样的三角形，正好是把平行四边形两个角分割下来。

规范解答：（1） （2）

划培优

利用画图法或计算法解决缺砖问题。

例右图缺了（　　）块。

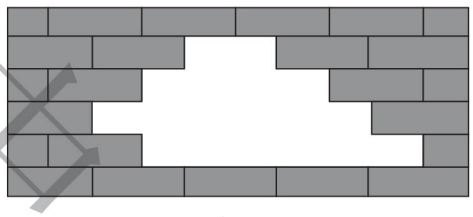

思路分析：方法一，画图法（注意砖的交错对齐）。



方法二，计算法。

仔细观察，每层都是5块砖（两个半块凑一整块）。第2层缺少5－2＝3（块），第3层缺少5－2＝3（块），第4层缺少5－3＝2（块），第5层缺少5－4＝1（块），一共缺少3＋3＋2＋1＝9（块）。

规范解答：9

对点练习：见《典中点》P_4T_1

小牛试刀答案：1. √　2. 从左往右数，第2个和第5个图形为平行四边形，在下面画“√”。

关注微信公众号“教辅资料站”获取更多学习资料

第 2 单元　20 以内的退位减法

第 1 节　十几减 9，8，7，6

列基础　划重点

深入理解算理，体会算法多样化，提高计算能力。

如：14 − 9 = （　　）。

方法一：数数法，从 9 往后数，10，11，12，13，14，所以 14 − 9 = 5。

方法二：破十法



方法三：平十法

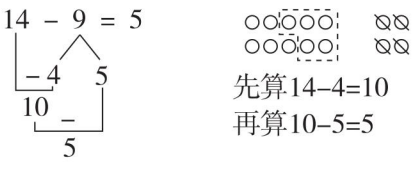

方法四：想加算减法，想 9 加（ 5 ）等于 14，得出 14 − 9 = 5。

总结：因为十几减 9，8，7，6 时，减数较大，所以用破十法和想加算减法比较简便。

划拓展



运用分析法解决比较算式大小问题。

把下面的算式按要求填入（　）中。

13−8　12−8　15−8　17−8　10−8

（　　）>（　　）>（　　）>（　　）>（　　）

思路分析：方法一，先把每个算式分别计算出得数，看清符号是“ > ”还是“ < ”，然后按要求把算式填好。

方法二，因为 5 个算式的减数都是 8，只需要比较被减数，被减数大，得数就大。

规范解答：17 − 8　15 − 8　13 − 8　12 − 8　10 − 8

划易错

易错点 1：计算方法规律掌握不牢，导致计算错误。

1. 13 − 9 = 3（ × ）　**改正：**13 − 9 = 4　小试牛刀：16 − 9 =

2. 11 − 6 = 17（ × ）　**改正：**11 − 6 = 5　小试牛刀：15 − 7 =

3. 16 − 8 = 9（ × ）　**改正：**16 − 8 = 8　小试牛刀：12 − 6 =

易错点 2：图意理解错误。

4. 看图列式为：9 − 5 = 4　（ × ）

改正：14 − 9 = 5



小试牛刀：看图列式。



课堂重点

关注微信公众号“教辅资料站”获取更多学习资料

划方法

利用数量关系法解决求等式中未知数问题。

数量关系法：根据题目所给已知条件，分析其数量关系，从而得出解题思路，列出算式的方法。

例 将6，7，8，9分别填入□中（每个数只能用一次），使等式成立。

□ + □ − □ = □

思路分析：算式中两个数相加再减去一个数等于另一个数，可以转化为□ + □ = □ + □，将6，7，8，9四个数两两相加，得数相等，等式同侧两个数一大一小搭配，可得6 + 9 = 7 + 8。根据这个等式，可以写出□ + □ − □ = □的8种不同填法。如：6 + 9 − 7 = 8，6 + 9 − 8 = 7，7 + 8 − 9 = 6……

规范解答：9 + 6 − 8 = 7（答案不唯一）

对点练习：见《典中点》$P_{13}T_3$

划培优

利用画图法和分析推理法解决站成一队问题。

例 18名同学站成一队，小刚左边有9人，他右边有几人？

思路分析：方法一，画一画，数一数。

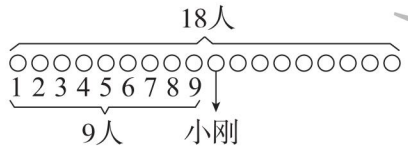

数出他右边有8人。

方法二，小刚左边有9人，则小刚排在从左往右数第10个，他右边有18 − 10 = 8（人）。

规范解答：18 − 9 − 1 = 8（人）

答：他右边有8人。

小试牛刀答案：1. 7　2. 8　3. 6　4. 16 − 9 = 7

第2节　十几减5，4，3，2及其应用

列基础 划重点

1. **深入理解十几减5，4，3，2的算理，选择简便的算法。**

如：12 − 5 = （　　）。

方法一：平十法　12 − 5 = 7

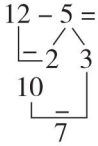

方法二：破十法　12 − 5 = 7

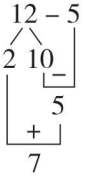

方法三：想加算减法

想5 + （　7　） = 12，

得出12 − 5 = 7。

对比发现：因为减数较小，所以用“平十法”和“想加算减法”比较简便。

关注微信公众号“教辅资料站”获取更多学习资料

2. 选择有效信息解决问题。

如：



求：还剩几块玻璃没擦？

其中“有 2 扇窗户是开着的”是多余条件。

列式：12 − 9 = 3（块）

答：还剩 3 块玻璃没擦。

3. 用减法解决“比一个数多（少）”问题。

如：



求：二年级比一年级多展出多少幅画？一年级比二年级少展出多少幅画？

列式：12 − 4 = 8（幅）

答：二年级比一年级多展出 8 幅画，一年级比二年级少展出 8 幅画。

划拓展



灵活选择条件解决稍复杂的问题。

思路分析：在解决实际问题时，题目中呈现很多数学信息，要根据问题筛选有用的已知条件，不要被多余的条件扰乱思路。



黄花



红花

求：（1）一共有多少只小蜜蜂？

（2）一共有多少朵花？

（3）黄花比红花多多少朵？

（4）请你再提一个数学问题并解答。

正确解答：

（1）6+6=12（只）

（2）9+6=15（朵）

（3）9−6=3（朵）

（4）（略）

划易错

对“求一个数比另一个数多几”问题的解题方法理解错误。

小明擦了 7 张课桌，小青擦了 11 张课桌，小青比小明多擦了几张课桌？

11 + 7 = 18（张）　　答：小青比小明多擦了 18 张课桌。（ × ）

改正：11 − 7 = 4（张）

答：小青比小明多擦了 4 张课桌。

小试牛刀：李奶奶家养鸡 13 只，养鸭 7 只，养的鸡比鸭多几只？

关注微信公众号“教辅资料站”获取更多学习资料

划方法

运用画线段图法解决实际问题。

画线段图法：根据数学问题将题目中的已知条件用线段图呈现，在图中标明问题，从而帮助我们正确地审题、分析和检验。

例 小红和小军各有 10 支铅笔，小红分给小军 5 支后，小军比小红多多少支？

思路分析：小红分给小军 5 支后，比原来少 5 支，而小军则比原来多 5 支，这样一多一少，两人相差 2 个 5 支，画图如下。

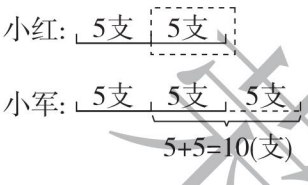

规范解答：5 + 5 = 10（支）

答：小军比小红多 10 支。

划培优

根据等量代换解决天平问题。

例

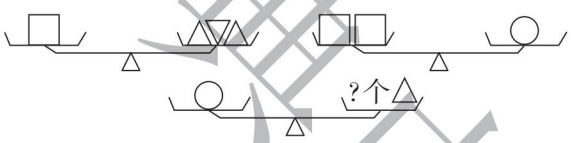

思路分析：题中有 3 种图形□、△、○，要求○和△的关系。仔细观察发现，△和○这两种图形都与□有一定的数量关系，可从此处入手解题。

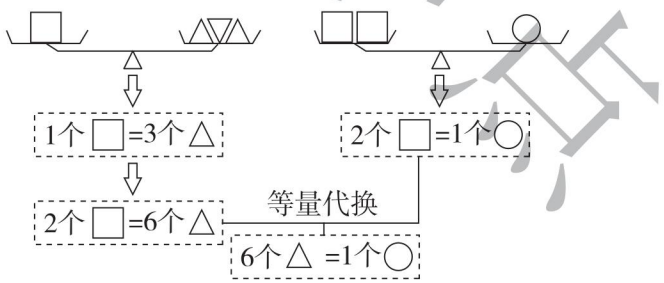

规范解答：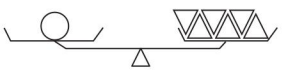

小试牛刀答案：13 − 7 = 6（只）

答：养的鸡比鸭多 6 只。

关注微信公众号“教辅资料站”获取更多学习资料

第 3 单元　分类与整理

第 1 节　分类与整理

列基础 划重点

体验分类结果在单一标准下的一致性和不同标准下的多样化。

1. **按给定的标准分类计数：**单一标准下的分类，分类结果是相同的；不同标准下的分类，由于分类标准不同分类的结果也不同。

如：给卡片分类。　（1）按卡片上不同事物分一分。　（2）按卡片形状分一分。



（3）个　（5）个　（5）个

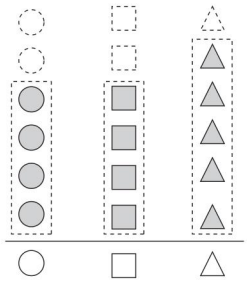

（4）个　（4）个　（5）个

2. **自选分类标准并用简单的统计表呈现分类结果。**

如：



	男生	女生
人数	8	6

	戴帽子的人	不戴帽子的人
人数	6	8

	站着的人	坐着的人
人数	2	12

划拓展

怎样检查分类结果是否正确呢？



思路分析：分类标准不同，但总数量相同，可以用总数量帮助我们检查分类结果是否正确。

如：上面例题中，
男生 + 女生 = 8 + 6 = 14（人），
带帽子的人 + 不戴帽子的人 = 6 + 8 = 14（人），
站着的人 + 坐着的人 = 2 + 12 = 14（人）。

划易错

错把象形统计图中的项目名称参与计数。

按树叶的形状分一分，填一填。

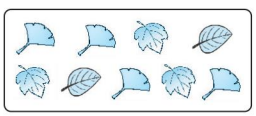

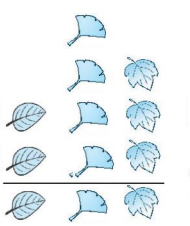

（ 3 ）片
（ 5 ）片
（ 4 ）片

改正：2
4
3

关注微信公众号“教辅资料站”获取更多学习资料

小试牛刀：按球的花纹分一分，涂一涂，填一填。

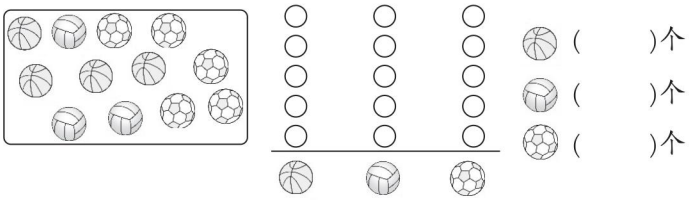

划方法

利用观察法分析统计图（表）、整理数据。

观察法：通过观察题目中数字的变化规律及位置特点，条件与结论之间的关系，题目的结构特点及图形的特征等，从而发现题目中的数量关系。观察要仔细、有次序，边观察边动脑，找出规律。

例 二（2）班同学最喜欢的交通工具统计如下图：

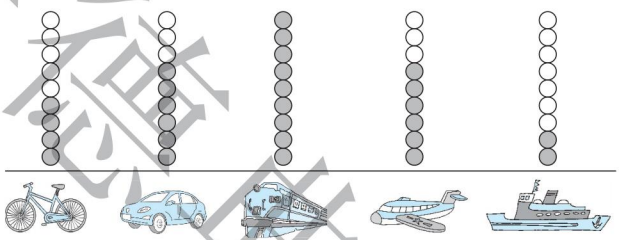

（1）最喜欢乘坐（　　）的人数最多，最喜欢乘坐（　　）的人数最少。

（2）最喜欢乘坐（　　）和最喜欢乘坐（　　）的人数相同。

（3）你还能提出其他数学问题并解答吗？

思路分析：首先观察象形统计图，从下往上看，哪一列涂色最低，即人数最少；哪一列涂色最高，即人数最多；哪两列涂色高度相同，即人数相同。

规范解答：（1）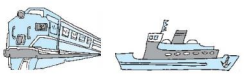　（2）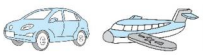　（3）（略）

划培优

运用综合法解决生活中的问题。

例 右面是某商厦各楼层经销商品的分布表。妈妈要买一台吸尘器和一个茶几，应该去哪些楼层呢？

楼层	一楼	二楼	三楼	四楼
商品	食品	家用电器	服装	家具

思路分析：首先判断妈妈要买的两件商品分别属于哪一个类别，再从各楼层经销商品的分布表中查看该类别商品所在楼层。吸尘器属于家用电器，在二楼；茶几属于家具，在四楼。

规范解答：妈妈要买吸尘器应该去二楼，要买茶几应该去四楼。

小试牛刀答案：（涂一涂略）　4　3　5

关注微信公众号“教辅资料站”获取更多学习资料

第 4 单元　100 以内数的认识

第 1 节　数数和数的组成

列基础　划重点

1. **数数和计数单位：**一个一个地数，10 个一是十；十个十个地数，10 个十是一百。

一、十、百都是计数单位。

如：（1）三十五　三十六　三十七　三十八　三十九　四十

（2）三十　四十　五十　六十　七十　八十　九十　一百

2. **100 以内数的组成：**几十是由几个十组成，几十几是由几个十和几个一组成。

如：6 个十是 60，3 个十和 5 个一组成的数是 35。

3. **100 以内数的读写：都从高位起。**

（1）读法：十位是几读几十，个位是几读几，末尾的 0 不读。

如，57 读作：五十七　20 读作：二十

（2）写法：有几个十在十位写几，有几个一在个位写几。哪一位上一个计数单位也没有，用 0 占位。

如，五十八写作：58；七十写作：70。

划拓展



按规律填数。

（1）47，48，49，50，51，52。（**提示：**一个一个地数，注意几十九后面的数）

（2）46，44，42，40，38，36。（**提示：**两个两个地数）

（3）75，80，85，90，95，100。（**提示：**五个五个地数）

（4）30，40，50，60，70，80。（**提示：**十个十个地数）

思路分析：仔细观察数列，首先看是依次增加还是依次减少，然后找到增加（或减少）的相差数。

划易错

没有理解 100 以内数的组成。

1. 26 里面有（20）个十和（6）个一。（ × ）　　**改正：**2　6

小试牛刀：57 是由（　　）个十和（　　）个一组成。

2. 由 6 个一和 3 个十组成的数是（63）。（ × ）　　**改正：**36

小试牛刀：由 7 个一和 8 个十组成的数是（　　）。

关注微信公众号“教辅资料站”获取更多学习资料

划方法

运用分类组合法解决用数字组数问题。

分类组合法：先按照一定的标准对题目的已知条件进行分类，再对每个类别逐一进行讨论，最后综合每个类别的结果得到答案。

例 用3，4，6这三个数字能组成几个不同的两位数？把组成的两位数写出来。

思路分析：选择3，4，6中的任何两个数字组成一个两位数，然后将这两个数字颠倒位置再组成一个两位数，如右图：3 4 → 4 3　　3 6 → 6 3　　4 6 → 6 4

规范解答：能组成6个不同的两位数，分别是34，43，36，63，46，64。

划培优

运用枚举法解决求两位数问题。

例 用8个珠子在计数器上拨两位数，你能拨出多少个不同的两位数，请你画一画，写一写。

思路分析：由题意可知，用8个珠子即十位上的数字与个位上的数字相加得8，根据8的合成按顺序依次写出两位数，注意最高位不能为0。

规范解答：共8个数，分别是

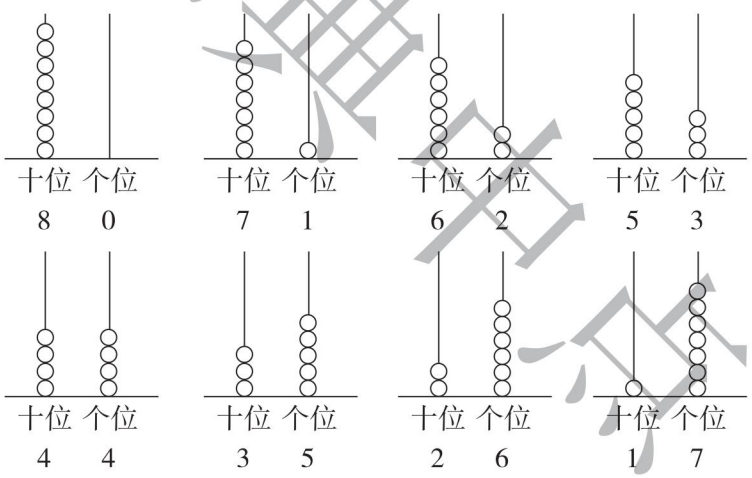

对点练习：见《典中点》$P_{35}T_3$

小试牛刀答案：1.5　7　2.87

第2节 数的顺序和比较大小

列基础 划重点

通过多种方法表述两个数的大小关系培养学生的数感。

1. **百数表的规律：**横看，左右相邻数差1，每行十位上的数相同（每行最后一个数除外）；竖看，上下相邻数差10，每列个位上的数相同；从左上到右下，个位和十位上的数均加1

关注微信公众号“教辅资料站”获取更多学习资料

（右下最后一个数除外）；从右上到左下，十位上的数加1，个位上的数减1（右上第一个数除外）。

如：

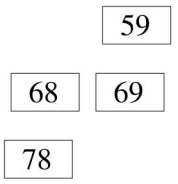

横看 $78-1=77$　　$68+1=69$

竖看 $78-10=68$　　$69-10=59$

2. **100以内数的大小比较方法：**十位上的数大这个数就大；十位上的数相同，个位上的数大这个数就大。

如：$37<40$　　$56>54$

3. **描述数的大小关系。**

如：有红球48个，黄球16个，绿球19个。

我们可以说：黄球比绿球少一些，绿球比黄球多一些。红球比黄球多得多，黄球比红球少得多。

划拓展



多个两位数进行大小比较，排序。

思路分析：先观察这些数的十位，按十位从小到大排列，十位相同的数比较个位的大小，按个位从小到大排列。

如：按从小到大的顺序排列各数　34　56　59　81　93　98

正确解答：34　56　59　81　93　98

把下列数按顺序正确地放入□中。

81　56　34　93　59　98

□ < □ < □ < □ < □ < □

划易错

易错点1：比较两位数大小的方法没有掌握。

1. 89 ⓢ 90　（×）　**改正：**89 ⓛ 90　　小试牛刀：54 ◯ 48

2. 88 ⓢ 100　（×）　**改正：**88 ⓛ 100　　小试牛刀：94 ◯ 100

易错点2：没有正确理解“多得多”和“多一些”的含义。

3. 大青蛙可能消灭了多少只害虫？（在合适的答案下面画“△”）



错误解答：

40只	26只	95只
		△

改正：

40只	26只	95只
△		

关注微信公众号“教辅资料站”获取更多学习资料

小试牛刀：



跳绳的有多少人？（画“☆”）

跑步的有多少人？（画“○”）

18人	3人	27人	48人

划方法

运用比较法和分析法解决赛跑问题。

比较法：通过对比数学条件及问题的异同点，研究产生异同点的原因，从而发现解决问题的方法。

例 三位小朋友进行百米赛跑的成绩如下：

	小红	小明	小刚
时间	58秒	47秒	51秒

（　　）跑得最快，（　　）跑得最慢。

思路分析：百米赛跑时，大家跑的距离都是100米，谁用的时间越多，谁就跑得越慢。在这三个数中，58最大，47最小，所以小明跑得最快，小红跑得最慢。

规范解答：小明　小红

划培优

运用推理法解决填数问题：先确定所填数的范围，再判断，注意有时答案是多个数。

例（1）46＞□6　□里可以填_____。

（2）16＜1□　□里可以填_____。

思路分析：（1）比较两位数大小时，先看十位上的数，十位上的数大，这个数就大，所以在46＞□6中，□里应填入比十位上的4小的数，即3，2，1。

（2）如果十位上的数相同，再比较个位上的数，个位上的数大，这个数就大，所以在16＜1□中，□里应填入比6大的数，即7，8，9。

规范解答：（1）3，2，1　（2）7，8，9

对点练习：见《典中点》$P_{28}T_5$

小试牛刀答案：1. ＞　2. ＜　3. 48人☆　18人○

关注微信公众号“教辅资料站”获取更多学习资料

第3节 解决问题、整十数加一位数及相应的减法

列基础 划重点

1. **解决一个数里有几个另一个数的问题：**可以用数的组成，也可以用数一数、圈一圈的方法。

如：36个苹果，每10个装一袋，可以装满（3）袋。

方法一：数的组成。因为36是由3个十和6个一组成，每10个装一袋，3个十可装满3袋。

方法二：数一数，圈一圈。如图

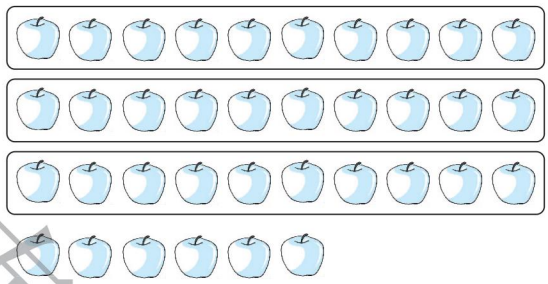

2. **整十数加一位数及相应的减法。**

几十加几等于几十几，如40＋6＝46，5＋60＝65。

几十几减几等于几十，如68－8＝60；几十几减几十等于几，如98－90＝8。

划拓展



运用图示法解决问题。

27个足球，6个装一箱，可以装满几箱？

思路分析：6个装一箱，不能用数的组成直接看出得数，我们用○代替足球数一数、圈一圈。

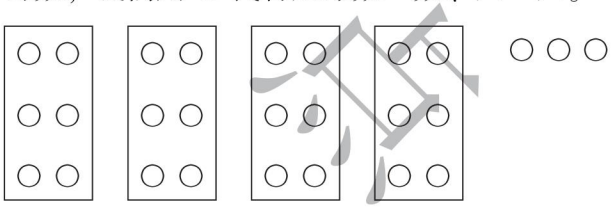

从图中看出，27个足球可以装满4箱还剩3个。

规范解答：可以装满4箱。

划易错

易错点：整十数加一位数及相应的减法的计算方法错误。

1. 79－9＝7（ × ） **改正：**79－9＝70 小试牛刀：27－7＝（ ）
2. 53－50＝30（ × ） **改正：**53－50＝3 小试牛刀：66－60＝（ ）
3. 7＋40＝74（ × ） **改正：**7＋40＝47 小试牛刀：6＋20＝（ ）

关注微信公众号“教辅资料站”获取更多学习资料

划方法

用推导法灵活应用整十数加一位数及相应的减法解决填数问题。

推导法：根据相关的公式、定义、性质及数量之间的关系，通过其中已知的两项或几项，推导出未知项的方法。

例 □内最大能填几？

（1）20 + □ < 26　　（2）35 − □ > 30

思路分析：（1）20 + 6 = 26 → □里最大应填比 6 小 1 的数 → 6 − 1 = 5

（2）35 − 5 = 30 → □里最大应填比 5 小 1 的数 → 5 − 1 = 4

规范解答：（1）5　（2）4

对点练习：见《典中点》$P_{37}T_3$

划培优

利用图示法，结合实际情况灵活选择解决问题的方法。

例 有 35 袋面粉，几次能运完？



思路分析：用图示法画一画、圈一圈。运了 8 次还剩 3 袋，剩的 3 袋也需要运 1 次，所以 9 次能运完。



规范解答：9 次能运完。

小试牛刀答案：1. 20　2. 6　3. 26

关注微信公众号“教辅资料站”获取更多学习资料