教辅资料站
电子教辅　试卷练习
知识总结　备课资源
扫码关注获取更多学习资料

典中点®

综合应用创新题 典中点

一本在做题中教会你学习方法的书

主　　编：荣德基
本册编者：周　建

六年级 地理（下）

（LJ版）

CHISO 新疆青少年出版社

一本在做题中教会你学习方法的书

练，就练得与众不同

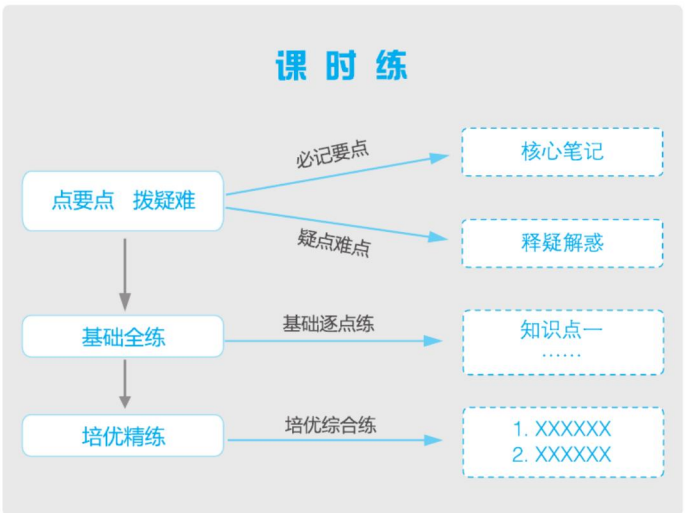

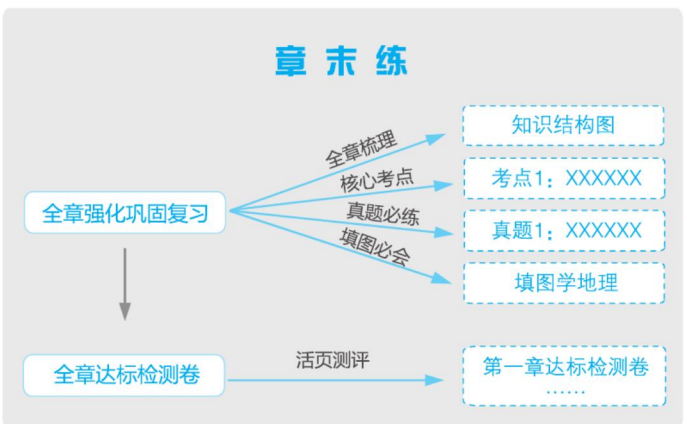

《典点》系列丛书是有思想的教辅，是有方法的宝典，是无声的老师，带你纵向贯通学习环节，横向打通疑难知识；帮你逐题渗透方法，分层提升能力；让你练准知识、练通考点、练透方法。

同学们，让我们牵手《典点》系列丛书，练，就练得与众不同。

微信公众号
教辅资料站

关注微信公众号“教辅资料站”获取更多学习资料

CONTENTS 目录

第六章 我们生活的大洲——亚洲

第一节 位置和范围 …… 1
第二节 自然环境
第1课时 地势起伏大，长河众多 …… 3
第2课时 复杂的气候 …… 5
第六章强化巩固复习 …… 7
核心考点：1. 亚洲的位置和范围
2. 亚洲的地形对河流、气候的影响
3. 亚洲的气候特征及其原因

第七章 我们邻近的地区和国家

第一节 日本
第1课时 多火山、地震的岛国 …… 10
第2课时 与世界联系密切的工业 东西方兼容的文化 …… 12
第二节 东南亚
第1课时 “十字路口”的位置 热带气候与农业生产 …… 14
第2课时 山河相间与城市分布 热带旅游胜地 …… 16
第三节 印度
第1课时 世界第二人口大国 热带季风气候 …… 18
第2课时 粮食生产 迅速发展的服务外包产业 …… 20
第四节 俄罗斯
第1课时 横跨亚欧大陆北部 …… 22
第2课时 自然资源丰富，重工业发达 发达的交通 …… 24
第七章强化巩固复习 …… 26
核心考点：1. 日本
2. 东南亚
3. 印度
4. 俄罗斯

第八章 东半球其他的地区和国家

第一节 中东
第1课时 “三洲五海之地” …… 30
第2课时 世界石油宝库 匮乏的水资源多元的文化 …… 32
第二节 欧洲西部
第1课时 工业密集，发达国家集中 …… 34
第2课时 现代化的畜牧业 繁荣的旅游业 …… 36
第三节 撒哈拉以南非洲 …… 38
第四节 澳大利亚 …… 40
第八章强化巩固复习 …… 42
核心考点：1. 战争不断的中东
2. 欧洲西部
3. 撒哈拉以南非洲
4. 澳大利亚

第九章 西半球的国家

第一节 美国
第1课时 民族大熔炉 农业地区专业化 …… 46
第2课时 世界最发达的工业国家 …… 48
第二节 巴西
第1课时 大量混血种人的社会 发展中的工农业 …… 50
第2课时 热带雨林的开发与保护 …… 52
第九章强化巩固复习 …… 54
核心考点：1. 美国
2. 巴西

第十章 极地地区 …… 57

活页部分

第六章达标检测卷 …… 61
第七章达标检测卷 …… 65
期中达标检测卷 …… 69
第八章达标检测卷 …… 73
第九、十章达标检测卷 …… 77
期末达标检测卷 …… 81
参考答案及点拨
检测卷部分 …… 85
课时练部分 …… 90

关注微信公众号“教辅资料站”获取更多学习资料

第六章 我们生活的大洲——亚洲

第一节 位置和范围

点要点 · 拨疑难

核心笔记

1. 雄踞东方的大洲

(1)亚洲的地理位置

半球位置	绝大部分地区位于北半球和东半球
海陆位置	位于亚欧大陆东部,占据了亚欧大陆的大部,北、东、南三面环绕着北冰洋、太平洋和印度洋
经纬度位置	纬度:约在11°S~81°N,经度:约在26°E~170°W

(2)范围

①西北以乌拉尔山脉、乌拉尔河、里海、大高加索山脉、黑海、土耳其海峡与欧洲为界。

②东北以白令海峡与北美洲为界。

③西南以苏伊士运河与非洲为界。

④东南面与大洋洲隔海相望。

2. 世界第一大洲

(1)概况:亚洲包括亚欧大陆的大部分以及周边岛屿,面积约为4 400万平方千米,是世界上面积最大的大洲。亚洲也是世界上跨纬度最广,东西距离最长的大洲。

(2)亚洲分区:按照地理方位,把亚洲分为东亚、东南亚、南亚、西亚、中亚和北亚6个地区。这些地区的自然环境和人类活动各具特色。

释疑解惑

"四看"法掌握亚洲的地理位置

(1)看半球。亚洲地跨东、西、南、北四个半球,绝大部分位于北半球和东半球。

(2)看海陆。亚洲占据了亚欧大陆的大部,北临北冰洋,东临太平洋,南临印度洋。

(3)看经纬度。从纬度看,亚洲约在北纬81°到南纬11°之间,主要位于北温带,南部位于热带,北部位于北寒带;从经度看,亚洲约在东经26°到西经170°之间。

(4)看相对位置。亚洲东北和北美洲以白令海峡为界,东南与大洋洲隔海相望,西北和欧洲以乌拉尔山脉、乌拉尔河、里海、大高加索山脉、黑海、土耳其海峡为界,西南和非洲以苏伊士运河为界。

易误警示

亚洲是世界上跨纬度最广的大洲,东西距离最长的大洲,但不是跨经度最广的大洲;跨经度最广的大洲是南极洲。

基础全练 (答案见90页)

知识点一 亚洲的位置和范围

1. 下列关于亚洲范围的说法,不正确的是(　　)

A. 亚洲西北以乌拉尔山脉、乌拉尔河、里海、大高加索山脉、黑海和土耳其海峡与欧洲为界

B. 亚洲的东北部以直布罗陀海峡与非洲为界

C. 亚洲的西南部以苏伊士运河与非洲为界

D. 亚洲东南部隔海与大洋洲相望

2. 读亚洲范围(图6-1-1),描述亚洲的地理位置。

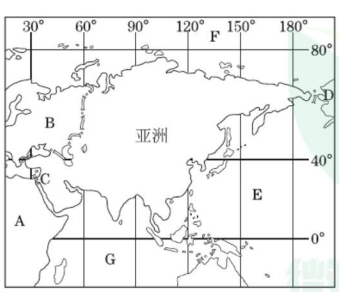

图6-1-1

(1)从东西半球看,亚洲大部分位于_____半球;从南北半球看,亚洲大部分位于_____半球。

(2)从地球五带的划分看,亚洲大部分地处_____带。

(3)从海陆位置看,亚洲西与B _____洲接壤,西南以C _____运河与A _____洲为界;东临E _____洋,南临G _____洋,北临F _____洋,东北隔_____海峡与D(北美洲)为界。

知识点二 世界第一大洲

3. 世界上面积最大、东西距离最长的大洲是(　　)

A. 南极洲　　B. 非洲　　C. 亚洲　　D. 北美洲

4. 下列关于亚洲的说法,正确的是(　　)

A. 亚洲在七大洲中居第二位

B. 亚洲最北端位于北温带

C. 亚洲地域广阔,各地自然环境和人类活动差异很大

D. 亚洲分为东亚、西亚、南亚、北亚和东南亚5部分

5. 印度尼西亚的达雅克人聚居的长屋用高架木桩支起的主要原因是(　　)

A. 防止野兽侵袭　　B. 防止洪水淹没

C. 为了防潮　　D. 人们的风俗习惯

微信公众号 教辅资料站

关注微信公众号"教辅资料站"获取更多学习资料

培优精练 （答案见 90 页）

读下列大洲轮廓图（图 6－1－2），完成 1、2 题。



图 6－1－2

1. 我们生活在图中哪一个大洲（　　）

A. ①　　B. ②

C. ③　　D. ④

2. 图中大洲全部位于北半球的是（　　）

A. ①②　　B. ③④

C. ①③　　D. ②④

3. 读图 6－1－3，亚洲所在的纬度向北约达北纬 81°，向南达南纬 11°，则亚洲所跨的纬度是（　　）

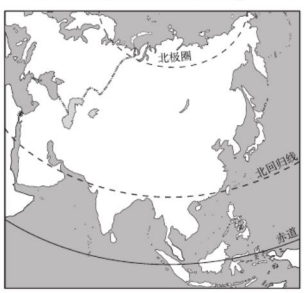

图 6－1－3

A. 约 70 度　　B. 约 92 度

C. 180 多度　　D. 120 多度

4. 下列关于北美洲地理位置的叙述，正确的是（　　）



图 6－1－4

A. 东临太平洋，西临大西洋

B. 主要位于北半球和西半球

C. 和南美洲的分界线是苏伊士运河

D. 北回归线穿过其北部

5. 易错题 下列关于亚洲的叙述，错误的是（　　）

A. 面积最大　　B. 跨经度最广

C. 东西距离最长　　D. 跨纬度最广

6. 2022 年第 22 届世界杯足球赛将在卡塔尔举行。从图中可知，卡塔尔属于亚洲的_____地区（　　）



图 6－1－5

A. 东亚　　B. 西亚　　C. 南亚　　D. 东南亚

7. 图 6－1－6 反映的是亚洲_____地区的传统民居（　　）



图 6－1－6

A. 西亚贝都因人的帐篷

B. 东西伯利亚雅库特人的木屋

C. 南亚恒河三角洲地区的船屋

D. 东南亚达雅克人的长屋

8. 读北美洲图（图 6－1－7），完成下列各题。

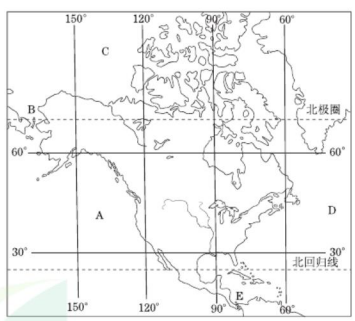

图 6－1－7

（1）写出图中字母代表的大洋名称：

A _____，C _____，D _____。

（2）B 为北美洲与亚洲的分界线_____，

E 为北美洲与南美洲的分界线_____。

（3）从图中可以看出，北美洲位于南、北半球中的_____半球，东、西半球中的_____半球；大部分位于低、中、高纬度中的_____地区。

关注微信公众号“教辅资料站”获取更多学习资料

第二节　自然环境

第1课时　地势起伏大，长河众多

点要点·拨疑难

核心笔记

1. 亚洲的地势、地形

(1)地势特点：亚洲地势起伏很大，中部高，四周低。

(2)主要地形区的分布

①中部：青藏高原和帕米尔高原。

②四周：西西伯利亚平原、东北平原、恒河平原等。

2. 亚洲的河流

(1)流向：受地形的影响，亚洲的河流多发源于中部山地、高原，呈放射状流向周边的海洋。

(2)主要河流

①注入海洋的河流

注入北冰洋的河流——主要有鄂毕河、叶尼塞河和勒拿河等；注入太平洋的河流——主要有黄河、长江和湄公河等；注入印度洋的河流——主要有恒河、印度河等。

②未注入海洋的河流

塔里木河、阿姆河、锡尔河等最终并不注入海洋，而是消失在沙漠中或注入内陆湖泊。

3. 亚洲的世界之最

名称	特点
喜马拉雅山脉	世界最高大的山脉
珠穆朗玛峰	世界最高峰，海拔8 844.43米
青藏高原	世界最高的大高原，有“世界屋脊”之称

续表

名称	特点
贝加尔湖	世界最深和蓄水量最大的淡水湖
死海	世界陆地最低点
里海	世界最大的湖泊(咸水湖)
阿拉伯半岛	世界最大的半岛
马来群岛	世界最大的群岛

释疑解惑

亚洲的地形特征

(1)地势起伏大，高低相差悬殊。亚洲既有世界海拔最高的山峰——珠穆朗玛峰，也有世界陆地最低点——死海。

(2)地势中部高，四周低。亚洲中部以青藏高原和帕米尔高原地势最为高峻；青藏高原是世界上海拔最高的高原，四周分布着较低的地形单元。

(3)地形复杂多样。亚洲高原、山地、平原、丘陵和盆地五种地形均有较大面积分布，其中以高原、山地为主。

易误警示

由于青藏高原是世界上海拔最高的高原，喜马拉雅山脉是世界上最高大的山脉，因此误认为亚洲是世界上平均海拔最高的大洲。其实世界上平均海拔最高的大洲是南极洲。

基础全练 (答案见90页)

知识点一　亚洲的地形、地势特点

1. 有关亚洲地形、地势特征的叙述，正确的是(　　)

A. 地形以平原为主，山地面积较小

B. 地势中部高，四周低

C. 东西高，中部低

D. 四周是面积广大的陆地

2. 易错题　小明向他的美洲朋友介绍亚洲的“世界之最”，其中错误的是(　　)

A. 亚洲有世界上最高的高原——青藏高原

B. 亚洲有世界上最大的平原——西西伯利亚平原

C. 亚洲有世界上最深的湖泊——贝加尔湖

D. 亚洲有世界上最大的半岛——阿拉伯半岛

知识点二　地势起伏大，长河众多

读图6-2-1，完成3、4题。

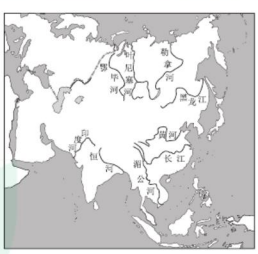

图6-2-1　亚洲主要河流分布示意图

3. 下列亚洲的主要大河中，注入北冰洋的是(　　)

A. 叶尼塞河　　B. 黑龙江　　C. 恒河　　D. 湄公河

4. 亚洲的大河多发源于中部山地、高原，呈放射状流向周边的海洋，据此分析，亚洲地势的主要特点是(　　)

A. 中部低，四周高　　B. 南部高，北部低

C. 西部高，东部低　　D. 中部高，四周低

关注微信公众号“教辅资料站”获取更多学习资料

培优精练 ☞（答案见 90 页）

读图 6－2－2，回答 1、2 题。

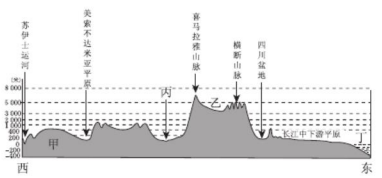

亚洲大陆沿 30°N 纬线的地形剖面示意图

图 6－2－2

1. 图中甲、乙、丙、丁代表的地理事物名称分别是（　　）

A. 伊朗高原、青藏高原、恒河平原、大西洋

B. 伊朗高原、青藏高原、恒河平原、太平洋

C. 阿拉伯高原、青藏高原、印度河平原、大西洋

D. 阿拉伯高原、青藏高原、印度河平原、太平洋

2. 易错题 该图反映的地势特点是（　　）

A. 西部高、东部低　　B. 中部高、东西两侧低

C. 东西低、南北高　　D. 中部高、四周低

3. 关于亚洲自然地理特征的叙述，正确的是（　　）

A. 地形单一，以山地为主

B. 高山多，有世界最高峰——珠穆朗玛峰

C. 河流多，且短促

D. 河流都是自西向东流

4. 亚洲的地形中（　　）

A. 青藏高原是世界上最高的高原

B. 喜马拉雅山是世界上最长的山脉

C. 长江是世界第一长河

D. 里海是世界上面积最大的淡水湖

“我们亚洲，山是高昂的头；我们亚洲，河像热血流……”听到这首《亚洲雄风》，我们的脑海中会涌现出一幅壮丽山河的画卷。据此回答 5、6 题。

5. “我们亚洲，山是高昂的头”，这里的“山”指的是（　　）

A. 阿尔卑斯山　　B. 落基山

C. 安第斯山　　D. 喜马拉雅山

6. “我们亚洲，河像热血流”是说亚洲河流众多，奔流不息。下列河流与注入海洋对应正确的是（　　）

A. 鄂毕河——北冰洋

B. 长江——印度洋

C. 印度河——大西洋

D. 恒河——太平洋

区域的水系特征深受本区地形和气候的影响。读图 6－2－3，完成 7、8 题。



图 6－2－3

7. 关于该大洲的叙述，正确的是（　　）

A. 世界上面积最大的大洲

B. 全部位于北半球

C. 东临大西洋，西临太平洋

D. 北部地区人口稠密

8. 关于该大洲水系特征的叙述，错误的是（　　）

A. 缺少内流河，内流流域面积狭小

B. 大河多发源于中部，向四周分流

C. 西部河流少，径流量小

D. 广阔的地域为形成众多的大河提供了条件

9. 下列示意图能够正确反映亚洲河流流向的是（　　）

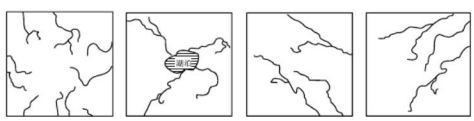

A　　B　　C　　D

图 6－2－4

10. 读图 6－2－5，回答下列问题。

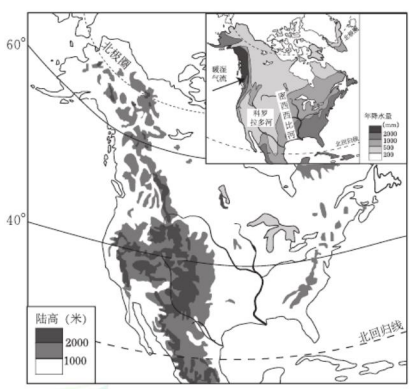

图 6－2－5

（1）北美大部分地区位于“五带”中的_____带。

（2）北美大陆西部为科迪勒拉山系，中部为_____（地形类型），东部为山地。其地势的主要特征是_____。

（3）密西西比河和科罗拉多河中，落差较大的是_____河；水量较丰富的是_____河，简要分析其水量较丰富的原因：_____。（至少两点）

微信公众号 教辅资料站

关注微信公众号“教辅资料站”获取更多学习资料

第2课时　复杂的气候

点要点·拨疑难

核心笔记

1. 亚洲的气候概况

亚洲的气候特点	复杂多样、大陆性气候分布广、季风气候显著
亚洲特有的气候	热带季风气候和温带季风气候
亚洲没有的气候	热带草原气候和温带海洋性气候

2. 季风气候的共同特点及其影响

季风气候包括热带季风气候、亚热带季风气候和温带季风气候。这三种季风气候都雨热同期，能使农作物生长旺盛，有利于农业生产，但是降水很不稳定，容易发生旱涝灾害，如亚洲的东部和南部。

释疑解惑

亚洲季风气候的形成及冬、夏季风特点

(1)亚洲季风气候的形成

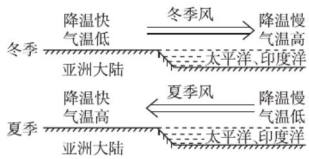

图6-2-6

(2)冬、夏季风特点

冬季风从陆地吹向海洋，其性质寒冷干燥，从亚欧大陆吹向太平洋的为西北季风，吹向印度洋的为东北季风；夏季风从海洋吹向陆地，其性质温暖湿润，从太平洋吹向亚欧大陆的为东南季风，从印度洋吹向亚欧大陆的为西南季风。

易误警示

大陆性气候与海洋性气候的特征差异

气候特征	气温	气温年较差	降水	成因
大陆性	冬季寒冷，夏季炎热	大	总量少，季节变化大	受大陆影响明显
海洋性	冬季温和，夏季凉爽	小	总量多，季节变化小	受海洋影响明显

基础全练 ☞(答案见91页)

知识点一　亚洲的气候

1. 下列描述与亚洲气候特点无关的是(　　)

A. 复杂多样　　B. 大陆性气候分布广

C. 季风气候显著　　D. 海洋性气候分布广

2. 阿拉伯半岛属于哪种气候类型(　　)

A. 热带沙漠气候　　B. 热带季风气候

C. 热带雨林气候　　D. 地中海气候

3. 下列气候类型在亚洲分布最广的是(　　)

A. 温带季风气候　　B. 热带雨林气候

C. 温带大陆性气候　　D. 高原山地气候

4. 世界上季风气候最显著的大洲是(　　)

A. 非洲　　B. 欧洲

C. 大洋洲　　D. 亚洲

知识点二　亚洲气候的差异

5. 图6-2-7中甲、乙两地的气候有很大的差异，形成这种差异的主要影响因素是(　　)

A. 地势和地形　　B. 海陆位置

C. 纬度位置　　D. 人类活动

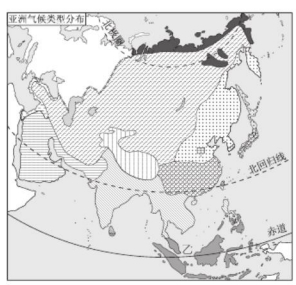

图6-2-7

6. 在亚洲的同一天，有人因炎热而纳凉，有人因寒冷而烤火，有人为雨水多而发愁，有人为长期干旱而忙碌……这些说明(　　)

A. 亚洲地域广，人种复杂

B. 亚洲跨经度广，民族复杂

C. 亚洲各地经济发展差异大，大多经济不发达

D. 亚洲地形复杂，跨寒、温、热三带，气候类型复杂多样

知识点三　季风气候的影响

7. 亚洲的东部和南部受夏季风的影响，常发生(　　)

A. 台风　　B. 寒潮　　C. 旱灾　　D. 旱涝灾害

关注微信公众号“教辅资料站”获取更多学习资料

培优精练 (答案见91页)

1. 亚洲季风气候显著的原因是(　　)
A. 亚洲地势中部高,四周低
B. 亚洲位于亚欧大陆东部
C. 亚洲位于世界最大的大陆东部,东临世界上最大的大洋,海陆热力性质差异显著
D. 亚洲面积是七大洲中最大的

2. 关于亚洲气候复杂多样原因的叙述,错误的是(　　)
A. 南北跨纬度广
B. 东西距海远近的差异大
C. 地势起伏大,增加了气候的复杂性
D. 植被类型多,增加了气候的复杂性

读亚洲地区气候分布图(图6-2-8),完成3、4题。

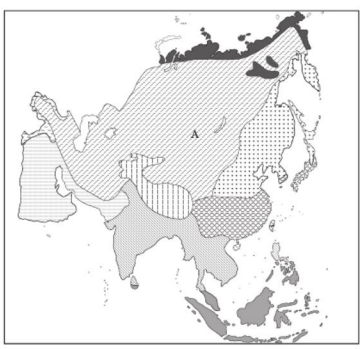

图6-2-8

3. 图中字母A表示的气候类型是(　　)
A. 高原山地气候　　B. 温带季风气候
C. 温带大陆性气候　　D. 亚热带季风气候

4. 亚洲气候类型多样,但缺少下列哪种气候类型(　　)
A. 温带季风气候　　B. 地中海气候
C. 热带沙漠气候　　D. 热带草原气候

读亚洲两地气温曲线和降水量柱状图(图6-2-9),回答5、6题。

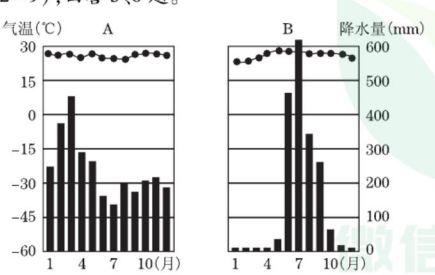

图6-2-9

5. A地这种气候类型在亚洲的主要分布地区是(　　)
A. 东亚　　B. 南亚
C. 中亚　　D. 东南亚

6. B地气候类型为(　　)
A. 热带雨林气候　　B. 热带草原气候
C. 热带季风气候　　D. 亚热带季风气候

7. 亚洲冬季风的主要特点是(　　)
A. 温和干燥　　B. 温和湿润
C. 寒冷干燥　　D. 寒冷湿润

8. 下列关于亚洲季风气候的叙述,正确的是(　　)
A. 夏季风强的年份,降水多,易造成洪涝灾害
B. 冬季风从海洋上吹来,带来丰沛的降水
C. 夏季风的强弱与农业生产之间没有必然的联系
D. 亚洲东部和南部,受冬季风的影响而易发生旱涝灾害

9. 读北美洲局部气候类型图(图6-2-10),完成下列问题。



图6-2-10

(1)填出图中字母所代表的地理事物名称:
A _____洋,B _____洋,
C _____洋,D _____气候。

(2)从图中可以看出,北美洲分布最广的气候类型是_____。

(3)沿图中北纬50°纬线,自西向东依次穿过的气候类型是_____、_____、_____。

(4)由图中信息可总结出北美洲的气候特点是_____
_____
_____。

关注微信公众号"教辅资料站"获取更多学习资料

第六章 强化 巩固复习

知识结构 · 理脉络

- 我们生活的大洲——亚洲
  - 位置和范围
    - 地理位置：半球位置、海陆位置、经纬度位置
    - 范围：包括亚欧大陆的大部分以及周边岛屿
    - 面积：约 4 400 万平方千米
    - 地理分区：东亚、东南亚、南亚、西亚、中亚、北亚
  - 自然环境
    - 地形和地势
      - 地势特点
      - 主要地形及分布
    - 河流：多发源于中部山地、高原，呈放射状流向周边的海洋
    - 气候
      - 气候特征
        - 气候复杂多样
        - 大陆性气候分布广
        - 季风气候显著
      - 季风气候对农业的影响

核心必知 · 知考点

1. 亚洲的位置和范围

(1)半球位置：亚洲大部分位于东半球、北半球。

亚洲大部分位于东半球，一小部分位于西半球；亚洲大部分位于北半球，一小部分位于南半球。

(2)经纬度位置：亚洲是世界上跨纬度最广的大洲(北部约达北纬 81°，南部达南纬 11°)，地跨高、中、低纬度和寒、温、热三带；亚洲还是世界上东西距离最长的大洲(约在东经 26°至西经 170°之间)。

(3)海陆位置：亚洲位于亚欧大陆东部，西接欧洲，西南接非洲，南临印度洋，东南望大洋洲，东临太平洋，东北望北美洲，北临北冰洋。

2. 亚洲的地形对河流、气候的影响

(1)地形对河流的影响：亚洲地势中部高，四周低，导致亚洲河流自中部向四周呈放射状分布。

(2)地形对气候的影响：青藏高原海拔高，气温比同纬度的长江中下游平原低。高大的青藏高原阻挡了印度洋向北的暖湿气流，导致青藏高原以北是温带大陆性气候。

3. 亚洲的气候特征及其原因

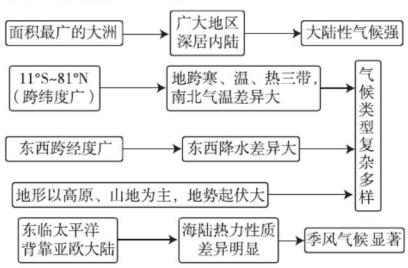

图 1

好题必练 · 练真题 ☞(答案见 91 页)

1. (**中考 · 宜昌**)下列有关亚洲的叙述，正确的是(　　)

A. 地形以平原为主

B. 是世界上平均海拔最高的大洲

C. 有着世界上所有的气候类型

D. 是世界上面积最大、人口最多的大洲

2. (**中考 · 桐城**)亚洲地形以山地、高原为主，地势中部高，四周低。受其影响，亚洲河流流向应该是(　　)

A. 由西向东注入海洋　　B. 由东向西注入海洋

C. 由南向北注入海洋　　D. 由中部流向四周

(**中考 · 济南**)读图 2，根据图中信息回答 3、4 题。

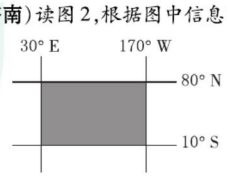

图 2

3. 读图判断，图中阴影部分所表示的大洲为(　　)

A. 亚洲　　B. 北美洲

C. 欧洲　　D. 大洋洲

关注微信公众号“教辅资料站”获取更多学习资料

4. 下列对该大洲的描述，错误的是（　　）

A. 雄踞东方的大洲

B. 世界第一大洲

C. 地势起伏大，长河众多

D. 气候单一，温带大陆性气候分布广

（**中考·聊城**）亚洲地域辽阔，山岳巍峨，河川众多，气候类型多样，据图3，完成5、6题。



图3

5. 关于亚洲自然地理特征的叙述，正确的有（　　）

①跨经度最广、东西距离最长

②地形以平原、山地为主，地势西高东低

③地形多样且起伏较大，增加了气候的复杂性

④外流水系呈辐射状，内流流域面积广大

A. ①②　　B. ②③

C. ③④　　D. ①④

6. 与其他大洲相比，亚洲具有的世界之最是（　　）

A. 面积最大　　B. 最湿润

C. 平均气温最高　　D. 平均海拔最高

7. （**中考·山西**）**【案例分析】**

案例名称：聚焦亚洲

案例资料：

资料一　亚洲河流大多发源于中部的高原、山地，呈放射状向四周的平原、丘陵地区分流。亚洲气候复杂多样，东部和南部是世界上季风气候最典型的地区。

资料二　随着国际合作的日益增强，亚洲各国之间的联系与对话也日益频繁，如上海合作组织、东南亚国家联盟、亚太经济合作组织、博鳌亚洲论坛、亚洲文明对话大会等。各国之间的交流合作不仅体现在政治经济方面，还体现在文化生活等多个方面。中国倡导的“一带一路”更是在实现亚洲各国之间的互通互建、共同发展中起到极大推动作用。

资料三　亚洲地形、河流分布示意图和亚洲气候类型分布示意图。

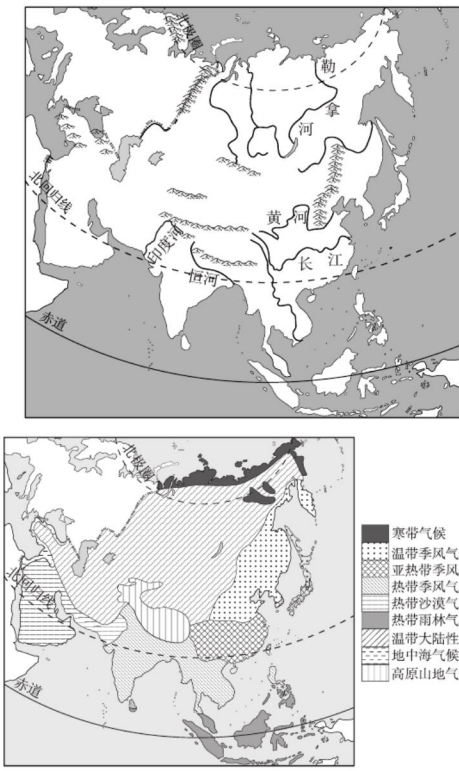

图4

案例思考：

(1) 亚洲河流大多呈放射状向四周分流。阅读图文资料，请你从东、南、西、北任选三个方向，各举例说出一条河流的名称。

(2) 根据亚洲大多河流的流向特点，推测亚洲的地势特征。

(3) 阅读图文资料，说出亚洲分布有哪几种季风气候类型。

(4) 阅读资料二，列举两例亚洲各国之间交流合作的组织或会议。

微信公众号 教辅资料站

关注微信公众号“教辅资料站”获取更多学习资料

填图学地理 ☞(答案见91页)

1. 读亚洲气候类型图,回答下列问题。

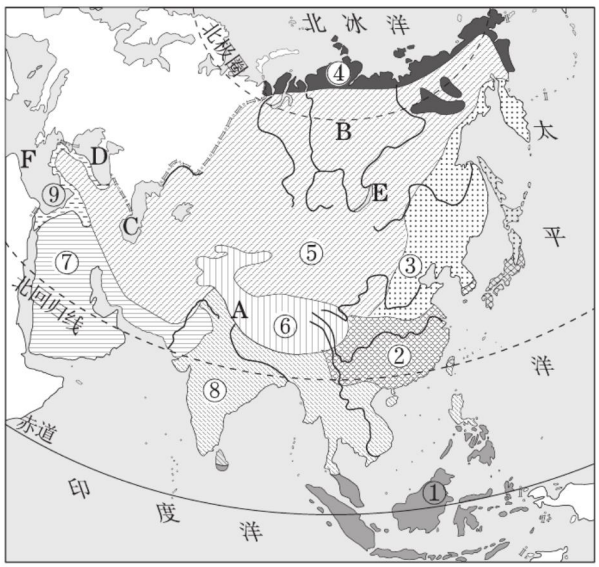

(1)世界最高的大高原是_____,图中代表的字母是_____;世界最大的湖泊是_____,图中代表的字母是_____;世界最深和蓄水量最大的淡水湖是_____,图中代表的字母是_____。

(2)写出图中数码代表的气候类型名称。

①_____气候,②_____气候,③_____气候,④_____气候,⑤_____气候,⑥_____气候,⑦_____气候,⑧_____气候,⑨_____气候。

2. 读北美洲局部气候类型分布图,回答下列问题。

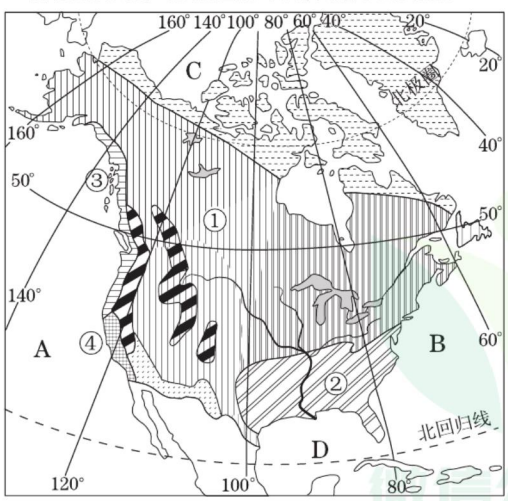

(1)从图中可以分析出,北美洲主要位于_____(填“东”或“西”)半球和_____(填“南”或“北”)半球。

(2)写出图中字母代表的地理事物名称。

A._____洋,B._____洋,

C._____洋,D._____湾。

(3)写出图中数码代表的气候类型。

①_____气候,②_____气候,

③_____气候,④_____气候。

温馨提示

为了加强对地图的认知,呈现更好的视觉效果,在图上填写时可以用不同颜色的笔哦!

微信公众号 教辅资料站

关注微信公众号“教辅资料站”获取更多学习资料

第七章 我们邻近的地区和国家

第一节 日本

第1课时 多火山、地震的岛国

点要点·拨疑难

核心笔记

1. 地理位置

(1)纬度位置:日本国土大部分位于北回归线至北纬45°之间;主要位于北温带。

(2)海陆位置:日本地处亚洲东部、太平洋西北部,四周被海洋包围,是一个岛国。

2. 陆地领土组成:日本陆地领土由北海道、本州、四国、九州四个大岛及其附近的一些小岛组成。

3. 地形特点:山地、丘陵广布,沿海平原狭小,最大平原为关东平原。

4. 国土特点:日本国土南北狭长,海岸线曲折,多优良港湾。

5. 多火山、地震

(1)原因:日本位于亚欧板块和太平洋板块交界处,处于环太平洋火山地震带上。

(2)措施:用轻质材料建造房屋;举行防震演习等。

释疑解惑

日本的气候与河流

气候类型	温带季风气候、亚热带季风气候
气候特征	四季分明,冬季较温暖,夏季较凉爽;大部分地区年降水量超过1 000毫米,且季节分配较为均匀;气候具有明显的海洋性特征
河流特征	水量较大,流程较短;落差大,水能丰富

易误警示

火山喷发的利与弊

利:火山分布地区温泉众多;形成著名的旅游景点(如富士山);火山灰会带来肥沃的土壤。

弊:火山喷发的火山灰会影响交通;熔岩流、喷发出的有毒气体等给人类的生命财产带来严重危害。

基础全练 ☞(答案见91页)

知识点一 日本的自然地理特征

1. 日本位于太平洋的(　　)

A. 东北部　　B. 西南部

C. 东南部　　D. 西北部

日本是东亚地区一个多山的岛国,也是一个火山、地震活动频繁的国家,读图7-1-1,回答2、3题。

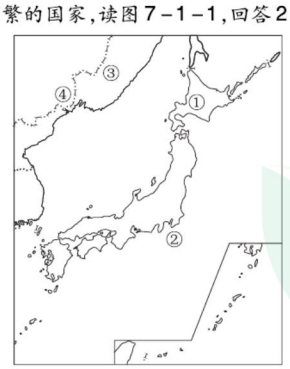

图7-1-1

2. 图中序号代表的地理事物名称,正确的是(　　)

A. ①——本州岛　　B. ②——日本海

C. ③——朝鲜　　D. ④——中国

3. 关于日本自然地理特征的叙述,正确的是(　　)

A. 位于北海道的关东平原是其最大的平原

B. 处于两大板块交界处,多火山、地震

C. 气候四季分明,很少受台风侵袭

D. 富士山海拔3 776米,是一座死火山

4. 日本的地形以什么为主(　　)

A. 高原、盆地　　B. 山地、丘陵

C. 高原、山地　　D. 平原、丘陵

知识点二 日本火山、地震频繁

5. 日本温泉众多,这些温泉区已成为日本的旅游和疗养胜地。下列与温泉有关的是(　　)

A. 气候具有海洋性　　B. 地形以山地、丘陵为主

C. 多火山、地震　　D. 河流短小湍急

6. 日本多火山、地震的原因是(　　)

A. 多暴雨和泥石流　　B. 板块张裂的结果

C. 位于两大板块交界处　　D. 属于岛国

7. 为了减轻地震造成的损失,日本传统民居具有的特点是(　　)

A. 窗户小　　B. 墙体高

C. 建筑材料轻　　D. 屋顶坡度大

关注微信公众号"教辅资料站"获取更多学习资料

培优精练 ☞(答案见91页)

1. 关于日本地理位置的叙述,正确的是(　　)
A. 日本位于亚洲东部、太平洋的西北部
B. 日本是太平洋东岸的岛国
C. 日本位于日本海西岸,是中国的邻国
D. 日本群岛以东是日本海,西岸是朝鲜海峡

日本当地时间2019年6月18日晚上10点22分,日本新潟县发生里氏6.7级地震,震源深度为14千米,并证实强震已经引发海啸。从地震震中来看,虽然震中在海上,但是其非常靠近本州岛,因此在当地造成了比较严重的影响。据此完成2、3题。

2. 此次灾害对下列哪个岛屿的影响最大(　　)



图7-1-2

3. 此次海啸发生在(　　)
A. 太平洋　　B. 日本海　　C. 印度洋　　D. 大西洋

4. 关于日本自然环境的叙述,错误的是(　　)
A. 国土南北狭长,主要由四个大岛及其附近的一些小岛组成
B. 海岸线曲折,多优良港湾
C. 地形以山地、丘陵为主
D. 沿海平原面积广阔

读日本山河分布示意图,回答5、6题。



图7-1-3

5. 新潟冬季降水较多的原因是(　　)
A. 冷暖空气在此相遇产生锋面雨
B. 湿润空气在此膨胀上升产生对流雨
C. 地处冬季风的迎风坡,地形雨较多
D. 多台风天气,带来充沛的降水

6. 下列地理现象与日本地形特征密切相关的是(　　)
A. 日本矿产资源贫乏
B. 北海道樱花开花时间比九州迟1个多月
C. 日本水能较丰富
D. 日本东北部沿海形成大渔场

7. 日本传统民居多用质地较轻的建筑材料,木制框架结构,多为二层楼房,房顶坡度较缓,以增加稳固程度,其目的主要是(　　)
A. 减少火山活动造成的人员伤亡
B. 减少地震灾害造成的人员伤亡
C. 减少寒潮灾害造成的人员伤亡
D. 减少台风灾害造成的人员伤亡

8. 当地震发生时,你认为下面应急措施中,不正确的是(　　)
A. 躲到课桌下面
B. 躲到空间狭小的洗手间里
C. 乘电梯逃生
D. 尽量用棉被、枕头、书包等软物保护头部

9. 日本是一个多山的岛国,地狭人稠。读图7-1-4,回答有关问题。

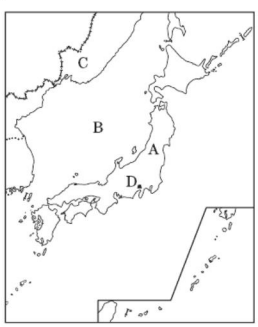

图7-1-4

(1)写出图中字母代表的地理事物名称:
岛屿:A _____;海洋:B _____海;
国家:C _____。

(2)D _____是日本的最高峰,也是一座活火山。

(3)日本国土狭长,河流短促,但水能资源丰富,你能说出其中的原因吗?

(4)山东省济南市冬季气温比纬度相近的日本东京市低6℃,夏季气温要高2℃,请你分析产生这种差异的原因。

微信公众号 教辅资料站

关注微信公众号"教辅资料站"获取更多学习资料

第2课时 与世界联系密切的工业 东西方兼容的文化

点要点·拨疑难

核心笔记

1. 日本的经济

(1)经济发展模式:加工进口原料,大量出口工业制成品。

(2)经济发展条件

①不利条件:地域狭小,资源贫乏,国内供应严重不足,对外依赖十分严重。

②有利条件:丰富的劳动力资源、较高的科学技术水平及岛国多优良港湾等。

(3)工业分布特点

①工业分布:工业集中分布在太平洋沿岸和濑户内海沿岸。

②主要工业区:京滨工业区、名古屋工业区、阪神工业区、北九州工业区、濑户内工业区。

(4)海外投资

①背景:20世纪80年代,日本工业发展面临劳动力价格提高,人口老龄化致使劳动力短缺现象日益显露,环境污染、土地紧张状况加剧,国内需求减少等问题。

②对策:依靠资金、技术等优势,加速扩大海外投资;利用世界各地的自然资源、劳动力等,建立海外的生产与销售基地。

③对象:欧洲、美国、东亚和东南亚等国家和地区。

2. 东西方兼容的文化

日本文化既有浓厚的大和民族的传统色彩,又有强烈的西方气息,是东西方文化兼容的典型。

释疑解惑

经济对外依赖对日本经济发展的影响

(1)有利影响:促进日本科技水平和劳动力素质的迅速提高,从而使日本的工业产品在国际市场上更具竞争力。

(2)不利影响:日本的经济发展严重依赖国际市场,受国际政治、经济环境的影响比较大,日本经济体系非常脆弱。

易误警示

在日本的工业区中,有濑户内工业区,不要误写为濑户内海工业区。

基础全练 (答案见92页)

知识点一 与世界联系密切的工业

读日本略图(图7-1-5),完成1、2题。

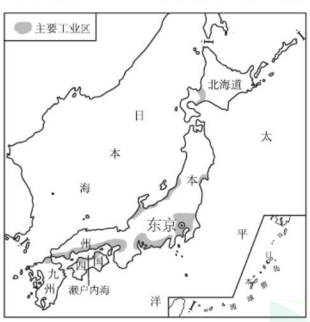

图7-1-5

1. 东京位于(　　)

A. 九州岛　B. 本州岛　C. 四国岛　D. 北海道岛

2. 日本工业区主要分布在(　　)

A. 内陆地区

B. 日本海沿岸

C. 北部地区

D. 濑户内海沿岸和太平洋沿岸

3. 日本工业分布特点的形成原因主要是(　　)

A. 气候温暖湿润,自然环境优美

B. 多优良港口,便于原料输入、工业产品输出

C. 自然资源丰富,工业发展潜力大

D. 劳动力充足,市场广阔

4. 20世纪80年代,日本工业发展面临一系列的问题,为此,日本加速扩大海外投资,日本投资建厂的主要对象是(　　)

A. 欧洲、非洲、东亚、美国

B. 美国、东南亚、南美洲、欧洲

C. 美国、欧洲、东亚、东南亚

D. 欧洲、美国、大洋洲、东亚

知识点二 东西方兼容的文化

5. 日本的传统服装是(　　)

A. 西服　B. 旗袍　C. 纱丽　D. 和服

6. 关于日本民族的叙述,正确的是(　　)

A. 日本民族构成单一,朝鲜族占绝对优势

B. 日本民族构成单一,高山族占绝对优势

C. 日本民族构成复杂,是个多民族国家,共有56个民族

D. 日本民族构成单一,大和民族占绝对优势

关注微信公众号"教辅资料站"获取更多学习资料

培优精练 ☞(答案见92页)

1. 关于日本的叙述,正确的是(　　)
A. 地形以平原、丘陵为主
B. 地广人稀,资源丰富
C. 工业主要分布在日本海沿岸
D. 大和民族占绝对优势

阅读日本进口的主要工业原料及其所占比重和出口的主要产品在国际市场上所占比重表,回答2、3题。

进口原料	铁矿石	棉花	石油	铜矿石	天然气	煤炭
所占比重(%)	100	100	99.7	99.8	96.4	95.2
出口产品	摩托车	船舶	录像机	轿车	车床	照相机
所占比重(%)	78.1	72.6	77.3	43.1	57.2	87

2. 由上表可知,日本经济发展的不利条件是(　　)
A. 地形以山地、丘陵为主
B. 自然资源贫乏
C. 海岸线曲折,多优良海港
D. 人口稠密,劳动力资源过剩

3. 由上表分析,日本对外贸易的主要特点是(　　)
A. 大量进口工业产品,出口原料和燃料
B. 大量进口原料、燃料,出口工业产品
C. 大量进口原料、燃料,出口初级农矿产品
D. 进口原料少,出口工业产品多

20世纪80年代以来,日本加大海外投资的力度,不断地把工厂迁移到国外。据此回答4~6题。

4. 对迁入国来说,其好处有(　　)
①得到经济发展需要的资金
②引进先进的生产技术
③降低运输成本,提高经济效益
④得到丰富的自然资源
A. ①②　　B. ①③　　C. ②③　　D. ②④

5. 在日本的外迁企业中,大多是(　　)
①耗用大量资源的企业　②需用大量劳动力的企业
③高新技术企业　④污染较重的企业
A. ①②③　　B. ①②④
C. ①③④　　D. ②③④

6. 下列国家中,对日本投资建厂最具有吸引力的是(　　)
A. 肯尼亚　　B. 阿根廷
C. 中国　　D. 加拿大

7. 下列关于日本文化的叙述,不正确的是(　　)
A. 与中国的文化交流源远流长
B. 有着浓厚的大和民族的传统色彩
C. 具有东西方文化交融的特点
D. 文化只具有西方国家的特点

8. 读日本的位置和主要工业中心分布示意图(图7-1-6),回答下列问题。

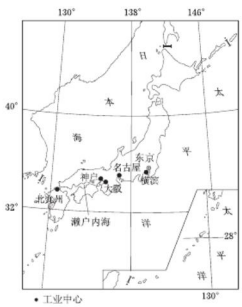

图7-1-6

(1)读图7-1-6分析,日本的海陆位置是_____。

(2)据图7-1-6可知,日本工业主要分布在_____,主要原因是_____。

(3)据图7-1-7和所学内容,分析日本文化特征。





图7-1-7

(4)为增强中日友好交流,若请你设计促进日本观光旅游的宣传活动,写出你选择的两个日本特色旅游项目。

微信公众号 教辅资料站

关注微信公众号"教辅资料站"获取更多学习资料

第二节 东南亚

第1课时 “十字路口”的位置 热带气候与农业生产

点要点·拨疑难

核心笔记

1. 地理位置

(1)纬度位置:东南亚大部分位于10°S~25°N,绝大部分属于热带。

(2)海陆位置:位于亚洲东南部,东临太平洋,西临印度洋,与大洋洲隔海相望。

(3)交通位置:地处亚洲与大洋洲、太平洋与印度洋之间的“十字路口”。马六甲海峡是欧洲、非洲与东南亚、东亚各港口最短航线的必经之地,是连接太平洋与印度洋的重要海上通道。

2. 范围:包括中南半岛和马来群岛两大部分。

3. 气候:主要是热带季风气候和热带雨林气候。

4. 物产:粮食作物以水稻为主;经济作物有天然橡胶、油棕、椰子、蕉麻等。

释疑解惑

东南亚的气候及其对农业的影响

气候类型	气候特征	分布地区	有利条件	影响
热带雨林气候	全年高温多雨	马来群岛的绝大部分,马来半岛南部	这两种气候全年高温,降水丰沛	粮食作物:稻米(泰国、越南、缅甸) 重要热带经济作物产地(最大):天然橡胶:泰国;棕榈油:马来西亚;椰子:印度尼西亚;蕉麻:菲律宾
热带季风气候	全年高温,分旱、雨两季	中南半岛,菲律宾群岛北部		

易误警示

东南亚各地距离海洋较近,易误认为没有内陆国。老挝是东南亚唯一的内陆国。

基础全练 (答案见92页)

知识点一 东南亚的位置和范围

1. 东南亚主要包括两大部分,它们是(　　)

A. 中南半岛、马来半岛

B. 马来半岛、菲律宾群岛

C. 中南半岛、马来群岛

D. 马来群岛、加里曼丹岛

读马来群岛局部区域图(图7-2-1),完成2、3题。

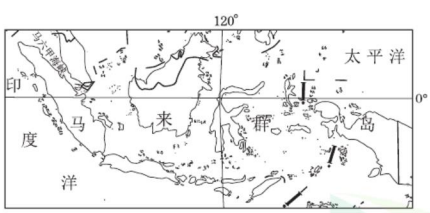

图7-2-1

2. 马来群岛是世界上最大的群岛,位于(　　)

A. 亚洲东南部　　B. 非洲东南部

C. 欧洲东南部　　D. 北美洲东南部

3. 马六甲海峡是重要的国际水道,它沟通了(　　)

A. 地中海和大西洋

B. 太平洋和北冰洋

C. 印度洋和大西洋

D. 太平洋和印度洋

知识点二 热带气候与农业生产

4. 东南亚人口稠密、耕地较少,高温多雨,种植的主要粮食作物是(　　)

A. 小麦　　B. 水稻　　C. 玉米　　D. 青稞

读东南亚局部图,回答5、6题。

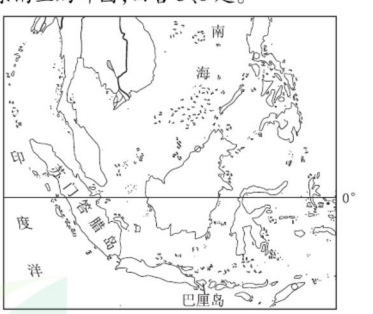

图7-2-2

5. 苏门答腊岛地震活动频繁,原因是(　　)

A. 处于亚欧板块和太平洋板块交界处

B. 台风活动引起的

C. 频繁的火山爆发引起的

D. 处于亚欧板块和印度洋板块交界处

6. 巴厘岛的气候类型是(　　)

A. 热带雨林气候　　B. 热带季风气候

C. 热带草原气候　　D. 亚热带湿润气候

关注微信公众号“教辅资料站”获取更多学习资料

培优精练 ☞(答案见92页)

1. 下列关于东南亚的叙述,不正确的是(　　)
A. 东南亚位于亚洲的东南部
B. 中南半岛因在中国以南而得名
C. 马来群岛大部分地区终年高温多雨
D. 世界上最大群岛国家印度尼西亚的首都是吉隆坡

读图7-2-3,回答2、3题。

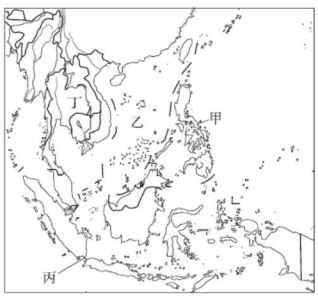

图7-2-3

2. 有关图中序号代表区域的叙述,正确的是(　　)
①甲代表的国家是菲律宾,主要物产是蕉麻和椰子
②乙海域中的黄岩岛是我国的固有领土
③丙处是重要的海上通道——马六甲海峡
④丁地所在国家是世界上重要的稻米出口国
A. ①②③　　B. ②③④
C. ①②④　　D. ①③④

3. 图示区域成为世界上重要的热带经济作物产地的主要自然原因是(　　)
A. 热量、水分充足
B. 平原为主,地势平坦
C. 种植历史悠久、生产技术高
D. 市场需求量大

2019年3月13日,第十一届国际商会亚太咨询组会议在印度尼西亚首都雅加达召开。会议期间,我国某企业组成代表团赴该国采购货物,并观光考察。据此回答4、5题。

4. 代表团成员发现爪哇岛有许多农民冒着生命危险在火山口附近居住、种地,主要是因为(　　)
A. 气候温暖,适宜人类居住
B. 人口众多,耕地较少
C. 火山爆发是百年难遇的事
D. 火山口附近土壤肥沃

5. 订货合同中,代表团最有可能采购的货物是(　　)
A. 咖啡、茶叶　　B. 甘蔗、可可
C. 天然橡胶、椰子　　D. 棉花、稻米

6. 世界上最大的天然橡胶生产国是(　　)
A. 马来西亚　　B. 泰国
C. 印度尼西亚　　D. 新加坡

7. 东南亚盛产水稻和热带经济作物与下列哪些气候有关(　　)

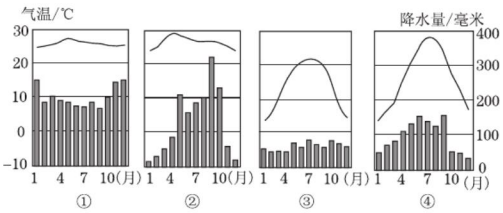

图7-2-4

A. ①②　　B. ③④　　C. ①③　　D. ②④

8. 读图文材料,回答下列问题。
材料一　东南亚是中国“一带一路”联系密切的地区,经贸往来、经济合作不断加强。中国从东南亚进口大量的农、矿产品,投资、修建多条高铁(铁路)等。
材料二　印度尼西亚有“火山国”之称。2019年6月9日,其著名的锡纳朋火山喷发,该火山近年来进入活跃期。

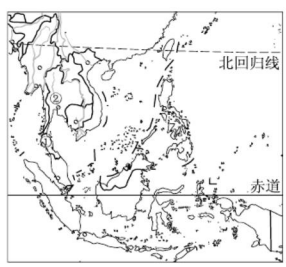

图7-2-5

(1)中南半岛位于_____(填“南”或“北”)半球。
(2)水稻喜温喜湿,橡胶喜热怕涝,推测图示①②两地适宜种水稻的是_____,适宜种橡胶的是_____。
(3)一艘满载东南亚特产的货船回到中国港口时,报货单上的货物名称可能是(　　)
A. 羊毛、小麦　　B. 棉布、服装
C. 椰枣、煤炭　　D. 棕榈油、锡矿砂
(4)请分析印度尼西亚多火山、地震的原因。

微信公众号 教辅资料站

关注微信公众号“教辅资料站”获取更多学习资料

第2课时 山河相间与城市分布 热带旅游胜地

点要点·拨疑难

核心笔记

1. 山河相间与城市分布

(1)地形特点:中南半岛上山脉、大河多由北向南延伸,具有山河相间、纵列分布的特点。

(2)河流特点:中南半岛河流多自北向南流,上游流经山区,水流湍急,水能丰富;下游河道变宽,水流缓慢,泥沙沉积,形成河流沿岸的冲积平原及河口三角洲。河流多是国际河流,如湄公河、伊洛瓦底江、萨尔温江等。

(3)城市分布:中南半岛的大城市主要分布在河流沿岸及河口三角洲。

2. 热带旅游胜地

(1)自然旅游资源:东南亚自然风光充满热带气息。多数国家海岸线漫长,海岛众多,形成了许多著名的海滨旅游与度假胜地,如越南的下龙湾、印度尼西亚的巴厘岛。

(2)人文旅游资源:东南亚各国历史悠久,多元民族文化并存,佛教、伊斯兰教、基督教等文化景观多姿多彩,名胜古迹众多,风土人情多样。

(3)旅游业地位:近年来,泰国、印度尼西亚等国大力发展旅游业,旅游收入已成为这些国家国民经济收入的重要来源。

释疑解惑

中南半岛人口、城市的分布及原因

中南半岛的大城市主要分布在河流沿岸及河口三角洲。因为河流沿岸和河口三角洲地势平坦,土壤肥沃,有河流经过,易于灌溉,交通便利。河流是这些城市建立和不断发展的生命线,经长期开发,成为东南亚人口稠密、农业发达和城市密集区。

易误警示

缅甸的首都是内比都而不是仰光;位于湄南河附近的首都是曼谷,位于湄公河附近的首都有万象、金边。

基础全练 (答案见92页)

知识点一 山河相间与城市分布

1. 革命老前辈陈毅同志赠友人诗句有"山山皆向北,条条南流水",说明的是以下哪个地方的地形、河流分布特点(　　)

A. 马来半岛　　B. 印度半岛

C. 马来群岛　　D. 中南半岛

2. 中南半岛的大城市主要分布在(　　)

A. 半岛南部

B. 半岛北部

C. 河流沿岸及河口三角洲

D. 平原地区

3. 下列国家与其首都之间的连线,正确的是(　　)

A. 越南——内比都　　B. 老挝——吉隆坡

C. 柬埔寨——万象　　D. 泰国——曼谷

4. 东南亚流经国家最多的国际性河流是(　　)

A. 红河　　B. 湄公河

C. 湄南河　　D. 伊洛瓦底江

知识点二 热带旅游胜地

5. 泰国曼谷的水上市场繁荣,成为当地的一大特色,其形成的自然因素是(　　)

A. 终年高温,河网密布

B. 热带雨林气候,终年高温多雨

C. 地形山河相间,纵列分布

D. 人口密集,土地资源紧张

印度尼西亚是世界上最大的群岛国家,图7-2-6为印度尼西亚地理位置示意图,读图7-2-6,完成6、7题。

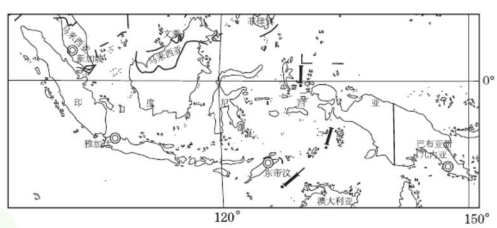

图7-2-6

6. 印度尼西亚大约四分之三的陆地位于(　　)

A. 北半球、东半球　　B. 北半球、西半球

C. 南半球、东半球　　D. 南半球、西半球

7. 到印度尼西亚旅游,游客可以(　　)

A. 观赏热带风光

B. 体验高山滑雪

C. 参观吴哥窟

D. 欣赏大漠风光

关注微信公众号"教辅资料站"获取更多学习资料

培优精练 ☞(答案见93页)

东南亚与我国山水相连，经济文化联系密切。读中南半岛图，完成1、2题。

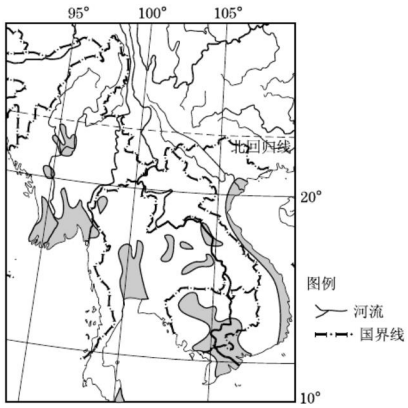

图7-2-7

1. 有关中南半岛自然特征的叙述，正确的是(　　)
   A. 地势是南高北低
   B. 气候以热带雨林气候为主
   C. 地形特征是山河相间、纵列分布
   D. 植被属于落叶阔叶林
2. 图中阴影区主要是下列哪种农作物的分布区(　　)
   A. 香蕉　　B. 小麦　　C. 水稻　　D. 茶叶

东南亚是世界人口稠密区之一，人口集中分布在大河的冲积平原和河口三角洲的热带季风气候区，而山区和岛屿上的热带雨林气候区人口稀少。据此完成3、4题。

3. 导致东南亚人口分布出现上述差异的主要因素是(　　)
   A. 地形、气候　　B. 纬度、气候
   C. 气候、植被　　D. 地形、植被
4. 河流为东南亚人们的生产、生活提供了哪些有利条件(　　)
   ①充足的水源　②便利的水运　③平坦的土地
   ④肥沃的土壤
   A. ①②　　B. ①②④
   C. ③④　　D. ①②③④
5. 近年来，东南亚成为亚洲新兴的旅游热点地区，小明去年6月下旬到新马泰旅游，下面是他写的旅游见闻，你认为不正确的是(　　)
   A. 当地人大多吃米饭，每天午后时常下一场雨
   B. 从车窗向外看，看到了成片的橡胶林和油棕种植园
   C. 站在马六甲海峡北海岸观看来往的货船，看到许多满载的日本油轮向东南方向驶去
   D. 在新加坡领略了花园城市的风光，用汉语与当地人交流，还看到了火山喷发时的奇观
6. 到泰国旅游，最有可能拍到的景观是(　　)



A. 悉尼歌剧院　B. 佛塔　　C. 教堂　　D. 金字塔

图7-2-8

7. 读亚洲局部地区图，完成下列问题。

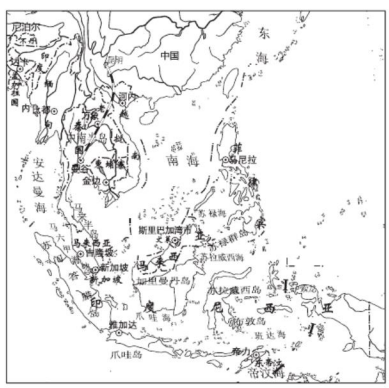

图7-2-9

(1)第二次世界大战后，新加坡迅速崛起为亚洲发达经济体的位置优势是_____。

(2)马来西亚的领土包括_____和_____两部分。

(3)中南半岛的城市多分布在_____，主要原因是_____(回答两点即可)。

(4)指出中国与东南亚国家的经济合作中，彼此具有的优势条件。

微信公众号 教辅资料站

关注微信公众号“教辅资料站”获取更多学习资料

第三节 印度

第1课时 世界第二人口大国 热带季风气候

点要点·拨疑难

核心笔记

1. 地理位置:印度位于亚洲南部,西临阿拉伯海,东临孟加拉湾。
2. 邻国:中国、尼泊尔、不丹、孟加拉国、缅甸、巴基斯坦、斯里兰卡、马尔代夫。
3. 主要河流:恒河。
4. 三大地形区:北部为喜马拉雅山脉,中部为恒河平原,南部为德干高原。
5. 人口:人口数量仅次于中国,居世界第二位。
6. 气候类型:以热带季风气候为主,每年10月至次年5月为印度的旱季,盛行东北季风,降水少;6~9月为印度的雨季,盛行西南季风,降水丰沛。
7. 自然灾害:水旱灾害频繁。

释疑解惑

解读热带季风气候及西南季风与水旱灾害的关系

(1)热带季风气候

季节	时间	风向	源地	气流	对降水的影响
旱季	10月~次年5月	东北季风	亚欧大陆	干燥	降水稀少
雨季	6~9月	西南季风	印度洋	湿润	降水丰沛

(2)西南季风与水旱灾害的关系

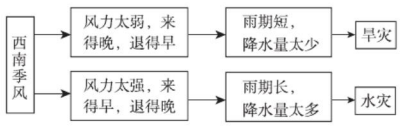

易误警示

印度河主要流经的国家是巴基斯坦而不是印度;印度居民主要信奉印度教而不是佛教。

基础全练 (答案见93页)

知识点一 印度的邻国和地形区

读印度地形示意图(图7-3-1),完成1、2题。

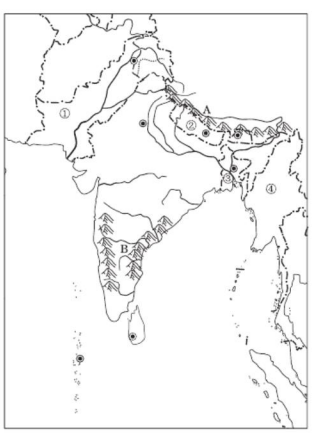

图7-3-1

1. 图中印度邻国——巴基斯坦的代号是(　　)
A. ①　　B. ②　　C. ③　　D. ④

2. 从图中可知,印度地形分为三部分,其中A、B代表的地形区分别是(　　)
A. 喜马拉雅山脉、恒河平原
B. 喜马拉雅山脉、德干高原
C. 恒河平原、德干高原
D. 喜马拉雅山脉、印度河平原

知识点二 印度的人口及其带来的影响

3. (中考·鸡西)南亚面积最大、人口最多的国家是(　　)
A. 马来西亚　　B. 印度　　C. 尼泊尔　　D. 孟加拉国

4. 下列不属于印度人口众多优势的是(　　)
A. 劳动力丰富、廉价
B. 市场需求量大,市场广阔
C. 国防兵源充足
D. 人口素质偏低

5. 图7-3-2是在印度拍摄的照片,其反映的主题是(　　)
A. 人口和粮食问题
B. 人口和住房问题
C. 人口和交通问题
D. 交通和住房问题



图7-3-2

知识点三 印度的气候特征

6. 关于印度热带季风气候的叙述,正确的是(　　)
A. 全年高温,分为旱、雨两季
B. 印度全部为热带季风气候
C. 热带季风气候仅分布在印度半岛
D. 吹东北季风时为雨季,吹西南季风时为旱季

关注微信公众号"教辅资料站"获取更多学习资料

培优精练 ☞(答案见93页)

1. 关于印度的说法,正确的是(　　)
A. 亚洲面积最大的国家
B. 亚洲人口最多的国家
C. 西南季风的不稳定会给印度带来频繁的水旱灾害
D. 印度位于南半球

2. 下列关于印度自然地理特点的叙述,正确的是(　　)
A. 全国都是热带季风气候,全年高温多雨
B. 恒河向东南注入阿拉伯海
C. 北部是山地,中部是平原,南部是高原
D. 印度东临阿拉伯海,西临孟加拉湾

3. 读南亚地区图(图7-3-3),判断下列叙述正确的是(　　)
A. 南亚自西向东分为三大地形区
B. 甲地冬季比亚洲同纬度其他地区气温低
C. 南亚的西南季风进退异常时,易发生旱涝灾害
D. 南亚是基督教的发源地

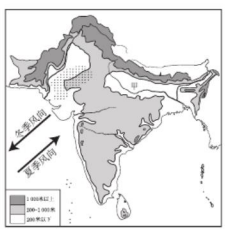

图7-3-3

读沿78°E经线南亚地形剖面图,完成4、5题。

4. b地形区为(　　)
A. 恒河平原
B. 亚马孙平原
C. 德干高原
D. 密西西比河平原

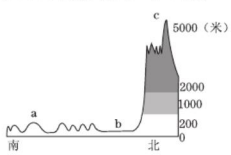

图7-3-4

5. b地形区最主要的气象灾害是(　　)
A. 沙尘暴　　B. 寒潮　　C. 台风　　D. 旱涝

《新西游记》里的孙悟空重返"西天"圣地,惊奇地发现:"西天"改称为南亚,"天竺"改称为印度;"印度河"干流却没有流经印度;佛教发源地绝大多数人不信佛教;络绎不绝的人群在参观一个用白色大理石砌成的古建筑,听说这是古代一个皇妃的陵墓……据此完成6、7题。

6. 印度河干流流经的国家是(　　)
A. 印度　　B. 巴基斯坦
C. 埃及　　D. 朝鲜

7. "白色大理石砌成的古建筑"是(　　)
A. 长城　　B. 罗马古斗兽场
C. 泰姬陵　　D. 狮身人面像

读南亚某地气温年变化曲线和逐月降水量图,回答8、9题。

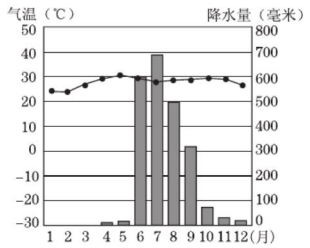

南亚某地气温年变化曲线和逐月降水量图

图7-3-5

8. 下列对该地降水特点的描述,正确的是(　　)
A. 各月降水均匀　　B. 降水集中在6~9月
C. 6月降水最多　　D. 10月降水最少

9. 2019年5月以来,印度出现持续高温天气,导致超百人死亡,与高温天气形成无关的是(　　)
A. 5月为全年最热月
B. 5月西南季风尚未来临,降水少
C. 5月太阳辐射强
D. 印度人口稠密

10. 图7-3-6为印度风向图,读图回答问题。

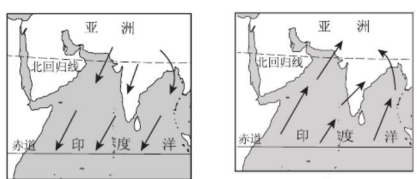

图7-3-6

(1)图A中风向为_____,风由_____吹向_____,此时为_____季。
(2)图B中风向为_____,风由_____吹向_____,此时为_____季。
(3)能给印度带来丰沛降水的是_____季风,来自_____。
(4)将A~F填入下表中,以说明印度的水旱灾害与西南季风变化的关系。
A. 来得早　　B. 来得晚　　C. 退得早
D. 退得晚　　E. 风力不足　　F. 风力强盛

	洪灾	旱灾
西南季风变化		

关注微信公众号"教辅资料站"获取更多学习资料

第2课时 粮食生产 迅速发展的服务外包产业

点要点·拨疑难

核心笔记

1. 印度粮食作物及分布

(1)主要粮食作物:水稻、小麦。

(2)分布:小麦主要分布在德干高原西北部和恒河上游地区;水稻主要分布在恒河中下游地区和沿海地区。

2. 印度服务外包产业的发展

(1)发展条件:人力资源丰富、劳动力成本较低、英语普及、信息技术发展较早等。

(2)发展概况:服务外包产业中的软件外包业务发展迅速,约占全球软件外包市场的2/3。

(3)主要领域:信息技术、会计、金融、保险、制药、工业设计等。

(4)主要作用:为印度创造了就业机会,赚取了大量外汇,促进了印度服务业的快速发展。

(5)主要特点:信息技术含量高、利润大、资源消耗少等。

(6)班加罗尔是印度软件外包产业的发源地。

释疑解惑

印度粮食生产与自然条件的关系

(1)水稻主要分布在恒河中下游地区和沿海地区,这里年降水量超过1 000毫米,海拔较低,气候湿热,符合水稻的生长条件。

(2)小麦主要分布在德干高原西北部和恒河上游地区,这里年降水量在500~1 000毫米,由于小麦比较耐旱,这里海拔较高,气候温凉,因此小麦适合在此地区生长。

易误警示

印度主要位于热带地区,但是粮食作物既有水稻,也有小麦。

基础全练 (答案见93页)

知识点一 印度的粮食生产

1. 印度发展农业的有利自然条件是(　　)

A. 大部分地区位于北纬10°~30°,多属于热带,降水丰富

B. 地形以高原和山地为主

C. 年降水量变化大

D. 人口众多、劳动力丰富

读印度主要农产品产量在世界的位次表,分析其经济特点,完成2、3题。

类别	谷物	棉花	大豆	花生	甘蔗	茶叶	烟草	黄麻
位次	3	4	5	1	2	1	4	1

2. 从表中数据反映出印度是一个什么样的大国(　　)

A. 世界工业大国　　B. 世界农业大国

C. 农业现代化程度高　　D. 农产品以出口为主

3. 印度农产品产量很大,但出口量很少,其原因是(　　)

A. 工业发达,农业原料消费多

B. 畜牧业发达,饲料需求量大

C. 人口众多,消耗农产品多

D. 环境污染严重,农产品质量不合格

读图7-3-7,回答4、5题。

4. 印度的小麦主要分布在(　　)

A. 恒河三角洲

B. 半岛的沿海平原

C. 德干高原

D. 德干高原西北部和恒河上游地区

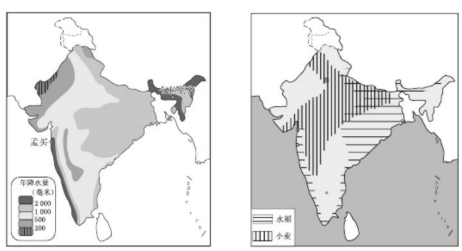

甲　印度年降水量图　　乙　印度水稻和小麦的分布图

图7-3-7

5. 印度推行了“绿色革命”后,粮食供应状况逐步得到改善。由印度水稻和小麦的分布图(图7-3-7乙),结合印度年降水量图(图7-3-7甲),可知,印度的水稻大都分布在年降水量_____以上(　　)

A. 500毫米　　B. 1 000毫米

C. 200毫米　　D. 2 000毫米

知识点二 印度的服务外包产业

6. 印度软件外包产业的发源地是(　　)

A. 新德里　　B. 班加罗尔

C. 金奈　　D. 孟买

7. 印度的服务外包产业中,发展最快的行业是(　　)

A. 金融外包产业　　B. 保险外包产业

C. 软件外包产业　　D. 工业设计外包产业

关注微信公众号“教辅资料站”获取更多学习资料

培优精练 ☞(答案见94页)

1. 关于印度的叙述,正确的是(　　)
A. 主要的粮食作物是水稻、棉花
B. 地形以山地、平原为主
C. 服务外包产业发展迅速
D. 软件外包业务主要来自欧洲发达国家

2. 下列关于印度小麦和水稻分布与自然环境的关系的叙述,正确的是(　　)
A. 小麦主要分布在盆地、高原地区
B. 水稻主要分布在高原、沿海地区
C. 小麦主要集中在降水较少的恒河上游地区和南部高原区
D. 水稻主要集中在降水多的恒河三角洲和西北地区

读印度农作物分布图(图7-3-8),完成3、4题。

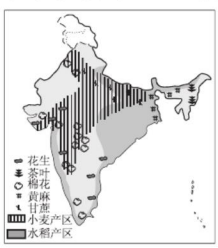

图7-3-8

3. 印度农作物分布具有明显的区域性,这种区域分布的主要依据是(　　)
A. 适应不同地区农民的种植习惯
B. 符合不同地区居民的消费习惯
C. 有利于实施机械化、专门化生产
D. 充分利用各地气候、地形等自然条件

4. 印度在农业生产过程中存在的问题有(　　)
A. 降水不稳定,旱涝灾害频繁
B. 农业生产技术十分落后,现在粮食仍不能自给
C. 高原面积广大,平原面积狭小,可耕种土地比重小
D. 软件产业的发展吸引了大量劳动力,造成农业劳动力不足

读印度主要矿产和城市分布示意图,回答5、6题。

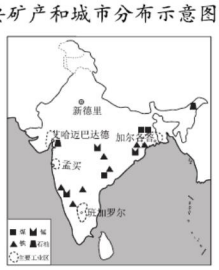

图7-3-9

5. 据图判断,加尔各答发达的工业部门是(　　)
A. 石油加工业　　B. 钢铁工业
C. 电子工业　　D. 棉纺工业

6. 班加罗尔有“印度硅谷”之称,关于该工业区叙述正确的是(　　)
A. 在当地丰富的能源资源基础上形成的
B. 平原地形,地势低平,环境优美
C. 以信息技术等高科技产业为主
D. 海运发达,便于产品出口

7. 印度发展服务外包产业的优势有(　　)
①劳动力成本较低
②矿产资源丰富
③信息技术发展早
④技术水平比欧美等发达国家高
⑤英语普及
A. ①②③　　B. ②④⑤
C. ①③⑤　　D. ③④⑤

8. 读印度软件外包产业中心分布图(图7-3-10),回答下列问题。

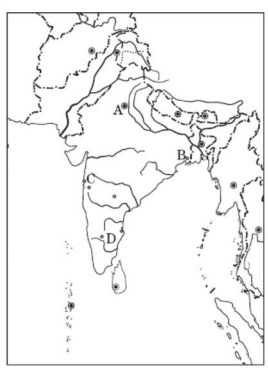

图7-3-10

(1)将图中字母所表示的城市名称填入下面横线上:
A _____,B _____,
C _____,D _____。

(2)印度每年承接全球服务外包市场近1/2的业务。其中,承接的软件外包业务约占全球软件外包市场的_____,印度被形象地称为“_____”。

(3)由于具有_____和_____的综合优势,印度备受向外承包软件业务企业的青睐。

关注微信公众号“教辅资料站”获取更多学习资料

第四节 俄罗斯

第1课时 横跨亚欧大陆北部

点要点·拨疑难

核心笔记

1. 地理位置

(1)海陆位置:俄罗斯横跨亚欧大陆的北部,西濒波罗的海,东临太平洋,北靠北冰洋。

(2)经纬度位置:大部分位于50°N~70°N,纬度较高,大部分位于北温带,小部分位于北寒带;东西跨经度170°,是世界上跨经度最广、东西距离最长的国家。

2. 地形特点:俄罗斯地形比较平坦,西部以平原为主,东部多高原、山地。地势东高西低,西伯利亚地区南高北低。大河和山脉成为地形区的重要分界线。

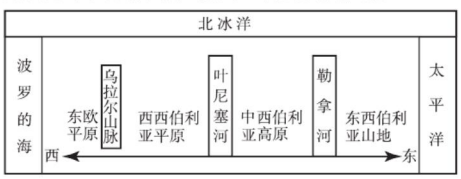

3. 气候类型:温带大陆性气候、寒带气候、温带季风气候、高原山地气候。

4. 河流与湖泊

(1)河流:西伯利亚地区的鄂毕河、叶尼塞河、勒拿河均自南向北注入北冰洋;东欧平原上的伏尔加河自北向南注入里海。

(2)湖泊:贝加尔湖是世界上最深和蓄水量最大的淡水湖。

释疑解惑

俄罗斯的气候

俄罗斯位于五带中的北温带和北寒带,北部北冰洋沿岸为寒带气候,东部太平洋沿岸为温带季风气候,大高加索山脉和东西伯利亚山地部分地区为高原山地气候,其他大部分地区属于温带大陆性气候,气候特征为冬季寒冷而漫长,夏季温暖而短促,气温年较差大,降水少且集中在夏季。

易误警示

俄罗斯地跨亚欧两大洲,并且在亚洲面积较大,但受地理、历史、民族和宗教等因素影响,历来被认为是欧洲国家。

基础全练 (答案见94页)

知识点一 世界上面积最大的国家

1. 世界上面积最大的国家是(　　)

A. 蒙古　　B. 加拿大　　C. 印度　　D. 俄罗斯

知识点二 俄罗斯的自然环境

读"俄罗斯略图"(图7-4-1),回答2、3题。

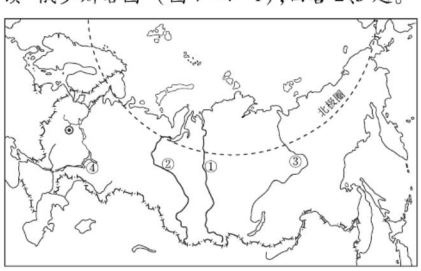

图7-4-1

2. 俄罗斯的大部分国土和大部分人口分别分布在(　　)

A. 亚洲、亚洲　　B. 亚洲、欧洲

C. 欧洲、亚洲　　D. 欧洲、欧洲

3. 俄罗斯的"母亲河"——伏尔加河在图中的代号是(　　)

A. ①　　B. ②　　C. ③　　D. ④

4. 图7-4-2中①②③④代表的地形类型分别是(　　)

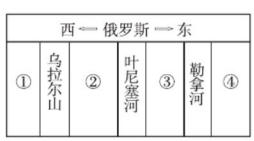

图7-4-2

A. 平原、山地、平原、高原

B. 平原、平原、高原、山地

C. 山地、高原、平原、平原

D. 高原、平原、平原、山地

5. 俄罗斯的主要气候类型为(　　)

A. 温带大陆性气候　　B. 温带季风气候

C. 高原山地气候　　D. 寒带气候

6. 下列关于俄罗斯的叙述,正确的是(　　)

A. 地形以叶尼塞河为界,西部是平原,东部是高原和山地

B. 领土大部分位于北寒带

C. 气候以温带大陆性气候为主,沙漠面积广大

D. 河流多自西向东流入太平洋

关注微信公众号"教辅资料站"获取更多学习资料

培优精练 ☞(答案见94页)

1. 下列关于俄罗斯的叙述,错误的是(　　)
A. 是世界上面积最大的国家
B. 地势西高东低
C. 地跨东、西半球
D. 是一个地跨两洲的国家

读俄罗斯简图(图7-4-3),完成2、3题。

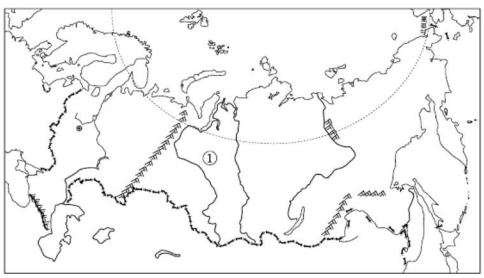

图7-4-3

2. 图中①地的主要地形区为(　　)
A. 西欧平原　　B. 中西伯利亚高原
C. 西西伯利亚平原　　D. 东欧平原

3. 俄罗斯东部有许多河流,但航运价值不高,最主要的原因是(　　)
A. 运费高　　B. 结冰期长
C. 流量小　　D. 流程短

读图7-4-4,完成4、5题。

4. 索契东面有世界最大的湖泊是(　　)
A. 黑海
B. 里海
C. 死海
D. 贝加尔湖



图7-4-4

5. 有关俄罗斯的说法,正确的是(　　)
A. 是唯一地跨亚、欧两大洲和东、西两半球的国家
B. 地势西高东低,地形以平原和丘陵为主
C. 人口集中在亚洲部分
D. 首都莫斯科位于西西伯利亚平原上

6. 下列关于俄罗斯大部分地区气候特点的叙述,正确的是(　　)
A. 冬季寒冷而漫长,夏季温暖而短促
B. 冬季寒冷干燥,夏季高温多雨
C. 冬季温和多雨,夏季炎热干燥
D. 终年温和湿润

7. 制约俄罗斯农业发展的主要因素是(　　)
A. 水资源短缺　　B. 热量不足
C. 地形崎岖　　D. 机械化水平低

8. 俄罗斯气候条件最好的地形区是(　　)
A. 东欧平原　　B. 西西伯利亚平原
C. 中西伯利亚高原　　D. 东西伯利亚山地

9. 在俄罗斯的国徽上,最醒目的是双头鹰,它一头望着西方,另一头望着东方,象征着两块大陆间的统一以及各民族的联合。图7-4-5甲为"俄罗斯简图",图乙为"俄罗斯国徽"。根据所学知识,回答下列问题。

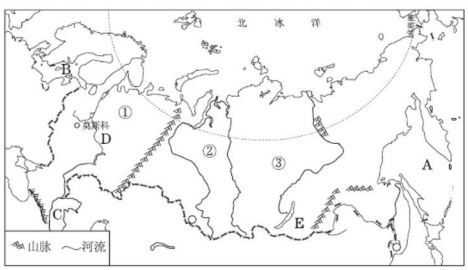

甲



乙

图7-4-5

(1)俄罗斯国土东濒A _____洋、西临B _____海,是世界上东西距离最_____、跨经度最_____的国家。

(2)国徽上的双头鹰,一头望着西方,"西方"指_____洲,一头望着东方,"东方"指_____洲。

(3)填出图中数码所代表的地形区名称。
①_____,②_____,
③_____。

(4)俄罗斯河流众多,图中D河流名称是_____河,该河自_____向_____流,注入C _____。

(5)字母E是_____,它是世界上最_____的湖泊,也是世界上_____最多的湖泊。

关注微信公众号"教辅资料站"获取更多学习资料

第2课时 自然资源丰富,重工业发达 发达的交通

点要点·拨疑难

核心笔记

1. 自然资源丰富,重工业发达

(1)自然资源:丰富,种类齐全。主要矿产地有库尔斯克铁矿、库兹巴斯煤田、秋明油田等。

(2)工业特点:重工业发达,轻工业落后。

(3)四大工业区:圣彼得堡工业区、以莫斯科为中心的工业区、乌拉尔工业区、新西伯利亚工业区。

(4)经济发展方向:高新技术领域。

2. 发达的交通和城市

(1)铁路、公路、航空、内河与海洋航运和管道运输均很发达。

(2)客运主要以铁路和公路运输为主,货运主要以铁路和管道运输为主,管道主要运输石油和天然气。

(3)俄罗斯欧洲部分铁路非常密集,亚洲部分铁路比较稀疏。西伯利亚大铁路被称为"亚欧大陆桥"。

(4)主要城市:莫斯科(首都)、圣彼得堡(第二大城市)、符拉迪沃斯托克(海参崴)、摩尔曼斯克。

释疑解惑

俄罗斯主要工业区的特点和分布

工业区	中心城市	工业部门	有利条件
以莫斯科为中心的工业区	莫斯科	钢铁、汽车、飞机、火箭、电子等	靠近库尔斯克铁矿,资源丰富
圣彼得堡工业区	圣彼得堡	造船、航空航天、石油化工、电子、造纸、食品、纺织等	临波罗的海,交通便利
乌拉尔工业区	叶卡捷琳堡	石油、钢铁、机械等	矿产资源丰富
新西伯利亚工业区	新西伯利亚	煤炭、石油、天然气、电力、钢铁等	靠近库兹巴斯煤矿

易误警示

俄罗斯重工业发达,但轻工业落后

由于俄罗斯纬度位置高,冬季寒冷而漫长,夏季温暖而短促,导致农业生产薄弱,轻工业原料不足,与人们生活密切相关的消费品制造业,发展相对滞后。

基础全练 ☞(答案见94页)

知识点一 自然资源丰富,重工业发达

1. 俄罗斯自然资源丰富,下列关于俄罗斯矿产资源与地区分布的组合,正确的是(　　)

A. 石油——秋明

B. 铁矿——库兹巴斯

C. 煤矿——库尔斯克

D. 有色金属——莫斯科

2. 图7-4-6是俄罗斯东西两大经济地区的基本资源指标示意图,判断下列说法正确的是(　　)

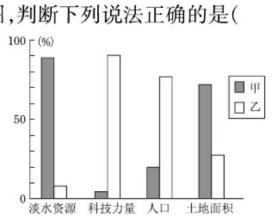

图7-4-6

A. 甲地区淡水资源丰富,内河航运发达

B. 俄罗斯的人口主要集中在乙地区,是因为乙地区土地资源比甲地区丰富

C. 俄罗斯今后工业的发展方向应该向乙地区发展

D. 图例中甲代表的是东部地区,乙代表的是西部地区

3. (中考·湘潭)俄罗斯在世界上占重要地位的工业部门是(　　)

A. 核工业、航空航天工业　　B. 家用电器

C. 食品工业　　D. 纺织工业

4. 俄罗斯四大工业区中,完全在亚洲部分的工业区是(　　)

A. 乌拉尔工业区

B. 以莫斯科为中心的工业区

C. 圣彼得堡工业区

D. 新西伯利亚工业区

5. 在俄罗斯四大工业区中,以生产石油、钢铁、机械产品为主的是(　　)

A. 圣彼得堡工业区

B. 以莫斯科为中心的工业区

C. 乌拉尔工业区

D. 新西伯利亚工业区

知识点二 交通与城市

6. 关于莫斯科的叙述,正确的是(　　)

A. 是俄罗斯最大的城市和港口,也是国家首都

B. 位于东欧平原的北部

C. 有著名的红场和白金汉宫

D. 是俄罗斯的政治、文化、交通中心

关注微信公众号"教辅资料站"获取更多学习资料

培优精练 (答案见95页)

1. 下列俄罗斯的工业部门中，发展相对滞后的是(　　)

A. 钢铁工业　　B. 宇航工业

C. 核工业　　D. 消费品制造业

2. 读俄罗斯地形图和俄罗斯工业分布图(图7-4-7)，判断下列叙述正确的是(　　)

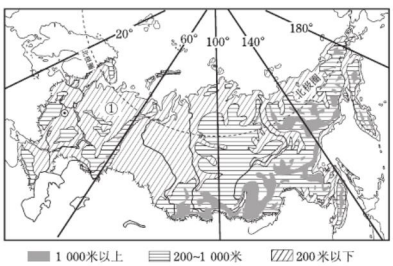

俄罗斯地形图

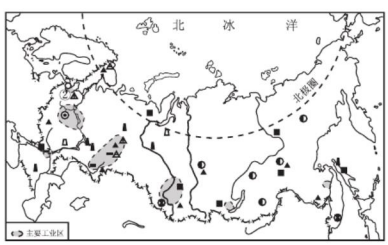

俄罗斯工业分布图

图7-4-7

A. 俄罗斯是世界上陆地面积最大的国家，也是世界上唯一地跨两大洲的国家

B. 俄罗斯地势东高西低，以叶尼塞河为界，西部地区以平原为主，①是西西伯利亚平原

C. 俄罗斯自然资源丰富，资源总储量的80%分布在乌拉尔山脉以东地区

D. ②是圣彼得堡工业区，圣彼得堡是黑海沿岸的重要海港

3. 有关俄罗斯地理特征的叙述，不正确的是(　　)

A. 俄罗斯森林资源丰富，拥有世界上面积最大的针叶林区

B. 俄罗斯地处中、高纬度地区，以温带大陆性气候为主

C. 俄罗斯的人口和城市主要集中在欧洲部分

D. 俄罗斯交通运输发达，尤其水运最为突出，其次是铁路和公路

读俄罗斯简图，完成4、5题。



图7-4-8

4. 图中文字标注的地理事物名称，正确的是(　　)

A. 甲——里海　　B. 乙——大高加索山

C. 丙——叶尼塞河　　D. 丁——贝加尔湖

5. 下列关于俄罗斯的叙述，正确的是(　　)

A. 首都是圣彼得堡　　B. 资源丰富，重工业发达

C. 运输以内河航运为主　　D. 东部是世界人口稠密区

6. 关于俄罗斯港口和城市的叙述，正确的是(　　)

A. 符拉迪沃斯托克是北冰洋沿岸的终年不冻港

B. 圣彼得堡是全国最大的港口和第三大城市

C. 首都莫斯科是全国最大城市和工业中心

D. 摩尔曼斯克是太平洋沿岸的重要港口，冬季结冰

7. 近年来，中国加强与俄罗斯之间的经贸互补合作。读图7-4-9，回答问题。

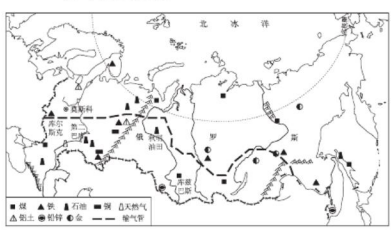

图7-4-9

(1)俄罗斯地跨欧洲和_____洲，面积居世界第_____位，穿过俄罗斯北部的特殊纬线是_____。

(2)俄罗斯被称为“世界加油站”，位于乌拉尔山脉以东的著名油田是_____油田。俄罗斯石油、天然气主要以_____运输方式输送至我国。

(3)俄罗斯资源丰富，_____(填“轻”或“重”)工业发达。在俄罗斯市场备受青睐的中国商品主要有_____等。(任写一种)

(4)从自然条件方面分析，在西伯利亚地区修建输气工程需要克服的困难有_____。

关注微信公众号“教辅资料站”获取更多学习资料

第七章 强化 巩固复习

知识结构·理脉络

- 我们邻近的地区和国家
  - 日本
    - 多火山、地震的岛国
    - 与世界联系密切的工业
      - 发展经济的条件
      - 工业的分布及成因
      - 工业发展面临的问题
    - 东西方兼容的文化
  - 东南亚
    - “十字路口”的位置：重要海上通道——马六甲海峡
    - 热带气候与农业生产
      - 气候：主要是热带雨林气候和热带季风气候
      - 热带经济作物基地：天然橡胶、油棕、椰子、蕉麻
    - 山河相间与城市分布
      - 地形：山河相间，纵列分布
      - 城市的分布：主要分布在河流沿岸及河口三角洲
    - 热带旅游胜地
  - 印度
    - 世界第二人口大国：人口增长快，人口问题突出
    - 热带季风气候与粮食生产
    - 迅速发展的服务外包产业：被称为“世界办公室”
  - 俄罗斯
    - 横跨亚欧大陆北部
    - 自然资源丰富，重工业发达
      - 自然资源储量丰富，种类齐全
      - 主要的工业区及分布
      - 矿产资源的分布
    - 发达的交通：交通部门齐全，分布不平衡

核心必知·知考点

1. 日本

(1) 日本的自然地理环境

日本是个岛国，海岸线曲折，多优良港湾；国土南北狭长，加上地形多山地、丘陵，不利于长河的发育，因此日本的河流比较短促，蕴含着丰富的水能资源；日本四周濒临海洋，其气候深受海洋的影响，温带和亚热带季风气候具有明显的海洋性特点，主要表现为：与同纬度的亚欧大陆相比，冬季较温暖，夏季较凉爽。

(2) 日本的地震及防护措施

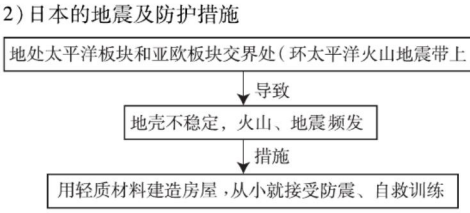

图 1

(3) 日本经济发展特点

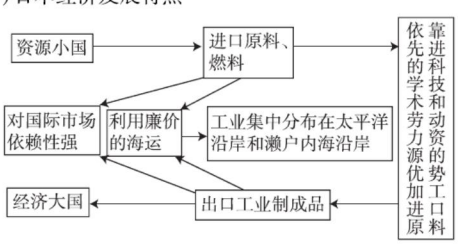

图 2

2. 东南亚

(1) “十字路口”的位置

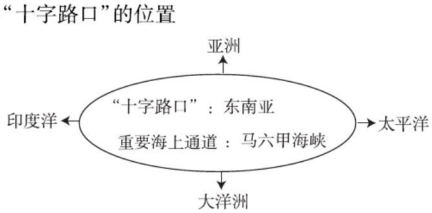

图 3

关注微信公众号“教辅资料站”获取更多学习资料

(2)东南亚的气候对农业生产的影响

①东南亚绝大部分位于热带,中南半岛地区为热带季风气候,一年中有旱季和雨季之分,农作物一般在雨季播种,旱季收获。

②马来群岛的大部分地区属于热带雨林气候,气候具有终年高温多雨的特征,农作物随时播种,四季都有收获。

(3)中南半岛的河流对城市分布的影响

城市名称	附近大河名称	所在国家名称
河内	红河	越南
金边	湄公河	柬埔寨
万象	湄公河	老挝
曼谷	湄南河	泰国
仰光	伊洛瓦底江	缅甸

3. 印度

(1)印度的地理位置

纬度位置	大部分位于北纬10°至北纬30°之间
海陆位置	位于印度半岛,喜马拉雅山脉以南至印度洋,西临阿拉伯海,东临孟加拉湾
半球位置	东半球、北半球

(2)印度的人口问题及对策

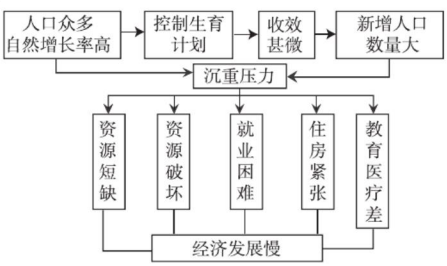

图4

(3)热带季风气候与粮食生产

热带季风气候:它分为旱、雨两季。每年10月到次年5月盛行东北季风,东北季风从陆地吹向海洋,气流干燥,降水稀少,为印度的旱季。每年6月到9月盛行西南季风,西南季风从印度洋上带来大量的水汽,降水丰沛,为印度的雨季。西南季风很不稳定,使印度的粮食生产很不稳定。

(4)服务外包产业

优势:人力资源丰富、劳动力成本较低、英语普及、信息技术发展较早等。

4. 俄罗斯

(1)地形:西部以平原为主,东部多高原、山地。乌拉尔山以西为东欧平原,以东依次为西西伯利亚平原、中西伯利亚高原和东西伯利亚山地。自西向东明显分为四大地形区。

(2)气候:以温带大陆性气候为主。

(3)经济:工业基础雄厚,部门比较齐全,重工业发达,有圣彼得堡工业区、以莫斯科为中心的工业区、乌拉尔工业区、新西伯利亚工业区。但是,与人们生活密切相关的消费品制造业,发展相对滞后。

(4)交通运输

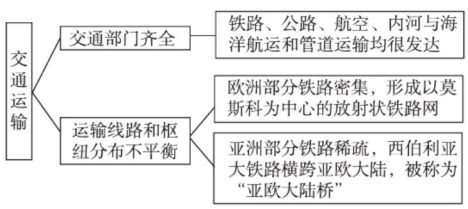

图5

好题必练·练真题 (答案见95页)

1.(**中考·贵港**)读"日本略图",对日本的叙述不正确的是(　　)

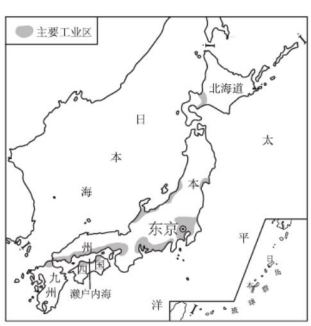

图6

A. 南北狭长,地域狭小

B. 领土由四大岛屿及其附近多个小岛组成

C. 海岸线漫长曲折,多优良港湾

D. 工业区主要分布在北海道岛

2.(**中考·德州**)下列有关日本因地制宜发展经济的叙述正确的是(　　)

A. 进口原料,出口工业制成品,工业主要分布在日本海沿岸

B. 平原狭小,人多地少,农业生产使用小型机械,单产低

C. 气候具有海洋性,使得温泉广布,是重要的旅游资源

D. 经济实现了从"商品输出为主"转型为"资本输出为主"

关注微信公众号"教辅资料站"获取更多学习资料

(中考·青岛)读中南半岛图,完成3、4题。

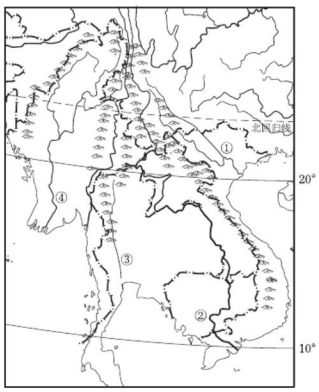

图7

3. 据图判断,该区域的地势特征是(　　)
A. 中部高四周低
B. 地势平坦
C. 北部高南部低
D. 东北高西南低

4. 图中序号表示的河流中,流经国家最多的是(　　)
A. ①　　B. ②　　C. ③　　D. ④

5. (中考·娄底)在飞机起飞和降落时,逆风飞行最安全。据此判断孟买修建飞机场起降跑道一般为(　　)
A. 东北—西南走向　　B. 南—北走向
C. 西北—东南走向　　D. 东—西走向

6. (中考·聊城)俄罗斯是世界上唯一地跨亚欧两大洲和东、西两半球的国家。读该国轮廓示意图,判断下列叙述正确的是(　　)



图8

A. 东、北、西三面分别濒临太平洋、北冰洋和大西洋
B. 地势南高北低,地形以高原、山地为主
C. 城市主要集中在P山脉以西的平原地区
D. R河是东西伯利亚山地和西西伯利亚平原的分界线

(中考·青岛)读俄罗斯主要交通运输方式及其运输周转量图(图9),完成7、8题。

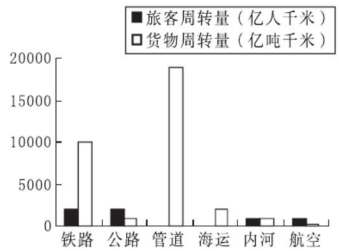

图9

7. 据图推断俄罗斯货物运输的主要方式是(　　)
A. 航空、铁路　　B. 公路、海运
C. 管道、铁路　　D. 铁路、公路

8. 俄罗斯内河航运不发达的主要原因是(　　)
①河流含沙量大
②纬度高,河流结冰期长
③河流南北流向对东西向运输没有大的帮助
④河流流速快
A. ①②　　B. ②③　　C. ③④　　D. ①④

9. (中考·淄博)读图10、图11,完成下列问题。

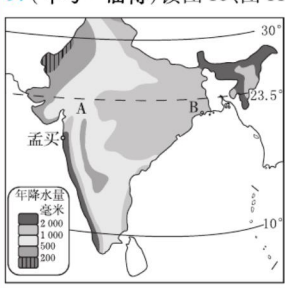

图10

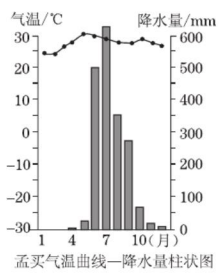

孟买气温曲线—降水量柱状图

图11

(1)据图10,描述图示国家的纬度位置。

(2)据图11判断,该地的气候类型是_____,气候特征是_____。

(3)该国家水旱灾害频发,原因是_____季风异常变化,请在图10中用箭头表示该风向。

(4)图10中A、B两地所在地区,年降水量超过1 000毫米的是_____地(填字母),该地更适合种植_____(粮食作物)。

(5)该国家最突出的人口问题是_____,由此对环境和社会经济发展带来哪些不利影响?

关注微信公众号"教辅资料站"获取更多学习资料

填图学地理 ☞(答案见95页)

1. 读下面两图，完成下列问题。

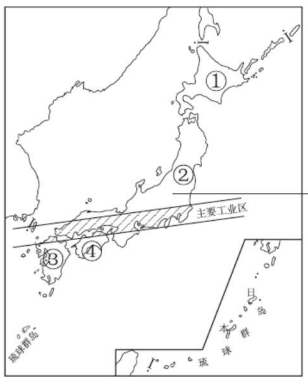

甲

该国由①_____、②_____、③_____、④_____四个大岛及其附近的一些小岛组成。该国海岸线_____，多_____。

该国横跨_____大陆的北部，西濒⑤_____海，东临⑥_____洋，北靠⑦_____洋。

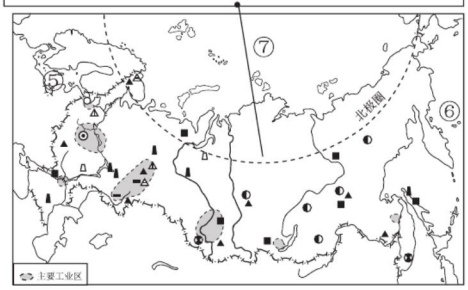

乙

(1)根据提示，把图中内容补充完整。

(2)两国工业分布不平衡，甲国工业集中分布在_____地区，形成这种分布的原因是_____；乙国工业主要分布在_____部分。

2. 读图，根据提示，把图中内容补充完整。

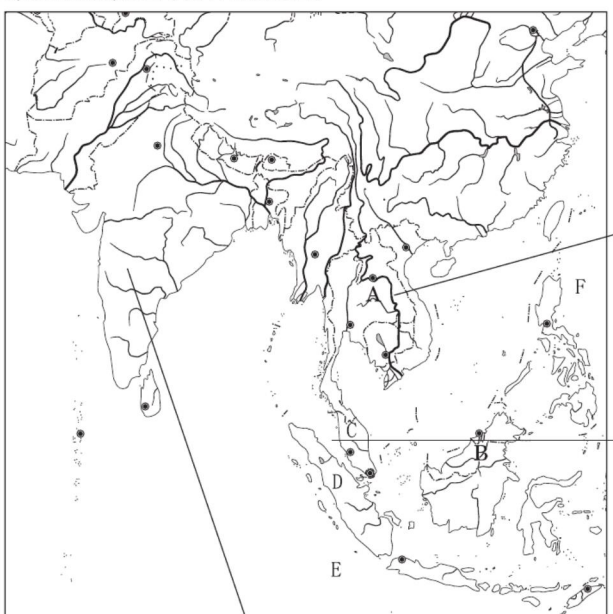

本地区位于亚洲_____部，包括A_____半岛和B_____群岛两大部分。本地区还是世界上_____、_____、_____、_____的最大产地。

该海峡位于C_____半岛和D_____岛之间，是连接E_____洋与F_____洋的重要海上通道。

该国绝大部分地区处于_____带和_____带，以_____气候为主。_____和_____是该国的主要粮食作物。

温馨提示

为了加强对地图的认知，呈现更好的视觉效果，在图上填写时可以用不同颜色的笔哦！

关注微信公众号“教辅资料站”获取更多学习资料

第八章 东半球其他的地区和国家

第一节 中东

第1课时 “三洲五海之地”

点要点·拨疑难

核心笔记

1. 中东的位置和范围

(1)位置:中东位于亚洲西南部和非洲东北部。中东地处亚、非、欧三洲交界地带,连接了里海、黑海、地中海、红海、阿拉伯海,沟通了大西洋和印度洋,自古以来是东西方交通枢纽,战略位置极为重要。

(2)范围:包括除阿富汗以外的西亚各国和非洲的埃及。

2. 中东重要的海峡和运河

(1)土耳其海峡:亚、欧两洲分界线,是黑海出入地中海的门户。

(2)霍尔木兹海峡:波斯湾石油向外运输的重要通道。

(3)苏伊士运河:亚、非两洲分界线,沟通了红海和地中海,连接了印度洋和大西洋,缩短了欧洲和亚洲之间的航程,使中东地区成为东西方交通要道。

3. 中东的地形:以高原为主,平原面积较小。主要地形区有伊朗高原、阿拉伯高原、美索不达米亚平原(两河平原)等。

释疑解惑

借助地图用“一二三四五”概括中东的地理位置

“一”是指一条运河——A 苏伊士运河;

“二”是指两个大洋——印度洋和大西洋;

“三”是指三大洲——C 亚洲、B 非洲和 D 欧洲;

“四”是指四条海峡——G 霍尔木兹海峡、直布罗陀海峡、E 土耳其海峡和曼德海峡;

“五”是指五海——F 地中海、M 红海、N 黑海、L 里海(内陆湖)和 H 阿拉伯海。

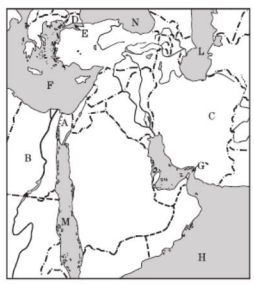

图 8-1-1

易误警示

1. 误认为死海、里海是海洋,实际它们都是湖泊。

2. 中东与西亚的范围易混淆

中东位于亚洲西南部和非洲东北部,包括西亚的大部分和非洲的埃及。中东的范围与西亚相比在于多了一个埃及,少了一个阿富汗。

基础全练 (答案见 95 页)

知识点一 中东的位置和范围

1. 中东地处“三洲五海之地”,五海之中有一个“海”实为湖泊,它是(　　)

A. 黑海　　B. 阿拉伯海　　C. 红海　　D. 里海

2. 易错题 中东是以欧洲为中心划分的地理区域。17 世纪欧洲国家向东扩张时,按距离的远近,将部分东方国家分为近东、中东和远东。下列不属于中东地区的是(　　)

A. 伊拉克　　B. 伊朗

C. 沙特阿拉伯　　D. 阿富汗

3. 中东是指亚洲西南部和非洲东北部的地区。下列中东国家中,属于非洲的是(　　)

A. 土耳其　　B. 埃及

C. 沙特阿拉伯　　D. 约旦

4. 中东地区面积最大的国家是(　　)

A. 沙特阿拉伯　　B. 伊朗

C. 埃及　　D. 土耳其

5. 下列关于中东的说法,正确的是(　　)

A. 中东联系亚、欧、北美三大洲

B. 中东沟通了太平洋和大西洋

C. “三洲五海之地”中的“五海”是指里海、黑海、地中海、红海、波斯湾

D. 土耳其和埃及都是地跨两大洲的国家

知识点二 中东重要的海峡和运河

读图 8-1-2,回答 6、7 题。



图 8-1-2

6. 图中 P 处是中东地区著名的交通要道(　　)

A. 土耳其海峡

B. 霍尔木兹海峡

C. 苏伊士运河

D. 马六甲海峡

7. 该水道沟通了下列哪些海域(　　)

A. 阿拉伯海、红海　　B. 红海、地中海

C. 黑海、地中海　　D. 地中海、里海

关注微信公众号“教辅资料站”获取更多学习资料

培优精练 ☞(答案见96页)

1. 关于中东范围的叙述,正确的是(　　)
A. 阿富汗不属于中东
B. 中东包括西亚和北非
C. 除埃及外,北非的国家都属于中东
D. 中东是以亚洲为中心划分的地理区域

2. 波斯湾进入阿拉伯海的重要水道是(　　)
A. 英吉利海峡　　B. 马六甲海峡
C. 霍尔木兹海峡　　D. 巴拿马运河

读图8-1-3,回答3、4题。

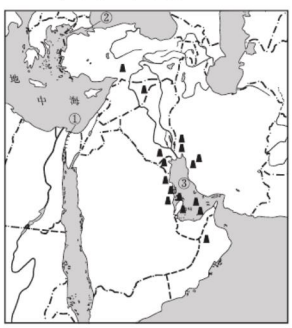

图8-1-3

3. 图中①和②既是大洲的分界线,又是战略交通要道,它们是(　　)
A. ①苏伊士运河、②土耳其海峡
B. ①巴拿马运河、②白令海峡
C. ①苏伊士运河、②直布罗陀海峡
D. ①巴拿马运河、②土耳其海峡

4. 图中③沿岸石油资源丰富,它是(　　)
A. 里海　　B. 红海　　C. 波斯湾　　D. 阿拉伯海

读图8-1-4,回答5、6题。

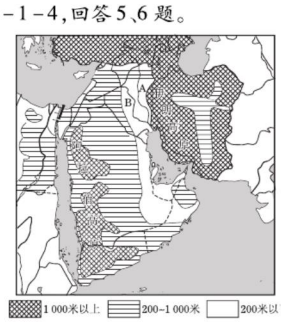

中东地形图

图8-1-4

5. 中东地形以(　　)
A. 高原为主　　B. 平原为主
C. 盆地为主　　D. 丘陵为主

6. 图中A、B两河所在的平原是(　　)
A. 美索不达米亚平原　　B. 东欧平原
C. 西西伯利亚平原　　D. 华北平原

读图8-1-5,回答7~9题。



图8-1-5

7. 图中数字与对应的国家搭配正确的一组是(　　)
A. ①——叙利亚　　B. ②——埃及
C. ③——沙特阿拉伯　　D. ④——伊朗

8. 图中数字所代表的国家中不属于中东的是(　　)
A. ①　　B. ②　　C. ③　　D. ④

9. 图中数字所代表的国家中地跨两大洲的是(　　)
A. ①②　　B. ②④　　C. ③④　　D. ②③

10. 读图8-1-6,回答下列问题。

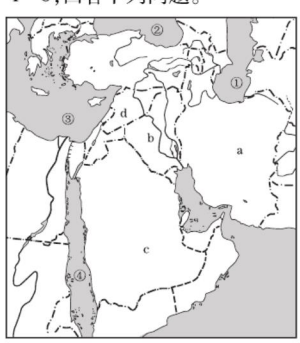

图8-1-6

(1)图中a~d四国中,面积最大的是_____,位于两河流域的是_____,位于里海沿岸的是_____,位于地中海沿岸的是_____。(填代号)

(2)将图中数字与对应的水域连线。

①	黑海
②	红海
③	里海
④	地中海

关注微信公众号“教辅资料站”获取更多学习资料

第2课时 世界石油宝库 匮乏的水资源 多元的文化

点要点·拨疑难

核心笔记

1. 世界石油宝库

(1)地位:中东是目前世界上石油储量最大、生产石油最多的地区。

(2)分布:波斯湾及其沿岸地区。

(3)主要产油国:沙特阿拉伯、伊朗、伊拉克、科威特、阿拉伯联合酋长国等。

(4)石油输出及路线:

波斯湾 → 霍尔木兹海峡 → 阿拉伯海 → 向东 → 印度洋→马六甲海峡→太平洋→东亚
阿拉伯海 → 向西 → ①红海→苏伊士运河→地中海→直布罗陀海峡→大西洋→欧洲西部、北美洲
阿拉伯海 → 向西 → ②印度洋→好望角→大西洋→欧洲西部、北美洲

2. 匮乏的水资源

(1)原因:中东气候干燥,河流稀少,还有大面积没有河流的沙漠地区。

(2)影响:水资源匮乏严重影响中东人民的生活和生产。随着人口增长、经济发展,水资源的分配不均加剧了本区各国的矛盾与冲突。

3. 多元的文化

(1)宗教:中东是伊斯兰教、基督教和犹太教的发源地。

(2)文化:目前,中东大多数居民信奉伊斯兰教。耶路撒冷是伊斯兰教、基督教和犹太教的圣城。

释疑解惑

中东成为世界热点地区的原因

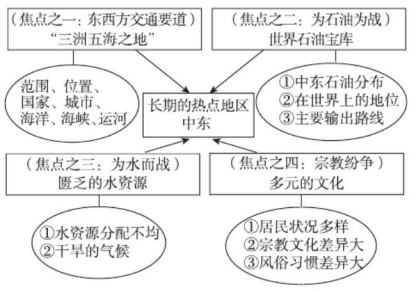

图8-1-7

易误警示

在中东地区,水资源比石油资源更宝贵

中东地区河流稀少,一河多国共用的现象普遍,各国为争夺用水权经常引发冲突。而中东地区的石油资源非常丰富,储量、产量和输出量都是世界上最多的,所以在中东地区"水比油贵"。

基础全练 (答案见96页)

知识点一 世界石油宝库

(中考·安溪)读图8-1-8,回答1~3题。

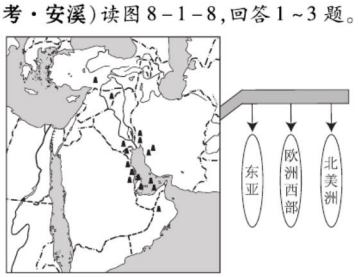

图8-1-8

1. 中东具有世界意义的自然资源是(　　)
A. 铁矿石　B. 煤炭　C. 石油　D. 锡矿石

2. 下列关于中东的说法,错误的是(　　)
A. 中东地区大多数居民属于白色人种
B. 中东处在联系亚、欧、非三大洲,沟通大西洋和印度洋的枢纽位置
C. 中东地区水资源丰富,气候湿润
D. 中东地区连年战事不断,一直是世界关注的热点地区

3. 下列关于中东该自然资源主要输往的国家和地区,错误的是(　　)
A. 欧洲西部　B. 美国　C. 中国和日本　D. 俄罗斯

4. 中东主要的石油生产国有(　　)
A. 土耳其、伊朗、伊拉克
B. 沙特阿拉伯、以色列、埃及
C. 沙特阿拉伯、科威特、伊拉克
D. 伊拉克、叙利亚、约旦

知识点二 匮乏的水资源和多元的文化

5. 电视新闻中常见中东地区的国家领导人,他们往往身着白色长袍,头上围着头巾。这种传统服饰的作用主要是(　　)
A. 防寒保暖　B. 遮风挡雨
C. 遮阳挡风　D. 抵挡风雪

6. 下列解决中东水资源短缺的措施,不正确的是(　　)
A. 用滴灌等技术发展节水农业
B. 通过海水淡化方式增加水资源供给
C. 种植业选择耐旱作物
D. 修建大型水库,雨季蓄水

关注微信公众号"教辅资料站"获取更多学习资料

培优精练 ☞(答案见96页)

读世界局部地区略图(图8-1-9),回答1、2题。

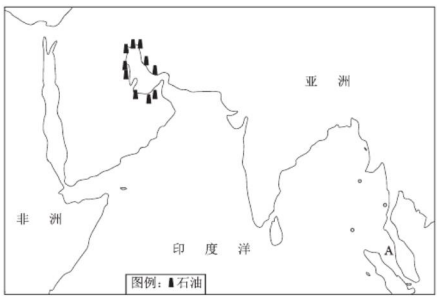

图8-1-9

1. 图中的石油主要分布的地区是(　　)
A. 红海沿岸　　B. 地中海沿岸
C. 里海沿岸　　D. 波斯湾沿岸

2. 我国从图中石油集中分布区进口原油,最近的海上运输路线必须经过的A海峡是(　　)
A. 曼德海峡　　B. 马六甲海峡
C. 英吉利海峡　　D. 直布罗陀海峡

3. 图8-1-10是中东石油运输路线图,对其外运航线的描述正确的是(　　)

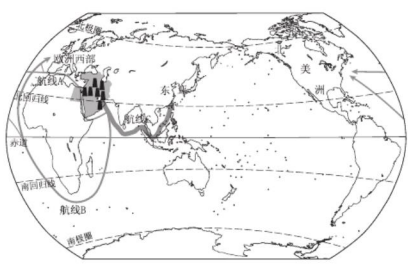

图8-1-10

A. 航线C经马六甲海峡是输往欧洲西部、北美洲的最近通道
B. 航线B经好望角输往欧洲西部、北美洲
C. 航线C经苏伊士运河,到达东亚
D. 航线A经土耳其海峡输往欧洲西部、北美洲

4. 易错题 "水贵于油"是中东地区的真实写照,请你判断下列各项"水贵"的原因,正确的是(　　)
A. 水利部门为赚钱而抬高水价
B. 当地政府为了保护水资源制定的节水措施
C. 中东地区气候干燥,河流稀少,水资源匮乏
D. 这里的水含有多种矿物质,水质好

5. (中考·北碚)中东地区是世界上冲突不断的热点地区,产生冲突的原因是(　　)
①地理位置重要　②石油资源丰富　③淡水资源匮乏　④民族宗教矛盾尖锐　⑤国家众多
A. ①②　　B. ②③④
C. ①②③④　　D. ①②③④⑤

6. 小明的爸爸是一名在中东工作的外交官,下列景象他在中东地区难以看到的是(　　)
A. 沙漠广布,矿井井架林立,骑骆驼
B. 手捧《圣经》去清真寺做礼拜
C. 挂美国、日本国旗的油轮进出港口
D. 人们常把床铺安放在屋顶上

7. 居住在西亚的阿拉伯男子,传统打扮是戴头巾、身穿宽大的白色长袍、牵骆驼出行。他们这样装扮出行与下列哪一因素有关(　　)
A. 美观休闲能保暖　　B. 地形崎岖易行走
C. 炎热干燥多风沙　　D. 狩猎探险真方便

8. 读中东地区图(图8-1-11),回答下列问题。

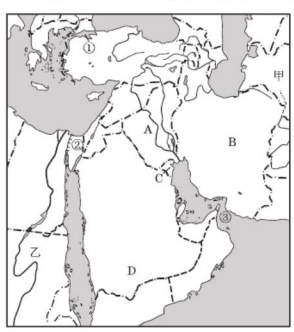

图8-1-11

(1)大洲:甲_____,乙_____。
(2)海峡、运河:①_____,②_____,③_____。
(3)主要产油国:A_____,B_____,C_____,D_____。
(4)本区的能源资源是_____,该资源主要分布在_____及其沿岸地区,该区域的气候特点是_____,所以_____资源是当地生活和发展生产的限制性因素。
(5)本区的人种主要是_____人种,大多数居民信仰_____教。

关注微信公众号"教辅资料站"获取更多学习资料

第二节 欧洲西部

第 1 课时 工业密集，发达国家集中

点要点·拨疑难

核心笔记

1. 欧洲西部的位置和范围

(1)位置：大部分位于 35°N～70°N 之间，绝大部分属于北温带；位于亚欧大陆西部，西临大西洋，北临北冰洋，南临地中海。

(2)范围：位于欧洲西半部，亚欧大陆的西部，面积约 500 万平方千米，占欧洲的一半左右。

2. 工业密集，经济发达

(1)国家：欧洲西部人口稠密，国家众多，大部分属于发达国家，是世界上发达国家最集中的地区。

(2)工业：欧洲西部是工业革命的发源地，目前也是世界上工业发达的地区之一。本区工业工艺精，技术水平和生产效率高，在世界工业生产中处于技术和价值的高端位置；工业中心多，是世界上著名的工业密集地带。

(3)农业：农业在国民经济中所占比重较小，但生产水平高，多用机械，自动化程度高，耗用劳动力少。

(4)服务业：服务业体系完善，服务质量优，产值大，是国民经济的支柱。

释疑解惑

认识欧洲西部的部分国家及其首都

国家	英国	法国	挪威	瑞士
首都	伦敦	巴黎	奥斯陆	伯尔尼
国家	德国	西班牙	意大利	希腊
首都	柏林	马德里	罗马	雅典

易误警示

欧洲西部和西欧范围不同，欧洲西部指的是原苏联以外的欧洲部分，包括北欧、西欧、中欧与南欧四个部分，所以欧洲西部的范围比西欧大。

基础全练 ☞（答案见 96 页）

知识点一 欧洲西部的位置和范围

1. 下列关于欧洲西部的叙述，错误的是（　　）
A. 欧洲西部的面积占欧洲的一半左右
B. 欧洲西部人口稠密，是世界四大人口稠密地区之一
C. 欧洲西部国家众多
D. 欧洲西部北临北冰洋，南临印度洋

2. 从纬度位置看，欧洲西部大部分地区位于（　　）
A. 北温带　　B. 北寒带
C. 热带　　D. 亚热带

读图 8－2－1，回答 3～5 题。

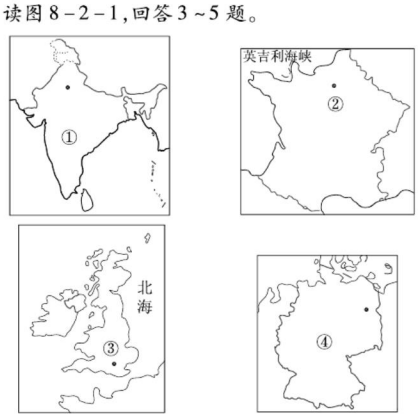

图 8－2－1

3. 图中数字所示国家中不位于欧洲西部的是（　　）
A. ①　　B. ②　　C. ③　　D. ④

4. 图中数字②表示国家的首都是（　　）
A. 马德里　　B. 罗马
C. 赫尔辛基　　D. 巴黎

5. 图中数字表示德国的是（　　）
A. ①　　B. ②　　C. ③　　D. ④

知识点二 欧洲西部发达的经济

6. 有关欧洲西部工业的叙述，不正确的是（　　）
A. 欧洲西部是工业革命的发源地
B. 本区工业以纺织业为主
C. 从事制造业的人口比例很高
D. 本区的制造业是把低价进口的原料加工成产品出口，从中得到很高的利润

7. 下列关于欧洲西部农业特点的叙述，错误的是（　　）
A. 生产水平高
B. 在国民经济中所占比重较大
C. 多用机械，自动化程度高
D. 耗用劳动力少

8. 目前，欧洲西部国民经济的支柱产业是（　　）
A. 制造业　　B. 种植业
C. 畜牧业　　D. 服务业

关注微信公众号“教辅资料站”获取更多学习资料

培优精练 ☞(答案见96页)

1. 关于欧洲西部位置和范围的说法,不正确的是(　　)
A. 欧洲西部指欧洲的西半部
B. 欧洲西部占欧洲的一半左右
C. 欧洲西部北临北冰洋,西临大西洋
D. 欧洲西部就是西欧

读欧洲西部简图(图8-2-2),回答2、3题。



图8-2-2

2. 欧洲西部是世界上发达国家集中的地区,关于该地区产业的叙述,错误的是(　　)
A. 工业发达　　B. 旅游业收入高
C. 种植业比重小　　D. 畜牧业是支柱产业

3. 有关图中四个国家的说法,正确的是(　　)
A. 图中A国是法国
B. 图中B国是意大利
C. 图中C国首都是柏林
D. 图中D国首都是罗马

2019年3月21日至26日,国家主席习近平对意大利、摩纳哥、法国三大欧盟成员国进行国事访问,续写了中欧友好交流新篇章。观察图8-2-3,回答4、5题。

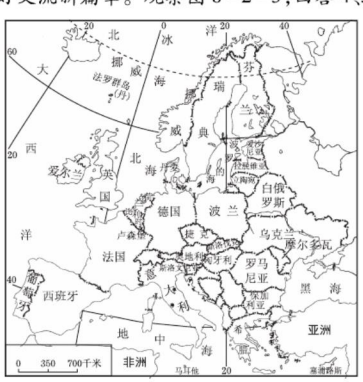

图8-2-3

4. 这三个国家的主要人种是(　　)
A. 黑种人为主　　B. 黄种人为主
C. 白种人为主　　D. 混血种人为主

5. 下列有关欧洲西部的说法正确的是(　　)
A. 欧洲西部地形以高原为主
B. 欧洲人主要信仰基督教
C. 欧洲西部气候以热带气候为主
D. 欧洲西部是发展中国家集中的地区

2019年8月,我国某省商务代表团赴欧洲西部参观,并举行了一系列商务活动,结合材料完成6~8题。

6. 下列商品最不可能出现在商务代表团的采购名单中的是(　　)
A. 高档成衣、精密机床、汽车
B. 煤炭、粮食、石油
C. 工程机械、医疗仪器
D. 精密仪表、高级手表

7. 代表团计划去参观有“钟表之都”的国家,应该去哪个国家(　　)
A. 英国　　B. 德国　　C. 瑞士　　D. 瑞典

8. 下列车标表示的汽车品牌出产自德国的是(　　)



A　　B　　C　　D

图8-2-4

9. 读欧洲西部图,回答下列问题。



图8-2-5

(1)写出图中数字所代表的海洋名称:
①_____,②_____,③_____。
(2)图中A国家是_____;B国家的首都是_____;C国家是_____。
(3)从经济发展水平来看,本区大部分国家属于_____国家,这些国家的分布特点是_____。

关注微信公众号“教辅资料站”获取更多学习资料

第2课时 现代化的畜牧业 繁荣的旅游业

点要点·拨疑难

核心笔记

1. 现代化的畜牧业

(1)地位:欧洲西部的畜牧业十分发达,人们称牧草为"绿色金子"。这里多数国家的农业以畜牧业为主,畜牧业产值占农业总产值的比重较高。

(2)特点:生产现代化。欧洲劳动力短缺,农业生产高度机械化、自动化。

(3)农畜产品:欧洲西部从事畜牧业的农民以饲养牛、羊等牲畜为主,同时种植谷类作物及牧草,主要生产肉类、鲜奶及奶制品、羊毛等畜产品。

(4)影响因素

①地形:欧洲西部地区地势平坦,面积广大,适合牧草的生长,有利于形成面积较大的草场。

②气候:欧洲西部温带海洋性气候广布,全年温和湿润,有利于多汁牧草的生长,大部分草场可常年放牧,适合发展畜牧业。

2. 繁荣的旅游业

(1)丰富的旅游资源

欧洲西部的自然条件多样,自然景观丰富多彩。南部地中海沿岸,夏季阳光明媚,海滨沙滩景色迷人。北部斯堪的纳维亚半岛,峡湾曲折幽深。中部阿尔卑斯山脉,雪峰高耸,是登山和滑雪的理想场所;欧洲西部各国历史文化特色鲜明,历史文化名城众多,历代名人辈出,现代文化事业发达,各地独特的风土人情,知名度高。

(2)社会经济条件:欧洲西部居民收入高,休息时间较多;交通发达,接待服务水平高、设施完善。

释疑解惑

欧洲西部地形对气候的影响

欧洲西部地形以平原为主,主要的平原有西欧平原和波德平原。山地主要分布在南部和北部半岛上,北部有斯堪的纳维亚山脉,南部有阿尔卑斯山脉。阿尔卑斯山脉呈东西走向,中部平原广阔,有利于大西洋暖湿气流深入内陆,形成范围广大的温带海洋性气候。

易误警示

欧洲西部受大西洋的影响,误认为本区都是温带海洋性气候

欧洲西部的气候类型多种多样。欧洲西部受大西洋的影响,温带海洋性气候广布。北极圈以内,为寒带气候;地中海沿岸为地中海气候;在大陆内部,远离海洋的地方,为温带大陆性气候;在阿尔卑斯山区形成高原山地气候。

基础全练 ☞(答案见97页)

知识点一 现代化的畜牧业

1. 欧洲西部畜牧业发达,被称为"绿色金子"的是(　　)

A. 森林　　B. 海洋

C. 牧草　　D. 金矿

2. 欧洲人以牛羊肉和乳产品为主要食物,这种饮食结构与这里哪种发达的产业有着密切的关系(　　)

A. 工业　　B. 服务业

C. 种植业　　D. 畜牧业

知识点二 欧洲西部的自然环境

3. 欧洲西部大西洋沿岸主要的气候类型是(　　)

A. 温带海洋性气候　　B. 温带大陆性气候

C. 温带季风气候　　D. 地中海气候

4. 欧洲西部地形自北向南大致分为三大地形区(　　)

A. 北部山地、中部平原、南部山地

B. 北部丘陵、中部高原、南部山地

C. 北部平原、中部山地、南部丘陵

D. 北部平原、中部山地、南部平原

知识点三 繁荣的旅游业

5. 欧洲西部自然景观丰富多彩,各国历史文化特色鲜明,由此形成了发达的(　　)

A. 畜牧业　　B. 制造业

C. 旅游业　　D. 高科技产业

6. 贝贝在欧洲西部旅游时拍摄了许多旅游景点图片(图8-2-6),他在网上发送给玲玲时,有张图片标注错了,请你帮忙找出来(　　)



法国白金汉宫

A



荷兰风车

B



意大利古斗兽场

C



挪威峡湾风光

D

图8-2-6

关注微信公众号"教辅资料站"获取更多学习资料

培优精练 ☞(答案见97页)

1. 欧洲人以乳产品和牛羊肉为主要食物,他们的餐桌上常见牛排、羊腿、奶油、奶酪等食品,这是因为(　　)
A. 欧洲西部工业发达,人们收入高,可以用钱大量购买乳畜产品
B. 欧洲西部气候寒冷,乳畜产品脂肪含量高,可以增加热量来御寒
C. 欧洲西部气候适宜,地形以平原为主,草场广布,畜牧业发达
D. 欧洲西部种植业不发达,粮食产量低,故用畜产品补充食物的不足

欧洲西部是指欧洲的西半部,是近代科学技术发展最早的地区。结合所学知识,完成2、3题。

2. 有关欧洲西部自然地理特征的叙述,正确的是(　　)
A. 北部深入北极圈以北
B. 地形多山地,平原只分布在南北两侧
C. 以地中海气候为主
D. 河流短小,水流湍急,航运价值低

3. 有关欧洲西部人文地理特征的叙述,正确的是(　　)
A. 经济发展水平居世界前列
B. 农业以种植业为主,畜牧业欠发达
C. 工业发达,但部门单一
D. 旅游业主要依赖自然旅游资源

(**中考·长沙**)4月15日巴黎圣母院突发火灾,木质屋顶被烧毁,石质主体建筑得以保存,回答4~6题。

4. 欧洲城市风貌典雅,建筑风格各异,下列位于法国的是(　　)
A. 伦敦塔桥　　B. 古罗马竞技场
C. 凡尔赛宫　　D. 克里姆林宫

5. 地处地中海沿岸的古希腊是欧洲文明发源地之一,雅典卫城建筑材料大多是就地取材的石料,从板块构造学说而言,该国地处(　　)
A. 亚欧板块与非洲板块交界地带
B. 美洲板块与太平洋板块交界地带
C. 太平洋板块与印度洋板块交界地带
D. 美洲板块与南极洲板块交界地带

6. 位于地中海地区的意大利古建筑材料大多为石质,有利于防火,该国气候(　　)
A. 终年温和多雨　　B. 夏季炎热干燥
C. 终年高温多雨　　D. 冬季严寒干燥

小米的爸爸最近在欧洲西部考察,他从网上给小米发来了一张在当地拍摄的照片,根据图8-2-7,回答7、8题。


图8-2-7

7. 小米的爸爸可能在下列哪个国家考察(　　)
A. 英国　　B. 意大利
C. 希腊　　D. 荷兰

8. 小米的爸爸发现该国海运业发达,出港口产品最可能是(　　)
A. 咖啡　　B. 棕油
C. 粮食　　D. 熏肉

9. 读欧洲西部地形图(图8-2-8),回答下列问题。

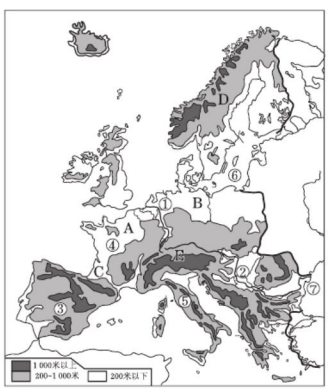

图8-2-8

(1)欧洲西部的地形以_____为主,地势低平。主要的地形区:A _____,B _____。

(2)欧洲西部南北多山,主要山脉:C _____,D _____,E _____。

(3)受气候的影响,欧洲西部河网稠密。主要的河流:①_____,注入_____海;②_____,注入⑦_____海。

(4)欧洲西部是世界上旅游业最发达的地区之一,其中③、④、⑤三国是欧洲三大著名旅游国,要观赏著名的斗牛表演,应该选择图中_____国家,要游览水城威尼斯,应选择图中_____国家。(均填代号)

(5)欧洲西部山地E的大致走向为_____走向,有利于_____气流深入内陆,使_____气候广布,有利于_____的生长,所以农业以_____为主。

关注微信公众号"教辅资料站"获取更多学习资料

第三节 撒哈拉以南非洲

点要点·拨疑难

核心笔记

1. 黑种人的故乡

(1)位置:位于撒哈拉沙漠以南,东临印度洋,西濒大西洋。

(2)地形:以高原为主,有"高原大陆"之称,地势东南高、西北低。主要地形区:东非高原、南非高原、埃塞俄比亚高原、刚果盆地。

(3)主要河流:尼罗河、刚果河。

(4)主要气候类型:热带草原气候分布最广,气候类型以赤道为中心,南北对称分布。

2. 快速发展的经济

(1)自然资源丰富:黄金和金刚石的储量和产量均居世界首位,是咖啡、椰枣和油棕的原产地。

(2)经济特点:由于历史上长期受殖民主义者占领和掠夺,出口初级农矿产品,进口工业制成品。

3. 人口、粮食与环境

(1)人口问题:非洲的人口自然增长率居各大洲首位,撒哈拉以南非洲的人口自然增长率更高。

(2)粮食问题:撒哈拉以南非洲的农牧业生产落后,农产品产量很低,粮食产量的增长速度远低于人口增长的速度。

(3)环境问题:人们砍伐森林,开垦草原,过度放牧,导致土地肥力下降和草原退化,加剧了水土流失和土地荒漠化,使生态环境恶化。

释疑解惑

撒哈拉以南非洲三大问题之间的联系及解决措施

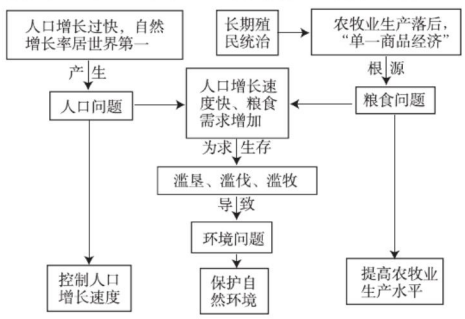

图 8-3-1

易误警示

热带草原气候与热带季风气候特征的区别

热带草原气候的特征是一年分明显的干、湿两季,年降水量一般小于1 000mm;热带季风气候的特征是一年分明显的旱、雨两季,年降水量在1 500mm左右,夏季降水更加集中。

基础全练 (答案见97页)

知识点一 非洲的人种和自然环境

图 8-3-2 为非洲示意图,据图回答1~3题。



图 8-3-2

1. 撒哈拉以南非洲,大多数居民属于(　　)

A. 黄种人　B. 白种人　C. 黑种人　D. 混血种人

2. 坦桑尼亚赛伦盖蒂国家公园是世界著名的天然野生动物园。在此动物园我们找不到的动物是(　　)

A. 狮子　B. 大象　C. 长颈鹿　D. 牦牛

3. 关于甲河流特点的叙述,正确的是(　　)

A. 水能资源丰富　B. 世界第一长河

C. 含沙量大　D. 结冰期长

知识点二 非洲的经济

4. 撒哈拉以南地区矿产资源丰富,下列矿产资源的储量和产量居世界首位的是(　　)

A. 黄金和金刚石　B. 黄金和铜

C. 石油和金刚石　D. 铝土和铀

5. 非洲经济落后的主要原因是(　　)

A. 自然条件恶劣

B. 民族内部不团结

C. 自然灾害频繁

D. 历史上长期受殖民统治

6. 撒哈拉以南非洲在对外贸易中一般是(　　)

A. 进口原料、半成品,出口工业制成品

B. 出口原料、半成品,进口工业制成品

C. 出口、进口均为原料、半成品

D. 出口、进口均为工业制成品

知识点三 非洲面临的问题

7. 目前,非洲面临最重要的问题是(　　)

A. 人口、粮食和环境　B. 人口、粮食和能源

C. 人口、资源和环境　D. 干旱、能源和环境

关注微信公众号"教辅资料站"获取更多学习资料

培优精练 ☞(答案见97页)

1. 下列有关非洲的说法,正确的是(　　)
A. 非洲的地形以高原为主,被称为“高原大陆”
B. 非洲的气候炎热,主要以热带雨林气候为主
C. 非洲资源丰富,煤的产量和出口量居世界首位
D. 非洲经济发展迅速,大部分国家已成为发达国家

分布在东非高原的角马,逐水草定期迁徙。图8-3-3是东非高原马赛马拉和塞伦盖蒂国家公园的降水资料及角马在两地之间的迁徙路线。读图完成2、3题。

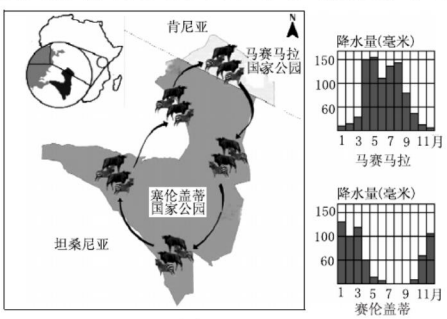

图8-3-3

2. 根据图中的信息可知两地都属(　　)
A. 热带雨林气候　　B. 热带草原气候
C. 热带沙漠气候　　D. 热带季风气候

3. 每年11月至次年3月,角马群的迁徙方向是(　　)
A. 由马赛马拉向北迁徙
B. 由马赛马拉向南迁徙
C. 由塞伦盖蒂向北迁徙
D. 由塞伦盖蒂向南迁徙

4. 关于撒哈拉以南非洲的叙述,正确的是(　　)
A. 气候以热带雨林气候为主
B. 出口商品以初级农矿产品为主
C. 资源贫乏,导致经济落后
D. 黑种人占总人口的一半左右

读“非洲四国位置图”(图8-3-4),完成5、6题。



图8-3-4　非洲四国位置图

5. 近年来,肯尼亚凭借发展鲜花优越的地理条件,积极发展花卉业,已成为非洲最大的鲜花出口国。这里优越的地理条件是指(　　)
A. 全年高温多雨,土壤肥沃
B. 降水分布均匀,水源充足
C. 全年气温适宜,热量充足
D. 本国经济发达,市场广阔

6. 目前,非洲社会经济虽然发展较快,但其社会经济的可持续发展还面临许多问题,主要有(　　)
①人口多,增长快　②粮食短缺　③矿产资源短缺
④水土流失、土地荒漠化等环境问题
A. ①②③　B. ①②④　C. ①③④　D. ①②③④

7. 读非洲气候分布图(图8-3-5)、某年加纳主要商品占本国进出口商品百分比图(图8-3-6),回答问题。

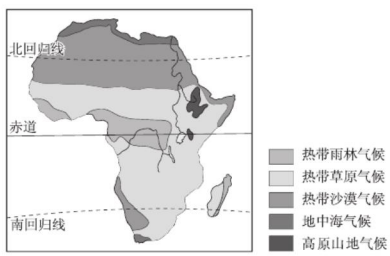

图8-3-5

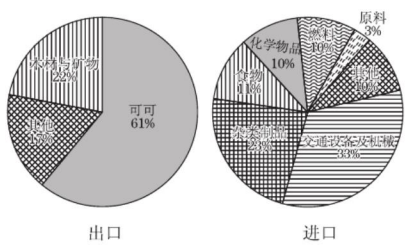

图8-3-6

(1)撒哈拉以南非洲大部分位于_____线之间,处于地球五带中的_____带,是_____种人的故乡。
(2)撒哈拉以南非洲的气候类型以赤道为轴,呈_____分布,分布最广的是_____气候。
(3)图8-3-6中,可可占出口商品的_____%,进口商品比重最大的是_____。该国经济比较落后,请提出改变这种局面的合理化建议。

关注微信公众号“教辅资料站”获取更多学习资料

第四节 澳大利亚

点要点·拨疑难

核心笔记

1. 世界活化石博物馆

(1)位置和组成:澳大利亚西临印度洋,东临太平洋,北面隔海与亚洲相望,南面隔海与南极洲相望,位于东半球、南半球。包括澳大利亚大陆、塔斯马尼亚岛和附近的一些岛屿,是世界上唯一独占整个大陆的国家。

(2)特有生物:袋鼠、鸸鹋、树袋熊(考拉)、琴鸟、桉树、金合欢等。

2. "骑在羊背上的国家"

(1)地形、地势:东部是山地——大分水岭,中部是广阔的平原,西部是高原,地势东西高,中部低。

(2)澳大利亚的农牧业

①三大牧羊带:由东南和西南沿海向内陆依次为羊、牛与经济作物混合经营带,绵羊与小麦混合经营带和粗放牧羊带。

②特点:养羊业产业化、机械化程度高,耗用劳动力少。所产羊肉和羊毛主要用于出口,商品率很高。

3. "坐在矿车上的国家"

(1)澳大利亚矿产资源丰富,采矿业发达,矿产品主要销往中国、印度、日本、韩国等亚洲国家,被称为"坐在矿车上的国家"。

(2)20世纪70年代以来,服务业成为澳大利亚的经济支柱。

释疑解惑

列表分析澳大利亚发展农牧业的条件:

地形	西、中、北部是低矮的高原和大面积平原,牧草优良
	东南部和西南部沿海平原,适合牧羊和耕作业混合发展
气候	西、中、北部为热带沙漠气候和热带草原气候区,气候干燥,适合牲畜过冬和繁殖
	东南部夏季高温多雨、冬季温和湿润,西南部冬季温和多雨、夏季高温干燥,适合畜牧业和种植业混合发展
水资源	地下水丰富,矿物质含量较高,不适合灌溉,但可供牲畜饮用
生物	没有大型食肉动物,缺少羊的天敌

易误警示

误认为澳大利亚采矿业发达,出口矿产品较多,是发展中国家

澳大利亚采矿业经营规模大,采用现代管理方法和机械化、自动化生产,矿产资源的开采效率和利用效率很高,而且非常注意环保。在采矿业的基础上,澳大利亚发展了冶金业。与撒哈拉以南非洲以出口初级农矿产品为主的经济不同。澳大利亚是经济发达的资本主义国家。

基础全练 (答案见97页)

知识点一 澳大利亚的位置和特物有生物

1. 下列关于澳大利亚位置的叙述,正确的是(　　)

A. 东临印度洋,西临太平洋

B. 全部位于热带地区

C. 全部位于南半球、东半球

D. 跨南、北半球和东、西半球

2. 读图8-4-1,澳大利亚国徽上的两种动物是鸸鹋和有"跳远名将"之称的(　　)

A. 考拉

B. 袋鼠

C. 琴鸟

D. 鸭嘴兽



图8-4-1

3. 澳大利亚有可爱的考拉、善于游泳的鸭嘴兽,澳大利亚至今保存这些古老动物的主要原因是(　　)

A. 常年冰雪覆盖

B. 大自流盆地有丰富的地下水

C. 长期孤立在南半球的海洋上,自然环境单一

D. 气候炎热干燥,有大面积的沙漠和草地

知识点二 澳大利亚的经济

4. 澳大利亚出口的农牧产品主要有(　　)

A. 羊毛、羊肉和小麦　　B. 牛肉、玉米和大米

C. 羊毛、小麦和小米　　D. 奶制品、牛肉和大豆

5. 易错题 澳大利亚发展养羊业的有利条件是(　　)

①草原辽阔　②气候条件适合　③人口多,羊毛、羊肉需求量大　④没有大型食肉猛兽

A. ①②③　　B. ②③④　　C. ①②④　　D. ①③④

读澳大利亚图(图8-4-2),完成6题。

6. 图中信息有力地说明了澳大利亚是(　　)

A. 天然橡胶的故乡

B. 世界活化石博物馆

C. 骑在羊背上的国家

D. 坐在矿车上的国家

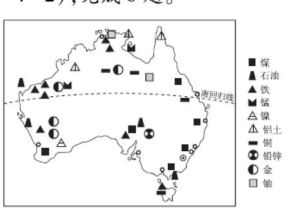

图8-4-2

关注微信公众号"教辅资料站"获取更多学习资料

培优精练 ☞(答案见98页)

1. 在学习“澳大利亚”这节课时,地理老师提出了一个问题:“谈谈你印象中的澳大利亚。”下面是同学们的谈论内容,其中正确的是(　　)

A. 澳大利亚是世界上唯一独占一个大洲的国家

B. 澳大利亚四面环海,是个岛国,位于太平洋上

C. 澳大利亚距南极洲较近,气候寒冷

D. 澳大利亚地广人稀,经济发达

读澳大利亚年降水量分布图(图8-4-3)和澳大利亚牧羊带图(图8-4-4),完成2、3题。

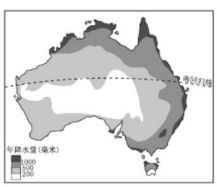

图8-4-3

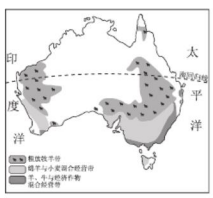

图8-4-4

2. 据图可知,影响澳大利亚农业分布的主要因素是(　　)

A. 气温　　B. 降水　　C. 地形　　D. 纬度

3. 下列图片中的动物属澳大利亚特有的是(　　)



A　　B　　C　　D

图8-4-5

读澳大利亚牧羊带分布图(图8-4-6),回答4~6题。

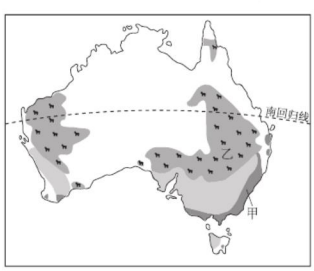

图8-4-6

4. 甲地牧羊带的类型为(　　)

A. 粗放牧羊带

B. 绵羊与小麦混合经营带

C. 绵羊与粮食作物混合经营带

D. 羊、牛与经济作物混合经营带

5. 关于乙地牧羊带的叙述,错误的是(　　)

A. 多为天然牧场　　B. 牧场规模较小

C. 生产不稳定　　D. 每公顷放养的羊数少

6. 甲、乙两地主要的绵羊类型搭配正确的一组是(　　)

A. 甲——肉用羊　　乙——肉用羊

B. 甲——肉用羊　　乙——毛用羊

C. 甲——毛用羊　　乙——毛用羊

D. 甲——毛用羊　　乙——肉用羊

7. 关于澳大利亚的正确叙述是(　　)

A. 采矿业经营规模大,但在采矿过程中十分注意保护环境

B. 澳大利亚从我国进口铁矿石

C. 堪培拉位于澳大利亚东北部

D. 澳大利亚的首都是悉尼

8. “澳毛”是世界级品牌的优质羊毛,我国每年大量进口“澳毛”补充国内市场的巨大消费需求;澳大利亚的优质铁矿石是宝山钢铁最重要的进口渠道。这些进口原料和以下说法有关的是(　　)

①世界活化石博物馆　②“骑在羊背上的国家”

③“坐在矿车上的国家”　④悉尼歌剧院是世界名胜

A. ①②　　B. ②③　　C. ③④　　D. ①④

9. 读图8-4-7,回答下列问题。

(1)A地丰富的矿产是_____,B地牧羊带的类型是_____。

(2)该国久负盛名的农产品是(　　)

A. 棉花

B. 黄麻

C. 羊毛

D. 咖啡

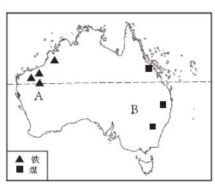

图8-4-7

(3)沿南回归线自大陆东海岸向西一直到达大陆西海岸,依次经过的地形区是(　　)

A. 山地、高原、平原　　B. 山地、平原、高原

C. 高原、平原 、山地　　D. 平原、山地、高原

(4)写出该国任意一种特有动物_____;

任意一种特有植物_____;

试分析该国原始动物特别多的原因_____

_____

_____。

关注微信公众号“教辅资料站”获取更多学习资料

第八章 强化 巩固复习

知识结构·理脉络

- 东半球其他的地区和国家
  - 中东
    - “三洲五海之地”
    - 世界石油宝库
      - 分布地区：主要分布在波斯湾及其沿岸地区
      - 石油的输出：运往东亚、欧洲西部和北美洲
    - 匮乏的水资源原因：气候干燥，河流稀少
    - 多元的文化：民族文化差异大
  - 欧洲西部
    - 工业密集，发达国家集中
    - 现代化的畜牧业
      - 地形：以平原为主，地势平坦
      - 气候：温带海洋性气候广布
      - 畜牧业的发展：机械化、自动化程度高
    - 繁荣的旅游业
  - 撒哈拉以南非洲
    - 黑种人的故乡
    - 快速发展的经济
    - 人口、粮食与环境
      - 根源：人口增长过快
      - 后果：产生粮食与环境问题
      - 措施：控制人口数量，提高人口素质
  - 澳大利亚
    - 世界活化石博物馆
    - “骑在羊背上的国家”
      - 农牧业发展条件
      - 农牧业分布
    - “坐在矿车上的国家”
      - 主要矿产资源及分布
      - 人口、城市分布及服务业

核心必知·知考点

1. 战争不断的中东

第二次世界大战以来，中东一直是全世界关注的热点地区。关注焦点集中在以下几个方面：

(1)位置之争：中东地处“三洲五海之地”，自古以来就是东西方交通枢纽。

(2)领土之争：中东部分国家的国界尚未划定（如以色列和巴勒斯坦），为争夺领土主权而产生争端。

(3)石油之争：中东有丰富的石油资源，对世界经济发展具有重要影响，各国为争夺石油资源而引发冲突。

(4)淡水之争：中东水资源匮乏，有限的水资源分布不均匀，各国为争夺水权而产生矛盾。

(5)宗教之争：中东民族成分复杂，各宗教派别之间的文化差异大，是导致中东不安定的重要因素之一。

2. 欧洲西部

(1)欧洲西部的工业分布：工业中心多，分布密集，自英国向东到波兰境内，自斯堪的纳维亚半岛南部到意大利。

(2)畜牧业：受位置、地形和气候等因素的影响，本区畜牧业发达。

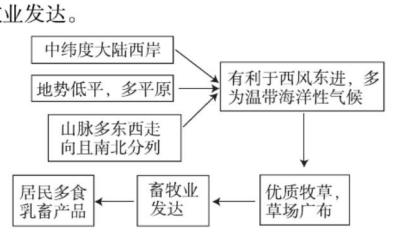

图 1

3. 撒哈拉以南非洲

(1)对外贸易的特点

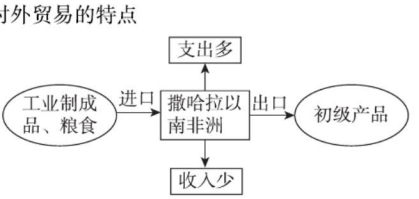

图 2

关注微信公众号“教辅资料站”获取更多学习资料

(2)快速发展的经济

撒哈拉以南非洲丰富的自然资源为经济发展创造了有利条件。商业的发展,消费的增长,成为推动撒哈拉以南非洲经济迅速发展的主要动力。

(3)人口、粮食与环境

由于人口增长过快,人口增长的速度超过了粮食产量的增长速度。为了生存,在农牧业生产水平较低的情况下,毁林开荒,开垦草原,过度放牧,使土地肥力下降和草原退化,荒漠化面积不断扩大,导致生态环境逐步恶化,出现严重的环境问题。

4. 澳大利亚

(1)世界活化石博物馆

①古老的原始动物:袋鼠、考拉、鸭嘴兽、鸸鹋等。

②成因:长期独处在南半球的海洋上,阻断了物种的交流,自然环境单一,生物进化缓慢。

(2)"骑在羊背上的国家"

①地形:东部是大分水岭,中部是平原,西部是低矮的高原。

②气候:热带面积广大,气候带呈半环状分布。

③农业:以农牧业为主,是世界上放养绵羊数量和出口羊毛最多的国家,还是重要的牛肉、小麦出口国。

(3)"坐在矿车上的国家"

①矿产资源特点:经营品种多,品质优,埋藏浅,易开采。

②采矿业特点:经营规模大,采用现代管理方法和机械化、自动化生产,矿产资源的开采效率和利用效率很高,而且非常注意环境保护。

好题必练 · 练真题 (答案见98页)

1.(**中考 · 聊城**)关于如图所示地区特征的叙述,正确的是(　　)

A. 淡水资源普遍匮乏

B. 地形以平原、丘陵为主

C. 所产石油全部输往西半球

D. 大部分地区为温带大陆性气候



图3

2.(**中考 · 云南**)中东地区长期以来冲突不断的主要原因是(　　)

①五海三洲之地的战略位置　②气候炎热,沙漠广布　③争夺石油和水资源　④以畜牧业为主的经济　⑤宗教文化的差异

A. ①②④　　B. ①③⑤　　C. ②④⑤　　D. ③④⑤

3.(**中考 · 云南**)杨华到法国旅游,可能参观的景点是(　　)

A. 艾菲尔铁塔、巴黎圣母院

B. 罗马古斗兽场、水城威尼斯

C. 悉尼歌剧院、峡湾风光

D. 泰姬陵、狮身人面像

4.(**中考 · 鸡西**)2019年6月9日,法国女足世界杯隆重开幕,小组赛成绩:法国4∶0韩国,西班牙3∶1南非,德国1∶0中国,挪威3∶0尼日利亚。四场比赛,欧洲国家有(　　)

A. 2个　　B. 3个　　C. 4个　　D. 5个

5.(**中考 · 衡阳**)非洲历史悠久,地理多元,下列不属于非洲地理元素的是(　　)

A. 刚果盆地　　B. 乞力马扎罗山

C. 艾尔斯巨石　　D. 马达加斯加岛

6.(**中考 · 广安**)下列关于撒哈拉以南的非洲的叙述,不正确的是(　　)

A. 被称为"黑种人的故乡"

B. 被誉为"天然野生动物园"

C. 大部分处于热带

D. 以外向型经济为主,在国际贸易中处于有利地位

7.(**中考 · 通辽**)读图,回答下列问题。



图4

(1)澳大利亚东濒A _____洋,西临印度洋,包括_____大陆,塔斯马尼亚岛和附近一些小岛,是世界上唯一独占一个大陆的国家。

(2)澳大利亚地广人稀,人口和城市集中分布在_____地区。居民大多是英国移民的后裔,以_____人种为主,大多信仰_____教。

(3)澳大利亚是发达国家中重要的矿产品出口国,有"坐在矿车上的国家"之称。据图分析澳大利亚出口矿产品的优势条件。(至少回答两点)

关注微信公众号"教辅资料站"获取更多学习资料

填图学地理 ☞(答案见98页)

1. 读图,回答下列问题。

(1)在图中相应位置填入霍尔木兹海峡、土耳其海峡、沙特阿拉伯、伊朗。

(2)根据提示,把图中内容补充完整。

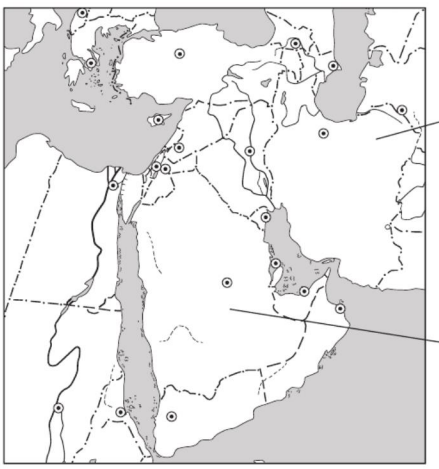

本地区位于亚洲_____部和非洲_____部,包括西亚的大部分和非洲的_____。该地区联系_____、_____、_____三大洲,沟通_____洋和_____洋,战略位置极为重要。

该国的居民主要是_____人,信仰_____教;_____是本地区常见的牲畜,也是传统的交通工具。

2. 读图,回答下列问题。

(1)在图中填注:地中海、大西洋。

(2)填出图中数码代表的国家名称:

①_____;②_____;③_____。

(3)写出图中AB两地的气候类型:A _____;B _____。

(4)将景点图片与所对应的国家连线。











关注微信公众号"教辅资料站"获取更多学习资料

3. 读非洲地形图，回答下列问题。

(1)将大西洋、印度洋 、尼罗河、尼日尔河、刚果河填入图中。

(2)写出图中字母所代表的地形区名称：

A _____；B _____；

C _____；D _____。

(3)将气候资料图与所对应的典型地区连线。

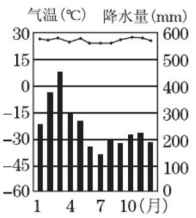

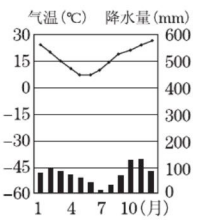

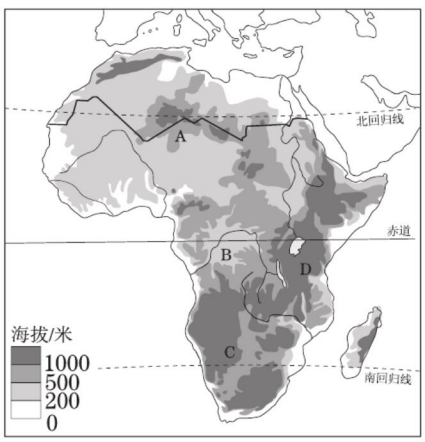

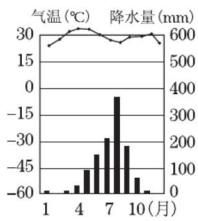

4. 读澳大利亚牧羊带的分布图，回答下列问题。

(1)将印度洋、太平洋填入图中相应位置。

(2)根据提示，把图中内容补充完整。

这里有全国最大的河流，最完善的_____系统，地形平坦，既可以牧羊，也适宜种植_____，为_____带。

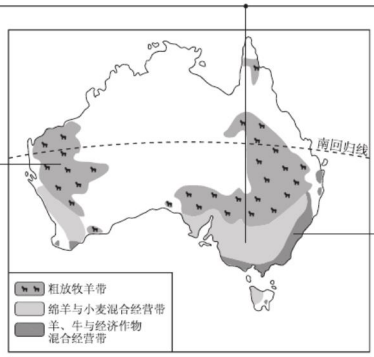

此处地形是_____，降水较_____，牧草品质_____，产量_____，为_____带。

此处位于东南部狭窄的沿海低平原，这里土壤_____，农牧场规模一般比较_____，_____草场广布，牧草品质_____，产量_____。生产_____。

温馨提示

为了加强对地图的认知，呈现更好的视觉效果，在图上填写时可以用不同颜色的笔哦！

关注微信公众号“教辅资料站”获取更多学习资料

创新

第一节 美国

第1课时 民族大熔炉 农业地区专业化

点要点·拨疑难

核心笔记

1. 地理位置

(1)半球位置:美国位于北半球、西半球。

(2)海陆位置:西临太平洋、东临大西洋、北临北冰洋、南临墨西哥湾,是一个临三大洋的国家。本土北邻加拿大,南邻墨西哥;阿拉斯加州隔白令海峡与俄罗斯相望。

2. 领土构成:本土48个州和两个海外州——夏威夷州和阿拉斯加州。美国陆地领土面积居世界第四位。

3. 人口和人种:美国是世界第三人口大国;人种由白种人、黑种人和黄种人等构成。原住居民是印第安人。

4. 农业地区专业化

(1)农业特点

①实现了地区生产的专业化,形成一些农业带(区),生产规模大。

②农业生产的各个过程和环节都实现了机械化和专业化,效率高,产量大。

(2)优点:地区专业化生产便于推广先进的生物技术、耕作技术等,使农产品的质量优良。

(3)地位:美国是世界上的农业强国,许多农产品的生产量和出口量居世界前列。

释疑解惑

美国本土部分农业带的分布及其形成条件

农业带	分布及形成条件
乳畜带	位置偏北,气候冷湿,适宜牧草生长;而且,位于美国的制造业带,城市和人口分布密集,因此乳畜业非常发达
玉米带	位于温带,地势平坦,土壤肥沃,春夏气温较高,适合玉米生长
小麦区	位于地势低平的平原区,土质好,冬季冷而长,适宜耐寒能力强的小麦生长,密西西比河为灌溉提供了良好条件
畜牧和灌溉农业区	多位于高原、高山地区,地势起伏大,降水较少,适宜发展畜牧业和灌溉农业
亚热带作物带	位于纬度较低的地区,也是热量和水分最好的地区,可以种植多种亚热带作物

易误警示

一般来说,发达国家由于受经济发展水平、社会保障和人们的生育观念等因素影响,人口增长缓慢。但美国人口增长率为0.97%,是发达国家中人口增长较快的国家。移民是美国人口增长较快的主要原因。美国的原住居民为印第安人,现在以白种人为主。

基础全练 (答案见98页)

知识点一 美国的位置、领土组成、人口

1. 地跨两大洲,濒临三大洋,且兼跨寒、温、热三带的国家是(　　)

A. 中国　　B. 日本　　C. 俄罗斯　　D. 美国

2. 美国的两个海外州是(　　)

①夏威夷州　②佛罗里达州　③阿拉斯加州　④加利福尼亚州

A. ①②　　B. ①③　　C. ②④　　D. ①④

3. 有关美国的叙述,正确的是(　　)

A. 移民是美国人口增长较快的主要原因

B. 居民主要是黑种人

C. 通用西班牙语

D. 本土北邻墨西哥

知识点二 美国的自然地理特征和农业生产

4. 下列关于美国自然地理特征的叙述,正确的是(　　)

A. 美国的地势特征是西高东低

B. 美国地形以高原为主

C. 美国降水量从西北向东南递减

D. 美国境内有北极圈和北回归线穿过

读美国本土农业带分布图(图9-1-1),完成5、6题。



图9-1-1

5. 甲农业带形成和发展的主要因素有(　　)

①地势低平,土壤肥沃,产量较高　②气候冷湿,适宜牧草生长　③城市和人口密集　④多高原山地,降水稀少

A. ①②　　B. ③④　　C. ①④　　D. ②③

6. 乙、丙两农业带分别是(　　)

A. 玉米带、混合农业区　　B. 小麦区、玉米带

C. 棉花带、玉米带　　D. 小麦区、棉花带

关注微信公众号"教辅资料站"获取更多学习资料

培优精练 ☞(答案见98页)

小明和爸爸到某国家去旅游,发现该国许多商品上印有如图9-1-2所示的图案,据此回答1、2题。

1. 该国家是(　　)

A. 日本
B. 印度
C. 英国
D. 美国



图9-1-2

2. 小明回来后介绍了该国家的状况,其中不可信的是(　　)

A. 该国地跨两洲和寒、温、热三带
B. 该国随处可见各种肤色的人,但以白种人居多
C. 该国农业生产落后,需大量进口粮食
D. 该国河湖众多,拥有世界第四长河

3. 下列关于美国人口的叙述,错误的是(　　)

A. 2010年统计,总人口为3.1亿
B. 人口总数居世界第一位
C. 是西半球人口最多的国家
D. 是发达国家中人口增长较快的国家

读美国本土地形简图(图9-1-3),回答4、5题。

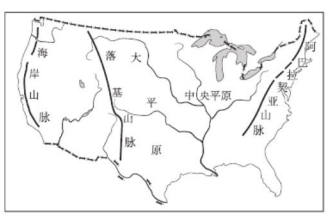

图9-1-3

4. 下列关于美国本土自然条件的叙述,错误的是(　　)

A. 美国大部分国土位于温带
B. 美国平原面积广,耕地广阔
C. 美国森林、草地、矿产资源丰富
D. 美国河流、湖泊很少,内河航运不发达

5. 图9-1-4中能正确反映美国本土中部自西向东地势起伏变化剖面图的是(　　)

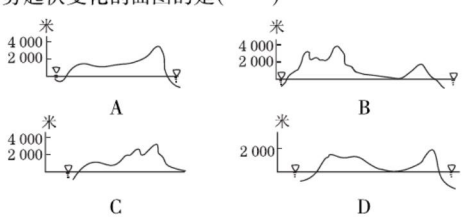

图9-1-4

6. 读图9-1-5,判断下列说法正确的是(　　)

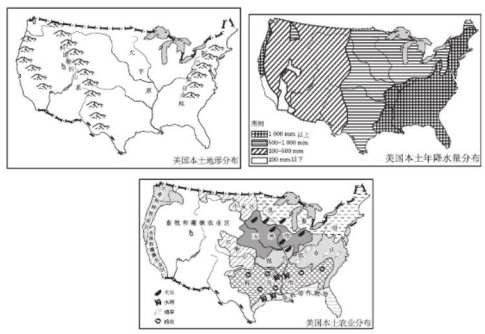

图9-1-5

A. 五大湖区降水最丰沛,适合牧草生长,形成乳畜带
B. 中部地表崎岖,适合种植玉米,形成玉米带
C. 北部水热充足,适宜小麦生长,形成小麦区
D. 西部气候干燥,地势起伏大,形成畜牧和灌溉农业区

7. 下列关于美国农业地区专业化生产的好处,正确的是(　　)

①可缓解人多地少的矛盾　②便于机械化生产
③充分利用不同地区的自然条件,提高农业生产效率
④提高农业商品率

A. ①②　　B. ①②③　　C. ③④　　D. ②③④

8. 读美国本土农业带分布图,完成下列各题。

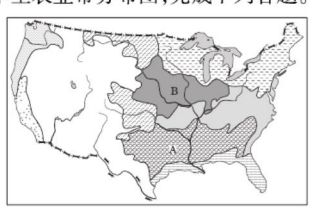

图9-1-6

(1)A、B两处农业带中,棉花带是_____。

(2)美国是当今世界上最大的农产品出口国,但咖啡、可可、天然橡胶等热带农产品仍需大量进口。想一想,为什么?

(3)你认为乳畜带分布在五大湖附近的有利条件有哪些?

关注微信公众号“教辅资料站”获取更多学习资料

第2课时 世界最发达的工业国家

点要点·拨疑难

核心笔记

1. 工业特点:美国拥有完整的工业部门体系,生产规模大,技术先进,是世界上最发达的工业国家。
2. 工业部门:美国的能源、钢铁、机械、化工等工业在世界上占有重要地位,其中,军事工业和尖端技术领域处于世界领先地位。
3. 工业分布:美国的工业分布大体上分为三大地区
(1)东北部工业区:东北部工业区历史悠久,是美国也是世界最大的工业区。
(2)南部工业区:美国新兴的石油、宇航基地。
(3)西部工业区:宇航、电子、信息技术等新兴产业发展较快。
4. 高新技术产业:20世纪70年代,以信息技术产业、生物技术产业、新材料技术产业等为代表的高新技术产业兴起。位于旧金山东南的"硅谷",是美国兴起最早、规模最大的高新技术产业中心。

释疑解惑

美国本土工业区的分布及特点

如图9-1-7,美国本土的工业区大致可以分为三大工业区:



图9-1-7

(1)东北部工业区:历史悠久,是美国也是世界最大的工业区,这里有交通中心芝加哥,大西洋沿岸最大的工商业中心和港口——纽约,还有首都华盛顿。
(2)南部地区:美国新兴的石油、飞机、宇航、电子工业产区。休斯敦是本区石油化工、宇航研究和发展中心。
(3)西部地区:洛杉矶是西部最大港口;位于旧金山东南的"硅谷",是美国兴起最早、规模最大的高新技术产业中心,因大量生产电子工业的基本材料——硅片而得名。

易误警示

美国是最发达的工业国家,工业制成品不需要进口

此观点错误。尽管美国拥有完整的工业部门体系,是世界上最发达的工业国家,也是世界上出口工业制成品最多的国家,但由于美国经济结构向高新技术产业转型,所以一些耗用大量劳动力和自然资源的产品需大量进口。例如,美国是世界上进口纺织品最多的国家。

基础全练 (答案见99页)

知识点一 美国的经济

1. 关于美国的叙述,正确的是(　　)
A. 消费量小,自然资源无需进口
B. 工业体系完整、生产效率最高的国家
C. 自然资源贫乏
D. 东北部工业区是新兴的工业区

2. 美国是高度发达的资本主义国家,下列关于美国经济的叙述,正确的是(　　)
A. 是世界农业强国,但需要大量进口粮食
B. 钢铁、机械、汽车、化工等工业集中分布在太平洋沿岸
C. 以高新技术为核心的新兴工业部门主要分布在东北部工业区
D. 需要大量进口热带农产品和日用工业品

3. 美国处于世界领先地位的工业是(　　)
A. 军事工业和化工工业
B. 机械工业和钢铁工业
C. 军事工业和尖端技术领域
D. 能源工业和机械工业

知识点二 美国的高新技术产业

4. 20世纪90年代以来,美国的经济增长主要得益于(　　)
A. 汽车制造业　　B. 钢铁工业
C. 食品工业　　D. 高新技术产业

5. 在美国众多的高新技术产业园中,"硅谷"是兴起最早、规模最大的高新技术产业中心。美国的"硅谷"位于图9-1-8中的(　　)

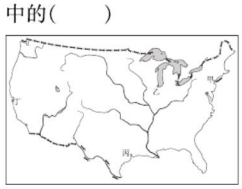

图9-1-8

A. 甲　　B. 乙　　C. 丙　　D. 丁

6. 美国发展高新技术产业对经济影响的叙述错误的是(　　)
A. 促进经济结构升级
B. 增加就业机会,降低失业率
C. 提高经济增长速度与效益
D. 增加能源消耗

关注微信公众号"教辅资料站"获取更多学习资料

培优精练 ☞(答案见100页)

1. 下列有关美国工业的叙述,正确的是(　　)
A. 美国的工业集中分布在东北部、南部、西部三大工业区
B. 洛杉矶是南部工业区的工业城市
C. 西部工业区的工业城市有旧金山、休斯敦、洛杉矶
D. 首都华盛顿是政治中心,无任何工业

2. 读图9-1-9,美国本土东北部工业区工业发展最具优势的条件是(　　)

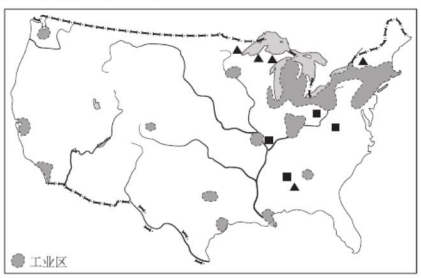

图9-1-9

A. 水资源丰富　　B. 交通便利
C. 靠近煤炭、铁矿产地　　D. 农业基础好

读美国本土工业分布图,完成3~5题。

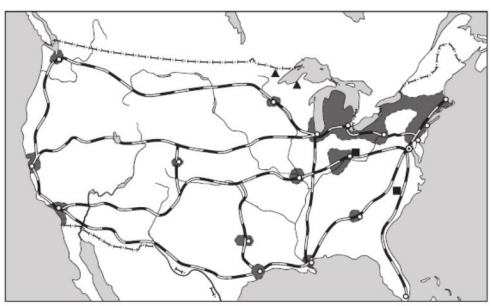

图9-1-10

3. 美国工业发展最早的地区是(　　)
A. 东北部地区　　B. 南部地区
C. 西部地区　　D. 中部地区

4. 美国五大湖沿岸老工业区利用当地矿产资源发展的工业部门是(　　)
A. 钢铁工业　　B. 纺织工业
C. 食品工业　　D. 电子工业

5. 关于美国工业由东北部向南部发展的原因错误的是(　　)
A. 地价相对低廉　　B. 环境污染相对较轻
C. 劳动力相对充足　　D. 交通更加便利

读美国硅谷示意图(图9-1-11),回答6、7题。

6. 位于旧金山东南的硅谷,成为美国高新技术产业中心的最重要条件是(　　)
A. 自然资源丰富
B. 高等院校多,科技力量雄厚
C. 靠近海洋,方便原料运输
D. 气候高温多雨

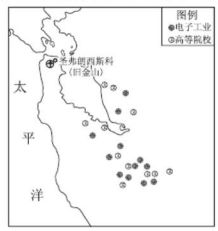

图9-1-11

7. 美国信息技术产业对经济发展的作用是(　　)
①增加就业机会,促进就业
②提高生产效率、产品质量和价值
③促进经济发展,成为经济发展的支柱产业
④代替了其他产业部门
A. ①②④　　B. ②③④　　C. ①③④　　D. ①②③

8. 美国经济高度发达,根据图9-1-12,结合所学知识,回答下列问题。

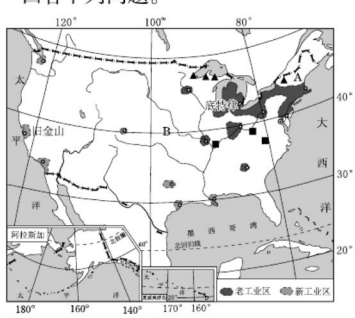



甲　汽车工业



乙　微电子工业

图9-1-12

(1)甲、乙两幅图片体现了底特律、旧金山的工业特色,请把图片代号填入相应的空格中:
_____底特律,_____旧金山。

(2)美国东北部是著名的钢铁工业基地,根据图中信息说明该地发展钢铁工业的资源条件。(至少回答两点)

(3)乳畜业需要接近城市人口众多的消费市场,A、B两地适宜发展乳畜业的是_____。

关注微信公众号"教辅资料站"获取更多学习资料

第二节 巴西

第1课时 大量混血种人的社会 发展中的工农业

点要点·拨疑难

核心笔记

1. 大量混血种人的社会

(1)位置:巴西位于南美洲东部,东临大西洋。大部分国土位于赤道和南回归线之间,热带面积广大。

(2)人种、文化:白种人占一半多,黑白混血种人约占40%,还有少量黑种人、印第安人、黄种人等;在这个有大量混血种人的社会里,来自不同地域的文化相互融合、发展,形成了具有特色的巴西文化。如桑巴舞、狂欢节、足球等。

2. 发展中的工农业

(1)巴西的自然环境

大部分领土位于热带,气候湿热,地形平坦,具有种植热带作物得天独厚的自然条件。

(2)巴西的农业以热带经济作物为主,其中咖啡、甘蔗、柑橘等农产品的产量居世界首位。

(3)巴西工业发展迅速,钢铁、汽车、飞机制造等跻身于世界重要的生产国行列。

释疑解惑

巴西工业发展的优势条件

(1)矿产资源丰富。巴西铁矿储量大,质地优良。

(2)水力资源丰富。为了弥补煤和石油的不足,巴西和巴拉圭合作,在巴拉那河上修建了著名的伊泰普水电站,为工业发展提供了充足的能源。

(3)农产品丰富。农产品种类多、数量大,为巴西工业发展提供充足的原料。

(4)海上交通运输便捷。海运发达,进出口便利。

易误警示

巴西是拉丁美洲面积最大、人口最多的国家,但不是美洲面积最大、人口最多的国家。美洲面积最大的国家是加拿大,人口最多的国家是美国。

基础全练 ☞(答案见99页)

知识点一 大量混血种人的社会

1. "金砖国家"历史和文化传统各异,图9-2-1所示的这种家庭多存在于金砖国家中的(　　)



图9-2-1

A. 巴西　　B. 南非

C. 俄罗斯　　D. 印度

2. 有关巴西地理位置的叙述,正确的是(　　)

A. 巴西和美国所处的位置差不多,西面濒临太平洋,东面濒临大西洋

B. 巴西是拉丁美洲面积最大的国家,其国土全部位于南半球

C. 巴西东临大西洋,北、西、南与众多国家为邻,是个海陆兼备的国家

D. 就地理位置来看,巴西位于西半球,且是西半球面积最大的国家

3. 下列关于巴西特色文化的叙述,不正确的是(　　)

A. 街头、海滩到处都可以见到各种肤色的青年和孩子在踢足球

B. 人们在花车上跳桑巴舞

C. 在每年的2月下旬,都会举行盛大的狂欢节

D. 姑娘们穿上心爱的和服,欢度自己的"成人节"

4. 下列关于巴西的叙述,正确的是(　　)

A. 拉丁美洲面积最大、人口最多的国家

B. 混血种人是巴西人口最多的种族

C. 巴西是国土广大的温带国家

D. 工业多分布在内陆地区

知识点二 巴西工农业的发展

5. 对巴西工农业的描述不正确的是(　　)

A. 是世界上的"咖啡王国",咖啡出口量居世界第一

B. 铁矿储量大,产量和出口量都居世界前列

C. 农业是重要的国民经济基础部门,其中以发展热带经济作物为主

D. 巴西煤炭资源丰富,全国90%的电力靠煤炭发电

6. 下列关于巴西自然条件的叙述,不正确的是(　　)

A. 面积占南美洲近1/2,地跨南、北两个半球

B. 亚马孙平原地势低平,面积辽阔,是巴西重要的农业区

C. 巴西高原矿产资源非常丰富,铁矿储量居世界前列

D. 亚马孙河水量极大

关注微信公众号"教辅资料站"获取更多学习资料

培优精练 ☞(答案见99页)

1. 下列有关巴西自然环境的说法,不正确的是(　　)
A. 赤道和南回归线都穿过的热带国家
B. 东临大西洋
C. 邻国主要有墨西哥和智利
D. 地形主要是平原和高原

巴西的狂欢节被称为世界上最大的狂欢节,素有“地球上最伟大的表演”之称(如图9-2-2)。在巴西的狂欢节中,人们不但可以领略巴西桑巴舞的性感妩媚,更可以暂时抛掉所有的烦恼,让自己的心灵心情狂欢,感受这一民族独特的风情。结合材料完成2、3题。



图9-2-2

2. 巴西的狂欢节来源于(　　)
A. 欧洲　　B. 非洲　　C. 大洋洲　　D. 亚洲

3. 由材料可知,巴西文化具有什么特征(　　)
A. 典型的欧洲文化特征
B. 非洲文化和亚洲文化融合的产物
C. 多种族、多地区融合的产物
D. 典型的东方文化特征

4. 下列关于巴西自然资源的叙述,正确的是(　　)
A. 亚马孙平原是世界著名的农业区
B. 巴西铁矿资源丰富
C. 巴西水力资源贫乏
D. 巴西水资源贫乏

5. 下列有关巴西经济的叙述,正确的是(　　)
A. 巴西工农业都不发达
B. 是拉丁美洲唯一的发达国家
C. 主要的工业部门有钢铁、煤炭和机械制造
D. 大部分工业分布在东南沿海地区

6. 东营的李林同学计划去巴西观看足球赛。赴巴西之前他查阅到巴西的相关资料,你认为符合事实的是(　　)
①盛产咖啡,成为世界上的“咖啡王国”
②桑巴舞和足球运动是巴西多元文化的代表
③最显著的人口特征是混血种人数量多
④巴西通用西班牙语
A. ①②③　　B. ②③④　　C. ①②④　　D. ①③④

读“巴西人口分布图”。结合所学知识,完成7、8题。

7. 巴西人口和城市集中分布在(　　)
A. 东部和东南部沿海地带
B. 西部和西北部内陆地区
C. 亚马孙平原
D. 赤道和南回归线之间



图9-2-3

8. 横贯巴西西北部平原地区的亚马孙河,内河航运并不很发达,原因是(　　)
A. 河流落差大　　B. 干流水量小
C. 冬季冰期长　　D. 流域内人口稀疏

9. 下列对美国和巴西的描述,正确的是(　　)
A. 美国盛产热带经济作物
B. 巴西是世界最发达的国家
C. 美国农业实现了专业化
D. 两国都位于东半球

10. 下列关于巴西的叙述,正确的是(　　)
A. 巴西煤、石油储量丰富,产量均居世界首位
B. 伊泰普水电站位于亚马孙河上游
C. 巴西现代工业部门有钢铁、汽车、飞机制造等
D. 巴西工业中心的分布主要考虑市场需求

11. 读巴西图(图9-2-4),回答下列问题。

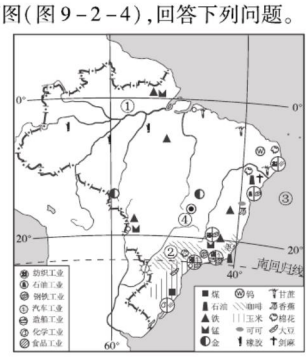

图9-2-4

(1)巴西的土著居民是_____,现在以_____人为主。
(2)图中数字①为_____河;③为_____洋;②区域是主要农作物_____的集中分布区。
(3)④城市是巴西的首都_____,巴西产量居世界第一位的热带经济作物是_____、_____、_____。
(4)由图可知,巴西工业主要分布在_____,工业分布和原材料之间的关系是_____。

关注微信公众号“教辅资料站”获取更多学习资料

第2课时 热带雨林的开发与保护

点要点·拨疑难

核心笔记

1. 亚马孙河:它是世界上流域面积最广、水量最大的河流,发源于安第斯山脉东麓,向东注入大西洋。

2. 热带雨林

亚马孙河流域分布着地球上面积最大的热带雨林,其中60%在巴西境内。

热带雨林的作用:

①为全球提供新鲜空气;②调节全球气候;③涵养水源,保护淡水资源;④保护土壤,防止土壤侵蚀;⑤提供良好的生物生存环境,维护生物多样性;⑥提供木材、药材、食品等。

3. 热带雨林遭受破坏及产生的后果

(1)热带雨林遭受的破坏:印第安人采用原始的刀耕火种的方法开荒种地;在热带雨林中修建公路,开辟大型的农场、牧场,采矿,办工厂,建城镇。

(2)产生的严重后果:水土流失加剧;生物多样性锐减;影响全球气候。

4. 对热带雨林的保护

①设立雨林保护区;②采取新的手段控制乱砍滥伐行为;③与联合国相关组织提出一项全球行动计划——减少砍伐森林和森林退化导致的温室气体排放。

释疑解惑

亚马孙河水量大的原因

从纬度位置来看,赤道横穿亚马孙河流域北部,本区为热带雨林气候,降水丰沛;从地形特征来看,亚马孙河流域的南、北、西三面为高原、山地,东面向大西洋敞开。从大西洋吹来的暖湿气流深入内陆,受到山地的抬升作用,形成了丰富的地形雨;从陆地轮廓来看,亚马孙河流域处于南美洲大陆最宽广的部位,流域面积广,汇水能力强;从河流水系特征来看,亚马孙河流程长,支流多,来水量大。

易误警示

对于亚马孙河流域的热带雨林既要因地制宜的保护,又要在不破坏当地生态环境的基础上进行开发。

基础全练 (答案见99页)

知识点一 亚马孙河

1. 下列对亚马孙河的描述,错误的是(　　)



图9-2-5

A. 流经巴西北部
B. 长度仅次于尼罗河
C. 流域面积仅次于密西西比河
D. 水流平缓

知识点二 热带雨林的环境效益

2. 下列关于亚马孙河流域热带雨林的表述,不正确的是(　　)

A. 地球上面积最大的热带雨林
B. 有"世界动植物王国"之称
C. 有"地球之肺"的美称
D. 只对改变本地区大气环境有作用,对全球气候的改善没有影响

知识点三 热带雨林的开发与保护

3. 亚马孙河流域的热带雨林面积急剧减少,其主要原因是(　　)

①洪水泛滥,大量树木被淹
②烧荒垦地,种植大豆
③非法砍伐,走私贵重木材
④气候恶化,树木病虫害严重

A. ①③　　B. ②④　　C. ②③　　D. ①④

4. 亚马孙地区的开发引发了深刻的(　　)

A. 资源问题　　B. 环境问题
C. 人口问题　　D. 粮食问题

5. 下列问题不是由热带雨林被破坏引发的是(　　)

A. 土壤侵蚀　　B. 全球气候异常
C. 珍贵动物灭绝　　D. 耕地减少

6. 亚马孙热带雨林一度出现被大规模砍伐的现象。对此当地居民观点正确的是(　　)

A. 居民甲:大规模砍伐雨林势必会破坏生态环境
B. 居民乙:大规模砍树可以增加耕地和牧场
C. 居民丙:大量砍伐树木既可以增加收入,又可以解决就业
D. 居民丁:珍贵树木必须保护,其他就可以大量砍伐

关注微信公众号"教辅资料站"获取更多学习资料

培优精练 ☞(答案见100页)

1. 关于亚马孙原始森林的叙述,正确的是(　　)
A. 亚马孙原始森林所产氧气占全球1/3,因此人类必须保护好它
B. 亚马孙原始森林可以被不停地砍伐,因为它可以自身恢复
C. 可以将其改成良田,以解决几亿人的吃饭问题
D. 亚马孙原始森林是全球唯一的热带雨林

2. 关于亚马孙河水量大的原因的叙述,错误的是(　　)
A. 流经世界上面积最大的亚马孙平原
B. 支流众多,水源均来自安第斯山脉冰雪融水
C. 亚马孙河水系跨赤道南北,终年高温多雨
D. 亚马孙河流域地势低平,有利于海洋湿润气流进入,容易成云致雨

3. 亚马孙河流域分布着世界上面积最大的热带雨林,该热带雨林因具有巨大的环境效益其开发与保护一直备受世界关注。该雨林巨大的环境效益主要有(　　)
①提供大量木材,增加收入
②调节全球气候
③为全球提供新鲜空气
④涵养水源,保护淡水资源
A. ①②③　　B. ①②④
C. ②③④　　D. ①②③④

4. 有关巴西的叙述,不正确的是(　　)
A. 人们喜爱踢足球和跳桑巴舞
B. 大量砍伐热带雨林是振兴经济的唯一途径
C. 巴西的地形以高原和平原为主
D. 北部有世界上流域面积最广、水量最大的河流

自20世纪60年代以来,巴西致力于亚马孙平原热带雨林的开发。由于开发不当,产生了"修路采矿开牧场,烧荒种地砍树忙"的现象。据此回答5、6题。

5. 巴西肆意开发亚马孙热带雨林,致使全球生态环境受到严重威胁,这是因为开发亚马孙热带雨林会(　　)
①加剧全球的水土流失　②加剧全球的土地荒漠化
③影响全球气候　④影响全球空气质量
A. ①②　　B. ①④
C. ②③　　D. ③④

6. 巴西在开发的亚马孙平原上不断地扩大甘蔗的种植,以满足酒精生产的需要,而生产的酒精又极大地支持了另一个行业的发展。这个行业是(　　)
A. 采矿行业　　B. 水电行业
C. 汽车行业　　D. 纺织行业

7. 某班级同学开展了对巴西的研究性学习。下面是他们学习中的相关资料,据此回答问题。

材料一　巴西略图(图9-2-6)。



图9-2-6

材料二　亚马孙热带雨林面积变化统计表。

年份	林地面积($\times 10^3$ 公顷)
2000年	545 943
2005年	530 494
2010年	519 522

(1)贝贝在制作亚马孙河、尼罗河、密西西比河、伏尔加河的地理信息卡时,漏掉了河流名称,请你帮他从下列信息中挑选出属于亚马孙河的地理信息_____。
①水系跨越高温多雨的赤道南北
②世界第一长河
③水流平缓,航运便利,但航运价值小
④由北向南注入墨西哥湾
⑤世界上径流量最大、流域面积最广的河流
⑥世界最长的内流河,水能资源丰富

(2)由材料一中信息可以判读并推断,与马瑙斯相比,巴西利亚的地势较_____(填"高"或"低"),气温较_____(填"高"或"低")。

(3)由材料二看出,近些年来,亚马孙热带雨林面积变化的趋势是_____。试分析造成这种变化的人为原因。

关注微信公众号"教辅资料站"获取更多学习资料

第九章 强化 巩固复习

知识结构·理脉络

- 西半球的国家
  - 美国
    - 民族大熔炉
      - 地理位置：本土位于太平洋与大西洋之间，北、南分别与加拿大、墨西哥相邻
      - 领土组成：本土、阿拉斯加州、夏威夷州
      - 人口和民族
    - 农业地区专业化
      - 具备有利的自然条件
      - 农业特点：地区生产专业化、生产过程机械化
    - 世界最发达的工业国家
      - 工业部门：能源、钢铁、机械、化工、军事等工业
      - 工业区分布：东北部工业区、西部高新技术产业园区、南部航空航天工业
  - 巴西
    - 大量混血种人的社会
      - 人种：混血种人数量多
      - 文化：多元性
    - 发展中的工农业
      - 农业：咖啡、甘蔗、柑橘等农产品的产量居世界首位
      - 工业
        - 工业特点：工业部门比较完整
        - 工业区分布：靠近原料产地
      - 热带雨林的开发与保护

核心必知·知考点

1. 美国

（1）美国本土的农业带与气候类型的关系

①西部地区太平洋沿岸北段属于温带海洋性气候，农业带（区）为小麦和林牧业区。太平洋沿岸南段属于地中海气候，农业带（区）为水果和灌溉农业区。

②西部高原、山区、盆地属于高原山地气候和温带大陆性气候，农业带（区）为畜牧和灌溉农业区。

③东南沿海地区属于亚热带湿润气候，气温较高，降水丰沛，农业带（区）为亚热带作物带。

④中部平原属于温带大陆性气候和亚热带湿润气候，年温差自南向北逐渐增大，降水自东向西逐渐减少，是美国最主要的农业区，农业带（区）有小麦区、乳畜带、玉米带、棉花带、混合农业区等。

（2）美国三大工业区的发展条件、工业部门及工业中心

工业区	发展条件	工业部门	工业中心
东北部工业区	开发最早，煤、铁丰富，交通便利	能源、钢铁、机械、化工等	纽约、芝加哥、匹兹堡、底特律等
南部工业区	“阳光地带”，墨西哥湾沿岸地区石油丰富	石油、宇航、电子等	休斯敦等
西部工业区	环境优美、高等院校和科研机构众多	宇航、信息技术、电子等	圣弗朗西斯科（旧金山）、洛杉矶、西雅图

2. 巴西

（1）巴西的位置及自然特征

位置	半球位置	主要位于南半球、西半球
	海陆位置	位于南美洲东部、东临大西洋，是个海陆兼备的国家
	纬度位置	大部分国土位于赤道和南回归线之间，是世界上热带面积辽阔的国家
地形		以平原、高原为主，北部有亚马孙平原、南部有巴西高原
气候		以热带雨林气候和热带草原气候为主

（2）发展中的工农业

工业：钢铁、汽车、飞机制造等跻身于世界重要生产国行列。

农业：咖啡、甘蔗、柑橘等农产品的产量居世界首位。

（3）热带雨林的开发与保护

对待亚马孙热带雨林，我们应持开发与保护并存的态度，树立人、环境、经济、社会相协调的可持续发展观念。

关注微信公众号“教辅资料站”获取更多学习资料

好题必练 · 练真题 ☞(答案见100页)

1.（中考 · 辽阳）根据如图分析判断，下列关于美国的叙述，正确的是(　　)

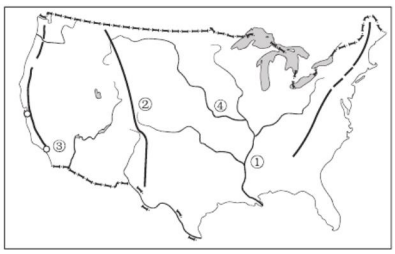

图1

A. ①是世界第四长河——亚马孙河
B. ②是纵贯南北的阿巴拉契亚山脉
C. ③城市附近有美国规模最大的高新技术产业中心——硅谷
D. 按美国农业带的划分，④处应该是玉米带

2.（中考 · 赤峰）有关美国的说法不正确的是(　　)
A. 美国本土位于太平洋和大西洋之间
B. 圣劳伦斯河和五大湖为美国的灌溉、航运提供了良好的条件
C. 移民是美国人口增长较快的主要原因
D. 位于旧金山东南的“硅谷”是美国兴起最早、规模最大的高新技术产业中心

3.（中考 · 鸡西）美国国旗上50个州，其中有极昼极夜现象的是(　　)
A. 夏威夷州　　B. 佛罗里达州
C. 加利福尼亚州　　D. 阿拉斯加州

（中考 · 日照）读美国本土示意图，回答4、5题。

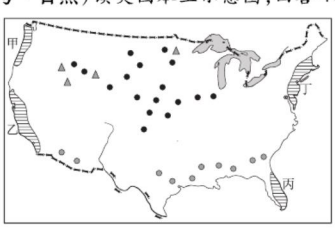

图2

4. 高新技术产业中心“硅谷”位于(　　)
A. 甲地　　B. 乙地　　C. 丙地　　D. 丁地

5. 图中○●△代表三种农作物，分别是(　　)
A. 棉花、小麦、甜菜　　B. 小麦、蔬菜、水稻
C. 大豆、棉花、蔬菜　　D. 甜菜、烟草、花卉

6.（中考 · 娄底）去旧金山的游客，可以(　　)
A. 欣赏黄石国家公园“老忠实泉”的喷发
B. 领略科罗拉多大峡谷的幽深、壮美和险峻
C. 参观世界闻名的高新技术产业区“硅谷”
D. 乘船游览风景如画的密西西比河风光

7.（中考 · 济宁）读巴西简图，下列叙述正确的是(　　)

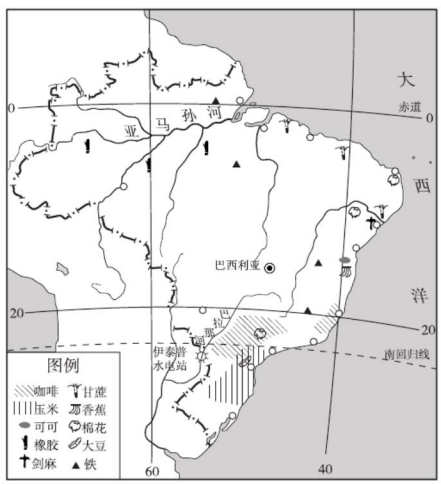

图3

A. 亚马孙河流量大，落差小，航运价值大
B. 亚马孙河流域是巴西主要农业区
C. 矿产资源种类多，主要分布在巴西高原
D. 城市、人口主要分布在太平洋沿岸

（中考 · 株洲）亚马孙河流域气候湿热，森林茂密，拥有世界上面积最大的热带雨林，产生的氧气占地球总氧量的1/3，被称为“地球之肺”；该地区人烟稀少。结合所学知识回答8～10题。

8. 亚马孙热带雨林被称为“地球之肺”主要是指(　　)
A. 保持水土　　B. 释放氧气
C. 物种丰富　　D. 涵养水源

9. 亚马孙河流域人烟稀少的主要原因是(　　)
A. 气候湿热，不利于人类生存
B. 地形崎岖，交通不便
C. 旱涝频繁，农业落后
D. 资源不足，工业欠发达

10. 合理开发和保护亚马孙热带雨林措施得当的是(　　)
A. 毁林开荒，发展农业
B. 采育结合，多种经营
C. 封山育林，禁止开放
D. 招商引资，大力采伐

关注微信公众号“教辅资料站”获取更多学习资料

填图学地理 ☞（答案见 100 页）

1. 读美国本土图，回答下列问题。

（1）在图中相应位置填入太平洋、墨西哥湾、密西西比河、加拿大、墨西哥、华盛顿、落基山脉的名称。

（2）根据提示，把图中内容补充完整。

这里是_____（温度带），地势_____，土壤_____，春夏气温高，适合_____（农作物）生长，为_____（农业带）。

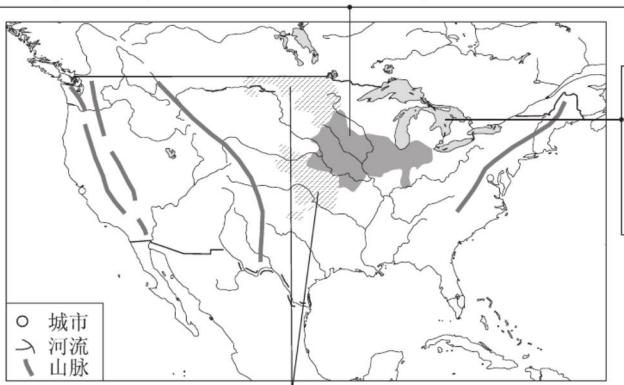

五大湖是世界最大的_____（填“咸”或“淡”）水湖群。各湖湖水有水道相通，并通过_____河流入大西洋。

这里是_____（农业区），有_____河为其灌溉提供了良好的条件。

2. 根据提示，把图中内容补充完整。

该国面积居南美洲第____位，其领土大部分位于_____带，气候_____，地形_____。该国的特色文化有_____、_____。



该河为_____河，流经巴西_____部，是世界上_____最广、_____最大的河流。该河流域分布着地球上面积最大的_____（植被），该植被的破坏会造成_____加剧、_____锐减等环境问题。

温馨提示

为了加强对地图的认知，呈现更好的视觉效果，在图上填写时可以用不同颜色的笔哦！

关注微信公众号“教辅资料站”获取更多学习资料

第十章 极地地区

点要点 · 拨疑难

核心笔记

1. 独特的自然环境

	北极地区	南极地区
位置	主要位于北极圈以北	主要位于南极圈以南
范围	包括北冰洋大部分及其周边的亚、欧、北美三洲部分地区	包括南极洲及其周边的海域
地表特征	以海洋为主	以陆地为主
气候	寒冷、干燥，不如南极冷	是地球上最冷的地区，气候严寒；是地球上降水最少的地区之一，被称为“白色荒漠”；是地球上风力最大的地区，被称为“风库”
代表动物	北极熊	企鹅

2. 科学考察的宝地

(1)我国极地科学考察站

①南极地区：长城站、中山站、昆仑站、泰山站。

②北极地区：黄河站。

(2)自然资源

①南极地区

矿产资源：石油、煤、铁等。

淡水资源：世界最大的淡水资源宝库，以固体淡水形式存在。

生物资源：鲸、磷虾、企鹅等。

②北极地区

矿产资源：石油、天然气等。

生物资源：北极熊、海豹、海狮等。

3. 极地地区的环境保护

南极地区——《南极条约》。

北极地区——《北极环境保护战略》。

释疑解惑

南极地区比北极地区气候严寒的原因

南极地区是世界上最寒冷的地区。南极地区以陆地为主，平均海拔居世界七大洲之首，而北极地区以海洋为主，海拔低。受海陆因素的影响，南极地区比北极地区寒冷。另外，南极地区的暴风，大面积的冰面对太阳光具有反射作用，也导致南极地区比北极地区冷得多，如图所示：

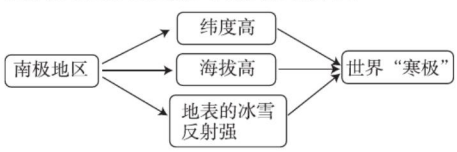

图 10-1

易误警示

我国在南极的科考站并不全部有极昼极夜现象

我国在南极地区有四个考察站，长城站距离南极较远，位于南温带，没有极昼极夜现象，其他三个考察站位于南寒带，有极昼极夜现象。

基础全练 (答案见 100 页)

知识点一 两地区的自然环境

1. 两极地区共有的自然地理特征是(　　)

A. 以陆地为主　　B. 冰雪覆盖

C. 纬度较低　　D. 气候类型多样

读南极洲示意图(图 10-2)，回答 2 题。

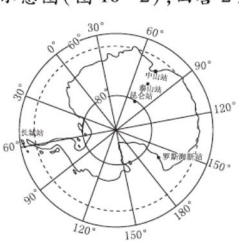

图 10-2

2. 关于南极洲的表述，下列说法不正确的是(　　)

A. 是世界上面积最大的洲

B. 是世界上平均气温最低的大洲

C. 是世界上平均海拔最高的大洲

D. 是世界上濒临三大洋的大洲

3. 假如一艘轮船从长城站出发，按顺时针方向环绕南极洲一圈。某乘客观察到的现象与事实相符的是(　　)

A. 轮船依次经过了太平洋—印度洋—大西洋

B. 为了采光，长城站的门窗朝向南，中山站的门窗朝向北

C. 当地土著居民——因纽特人居住的房屋为雪屋

D. 沿岸很多地方可见成群聚集的企鹅

关注微信公众号“教辅资料站”获取更多学习资料

4. 有关两极地区的说法,正确的是(　　)
A. 南极中心是海洋,北极中心是陆地
B. 南极地区降水多,北极地区降水少
C. 南极的"主人"是企鹅,北极的"主人"是北极熊
D. 南极地区矿产资源丰富,北极地区矿产资源贫乏

5. 下列关于南极地区的说法中错误的是(　　)
A. 被称为"白色荒漠"
B. 淡水资源储藏丰富
C. 是地球上最冷的地区
D. 代表动物是北极熊

知识点二　科学考察的宝地

某同学在网上搜索到我国北极科考站——黄河站的位置为(78°55′N,11°21′E),结合图10-3,回答6、7题。

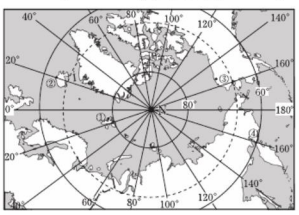

图10-3

6. 黄河站位于图中的(　　)
A. ①地　　B. ②地　　C. ③地　　D. ④地

7. 关于黄河站的叙述错误的是(　　)
A. 位于太平洋板块
B. 有极昼极夜现象
C. 附近海域可见北极熊
D. 北半球夏季是科考的最佳时期

8. 下列做法正确的是(　　)
A. 在南极周围大洋中大量捕杀鲸以获取经济价值
B. 为了减少负重,在南极考察时把塑料袋等垃圾扔掉
C. 由于南极地区没有常住居民,可以把核废料深埋地下
D. 为了保护南极地区的环境,目前不可以开采南极洲丰富的矿产资源

知识点三　极地地区的环境保护

9. (**中考·东营**)酷寒、烈风,神秘的南极,吸引了全世界的目光。下列关于南极地区的叙述,正确的是(　)
A. 南极地区比北极地区年平均气温高
B. 气候干燥,淡水资源缺乏
C. 为保护南极环境,科学考察人员应把垃圾带回处理
D. 为了经济发展,应大力开采南极的矿产资源

培优精练 ☞(答案见100页)

读图10-4,回答1、2题。



图10-4

1. 企鹅皮下有一层厚厚的脂肪,它适应的环境是(　　)
A. 高温　　B. 严寒　　C. 温暖　　D. 潮湿

2. 下列关于南极地区的叙述,正确的是(　　)
A. 南极地区气候酷寒、无风、降水多
B. 南极洲是世界上平均海拔最低的大洲
C. 南极洲是世界上淡水资源最贫乏的大洲
D. 矿产资源丰富

3. 南极地区有世界"寒极"之称,其酷寒的原因是(　　)
①南极洲跨经度广　②南极洲的纬度高　③南极洲是冰雪覆盖的高原　④南极洲海岸线平直,受海洋影响小
A. ①②　　B. ②③　　C. ③④　　D. ①④

4. 到北极地区去的人不仅比南极地区多,而且北极地区很多陆地上还有人定居。主要原因是(　　)
A. 北极地区空气污染小
B. 北极地区比南极地区温暖、风小
C. 北极地区冰山更多,淡水资源丰富
D. 北极地区没有极昼、极夜现象

5. 下列对南极地区开发利用的做法,正确的是(　　)
A. 建设居民点,大量移民
B. 赴南极地区旅游,生活垃圾随手丢弃
C. 大量捕杀鲸鱼,丰富食物来源
D. 各国加强合作,珍惜、保护南极环境

(**中考·江西**)2018年2月,中国第五个南极科考站——罗斯海新站在难言岛奠基。读中国南极科考站分布图,完成6~8题。

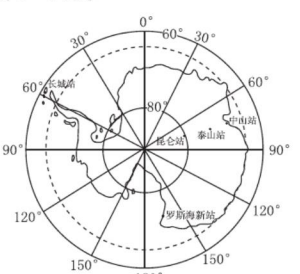

图10-5

关注微信公众号"教辅资料站"获取更多学习资料

6. 罗斯海新站濒临(　　)

A. 太平洋　　B. 大西洋

C. 印度洋　　D. 北冰洋

7. 南极科考站建设一般选择在1－2月份进行,因为期间(　　)

A. 食物充足　　B. 水源丰富

C. 对环境破坏小　　D. 气温高、白昼长

8. 人类对极地进行科学考察,目的是(　　)

A. 便于开采地下矿产

B. 捕获更多的极地动物

C. 更好地保护地球环境

D. 为向南极大陆移民做准备

9. (**中考·湘西**)下列关于两极地区描述正确的是(　　)

A. 北极中心是陆地,南极中心是海洋

B. 北极特有动物是北极熊,南极特有动物是企鹅

C. 两极地区酷热、多狂风、气候湿润

D. 我国在南北极点均建有科学考察站

10. 阅读材料,回答问题。

材料一　南极地区略图(图10－6)。

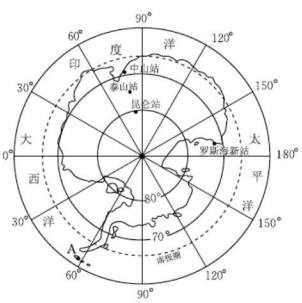

图10－6

材料二　2018年2月7日,中国第34次南极考察队在南极罗斯海恩克斯堡岛举行了我国第五座南极考察站选址奠基仪式。在此区域建设新站,旨在积极参与极地全球治理,深入开展南极科学研究。

材料三　小明的爸爸是一位中国科学家,接到赴南极科考的任务,在考察南极地区最理想的时期出发了,原定陪小明参加的亲子活动被迫取消。

(1)图中字母A代表的科考站是_____。

(2)爸爸不能陪伴小明一起参加_____("寒假"或"暑假")亲子活动。

(3)泰山站在南极点的_____方向。

(4)爸爸给小明出示的照片中(图10－7),拍摄于南极地区的是(　　)



A　　B

C　　D

图10－7

(5)下列气候资料(图10－8),与南极地区相符合的是(　　)

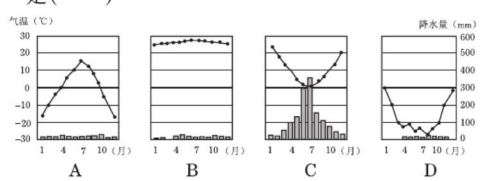

图10－8

本章知识结构·理脉络

- 极地地区
  - 独特的自然环境
    - 南极地区
      - 位置、范围
      - 自然环境:"冰雪高原""白色荒漠""风库"
    - 北极地区
      - 位置、范围
      - 自然环境:不像南极地区那么严寒,降水量比南极地区高得多
  - 科学考察的宝地
    - 极地地区资源
      - 生物资源种类、分布
      - 矿产资源种类、分布
    - 我国的科学考察站:长城站、中山站、昆仑站、泰山站、黄河站
  - 极地地区的环境保护
    - 生物多样性遭破坏、海洋生态环境遭破坏
    - 保护:《南极条约》《北极环境保护战略》

关注微信公众号"教辅资料站"获取更多学习资料

填图学地理 ☞(答案见100页)

读下面两图,回答下列问题。

(1)在横线上填注“南极地区”和“北极地区”。

(2)在图中相应位置写出南极地区和北极地区周围濒临的海洋,并在南极地区图中画出地球自转方向。

(3)在图中方框内写出我国极地地区的科考站名称。

(4)将极地地区的代表动物与所对应的图连线。

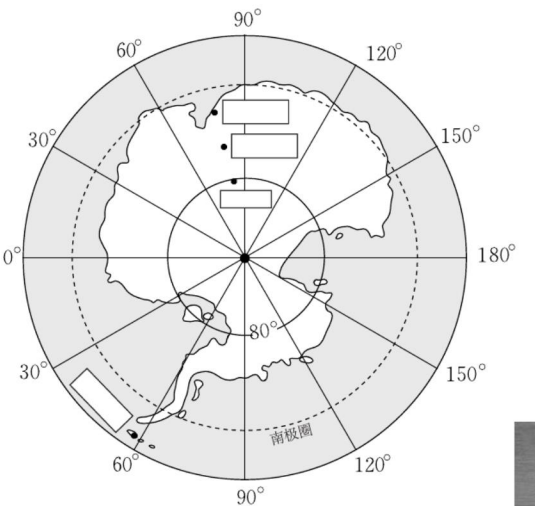





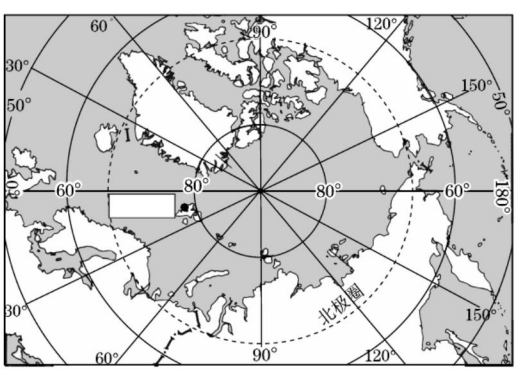

温馨提示

为了加强对地图的认知,呈现更好的视觉效果,在图上填写时可以用不同颜色的笔哦!

关注微信公众号“教辅资料站”获取更多学习资料

第六章达标检测卷 (时间:45 分钟 满分:100 分)

题 号	一	二	总 分
得 分			

姓名 学号 班级 学校

一、选择题(每题 3 分,共 54 分)

读下列大洲轮廓图(图 6-1),完成 1~3 题。



图 6-1

1. 与亚洲组成世界最大大陆的大洲是(　　)
A. ①　　B. ②　　C. ③　　D. ④

2. 与亚洲以运河为界的大洲是(　　)
A. ①　　B. ②　　C. ③　　D. ④

3. 与亚洲所跨温度带一致的大洲是(　　)
A. ①　　B. ②　　C. ③　　D. ④

4. 下列事实不能证明亚洲是"世界第一大洲"的是(　　)
A. 面积最大　　B. 跨经度最广　　C. 跨纬度最广　　D. 东西距离最长

5. 沙特阿拉伯、科威特、伊拉克、伊朗等都是世界著名的石油生产国和出口国。这些国家位于下列地区中的(　　)
A. 东亚　　B. 西亚　　C. 南亚　　D. 北亚

6. 李明暑假期间去探望在沙特阿拉伯工作的爸爸,他发现该国许多民居是平顶的,你认为主要原因是(　　)
A. 气温高　　B. 人们的风俗　　C. 风力较大　　D. 降水较少

7. 下列关于亚洲地域与文化的说法,正确的是(　　)
A. 西伯利亚的传统民居是吊脚楼　　B. 菲律宾人身着皮衣皮帽,服饰以黑色为主
C. 阿拉伯人居住帐篷,运输工具是狗拉雪橇　　D. 春节是中国的传统节日

8. 下列关于亚洲的叙述,错误的是(　　)
A. 面积最大的洲　　B. 地形以平原、盆地为主
C. 东部和南部季风气候显著　　D. 受地形的影响,多数河流呈放射状流向周边海洋

9. 下列地理事物中,属于亚洲的一组是(　　)
A. 青藏高原、巴西高原　　B. 阿拉伯半岛、马来群岛
C. 五大淡水湖、死海　　D. 亚马孙平原、西西伯利亚平原

10. 关于亚洲自然地理特征的叙述,正确的是(　　)
A. 大河都发源于中部高原、山地地带,流入太平洋和印度洋
B. 季风气候最典型、最集中,包括热带、亚热带和温带三种季风气候
C. 地形以高原、高山为主,平均海拔居各大洲之首
D. 湖泊分布广泛,淡水湖面积居世界之首

11. 有关亚洲河流叙述,正确的是(　　)
A. 亚洲河流多自西向东流　　B. 亚洲河流多短小湍急
C. 亚洲河流普遍结冰期长　　D. 亚洲东部河流冬夏水位变化大

12. 亚洲南部三大半岛从东向西依次是(　　)
A. 中南半岛、印度半岛、阿拉伯半岛　　B. 中南半岛、阿拉伯半岛、印度半岛
C. 阿拉伯半岛、中南半岛、印度半岛　　D. 印度半岛、阿拉伯半岛、中南半岛

图 6-2 为亚洲大陆沿北纬 30°的地形剖面图,据此回答 13 题。

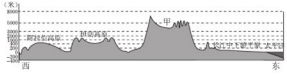

图 6-2

13. 关于甲地区的叙述,正确的是(　　)
A. 气候为温带大陆性气候　　B. 多条大河的发源地
C. 位于板块内部,地壳稳定　　D. 农业以种植业为主

14. 下列关于亚洲和北美洲的叙述,正确的是(　　)
A. 都是北温带面积广大　　B. 都是北寒带面积广大
C. 亚洲跨北寒带、北温带、热带,北美洲缺少热带　　D. 都跨东、西、南、北四个半球

15. 关于亚洲自然地理特征叙述,正确的是(　　)
A. 跨经度最广,东西距离最长
B. 湖泊众多,拥有世界上面积最大的淡水湖
C. 东部和南部夏季的降水与夏季风的强弱有密切的关系
D. 中部地区受地形因素的影响,形成典型的温带大陆性气候

16. 在亚洲,有的地方终年炎热,有的地方长冬无夏,有的地方雨水丰沛,有的地方常年干旱……这些都说明亚洲范围广,各地气候差异大。下面有关亚洲气候差异的说法,正确的是(　　)
A. 亚洲东部和西部均分布有热带季风气候
B. 季风气候各月降水均匀,一般没有旱涝灾害
C. 北回归线穿过的亚洲地区有三种气候类型
D. 亚洲地势中部高,四周低,所以亚洲中部降水最多

17. 比较雅库茨克和孟买两地气温的情况(图 6-3),分析造成两地气温差异的主要原因是(　　)
A. 海陆位置
B. 纬度位置
C. 地形因素
D. 人类活动

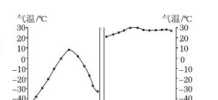

图 6-3

关注微信公众号"教辅资料站"获取更多学习资料

18. 比较哈尔滨和乌兰巴托两地降水的情况(图 6－4)，分析造成两地降水差异的原因是(　　)

A. 纬度位置

B. 海陆位置

C. 人类活动

D. 地形因素

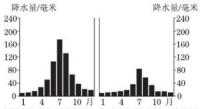

图 6－4

二、综合题(19 题 15 分，20 题 21 分，21 题 10 分，共 46 分)

19. 读图 6－5，完成亚洲和北美洲位置对比表格。

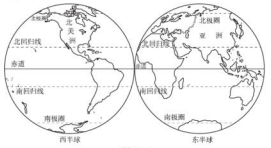

图 6－5

比较项目	亚洲	北美洲
东西半球中的位置		
南北半球中的位置		
濒临的大洋		
邻近的大洋		
所跨温度带		

20. 亚洲是世界上面积最大、人口最多的大洲，读亚洲图，回答下列问题。

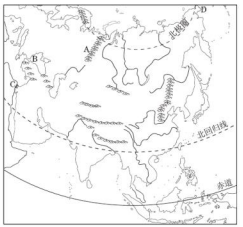

图 6－6

(1)写出亚洲与其他大洲的分界线名称。

A _____山脉，B _____海峡，C _____运河，D _____海峡。

(2)亚洲的地势特征是_____，该特征对于亚洲河流的影响是_____。

(3)亚洲东部、东南部地区主要分布着_____人种，南部、西部主要分布着_____人种。

(4)请你分析亚洲东部和南部地区季风气候显著的原因。

(5)请你从地理位置和气候方面分析亚洲西部人口稀疏的原因。

21. 读亚洲简图(图 6－7)，完成下列问题。

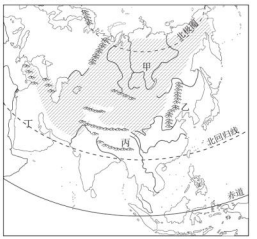

图 6－7

(1)亚洲的大陆部分与_____洲的大陆部分组成了世界上最大的大陆，亚洲和非洲的分界线是_____运河。

(2)图中乙位于_____平原，丙位于_____高原，丁位于_____半岛。

(3)图中阴影区大部分属于温带大陆性气候，下列_____图(图 6－8)基本反映了这种气候类型的气温和降水的年变化状况。

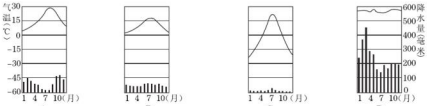

图 6－8

(4)甲、乙、丙、丁四地，在一年中自然景观变化最小的是(　　)

A. 甲　　B. 乙　　C. 丙　　D. 丁

荣德基 品质教辅

关注微信公众号“教辅资料站”获取更多学习资料

第七章达标检测卷 (时间:45 分钟 满分:100 分)

题 号	一	二	总 分
得 分			

姓名 学号 班级 学校

一、选择题(每题 3 分,共 54 分)

1. 有关日本的叙述,正确的是(　　)
A. 海岸线漫长,多优良港口　　B. 矿产资源丰富,对外贸易发达
C. 耕地面积狭小,农业生产水平不高　　D. 工业发达,但工业产品的国际竞争力不强

2. 日本经济对外依赖严重,主要原因是(　　)
A. 经济快速发展,原料和燃料需求量大　　B. 地形以山地、丘陵为主,平原主要分布在沿海地区
C. 矿产资源贫乏,国内市场狭小　　D. 位于板块交界处,多火山、地震

3. 下列关于日本的叙述,正确的是(　　)
A. 兼有东西方文化的特色　　B. 自然资源丰富,经济发达
C. 农产品大量出口　　D. 位于板块内部,火山、地震活动较少

4. 小明今年去了日本旅游,下面是他对日本之行的描述,哪一项是不真实的(　　)
A. 享受美味生鱼片　　B. 到热带雨林探险
C. 游富士山、泡温泉　　D. 观赏樱花

5. 东南亚的交通位置十分重要,主要咽喉要道是图 7-1 中的_____海峡(　　)



图 7-1

A. 甲　　B. 乙　　C. 丙　　D. 丁

图 7-2 是中南半岛部分区水稻分布图。据图回答 6,7 题。

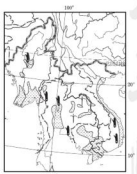

图 7-2

6. 据图归纳水稻的分布特点,最合理的是(　　)
A. 分布在沿海地区　　B. 分布在内陆地区
C. 分布在河流沿岸　　D. 整体分散,局部集中

7. 水稻的生长需要高温多雨的环境。图中能够支持水稻在该地区大面积种植的信息是(　　)
①海陆兼备的地理位置　②地处北回归线和赤道之间　③有热带经济作物甘蔗和椰子分布　④北高南低的地势特点
A. ①③　　B. ①④
C. ②③　　D. ②④

8. 小明计划去东南亚旅游,以下景点中,他不可能见到的是(　　)
A. 缅甸仰光的大金塔　　B. 越南的下龙湾　　C. 印度的泰姬陵　　D. 花园城市——新加坡

9. 下列关于东南亚地区的说法,错误的是(　　)
A. 是世界上最大的热带经济作物生产基地之一　　B. 新加坡是东南亚的新兴工业国
C. 马来群岛主要的气候类型为热带季风气候　　D. 东南亚地区的矿产以锡和石油最为著名

10. 关于印度的叙述,正确的是(　　)
A. 亚洲面积最大的国家　　B. 是世界著名的服务外包产业基地
C. 世界耕地面积最大的国家　　D. 亚洲人口最多的国家

11. 关于印度气候特征的叙述,正确的是(　　)
A. 降水主要集中在 10 月到次年的 5 月　　B. 降水主要集中在 6~9 月,此时盛行西南季风
C. 夏季多吹东北风,降水多　　D. 夏季高温多雨,冬季温和少雨

12. 目前,印度每年承接全球服务外包市场近一半的业务,被形象地称为(　　)
A. 世界加油站　　B. 世界工厂　　C. 世界办公室　　D. 世界原料仓库

读俄罗斯境内 60°N 地形剖面图(图 7-3),并结合所学知识,完成 13、14 题。

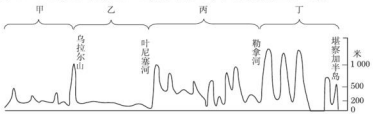

图 7-3

13. 图中乙区域地形以(　　)
A. 高原为主　　B. 平原为主　　C. 山地为主　　D. 丘陵为主

14. 俄罗斯的政治、文化中心分布在图示(　　)
A. 甲区域的中部　　B. 乙区域的中部　　C. 丙区域的中部　　D. 丁区域的中部

俄罗斯是一个资源大国,又是中国的友好邻邦,中俄两国商贸往来频繁。读俄罗斯矿产、工业、交通分布图(图 7-4),完成 15、16 题。

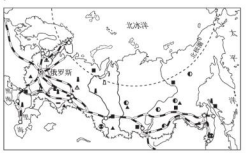

图 7-4

15. 乌拉尔山脉及其附近地区的石油、煤、铁、有色金属等资源十分丰富,使乌拉尔工业区成为俄罗斯重要的(　　)
A. 钢铁、机械工业基地　　B. 航空航天工业基地　　C. 造船工业基地　　D. 电子工业基地

16. 在中俄能源合作项目中,涉及的资源最可能是(　　)
A. 煤炭、铁矿　　B. 煤炭、水能　　C. 石油、天然气　　D. 金矿、铜矿

关注微信公众号“教辅资料站”获取更多学习资料

读俄罗斯交通分布图，回答17、18题。



图7-5

17. 下列有关俄罗斯的叙述，正确的是(　　)
A. 俄罗斯是地跨亚、非两洲的国家
B. 俄罗斯是世界上陆地面积最大的国家
C. 俄罗斯的首都是圣彼得堡
D. 俄罗斯大多数的河流自北往南流

18. 俄罗斯交通分布的主要特点是(　　)
①在欧洲部分主要以莫斯科为中心，呈放射状分布
②在亚洲部分主要分布在南部地区
③输油(气)管线主要呈南北分布
④摩尔曼斯克港位于太平洋沿岸
A. ①②　　B. ②③　　C. ③④　　D. ①④

二、综合题(19题10分，20题11分，21题12分，22题13分，共46分)

19. 读图7-6，完成下列问题。


图7-6

(1)写出下列工业中心和港口的名称：
①_____，②_____，③_____。
(2)主要工业区分布：④_____沿岸，⑤_____沿岸。
(3)日本工业临海分布，是为了方便进口_____和_____，出口_____。
(4)日本著名的山峰_____山是本国的象征，日本传统的服装是_____。
(5)日本工业集中分布所产生的最主要的问题是(　　)
A. 城市交通拥挤　　B. 粮食供应紧张
C. 环境污染严重　　D. 一些城市失业人口激增
(6)日本多火山、地震是因为日本位于_____板块和_____板块的交界处。

20. 读图7-7，回答下列问题。

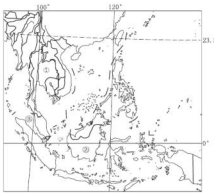
图7-7

(1)东南亚包括①_____半岛和②_____群岛的大部分。
(2)东南亚的地理位置重要，位于该地区的③_____海峡沟通了印度洋和太平洋。
(3)东南亚国家中有“火山国”之称的是_____，有“花园城市”之称的是_____。
(4)东南亚是世界上华人和华侨最集中的地区，其祖籍大多是我国广东、_____两省。

21. 下面两幅照片分别为某国街头常见景观(图7-8)和南部某次暴雨引发的洪水灾害图(图7-9)。读图，回答下列问题。


图7-8


图7-9

(1)根据图片所提供的信息，图示国家的首都是_____。
(2)该国国土面积不足我国的1/3，耕地面积却是我国的1.3倍，主要原因是什么？

(3)该国耕地面积广大，但粮食生产很不稳定，其主要原因是什么？

(4)近几年，该国高科技产业发展迅速，其中_____已成为世界第二大产业基地。有该国“硅谷”之称的工业中心是_____。

22. 读世界部分区域示意图(图7-10)，回答下列问题。
(1)图中A山脉是_____，它位于_____两大洲的分界线上。
(2)俄罗斯平原面积广大，但粮食仍需大量进口。从气候条件看，主要原因是_____。
(3)图中①②③④为俄罗斯四大工业区，其建立的基础是_____。
(4)俄罗斯的政治、经济、交通中心是_____。
(5)图中哈萨克斯坦降水较少，其主要原因是_____。
(6)我国从哈萨克斯坦进口的石油资源，采用的运输方式主要是_____。

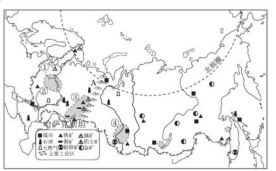
图7-10

荣德基 品质教辅

关注微信公众号“教辅资料站”获取更多学习资料

期中达标检测卷 (时间:60 分钟　满分:100 分)

题　号	一	二	总　分
得　分			

姓名　学号　班级　学校

一、选择题(每题 3 分,共 54 分)

读亚洲河流、气候分布图(图 Z-1),回答 1、2 题。

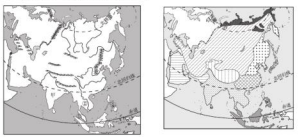

图 Z-1

1. 某中学地理兴趣小组成员,认真研究了两幅图,从中获得了一些地理信息,其中正确的有(　　)
①赤道横穿亚洲东南部　②亚洲濒临北冰洋、太平洋、印度洋、大西洋　③亚洲地势中部高、四周低　④亚洲气候复杂多样,具有世界上所有的气候类型　⑤亚洲的大河都发源于中部山地,注入太平洋和印度洋　⑥亚洲分布范围最广的是温带大陆性气候
A. ①③④　　B. ①③⑥　　C. ②③④　　D. ①③⑤⑥

2. 下列有关图中地理事物的叙述,错误的是(　　)
A. ①处为马六甲海峡,是世界上重要的海上通道
B. 甲国大部分地区属热带季风气候,6 月份受西南季风影响,为雨季
C. 中南半岛山河相间,②湄公河是东南亚最大的河流
D. 在乙地区观光,随处可见柑橘、橄榄树

3. 下列关于亚洲说法正确的是(　　)
A. 亚洲地形以平原为主,高原和山地面积较小　B. 西亚、南亚和东南亚三处是亚洲人口最稠密的地区
C. 亚洲西南部的阿拉伯半岛是热带沙漠气候　D. 河湖众多,拥有世界上面积最大的淡水湖和最长的河流

4. 下列关于日本的叙述,正确的是(　　)
A. 在太平洋沿岸工业分布集中　B. 地形以平原为主
C. 人口稀少的岛国　D. 矿产资源丰富

5. 下列有关日本自然地理特征的叙述,不正确的是(　　)
A. 东亚岛国　B. 地狭人稠　C. 火山众多　D. 资源丰富

6. 日本经济对外依赖性强,为使经济高速发展,应采取的措施是(　　)
A. 大力发展海上航运,大量进口工业制成品　B. 大量出口初级产品
C. 国内人口众多,积极开拓国内市场　D. 大力发展科学技术,出口高新技术产品

泰国是世界重要的稻米出口国,据泰国大米出口商协会表示,2018 年泰国大米出口量为 1 110 万吨。据此完成 7、8 题。

7. 泰国适宜水稻生长的气候环境是(　　)
A. 热带雨林气候　B. 热带草原气候　C. 热带季风气候　D. 亚热带季风气候

8. 泰国不仅大米出口量大,而且还是_____(热带经济作物)的最大生产国(　　)
A. 咖啡　B. 天然橡胶　C. 蕉麻　D. 椰子

9. 琳琳计划暑假与父母一起去东南亚旅游,为此搜集了许多该地区的资料,其中与事实不符的是(　　)
A. 是世界上天然橡胶、棕榈油、椰子和蕉麻的最大产地
B. 旅游业发展迅速,吴哥窟、巴厘岛是著名的旅游景点
C. 盛产水稻和小麦
D. 是海外华人和华侨分布最集中的地区

读图 Z-2,回答 10、11 题。



图 Z-2

10. 关于该国家的叙述,正确的是(　　)
A. 该国劳动力价格昂贵　B. 该国被称为"世界办公室"
C. 该国为热带雨林气候　D. 该国 1 月盛行西南季风

11. 影响该国农业生产的不利因素是(　　)
A. 热量不足　B. 水源不足　C. 低温冷害　D. 旱涝灾害

12. 下列叙述正确的是(　　)
A. 印度大部分地区地处温带　B. 俄罗斯自然资源种类齐全,储量丰富
C. 马来西亚是世界最大的椰子生产国　D. 东南亚地处亚洲与非洲、太平洋与印度洋之间的"十字路口"

13. 印度和中国的相似之处有(　　)
①人口众多,粮食需求量大　②都属于发展中国家　③高新技术产业已经居世界前列　④工业高度发达
A. ①②　　B. ①③　　C. ②③　　D. ②④

14. 去年暑假,有四位同学分别到亚洲四个不同的地点旅游,回校后他们各自描述了自己的所见所闻。你对他们的描述不可信的是(　　)
A. 甲:我到南亚的马来群岛欣赏了热带雨林景观　B. 乙:我赴日本泡了温泉
C. 丙:我到俄罗斯看到了许多中国产的玩具、服装等　D. 丁:我到了世界最高的高原青藏高原

15. 比较俄罗斯和日本,说法正确的是(　　)
A. 两国平原面积广大,农业发达　B. 俄罗斯人口稠密,日本地广人稀
C. 两国工业都集中分布在太平洋沿岸　D. 俄罗斯自然资源丰富,日本资源贫乏

经常读图和上网浏览世界各国民俗风情,能够学到很多的地理知识。读俄罗斯地形图(图 Z-3),完成 16、17 题。



图 Z-3

16. 有关俄罗斯地形的叙述,正确的是(　　)
A. 俄罗斯地形崎岖,以山地为主
B. 叶尼塞河是其重要的地形区分界线
C. 西伯利亚地区的地势北高南低
D. 乌拉尔山脉呈东西走向

关注微信公众号"教辅资料站"获取更多学习资料

17. 有关俄罗斯社会经济特征的叙述，正确的是(　　)

A. 轻、重工业都比较发达　　B. 人口集中在亚洲部分

C. 莫斯科只是该国的政治中心　　D. 农业不发达

18. 俄罗斯地大物博，资源丰富，是世界最大的能源出口国之一，被称为(　　)

A. 世界工厂　　B. 世界办公室　　C. 世界加油站　　D. 世界贸易中心

二、综合题(19 题 7 分，20 题 14 分，21 题 10 分，22 题 15 分，共 46 分)

19. 读图 Z-4，完成下列问题。

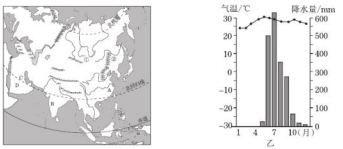

图 Z-4

(1)从图甲中提供的信息判断：亚洲的地势特点是_____，

你判断的依据是_____。

(2)图甲中 A、B、C 三地的气候特征与图乙相吻合的是_____地，该气候类型是_____，

气候特征是_____。

(3)图甲中①、②两地的降水有较大差异，造成该差异的主要因素是_____。

20. 读图 Z-5，回答下列问题。

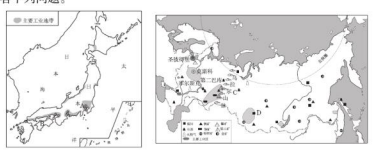

(1)首都 A 是_____，所在的工业区是_____图 Z-5；岛屿 B 是_____，本岛上的工业区位于_____沿岸；油田 C 是_____；煤田 D 位于_____工业区。

(2)俄罗斯的乌拉尔山脉是重要的地理分界线，试举一例。

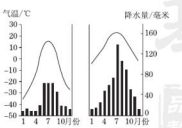

图 Z-6

(3)俄罗斯分布最广的气候类型是_____，对应图 Z-6 中的_____图。

(4)两国工业分布都不平衡，日本的工业集中分布在_____，俄罗斯的工业主要靠近_____产地。

(5)两国海岸线曲折漫长，日本海运发达，但俄罗斯的海运业在交通运输业中所占比重不高，其主要原因是_____。

21. 读图 Z-7，回答下列问题。

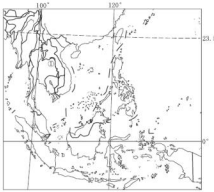

图 Z-7

(1)中南半岛位于_____以南而得名。

(2)东南亚流经国家最多的河流①是_____河，图中②是_____海峡。

(3)东南亚的气候特点是夏季_____，雨热同期，有利于_____(粮食作物)的生长。该地房屋屋顶坡度较_____。

(4)由图 Z-7 可知，中南半岛的地势特点是什么？请说出你的判断依据。

(5)请简要分析该地区多火山、地震的原因。

22. 读图 Z-8、图 Z-9，结合材料，回答问题。



图 Z-8

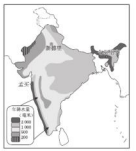

图 Z-9

水稻生长需要较高的热量和充足的水分。小麦喜温凉气候，比较耐旱。

(1)印度中部是_____平原，南部是_____高原，耕地面积广，为粮食生产提供了有利条件。

(2)印度年降水量大于 1 000 毫米的地区主要分布在_____部及西部沿海，丰沛的降水主要由_____(风向)季风带来。乞拉朋齐因地处山地_____(填"迎风坡"或"背风坡")，成为"世界雨极"。

(3)图 Z-8 中 A、B 地区，主要种植水稻的是_____地区，原因是_____。

(4)印度季风不稳定使得降水年际变化大，易造成_____灾害。

荣德基 品质教辅

关注微信公众号"教辅资料站"获取更多学习资料

第八章达标检测卷 (时间:45 分钟 满分:100 分)

题 号	一	二	总 分
得 分			

姓名 学号 班级 学校

一、选择题(每题 3 分,共 54 分)

读图 8-1,回答 1、2 题。

1. 图中①运河沟通的海洋是(　　)
A. 红海和地中海　　B. 黑海和里海
C. 印度洋和太平洋　　D. 红海和印度洋

2. 对图中字母所表示的地理事物描述,正确的是(　　)
A. ②海峡沟通了地中海和波斯湾
B. ③海峡处在重要能源输出航线上
C. ④是喜马拉雅山脉
D. ⑤河流是流入地中海的刚果河


图 8-1

下列地区和国家自然环境差异显著,历史文化、经济发展各不相同。据此回答 3、4 题。



图 8-2

3. 下列表述正确的是(　　)
A. 甲地区降水丰沛,山河相间　　B. 乙地区被称为“三洲五海之地”
C. 丙国主要位于寒带地区,长冬无夏　　D. 丁国被称为世界活化石博物馆

4. 对上述地区和国家经济发展的表述,正确的是(　　)
A. 甲地区重工业和航天工业发达　　B. 乙地区是世界热带经济作物生产基地
C. 丙国被称为“坐在矿车上的国家”　　D. 丁国是世界石油出口大国

5. 四位同学根据手中卡片内容的因果关系,将它们放入图 8-3 中的正确位置,其中选择③号方框的同学是(　　)



图 8-3



6. 被基督教、伊斯兰教、犹太教共同视为圣城的城市是(　　)
A. 罗马　　B. 巴格达　　C. 耶路撒冷　　D. 雅典

7. 关于欧洲西部的叙述,正确的是(　　)
A. 发展中国家集中的地区　　B. 国家众多、人口稀少的地区
C. 工业以制造业为主　　D. 大量进口机械、汽车、化学物品和食品的地区

李老师去年到欧洲进行了短期交流学习。据此回答 8、9 题。

8. 李老师发现欧洲人餐桌上主要是牛羊肉和乳产品等食物,与欧洲西部地区发达的畜牧业密切相关的气候类型是(　　)
A. 温带海洋性气候　　B. 温带季风气候　　C. 地中海气候　　D. 热带草原气候

9. 图 8-4 四张照片中,属于李老师在欧洲拍摄的是(　　)



图 8-4

A. ①②　　B. ①③　　C. ②③　　D. ②④

10. 欧洲西部工农业总产值占世界比重的 33.3%,对外贸易额约占世界比重的 50%。下列说法正确的是(　　)
A. 欧洲西部工业发达,对外贸易欠发达　　B. 欧洲西部工农业发达,对外贸易发达
C. 欧洲西部农业发达,对外贸易落后　　D. 欧洲西部工农业差别大,对外贸易发达

11. 撒哈拉以南非洲的经济特征是(　　)
A. 以农业为主的经济　　B. 以采矿业为主的经济
C. 以单一商品为主的经济　　D. 工农业发达的民族经济

12. 下列有关撒哈拉以南非洲的说法,不正确的是(　　)
A. 生活在非洲的黑种人都属于同一个部族,他们有着相同的语言、风俗习惯和原始的宗教
B. 非洲很多国家出口初级产品,进口工业制成品,在国际贸易中处于不利地位
C. 从 15 世纪起,欧洲殖民者相继入侵,掠夺黄金、象牙、香料
D. 由于人口增长加快,人们砍伐森林,开垦草原,加剧了土地荒漠化,使生态环境恶化

13. 下列关于非洲自然地理现象的说法,正确的是(　　)
A. 非洲最高的山峰是乞力马扎罗山　　B. 非洲地势西北高、东南低
C. 非洲地形以平原、山地为主　　D. 非洲最长的河流为刚果河

读非洲主要矿产分布图(图 8-5),完成 14、15 题。

14. 撒哈拉沙漠以北地区主要矿产资源有(　　)
A. 铁、铀　　B. 铜、黄金
C. 铝土、金刚石　　D. 石油、磷灰石

15. 埃塞俄比亚、尼日利亚、安哥拉和肯尼亚,这些国家的共同特点是(　　)
A. 工业很发达　　B. 气候很寒冷
C. 粮食能自给　　D. 是临海国家



图 8-5

关注微信公众号“教辅资料站”获取更多学习资料

16. 下列说法与澳大利亚不相符的是(　　)

A. 世界活火山博物馆　　B. “骑在羊背上的国家”

C. “坐在矿车上的国家”　　D. 独占整个大陆的国家

17. 澳大利亚被称为“骑在羊背上的国家”。读图 8－6,下列关于澳大利亚牧羊带的叙述,错误的是(　　)

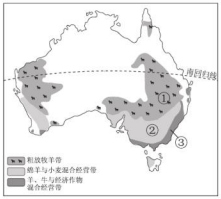

图 8－6

A. ①地区地下水丰富,人工草场广布,生产稳定

B. ②地区灌溉系统完善,多为人工草场

C. ③地区降水丰富,农牧场规模小,牧草产量高

D. 三个牧羊带的分布都与地形、气候因素密切相关

18. 澳大利亚是南半球经济发达的国家,它有(　　)

A. 现代化的养羊业和采矿业

B. 丰富的天然气和铁矿等资源

C. 袋鼠、大象等特有动物

D. 悉尼歌剧院、白金汉宫、大堡礁等旅游胜地

二、综合题(19 题 16 分,20 题 17 分,21 题 13 分,共 46 分)

19. 读欧洲西部地区图(图 8－7),回答下列问题。

走进欧洲西部,解密区域特征　欧洲西部分布的国家很多,区域地理有着许多共性特征,也存在着差异。

(1)英国与法国之间的海峡 A 是_____,法国与意大利之间的山脉 B 是_____。

(2)从位置上看,英国的纬度比法国的_____,英国位于法国的_____方向。

(3)从气候分析,英法两国共有的气候类型是_____,两国的农业在这种气候影响下,形成了以_____生产为主的特点,该农业生产的产值占本国农业产值的比重较高,其中英国在 70% 以上,法国略高于 50%。

(4)简要说明欧洲西部国家工业发展状况。



图 8－7

20. 读非洲主要物产图(图 8－8)和非洲草原景观图(图 8－9),回答下列问题。

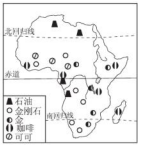

图 8－8



图 8－9

(1)撒哈拉以南非洲物产丰富,在南非高原上埋藏有丰富的_____和_____。(矿产资源)

(2)东非高原有“天然野生动物园”之称,吸引着来自世界各地的游客前来观光,请你列举生活在该地区的野生动物:_____(至少 4 种)。

(3)非洲是世界上经济发展水平最低的大洲,其根本原因是_____。

由图可知,非洲发展经济的有利因素是_____。

(4)长期以来,非洲许多国家过分依赖某一种或几种产品出口,利润低,价格波动大,在国际贸易中处于不利地位。你认为应该采取哪些措施来改变这种状况?

21. 读澳大利亚地形分布图(图 8－10),回答下列问题。

(1)从图中可以看出,_____(纬线)穿过澳大利亚中部。澳大利亚西部是_____洋,东部是_____洋,从东西半球来看,澳大利亚位于_____半球。

(2)从图中可以看出,澳大利亚西部为低矮的_____,中部是大面积的_____,这里有世界著名的_____盆地,_____丰富,地势最低处在_____湖,东部地形为_____。

(3)澳大利亚是_____洲中面积最大的国家。因为有很多古老的原始生物,所以澳大利亚被称为“_____”。

由于矿产品出口额在出口总额中占有很大的比例,有人又称澳大利亚是“_____”。

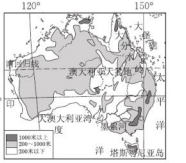

图 8－10

关注微信公众号“教辅资料站”获取更多学习资料

第九、十章达标检测卷 (时间:45 分钟　满分:100 分)

题　号	一	二	总　分
得　分			

姓名　学号　班级　学校

一、选择题(每题 3 分,共 54 分)

1. 关于美国地理位置的描述,正确的是(　　)
A. 位于北美洲北部　　B. 大部分位于低纬度地区
C. 东临大西洋,西临太平洋　　D. 是北美洲面积最大的国家

2. 下列有关美国的叙述,正确的是(　　)
①领土由本土和两个海外州组成　②是世界上出口粮食最多的国家　③居民中黑人移民的后裔最多　④首都是纽约
A. ①②　　B. ①③　　C. ②③　　D. ③④

3. "瑞典人将用原木搭建小屋的方法传到美国;荷兰人带来了牲畜新品种和制酪技术;英格兰人和苏格兰人带来了种植马铃薯的方法;地道的美国式谷仓,最初却是德国人制造的;两种牧草胡枝子和葛藤,是从亚洲传入的;大豆来自中国;意大利人带来了葡萄;日本人影响了美国的蔬菜种植……"这段文字说明了(　　)
A. 美国是世界上最大的移民国家　　B. 美国是世界上经济最发达的国家
C. 美国是一个多民族国家　　D. 美国是一个文明古国

美国被称为"龙卷风之乡",美国龙卷风走廊(如图 10-1)平均每年形成 1 000 次龙卷风,这里龙卷风多发与其所处的地理位置和地形有关。每年春季,当来自落基山脉的干燥冷空气经过这一走廊时,与来自墨西哥湾沿岸的潮湿热空气相遇,龙卷风便如期而至。据此回答 4 题。



图 10-1



4. 美国龙卷风走廊的地形主要为(　　)
A. 高原　　B. 山地
C. 平原　　D. 丘陵

5. 下列关于美国的叙述,正确的是(　　)
A. 是热带面积广大的国家　　B. 有世界第三长河密西西比河
C. 是世界最大的资源消耗国　　D. 首都是芝加哥

美国本土三面濒临海洋,地理位置优越。读美国本土简图(图 10-2),回答 6~8 题。

6. 关于图中的地理事物,正确的是(　　)
A. ①城市——休斯敦
B. ②湖泊——苏必利尔湖
C. ③河流——科罗拉多河
D. ④国家——墨西哥

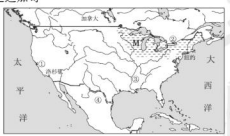

图 10-2

7. 图中 M 所在的阴影区是美国的乳畜带,其乳畜业发展的有利条件是(　　)
A. 高温多雨的气候　　B. 高原地形,草场广阔
C. 人口稠密,市场需求量大　　D. 地广人稀,利于放牧

8. 美国农业生产效率非常高,主要是因为(　　)
①气候条件优越　②耕地广阔,土壤肥沃　③高度机械化和生产区域专门化　④农业科技发达
A. ①②　　B. ①③　　C. ②③　　D. ③④

读图 10-3,完成 9、10 题。

9. 有关亚马孙平原的描述正确的是(　　)
A. 河网稀疏
B. 气候炎热干燥
C. 地势东高西低
D. 分布着茂密的热带雨林

10. 有关巴西的叙述正确的是(　　)
A. 咖啡、甘蔗主要种植于东北沿海
B. 世界重要的铁矿石出口国
C. 城市、人口主要分布在巴西高原上
D. 亚马孙河注入太平洋

11. "到巴西旅游,我终生难忘!"李明从巴西回来逢人便说。他为什么对这次旅游记忆如此深刻呢?下面是他的回答,其中有一句完全是编造的,请你找出来(　　)
A. 在巴西我见到了混血儿
B. 二月下旬我赶上了盛大的狂欢节
C. 在圣保罗街头我见到了比哈尔滨规模还大的冰雕艺术
D. 和巴西孩子一起踢足球,使我球技大增

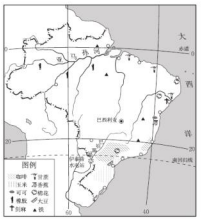

图 10-3

12. 下列关于巴西农业的叙述,正确的是(　　)
A. 巴西是世界上最大的椰子生产国　　B. 巴西柑橘产量居世界第三位
C. 巴西畜牧业发展缓慢,牛肉要大量进口　　D. 巴西咖啡产量居世界首位,被称为"咖啡王国"

13. 巴西现代工业方面已跃居世界重要生产国行列的部门是(　　)
①纺织　②石油　③钢铁　④电力　⑤汽车　⑥飞机制造　⑦化学　⑧食品
A. ①②③　　B. ⑤⑥⑦　　C. ②⑦⑧　　D. ③⑤⑥

14. 根据澳大利亚和巴西示意图(图 10-4),判断下面关于两国相同点的说法,正确的是(　　)
A. 都有南回归线穿过　　B. 都濒临太平洋
C. 首都都位于沿海地区　　D. 都有热带沙漠气候

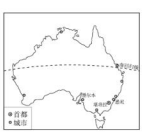

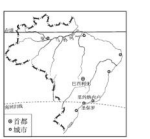

图 10-4

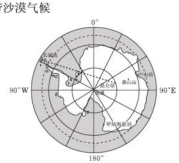

图 10-5　南极地区图

关注微信公众号"教辅资料站"获取更多学习资料

读“南极地区图”(图 10－5),回答 15～17 题。

15. 下面四条经线中,我国有三个科考站特别靠近(　　)

A. 75°E　　B. 75°W　　C. 105°E　　D. 60°W

16. 从南极上空观察,地球自转方向是(　　)

A. ◯　　B. ◯　　C. ←　　D. →

17. 若从昆仑站沿图中直线去长城站,其前进的方向是(　　)

A. 东南向西北　　B. 先向东南,后向东北　　C. 先向西南,后向西北　　D. 先向西南,后向东北

18. 极地地区的环境保护受到全世界的重视,对南极地区的和平利用,下面哪一种做法是正确的(　　)

A. 在冰层中掩埋废弃物　　B. 南极地区矿产资源丰富,应大力开采

C. 积极开发南极地区的渔业资源　　D. 各国加强合作,履行《南极条约》

二、综合题(19、20、21 题各 13 分,22 题 7 分,共 46 分)

19. 读图文材料,完成下列问题。

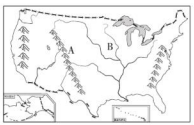

美国的高新技术产业在全球市场中具有举足轻重的地位。1980～1986年其技高新技术产业总产值约占世界1/3。在1993～1996年国内生产总值的增长中,有27%来自高科技产业。而两个传统的支柱产业——建筑业和汽车制造业仅占18%。

图 10－6

(1)有人说,美国是个地跨寒、温、热三带的国家。你同意这种说法吗?根据图中信息,说明你的判断理由。

(2)美国西部分布着一系列南北向的高大山脉,其中 A 是_____山脉;请运用板块构造学说的观点,解释这些山脉的形成原因。_____。

(3)美国农业生产实现了地区生产的专业化,其中 B 所在地区农业带的名称是_____,请分析该农业带发展的自然条件。_____。

(4)美国的约翰先生全家每个礼拜日都到教堂去做礼拜,他们信仰的宗教应该是_____。

(5)根据材料提供的信息,你能得出哪些结论?

20. 读图 10－7,完成下列问题。

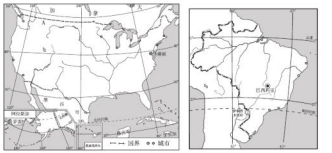

甲　　乙

图 10－7

(1)两国都位于_____半球(填“东”或“西”),共同濒临的海洋是_____洋。

(2)观察图甲中美国和加拿大的国界线西段(图中的 A 所示),其划分的依据是_____。

(3)五大湖全部属于美国的是_____湖,世界最大的淡水湖是_____湖。巴西境内有世界流量最大的_____河。

(4)20 世纪 70 年代后,美国的_____产业兴起,有力地促进了经济的增长。巴西是一个发展中的_____大国。

(5)巴西种植热带经济作物的有利条件是_____。

21. 读甲、乙两国略图(图 10－8),完成下列问题。

(1)甲、乙两国绝大部分领土位于_____半球,均被_____(特殊纬线)穿过。

(2)甲代表的国家是_____,东部濒临_____洋。该国官方语言是_____。

(3)乙国首都位于南部的_____高原;热带雨林分布在北部的_____流域。具有_____、_____、涵养水源等环境效益。

(4)悉尼发展有色冶金工业的有利条件是_____。

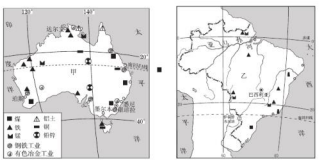

图 10－8

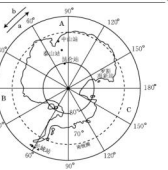

图 10－9

22. 读图 10－9,回答下列问题。

(1)图中 a、b 两箭头代表地球自转方向的是_____。

(2)图中字母 A、B、C 代表南极地区周围的大洋,其中 B 是_____洋;五个考察站中,没有极昼极夜现象的是_____站;泰山站大致位于昆仑站的_____方向。

(3)建筑物的特点大都是为了更好地适应所处地区的地理环境。结合图 10－10 推测泰山站架空设置的主要目的是(　　)

A. 利于防寒保暖　　B. 通风防暴雪堆堵

C. 便于天文观测　　D. 防紫外线辐射



泰山站

图 10－10

荣德基　品质教辅

关注微信公众号“教辅资料站”获取更多学习资料

期末达标检测卷 (时间:60分钟 满分:100分)

题 号	一	二	总 分
得 分			

姓名 学号 班级 学校

一、**选择题**(每题3分,共54分)

1. 关于图M-1中甲、乙两大洲的叙述,正确的是(　　)

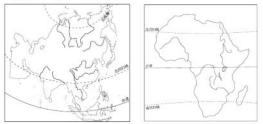

图M-1

①甲大洲地势中部高、四周低　②乙大洲地形以高原为主　③乙大洲的尼罗河是世界上流量最大、流域面积最广的河流　④甲、乙两大洲都被赤道和南、北回归线穿过

A. ①②　B. ①④　C. ②③　D. ③④

读图M-2,完成2~4题。

2. 莫斯科位于(　　)

A. 西欧平原上　B. 东欧平原上

C. 西西伯利亚平原上　D. 中西伯利亚高原上

3. 第二次世界大战后,日本发挥本国的人力资源优势和_____的优势,快速发展了本国经济(　　)

A. 海上运输　B. 东西方文化影响

C. 人口稠密　D. 资源丰富

4. 小明同学认真研究了"俄罗斯矿产资源和工业的分布"图及"日本工业地带的分布"图,从中获得一些信息,其中正确的有(　　)

①俄罗斯的工业区主要靠近矿产丰富的地区

②日本的工业主要分布在本州岛的内部

③日本领土所跨纬度较大,大部分地区位于北温带

④伏尔加河是亚洲和欧洲分界线

A. ①②　B. ①③　C. ②③　D. ②④

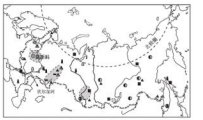

俄罗斯矿产资源和工业的分布

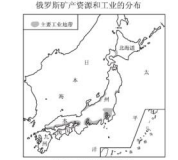

日本工业地带的分布

图M-2

依据图M-3提供的信息回答5,6题。

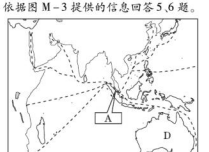

图M-3

5. 东南亚"十字路口"的咽喉A是(　　)

A. 霍尔木兹海峡　B. 马六甲海峡

C. 直布罗陀海峡　D. 英吉利海峡

6. 下面称号与图中D国家无关的是(　　)

A. "骑在羊背上的国家"

B. 世界活化石博物馆

C. "坐在矿车上的国家"

D. 樱花之国

巴西正式接任金砖国家轮值主席国,于2019年11月13日至14日在首都巴西利亚举行金砖国家领导人第十一次会晤。据此回答7~9题。

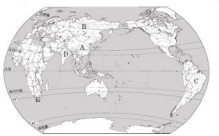

图M-4

7. 制约B国农业发展的最主要因素是(　　)

A. 水资源不足

B. 热量不足

C. 经济发展水平低

D. 森林资源贫乏

8. 有关C国的叙述,正确的是(　　)

A. 东南部是全国重要的农业区,也是工业和主要城市集中的地区

B. 该国的首都位于东南部沿海地区

C. 该国地跨北半球,面积占南美洲的1/3

D. 该国是发展中国家,农业机械化程度较低

9. 关于D国的叙述错误的是(　　)

A. 地形自北向南依次是山地—平原—高原

B. 人口众多,以白色人种为主

C. 水稻是该国主要粮食作物,分布在该国东北部和西部沿海地区

D. 首都新德里是软件外包产业的发源地

10. 下列旅游胜地与其所在国家连线正确的是(　　)

A. 埃菲尔铁搭——法国

B. 罗马古斗兽场——荷兰

C. 伦敦塔桥——西班牙

D. 阿尔卑斯山滑雪场——英国

11. 关于撒哈拉以南非洲经济的说法,不正确的是(　　)

A. 玉米种植面积广大,小麦和稻米大量出口

B. 人口自然增长率居各大洲之首

C. 世界经济发展水平最低的大洲之一

D. 农业是非洲的主要生产部门

读澳大利亚矿产分布图和气候类型分布图,完成12,13题。



澳大利亚矿产分布图



澳大利亚气候类型分布图

图M-5

12. 关于澳大利亚煤、铁资源的叙述,正确的是(　　)

A. 分布比较均匀

B. 煤炭主要分布在印度洋沿岸

C. 煤、铁的分布利于出口

D. 铁矿集中分布的地区,气候湿润

13. 关于澳大利亚气候和农牧业的叙述,正确的是(　　)

①畜牧业发达,是世界上重要的畜产品出口国

②混合经营带主要分布在东北部湿热气候区

③地广人稀,经营粗放,效益低下

④热带草原气候区是粗放羊、牛的理想场所

A. ①②　B. ②③　C. ③④　D. ①④

读四个国家轮廓简图(图M-6),回答14,15题。

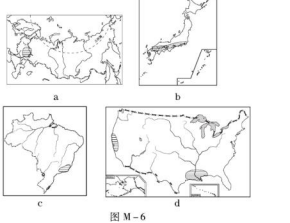

图M-6

关注微信公众号"教辅资料站"获取更多学习资料

14. 某国际班学生对有关本国的介绍，不可全信的是(　　)

A. a 国诸娃说，我国地跨亚欧两洲和东西半球，有漫长而严寒的冬季

B. b 国安本说，我国是个多山的岛国，居民为白色人种

C. c 国贝蒂说，世界上最大的热带雨林区和最大的高原均在我国

D. d 国杰克说，联合国总部设在我国，我国人口世界第三，经济高度发达

15. 对图中阴影部分的说明，错误的是(　　)

A. a 国：棉花、甘蔗种植区

B. b 国：工业集中分布地带

C. c 国：人口集中分布区

D. d 国：新兴工业分布地区

16. 下列关于美国和俄罗斯的叙述，不正确的是(　　)

A. 美国和俄罗斯自然资源都很丰富

B. 两国都濒临太平洋

C. 国土面积分别位于世界第一位和第三位

D. 美国高新技术产业发达，俄罗斯重工业发达

17. 读图 M－7，对巴西和澳大利亚自然环境的描述，正确的是(　　)



图 M－7

A. 巴西的领土全部位于南半球

B. 澳大利亚地跨热带和南温带

C. 巴西气候干燥，沙漠面积广大

D. 澳大利亚东部以低矮的高原为主

18. 关于南极地区的叙述，正确的是(　　)

A. 煤、铁、水能资源丰富

B. 科考的最佳时间是 6～8 月

C. 企鹅、海豹、袋鼠的故乡

D. 冰盖面积逐渐缩小

二、综合题(19、20 题各 10 分，21、22 题各 13 分，共 46 分)

19. 读图 M－8，完成下列问题。

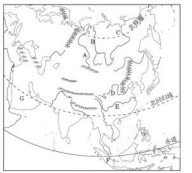

图 M－8

(1)在图中适当的位置，用“○⟼○⟼”符号画出亚欧两大洲的分界线。

(2)图中 F 国多地震的原因是_____。

(3)小明通过读图，判断出亚洲的地势特点是中部高、四周低。他判断的依据可能是_____。

(4)图中 ABCDE 五条河流中，不会出现凌汛的是_____；A 河流量丰富，但航运价值不大，其自然原因是_____。

(5)G 半岛是_____，水资源严重匮乏。新加坡的年降水量不算少，但也成为世界上缺水的国家。它们缺水的原因有何不同？

G 半岛：_____；

新加坡：_____。

20. 读日本和欧洲西部示意图(图 M－9)，回答下列问题。

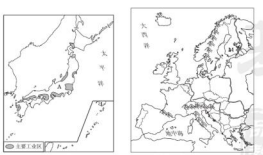

图 M－9

(1)日本示意图中的 A 是_____岛。日本工业区主要集中分布在太平洋沿岸和_____沿岸。

(2)日本以大和民族为主，_____是日本人的传统服装。

(3)欧洲西部旅游资源丰富，旅游业发达，试举一个你熟悉的旅游景点_____。

(4)欧洲西部人们的餐桌上常见羊腿、奶油、奶酪等食品，说明欧洲西部地区农业中的_____所占的比重较高。

(5)日本和欧洲西部都有许多优良的港口，海洋运输业发达，试从经济发展水平和海陆位置特征两方面分析海洋运输业发达的原因。

21. 图 M－10 为南亚略图，据图回答下列问题。

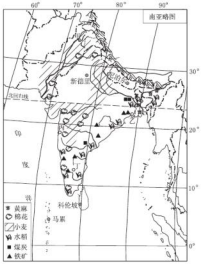

图 M－10

(1)据孟买气候资料统计图分析，孟买降水季节变化_____(填“大”或“小”)，6～9 月最易发生_____灾害，最炎热的是_____月。



孟买气候资料统计图

图 M－11

(2)据图判断尼泊尔的地势特点是_____。(单选)

A. 南高北低　　B. 北高南低

C. 西高东低　　D. 东高西低

(3)据图中农作物的分布分析，甲、乙、丙、丁四城市降水最少的是_____城市。

(4)受资源影响，以钢铁、机械、麻纺等工业部门为主的城市是_____。(单选)

A. 甲城市　　B. 乙城市

C. 丙城市　　D. 丁城市

22. 走进美洲大国，了解区域环境。读美国本土和巴西地理位置图(图 M－12)，完成下列各题。





图 M－12

(1)根据两国所处纬度位置，美国主要位于_____(温度带)，巴西主要位于_____(温度带)。受所处纬度和地形的影响，美国面积最广的气候类型是_____，巴西拥有世界上面积最大的_____气候分布区。

(2)从气候条件分析，密西西比河与亚马孙河相比，径流量稳定的是_____。亚马孙河流域近年来植被破坏严重，给环境带来的影响主要有_____。

(3)下列哪些农产品，美国可能从巴西进口(　　)(双选)

A. 大豆　　B. 甘蔗　　C. 天然橡胶　　D. 小麦

关注微信公众号“教辅资料站”获取更多学习资料

检测卷部分

第六章达标检测卷

一、1. D　2. C　3. A　**点拨**：本题运用**图像分析法**解题。由轮廓可知，①为北美洲，其与亚洲都地跨北寒带、北温带和热带；②为大洋洲；③为非洲，其以苏伊士运河与亚洲为界；④为欧洲，与亚洲共同组成世界上面积最大的大陆——亚欧大陆。

4. B　5. B　6. D　7. D　8. B

9. B　**点拨**：本题运用**理解记忆法**解题。巴西高原、亚马孙平原位于南美洲；五大淡水湖位于北美洲；青藏高原、阿拉伯半岛、马来群岛、死海、西西伯利亚平原都位于亚洲，故选 B。

10. B

11. D　**点拨**：亚洲河流多自中部向四周流，亚洲长河众多，南部河流无结冰期。

12. A

13. B　**点拨**：题图中反映的地势特征是东西低，中间高，甲地区为青藏高原，属于高原山地气候，处于亚欧板块和印度洋板块的交界处，多火山、地震，农业以畜牧业为主。

14. A　**点拨**：亚洲和北美洲都被北回归线和北极圈穿过，所以都跨北寒带、北温带、热带，并且都是北温带面积最广；亚洲跨南、北半球和东、西半球，北美洲跨东、西半球，且全部位于北半球。

15. C　16. C　17. B

18. B　**点拨**：影响降水量的因素主要有纬度位置、海陆位置和地形因素。哈尔滨和乌兰巴托纬度位置基本相当，哈尔滨距海洋较近，乌兰巴托位于内陆，故哈尔滨降水多，乌兰巴托降水少，应选 B。

二、19.

比较项目	亚洲	北美洲
东西半球中的位置	主要位于东半球	主要位于西半球
南北半球中的位置	主要位于北半球	全部位于北半球
濒临的大洋	印度洋、太平洋、北冰洋	太平洋、北冰洋、大西洋
邻近的大洲	欧洲、非洲、大洋洲、北美洲	欧洲、亚洲、南美洲
所跨温度带	北寒带、北温带、热带	北寒带、北温带、热带

20. (1)乌拉尔；土耳其；苏伊士；白令

(2)中部高，四周低，地势起伏大；河流多发源于中部高原、山地，呈放射状流向周边的海洋

(3)黄色；白色

(4)地处世界上最大大陆的东部，濒临世界最大的海洋，海陆热力性质差异特别显著。

(5)位于亚欧大陆内部，距海遥远，气候干旱，沙漠广布。

点拨：本题主要考查亚洲的自然环境及人种、人口的分布的分析理解能力。第(1)题，A 为乌拉尔山脉，B 为土耳其海峡，A、B 位于亚洲与欧洲的分界线上；C 是苏伊士运河，是亚洲和非洲的分界线；D 为白令海峡，是亚洲与北美洲的分界线。第(2)题，亚洲地势中部高、四周低，地势起伏大。地势特征决定河流流向，亚洲的河流多发源于中部高原、山地，顺地势呈放射状流向周边海洋。第(3)题，亚洲东部、东南部主要分布着黄色人种，南部、西部主要分布着白色人种。第(4)题，季风主要是海陆热力性质差异形成的，亚洲东部和南部季风气候显著应从海陆差异显著角度分析。第(5)题，亚洲西部位于亚欧大陆内部，距海遥远，气候干旱，沙漠广布，所以人口稀疏。

21. (1)欧；苏伊士

(2)东北；青藏；阿拉伯

(3)C

(4)D

点拨：本题考查的是亚洲地理位置和自然环境差异。亚洲和欧洲共同组成了亚欧大陆，图中乙位于东北平原，丙位于青藏高原，丁位于阿拉伯半岛；温带大陆性气候降水较少，气温年较差大，因此 C 图符合其特征；丁地终年炎热干燥，沙漠广布，自然景观变化较小。

第七章达标检测卷

一、1. A　2. C

3. A　**点拨**：本题综合考查了日本的有关内容，解答时应综合分析。日本的经济发达，但自然资源短缺，地域狭小；农业机械化程度高，但农产品不是大量出口；日本位于板块交界处，是一个多火山、地震的国家，所以 B、C、D 叙述错误；日本的文化兼有东西方文化的特色，故 A 正确。

4. B　**点拨**：日本渔业发达，人们喜欢吃鱼，可以享受美味生鱼片。富士山是日本旅游胜地，日本多火山，地热资源丰富，可以泡温泉。樱花是日本的国花，只要去的季节是花开时，就可观赏到樱花。日本没有热带雨林气候，不可能去热带雨林探险。

5. D

6. D　7. C　**点拨**：本题组运用**提取关键信息法**解题。从图中看出，东南亚的水稻在河流沿岸和沿海地区、内陆地区都有分布，呈现整体分散，局部集中的特点；从图中纬度位置可知，该地区位于热带，热量充足，从图中热带经济作物分布可知，该地区水热条件优越，适合热带经济作物生长，因此也适合水稻生长。

8. C　**点拨**：印度属于南亚，到东南亚旅游不可能看到印度的泰姬陵。

9. C　10. B　**点拨**：亚洲面积最大的国家是中国，而不是印度；印度是世界著名的服务外包产业基地，每年承接全球服务外包市场近 1/2 的业务；世界耕地面积最大的国家是美国；亚洲人口最多的国家是中国。

11. B　12. C

13. B　14. A　**点拨**：题图中甲为东欧平原，乙为西西伯利亚平原，丙为中西伯利亚高原，丁为东西伯利亚山地，故乙区域地形以平原为主。俄罗斯的政治、文化中心为莫斯科，位于东欧平原上，即图中甲区域的中部。

15. A　16. C　**点拨**：本题组运用**提取关键信息法**解题。第 15 题，通过题干提示，乌拉尔工业区附近有丰富的石油、煤、铁、有色金属等资源，判断此工业区为钢铁、机械工业基地。第 16 题，注意题干中是能源合作项目，选项中铁矿、金矿、铜矿均不是能源，俄罗斯水能不丰富，所以合作项目中最可能涉及的资源是石油、天然气、煤炭。

17. B　18. A　**点拨**：俄罗斯是地跨亚欧两洲的国家，首都是莫斯科，大多数河流自南向北流入北冰洋；俄罗斯输油(气)管道主要是东西分布，摩尔曼斯克港位于北冰洋沿岸。

二、19. (1)东京；横滨；神户

(2)太平洋；濑户内海

(3)原料；燃料；工业制成品

(4)富士；和服

(5)C

(6)亚欧；太平洋

点拨：本题集识记、理解、填图于一体，综合考查对日本地理环境的认识。题中工业中心和港口、主要工业区分布既是记忆的内容，又是读图的内容，图文结合是学习地理最有效的方法之一。对于工业集中分布产生的问题，可以根据自己掌握的知识去推理，不要死记硬背。

20. (1)中南；马来

(2)马六甲

(3)印度尼西亚；新加坡

(4)福建

21. (1)新德里

(2)印度地势平缓，地形以平原、高原为主，而我国山区面积广，地势起伏较大；印度气候条件优越，水热充足，而我国有大面积的干旱和高寒地区。

(3)印度受西南季风影响，水旱灾害频繁，粮食生产不稳定。

(4)计算机软件产业(服务外包产业)；距加罗尔

22. (1)乌拉尔山脉；亚、欧

(2)气温低，不利于农作物的生长

(3)矿产资源丰富

(4)莫斯科

(5)距离海洋较远

(6)管道运输

点拨：第(1)题，图中 A 山脉是乌拉尔山脉，它是亚、欧两大洲的分界线。第(2)题，俄罗斯平原面积广大，但粮食仍需大量进口。从气候条件看，俄罗斯分布最广的气候类型是温带大陆性气候，由于纬度高，气温低，不利于农作物的生长。第(3)题，图中①是圣彼得堡工业区，②是以莫斯科为中心的工业区，③是乌拉尔工业区，④是新西伯利亚工业区，俄罗斯四大工业区建立的基础是矿产资源丰富。第(4)题，俄罗斯的政治、经济、交通中心是莫斯科。第(5)题，图中哈萨克斯坦降水较少，其主要原因是距离海洋较远。第(6)题，我国从哈萨克斯坦进口的石油资源，采用的运输方式主要是管道运输。

期中达标检测卷

一、1. B　**点拨**：赤道横穿亚洲东南部，故①正确；亚洲濒临北冰洋、太平洋、印度洋，故②错误；亚洲地势中部高，四周低，故③正确；亚洲气候复杂多样，但是没有温带海洋性气候和热带草原气候，故④错误；亚洲的大河多发源于中部高原、山地，向四周注入北冰洋、太平洋和印度洋，故⑤错误；亚洲分布范围最广的气候类型是温带大陆性气候，故⑥正确。

2. D　**点拨**：读图可知甲为印度半岛，乙为加里曼丹岛。甲处为热带季风气候，6 月份受西南季风影响，降水丰沛，为雨季。乙处为热带雨林气候，盛产热带水果，而柑橘为亚热带水果，故 D 不正确。

3. C　**点拨**：亚洲地形以山地、高原为主，西亚地区因为气候干燥，人口稀少，世界面积最大的淡水湖位于北美洲，最长的河流位于非洲。

4. A

5. D　**点拨**：日本资源贫乏，工业原料和燃料需从国外大量进口。

6. D　**点拨**：本题主要考查日本的经济发展特点。日本国土面积狭小，绝大多数工业原料和燃料依赖进口，工业产品主要靠出口，所以应该积极开拓国际市场，大力发展科学技术，出口高新技术产品。

7. C　8. B　9. C

10. B　**点拨**：本题运用**归纳总结法**解题。印度人口众多，劳动力资源丰富，价格低廉。印度的气候类型主要是热带季风气候，1 月盛行东北季风。目前，印度每年承接全球服务外包市场近1/2的业务，其中，承接的软件外包业务约占全球软件外包市场的 2/3，因而印度被形象地称为“世界办公室”。

关注微信公众号“教辅资料站”获取更多学习资料

11. D

12. B　**点拨**：印度大部分处于热带和亚热带地区，印度尼西亚是世界最大的椰子生产国，东南亚地处亚洲与大洋洲，太平洋与印度洋之间的“十字路口”。

13. A　**14.** A

15. D　**点拨**：本题运用**对比法**解题。日本地形以山地、丘陵为主，自然资源贫乏，工业集中分布在太平洋沿岸和濑户内海沿岸；俄罗斯地广人稀，自然资源丰富，工业主要分布在靠近原料产地的内陆地区。

16. B　**17.** D　**点拨**：第16题，从题图上看，俄罗斯地势东高西低，平原面积广大，西伯利亚地区地势南高北低，鄂毕河、叶尼塞河、勒拿河等大河由南向北注入北冰洋，俄罗斯许多大河和山脉成为大的地形区的分界线，如叶尼塞河是西西伯利亚平原和中西伯利亚高原的分界线，大致呈东北—西南走向的乌拉尔山脉是东欧平原和西西伯利亚平原的分界线。第17题，俄罗斯重工业发达，与人民生活密切相关的消费品制造业较落后，受热量因素限制，农业也不发达；俄罗斯的人口和经济主要集中在欧洲部分，首都莫斯科位于东欧平原，既是全国最大的城市和综合性工业中心，也是俄罗斯的政治、文化和交通中心。

18. C　**点拨**：俄罗斯油气资源丰富，是世界最大的能源出口国之一，被称为“世界加油站”。

二、**19.**（1）中部高，四周低；河流自中部向东、向北、向南注入海洋（或河流呈放射状流向周边的海洋）

（2）B；热带多风气候；全年高温，一年分旱、雨两季（或雨季高温多雨，旱季高温少雨）

（3）海陆位置（或距海远近不同）

点拨：本题综合考查了亚洲的地形、河流及气候的有关知识。第1题，由河流呈放射状流向周边的海洋可以判断出，亚洲的地势是中部高，四周低。第2题，甲图中A地为亚热带季风气候，B地为热带季风气候，C地为热带沙漠气候。乙图中全年高温，一年分旱、雨两季，为热带季风气候。第3题，①地距海远，降水少；②地距海较近，降水多，造成两地降水差异的主要因素是海陆位置。

20.（1）东京；京浜工业区；四国岛；濑户内海；秋明油田；新西伯利亚

（2）东欧平原和西西伯利亚平原的分界线；位于亚洲与欧洲分界线上。（任选一个）

（3）温带大陆性气候；甲

（4）太平洋沿岸和濑户内海沿岸；矿产资源

（5）纬度高，冬季漫长严寒，海洋结冰期长

点拨：本题主要对比考查日本和俄罗斯在工业布局、海运等方面的差异。日本自然资源贫乏，主要进口原料、燃料，出口工业产品，所以工业集中分布在多优良港口的太平洋沿岸和濑户内海沿岸，而俄罗斯自然资源丰富，工业主要靠近矿产资源产地；俄罗斯虽有漫长的海岸线，但由于纬度高、海洋结冰期长，所以海运所占比重较低。

21.（1）中国

（2）浙公；马六甲

（3）高温多雨；水稻；陡

（4）北高南低；河流自北向南流。

（5）位于亚欧板块、印度洋板块与太平洋板块的交界处，地壳活跃。

22.（1）恒河；德干

（2）东北；西南；迎风坡

（3）A；A地地形平坦，降水较多

（4）旱涝

点拨：本题主要考查印度的自然环境与农业。解答本题需运用**提取关键信息法**。第（1）题，印度地形分为三部分：北部为喜马拉雅山脉，中部为恒河平原，南部为德干高原。第（2）题，读图可知，印度年降水量大于1 000毫米的地区主要分布在东北部及西部沿海地区。图中显示，西南季风从海洋带来大量水汽，在德干高原和喜马拉雅山脉迎风坡形成降水。乞拉朋齐因降水多，成为“世界雨极”。第（4）题，西南季风不稳定，容易造成旱涝灾害。

第八章达标检测卷

一、**1.** A　**2.** B　**点拨**：本题运用**读图记忆法**解题。由图中轮廓可知，该区域为中东地区，①为苏伊士运河，沟通了红海和地中海；②为曼德海峡，沟通了红海和阿拉伯海；③为霍尔木兹海峡，处在重要能源输出航线上；④为扎格罗斯山脉；⑤河流是流入地中海的尼罗河。

3. D　**4.** B　**点拨**：第3题，甲为中东地区，气候干燥；乙为东南亚地区，山河相间；丙是俄罗斯，主要位于北温带；丁为澳大利亚，被称为世界活化石博物馆。第4题，甲地区主要输出石油，乙地区是世界热带经济作物生产基地，澳大利亚被称为“坐在矿车上的国家”，俄罗斯是世界石油出口大国。

5. C　**点拨**：欧洲西部地处中纬度大陆西岸，温和湿润的温带海洋性气候有利于多汁牧草的生长；地形以平原为主，地势平坦，草场广布。特殊的气候和地形，使得本区以畜牧业为主，人们饮食结构以牛羊肉和乳产品为主。

6. C　**点拨**：中东地区大多数居民信奉伊斯兰教，少数居民信奉基督教和犹太教，耶路撒冷被这三个宗教奉为圣城。

7. C

8. A　**点拨**：本题主要考查欧洲西部气候类型的判断。欧洲西部大部分位于中纬度的大陆西岸，温带海洋性气候典型，全年温和湿润，牧草多汁，草场广布，畜牧业发达。故正确选项为A。

9. B　**点拨**：本题主要考查欧洲的景观。①为荷兰风车，②为伽倪钧尼大金塔，③为意大利罗马古斗兽场，④为新加坡的鱼尾狮。荷兰和意大利位于欧洲，缅甸和新加坡位于亚洲。故正确选项为B。

10. B　**11.** C

12. A　**点拨**：撒哈拉以南非洲90%以上是黑种人。生活在这个区域的黑种人分属于不同的部族，他们有着各自的语言、风俗习惯和原始的宗教。

13. A　**点拨**：本题运用**排除法**解题。非洲最高的山峰是乞力马扎罗山，故A正确；非洲地势东南高，西北低，东南部从北向南有埃塞俄比亚高原、东非高原和南非高原，故B不正确；地形以高原、山地为主，故C不正确；非洲最长的河流为尼罗河，故D不正确。

14. D　**15.** D

16. A　**点拨**：世界活火山博物馆是指印度尼西亚，澳大利亚是世界著名的畜牧业国家。

17. A　**18.** A　**点拨**：澳大利亚地广人稀，农场规模大。养羊业生产机械化程度很高，并采用先进的生产技术，耗用的劳动力很少。矿产、羊肉和羊毛大部分用于出口。在澳大利亚的经济中，农牧业一直占有重要地位。澳大利亚的采矿业在“二战”前就有一定规模，“二战”后工业化程度越来越高，因此澳大利亚有发达的养羊业和采矿业。

二、**19.**（1）英吉利海峡；阿尔卑斯山脉

（2）高；西北　（3）温带海洋性气候；畜牧业

（4）①历史发展早，是工业革命的发源地，是工业发达的地区；②发展水平高，工业工艺精、技术水平和生产效率高，工业中心多；③部门结构以现代制造业为主。

20.（1）黄金；金刚石

（2）狮子、大象、长颈鹿、斑马、羚羊、猎豹、犀牛等

（3）历史上长期受殖民统治；有丰富的资源（矿产资源、动植物资源和旅游资源）

（4）①发展民族工业，对初级产品进行深加工；②发展乡村化农业；③建立区域合作组织，争取国际贸易利益等。（合理即可）

21.（1）南回归线；印度；太平；东

（2）高原；平原；澳大利亚大；地下水；北艾尔；山地

（3）大洋；世界活化石博物馆；坐在矿车上的国家

点拨：本题为读图分析题，解答本题需运用**提取关键信息法**解题。第（1）题，从图中可以看出，南回归线穿过澳大利亚中部。澳大利亚西部为印度洋，东部为太平洋，位于东半球。第（2）题，主要从图例上来判断各处的地形类型，从图中可以看出，澳大利亚的西部为低矮的高原，中部为平原，而东部为山地。第（3）题，澳大利亚有“世界活化石博物馆”“骑在羊背上的国家”“坐在矿车上的国家”等称号，这里关键是明确各称号的含义。

第九、十章达标检测卷

一、**1.** C　**点拨**：美国位于北美洲中部，大部分处于中纬度地区，加拿大是北美洲面积最大的国家，故A、B、D错误。

2. A　**3.** A　**4.** C

5. C　**点拨**：美国主要位于北温带，密西西比河是世界第四长河，首都为华盛顿。

6. D　**7.** C　**8.** D　**点拨**：图中①表示的是旧金山，②表示的是安大略湖，③表示的是密西西比河，④表示的是墨西哥。图中M地区人口稠密，消费市场广大，气候冷湿，有利于牧草生长。美国农业具有高度机械化和生产区域专门化的特点，农业科技发达，因此生产效率高。

9. D　**10.** B　**点拨**：亚马孙平原属于热带雨林气候，河网密集，气候湿热，地势西高东低；巴西的咖啡主要分布于东南沿海地区，城市、人口分布在东南沿海，亚马孙河注入大西洋。

11. C　**点拨**：本题运用**综合分析法**解题。在巴西，白种人占一半多，黑白混血种人占全国的40%。巴西的足球水平堪称世界一流，不论是在海滩还是街头，都可以看到不同肤色的青年和孩子在踢足球。二月下旬举行盛大的狂欢节，人们载歌载舞，通宵达旦。由于赤道和南回归线穿过巴西，使巴西成为世界上热带面积最大的国家，很显然在圣保罗街头见到了比哈尔滨规模还大的冰雕艺术是偏造的。

12. D　**13.** D　**14.** A

15. A　**16.** B　**17.** C　**点拨**：第15题，据图分析，我国四个南极科学考察站，长城站最接近60°W，中山站、泰山站和昆仑站最接近75°E。第16题，地球自西向东自转，从南极上空看是顺时针方向，从北极上空看是逆时针方向。第17题，由于南极点是地球最南的点，从昆仑站沿图中直线去长城站应先向西南，后向西北。

18. D

二、**19.**（1）同意。美国领土由本土及阿拉斯加和夏威夷三部分组成；北极圈穿过阿拉斯加，跨北温带和北寒带；北回归线穿过夏威夷群岛，跨热带和北温带；本土大部分地区位于30°N至50°N之间，为北温带。

（2）落基；美洲板块与太平洋板块发生碰撞挤压形成

（3）玉米带；地处温带，地势平坦，土壤肥沃，春夏气温较高，适合玉米生长

（4）基督教

（5）美国的高新技术产业在全球市场中具有举足轻重的地位。美国的高新技术产业促进了经济发展，成为经济发展的支柱产业等。

20.（1）西；大西

（2）纬线

（3）密歇根；苏必利尔；亚马孙

（4）高新技术；工农业

（5）气温高，降水丰富（高温多雨）

21.（1）南；南回归线（23.5°S）

（2）澳大利亚；太平；英语

（3）巴西；亚马孙河；调节气候、保持水土、保护土壤、维护生物多样性、提供新鲜空气（答出一点即可）

22.（1）a　（2）大西；长城；正北

（3）B

关注微信公众号“教辅资料站”获取更多学习资料

期末达标检测卷

一、**1**. A　**点拨**：亚洲地势中部高、四周低，被赤道、北回归线穿过。非洲地形以高原为主，被赤道、南北回归线穿过。南美洲的亚马孙河是世界上流量最大、流域面积最广的河流。

2. B　**3**. A　**4**. B　**点拨**：第 2 题，俄罗斯欧洲部分属于东欧平原，莫斯科即位于东欧平原上。第 3 题，日本发展经济的优势是人力资源优势和靠上运输的优势。日本资源贫乏，东西方兼容的文化与经济发展没有直接联系。日本人口稠密与人力资源优势属于同一范畴。第 4 题，俄罗斯矿产资源丰富，工业主要分布在矿产丰富的地区，日本工业主要分布在太平洋和濑户内海沿岸。乌拉尔河是亚欧两洲分界线的一部分，而伏尔加河位于欧洲。日本领土南北跨纬度较广，大部分位于北温带。

5. B　**6**. D　**点拨**：东南亚“十字路口”的喻概 A 是马六甲海峡。图中 D 国家是澳大利亚，有“骑在羊背上的国家”、世界活化石博物馆、“坐在矿车上的国家”之称，有“樱花之国”之称的国家是日本。

7. B　**8**. A　**9**. D　**点拨**：B 国是俄罗斯，纬度高，发展农业热量不足。C 国是巴西，首都位于巴西高原，面积占南美洲的一半，农业机械化程度较高。D 国是印度，班加罗尔是软件外包产业的发源地。

10. A　**11**. A

12. C　**13**. D　**点拨**：第 12 题，从图中可以看出，澳大利亚的铁矿主要分布在西部印度洋沿岸，西部地区为气候干燥的热带沙漠和热带草原；煤矿主要分布在东部太平洋沿岸，煤矿、铁矿的分布不均匀，但非常有利于出口。第 13 题，澳大利亚畜牧业发达，是世界上重要的畜产品出口国；混合农业带主要分布在东南沿海地区；地广人稀，但机械化程度高，效益高；热带草原草场规模大，牧草品质较差，是粗放羊、牛的理想场所。

14. B　**15**. A　**点拨**：图中 a 国为俄罗斯，b 国为日本，c 国为巴西，d 国为美国。日本居民以黄色人种为主；俄罗斯主要位于温带地区，纬度高，热量不足，不适合种植甘蔗和棉花。

16. C

17. B　**点拨**：本题运用 **排除法** 解题。巴西主要位于南半球，一小部分位于北半球，故 A 叙述错误；澳大利亚地跨热带和南温带，故 B 叙述正确；巴西以热带雨林气候和热带草原气候为主，故 C 叙述错误；澳大利亚地形东部是大分水岭，西部是低矮高原，中部是平原，故 D 叙述错误。

18. D

二、**19**.（1）画图略。

（2）位于板块与板块交界地带，地壳活跃，多火山、地震

（3）河流的流向

（4）E；流经中高纬度地区，结冰期长

（5）阿拉伯半岛；属热带沙漠气候，降水稀少，水资源匮乏；人口稠密，人均水资源占有量少

点拨：亚洲和欧洲的分界线是乌拉尔山脉、乌拉尔河、大高加索山脉和土耳其海峡。F 国是印度尼西亚，位于板块与板块交界地带，因此多火山、地震。根据水往低处流的规律可以判断亚洲的地势特征。E 河是长江，冬季平均气温在 0℃以上，因此不会出现凌汛，A 河纬度高，结冰期长，所以航运价值不大。G 半岛是阿拉伯半岛，气候干燥，河流稀少，水资源缺乏。新加坡人口稠密，需水量大，因此成为缺水国家。

20.（1）木州；濑户内海

（2）和服

（3）法国巴黎埃菲尔铁塔（凯旋门、伦敦塔桥等）

（4）畜牧业

（5）经济发展水平高，有海洋运输业发达的主观条件；海岸线曲折，多优良港口，有利于发展海上航运。

点拨：第（1）题，由日本示意图可知，A 是日本最大的岛本州岛。日本工业区主要集中在太平洋沿岸和濑户内海沿岸。第（2）题，日本民族以大和族为主，和服是日本人的传统服饰。第（3）题，欧洲西部的旅游资源丰富，主要有法国的埃菲尔铁塔、凯旋门、卢浮宫、英国伦敦塔桥等。第（4）题，欧洲西部人的餐桌上常见羊腿、奶酪、奶油等食品，说明西欧的畜牧业发达。第（5）题，日本经济发达，是一个岛国，多优良港口；欧洲西部大部分国家是发达国家，西部濒临大西洋，海岸曲折，多优良港湾。

21.（1）大；洪涝；5

（2）B

（3）甲

（4）B

22.（1）北温带；热带；温带大陆性气候；热带雨林

（2）亚马孙河；造成巴西本土水土流失加剧，生物多样性锐减，而且影响全球气候

（3）BC

点拨：本题主要考查美国、巴西的位置、气候、河流、农业以及环境保护等知识。第（1）题，美国主要位于北温带，以温带大陆性气候为主；巴西大部分位于热带，是热带雨林气候分布最广的地区。第（2）题，亚马孙河流经热带雨林气候，全年降水丰沛，径流量变化小；密西西比河主要流经温带大陆性气候区，受降水影响，径流量季节变化大；巴西热带雨林破坏严重，出现了水土流失加剧，野生动物锐减等问题，直接影响全球气候。第（3）题，美国位于北温带，热带作物需要进口，巴西热带农作物产量大。

课时练部分

第六章　我们生活的大洲——亚洲

第一节　位置和范围

【基础全练】

1. B

2.（1）东；北

（2）北温

（3）欧；苏伊士；非；太平；印度；北冰；白令

3. C

4. C　**点拨**：本题考查的是亚洲的位置和范围。亚洲是七大洲中面积最大和跨纬度最广的大洲，最北端位于寒带；亚洲分为东亚、东南亚、南亚、西亚、中亚和北亚 6 个地区。

5. C　**点拨**：本题运用 **综合分析法** 解题。解答本题的关键是明确当地的自然环境特点。达雅克人居住的地区，地处热带雨林气候区，终年高温多雨，人们聚居在长屋里。为了防潮，长屋用高架木桩支起。

【培优精练】

1. D　**2**. C　**点拨**：本题组考查的是世界主要大洲的轮廓特征及地理位置。从图中可以看出，①是北美洲，②是非洲，③是欧洲，④是亚洲。中国位于亚洲；欧洲、北美洲全部位于北半球，亚洲和非洲地跨南、北半球。

3. B　**点拨**：本题为计算题，注意亚洲所跨的纬度是北纬与南纬之和，故约跨 92 度。

4. B　**点拨**：本题考查的是北美洲的地理位置。北美洲东临大西洋，西临太平洋，和南美洲的分界线是巴拿马运河，北回归线穿过其南部。

5. B　**点拨**：跨经度最广的大洲是南极洲。

6. B　**点拨**：本题考查的是亚洲的分区。结合图中各国家的位置可知，卡塔尔位于西亚地区。

7. A

8.（1）太平洋；北冰洋；大西洋

（2）白令海峡；巴拿马运河

（3）北；西；中纬度

点拨：本题综合考查了北美洲的地理位置。第（1）题，可根据北美洲与周围大洋的相对位置来确定。第（2）题，北美洲与亚洲以白令海峡为界，南、北美洲则以巴拿马运河为界。第（3）题，从图中可知，北美洲位于南、北半球中的北半球，东、西半球中的西半球，大部分位于中纬度地区。

第二节　自然环境

第 1 课时　地势起伏大，长河众多

【基础全练】

1. B　**点拨**：亚洲地形以高原、山地为主，高原、山地约占总面积的 3/4，平原分布在周围；亚洲的地势特点是中部高，四周低。

2. B　**点拨**：本题考查亚洲的“世界之最”。亚洲面积广大，许多地理事物都居世界首位，如青藏高原——世界上最高的高原、贝加尔湖——世界上最深和蓄水量最大的淡水湖、阿拉伯半岛——世界上最大的半岛。西西伯利亚平原是亚洲面积最大的平原，而不是世界最大的平原，世界上最大的平原是南美洲的亚马孙平原。

3. A　**4**. D　**点拨**：叶尼塞河注入北冰洋，黑龙江和图们江注入太平洋，恒河注入印度洋；由于亚洲地势中部高、四周低，因此大部分河流发源于中部山地、高原，呈放射状流向周边的海洋。

【培优精练】

1. D　**2**. B　**点拨**：本题组运用 **示意图法** 解题。第 1 题，本题考查了亚洲主要地形区的分布，可以结合地理事物间的相对位置、特点来进行筛选、判断。读题图可知，甲位于苏伊士运河与美索不达米亚平原之间，是阿拉伯高原；乙位于横断山脉以西，且海拔在4 000 米以上，是青藏高原；丙处是印度河平原；丁处是太平洋；据此可知答案为 D。第 2 题，本题由于看不清题意，容易错选 D。题图是亚洲大陆沿 30°N 纬线的地形剖面示意图，据图可以判断出亚洲地势东西方向的变化，其地势特点是中部高、东西两侧低。

3. B　**点拨**：本题考查的是亚洲的地形和河流特征。亚洲地形类型复杂多样，河流多且源远流长，大多数河流发源于中部的高原、山地，呈放射状流向周围海洋。

4. A　**点拨**：本题运用 **理解记忆法** 解题。安第斯山脉是世界上最长的山脉，尼罗河是世界第一长河，里海是世界上面积最大的湖泊，是咸水湖。

5. D　**6**. A　**点拨**：本题组考查亚洲的山脉、河流以及注入的海洋。第 5 题，可用排除法。阿尔卑斯山位于欧洲南部，落基山位于北美洲西部，安第斯山位于南美洲西部，这三座山脉均不在亚洲，予以排除。喜马拉雅山位于亚洲中部，是世界最雄伟的山脉。故选 D。第 6 题，鄂毕河位于北亚，自南向北注入北冰洋，A 项正确；长江位于东亚，自西向东注入太平洋，B 项错误；印度河和恒河都位于南亚，注入印度洋，故 C、D 错误。

7. A

8. A　**点拨**：图中大洲为亚洲，是世界上面积最大的大洲，亚洲内陆地区以内流河为主，流域面积广大。

9. A

10.（1）北温

（2）平原；东西两侧高，中间低（或西部高，中部低，东部缓）

（3）科罗拉多；密西西比；密西西比河流流域降水丰富，流域面积广，支流多

关注微信公众号“教辅资料站”获取更多学习资料

第 2 课时　复杂的气候

【基础全练】

1. D　**点拨**：亚洲气候具有复杂多样、大陆性气候分布广和季风气候显著的特点。

2. A　3. C　4. D

5. C　**点拨**：本题运用**图像分析法**考查纬度因素对气候的影响。图中甲位于温带地区，乙位于热带地区，由于纬度差异导致两地气候不同。

6. D

7. D　**点拨**：本题考查的是季风气候的影响。亚洲的东部夏季受来自太平洋的东南季风的影响，亚洲的南部夏季受来自印度洋的西南季风的影响。夏季风弱的年份，来得晚、退得早，影响时间短，易产生旱灾。夏季风强的年份，来得早、退得晚，影响时间长，易产生涝灾，故选 D。

【培优精练】

1. C　**点拨**：季风气候主要是由海陆热力性质差异造成的。亚洲位于世界最大的大陆——亚欧大陆东部，东临世界最大的大洋——太平洋，海陆热力性质差异显著，季风气候显著。

2. D

3. C　4. D　**点拨**：本题组考查的是亚洲气候类型的分布。图中 A 表示的是温带大陆性气候，亚洲没有温带海洋性气候和热带草原气候。

5. D　6. C　**点拨**：本题组运用**图像分析法**考查亚洲的气候。解答时可从题图中的气温和降水两方面来分析，从而得出结论。题图 A 中全年高温多雨，可以判断为热带雨林气候，此气候在亚洲主要分布在东南亚；题图 B 中全年高温，降水集中在 6～9 月，降水较多，为热带季风气候。

7. C　**点拨**：冬季风从陆地吹向海洋，其性质寒冷干燥。

8. A　**点拨**：夏季风来自海洋，温暖湿润；冬季风源于陆地，寒冷干燥。亚洲东部和南部深受夏季风影响，易发生旱涝灾害，导致农业生产不稳定。

9. (1)太平；北冰；大西；寒带

(2)温带大陆性气候

(3)温带海洋性气候；高原山地气候；温带大陆性气候

(4)气候类型复杂多样，温带大陆性气候分布广

点拨：本题为读图分析题，考查了北美洲马部的气候类型。解答时应注意读图，从图上获取有用的信息。第(1)题，可从北美洲所处的位置、与各大洋的相对位置等方面来判断。第(2)题，从图上可以看出，北美洲分布最广的气候类型是温带大陆性气候。第(3)题，首先在图中找出北纬 50°纬线，然后沿着此纬线找出所穿过的气候类型。第(4)题，由图可分析得出，北美洲的气候类型复杂多样，温带大陆性气候分布广。

第六章强化巩固复习

【好题必练 · 练真题】

1. D　2. D

3. A　4. D　**点拨**：本题组考查亚洲的位置与自然环境。第 3 题，通过图中所给经纬度，此大洲大部分位于北半球、东半球，跨经纬度广，为亚洲。第 4 题，亚洲气候复杂多样，温带大陆性气候分布广。

5. C　6. A　**点拨**：本题组考查亚洲的地理概况。第 5 题，亚洲是世界上跨纬度最广的大洲，跨经度最广的大洲是南极洲，故①错误。亚洲的地形以高原、山地为主，地势中间高，四周低，故②错误。亚洲的地形复杂多样，地势起伏较大，增加了气候的复杂性，故③正确。亚洲地势中间高，四周低，河流发源于中部的高原、山地，顺地势呈辐射状向四周奔流入海，亚洲东西跨度大，内流流域面积广大，故④正确。第 6 题，亚洲是世界上面积最大的大洲；最湿润的大洲是南美洲；平均气温最高的大洲是非洲；平均海拔最高的大洲是南极洲。

7. (1)东；长江(或黄河等)；

南；印度河(或恒河等)；

西；幼发拉底河(或底格里斯可等)；

北；鄂毕河(或叶泥塞河等)。

(2)亚洲的地势中部高、四周低。

(3)亚热带季风气候；温带季风气候；热带季风气候。

(4)上海合作组织；东南亚国家联盟；亚太经济合作组织；博鳌亚洲论坛、亚洲文明对话大会等。

【填图学地理】

略

第七章　我们邻近的地区和国家

第一节　日本

第 1 课时　多火山、地震的岛国

【基础全练】

1. D　2. D

3. B　**点拨**：本题组运用**综合分析法**解题。据图可知①是北海道岛，②是太平洋，③是俄罗斯，④是中国。日本位于亚欧板块与太平洋板块之间，因此多火山、地震。位于本州岛的关东平原是其最大的平原。气候四季分明，经常受台风侵袭。富士山是一座活火山。

4. B

5. C　**点拨**：日本处于板块交界处，地壳运动活跃，因此多温泉。

6. C　**点拨**：日本位于太平洋板块和亚欧板块的碰撞挤压地带，地壳比较活跃，多火山、地震。

7. C

【培优精练】

1. A

2. A　3. B　**点拨**：由图可知 A 为本州岛，B 为北海道岛，C 为九州岛，D 为四国岛。此次灾害发生在本州岛中北部日本海海域，对本州岛的影响最大。日本西临日本海，所以此次地震引发的海啸发生在日本海。

4. D　**点拨**：日本国土南北狭长，海岸线曲折，多优良港湾；山地、丘陵广布，沿海平原狭小。

5. C

6. C　**点拨**：本题组考查日本的自然地理特征。第 5 题，从图中可以看出，新泻位于冬季风的迎风坡，加上地形的影响，降水较多。第 6 题，地形对水能的影响较大。受地形的影响，日本河流短小湍急，水能丰富。

7. B

8. C　**点拨**：发生地震时，乘电梯逃生是不可行的，因为地震很可能会导致断电，断电后，人被困在电梯内不容易逃生。

9. (1)本州岛；日本；俄罗斯

(2)富士山

(3)日本降水多，河流水量大，且地形以山地、丘陵为主，河流落差大。

(4)东京受海洋的影响比济南要大，气候的海洋性特征明显，所以冬季气温比济南高，夏季气温比济南低。

第 2 课时　与世界联系密切的工业　东西方兼容的文化

【基础全练】

1. B　2. D

3. B　**点拨**：日本的工业是加工工业，对外进口原料，出口工业制成品，工业区分布在沿海地区，海上运输便利，利于原料进口和产品的出口。

4. C　**点拨**：日本海外投资建厂的主要对象是欧洲、美国、东亚和东南亚等国家和地区。

5. D　6. D

【培优精练】

1. D　**点拨**：日本地形以山地、丘陵为主，地狭人稠，资源贫乏，工业主要分布在太平洋沿岸和濑户内海沿岸。

2. B　3. B

4. A　5. B　6. C　**点拨**：迁入国可以得到经济发展所需的资金和技术，但是日本企业外迁主要是为了获取更大的经济利益，而不是为了支持迁入国的经济发展。中国拥有丰富的资源和庞大的消费市场，是最具吸引力的投资国家。

7. D

8. (1)东临太平洋，西临日本海

(2)太平洋沿岸和濑户内海沿岸；多优良港湾，交通便利，便于原料和燃料的进口和产品的出口

(3)日本文化既有东方文化的色彩，又具有西方文化气息，是东西方文化兼容的典型。(言之有理即可)

(4)富士山赏樱花、温泉游憩和日本料理等。

点拨：本题借助材料考查了日本的地理位置和人文地理内容。可从图中日本所临海洋分析其海陆位置，结合日本工业中心分布分析其工业分布规律及原因。日本文化具有东西方兼容的特征，日本著名的旅游项目有富士山赏樱花、温泉游憩和日本料理等。

第二节　东南亚

第 1 课时　“十字路口”的位置　热带气候与农业生产

【基础全练】

1. C　2. A　3. D　4. B

5. D　6. A　**点拨**：本题组主要考查东南亚的地震活动和气候类型。第 5 题，由苏门答腊岛的位置可知，该地处于亚欧板块和印度洋板块交界处。第 6 题，巴厘岛位于赤道附近，属于热带雨林气候。

【培优精练】

1. D

2. C　3. A　**点拨**：丙处不是马六甲海峡。图示地区主要位于热带，热量、水分充足，适合热带经济作物的生长。

4. D　5. C　**点拨**：火山喷发的火山灰富含矿物质，能够形成肥沃的土壤，适合耕作；东南亚的天然橡胶、棕榈油、椰子和蕉麻等的产量和出口量均居世界前列。

6. B　**点拨**：本题运用**理解记忆法**解题。东南亚国家主要分布在热带，受气候条件的影响，盛产热带经济作物。马来西亚是世界最大的棕榈油生产国。泰国盛产天然橡胶，产量居世界第一。印度尼西亚盛产椰子，是世界最大的椰子生产国。

7. A　**点拨**：东南亚主要为热带雨林气候和热带季风气候，图中①表示的是热带雨林气候，②表示的是热带季风气候，③表示的是温带海洋性气候，④表示的是亚热带季风气候。

8. (1)北

(2)②；①

(3)D

(4)印度尼西亚位于亚欧板块、印度洋板块和太平洋板块的交界处，地壳比较活跃，故多火山、地震。

第 2 课时　山河相间与城市分布　热带旅游胜地

【基础全练】

1. D　2. C　**点拨**：中南半岛的大城市主要分布在河流沿岸及河口三角洲地区，因为这里地势平坦，土壤肥沃，易于灌溉，交通便利，开发历史悠久。

3. D　**点拨**：本题考查中南半岛的国家及其首都。越南的首都是河内，老挝的首都是万象，柬埔寨的首都是金边，泰国的首都是曼谷；内比都是缅甸的首都，吉隆坡是马来西亚的首都。

4. B

5. A　**点拨**：泰国位于热带季风气候区，终年高温，降水多，河网密布，故形成水上市场。

6. C　7. A　**点拨**：读图可知，印度尼西亚大约四分之三的陆地位于赤道以南(即南半球)，全部位于东半球。由于印度尼西亚全部位于热带地区，故到印度尼西亚旅游，游客可以观赏到热带风光。

关注微信公众号“教辅资料站”获取更多学习资料

【培优精练】

1. C　2. C　**点拨**：中南半岛地势北高南低，以热带季风气候为主，植被属于热带季雨林。图中阴影地区主要分布在河流沿岸和河口三角洲地区，这里地形平坦，水源充足，适合水稻生长。

3. A　**点拨**：本题运用**提取关键信息法**解题。东南亚人口集中分布在冲积平原和河口三角洲的热带季风气候区，山区和岛屿上的热带雨林气候区人口稀少，主要原因是冲积平原和河口三角洲地区地势平坦，靠近水源，且气候适宜，故A项正确。

4. D　**点拨**：本题主要考查河流对东南亚地区人类生产、生活的影响。河流流经地区可以形成冲积平原，冲积平原地势平坦，土壤肥沃；河流不仅可以为农业提供灌溉水源，还可以为人类提供生活用水和便利的水运。故D选项正确。

5. D

6. B　**点拨**：泰国被称为“黄袍佛国”，把佛教尊为国教，佛教建筑、僧人很多。

7. (1)地处马六甲海峡东段的重要位置，处在东南亚的十字路口

(2)马来半岛；加里曼丹岛

(3)河流沿岸及河口三角洲；地形平坦、土壤肥沃、水资源丰富、交通便利等

(4)①中国有充足的资金，先进的制造业技术和众多的科技人才；

②中国市场广阔，消费能力强；

③东南亚有大量的农产品、丰富的矿产资源和旅游资源；

④东南亚地价低廉，劳动力丰富；中国企业可以来东南亚投资办厂，修建高铁等。

点拨：本题主要考查东南亚的自然和人文特点。第(1)题，新加坡是东南亚的热带城市岛国，南扼马六甲海峡东口，凭借其得天独厚的地理位置发展经济，以国际贸易、出口加工、航运、金融为主，成为东南亚的经济中心。第(2)题，马来西亚的领土包括马来半岛和加里曼丹岛两部分。第(3)题，读图可知，中南半岛的城市多分布在河流沿岸及河口三角洲。因为这些地区土壤肥沃、地势低平，易于灌溉，交通便利，成为人口稠密、农业发达的地区。第(4)题，①中国有充足的资金，先进的制造业技术和众多的科技人才；②中国市场广阔，消费能力强；③东南亚有大量的农产品、丰富的矿产资源和旅游资源；④东南亚地价低廉，劳动力丰富；中国企业可以来东南亚投资办厂，修建高铁等。

第三节　印度

第1课时　世界第二人口大国　热带季风气候

【基础全练】

1. A

2. B　**点拨**：图中①表示的是巴基斯坦，②表示的是尼泊尔，③表示的是孟加拉国，④表示的是缅甸。图中A表示的是喜马拉雅山脉，B表示的是德干高原。

3. B

4. D　**点拨**：人口素质偏低是印度人口众多的劣势。

5. C

6. A　**点拨**：印度以热带季风气候为主。热带季风气候不只分布在印度半岛，在东南亚等地区也有分布。此气候的特征为全年气温比亚洲同纬度其他地区高；西亚是基督教和伊斯兰教的发源地。

7. A　5. D　**点拨**：图中a表示的是德干高原，b表示的是恒河平原，c表示的是喜马拉雅山脉。恒河平原位于热带季风气候区，最主要的气象灾害是旱涝灾害。

8. B　7. C

8. B　9. D　**点拨**：第8题，南亚地区6～9月盛行西南季风，是其雨季，高温多雨。第9题，印度人口稠密与高温天气的形成无关。

10. (1)东北风；亚欧大陆；印度洋；旱

(2)西南风；印度洋；亚欧大陆；雨

(3)西南；印度洋　(4)A、D、F；B、C、E

点拨：本题考查印度的季风和水旱灾害。每年10月至次年5月，印度盛行由亚欧大陆吹向印度洋的东北季风，空气干燥、降水少，形成旱季。每年6～9月盛行来自印度洋的西南季风，空气湿润、降水多，形成雨季。但如果遇到反常年份，常造成水旱灾害。

第2课时　粮食生产　迅速发展的服务外包产业

【基础全练】

1. A　**点拨**：印度大部分位于热带、亚热带地区，降水丰富，热量充足，适合农业发展。

2. B　**点拨**：本题运用**表解法**解题。印度的主要农产品产量居世界首位或前列，这说明印度是一个世界农业大国。

3. C　**点拨**：印度的农产品产量虽然居世界前列，但印度是世界第二人口大国，农产品需求量大。

4. D　**点拨**：印度东北部地区降水多，而德干高原西北部和恒河上游地区降水相对较少，小麦主要分布在降水较少的地区。

5. B　**点拨**：水稻需要高温多雨的气候，印度的水稻大多分布在年降水量1 000毫米以上的恒河三角洲及沿海平原地区。

6. B　**点拨**：班加罗尔是印度软件外包产业的发源地。

7. C　**点拨**：在印度的服务外包产业中，软件外包产业是发展最快的行业。自20世纪90年代以来，印度软件外包产业每年的增速高达30%以上，最高时超过50%。

【培优精练】

1. C　**点拨**：印度主要粮食作物是水稻和小麦，地形以高原和平原为主，软件外包业务主要来自美国，其次是欧洲发达国家。

2. C　**点拨**：本题综合考查了印度小麦和水稻的分布。印度的水稻主要分布在恒河中下游地区和沿海地区，小麦主要分布在恒河上游地区和德干高原西北部。这主要是由于恒河流域降水较多，恒河平原和地势平坦的沿海平原地区适合水稻种植。而恒河上游地区和德干高原西北部降水相对较少，适合小麦的生长。

3. D　4. A　5. B　6. C

7. C　**点拨**：印度利用本国人力资源丰富、劳动力成本较低、英语普及、信息技术发展较早等优势，发展了服务外包产业。

8. (1)新德里；加尔各答；孟买；班加罗尔

(2)2/3；世界办公室　(3)质量好；成本低

点拨：本题为读图分析题，综合考查了印度的软件外包产业，解答时应注意读图，从图中获取有用的信息。第(1)题，从各个城市的相对位置来判断。第(2)题，印度每年承接全球服务外包市场近1/2的业务。其中，承接的软件外包业务约占全球软件外包市场的2/3，印度被形象地称为“世界办公室”。第(3)题，由于具有质量好和成本低的综合优势，印度备受向外承包软件业务企业的青睐。

第四节　俄罗斯

第1课时　横跨亚欧大陆北部

【基础全练】

1. D

2. B　3. D　**点拨**：俄罗斯的亚洲部分面积约占国土总面积的3/4。俄罗斯的西部为平原，较东部地势低，气候温暖；且西部农业基础好，发展历史早，工业基础好，所以俄罗斯人口和城市主要集中分布在欧洲部分。伏尔加河(④)全长3 600千米，注入里海，是欧洲第一长河，也是世界上最长的内流河，被称为俄罗斯的“母亲河”。

4. B　5. A

6. A　**点拨**：俄罗斯领土大部分位于北温带，森林、草原面积广大，沙漠面积较小，河流多自南向北流入北冰洋。

【培优精练】

1. B　**点拨**：从俄罗斯的地形区分布来看，俄罗斯的地势特点是东高西低。

2. C

3. B　**点拨**：图中①地主要地形区为西西伯利亚平原，俄罗斯东部地区纬度高，河流结冰期长，因此航运价值不高。

4. B　**点拨**：世界最大的湖泊是里海。

5. A　**点拨**：俄罗斯地势东高西低，西部以平原为主，东部多高原、山地；人口集中分布在欧洲部分；首都莫斯科位于东欧平原上。

6. A　**点拨**：俄罗斯大部分地区属于温带大陆性气候。由于纬度位置高，同其他国家的温带大陆性气候相比，夏季要短，冬季更长，气温也低。因此，俄罗斯的气候具有冬季寒冷而漫长，夏季温暖而短促的特点。

7. B　**点拨**：农业的发展、农作物的生长需要丰富的水热资源。俄罗斯河流众多，湖泊蓄水量大，淡水资源充足，但是俄罗斯纬度位置高，气温较低，热量不足成为制约俄罗斯农业发展的主要因素。

8. A

9. (1)太平；波罗的；长；广

(2)欧；亚

(3)东欧平原；西西伯利亚平原；中西伯利亚高原

(4)伏尔加；北；南；里海

(5)贝加尔湖；深；淡水

第2课时　自然资源丰富，重工业发达　发达的交通

【基础全练】

1. A　**点拨**：俄罗斯著名的油田是秋明油田，著名的铁矿是库尔斯克，煤矿是库兹巴斯，首都莫斯科不是有色金属的分布地。

2. D　**点拨**：本题运用**示意图法**解题。俄罗斯的欧洲部分是其西部地区，人口多，经济发达，但资源较少；俄罗斯的亚洲部分是其东部地区，人口少，经济落后，但资源丰富。从图中看：甲的淡水资源、土地面积多而人口少、科技力量弱，应该是东部地区；乙的淡水资源、土地面积少而人口多、科技力量强，应该是西部地区。

3. A

4. D　**点拨**：本题可从俄罗斯的工业区分布上来考虑。俄罗斯的工业主要集中在欧洲部分，而亚洲部分工业分布稀疏，四大工业区中，只有新西伯利亚工业区全部位于亚洲。

5. C　**点拨**：本题运用**归纳总结法**考查俄罗斯四大工业区的主要工业部门。根据俄罗斯矿产资源的分布，不同工业区工业部门不同。圣彼得堡工业区：石油化工、造船、电子、造纸和航空航天等工业发达，也是俄罗斯食品和纺织工业最发达的地区。以莫斯科为中心的工业区，主要有钢铁、汽车、飞机、火箭和电子等工业部门。乌拉尔工业区：主要有石油、钢铁、机械等工业部门。新西伯利亚工业区：主要有煤炭、石油、天然气、电力、钢铁等工业部门。故应选C。

关注微信公众号“教辅资料站”获取更多学习资料

6. D　**点拨**：莫斯科是俄罗斯的首都，是全国的政治、文化、交通中心，位于东欧平原中部，是全国最大城市，市内有著名的红场和克里姆林宫。

【培优精练】

1. D

2. C　**点拨**：俄罗斯是世界上陆地面积最大的国家，但不是世界上唯一地跨两大洲的国家；①是东欧平原；圣彼得堡是波罗的海沿岸的重要海港。

3. D　**点拨**：俄罗斯地处中、高纬度地区，以温带大陆性气候为主，冬季寒冷而漫长，夏季温暖而短促。东欧平原气候比较温和，人口和城市主要集中在这里。俄罗斯森林面积约占全国总面积的一半，拥有世界上面积最大的针叶林区。俄罗斯铁路、公路、航空、内河与海洋航运和管道运输都很发达。客运以铁路和公路运输为主，货运主要以铁路和管道运输为主。

4. D　5. B　**点拨**：第4题，图中甲是波罗的海，乙是乌拉尔山脉，丙是鄂毕河，丁是贝加尔湖；第5题，俄罗斯的首都是莫斯科，位于东欧平原中部，是全国最大的城市和政治、经济、文化、交通中心，圣彼得堡为全国第二大城市和著名海港；俄罗斯铁路、公路、航空、内河与海洋航运和管道运输都很发达，客运以铁路和公路运输为主，货运主要以铁路和管道运输为主；俄罗斯西伯利亚地区冬季非常寒冷，东欧平原气候比较温和，人口和城市主要集中在这里。

6. C

7. (1)亚；一；北极圈　(2)秋明；管道

(3)重；服装、玩具、鞋类等消费品(答出一点即可)

(4)气候寒冷；冻土层厚；山区修建难度大，成本高等

点拨：第(1)题，俄罗斯是一个地跨两大洲、面积居世界第一位的国家，其中，北极圈穿过俄罗斯的北部地区。第(2)题，俄罗斯资源丰富，位于乌拉尔山脉以东的著名油田是秋明油田。俄罗斯石油、天然气主要以管道运输方式输送至我国。第(3)题，俄罗斯重工业发达，消费品制造业发展相对滞后，所以中国的轻工业产品：服装、玩具、鞋类等消费品在俄罗斯备受青睐。第(4)题，气候寒冷；冻土层厚；山区修建难度大，成本高等是在西伯利亚地区修建输气工程需要克服的困难。

第七章强化巩固复习

【好题必练 · 练真题】

1. D　**点拨**：日本工业区主要分布在太平洋沿岸和濑户内海沿岸的狭长地带，故D叙述错误。

2. D　**点拨**：日本的工业主要分布在太平洋及赖户内海沿岸，A错误；平原狭小，人多地少，农业生产使用小型机械，单产较高，B错误；日本温泉广布的原因是位于板块的交界处，多火山地震，地热资源丰富，C错误；日本为加工贸易型经济，经济实现了从"商品输出为主"转型为"资本输出为主"，D正确。

3. C　4. B　**点拨**：读图可知，中南半岛上的河流大多自北向南流入海洋，因此可知中南半岛地势北高南低；中南半岛北部地势高峻，与我国山水相连，高山和大河由北向南延伸，形成山河相间、纵列分布的地表形态。比较题干中的四个选项可得，流经国家最多的河流是②湄公河，被称为"东方多瑙河"。

5. A　**点拨**：结合所学可知，孟买位于印度西部沿海，属热带季风气候，雨季盛行来自印度洋的西南季风，旱季盛行来自亚洲内陆的东北季风，因此，考虑飞机的逆风飞行，孟买修建飞机场起降跑道一般应为东北—西南走向，故选A。

6. C　**点拨**：俄罗斯东、北、西三面分别濒临太平洋、北冰洋和波罗的海，故A错误；地势东高西低，地形以高原、平原为主，故B错误；城市主要集中在P乌拉尔山脉以西东欧平原地区，故C正确；R河是勒拿河，它是东西伯利亚山地和中西伯利亚高原的分界线，故D错误。

7. C　8. B　**点拨**：本题组考查俄罗斯的交通运输。第7题，从图中能够看出，俄罗斯的客运以公路和铁路为主，货运以管道和铁路为主。第8题，由于俄罗斯所处纬度高，冬季寒冷漫长，河流结冰期长，并且河流多南北流向，对于东西向运输作用不大，因此内河航运不发达。

9. (1)北回归线穿过印度的中部，印度主要位于低纬度地区。

(2)热带季风气候；终年高温、降水分旱雨两季

(3)西南；标注略。　(4)B；水稻

(5)人口增长快；影响经济的发展和人民生活水平的提高；给自然资源和生态环境带来沉重的压力；还会带来严重的社会问题，如就业困难、住房紧张、交通拥挤、教育和医疗条件得不到改善、犯罪率上升等。

【填图学地理】

略

第八章　东半球其他的地区和国家

第一节　中东

第 1 课时　"三洲五海之地"

【基础全练】

1. D

2. D　**点拨**：本题主要考查中东的范围。阿富汗不属于中东地区，按地理区域划分，阿富汗属于西亚。

3. B　4. A　5. D

6. C　7. B　**点拨**：题图中P处是中东地区著名的苏伊士运河，它沟通了红海和地中海，是印度洋通往大西洋的捷径。

【培优精练】

1. A　2. C

3. A　**点拨**：题图中①是苏伊士运河，它既是亚、非两洲的分界线，又沟通了红海与地中海，从而联系印度洋与大西洋的交通要道，②是土耳其海峡，它是亚、欧两洲的分界线，又是黑海出入地中海的唯一交通要道，地理位置极其重要。

4. C　5. A

6. A　**点拨**：本题组主要考查中东地区的地形，需运用**读图分析法**解题。读图可知，中东地区的地形以高原为主；A河是底格里斯河，B河是幼发拉底河，A、B两河位于美索不达米亚平原。

7. B　8. D

9. A　**点拨**：图中数字代表的国家①是土耳其，是一个跨亚、欧两洲的亚洲国家；②是埃及，是一个跨亚、非两洲的非洲国家；③是阿拉伯联合酋长国；④是阿富汗，是一个西亚国家，不属于中东。

10. (1)c；b；a；d

(2) ①—黑海　②—红海　③—里海　④—地中海

第 2 课时　世界石油宝库　匯圣的水资源多元的文化

【基础全练】

1. C　2. C　3. D　**点拨**：本题组主要考查中东地区石油的分布和出口，以及与中东地区的地位、人种构成等知识。第1题，中东是目前世界上石油储量最大、生产石油最多的地区。第2题，中东地区水资源匮乏，气候干燥。第3题，读图可知，中东地区所产石油大部分用来出口，主要输往东亚、欧洲西部和北美洲。

4. C

5. C　**点拨**：本题运用**联系实际法**解题。中东地区气候炎热干燥，风沙大，阿拉伯人传统服饰的主要作用是遮阳挡风。

6. D　**点拨**：中东地区降水稀少，不适合建大型水库。

【培优精练】

1. D　2. B　3. B　**点拨**：航线C经马六甲海峡输往东亚，航线B经过非洲南端的好望角输往欧洲西部和北美洲，航线A经过苏伊士运河输往欧洲西部和北美洲。

4. C　**点拨**：本题易错选B项，中东"水贵"的原因是气候条件造成的。中东大部分地区属于热带沙漠气候，全年降水稀少，蒸发量大，河流稀少，水资源匮乏。

5. C　**点拨**：中东地区由于地理位置重要，淡水资源紧张，石油资源丰富，民族宗教构成复杂，故战争频繁，与国家多少无关。

6. B　**点拨**：中东石油资源丰富，开采石油的矿井井架林立；美国、日本石油消费量大，两国的油轮把中东地区的石油源源不断地运到本国；中东气候干燥，形成大面积的沙漠，骆驼是该地区的主要动物；中东很多地区的传统民居屋顶是平的，夜晚人们常把床铺安放在屋顶上；中东居民大多信仰伊斯兰教，教徒们捧着《古兰经》去清真寺做礼拜，少数居民信仰基督教，教徒们手捧《圣经》到教堂做礼拜。

7. C　**点拨**：中东地区属于热带沙漠气候，炎热干燥多风沙，所以阿拉伯男子的传统装扮是戴头巾，身穿宽大的白色长袍，骑骆驼出行。

8. (1)亚洲；非洲

(2)土耳其海峡；苏伊士运河；霍尔木兹海峡

(3)伊拉克；伊朗；科威特；沙特阿拉伯

(4)石油；波斯湾；全年炎热干燥；水

(5)白色；伊斯兰

第二节　欧洲西部

第 1 课时　工业密集，发达国家集中

【基础全练】

1. D　**点拨**：欧洲西部北临北冰洋，南临地中海，西临大西洋。

2. A　**点拨**：欧洲西部大部分位于北温带，小部分位于北寒带。

3. A　4. D

5. D　**点拨**：图中数字代表的国家①是印度，位于亚洲南部；②是法国，首都是巴黎；③是英国；④是德国。②③④三国都位于欧洲西部。

6. B　**点拨**：欧洲西部的工业以机械、汽车、化学工业等制造业为主。

7. B　**点拨**：欧洲西部的农业在国民经济中所占比重较小，但生产力水平高，多用机械，自动化程度高，耗用劳动力少。

8. D　**点拨**：欧洲西部服务业体系完善，服务质量优，产值大，是国民经济的支柱。

【培优精练】

1. D　**点拨**：西欧的范围比欧洲西部小。

2. D　3. D　**点拨**：第2题，欧洲西部畜牧业发达，在农业中所占的比重高，但农业在国民经济中所占比重较小，本区的支柱产业是服务业。第3题，图中A国是德国，首都是柏林；B国是西班牙，首都是马德里；C国是法国，首都是巴黎；D国是意大利，首都是罗马。

4. C　5. B　**点拨**：意大利、摩纳哥和法国属于欧洲国家，人种以白种人为主。欧洲西部地形以平原为主，主要信仰基督教，气候以温带气候为主，是发达国家集中的地区。

关注微信公众号"教辅资料站"获取更多学习资料

6. B　7. C　8. A　**点拨**：欧洲西部工业发达，主要生产高端工业制成品，而煤炭、粮食和石油等属于初级产品，不是欧洲西部国家的主要出口产品。瑞士被称为“钟表之都”。德国的大众汽车是世界著名的汽车品牌。

9. (1)北冰洋；大西洋；地中海

(2)西班牙；伦敦；德国

(3)发达；分布十分集中，且多沿海分布

第2课时　现代化的畜牧业　繁荣的旅游业

【基础全练】

1. C　2. D　3. A

4. A　**点拨**：欧洲西部地形自北向南分为三大地形区，北部为斯堪的纳维亚山脉，中部为西欧平原和波德平原，南部为阿尔卑斯山脉、亚平宁山脉、喀尔巴阡山脉、比利牛斯山脉。

5. C　6. A

【培优精练】

1. C　2. A

3. A　**点拨**：欧洲西部地形以平原为主，温带海洋性气候分布最广，河流水流缓慢，航运价值高；欧洲西部农业以畜牧业为主，工业发达，部门齐全，既有自然旅游资源，也有人文旅游资源。

4. C　**点拨**：欧洲城市风貌典雅，建筑风格各异，伦敦塔桥位于英国，古罗马竞技场位于意大利，凡尔赛宫位于法国，克里姆林宫位于俄罗斯。

5. A　**点拨**：雅典是希腊的首都，位于地中海沿岸，位于亚欧板块和非洲板块交界地带，所以地壳比较活跃。

6. B　**点拨**：根据欧洲气候类型的分布，地中海沿岸属于地中海气候，冬季温和多雨，夏季炎热干燥，石质材料有利于防火。

7. D　8. D

9. (1)平原；西欧平原；波德平原

(2)比利牛斯山脉；斯堪的纳维亚山脉；阿尔卑斯山脉

(3)莱茵河；北；多瑙河；黑　(4)③；⑤

(5)东西；大西洋暖湿；温带海洋性；牧草；畜牧业

第三节　撒哈拉以南非洲

【基础全练】

1. C　2. D　3. A　**点拨**：第1题，非洲分为北非和撒哈拉以南非洲两大区域，北非以白种人为主，撒哈拉以南非洲黑种人占总人口的90%以上。第2题，坦桑尼亚赛伦盖蒂国家公园属于热带草原气候，牦牛主要生活在海拔较高的高原山地气候区。第3题运用**排除法**解题，甲河为刚果河，流经刚果盆地，流域内覆盖着郁郁葱葱的热带雨林，含沙量小，无结冰期。世界第一长河是尼罗河，故B、C、D错误。

4. A

5. D　**点拨**：历史上长期受殖民统治是造成非洲经济落后的主要原因。

6. B

7. A　**点拨**：撒哈拉以南非洲的许多国家独立后，经济都有不同程度的发展，不少国家的人民生活水平得到提高，人口迅速增长，人口增长的速度超过了粮食和经济增长的速度。现在非洲人口增长速度在世界各大洲中居首位，许多国家粮食不能自给，而本区农牧业生产落后，农产品产量很低，再加上人们砍伐森林、开垦草原来种植庄稼，或过度放牧，带来一系列的环境问题，如土地肥力下降、草原退化、沙漠面积扩大等。三大问题环环相扣，出现恶性循环。

【培优精练】

1. A　**点拨**：非洲的地形以高原为主，被称为“高原大陆”；非洲的气候以热带草原气候为主，热带雨林气候占少部分；非洲资源丰富，但煤的产量和出口量并非居世界首位；非洲国家绝大多数是发展中国家。

2. B　3. B　**点拨**：两地都属于热带草原气候，只不过所在半球不同，因此从降水资料看，干湿季节不同；2016年11月处于北半球的马赛马拉为干季，此时角马从马赛马拉向南迁徙到南半球的塞伦盖蒂，这里正好为湿季。

4. B　**点拨**：撒哈拉以南非洲的气候以热带草原气候为主；本区虽然自然资源丰富，但由于长期殖民统治、经济落后，属于以出口初级农矿产品为主的经济；本区的人种90%以上属于黑色人种。

5. C　**点拨**：肯尼亚位于东非高原上，气候温和宜人，四季鲜花怒放，其首都内罗毕被誉为“阳光下的花城”。肯尼亚大力发展了花卉业、旅游业，成为非洲最大的鲜花出口国和著名的旅游国家。

6. B　**点拨**：非洲是人口自然增长率最高的大洲，人口的快速增长造成了粮食的极度短缺，为了满足粮食需要，人们不断地破坏生存环境，现阶段人口、粮食、环境是非洲面临的巨大问题，其中最严重的问题是人口问题，该问题又是粮食问题和环境问题产生的根源，故选B。

7. (1)南　北回归；热；黑

(2)南北对称；热带草原

(3)61；交通设备及机械；发展民族工业，发展多样化农业，控制人口增长等。(任答一点即可)

第四节　澳大利亚

【基础全练】

1. C　**点拨**：从海陆位置看，澳大利亚东临太平洋，西临印度洋；从纬度位置看，澳大利亚位于赤道以南，南回归线横穿其中部，处于热带和南温带；从半球位置看，澳大利亚国土全部位于南半球、东半球。

2. B　3. C

4. A　**点拨**：澳大利亚利用不同地区的自然条件，因地制宜发展养羊业，由于本国人口稀少，羊毛、羊肉、小麦的商品率很高。

5. C　**点拨**：澳大利亚地势较低，西部是低矮的高原，草原辽阔，而且澳大利亚气候多样，这些地形和气候的自然条件，适合不同品种绵羊的生长和繁殖。再加上澳大利亚独占整个大陆，大型肉食猛兽很少，所以适合养羊业的发展。本题易误认为牧羊带人口多而错选。

6. D

【培优精练】

1. D　**点拨**：澳大利亚是世界上独占一个大陆的国家，而不是独占一个大洲的国家，A项错误。澳大利亚的领土组成包括澳大利亚大陆、塔斯马尼亚岛和附近一些小岛，它不是岛国，而且位于两大洋之间，B项错误。由澳大利亚纬度位置可推知气候不会寒冷，C项错误。

2. B　3. B　**点拨**：澳大利亚热带面积广大，气候干旱，在降水相对较多的地方，畜牧业发达，因此影响其农业分布的主要因素是降水；袋鼠是澳大利亚特有动物。

4. D　5. B　6. B　**点拨**：本题运用**综合分析法**解题。受降水量的影响，澳大利亚从东南和西南沿海向内陆牧羊带类型依次为羊-牛与经济作物混合经营带，绵羊与小麦混合经营带和粗放牧羊带。图中甲为羊-牛与经济作物混合经营带，以肉用羊为主；乙为粗放牧羊带，以毛用羊为主。乙地为热带草原气候和热带沙漠气候，牧场规模很大。

7. A　**点拨**：澳大利亚在采矿过程中十分注意环境保护。

8. B

9. (1)铁；粗放牧羊带　(2)C　(3)B

(4)袋鼠、鸸鹋、琴鸟、考拉等(任写一种)；金合欢、桉树(任写一种)；较早地与其他大陆分离，长期孤立于南半球的海洋上，自然环境单一，减缓了物种进化的速度

点拨：第(1)题，从图例可以看出，A地主要的矿产是铁；B地温暖干燥，主要为粗放牧羊带。第(2)题，澳大利亚因饲养绵羊特别多，被称为“骑在羊背上的国家”，羊毛是其重要的出口物资，除此之外，澳大利亚还大量出口羊肉。第(3)题，澳大利亚自西向东依次为高原、平原、山地。第(4)题主要考查了澳大利亚特有的生物及物种古老的原因。

第八章强化巩固复习

【好题必练·练真题】

1. A　2. B　3. A

4. C　**点拨**：四场比赛中的欧洲国家有法国、西班牙、德国、挪威。

5. C　**点拨**：艾尔斯巨石位于澳大利亚。

6. D　**点拨**：撒哈拉以南非洲历史上长期受殖民主义者占领和掠夺，出口初级农矿产品，进口工业制成品，在国际贸易中处于不利地位。

7. (1)太平；澳大利亚

(2)东南沿海；白色；基督

(3)矿产资源丰富，矿产品种类多；储量大，质量优，易开采；多优良港口，海运便利等(符合题意，任意两点即可)。

【填图学地理】

略

第九章　西半球的国家

第一节　美国

第1课时　民族大熔炉　农业地区专业化

【基础全练】

1. D　**点拨**：本题运用**读图记忆法**解题。美国本土和阿拉斯加州位于北美洲，夏威夷州位于大洋洲，所以美国地跨两大洲。美国本土东临大西洋，西临太平洋，阿拉斯加州北临北冰洋，所以美国濒临三大洋。由于北极圈穿过阿拉斯加州，北回归线穿过夏威夷州，所以美国兼跨寒、温、热三带。

2. B　3. A

4. D　**点拨**：美国西部是高大的山系，东部是低缓的山地，中部为广大的平原，平原面积占全国总面积一半以上，所以地形以平原为主，地势特征是东、西部高，中部低；美国降水的分布大致是由东南向西北递减；从纬度位置上看，北极圈穿过美国的阿拉斯加州，北回归线穿过美国的夏威夷州。故选D。

5. D　6. B　**点拨**：第5题，甲农业带是乳畜带，这里位置偏北，气候冷湿，适宜牧草生长；这里城市和人口密集，消费市场大，为畜牧业的发展提供了有利条件。第6题，图中乙处为小麦区，其中北部为春小麦，南部为冬小麦；丙处为玉米带。

【培优精练】

1. D　2. C　**点拨**：星条旗是美国的国旗。美国农业生产发达，许多农产品的生产量和出口量居世界前列。

3. B

4. D　5. B　**点拨**：本题组主要考查美国的自然环境。第4题，通过读图明确美国平原面积广，耕地广阔；美国有世界第四长河——密西西比河，东北部有世界最大的淡水湖群——五大湖，所以美国河流、湖泊较多，内河航运发达。第5题主要考查美国自西向东的地势特点。通过读“美国本土地形简图”明确美国本土的地形特点；西部是高大的科迪勒拉山系，中部为面积广大的平原，东部是低缓的阿巴拉契亚山脉。

6. D　**点拨**：本题运用**排除法**解题。美国五大湖区气候冷湿，适合牧草生长，形成了乳畜带，但该地降水不是最丰沛的，A错误；中部地区是大平原，地势平坦、土地肥沃，适合种植玉米，形成了玉米带，B错误；美国北部地势平坦、土地肥沃，但由于纬度较高，热量不足，形成了春小麦区，C错误；美国西部多山地，降水较少，因地制宜发展了畜牧业和灌溉农业，故选D。

7. D

关注微信公众号“教辅资料站”获取更多学习资料

8. (1) A

(2) 热带面积狭小，热带经济作物产量小。

(3) 气候冷湿，适宜牧草生长；人口、城市分布密集，消费市场广阔。

第2课时　世界最发达的工业国家

【基础全练】

1. B　**点拨**：美国自然资源丰富，但由于消费量大，仍需大量进口；美国东北部工业区是老工业区，西部、南部工业区是新兴工业区。故选 B。

2. D　**点拨**：美国农业生产规模大，现代化程度高，是世界农业强国，也是世界上出口粮食最多的国家。美国的钢铁、机械、汽车、化工等工业集中分布在东北部工业区，该工业区濒临大西洋。美国的高新技术产业主要分布在南部、西部环境优美的新兴工业区。由于美国热带范围小，日常生产和生活消耗比较大，需大量进口热带农产品和日用工业品。

3. C　**点拨**：美国的能源、钢铁、机械、化工等工业在世界上占有重要地位，其中，军事工业和尖端技术领域处于世界领先地位。

4. D

5. D　**点拨**：本题运用**读图记忆法**解题。图中甲为纽约，是美国第一大城市；乙是芝加哥，美国的交通中心；丙为休斯敦，美国的新兴宇航工业中心；丁为圣弗朗西斯科(旧金山)，美国的“硅谷”位于该城市东南。

6. D

【培优精练】

1. A　**点拨**：美国工业集中分布在东北部工业区、南部工业区和西部工业区三大工业区。东北部工业区的工业城市有纽约、华盛顿、底特律、匹兹堡等，西部工业区的工业城市有旧金山、洛杉矶、西雅图等，南部工业区的工业城市有休斯敦、新奥尔良等。

2. C　3. A　4. A　5. C　**点拨**：美国工业发展最早的是东北部工业区。美国五大湖沿岸煤、铁资源丰富，适合发展钢铁工业。美国东北部工业区人口稠密，而且美国南部和西部工业区发展的是新兴工业，需要的是高素质的劳动力，因此劳动力相对充足不是其向南部发展的原因。

6. B　7. D　**点拨**：美国信息技术产业能够促进就业，提高劳动生产率，促进经济发展，但是不能代替其他产业部门。

8. (1) 甲；乙

(2) (丰富的)煤炭、铁矿(或矿产资源)、水(资源)。

(3) A

点拨：第(1)题，底特律位于美国东北部工业区，汽车工业发达，是著名的“汽车城”；旧金山东南的“硅谷”是美国兴起最早、规模最大的高新技术产业中心，微电子工业发达。第(2)题，美国东北部工业区煤、铁资源丰富；地处五大湖区附近，水资源丰富。第(3)题，A 地地处五大湖区附近，是美国的制造业带，城市和人口密集，对乳畜产品的需求量大，市场广阔，并且这里位置偏北，气候冷湿，适宜发展乳畜业。

第二节　巴西

第1课时　大量混血种人的社会　发展中的工农业

【基础全练】

1. A　2. C

3. D　**点拨**：姑娘们穿上心爱的和服，欢度自己的“成人节”描写的是日本的特色文化。

4. A　**点拨**：巴西是拉丁美洲面积最大、人口最多的国家。白种人占总人口的一半以上。巴西国土大部分位于热带，工业分布多靠近原料产地，主要集中在东部沿海地区。

5. D

6. B　**点拨**：巴西面积占南美洲近 1/2，北部被赤道穿过，地跨南、北两个半球。亚马孙平原地势低平，面积辽阔，但气候湿热，适宜生长热带雨林，不是巴西重要的农业区。巴西高原矿产资源丰富，铁矿储量居世界前列。亚马孙河流经亚马孙平原，水量极大。

【培优精练】

1. C　2. A　3. C　4. B

5. D　**点拨**：第二次世界大战之后，巴西工业化步伐加快，钢铁、汽车、飞机制造等跻身于世界重要的生产国行列，大部分工业分布在东南部矿产丰富、人口众多的地区。巴西的农业中，咖啡豆、蔗糖、橘汁是重要的出口创汇产品。

6. A　**点拨**：巴西通用葡萄牙语。

7. A　8. D

9. C　**点拨**：美国主要位于北温带，因此热带经济作物分布较少，农业实现了专业化，是世界上最发达的国家；巴西盛产热带经济作物，两国都位于西半球。

10. C　**点拨**：本题运用**理解记忆法**解题。巴西矿产资源丰富，铁矿产量居世界前列，但能源资源不足；在铁矿资源丰富的基础上，巴西的钢铁、汽车、飞机制造等工业比较发达，主要分布在东南沿海靠近资源的地区。为解决能源不足问题，巴西和巴拉圭合资修建了伊泰普水电站，位于巴拉那河上。

11. (1) 印第安人；白种

(2) 亚马孙；大西；咖啡

(3) 巴西利亚；咖啡；甘蔗；柑橘

(4) 东南沿海(或东南部地区)；工业分布靠近原料产地

第2课时　热带雨林的开发与保护

【基础全练】

1. C　**点拨**：亚马孙河是世界上流域面积最广、水量最大的河流。

2. D　**点拨**：亚马孙河流域拥有世界上面积最大的热带雨林，它不仅对本地区的生态环境有影响，还能够改善整个地球的大气环境。

3. C　**点拨**：热带雨林的破坏以人为原因为主，包括非法砍伐、烧荒种地等。

4. B　5. D　6. A

【培优精练】

1. A　2. B

3. C　**点拨**：本题运用**提取关键信息法**解题。巴西的热带雨林具有巨大的经济效益和环境效益，①属于经济效益，②③④属于环境效益。

4. B　**点拨**：大量砍伐热带雨林不是可持续发展之路，更不是振兴经济的唯一途径。

5. D　6. C　**点拨**：热带雨林的开发不当会导致亚马孙河流域水土流失加剧、野生动物遭劫，影响全球气候和空气质量等。由于该国能源矿产短缺，于是利用盛产甘蔗的优势，以甘蔗为原料制造酒精，大力发展以酒精为动力的汽车。

7. (1) ①③⑤　(2) 高；低

(3) 逐渐减少；乱砍滥伐，采矿，办工厂，建城镇，修公路等。(合理即可)

点拨：第(1)题，亚马孙河发源于安第斯山脉，跨越高温多雨的赤道南北，向东注入大西洋，是世界上径流量最大、流域面积最广的河流，其长度仅次于非洲尼罗河，居世界第二位。亚马孙河支流众多，水流平缓，航运便利，但该地区人口稀少，因此航运价值不高。第(2)题，由材料一可知，马瑙斯位于亚马孙平原，巴西利亚位于巴西高原，因此巴西利亚的地势较高，气温较低。第(3)题，由材料二可知，近年来，亚马孙热带雨林面积变化的趋势是逐渐减少，其人为原因分析合理即可。

第九章强化巩固复习

【好题必练·练真题】

1. D　**点拨**：观察图可知，①是世界第四长河——密西西比河；②是纵贯南北的落基山脉；③是洛杉矶，美国兴起最早、规模最大的高新技术产业中心在旧金山附近；按美国农业带的划分，④处应该是玉米带。

2. B　**点拨**：密西西比河和五大湖为美国的灌溉、航运提供了良好的条件。

3. D　4. B　5. A

6. C　**点拨**：旧金山是美国太平洋沿岸重要的金融、贸易和文化中心，也是著名的天然良港。以斯坦福大学等高校和科研院所为依托的“硅谷”，是全球闻名的高新技术产业园区。

7. C　**点拨**：亚马孙河流量大，落差小，但流经热带雨林地区，航运价值小；巴西的农业区主要分布在东南部沿海地区；矿产资源种类多，主要分布在巴西高原；巴西90%以上的人口居住在东部沿海地带，其中，以东南部人口最为稠密。

8. B　9. A　10. B

【填图学地理】

略

第十章　极地地区

【基础全练】

1. B　2. A

3. D　**点拨**：从长城站出发，按顺时针方向环绕南极洲一圈，轮船依次经过大西洋、印度洋、太平洋；为了采光，长城站和中山站的门窗都朝向北方；南极地区没有常住人口，因纽特人居住在北极地区；南极代表性的动物是企鹅。因此选项 A、B、C 皆错。

4. C　5. D

6. A　7. A　**点拨**：从黄河站的经纬度可知，它位于图中的①地。从图中看，黄河站位于亚欧板块。

8. D　9. C

【培优精练】

1. B　**点拨**：企鹅生活在寒冷的南极地区，它的皮下有一层厚厚的脂肪，可以抵御当地严寒的自然环境。

2. D　**点拨**：南极地区的气候特点是酷寒、干燥、多狂风；南极洲进出于海拔最高的大洲；南极洲气候严寒，有巨厚的冰川，是世界上淡水资源最丰富的大洲；南极地区地下埋藏着丰富的矿产资源。

3. B　4. B　5. D

6. A　7. D　8. C　**点拨**：南极洲周围相临的海洋有印度洋、大西洋和太平洋。读图可知，罗斯海新站濒临的大洋是太平洋。南极洲位于南半球，大部分位于南寒带，1～2 月南极地区白昼时间长，同时是南极地区的暖季，对开展工作是最有利的时间。许多国家到极地进行科学考察，南极地区是自然资源的大仓库，地下埋藏着丰富的矿产资源，地上储存着大量的固体淡水资源，海域及沿岸栖息着无数的海洋生物。极地地区原始的自然环境为科学家们提供了天然实验室，所以人类对极地进行科学考察，目的是更好地保护地球环境。

9. B　**点拨**：南极地区中心为南极洲，周围包括南太平洋、南大西洋和南印度洋的一部分。南极地区中心为北冰洋，周围为亚欧大陆和北美大陆的北部及一些岛屿，故 A 错误；北极地区的代表性动物是北极熊、北极狐、海象；南极地区的代表性动物是企鹅和磷虾，B 正确；两极地区的气候特点是：酷寒，多狂风，降水稀少，故 C 错误；我国在南北极点没有科学考察站，故 D 错误。

10. (1) 长城站　(2) 寒假　(3) 正北　(4) C　(5) D

点拨：第(2)题，我国科学家去南极科考的时间一般是 11 月到次年的 2 月，该时间为我国的冬季。第(3)题，在南极点上所有的方向都朝北，其他各点都位于南极点的正北方向。第(4)题，南极地区的代表性动物是企鹅。第(5)题，南极地区气候寒冷，降水稀少，1 月份为其暖季。

【填图学地理】

略

关注微信公众号“教辅资料站”获取更多学习资料