教辅资料站
电子教辅　试卷练习
知识总结　备课资源
扫码关注获取更多学习资料

典中点®

综合应用创新题 典中点

一本在做题中教会你学习方法的书

荣德基典中点



六年级 数学

下（JJ版）

主　　编：荣德基
本册主编：涂　展

吉林教育出版社



极速提分16招

廿年磨一剑　《典中点》放出提分必杀技

不得售中点

技巧类	第1招　圆柱表面积的解题技巧	教材第四单元
	第2招　圆柱与圆锥体积的解题技巧	教材第四单元
	第3招　计算技巧	教材第六单元
	第4招　巧抓不变量	教材第六单元
方法类	第5招　用“转化法”解决问题	教材第六单元
	第6招　用“画示意图法”解决问题	教材第六单元
	第7招　用“公式法”解典型应用题	教材第六单元
	第8招　用“设数法”解决问题	教材第六单元
	第9招　用“方程法”解决问题	教材第六单元
	第10招　用“整体分析法”解决问题	教材第六单元
思想类	第11招　用“对应思想”解决问题	教材第六单元
	第12招　用“假设思想”解决问题	教材第六单元
	第13招　用“类比思想”解决问题	教材第六单元
应用类	第14招　生活中的负数	教材第一单元
	第15招　正比例与反比例的应用	教材第三单元
	第16招　加法原理和乘法原理的应用	教材第六单元

☑练妙招　☑培素养　☑巧提分

内容详见夹册《极速提分法》

关注微信公众号“教辅资料站”获取更多学习资料

CONTENTS 目录

第一单元 生活中的负数

第 1 课时 天气预报中的负数 …… 1
第 2 课时 认识正、负数 …… 2
第 3 课时 用正、负数表示相反意义的量 …… 3
第 4 课时 根据一定的标准用正、负数表示相反意义的量 …… 4
第 5 课时 用正、负数表示事物中数据的变化 …… 5
阶段小达标（1） …… 6
综合应用》记录天气 …… 8
第一单元过关检测卷（活页卷） …… 77

第二单元 位置

第 1 课时 用数对表示具体情境中物体的位置 …… 9
第 2 课时 在方格图中用数对确定物体的位置 …… 10
阶段小达标（2） …… 11
第二单元过关检测卷（活页卷） …… 81

第三单元 正比例 反比例

第 1 课时 正比例的意义 …… 13
第 2 课时 正比例的图象 …… 14
第 3 课时 反比例的意义 …… 15
第 4 课时 整理与复习 …… 16
阶段小达标（3） …… 17
第三单元过关检测卷（活页卷） …… 85

第四单元 圆柱和圆锥

第 1 课时 圆柱的表面积》认识圆柱和计算侧面积 …… 19
第 2 课时 圆柱的表面积》圆柱表面积的计算方法 …… 20
第 3 课时 圆柱的体积》探索圆柱的体积公式 …… 22
第 4 课时 圆柱的体积》圆柱体积公式的实际应用 …… 24
阶段小达标（4） …… 25
第 5 课时 容积》容积的意义与计算方法 …… 27
第 6 课时 容积》测量不规则物体的体积 …… 28
第 7 课时 圆锥》认识圆锥 …… 29
第 8 课时 圆锥》探索圆锥的体积公式 …… 30
第 9 课时 圆锥》解决与圆锥有关的实际问题 …… 31
第 10 课时 整理与复习 …… 33
阶段小达标（5） …… 34
综合应用》木材加工问题 …… 36

第五单元 探索乐园

第 1 课时 探索身份证号码编制规则 …… 37
第 2 课时 探索数字密码编码规律 …… 38
第四、五单元过关检测卷（活页卷） …… 89
期中检测卷（活页卷） …… 93

禁止集中注
微信公众号
教辅资料站

关注微信公众号“教辅资料站”获取更多学习资料

第六单元　回顾与整理

（一）数与代数

第 1 课时　数的认识》

数的意义 …… 39

第 2 课时　数的认识》

数的性质 …… 41

第 3 课时　数的认识》

因数和倍数 …… 42

阶段小达标（6） …… 44

第 4 课时　数的运算》

四则运算意义与计算方法 …… 46

第 5 课时　数的运算》

四则混合运算与简便运算 …… 47

第 6 课时　数的运算》

估算 …… 48

第 7 课时　数的运算》

解决问题 …… 49

阶段小达标（7） …… 51

第 8 课时　式与方程》

用字母表示数 …… 53

第 9 课时　式与方程》

解方程 …… 54

第 10 课时　式与方程》

列方程解决问题 …… 55

第 11 课时　正比例　反比例》

比和比例的意义和性质 …… 56

第 12 课时　正比例　反比例》

正比例和反比例的意义 …… 57

第 13 课时　探索规律 …… 58

阶段小达标（8） …… 59

数与代数过关检测卷（活页卷） …… 97

（二）图形与几何

第 1 课时　图形的认识》

平面图形的认识 …… 61

第 2 课时　图形的认识》

立体图形的认识 …… 62

第 3 课时　测量》

长度、面积和体积单位 …… 63

阶段小达标（9） …… 64

第 4 课时　测量》

平面图形的周长和面积 …… 66

第 5 课时　测量》

立体图形的表面积和体积 …… 67

第 6 课时　图形的运动 …… 68

第 7 课时　图形与位置 …… 69

阶段小达标（10） …… 70

（三）统计与概率

第 1 课时　简单的数据统计过程 …… 72

第 2 课时　可能性 …… 73

图形与几何、统计与概率过关检测卷（活页卷） …… 101

（四）综合与实践

第 1 课时　节约水资源 …… 74

第 2 课时　开发绿色资源 …… 75

第 3 课时　生活小区 …… 76

期末检测卷（活页卷） …… 105

参考答案及点拨 …… 109

未经重申活
微信公众号
教辅资料站

关注微信公众号“教辅资料站”获取更多学习资料

（一）数与代数

第1课时　数的认识》数的意义 ☞（答案见117页）

考点必知

考点1 数的意义

1. 填一填。

（1）整数可以分为（　　）、（　　）和（　　）。

（2）在 -5，0.6，100，0，-1.6，$\frac{2}{3}$ 这些数中，自然数有（　　），负数有（　　），既不是正数也不是负数的数是（　　）。

（3）$\frac{5}{8}$ kg 表示把（　　）kg 平均分成（　　）份，取其中的（　　）份；也可以表示把（　　）kg 平均分成（　　）份，取其中的（　　）份。

（4）$2.43636\cdots\cdots$ 是（　　）小数，可以简写为（　　）。

（5）一批树苗的成活率是 86.5%，86.5% 表示（　　）是（　　）的 86.5%。

（6）$\frac{x}{5}$ 是真分数，$\frac{x}{3}$ 是假分数，那么 x 可以是（　　）。

考点2 计数单位和数位

2. 填一填。

（1）整数最小的计数单位是（　　），小数最大的计数单位是（　　），分数最大的计数单位是（　　）。

（2）7504800 的最高位是（　　）位，它是由（　　）个“万”和（　　）个“一”组成。

（3）0.075 的计数单位是（　　），它有（　　）个这样的计数单位。

（4）$\frac{7}{10}$ 的计数单位是（　　），它有（　　）个这样的计数单位，再添上（　　）个这样的计数单位就是最小的质数。

考点3 数的读法与写法

3. 读出或写出下列各数。

600354006 读作（　　）

二百零四亿零八万一千三百

写作（　　）

$10\frac{5}{8}$ 读作（　　）

负三百点三零三写作（　　）

4. 选择。

（1）一个数由3个0和4个6组成，如果这个数只读出两个0，那么这个数可能是（　　）。

A. 6606060　　B. 6660006

C. 6060606　　D. 6600606

（2）下面的数中，一个0都不读出来的是（　　）。

A. 64007800　　B. 6040780

C. 640070800　　D. 64007008

考点4 数的改写和求近似数

5. 填一填。

（1）3504800 改写成用“万”作单位的数是（　　），省略万位后面的尾数约是（　　）。

（2）995000000 改写成用“亿”作单位的数是（　　），保留一位小数约是（　　）。

（3）一个两位小数保留一位小数约是 5.0，这个两位小数最大是（　　），最小是（　　）。

考点5 分数、小数和百分数的互化

6. 在括号里填上适当的小数、分数或百分数。

（1）$\frac{12}{25}$ =（　　）=（　　）%

（2）$\frac{(\quad)}{(\quad)}$ = 0.75 =（　　）%

（3）$\frac{(\quad)}{(\quad)}$ =（　　）= 45%

未经售中试
微信公众号 教辅资料站

关注微信公众号“教辅资料站”获取更多学习资料

提分必练

提分点1 用差倍问题的解法解决小数点移动问题

7. 一个数的小数点向左移动两位，所得的新数比原数小1.782。原数是多少？

提分点2 负数在生活中的实际应用

8. 一种饮料瓶瓶身标注的净含量是500 mL，在抽检中测得实际净含量超出了5 mL，记作+5 mL，那么-5 mL表示什么？饮料瓶瓶身做了以下标牌“(500±5) mL”，你知道是什么意思吗？

提分点3 按要求写数

9. 用4个5和4个0写出符合下列要求的数。

(1) 读出两个0的最大数。

(2) 读出一个0的最小数。

提分点4 利用四舍五入法解决问题

10. 在下面的□里可以填入哪些数字？

(1) 59□000≈60万 (　　)

(2) 53□900≈53万 (　　)

提分点5 用直线上的点表示数

11. 在直线上表示下面各数。

2.5，$-\frac{1}{2}$，4，-1.5，2，-4.5

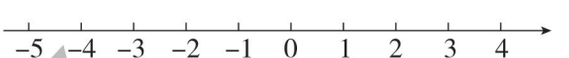

提分点6 找规律填数

12. 按规律在括号里填上合适的数。

(1) 0.9，0.99，0.999，(　　)，(　　)，…

(2) $\frac{1}{2}$，$\frac{1}{4}$，$\frac{1}{8}$，(　　)，(　　)，…

(3) 4，9，16，25，(　　)，49，64，(　　)。

提分点7 循环小数中的周期问题

13. 循环小数$0.\dot{1}42857\dot{}$的小数点后第100位上的数字是几？ 【导学号 6815034】

整数包括正整数、0、负整数；0表示一个物体也没有，是最小的自然数，它还表示正负数的分界、表示起点，计数时用来占位。

告诉你

关注微信公众号“教辅资料站”获取更多学习资料

第 2 课时　数的认识》数的性质 ☞(答案见 118 页)

考点必知

考点 1 数的大小比较

1. 填一填。

(1) 在○里填上“>”“<”或“=”。

7508700 ○ 758700　　9.97 ○ 9.970

7 kg 50 g ○ 7.5 kg

0 ○ −1　　$\frac{5}{9}$ ○ $\frac{7}{12}$

(2) 在 $1.\dot{5}$，$1.5\dot{1}$，$1.5\dot{1}5$，156%，$1\frac{5}{9}$ 这几个数中，最小的数是(　　)，最大的数是(　　)，相等的数是(　　)和(　　)。

(3) 将 $\frac{9}{20}$，1.505，255%，$0.\dot{5}$，五成按照从小到大的顺序排列是(　　)。

2. 选择。

(1) 在分数 $\frac{8}{9}$，$\frac{98}{99}$，$\frac{9998}{9999}$，$\frac{999}{1000}$ 中，最小的是(　　)。

A. $\frac{8}{9}$　　B. $\frac{98}{99}$　　C. $\frac{9998}{9999}$　　D. $\frac{999}{1000}$

(2) 在 $3.1\dot{4}$，$3.\dot{1}\dot{4}$，π，$\frac{22}{7}$ 中，最大的数是(　　)。

A. $3.1\dot{4}$　　B. $3.\dot{1}\dot{4}$　　C. π　　D. $\frac{22}{7}$

考点 2 数的性质

3. 填一填。

(1) 3.05 是(　　)位小数，把它改写成三位小数是(　　)。

(2) 把 4.500 末尾的 0 去掉，这个数的大小(　　)。

(3)(　　) ÷ 24 = $\frac{3}{8}$ = (　　)% = (　　)(填小数)

(4) 将 $\frac{3}{8}$ 的分子加上 9，要使分数的大小不变，分母应加上(　　)。

考点 3 小数点的移动引起小数的大小变化

4. 填空。

(1) 把 4.5 缩小到原来的(　　)是 0.045，把(　　)扩大到原来的 10 倍是 0.98。

(2) 先将 0.86 的小数点向右移动三位，再缩小到它的 $\frac{1}{10}$ 是(　　)。

5. 每 1 kg 小麦可以磨面粉 0.85 kg，1 t 小麦可以磨面粉多少千克？

提分必练

提分点 1 利用分数的基本性质比较大小

6. 在括号里填上适当的数。

(1) $\frac{7}{5} < \frac{17}{(\quad)} < \frac{10}{7}$　　(2) $\frac{1}{5} < \frac{2}{(\quad)} < \frac{1}{4}$

提分点 2 特殊分数的大小比较

7. 若 $a = \frac{20142014}{20152015}$，$b = \frac{20152015}{20162016}$，$c = \frac{20162016}{20172017}$，则 a、b、c 三个数的大小关系如何？

提分点 3 分数基本性质的运用

8. 一个分数，分母比分子大 15，它与 $\frac{3}{8}$ 相等。这个分数是多少？



总结归纳：在比较分数、小数、百分数的大小时，通常把分数和百分数化成小数来比较。

关注微信公众号“教辅资料站”获取更多学习资料

第3课时　数的认识》因数和倍数 ☞(答案见118页)

考点必知

考点1 因数和倍数

1. 填一填。

(1) 18的因数有（　　）；50以内8的倍数有（　　）。

(2) 一个数的最大因数和最小倍数都是15，这个数是（　　）。

(3) 在1～20的自然数中，奇数有（　　），偶数有（　　），质数有（　　），合数有（　　）。

(4) 在下面的□里填上适当的数字，使每个数同时是2和3的倍数。

31□　　209□　　48□　　6

(5) 20以内既是奇数又是合数的数是（　　），既是偶数又是质数的数是（　　）。

(6) 同时是2，3，5的倍数的最小的三位数是（　　）。

(7) 把下面的合数写成几个质数和的形式。

20 =（　　）+（　　）=（　　）+（　　）

30 =（　　）+（　　）+（　　）

(8) 将24分解质因数是（　　）。

2. 判断。

(1) 除2以外，所有的质数都是奇数。（　　）

(2) 两个奇数的积一定是合数。（　　）

(3) 甲、乙两数都是8的倍数，则它们的和也一定是8的倍数。（　　）

考点2 公因数和公倍数


找公因数和最大公因数

3. 填一填。

(1) 8和12的公因数是（　　），最大公因数是（　　）；它们100以内的公倍数是（　　），最小公倍数是（　　）。

(2) 甲数 = 2 × 2 × 3 × 5，乙数 = 2 × 3 × 3 × 5，甲、乙两数的最大公因数是（　　），最小公倍数是（　　）。

(3) 已知 $a = 3b$（a，b 均不为0），则 a 和 b 的最大公因数是（　　），最小公倍数是（　　）。

(4) m 和 n 的最大公因数是1，则最小公倍数是（　　）。

(5) 两个数的最大公因数是12，最小公倍数是180，这两个数可能是（　　），也可能是（　　）。

4. 求下列各组数的最大公因数和最小公倍数。

15和20　　8和15

13和65　　9、12和24

5. 解决问题。

(1) 把一张长60 cm，宽36 cm的长方形铁皮剪成大小相等的正方形，没有剩余，正方形的边长最长是多少厘米？可以剪多少个这样的正方形？

(2) 一种长方形的地砖，长是24 cm，宽是16 cm，用这种地砖铺一个正方形，至少需要多少块地砖？

禁止盗用
微信公众号 教辅资料站

关注微信公众号“教辅资料站”获取更多学习资料

提分必练

提分点1 数的奇偶性的应用

6. 任意取出1994个连续自然数，它们的和是奇数还是偶数？

7. 教室里共有男、女生若干人，男生上衣有5个扣子，女生上衣有4个扣子，如果学生的总数是奇数，扣子的总数是偶数，那么男生人数是奇数还是偶数？女生呢？

提分点2 数的整除的应用

8. 在1～100的自然数中，既不是5的倍数也不是8的倍数的自然数共有多少个？

提分点3 分解质因数的应用

9. 四个连续自然数的乘积是3024，这四个数分别是多少？

10. 请你将下面八个数平均分成两组，使这两组数的乘积相等。

6，10，14，22，25，33，65，91

提分点4 最大公因数和最小公倍数的应用


最小公倍数

11. 一筐橘子，如果3个3个地数，最后余下2个；如果5个5个地数，最后余下4个；如果7个7个地数，最后余下6个。这筐橘子最少有多少个？

12. 有三根钢管，分别长16 dm、20 dm、24 dm。现在要把它们截成同样长的小段且没有剩余，每段最长是多少分米？三根钢管共可截多少段？



总结归纳：两个数的最大公因数是它们公有质因数的乘积，最小公倍数是它们公有质因数和各自独有质因数的乘积。

关注微信公众号“教辅资料站”获取更多学习资料

阶段小达标（6）☞（答案见118页）

时间：30分钟　满分：100分

1. 填空。（每空1分，共35分）

（1）507095800读作（　　），改写成用“万”作单位的数是（　　），省略亿位后面的尾数约是（　　）。

（2）分数单位是$\frac{1}{9}$的最大真分数是（　　），至少要添上（　　）个这样的分数单位就变成了假分数。

（3）$1\frac{3}{8}$的分数单位是（　　），再添上（　　）个这样的分数单位就是最小的质数。

（4）$2\frac{2}{5}$的倒数是（　　），0.75的倒数是（　　）。

（5）如果大雁向南飞50 m记作+50 m，那么−50 m表示（　　）。

（6）$\frac{(\quad)}{5}=12\div(\quad)=1.2=\frac{24}{(\quad)}=$（　　）%

（7）在$\frac{1}{7}$、0.14、1.43%、$\frac{7}{50}$中，最大的数是（　　），最小的数是（　　），相等的两个数是（　　）和（　　）。

（8）在3.6的末尾添上一个零，它的计数单位就变成了（　　），小数的大小（　　）。

（9）4.5454……用循环小数的简便记法表示是（　　），它的循环节是（　　），精确到百分位约是（　　）。

（10）把6米长的绳子平均分成8段，每段长（　　）米，每段是全长的（　　）。

（11）分子与分母的积是15的最简真分数是（　　）或（　　）。

（12）18的因数中，有（　　）个质数，（　　）个偶数。

（13）一个三位数56□，要使它是6的倍数，□里应填（　　）；要使它是4的倍数，□里应填（　　）；要使它是9的倍数，□里应填（　　）。

（14）10以内所有质数的最大公因数是（　　），最小公倍数是（　　）。

（15）两个数的最大公因数是15，它是这两个数的最小公倍数的$\frac{1}{6}$，已知一个数是30，另一个数是（　　）。

2. 判断。（每题2分，共10分）

（1）1吨的$\frac{3}{5}$和3吨的$\frac{1}{5}$一样重。（　　）

（2）$\frac{3}{4}$千克也就是75%千克。（　　）

（3）大于$\frac{1}{5}$而小于$\frac{1}{4}$的分数不存在。（　　）

（4）任意9个连续的自然数的和一定是3的倍数。（　　）

（5）0.6和0.60的大小相等，意义相同。（　　）

3. 选择。（每题2分，共10分）

（1）0.700的计数单位是0.7的计数单位的（　　）。

A. $\frac{1}{10}$　　B. $\frac{1}{100}$　　C. $\frac{1}{1000}$

（2）做完同样的零件，甲用$\frac{1}{4}$小时，乙用$\frac{1}{5}$小时，（　　）的工作效率高。

A. 甲　　B. 乙　　C. 无法确定谁

（3）两个合数是互质数，它们的最小公倍数是260，这样的数有（　　）对。

A. 1　　B. 3　　C. 4

未经单中沿
微信公众号 教辅资料站

关注微信公众号“教辅资料站”获取更多学习资料

（4）下列分数能写成百分数的是（　　）。

A. 一根铁丝长$\frac{5}{8}$米

B. 六（2）班女生人数是男生人数的$\frac{2}{5}$

C. 一瓶油重$\frac{9}{10}$千克

（5）下列数的大小比较，正确的是（　　）。

A. $-6>-5$　B. $-2>0$　C. $-4<1$

4. 填表。（8 分）

小数	0.48			2.4
分数		$\frac{9}{8}$		
百分数			85%	

5. 求最大公因数和最小公倍数。（12 分）

45 和 30　　18 和 24

6. 解决问题。（共 25 分）

（1）阳光小学六（3）班学生的平均身高是 1.55 m，请用正负数表示出下面几名同学的身高与平均身高的关系（规定超过平均身高的记为正数）。（6 分）

小明：1.62 m　　小芳：1.53 m

小丽：1.58 m　　小刚：1.60 m

小强：1.54 m

小明	小芳	小丽	小刚	小强

（2）在一个数的末尾添上百分号，得到的新数比原数小 97.02，原数是多少？（6 分）

（3）有三根钢管的长分别是 24 cm，36 cm 和 48 cm。现要将它们锯成同样长的小段且没有剩余，每段最长是多少厘米？一共可以锯成多少段？（6 分）

（4）一箱苹果 80 多个，如果把这箱苹果每 8 个装一盒，还余 6 个；如果每 10 个装一盒，也剩余 6 个。这箱苹果有多少个？（7 分）

荣德集中营
微信公众号
教辅资料站

关注微信公众号“教辅资料站”获取更多学习资料

第 4 课时　数的运算》四则运算意义与计算方法 ☞(答案见 119 页)

考点必知

考点 1　四则运算的意义

1. 填一填。

(1) 2.4 + 2.4 + 2.4 + 2.4 = (　　) ×(　　)。

(2) 已知两个加数的和是 1.2，其中一个加数是 $\frac{7}{20}$，另一个加数是(　　)。

(3) $\frac{4}{15}\times\frac{5}{6}$表示(　　)。

(4) $\frac{9}{10}\div\frac{3}{5}$表示(　　)。

(5) 在○里填上“>”“<”或“=”。

3.5 × 0.89 ○ 3.5　　4.2 ÷ 0.99 ○ 4.2

$1\div\frac{6}{7}$ ○ $\frac{6}{7}\times1$　　$\frac{2}{3}\times\frac{12}{13}$ ○ $\frac{2}{3}\div\frac{12}{13}$

考点 2　四则运算的计算方法

2. 计算下列各题。

$\frac{3}{4}+\frac{1}{6}=$　　3.5 − 1.72 =

$\frac{5}{12}\times\frac{9}{10}=$　　$2.4\div\frac{3}{5}=$

考点 3　四则运算各部分之间的关系

3. 填一填。

(1) $\frac{5}{8}$ + (　　) = $\frac{11}{12}$

13.49 − (　　) = 5.7

(2) 根据 0.48 × 3.2 = 1.536 写出两个除法算式：

(　　)。

(3) 根据 45 × 28 = 1260 直接写出得数。

126 ÷ 4.5 = (　　)

12.6 ÷ 0.28 = (　　)

(4) 一个数除以 22，商是 27，当余数最大时，这个数是(　　)。

考点 4　0 和 1 在四则运算中的特性

4. 填空。

(1) a + 0 = (　　)　a − (　　) = 0

a × 0 = (　　)　0 ÷ a = (　　)($a\neq0$)

(2) 如果 $a>0$，那么 a ÷ (　　) = 1，(　　) × a = 0，a ÷ (　　) = a。

提分必练

提分点 1　根据四则运算之间的关系比较大小

5. 如果 $a+\frac{14}{15}=b-\frac{3}{5}=c\times0.25=d\div5=k$（$k$ 为正整数），那么 a、b、c、d 的大小顺序怎样排列？

提分点 2　用“倒推法”添运算符号

6. 在下面的式子中添上“+”“−”“×”“÷”或“(　　)”使等式成立。

9　9　9　9　9 = 20

提分点 3　错中求解

7. 小明在做题时，由于粗心大意把被减数个位上的 9 写成了 4，把十位上的 0 写成了 6，这样算得的差是 199，正确的差是多少？

禁复重中沿
微信公众号
教辅资料站

方法指导：根据已知数比较未知数大小时，可以用设数法，假设它们都等于 1，可求出未知数，进而就可以比较大小。

告诉你

关注微信公众号“教辅资料站”获取更多学习资料

第5课时　数的运算》四则混合运算与简便运算 ☞(答案见119页)

考点必知

考点1 四则混合运算的顺序

1. 先说说运算顺序，再计算。

$485-720\div(15\times12)$　　$\left(\frac{9}{10}+\frac{3}{4}\right)\times\frac{5}{6}-\frac{1}{2}$

$0.32\times4.5+20.8\div3.2$

$1110\div\left[56\times\left(\frac{3}{7}-\frac{3}{8}\right)\right]$

考点2 运用运算律和运算性质简算

2. 用简便方法计算。

$6.42\times1.01-6.42$　　$32\times12.5\times2.5$

$4.5\div4+7.8\times25\%-2.3\times0.25$

$540\div45\div4$　　$75.8-36.7-33.3$

$\frac{7}{4}-\left(\frac{5}{7}+\frac{3}{4}\right)$　　$2018\times\frac{2016}{2017}$

提分必练

提分点1 利用“积的变化规律”简算

3. 简算。

(1) $0.888\times0.8+0.111\times3.6$

(2) $11.8\times43-860\times0.09$

提分点2 用“裂项消去法”简算

4. 计算。

$\frac{1}{1\times2}+\frac{1}{2\times3}+\frac{1}{3\times4}+\cdots+\frac{1}{98\times99}+\frac{1}{99\times100}$

提分点3 用“分组法”简算

5. 巧算。

$100+99-98-97+96+95-94-93+\cdots+3-2-1$



总结归纳：四则混合运算的顺序是：先算乘除，后算加减，有括号的要先算小括号里面的，再算中括号里面的，最后算括号外面的。

关注微信公众号“教辅资料站”获取更多学习资料

第6课时　数的运算》估算 ☞(答案见119页)

考点必知

考点1 估算的方法

1. 填一填。

(1) 估算 82×18 时，把 82 看成（　　），18 看成（　　），所以 82×18≈（　　）。

(2) 在计算 4872÷87 时，我们把除数 87 看成（　　）来试商，所以商的十位上应该是（　　），商是（　　）位数。

(3) $\frac{4}{9}$与$\frac{3}{8}$的和比 1（　　）。(填“大”或“小”)

(4)（　　）里最大能填几？

54×（　　）<416　　67×（　　）<400

2. 估算。

576+198≈　　617−296≈

492×62≈　　890÷48≈

考点2 利用估算解决实际问题

3. 解决问题。

(1) 育红小学一至六年级各年级人数如下表：

年级	一	二	三	四	五	六
人数	508	496	512	504	495	498

估一估，育红小学全校共有学生多少人？

(2) 每千克苹果 8.5 元。

①妈妈买了 4.8 千克苹果，估一估，50 元钱够吗？

②计算一下实际花了多少元。

提分必练

提分点 根据具体情境进行估算

4. 美心蛋糕房特制一种生日蛋糕，每个需要 0.32 千克面粉，李师傅领了 4 千克面粉做蛋糕，他最多可以做几个这样的生日蛋糕？

5. 妈妈带 100 元去超市购物。她买了 2 袋大米，每袋 30.6 元，还买了 0.8 千克肉，每千克 26.5 元，剩下的钱还够买一盒 20 元的鸡蛋吗？

6. 小刚沿 50 m 的直线跑道走了三次，第一次走了 69 步，第二次走了 72 步，第三次走了 70 步，他从学校走回家走了 347 步，估一估，学校离他家有多远？

新课堂典中点
微信公众号
教辅资料站

总结归纳：估算的一般方法：四舍五入法、进一法和去尾法。

告诉你

关注微信公众号“教辅资料站”获取更多学习资料

第 7 课时　数的运算》解决问题 ☞(答案见 119 页)

考点必知

考点1 一般应用题

1. 填一填。

(1) 王师傅计划用 8 天生产 2400 个零件，实际比计划提前了 2 天完成，实际每天生产（　　）个零件。

(2) 修一条路，已经修了 660 m，是剩下的 1.5 倍，这条路全长（　　）m。

(3) 一筐梨连筐重 54 kg，倒出一半后，连筐重 29 kg，这筐梨重（　　）kg，筐重（　　）kg。

2. 解决问题。

(1) 学校召开运动会，买来一捆绳子做跳绳，如果每根跳绳长 2.6 m，那么可做 55 根，如果每根跳绳多用 0.15 m，那么可做多少根？

(2) 超市的毛巾每条 8 元。五一节期间开展“买四送一”活动，学校买 200 条毛巾共可节省多少元？

(3) 笑笑家与隔壁两家合用一个总水表，五月份共付水费 126.92 元，请按下表分摊水费（填一填）：

住　户	201	202	203
分水表吨数（吨）	12	15	11
应付水费（元）			

考点2 分数、百分数实际问题

3. 填一填。

(1) 20 m 减去它的$\frac{1}{4}$后是（　　）m，（　　）m 增加$\frac{1}{4}$后是 20 m。

(2) 25 比 20 多（　　）%，20 比 25 少（　　）%。

(3) 甲数比乙数多$\frac{1}{5}$，乙数比甲数少（　　）。

4. 解决问题。

(1) 六一儿童节前，六（1）班张老师准备买 24 套演出服，原价每套 75 元。服装店打算八折出售，张老师买这些演出服共可以节约多少元？

(2) 每公顷麦田可收小麦 3.5 吨，王叔叔承包了 2.4 公顷麦田。如果小麦的出粉率是 85%，王叔叔承包的麦田可出面粉多少吨？

(3) 在科技创新活动中，六年级上交了作品 120 件，比五年级多上交了 20%，四年级比五年级少上交了$\frac{1}{4}$，四年级上交作品多少件？

未经典甲出品
微信公众号 教辅资料站

关注微信公众号“教辅资料站”获取更多学习资料

提分必练

提分点1 相遇问题

5. A、B 两地相距 540 千米，甲、乙两车同时从 A、B 两地相对开出，经过 9 小时相遇，已知甲车的速度是乙车的 3 倍，甲、乙两车的速度各是多少？

提分点2 倍数问题

6. 粮店有两个粮仓，一共储备粮食 20 吨。甲仓存粮比乙仓的 5 倍少 2.2 吨。两个粮仓各存粮多少吨？

提分点3 工程问题

7. 一项工程，甲单独完成需要 12 天，乙单独完成需要 9 天。如果甲先做几天后，乙接着单独做，共用 10 天完成。甲先做了多少天？（用方程解答）

提分点4 年龄问题

8. 乐乐两岁时，他的父亲 32 岁，乐乐的年龄是父亲的$\frac{3}{5}$那一年，父亲多少岁？

提分点5 鸡兔同笼问题

9. 鸡兔同笼，共有 36 个头，鸡脚比兔脚多 24 只，鸡兔各有多少只？

提分点6 盈亏问题

10. 明明从家去学校，如果每分钟走 40 米，就要迟到 2 分钟；如果每分钟走 50 米，那么早到 4 分钟。明明家距学校多少米？

荣德集中选
微信公众号
教辅资料站

总结归纳：解答分数、百分数问题，要找准单位“1”，单位“1”已知用乘法，单位“1”未知用除法。

告诉你

关注微信公众号“教辅资料站”获取更多学习资料

阶段小达标（7）

☞（答案见119页）

时间：30分钟　满分：100分

1. 填一填。（每空2分，共22分）

（1）在○里填上“＞”“＜”或“＝”。

$\frac{3}{5}\div\frac{1}{4}$○$\frac{3}{5}$　　4.75×0.89○4.75

$105\div\frac{3}{2}$○$105\times\frac{3}{2}$

（2）分数单位是$\frac{1}{12}$的所有最简真分数的和是（　　）。

（3）a除以b（b不为0），商7余3。如果a、b两数都乘10，那么商是（　　），余数是（　　）。

（4）明明$\frac{1}{5}$小时走了$\frac{3}{4}$千米，平均每小时走（　　）千米，平均每千米用（　　）小时。

（5）甲数是乙数80%，乙数比甲数多（　　）%。

（6）把一根木棒锯成4段需要6分钟，照这样计算，锯成10段需要（　　）分钟。

（7）一桶油用去40千克，用去的比剩下的少$\frac{1}{5}$，这桶油原来有（　　）千克。

2. 判断。（每题2分，共10分）

（1）一个数乘假分数，所得的积一定比这个数大。（　　）

（2）如果甲数比乙数多25%，那么乙数比甲数少25%。（　　）

（3）4.2×0.5÷4.2×0.5＝1（　　）

（4）一个数除以0.01，相当于把这个数扩大到原来的100倍。（　　）

（5）2.5×（4×8）＝2.5×4×2.5×8（　　）

3. 选择。（每题2分，共10分）

（1）一个数（0除外）除以20%，这个数就会变为原来的（　　）倍。

A. 1.2　　B. 5　　C. 20

（2）一项工程计划5天完成，实际4天完成，实际的工作效率比计划多（　　）。

A. 125%　　B. 20%　　C. 25%

（3）两数相除的商是2.4，如果被除数扩大到原来的10倍，除数缩小到原来的$\frac{1}{10}$，商是（　　）。

A. 2.4　　B. 24　　C. 240

（4）当$a>1$时，下列得数最大的是（　　）。

A. $a\div\frac{4}{9}$　　B. $a\times\frac{4}{9}$　　C. $\frac{4}{9}\div a$

（5）计算$\left(\frac{2}{7}\times\frac{2}{9}\right)\times7\times9=\left(\frac{2}{7}\times7\right)\times\left(\frac{2}{9}\times9\right)$运用了乘法（　　）。

A. 结合律　　B. 分配律

C. 交换律和结合律

4. 计算。（共28分）

（1）口算或估算。（10分）

2.5×0.4＝　　14－0.9＝

$\frac{8}{9}-\frac{5}{6}$＝　　$4.5\div\frac{1}{4}$＝

25×20%＝　　478－299＝

1÷0.001＝　　$\frac{8}{15}\times\frac{9}{16}$＝

298×89≈　　1707－798≈

（2）列竖式计算。（6分）

12.6÷0.23（保留两位小数）　　4.09×5.2（保留整数）

未经单独授权

微信公众号 教辅资料站

关注微信公众号“教辅资料站”获取更多学习资料

（3）计算下列各题。（12 分）

$0.75\times\left(\frac{5}{6}-37.5\%\right)$　$262-360\div(15\times12)$

$0.32\times4.5+0.55\times3.2$　$\left(\frac{9}{10}+\frac{3}{4}\right)\times\frac{5}{12}-\frac{1}{2}$

5. 解决问题。（共 30 分）

（1）某机床厂计划生产 1080 台机床，已经生产了 5 天，平均每天生产 72 台，剩下的如果每天多生产 8 台，那么完成这批生产任务共需要多少天？（6 分）

（2）学校图书室购回 360 本新书，六（1）班借走了总数的$\frac{1}{6}$，六（2）班借走了余下的$\frac{1}{4}$，这批新书还剩下多少本？（6 分）

（3）小明读一本小说，已读的页数比全书页数的$\frac{2}{5}$多 28 页，未读的页数比全书页数的$\frac{4}{9}$少 14 页，这本书共有多少页？（6 分）

（4）一堆什锦糖，其中奶糖的质量占 45%，再放入 16 千克其他糖后，奶糖的质量占 25%，这堆糖中奶糖有多少千克？（6 分）

（5）有甲、乙、丙三个小朋友，甲的体重是其他两人体重之和的$\frac{1}{2}$，乙的体重是其他两人体重之和的$\frac{1}{3}$，丙的体重是 50 kg。甲、乙两人的体重各是多少千克？（6 分）

荣德典书店
微信公众号
教辅资料站

关注微信公众号“教辅资料站”获取更多学习资料

第 8 课时　式与方程》用字母表示数 ☞(答案见 120 页)

考点必知

考点 用字母表示数、运算定律和计算公式

1. 填一填。

(1) 商店原有 85 箱牛奶，卖出了 x 箱，还剩下（　　）箱。

(2) 六（1）班有男生 x 人，女生 y 人，六（1）班共有（　　）人，男生比女生多（　　）人。

(3) 一支中性笔的价格是 m 元，一支钢笔的价格比它的 1.5 倍还多 n 元，一支钢笔的价格是（　　）元。

(4) 三角形的底是 a cm，高是 h cm，面积是（　　）cm^2。

(5) 用字母表示乘法分配律是（　　）。

2. 判断。

(1) a^2 和 $2a$ 相等。（　　）

(2) 当 n 是自然数时，$2n+1$ 一定是奇数。（　　）

(3) $6x+10$ 错写成 $6(x+10)$，结果比原来多 50。（　　）

3. 选择。

(1) 一个三位数，百位上的数字是 m，十位上的数字是 n，个位上的数字是 2，表示这个三位数的式子是（　　）。

A. $2mn$　　B. $210mn$　　C. $100m+10n+2$

(2) 小伟今年 x 岁，小雨比小伟小 2 岁，再过 4 年，小伟比小雨大（　　）岁。

A. $x-2$　　B. 4　　C. 2

提分必练

提分点 1 含有字母的式子表示的意义

4. 钟楼社区体育活动中心买了 5 副羽毛球拍，每副 x 元，又买了 y 个乒乓球拍，每个 60 元。

(1) $5x$ 表示（　　）。

(2) $60y$ 表示（　　）。

(3) $5x+60y$ 表示（　　）。

(4) $5x-60y$ 表示（　　）。

5. 四年级订阅《中国少年报》120 份，比五年级多订阅 x 份，$120-x$ 表示什么？每份《中国少年报》a 元，$120a$ 表示什么？$(120-x)a$ 表示什么？

提分点 2 代入法计算

6. 一本书有 a 页，张华每天看 8 页，看了 b 天。

(1) 用式子表示还没有看的页数。

(2) 如果这本书有 94 页，张华看了 7 天，还有多少页没有看？

7.  …

(1) 像这样摆下去，摆 n 个正方形需要（　　）根小棒。

(2) 当 $n=21$ 时，摆 21 个正方形需要小棒（　　）根。



总结归纳：数与字母、字母与字母相乘时，乘号可以省略不写，但数与字母相乘时数要写在字母的前面。

禁商用 微信公众号 教辅资料站
关注微信公众号“教辅资料站”获取更多学习资料

第9课时　式与方程》解方程 ☞(答案见120页)

考点必知

考点1 方程的意义

1. 判断。

(1) 含有未知数的式子叫方程。（　　）

(2) 方程 $72-5x=47$ 的解是 $x=5$。（　　）

(3) m 的 2 倍与 n 的差写成式子是 $2m-n$，这个式子是方程。（　　）

(4) 方程一定是等式，等式不一定是方程。（　　）

(5) $5x-8<7$ 是方程。（　　）

2. 选择。

(1) 下列式子中，是方程的是（　　）。

A. $7.6+x>13$　　B. $7.8+2.2=10$

C. $4x+8=24$

(2) $x=4$ 是方程（　　）的解。

A. $24+x=28$　　B. $2x+3=5$

C. $3x-2=16$

考点2 解方程

3. 解方程。

$\frac{1}{2}x+25\%=10$　　$4x-3\times8=12$

$1.3x+2.4x=1.11$　　$8(x-2)=2(x-7)$

$\frac{2}{3}x+\frac{1}{6}x=1$　　$2.4\times\frac{3}{8}+3x=6$

提分必练

提分点1 根据图形列方程并解方程

4. 看图列方程解答。

(1)

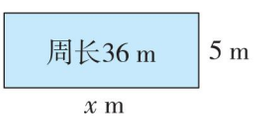

(2)

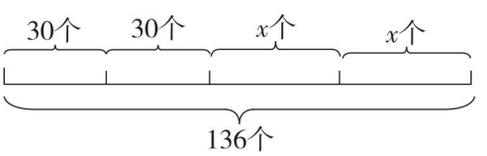

(3)

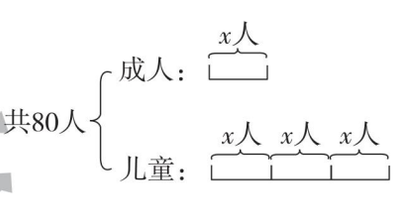

提分点2 列方程解“猜数游戏”

5. 列方程解答。

(1) 一个数乘 3，再加上 10，得数是 34，求这个数。

(2) 一个数的2.5倍比它的1.3倍多6，这个数是多少？

禁止盗用 微信公众号 教辅资料站

总结归纳：解方程的依据是等式的性质，有时也可以运用加减乘除各部分的关系解方程。

告诉你

关注微信公众号“教辅资料站”获取更多学习资料

第 10 课时　式与方程》列方程解决问题 ☞(答案见 120 页)

考点必知

考点　列方程解决问题

用方程解实际问题

1. 列方程解决问题。

(1) 长江是我国第一长河，长约 6299 千米，比黄河长 835 千米。黄河长约多少千米？

(2) 两个工程队同时开凿一条长 675 m 的隧道，各从一端相向施工，25 天打通。甲队每天开凿 12.6 m，乙队每天开凿多少米？

(3) 猎豹是世界上跑得最快的动物，速度能达到每小时 110 km，比大象的 4 倍还多 14 km。大象最快能达到每小时多少千米？

(4) 一套运动服共 300 元，裤子的价钱是上衣的 $\frac{2}{3}$，上衣和裤子的价钱分别是多少元？

提分必练

提分点 1　列方程解稍复杂的分数、百分数问题

2. 王老师骑摩托车从甲城到乙城，第 1 个小时行了全程的 40%，第 2 个小时行了余下的 $\frac{1}{2}$，这时距离乙城还有 18 km。甲、乙两城相距多少千米？

提分点 2　列方程解盈亏问题

3. 徐老师将一盒糖分给大班的小朋友，如果每人分得 5 块则余下 46 块，如果每人分得 8 块则少了 2 块。这盒糖有多少块？

提分点 3　列方程解浓度问题

4. 在浓度为 30% 的 120 g 糖水中，加入浓度为 10% 的糖水多少克，可以得到浓度为 20% 的糖水？

提分点 4　列方程解工程问题

5. 单独做完一项工程，甲队需要 20 天，乙队需要 30 天。在甲乙合做若干天后，乙队被调出另分配任务，这项工程前后共用 18 天完成，乙队被调出了多少天？

荣德集团

告诉你　总结归纳：列方程解决问题的关键是找出题中的等量关系式。

关注微信公众号“教辅资料站”获取更多学习资料

第 11 课时　正比例　反比例》比和比例的意义和性质 ☞(答案见 120 页)

考点必知

考点1 比和比例的意义和性质

1. 填一填。

(1) 一项工作，甲单独完成需要 8 小时，乙单独完成需要 10 小时，甲、乙二人的工作效率的比是（　　）。

(2) 从 12 的因数中选出四个数组成比值是$\frac{2}{3}$的两个比组成的比例是（　　）。

(3) 把 25 kg∶$\frac{1}{2}$ t 化成最简整数比是（　　），它的比值是（　　）。

(4) 如果 $4x=5y$，那么 $x:y=$（　　）∶（　　）。

(5) 甲数的$\frac{3}{5}$是甲、乙两数和的$\frac{1}{4}$，甲、乙两数的比是（　　）。

2. 解比例。

$\frac{4}{5}:\frac{2}{15}=x:27$　　$x:0.1=\frac{1}{3}:\frac{1}{9}$

考点2 比的应用

3. 解决问题。

(1) 一个长方形的周长是 54 m，长与宽的比是 7∶2，这个长方形的面积是多少平方米？

(2) 在比例尺是 1∶5000000 的地图上，量得甲、乙两地之间的距离是 12 cm。一辆汽车平均每小时行 80 km，从甲地到乙地需要多少小时？

提分必练

提分点1 比和分数问题的综合运用

4. 一袋什锦糖包括奶糖、酥糖和水果糖，其中奶糖的质量占这袋什锦糖质量的$\frac{3}{7}$，酥糖与水果糖的质量比是 3∶5，已知酥糖的质量是2.4 kg，这袋什锦糖的质量是多少千克？

提分点2 根据总数不变解题

5. 甲乙两车间人数的比是 3∶4，现在进行人员调整，从乙车间调 8 人到甲车间，调整后甲车间人数与乙车间人数的比是 4∶5。甲、乙两车间一共有多少人？

提分点3 分数法解按比分配问题

6. 某货场有 750 吨货物，分给甲、乙两个运输队运到另一个货场，甲队有载重 6 吨的汽车 6 辆，乙队有载重 8 吨的汽车 3 辆，按两个队的运输能力分配，两队各运货物多少吨？

未经典甲许可

关注微信公众号“教辅资料站”获取更多学习资料

第 12 课时　正比例　反比例》正比例和反比例的意义

☞(答案见 120 页)

考点必知

考点1 正、反比例的意义与判断方法

1. 填一填。

(1) 飞机的航程和飞行时间的关系如下：

飞行时间（小时）	2	4	6	8
航程（千米）	1460	2920	4380	5840

表中两种相关联的量对应的（　　）一定，（　　）和（　　）成（　　）比例。

(2) 买一批书，买的本数和每本钱数如下表：

每本钱数（元）	6	12	15	20
本数	50	25	20	15

表中两种相关联的量对应的（　　）一定，（　　）和（　　）成（　　）比例。

2. 判断下面题中的两种量成什么比例。

(1) 长度一定的铁丝，平均分成若干段，每段的长度和截成的段数。（　　）

(2) 教室的面积一定，方砖的面积与所需的块数。（　　）

(3) 作业量一定，已完成的部分和未完成的部分。（　　）

考点2 正、反比例关系的实际应用

3. 运一批货物，不同卡车的载重和卡车数量如下表。

卡车载重（吨）	2.5	4	5	10
卡车数量（辆）	40	25	20	10

用同样的卡车运货物的总质量和卡车数量如下表。

货物总质量（吨）	24	40	48	56
卡车数量（辆）	3	5	6	7

观察上面每个表中的两种量，回答问题。

(1) 你能用关系式表示每个表中两种相关联的量之间的关系吗？

(2) 哪个表中的两种量成正比例关系？哪个表中的两种量成反比例关系？

(3) 在下图中描点表示出第 2 个表中的每组数据，并连成线。

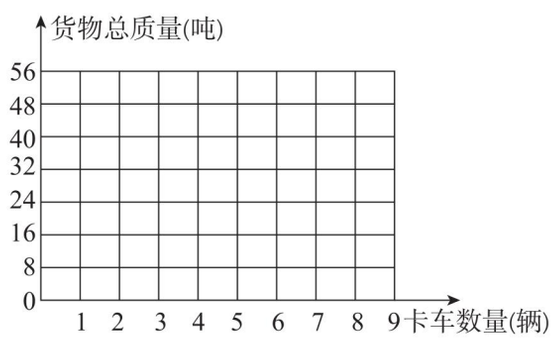

(4) 根据图判断 4 辆卡车运货物多少吨？运 16 吨货物需要几辆这样的卡车？

提分必练

提分点 列比例解决问题

4. 一辆汽车从甲地开往乙地，计划每小时行 64 km，9 小时可以到达，实际少用了 1 小时，实际每小时多行多少千米？

5. 车间加工一批零件，原计划每小时加工 180 个，实际每小时比原计划多加工 20 个，结果只用 4.5 小时就完成了任务。原计划用几小时完成任务？

告诉你　总结归纳：判断两种量成什么比例，关键是看这两种相关联的量的比值或积是否一定。

关注微信公众号“教辅资料站”获取更多学习资料

第 13 课时　探索规律 ☞(答案见 121 页)

考点必知

考点 1 摆图形的规律

1. (1) 先画出第 5 个图形并填空，再想一想：第 10 个方框里有（　　）个点，第 51 个方框里有（　　）个点。

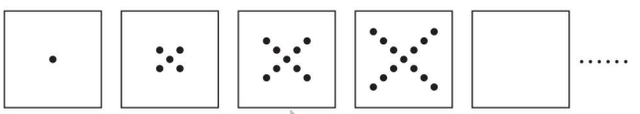

1　　1+4　　1+4×2　　1+4×3　（　　）

(2) 按下面的规律用小棒摆正六边形。摆 4 个正六边形需要（　　）根小棒；摆 10 个正六边形需要（　　）根小棒；摆 n 个正六边形需要（　　）根小棒。

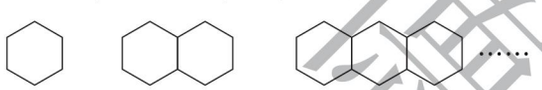

考点 2 间隔与周期的规律

2. 崇山村为迎接“乡村田园旅游”，在一条长 360 米的公路一旁挂上了灯笼。挂灯笼的顺序：3 个蓝灯笼、4 个黄灯笼和 5 个红灯笼。每两个灯笼间相隔 1.5 米。(一端挂，一端不挂)

(1) 需要蓝、黄、红灯笼各多少个？

(2) 第 50 个是什么颜色的灯笼？第 100 个呢？

(3) 最后一个灯笼是什么颜色？

考点 3 数与数之间的规律

3. 找规律填数。

(1) 72，63，54，（　　），（　　）。

(2) 3，6，9，15，24，（　　），63，（　　）。

(3) $\frac{1}{2}$，$\frac{3}{4}$，$\frac{9}{8}$，$\frac{27}{16}$，（　　），（　　）。

提分必练

提分点 1 循环小数中的规律

4. 观察前三题的商，直接写出后三题的商。

$1\div7=0.\dot{1}42857\dot{}$　　$2\div7=0.\dot{2}85714\dot{}$

$3\div7=0.\dot{4}28571\dot{}$　　$4\div7=$（　　）

$5\div7=$（　　）　　$6\div7=$（　　）

提分点 2 数列中的规律

5. 明明喜欢把自然数（0 除外）按下面的样子排列。

1
2 3 4
5 6 7 8 9
10 11 12 13 14 15 16
……

(1) 照上面的规律排下去，第 5 行有多少个数？第 9 行有多少个数？

(2) 第 1 行到第 5 行一共有多少个数？

提分点 3 日期中的规律

6. 2019 年的 5 月 1 日是星期三，2019 年的 10 月 1 日是星期几？2020 年的 1 月 1 日是星期几？

未经许可 禁止翻印

关注微信公众号“教辅资料站”获取更多学习资料

阶段小达标（8）☞（答案见121页）

时间：30分钟　满分：100分

1. 填空。（每题3分，共30分）

（1）三个连续的奇数，第一个数是n，其他两个数是（　　）和（　　）。

（2）姐姐今年a岁，比妹妹年龄的2倍少2岁，妹妹今年（　　）岁。

（3）当$x=0.2$时，$2x-0.02=$（　　），$x^2-\frac{1}{50}=$（　　）。

（4）一桶油，用去这桶油的$\frac{1}{5}$后还剩下40千克，这桶油重多少千克？设这桶油重x千克，列方程得（　　）。

（5）配制一种盐水，盐和水的质量比是1∶4，水与盐水的质量比是（　　）。

（6）在10、25、40这三个数中添上一个数组成比例，这个数可以是（　　）、（　　）或（　　）。

（7）甲数的$\frac{3}{5}$等于乙数的$\frac{1}{4}$，甲、乙两个数的最简整数比是（　　）。

（8）如果$a:2.5=6:b$，那么$ab=$（　　）；如果$a\times7=b\div2$，那么$a:b=$（　　）:（　　）。

（9）在一幅比例尺是20∶1的图纸上，一个零件的图上长度是40 cm，它的实际长度是（　　）cm。

（10）六一儿童节到了，吴老师用彩灯装饰教室，按“一红二绿三黄”的规律把灯泡连接起来，第35个灯泡是（　　）色的。

2. 判断。（每题2分，共10分）

（1）方程$2.5x-0.9x=8$的解是5。（　　）

（2）n^2表示$n+n$。（　　）

（3）如果比的前项乘4，比的后项乘$\frac{1}{4}$，那么比值不变。（　　）

（4）在一定的距离内，车轮的周长和车轮转动的圈数成反比例。（　　）

（5）在含盐率为10%的盐水中，盐和盐水的比是1∶9。（　　）

3. 选择。（每题2分，共10分）

（1）生产一批零件，平均每天生产零件的个数和生产的天数（　　）。

A. 成正比例　B. 成反比例　C. 不成比例

（2）已知$2x+1=19$，那么$4x+1=$（　　）。

A. 41　　B. 37　　C. 10

（3）小正方形和大正方形边长的比是2∶7，小正方形和大正方形面积的比是（　　）。

A. 2∶7　　B. 7∶2　　C. 4∶49

（4）下列各比能与$\frac{1}{5}:\frac{1}{6}$组成比例的是（　　）。

A. 5∶6　　B. 6∶5　　C. $\frac{1}{25}:\frac{1}{36}$

（5）已知$a:b=4:3$，$b:c=4:3$，则a、b、c三数的比是（　　）。

A. 4∶3∶3　　B. 4∶4∶3　　C. 16∶12∶9

4. 计算。（共16分）

（1）化简比并求比值。（4分）

20分钟∶$\frac{3}{4}$小时　　0.35∶5.6

（2）解方程或解比例。（12分）

$3x-12\times6=6$　　$\frac{1}{2}x-25\%\,x=10$

禁止售卖

关注微信公众号“教辅资料站”获取更多学习资料

$x : 32 = 0.4 : 6.4$　　$\frac{x+7}{6} = \frac{7}{2.1}$

5. 解决问题。（共 34 分）

（1）太阳系的八大行星中，离太阳最近的是水星。地球绕太阳一周是 365 天，比水星绕太阳一周所用时间的 4 倍还多 13 天。水星绕太阳一周是多少天？（列方程解答）（5 分）

（2）两列火车同时从相距 364 千米的甲、乙两站相对开出，经过 4 小时在途中相遇，甲车的速度是乙车的$\frac{6}{7}$，甲车每小时行多少千米？（列方程解答）（5 分）

（3）用 120 cm 长的铁丝做一个长方体的框架。长、宽、高的比是 3 ∶ 2 ∶ 1。这个长方体的长、宽、高分别是多少厘米？（6 分）

（4）在比例尺是 1 ∶ 6000000 的地图上，量得甲、乙两地之间的距离是 6 厘米，两辆汽车同时从甲、乙两地出发相向而行，3 小时后相遇，已知两车的速度比是 3 ∶ 2，两车的速度各是多少？（6 分）

（5）一本故事书 120 页，4 天看了 96 页，照这样计算，剩余的还需要多少天看完？（列比例解答）（6 分）

（6）用长 30 cm，宽 20 cm 的长方形砖铺路，需要 900 块，如果改用边长 20 cm 的方砖铺，需要多少块？（列比例解答）（6 分）

课堂集中营

关注微信公众号“教辅资料站”获取更多学习资料

（二）图形与几何

第1课时　图形的认识》平面图形的认识 ☞（答案见121页）

考点必知

考点1 线和角的认识

1. 填一填。

（1）

图中有（　　）条直线，（　　）条射线，（　　）条线段。

（2）钟面上3时整，时针和分针所成的角是（　　）角。9：30时，钟面上分针与时针所成的角是（　　）角。

（3）在同一个平面内，如果两条直线都和第三条直线垂直，那么这两条直线（　　）。

考点2 多边形的认识

2. 填一填。

（1）一个三角形的两条边的长分别是8 cm和12 cm，第三条边最长是（　　）cm，最短是（　　）cm。（填整厘米数）

（2）一个三角形的两个内角分别是78°和27°，第三个内角是（　　）°。

（3）平行四边形的两组对边分别（　　）且（　　），（　　）和（　　）是特殊的平行四边形。

（4）（　　）只有一组对边平行。

考点3 圆的认识

3. 填一填。

（1）圆有（　　）条直径，在同一个圆中，半径是直径的（　　），圆有（　　）条对称轴。

（2）在边长为8 cm的正方形纸上画一个最大的圆，该圆的半径是（　　）cm。整个图形有（　　）条对称轴。

提分必练

提分点1 图形的绘制

4. 画出指定底边上的高。

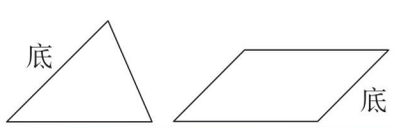

5. 画一个边长为2 cm的正方形。

6. 画一个半径是1.5 cm的圆。

提分点2 垂线的实际应用

7. 在天然气主管道两侧的A、B两个小区各接一条管道与主管道连通，怎样接管道最节省？在图中画出来。

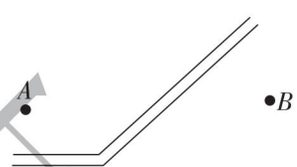

提分点3 计算角的度数

8. 如图，∠1 = ∠2，∠3 = ∠4，∠5 = 125°。∠6是多少度？　【导学号6815034】

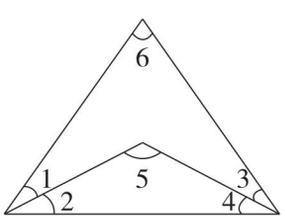



方法指导：在一条直线上有n个点，则共有$2n$条射线，$\frac{n(n-1)}{2}$条线段。

关注微信公众号“教辅资料站”获取更多学习资料

第2课时　图形的认识》立体图形的认识 ☞(答案见121页)

考点必知

考点1 长方体和正方体的认识

1. 填一填。

(1) 长方体中，最多有（　　）个面完全相同；正方体中12条棱的长度（　　）。

(2) 如果一个长方体的底面是正方形，且侧面展开图也是一个正方形，则这个长方体的底面边长是高的（　　）。

(3) 一个长方体的长、宽、高分别是10 cm、8 cm和4 cm，它的棱长总和是（　　）cm。

(4) 一个正方体的棱长总和是72 cm，它的棱长是（　　）cm。

考点2 圆柱和圆锥的认识

2. 填一填。

(1) 把一个圆柱的侧面展开后得到一个正方形，若圆柱的底面直径是4 cm，则圆柱的高是（　　）cm。

(2) 圆锥的侧面展开图是一个（　　），圆锥有（　　）条高。

(3) 以长方形的长边所在直线为轴旋转一周，得到的图形是（　　），这个图形的底面积是（　　）。

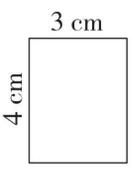

考点3 观察物体

3. 画一画。
分别画出从前面、上面和左面看到的立体图形的形状。

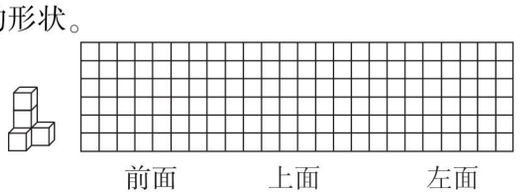

4. 一个立体图形，从上面看到的图形是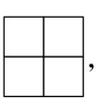，从前面看到的图形是，搭这个立体图形至少要（　　）个小正方体。

提分必练

提分点1 长方体棱长总和的应用

5. 为迎接“五一”国际劳动节，工人叔叔要在工人俱乐部的四周装上彩灯（除了地面的四周不装，其他边线上都要装），已知工人俱乐部长90 m、宽55 m、高22 m，工人叔叔至少需要多少米彩灯线？

提分点2 圆柱的侧面展开图

6. 一个圆柱形茶叶筒的侧面贴着商标纸，圆柱的底面半径是5 cm，高是20 cm。这张商标纸展开后是一个长方形，它的长和宽各是多少厘米？

提分点3 稍复杂的观察物体

7. 笑笑搭的积木从上面看到的形状如图所示，正方形中的数字表示这个位置上所用的小正方体的个数。

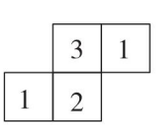

搭的这组积木，从正面看是（　　），从左面看是（　　）。

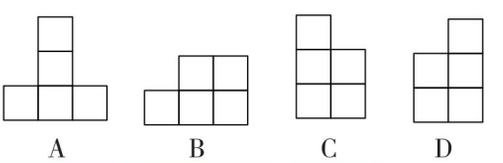

方法指导：将圆锥沿高切开，截面是一个等腰三角形。

告诉你

关注微信公众号“教辅资料站”获取更多学习资料

第3课时　测量》长度、面积和体积单位 ☞(答案见121页)

考点必知

考点1 长度、面积和体积单位的认识

1. 填一填。

(1) 常用的长度单位有（　　）、（　　）、（　　）。

(2) 常用的面积单位有（　　）、（　　）、（　　）。

(3) 常用的体积单位有（　　）、（　　）、（　　）。

(4) 在括号里填上适当的单位名称。

一本字典厚5（　　）；

一个篮球场占地420（　　）；

一个火柴盒的体积是18（　　）；

一瓶墨水60（　　）。

考点2 名数的改写

2. 在括号里填上适当的数据。

3350 m = （　　）km

7 m 50 cm = （　　）m

8.6 dm^2 = （　　）m^2

4.8 m^3 = （　　）dm^3

360公顷 = （　　）km^2

3. 请圈出与其他数据不相等的那个数据。

(1) 1500 cm、1500 dm、15 m、150 dm

(2) 6039 dm^2、6.039 m^2、603900 cm^2、60.39 m^2

(3) 5.08 m^3、50800 cm^3、5080 dm^3、5080000 cm^3

提分必练

提分点 进率的实际应用

4. 一个棱长1 m的正方体木块，如果分成棱长1 cm的正方体木块，可以分成多少个？如果把这些棱长1 cm的正方体木块摆成一排，这些木块的长度是多少米？

5. 有一块长300 m，宽250 m的稻田，平均每公顷收稻谷6800千克，这块稻田共收稻谷多少吨？

6. 要砌一道长15 m，厚24 cm，高3 m的砖墙。如果每立方米用砖525块，一共要用砖多少块？

7. 一辆汽车上的油箱，里面长0.8 m，宽5 dm，高40 cm。油箱可以装汽油多少升？

未德集中心

关注微信公众号“教辅资料站”获取更多学习资料

阶段小达标（9）☞（答案见122页）

时间：30分钟　满分：100分

1. 填空。（每空2分，共40分）

（1）0.05 m^2 = （　　）dm^2

120 cm = （　　）dm = （　　）m

7.02 m^3 = （　　）m^3（　　）dm^3

6400 mL = （　　）L（　　）mL

（2）一个等腰三角形的顶角是80°，它的一个底角是（　　）°。

（3）如果一个三角形三个内角的度数比是1∶2∶3，那么这个三角形是（　　）三角形。

（4）一个长方形，它的周长是34 m，宽是7 m，长是（　　）m。

（5）将右图中的展开图沿虚线折叠成一个正方体，这个正方体上数字3的对面的数字是（　　）。

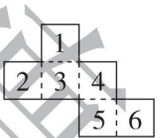

（6）把一个长8 cm，宽6 cm，高4 cm的长方体框架改围成一个正方体，所得正方体的棱长是（　　）cm。

（7）如图，半圆的半径是4 cm，这个长方形的长是（　　）cm，宽是（　　）cm。

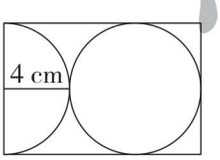

（8）过直线外一点作已知直线的垂线，可以作（　　）条；经过一点可以作（　　）个圆。

（9）

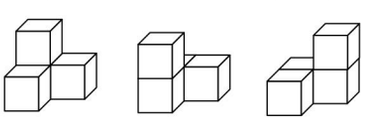

图（　　）和图（　　）从正面看到的图形相同，图（　　）和图（　　）从左面看到的图形相同。

2. 判断。（每题2分，共10分）

（1）因为射线是直线的一部分，所以直线比射线长。（　　）

（2）一个20°的角在10倍放大镜下看是200°。（　　）

（3）两个三角形可以拼成一个平行四边形。（　　）

（4）圆柱和圆锥都有无数条高。（　　）

（5）有相邻两个面是正方形的长方体一定是正方体。（　　）

3. 选择。（每题2分，共10分）

（1）下面的图形中，不是轴对称图形的是（　　）。

A. 圆　　B. 正方形　　C. 平行四边形

（2）下面各组长度的线段中，不能围成一个三角形的是（　　）。

A. 5 cm，6 cm，7 cm

B. 5 cm，5 cm，10 cm

C. 3 cm，6 cm，4 cm

（3）钟面上分针走两圈，时针转动（　　）°。

A. 360　　B. 120　　C. 60

（4）下面各图不能围成正方体的是（　　）。

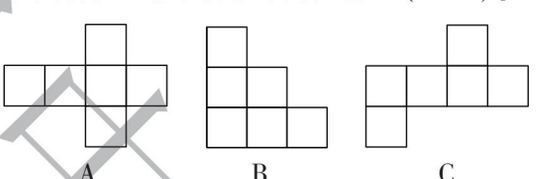

（5）扇形面积的大小（　　）。

A. 只与圆心角大小有关

B. 只与半径长短有关

C. 与圆心角的大小、半径的长短都有关

4. 求角的度数。（共10分）

（1）∠1 = 45°，求∠2、∠4、∠5的度数。（5分）

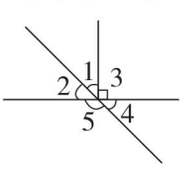

禁止售卖

关注微信公众号“教辅资料站”获取更多学习资料

（2）下图是一张长方形纸折起来后的图形，已知∠1 = 50°，求∠2 的度数。（5 分）

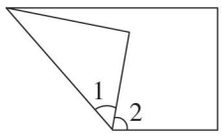

5. 动手操作。（共 10 分）

（1）在下图中过 D 点作直线 AB 的平行线，作直线 AC 的垂线。（5 分）

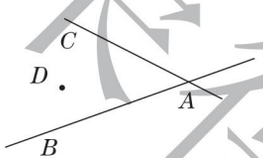

（2）在下面的正方形中画一个最大的圆。（5 分）



6. 解决问题。（共 20 分）

（1）一个等腰三角形的周长是 40 cm，腰与底的长度比是 3 ∶ 2，这个三角形的腰与底的长分别是多少厘米？（4 分）

（2）一个三角形三个内角度数的比是 2 ∶ 2 ∶ 5，这个三角形三个内角分别是多少度？（4 分）

（3）一个三角形的三条边的长都是整厘米数。已知其中的两条边分别长 8 cm 和 15 cm，第三条边最短是多少厘米？最长是多少厘米？（4 分）

（4）用一根长 80 cm 的铁丝围成一个长、宽、高的比是 4∶3∶2 的长方体框架后，还余 8 cm，这个长方体框架的长、宽、高分别是多少厘米？（4 分）

（5）一个长方体的底面是正方形，棱长总和是 112 cm，底面边长是高的$\frac{1}{2}$，这个长方体的高是多少厘米？（4 分）

荣德里中学

关注微信公众号“教辅资料站”获取更多学习资料

第 4 课时　测量》平面图形的周长和面积 ☞(答案见 122 页)

考点必知

考点　平面图形的周长和面积

1. 填一填。

(1) 用一根铁丝正好围成一个长 12 cm，宽 6 cm 的长方形。如果把它改围成一个正方形，围成的正方形的面积是（　　）cm^2。

(2) 一个三角形的底是 7.5 dm，高是 8 dm，与它等底等高的平行四边形的面积是（　　）dm^2。

(3) 在右面的梯形中剪下一个最大的三角形，剩余部分的面积是（　　）cm^2。

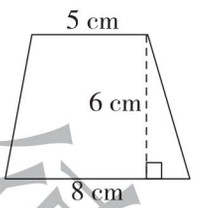

(4) 一个闹钟的分针长 5 cm，时针长 4 cm，分针的尖端转一圈的长度是（　　）cm，时针转一圈扫过的面积是(　　)cm^2。

2. 计算下面图形的周长和面积。

(1)

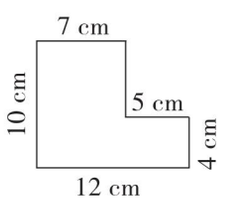

(2)

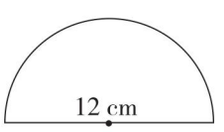

3. 一个圆形花坛，周长是 50.24 m，在花坛的外围铺一条宽 1.5 m 的环形草坪，草坪的面积是多少平方米？

提分必练

提分点 1　求阴影部分面积

4. 计算阴影部分面积。(单位：cm)

(1)

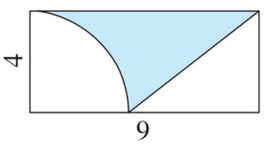

(2)

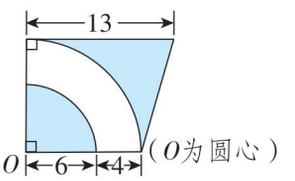

提分点 2　用“分割、转化法”计算图形面积

5. 求阴影部分的面积。(单位：cm)

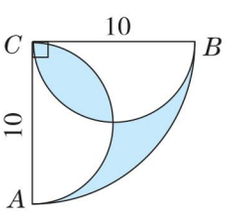

提分点 3　周长和面积的实际应用

6. 如图是一个操场的示意图，如果按 1∶2000 的比例尺画在图纸上，操场的一条直道长多少厘米？一条弯道长多少厘米？在这张图纸上操场一周的长度和操场的面积分别是多少？

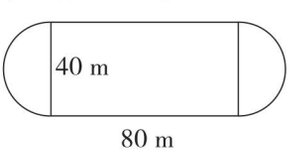

禁德里中站

总结归纳：半圆形的周长等于圆周长的一半加直径。



关注微信公众号“教辅资料站”获取更多学习资料

第5课时　测量》立体图形的表面积和体积 ☞(答案见122页)

考点必知

考点　立体图形的表面积和体积

1. 填一填。

(1) 用一根铁丝正好围成一个长8 cm、宽6 cm、高4 cm的长方体框架，如果用彩纸把这个框架包起来，至少需要（　　）cm^2的彩纸；若将铁丝改围成正方体（并包上彩纸），围成的正方体的体积是（　　）cm^3。

(2) 一个圆柱的底面半径是2 dm，侧面积是226.08 dm^2，这个圆柱的表面积是（　　）dm^2，与它等底等高的圆锥的体积是（　　）dm^3。

(3) 一个圆柱和一个圆锥体积相等，底面积相等，圆柱的高是12.6 cm，圆锥的高是（　　）cm。

2. 解决问题。

(1) 学校会议室长18 m，宽8 m，高3.5 m，门窗的面积是24 m^2。现要粉刷四周墙壁和天花板。如果粉刷每平方米用乳胶漆400 g，粉刷完这间会议室共需要乳胶漆多少千克？

(2) 有一个圆锥形沙堆，底面周长是12.56 m，高是1.5 m。将它铺成一个宽5 m，厚6 cm的路面，可以铺多长？（结果保留整数）

提分必练

提分点1　组合立体图形的体积

3. 求下列组合图形的体积。

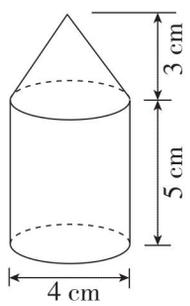

提分点2　用“排水法”解决问题

4. 把一个底面直径是4 cm的圆锥形铅锤完全浸没在一个底面周长是25.12 cm的圆柱形容器中，水面上升了0.5 cm（水未溢出）。这个圆锥形铅锤的高是多少厘米？

提分点3　根据增加的体积求表面积

5. 一个长方体，如果长增加2 cm，那么体积增加40 cm^3；如果宽增加3 cm，那么体积增加90 cm^3；如果高增加4 cm，那么体积增加96 cm^3，原来长方体的表面积是多少平方厘米？



总结归纳：在实际问题中求长方体、正方体或圆柱体表面积时，一定要注意要求的是哪几个面的面积和。

关注微信公众号“教辅资料站”获取更多学习资料

第6课时　图形的运动 ☞(答案见122页)

考点必知

旋转

考点1 图形运动的特点

1. 填一填。

(1) 圆有（　　）条对称轴，正六边形有(　　)条对称轴。

(2) 拉抽屉是（　　）现象；风车转动是(　　)现象。

(3) 分针从指向“12”开始顺时针旋转90°后指向（　　）；时针从指向“6”开始逆时针旋转120°后指向（　　）。

2. 按要求画图。

(1) 画出图①的轴对称图形（以虚线为对称轴）。

(2) 将图②绕点 O 顺时针旋转90°。

(3) 将图③向右平移5格。

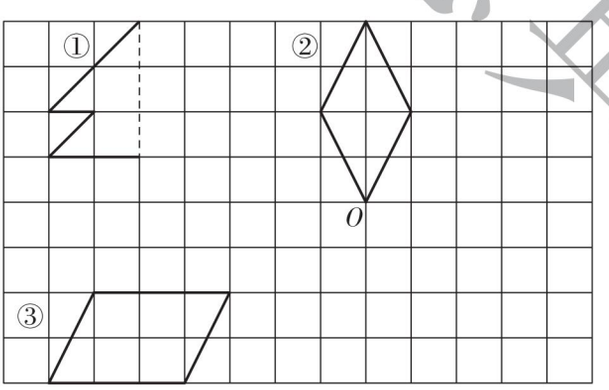

考点2 图形运动的综合运用

3.

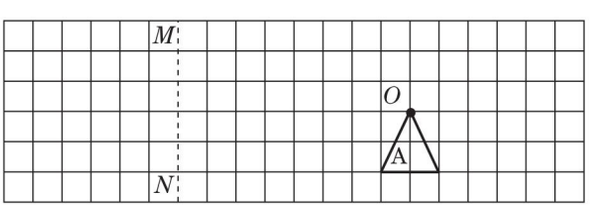

(1) 将图形A绕点 O 逆时针旋转90°得到图形B，画出图形B。

(2) 将图形B向左平移8格得到图形C，画出图形C。

(3) 以虚线 MN 为对称轴，画出图形C的轴对称图形D。

考点3 图形的放大与缩小

4. 先按1∶2画出原图缩小后的图形，再按2∶1画出原图放大后的图形。

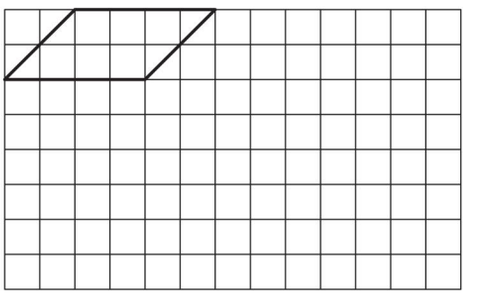

提分必练

提分点1 利用平移和旋转进行还原

5. 你能通过卡片的平移和旋转将图②还原成图①吗？



①



②

提分点2 利用平移、旋转拼图

6. 将下面的七巧板拼成一个梯形，并标出序号。

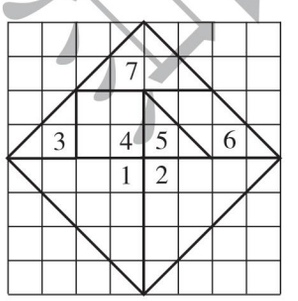

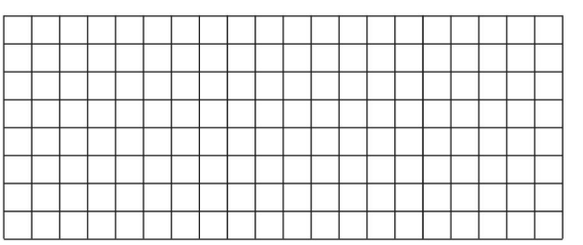

总结归纳：图形的平移与旋转不改变图形的大小和形状，只改变图形的位置。

告诉你

关注微信公众号“教辅资料站”获取更多学习资料

第 7 课时　图形与位置 ☞(答案见 122 页)

考点必知

考点 1　用方向和距离确定物体的位置

1. 看图解决问题。

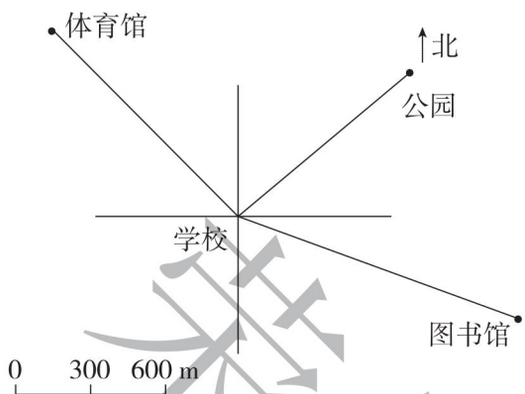

(1) 先量出学校与体育馆、公园和图书馆的距离，再根据比例尺计算出它们之间的实际距离。

(2) 以学校为中心，用量角器测量出与描述各地位置相关的角度，标在图上。

(3) 用自己的语言描述各地的位置。

(4) 书店在学校南偏西 30°方向 600 m 处，把书店的位置标在图上。

考点 2　用数对确定物体的位置

2. 描出下面各点并依次连接成封闭图形，再按要求回答问题。

$A(3, 9)$　$B(3, 6)$　$C(5, 6)$　$D(10, 9)$

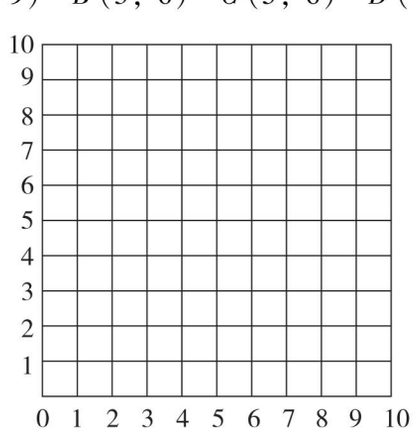

(1) 这个封闭图形是（　　）。

(2) 画出这个封闭图形向下平移 4 格后的图形 $A'B'C'D'$。

(3) 这个封闭图形向下平移 4 格后的图形的顶点分别是：A'（　，　）、B'（　，　）、C'（　，　）、D'（　，　）。

提分必练

提分点 1　根据描述绘出物体的位置

3. 博物馆在学校正东方向 200 m 处，恬恬家位于学校南偏西 25°方向 300 m 处，体育馆在博物馆北偏东 30°方向 250 m 处，在图中标出它们的位置，并注明比例尺。

北

学校

提分点 2　数对与图形面积

4. 已知三角形 ABC 的顶点 A 用数对表示为（1，2），顶点 B 用数对表示为（7，2），顶点 C 用数对表示为（10，7），则三角形 ABC 的面积是多少？

荣德集团

告诉你　**总结归纳：** 观测点发生变化后，相应的方向标就要移动到新的观测点上。

关注微信公众号“教辅资料站”获取更多学习资料

阶段小达标（10）☞（答案见122页）

时间：30分钟　满分：100分

1. 填空。（每空2分，共26分）

（1）在一张长20 cm，宽10 cm的长方形纸中剪下一个最大的半圆，它的周长是（　　）cm，面积是（　　）cm^2。

（2）一个三角形的面积是40 dm^2，它的底是10 dm，高是（　　）dm。

（3）已知图中梯形*ABCD*的下底是上底的3倍，梯形的面积是100 cm^2，那么三角形*ABC*的面积是（　　）cm^2。

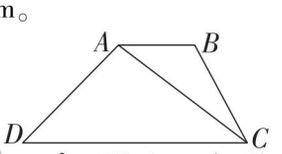

（4）如图，用两个等腰三角形和一个正方形拼成一个梯形，如果梯形的上底是5 cm，则梯形的面积是（　　）cm^2。

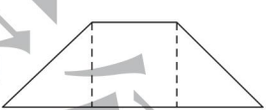

（5）把一个棱长8 dm的正方体木料削成一个最大的圆柱，这个圆柱的表面积是（　　）dm^2，体积是（　　）dm^3。

（6）一个圆锥的体积是56.52 cm^3，底面周长是12.56 cm，它的高是（　　）cm。

（7）把4个棱长1 dm的正方体拼成一个长方体，这个长方体的表面积是（　　）dm^2或（　　）dm^2，体积是（　　）dm^3。

（8）一根长2.5 m的圆柱形木料，平行于底面截去2 dm后，表面积减少了12.56 dm^2，原来圆柱形木料的表面积是（　　）dm^2，体积是（　　）dm^3。

2. 判断。（每题2分，共10分）

（1）两个面积相等的三角形可以拼成一个平行四边形。（　　）

（2）棱长6 cm的正方体的表面积和体积相等。（　　）

（3）小兰在小明南偏东30°的方向上，则小明在小兰北偏西30°的方向上。（　　）

（4）一个圆柱的体积是圆锥体积的3倍，那么这个圆柱和这个圆锥等底等高。（　　）

（5）图形的旋转不改变图形的形状和大小，只改变图形的位置。（　　）

3. 选择。（每题2分，共10分）

（1）圆的半径增加*a* cm，周长就增加（　　）cm。

A. πa　　B. $2a$　　C. $2\pi a$

（2）如果把一个平行四边形拉成一个长方形，那么它的面积（　　），周长（　　）。

A. 变大　　B. 变小　　C. 不变

（3）周长都是25.12 cm的长方形、正方形和圆，（　　）的面积最小。

A. 长方形　　B. 正方形　　C. 圆

（4）等边三角形绕它的中心点至少要旋转（　　）°才能与原图形重合。

A. 60　　B. 120　　C. 180

（5）把长方形的各边按2∶1的比放大，下列叙述不正确的是（　　）。

A. 长方形周长也放大到原来的2倍

B. 长方形的各角的大小不变

C. 长方形的面积也放大到原来的2倍

4. 求阴影部分面积。（8分）

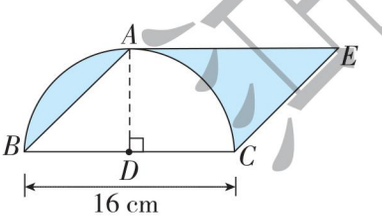

禁止盗用

关注微信公众号“教辅资料站”获取更多学习资料

5. 按要求解决问题。（9 分）

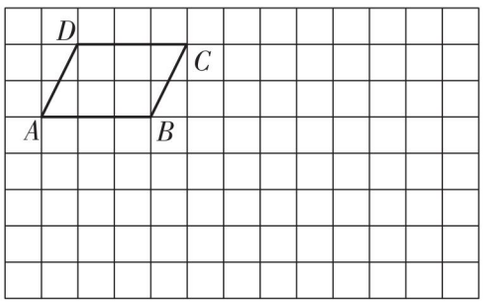

（1）如果 A 点用数对表示是（1，5），C 点用数对表示是（5，7），则另外两个顶点用数对表示是 B（　　），D（　　）。

（2）画出平行四边形 $ABCD$ 绕点 A 顺时针旋转 90° 后的图形。

（3）画出平行四边形 $ABCD$ 按 2 ∶ 1 放大后的图形。

6. 根据下面的描述，在平面图上标出各场所的位置。（9 分）

（1）小彬家在广场西南方向 1200 m 处；

（2）小丽家在广场北偏西 20° 方向 600 m 处；

（3）柳柳家在广场北偏东 30° 方向 900 m 处。

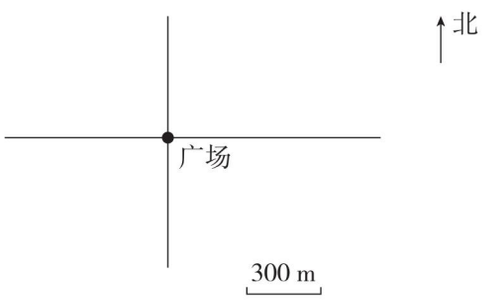

7. 解决问题。（共 28 分）

（1）一个果园的形状是梯形。它的上底是 160 m，下底是 180 m，高是 50 m，如果每棵果树占地 10 m^2，这个果园共有果树多少棵？（7 分）

（2）一个长方体玻璃缸，长 8 dm，宽 6 dm，高 4 dm，水深 2.8 dm。如果投入一块棱长 4 dm 的正方体铁块，缸里的水溢出多少升？（7 分）

（3）一根圆柱形木料底面直径是 4 dm，长是 5 m。如果做一张课桌用去木料 20 dm^3，这根木料能做多少张课桌？（7 分）

（4）一个圆锥形沙堆，底面积是 50.24 m^2，高为 1.2 m，用这堆沙在 10 m 宽的公路上铺 4 cm 厚的路面，能铺多少米？（7 分）

未德集中店

关注微信公众号“教辅资料站”获取更多学习资料

（三）统计与概率

第1课时　简单的数据统计过程 ☞（答案见123页）

考点必知

考点1 统计图的特点及适用范围

1. 填空。

（1）常用的统计图有（　　）统计图、（　　）统计图、（　　）统计图。

（2）医院记录病人的体温变化情况应选用（　　）统计图。

（3）要统计某小学一～六年级各年级人数应选用（　　）统计图。

（4）要了解学校各项支出金额与总支出金额的关系，可选用（　　）统计图。

考点2 利用统计图分析和解决问题

2. 下面是某校六年级4个班学生人数统计图。

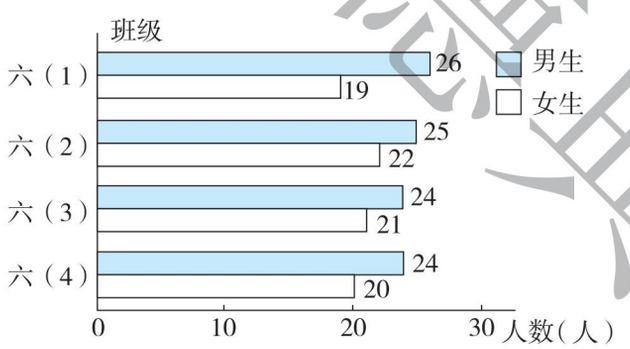

（1）（　　）班男生人数最多，（　　）班女生人数最多，（　　）班和（　　）班男生人数同样多。

（2）六（4）班女生人数约占全班人数的百分之（　　），该班男生人数比女生人数多百分之（　　）。

3. 如图是一件毛衣各种成分的统计图。

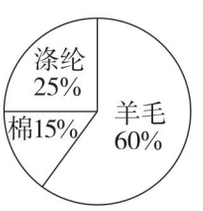

（1）羊毛的含量比涤纶的含量多占总量的百分之（　　）。

（2）棉的含量比涤纶少百分之（　　）。

（3）如果这件毛衣重500克，羊毛重（　　）克，棉重（　　）克。

考点3 求平均数

4. 在一次期中考试中，第一小组有4人，平均分是92.5分，第二小组有5人，平均分是93.4分，这两个小组的总平均分是多少分？

提分必练

提分点1 折线统计图的实际应用

5. 下面是航模小组制作的两架航模飞机在一次飞行中飞行时间和高度的记录。

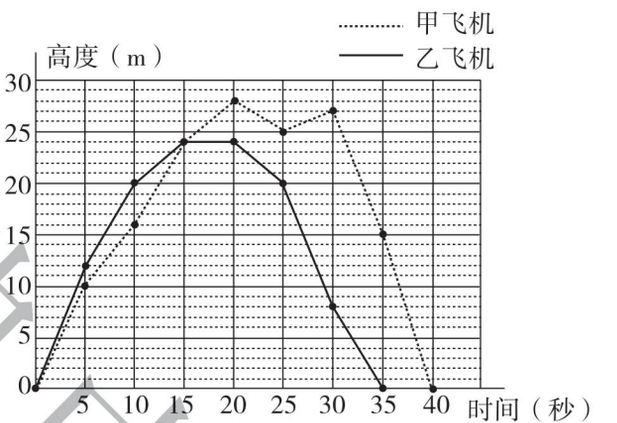

（1）甲飞机飞行了（　　）秒，乙飞机飞行了（　　）秒，甲飞机的飞行时间比乙飞机的长（　　）（填分数）。

（2）说说从起飞后第15秒末至第20秒末乙飞机的飞行状态。

提分点2 稍复杂的平均数问题

6. 小明期末考试时，语文、数学的平均分是95分，语文、英语的平均分是94分，英语、数学的平均分是99分，他的语文、数学、英语各得了多少分？　【导学号 6815034】

总结归纳：平均数常用于表示统计对象的一般水平，它会受极端数据的影响。



关注微信公众号“教辅资料站”获取更多学习资料

第 2 课时　可能性 ☞(答案见 123 页)

考点必知

考点 1 体验随机现象

1. 从下面的盒子中摸出一个球，结果是什么？连一连。

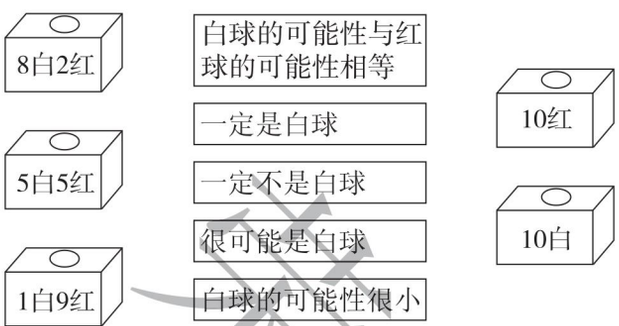

2. 填一填。

(1) 袋子里放着 2 个蓝球、3 个黄球和 5 个绿球，路路随意摸一个，有（　　）种可能的结果，摸到（　　）的可能性最小，摸到（　　）的可能性最大。

(2) 一个盒子里有 5 个红球，3 个白球，任意摸一个，摸到（　　）球的可能性大，如果要使摸到两种球的可能性相同，应再放入（　　）个（　　）球。

考点 2 列举可能出现的结果

3. 填一填。

(1) 口袋里有 6 个球，分别写着数字 1，2，3，4，5，6，任意摸出一个球，有（　　）种可能的结果，任意摸出两个球，有（　　）种可能的结果。

(2) 盒子里装有红球和黄球各 2 个，任意摸一个，有（　　）种可能的结果，分别是（　　）；任意摸两个，有（　　）种可能的结果，分别是（　　）。

提分必练

提分点 1 根据描述涂色

4. 现在有 6 个◯，按要求涂一涂。

(1) 一定摸出红球。

◯ ◯ ◯ ◯ ◯ ◯

(2) 摸出红球的可能性小一些。

◯ ◯ ◯ ◯ ◯ ◯

(3) 不可能摸出红球。

◯ ◯ ◯ ◯ ◯ ◯

提分点 2 可能性与扇形统计图的综合运用

5. 请你根据获奖情况，标出幸运大转盘中的奖项。

奖项	一等奖	二等奖	三等奖	纪念奖
所得奖品	 价值3480元	 价值880元	 价值880元	 价值1元
人数	5	10	25	90

幸运大转盘

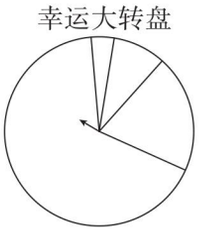

提分点 3 可能性的实际应用

6. 第二小队 8 名少先队员双休日活动内容如下，他们每人抽一张卡片作为他们的活动内容。



(1) 若京京抽走了④号卡片（不放回），则明明抽到的内容是（　　）的可能性最大，不可能抽到（　　）号卡片。

(2) 若明明抽到的卡片是①号（不放回），内容是手抄报，则接下来京京抽到哪些内容的可能性同样大？



总结归纳：事件发生的可能性大，并不是一定会发生。

关注微信公众号“教辅资料站”获取更多学习资料

（四）综合与实践

第1课时　节约水资源 ☞（答案见123页）

考点必知

考点　解决节约水资源中的数学问题

1. 某学校自来水管因停水没有拧紧，来水后水的流失情况如下表。

流失水量（mL）	60	120	180	240	…
时间（分）	1	2	3	4	…

（1）把流失的水量与时间所对应的点在图中描出来，并连线。

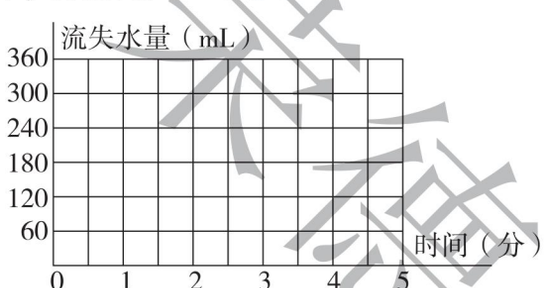

（2）这个水管若1小时未拧紧，会流失水多少升？（用比例知识解答）

2. 明明家的水龙头坏了，经常漏水，明明用一只容积为3.6 L的桶接水，过了1小时30分，便接满了，水龙头每分漏水多少毫升？

提分必练

提分点　解决水龙头漏水的实际问题

3. 如果一个水龙头每分钟漏水50毫升。

（1）计算出这个水龙头4小时、8小时、12小时、16小时、20小时、24小时的漏水量，填入下表。

时间（小时）	4	8	12	16	20	24
漏水量（升）						

（2）这个水龙头一年（365天）漏水多少升？

（3）如果平均一所学校有3个这样的水龙头，全国大约有30万所学校。照这样计算，全国的学校一年（365天）大约要浪费多少吨水？（1立方米水重1吨）

（4）如果一个人每天饮水1400毫升，算一算（3）中一年（365天）浪费的水约可供多少万人饮用一年？

4. 为了提高大家的节水意识，某市制定了居民用水收费新标准，具体收费标准如下：每户每月的基本用水量为20立方米，不超过基本用水量的收费标准是2.1元/立方米；超过基本用水量1～10立方米时，超出部分按2.9元/立方米收费；超过基本用水量10立方米以上时，超出部分按3.75元/立方米收费。【导学号 6815034】

（1）赵阿姨家6月份用水26立方米，实施新的收费标准后要缴水费多少元？

（2）实施新的收费标准后，李强家6月份共缴水费86元，他家这个月实际用了多少立方米的水？

关注微信公众号“教辅资料站”获取更多学习资料

第2课时　开发绿色资源 ☞(答案见123页)

考点必知

考点1 树木成材

1. 把1公顷的土地，按株距5 m，行距4 m植树。一棵成活的树苗，10年后能长成直径20 cm，高12 m的大树。

(1) 一共可以植树多少棵？

(2) 10年后，成材的木料大约有多少立方米？

(3) 把这些圆木加工成最大的方木，方木的体积是多少立方米？

考点2 树木制造氧气

2. 1平方米杨树林在生长季节每天大约吸收0.1千克二氧化碳，释放0.073千克氧气。一个人平均每天消耗0.75千克氧气，呼出0.9千克二氧化碳。

(1) 1公顷杨树林一天释放的氧气约能满足多少人一天的氧气需要？

(2) 一个人大约需要多少平方米的杨树林就能满足一天的氧气需要？(得数保留两位小数)

考点3 太阳能的利用

3. 笑笑家安装了太阳能热水器，笑笑一家三口用太阳能热水器洗澡比用电热水器平均每天节约用电3千瓦时。

(1) 如果电费每千瓦时0.55元，笑笑家一年(按200天计算)大约可节省多少元？

(2) 笑笑家购买的热水器花了2400元，大约几年就可以节约出购买太阳能热水器的钱？(得数保留整数)

提分必练

提分点 节能减排问题

4. 目前某市汽车保有量是185万辆，如果每辆汽车平均每天行驶30千米，平均每千米排放二氧化碳170克。

(1) 这些汽车平均每天排放二氧化碳多少吨？

(2) 该市市政府在“洗城净天”活动中实行单双号限行，按照每天约有一半的汽车停止运行来计算，一年(按365天计算)二氧化碳的排放量减少多少万吨？

禁止售卖

关注微信公众号“教辅资料站”获取更多学习资料

第3课时　生活小区 ☞(答案见123页)

考点必知

考点 解决小区生活中的实际问题

1. 看图解决问题。

新天地小区平面图

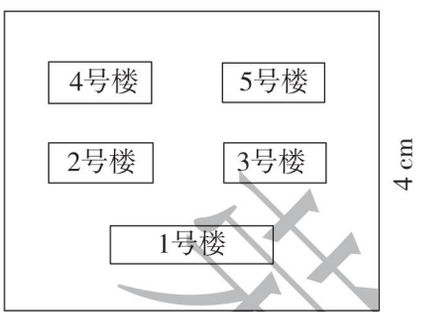

比例尺：1∶4000

(1) 这个小区的占地面积是多少平方米？

(2) 小区的绿化率达30%，小区的绿化面积是多少？

2. 新天地小区门口有两个一样的圆柱形花坛，花坛的外直径是4 m，内直径是3 m，花坛深60 cm。

(1) 在花坛的四周和上面（环形面）贴上瓷砖，两个花坛至少需要瓷砖多少平方米？

(2) 如果花坛里面填土的高度是50 cm，那么两个花坛共需要填土多少立方米？

3. 新天地小区门卫室长6 m，宽4 m，高3 m。

(1) 给门卫室地面铺上边长是50 cm的正方形瓷砖，至少需要瓷砖多少块？

(2) 给门卫室的四壁和顶部粉刷乳胶漆，若每平方米需要乳胶漆0.8 L，粉刷这个门卫室需要乳胶漆多少升？（门窗面积为10 m^2）

4. 新天地小区一共有550户，如果平均每户每天产生0.3 m^3的生活垃圾，那么这个小区1个月（按30天计算）可以产生多少立方米的生活垃圾？

5. 新天地小区一共有550户，每户的平均居住面积为82 m^2。每25户需要一名物业管理员，每名物业管理员的月工资为1000元。如果每户每月按0.5元/m^2缴纳物业管理费，用这些钱来支付物业管理员的工资够吗？

采德集中心

关注微信公众号“教辅资料站”获取更多学习资料

数与代数过关检测卷

时间：60 分钟　满分：100 分

题　号	一	二	三	四	五	总分
得　分						

一 填空。（第 4 题 2 分，第 5 题 4 分，第 6 题 3 分，其余每空 1 分，共 27 分）

1. 一个数由 19 个亿、7 个千万、8 个万、4 个百和 8 个十组成，这个数写作（　　），读作（　　），省略亿位后面的尾数约是（　　）。

2. 0.834，$\frac{5}{6}$，8.3%，$0.8\dot{3}$ 这四个数中最小的数是（　　），最大的数是（　　），（　　）和（　　）是相等的。

3. 20 以内既是奇数又是合数的数是（　　），它们的最大公因数是（　　），最小公倍数是（　　）。

4. 0.45 =（　　）÷4 = $\frac{(\quad)}{20}$ =（　　）成（　　）。

5. $\frac{2}{5}$分 =（　　）秒　　135 分 =（　　）时

3800 克 =（　　）千克　　3.05 吨 =（　　）吨（　　）千克

6. 在◯里填上“ > ”“ < ”或“ = ”。

$\frac{5}{6}$◯0.83　　−3◯−5　　0.89×1.03◯0.89

$\frac{8}{11}$◯$0.\dot{7}\dot{2}$　　$\frac{7}{8}\times\frac{6}{5}$◯$\frac{7}{8}\div\frac{6}{5}$　　7.2×0.25◯7.2÷4

7. 甲数是 8，乙数是 11，乙数与甲数的比是（　　），甲数与甲、乙两数的和的比是（　　）。

8. 甲数比乙数的 1.8 倍少 b，如果乙数是 a，则甲数是（　　）；如果甲数是 a，则乙数是（　　）。

9. 一件商品原价 480 元，超市的优惠活动是满 300 元减 120 元，实际上这件商品相当于打（　　）折出售。

10. 甲数是乙数的$\frac{4}{5}$，乙数是甲数的（　　）%，甲数比乙数少（　　）%，乙数比甲数多（　　）%。

二 判断。（对的画“√”，错的画“×”。每题 1 分，共 5 分）

1. 比的前项扩大到原来的 2 倍，后项不变，比值就扩大到原来的 2 倍。（　　）

2. 一种商品先涨价 15%，再降价 15%，这种商品现价与原价相等。（　　）

3. 圆的面积与半径成正比例。（　　）

4. 在比例尺是 1∶4000000 的地图上，图上距离 1 cm 表示实际距离 40 km。（　　）

5. 如果甲数是乙数的 5 倍，那么乙数一定是甲数的因数。（　　）

三 选择。（将正确答案的序号填在括号里。每题 2 分，共 10 分）

1. 甲数的$\frac{2}{7}$与乙数的$\frac{3}{5}$相等，甲数和乙数相比，（　　）。

A. 甲数 > 乙数　　B. 甲数 < 乙数　　C. 甲数 = 乙数　　D. 无法比较

2. 一本书打七五折的售价是 36 元，原价是（　　）元。

A. 9　　B. 27　　C. 45　　D. 48

3. 冬冬乘汽车到外婆家，下午 4 时出发，10 小时后到达。到达时他看到的景象可能是（　　）

A. 旭日东升　　B. 残阳如血　　C. 星光灿烂　　D. 骄阳似火

4. 把一根长$\frac{3}{4}$米的木料锯成长度相等的小段，一共锯了 4 次，平均每段长多少米？列式为（　　）。

A. $\frac{3}{4}\div4$　　B. $\frac{3}{4}\div(4-1)$　　C. $\frac{3}{4}\times4$　　D. $\frac{3}{4}\div(4+1)$

5. 修一条路，甲队单独修 15 天完成，乙队单独修 12 天完成，甲队的工作效率与乙队的工作效率的最简整数比是（　　）。

A. 15∶12　　B. 12∶15　　C. 5∶4　　D. 4∶5

四 计算。（共 23 分）

1. 直接写得数。（5 分）

3.6 + 5.4 =　　$25\div\frac{1}{4}$ =　　1414 ÷ 14 =　　13.8 − 6.9 − 3.1 =

$4\div9\times\frac{4}{9}$ =　　22.9 ÷ 2.29 =　　8 × 12.5% =　　9 + 1 ÷ 10 =

$\frac{1}{3}+\frac{5}{6}+\frac{2}{3}$ =　　$\frac{4}{3}\times\frac{3}{4}\div\frac{8}{7}\times\frac{7}{8}$ =

2. 计算下列各题，能简算的要简算。（12 分）

2.5 × 1.25 × 32　　$76\times\frac{1}{8}+24\times0.125$　　420 ÷ 7 ÷ 6

姓名　学号　班级　学校　密　封　线

关注微信公众号“教辅资料站”获取更多学习资料

$\left(\frac{3}{8}+\frac{1}{27}\right)\times 8+\frac{19}{27}$　　$9.6-11\div 7+\frac{1}{7}\times 4$　　$\frac{9}{10}-\left(\frac{1}{4}+\frac{7}{20}\right)\div\frac{3}{4}$

3. 解方程或解比例。(6 分)

$7(x+1.3)=56$　　$\frac{x}{9}=\frac{0.8}{4.5}$

五 **解决问题。**(共 35 分)

1. 六一儿童节那天，某体育用品商店开展促销活动，所有商品一律九折。明明买了一副羽毛球拍便宜了 15 元。他买这副羽毛球拍用了多少元？(5 分)

2. 贝贝到文具店买了 5 支圆珠笔和 4 支铅笔，共用去 8 元，每支圆珠笔 1.2 元，每支铅笔多少元？(5 分)

3. 小可有 72 张邮票，是小悦邮票数的$\frac{8}{9}$，小军的邮票数比小悦多$\frac{1}{3}$，小军有邮票多少张？(5 分)

4. 生产一批零件，第一周生产了这批零件的 20%，第二周生产了 480 个，这时已经生产的和没有生产的零件的个数比是 3∶2，还要生产多少个零件才能完成任务？(5 分)

5. 六年级举行数学竞赛，共有 20 道题，做对一道题得 5 分，没做或做错一道扣 3 分。笑笑得了 60 分，那么她做对了几道题？(5 分)

6. 一列匀速行驶的火车通过一架长 1000 米的桥梁用了 30 秒，穿越长 1920 米的隧道用了 50 秒，这列火车每秒行多少米？车身长多少米？(5 分)

7. 一项工程，如果甲、乙合做，3 天可以完成这项工程的一半；如果丙单独做，12 天可以完成这项工程。现在甲、乙、丙合做，几天可以完成这项工程？(5 分)

密　封　线

关注微信公众号“教辅资料站”获取更多学习资料

图形与几何、统计与概率过关检测卷

时间：60 分钟　满分：100 分

题　号	一	二	三	四	五	六	七	总分
得　分								

一 填空。（第 1、3 题每题 4 分，其余每题 2 分，共 24 分）

1. 780 cm^2 = （　　）dm^2　　0.8 km^2 = （　　）公顷
   8 $m^3$60 dm^3 = （　　）m^3　　7.5L = （　　）cm^3

2. 一个几何体，从正面看是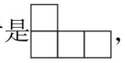，从左面看是，拼成这个几何体最少需要（　　）个小正方体，最多需要（　　）个小正方体。

3. 小芳家在学校南偏东 60°方向，距离是 800 米，那么学校在小芳家（　　）偏（　　）（　　）°方向，距离是（　　）米。

4. 如右图，正方形的面积与圆的面积的比是（　　）。



5. 等腰三角形的两条边分别长 5 厘米和 10 厘米，那么这个等腰三角形的周长是（　　）厘米。

6. 一个梯形的上底长 8 厘米，下底长 12 厘米，高 10 厘米，若在这个梯形中剪去一个最大的平行四边形，这个平行四边形的面积是（　　）平方厘米；若在这个梯形中剪去一个最大的三角形，剩余部分的面积是（　　）平方厘米。

7. 将一个长 15 cm，宽 13 cm，高 9 cm 的长方体木块，分别沿它的长、宽、高切割成棱长为 3 cm 的小正方体木块，可以切成（　　）个。

8. 把一段长 2 米的圆柱形木料锯成 4 个小圆柱，表面积正好增加了 18 平方分米，这段木料原来的体积是（　　）立方米。

9. 在一幅条形统计图里，用 1.5 cm 长的直条表示 9 吨，用（　　）cm 长的直条表示 24 吨。

10. 盒子里装有除颜色外完全相同的红球、蓝球共 10 个，如果任意摸一个球，摸到红球的可能性大，则红球至少有（　　）个。

二 判断。（对的画“√”，错的画“×”。每题 1 分，共 5 分）

1. 一个三角形中，只要两个内角的度数和小于另一个内角的度数，这个三角形就一定是钝角三角形。（　　）

2. 周长相等的两个圆，面积也相等。（　　）

3. 角的两条边画得越长，角越大。（　　）

4. 两个等高的圆锥，它们半径的比是 2∶3，则它们体积的比也是 2∶3。（　　）

5. 下面三个面积相等的平行四边形，它们阴影部分面积一样大。（　　）

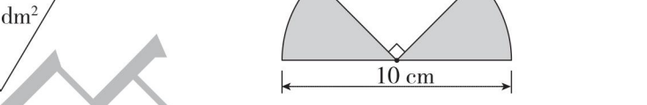

三 选择。（将正确答案的序号填在括号里。每题 2 分，共 10 分）

1. 下面的图形中，（　　）是正方体的展开图。

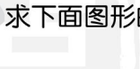
A


B


C

D

2. 下列数据中，与其他数据不相等的是（　　）。
   A. 4.05 m^3　　B. 40500 cm^3　　C. 4050 dm^3　　D. 4050000 cm^3

3. 将一个正方体木块的 6 个面涂上红色，然后锯成 64 个大小相等的小正方体，其中一个面涂色的小正方体有（　　）个。
   A. 8　　B. 12　　C. 24　　D. 36

4. 一个正方形的边长和圆的半径相等，已知正方形的面积是 20 平方米，则圆的面积是（　　）平方米。
   A. 15.7　　B. 62.8　　C. 12.56　　D. 78.5

5. 乐乐看明明在北偏西 60°的方向上，那么明明看乐乐在（　　）的方向上。
   A. 北偏西 60°　　B. 南偏东 60°　　C. 南偏西 60°　　D. 南偏东 30°

四 求阴影部分的面积。（10 分）

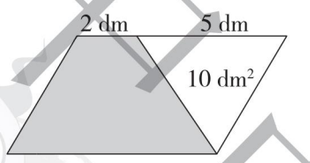

五 求下面图形的表面积和体积。（单位：cm）（8 分）

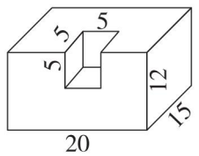

关注微信公众号“教辅资料站”获取更多学习资料

六 动手操作。（共 14 分）

1. （8 分）（1）按 2∶1 的比画出三角形放大后的图形。

（2）按 1∶2 的比画出平行四边形缩小后的图形。

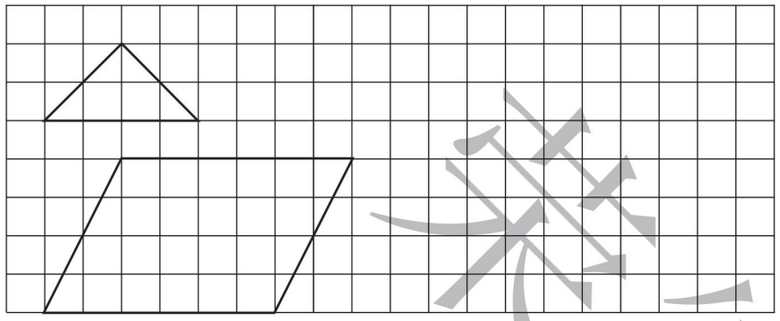

2. 下面是晓晓和明明本学期六次测验成绩（单位：分）统计表，请根据统计表绘制折线统计图。（6 分）

姓名	第 1 次	第 2 次	第 3 次	第 4 次	第 5 次	第 6 次
晓晓	85	88	84	87	88	86
明明	84	86	88	91	98	95



七 解决问题。（共 29 分）

1. 一根铁丝正好可以围成一个半径是 3 厘米的半圆形，这根铁丝有多长？它所围成的半圆形的面积有多大？（5 分）

2. 健康制药厂要做一个圆柱形水箱，底面周长是 25.12 米，深 2 米，要在它的外侧面抹上油漆，如果每平方米用油漆 0.5 千克，共需油漆多少千克？（6 分）

3. 乐乐期末考试语文、数学、品德、科学四科的平均成绩是 90 分，加上英语成绩后，五科的平均成绩下降了 2 分，乐乐英语考了多少分？（6 分）

4. 如图，圆柱形容器是空的，长方体容器中水深 6.28 cm，将长方体容器中的水全部倒入圆柱形容器内，这时圆柱形容器内水深多少厘米？（6 分）

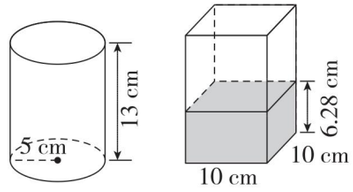

5. 一段圆柱形木料，如果分成两段圆柱形木料，表面积将增加 6.28 dm^2；如果沿底面直径劈成两个半圆柱，表面积将增加 80 dm^2。原来圆柱形木料的表面积是多少？（6 分）

密 封 线

关注微信公众号“教辅资料站”获取更多学习资料

期末检测卷

时间：60 分钟　满分：100 分

题　号	一	二	三	四	五	六	总分
得　分							

一 填空。（第 2、9 题每题 3 分，其余每题 2 分，共 22 分）

1. 在一幅条形统计图里，如果用 2 cm 长的直条表示 20 t，那么用（　　）cm 长的直条表示 35 t。
2. 18 的因数中，既是偶数又是质数的数是（　　），既是奇数又是合数的数是（　　）；从因数中选出四个数组成比例，组成的比例是（　　）。
3. 一堆煤有 5 吨，如果每天用去$\frac{5}{9}$，（　　）天可以用完；如果每天用去$\frac{5}{9}$吨，（　　）天可以用完。
4. 一个圆柱与一个圆锥的体积和底面积都相等，圆柱的高是 4.5 dm，圆锥的高是（　　）dm。
5. A 是 B 的 60%，B 是 C 的$\frac{2}{3}$，则 A∶C =（　　）∶（　　）。
6. 已知 A = 2 × 2 × 3 × 5，B = 2 × 3 × 3 × 5，则 A，B 的最大公因数是（　　），最小公倍数是（　　）。
7. 有一个周长是 72 cm 的长方形，它正好由三个完全相同的正方形拼成，这个长方形的面积是（　　）cm^2。
8. 在比例尺是

的地图上，量得甲地到乙地的距离是 17.3 厘米，则甲地到乙地的实际距离是（　　）千米。
9. 4 ÷ 7 的商用循环小数的简便记法表示是（　　），小数点后第 50 位上的数字是（　　），小数点后前 50 位数字的和是（　　）。
10. 如右图，直角三角形的两条直角边长分别为 3 cm，4 cm，斜边长为 5 cm，以斜边所在的直线为轴旋转一周所形成的立体图形的体积是（　　）cm^3。

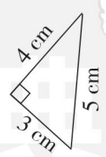

二 判断。（对的画“√”，错的画“×”。每题 1 分，共 5 分）

1. 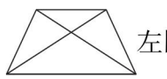左图中，一共有 3 对三角形的面积是分别相等的。（　　）
2. 100 g 水中放入 10 g 盐，盐占盐水的 10%。（　　）
3. 250 ÷ 70 = 25 ÷ 7 = 3……4。（　　）
4. 一个圆锥的体积和一个圆柱的体积相等，那么圆锥的高是圆柱高的 3 倍。（　　）
5. 袋子里装着除颜色外其他都相同的 2 个红球和 3 个蓝球，任意摸两个，会出现三种不同的情况。（　　）

三 选择。（将正确答案的序号填在括号里。每题 1 分，共 5 分）

1. 一个圆柱的侧面展开图是正方形，这个圆柱的底面直径和高的比是（　　）。

   A. π∶1　　B. 2π∶1　　C. 1∶1　　D. 1∶π

2. 一件品牌上衣先提价 20%，后又打八折，与原价相比，现价（　　）。

   A. 提高了　　B. 降低了　　C. 不变　　D. 无法确定

3. 六一儿童节，六（1）班学生用彩色气球布置教室，按“三红、两黄、两绿”的顺序排列，第 37 个气球是（　　）的。

   A. 红色　　B. 黄色　　C. 绿色　　D. 不能确定

4. 一段铁丝长 12 米，第一次截去全长的$\frac{2}{3}$，第二次截去$\frac{1}{3}$米，最后剩下（　　）。

   A. 0 米　　B. 11 米　　C. 3$\frac{2}{3}$米　　D. $\frac{1}{3}$米

5. 从甲盐库取出$\frac{1}{5}$的盐运到乙盐库，这时两个盐库所存的盐的质量相等，原来甲盐库和乙盐库存盐的质量比是（　　）。

   A. 5∶3　　B. 4∶5　　C. 6∶5　　D. 5∶4

四 计算。（共 32 分）

1. 直接写得数。（5 分）

   $28 \times 50 =$　　$125\% \times 4 =$　　$1 - 1 \div 9 =$　　$0.073 + 7.3 =$　　$24 \times \left(\frac{1}{4} + \frac{1}{8}\right) =$

   $\frac{3}{5} \times \frac{10}{9} =$　　$4.5 \div 0.09 =$　　$60 \times 80\% =$　　$3.14 \times 6 =$　　$\frac{5}{6} \times \frac{3}{8} \div \frac{5}{6} \times \frac{3}{8} =$

2. 计算下列各题，怎样简便就怎样算。（12 分）

   $0.97 \times 6.8 - 0.47 \times 6.8$　　$25 \times 1.6 \times 4$

   $\frac{5}{11} \times \left[\left(\frac{2}{5} + \frac{1}{3}\right) \div \frac{5}{6}\right]$　　$0.8 \times 5.6 + 5.4 \times \frac{4}{5} - 80\%$

姓名　学号　班级　学校　密　封　线

关注微信公众号“教辅资料站”获取更多学习资料

3. 解方程或解比例。(9 分)

$x-\frac{2}{7}x=\frac{15}{14}$　　$10:x=4.5:0.8$　　$\frac{1}{4}x+50\%\,x=60$

4. 求下面组合图形的表面积和体积。(单位：dm)(6 分)

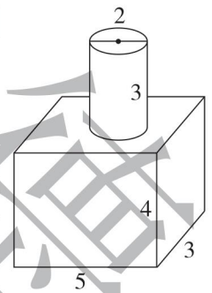

五 动手操作。(共 6 分)

1. 将平行四边形绕点 O 按逆时针方向旋转 90°，画出旋转后的图形。(3 分)

2. 下面右图是一个轴对称图形的一半，请画出另一半(以虚线为对称轴)。(3 分)

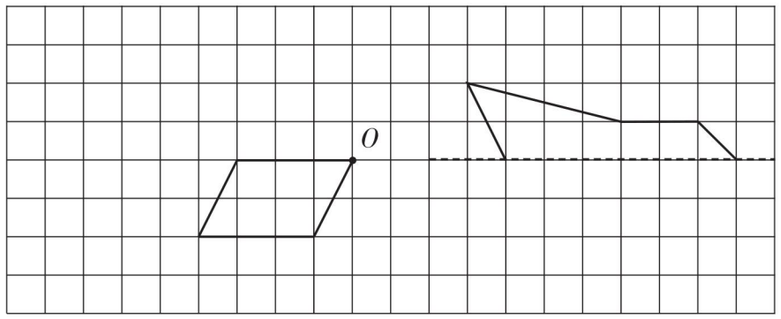

六 解决问题。(共 30 分)

1. 食堂有一些大米，第一周吃掉了总质量的 35%，第二周吃掉了 180 kg，这时剩下的大米与吃了的大米一样多，食堂原来有大米多少千克？(6 分)

2. 一辆汽车从甲地出发，3 小时行了 195 km，照这样计算，再行 5 小时就能到达乙地。在比例尺为1∶4000000的地图上，甲、乙两地相距多少厘米？(用比例解)(6 分)

3. 手工课上，媛媛将一块底面直径是 4 cm，高是 6 cm 的圆柱形橡皮泥改做成了一个底面半径是 3 cm 的圆锥。这个圆锥的高是多少厘米？(6 分)

4. 某种品牌的电冰箱，如果按标价降价 10% 出售，可以盈利 215 元；如果按标价降价 20% 出售，就会亏本 125 元。那么这种电冰箱的标价是多少元？(6 分)

5. 甲仓库原来的存粮是乙仓库的$\frac{4}{5}$，后来甲仓库增加存粮 88 吨，这时乙仓库与甲仓库存粮吨数的比是 6∶7，乙仓库存粮多少吨？(6 分)

荣德基典中点

关注微信公众号“教辅资料站”获取更多学习资料

荣德基小学系列 典中点 参考答案及点拨

六年级 数学 下 JJ版

检测卷部分

第一单元过关检测卷

一、1. 3°C　-2°C　5

2. 4，$\frac{9}{11}$　-0.8，-12　0　4　-12

3. -3°C

4. +1864　低于海平面422 m

5. +4分　85分　6. <　>　>　>　>　>

7. 20　10　-10　8. 30　23　33

9. 250　255　245　10. -500m

二、1. ×　2. √　3. √　4. ×　5. ×

三、1. C　2. A　3. C　4. A　5. C　6. B

四、1.

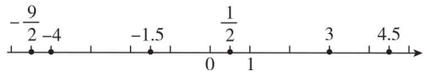

2.

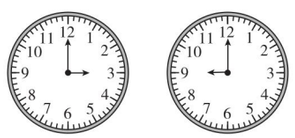





五、1. -1　进来30人　出去12人　出去3人　进来35人

现在教室里的人数：30-12-3+35=50（人）

2. -240　-2000　+1500　-1000　-1200

2月份的余额：6800-240-2000+1500-1000-1200=3860（元）

3. -4 m表示向西爬行4 m。这时它距离出发点1 m。画图略

4. 70×8=560（m）　560-480=80（m）

用-80 m表示。

5. （1）15+10-3-2=20（次）

（50×5+20）÷5=54（次）

（2）3÷5×100%=60%

6. 2.6　1.8　3.6　5.8　4.6　7.1

第二单元过关检测卷

一、1. 列　排　（5，3）　6　5

2. （3，3）　（3，4）　上

3. （2，5）　（6，4）　（1，1）　（5，2）

4. 直角　5. （13，6）　6. （3，2）　（5，2）

7. 排　列　8. （4，4）

9. （4，3）　（5，1）　（8，3）

二、1. ×　2. ×　3. ×　4. √　5. ×

三、1. C　2. A　3. B　4. A　5. C

四、1. 略

2. （1）（1，5）（1，3）（4，3）　（2）略

（3）（2，0）（4，0）（4，3）

五、1. （1）（1，2）（2，2）（3，2）（4，2）（5，2）

（2）可能是四（1）班、四（2）班、四（3）班、四（4）班或四（5）班。

（3）可能是一（4）班、二（4）班、三（4）班、四（4）班、五（4）班或六（4）班。

2. （1）跷跷板：（2，4）　碰碰车：（5，1）

摩天轮：（6，5）　（2）略

3. （1）略　（2）东门→猴山→孔雀亭→熊猫馆→金鱼湖→盆景园→北门

4. “相”下一步可以走：（1，3），（5，3）。

“马”下一步可以走：（6，2），（7，3），（9，3）。

第三单元过关检测卷

一、1. $x÷y=k$（一定）　$xy=k$（一定）

2. 正　反　3. 正　4. 数量　总价　数量

5. 略　6. 反　正　7. 6.4　10

8. 已看的页数　看的天数　正　240　120

9. 10∶9　正

二、1. ×　2. ×　3. ×　4. ×　5. √

三、1. A　2. B　3. C　4. A　5. C

四、1. （1）180　4.8　$\frac{1}{2}$　$\frac{1}{48}$

（2）0.6　7.5　22.5　0.15

2. $x=\frac{1}{6}$　$x=1.6$　$x=3$

五、1. （1）40　80　120　160　200　240　（2）略

（3）2.5小时能加工100个零件，5.5小时能加工220个零件。

2. 解：设原计划用x天铺完。

$3.2x=3.2\times(1+25\%)\times12$　$x=15$

3. （1）10　20

（2）相等，意义：表示这一批粮食的总袋数。成反比例。

（3）$400\times1÷50=8$（天）

4. （1）成正比例，因为行驶的路程与耗油量的比值一定。

（2）$120\times\frac{2}{10}=24$（升）

（3）$8÷\frac{2}{10}=40$（千米）

40千米<90千米

所以他需要加油。

第四、五单元过关检测卷

一、1. 320　0.75　6.08　2. 1406.72　4019.2

3. 10.048　4. 207.24　150.72　5. 13.5

6. 0.785　7. 12.6　4.2　8. 10.8　9. 12

10. 502.4　11. 34　男　12. 99000

二、1. ×　2. ×　3. √　4. ×　5. √

三、1. A　2. D　3. B　4. C　5. C

四、62.8 cm^2　87.92 cm^2　62.8 cm^3　1 dm　31.4 dm^2　12.56 dm^3　47.1　6280

五、表面积：$(15\times20+20\times30+15\times30)\times2+\frac{1}{2}\times10\times3.14\times30-\left(\frac{10}{2}\right)^2\times3.14-10\times30=2792.5$（$cm^2$）

体积：$15\times20\times30-\left(\frac{10}{2}\right)^2\times3.14\times30\times\frac{1}{2}=7822.5$（$cm^3$）

六、1. （1）$40\times3.14\times64+\left(\frac{40}{2}\right)^2\times3.14$

$=9294.4$（cm^2）

≈93（dm^2）

（2）$64\times\left(\frac{40}{2}\right)^2\times3.14=80384$（$cm^3$）$\approx80$ L

2. $1.2\times\frac{1}{3}\times\left(\frac{18.84}{2\times3.14}\right)^2\times3.14\times1.6\approx18$（t）

3. 20 cm=0.2 m　$3.14\times0.2\times1\times80=50.24$（$m^2$）

4. $\left(\frac{20}{2}\right)^2\times3.14\times3=942$（$cm^3$）

5. 1 m=100 cm

$100\times\left[\left(\frac{20}{2}\right)^2\times3.14-\left(\frac{10}{2}\right)^2\times3.14\right]\times7.8=183690$（g）$=183.69$ kg

6. 20 cm=0.2 m

$\frac{1}{2}\times0.2\times0.2\times1.5=0.03$（$m^3$）

期中检测卷

一、1. +126°C　-150°C　276　2. <　=　>　>

3. -4米　下降三层　4. （3，5）　（3，6）

5. （5，4）　6. 反　7. 5∶2　正

8. 50.24　37.68　9. 5.652　10. 12　36

二、1. ×　2. ×　3. ×　4. √　5. √　6. ×

三、1. D　2. C　3. D　4. B　5. B

四、1. $12\times24+\left(\frac{12}{2}\right)^2\times3.14+12\times3.14\times24\times\frac{1}{2}=853.2$（$cm^2$）

2. $12\times\left(\frac{8}{2}\right)^2\times3.14-\frac{1}{3}\times8\times\left(\frac{8}{2}\right)^2\times3.14\approx468.9$（$cm^3$）

五、1. （2，8）（5，5）（3，2）（8，3）　2. 略

3. 他先后去了牢房、兵营、弹药库。

六、1. （1）25

（2）+5　0　+10　+15　-5　-10　-15

2. （1）略

（2）成正比例，因为距离÷时间=速度（一定）。

（3）4.5小时鸵鸟能奔跑315 km，跑525 km用7.5小时。

3. $8\times\frac{3}{4}=6$（dm）

$3.14\times8\times6+3.14\times(8÷2)^2=200.96$（$dm^2$）

$3.14\times(8÷2)^2\times6=301.44$（$dm^3$）$=301.44$（L）

4. 高：$8\times7\times6.28\times3÷\left[\left(\frac{8}{2}\right)^2\times3.14\right]=21$（厘米）

铁块重：$8\times7\times6.28÷1000\times7.8=2.743104$（千克）

5. $5^2\times3.14\times\left(\frac{8}{4}\times9\right)=1413$（立方厘米）

数与代数过关检测卷

一、1. 1970080480　十九亿七千零八万零四百八十

20亿

2. 8.3%　0.834　$\frac{5}{6}$　$0.8\dot{3}$

3. 9，15　3　45　4. 1.8　9　四　五

5. 24　2.25　3.8　3　50

6. >　>　>　=　>　=　7. 11∶8　8∶19

8. $1.8a-b$　$(a+b)÷1.8$　9. 七五

10. 125　20　25

二、1. √　2. ×　3. ×　4. √　5. ×

三、1. A　2. D　3. C　4. D　5. D

四、1. 9　100　101　3.8　$\frac{16}{81}$　10　1

9.1　$1\frac{5}{6}$　$\frac{49}{64}$

2. 100　12.5　10　4　8.6　$\frac{1}{10}$

3. $x=6.7$　$x=\frac{8}{5}$

五、1. $15÷(1-90\%)-15=135$（元）

2. $(8-5\times1.2)÷4=0.5$（元）

3. $72÷\frac{8}{9}\times\left(1+\frac{1}{3}\right)=108$（张）

4. $480÷\left(\frac{3}{3+2}-20\%\right)=1200$（个）

$1200\times\frac{2}{3+2}=480$（个）

5. $(20\times5-60)÷(5+3)=5$（道）

$20-5=15$（道）

6. 这列火车每秒行：$(1920-1000)÷(50-30)=46$（米）

关注微信公众号“教辅资料站”获取更多学习资料

车身长：$46\times30-1000=380$（米）

7. $1\div\left(\frac{1}{2}\div3+\frac{1}{12}\right)$

$=1\div\left(\frac{1}{6}+\frac{1}{12}\right)$

$=1\div\frac{1}{4}$

$=4$（天）

图形与几何、统计与概率过关检测卷

一、1. 7.8　80　8.06　7500　2. 4　7　3. 北　西　60　800　4. 4∶π　5. 25　6. 80　40　7. 60　8. 0.06　9. 4　10. 6

二、1. √　2. √　3. ×　4. ×　5. √

三、1. C　2. B　3. C　4. B　5. B

四、$10\times2\div5=4$（dm）　$(2+2+5)\times4\div2=18$（dm^2）

$3.14\times(10\div2)^2\div2-(10\div2)\times(10\div2)\div2=26.75$（$cm^2$）

五、表面积：$(20\times15+15\times12+20\times12)\times2+5\times5\times2=1490$（$cm^2$）

体积：$20\times15\times12-5\times5\times5=3475$（$cm^3$）

六、略

七、1. $3\times3.14+3\times2=15.42$（厘米）

$3^2\times3.14\div2=14.13$（平方厘米）

2. $25.12\times2\times0.5=25.12$（千克）

3. $(90-2)\times5-90\times4=80$（分）

4. $10\times10\times6.28\div(3.14\times5^2)=8$（cm）

5. $3.14\times(80\div2)+6.28=131.88$（$dm^2$）

期末检测卷

一、1. 3.5　2. 2　9　2∶3＝6∶9（比例不唯一）　3. $\frac{9}{5}$　9　4. 13.5　5. 2　5　6. 30　180　7. 243　8. 692　9. $0.\dot{5}7142\dot{8}$　7　228　10. 30.144

二、1. √　2. ×　3. ×　4. ×　5. √

三、1. D　2. B　3. A　4. C　5. A

四、1. 1400　5　$\frac{8}{9}$　7.373　9　$\frac{2}{3}$　50　48　18.84　$\frac{9}{64}$

2. $0.97\times6.8-0.47\times6.8$

$=(0.97-0.47)\times6.8$

$=0.5\times6.8$

$=3.4$

$25\times1.6\times4$

$=25\times4\times1.6$

$=100\times1.6$

$=160$

$\frac{5}{11}\times\left[\left(\frac{2}{5}+\frac{1}{3}\right)\div\frac{5}{6}\right]$

$=\frac{5}{11}\times\left(\frac{11}{15}\times\frac{6}{5}\right)$

$=\frac{5}{11}\times\frac{11}{15}\times\frac{6}{5}$

$=\frac{1}{3}\times\frac{6}{5}$

$=\frac{2}{5}$

$0.8\times5.6+5.4\times\frac{4}{5}-80\%$

$=0.8\times5.6+5.4\times0.8-0.8$

$=0.8\times(5.6+5.4-1)$

$=0.8\times10$

$=8$

3. $x=\frac{3}{2}$　$x=\frac{16}{9}$　$x=80$

4. 表面积：$(5\times3+4\times3+5\times4)\times2+2\times3.14\times3=112.84$（$dm^2$）

体积：$3.14\times\left(\frac{2}{2}\right)^2\times3+5\times4\times3=69.42$（$dm^3$）

五、略

六、1. $180\div\left(\frac{1}{2}-35\%\right)=1200$（kg）

2. 解：设甲、乙两地的实际距离为 x km，图上距离为 y cm。

$\frac{195}{3}=\frac{x}{3+5}$

$x=520$

520 km＝52000000 cm

$\frac{1}{4000000}=\frac{y}{52000000}$

$y=13$

3. $3.14\times(4\div2)^2\times6\times3\div(3.14\times3^2)=8$（cm）

4. $(215+125)\div(20\%-10\%)$

$=340\div10\%$

$=3400$（元）

5. 方法一：$88\div\left(\frac{7}{6}-\frac{4}{5}\right)$

$=88\div\frac{11}{30}$

$=240$（吨）

方法二：解：设乙仓库存粮 x 吨，则甲仓库原来存粮 $\frac{4}{5}x$ 吨。

$\left(\frac{4}{5}x+88\right):x=7:6$

$6\left(\frac{4}{5}x+88\right)=7x$

$7x-\frac{24}{5}x=528$

$11x=2640$

$x=240$

课时部分

第一单元　生活中的负数

第1课时　天气预报中的负数

1. 零上二十八摄氏度　零摄氏度　零下七摄氏度
2. −8℃　+15℃　25℃
3. （1）零上　零下　+10℃　−12℃

（2）−11℃

（3）+2℃

4. <　>　>　>　<　>
5. −13℃ < −8℃ < −4℃ < 6℃ < 25℃ < 40℃
6. （1）×　**点拨：**0℃应是零上温度与零下温度的分界点。

（2）×　**点拨：**计算温差时，没有考虑零下温度而直接相减，温差应是7℃。

7. 妈妈会将酸牛奶放在冷藏室。
8. （1）5℃（2）9℃
9. 上升8℃后是2℃，将2℃下降8℃应是−6℃。

第2课时　认识正、负数

1. （1）高　+15℃　正　低　−8℃　负

（2）正四点五　负五分之四

（3）+3，4.7，+26　$-\frac{6}{5}$，−7，−1.5　0

2. （1）正整数　负整数　0

（2）①−3　−1　3　5　②右　左

③1，2，3，4，5，6，　−1，−2，−3

3. −95 < −76 < 0 < 2 < 50 < 100
4. <　<　>　<　>　>
5. （1）×　**点拨：**小于8的数有无数个。

（2）√　**点拨：**正数都大于0，负数都小于0，故正数一定大于负数。

（3）×　**点拨：**负数即小于0的数，故错误。

6. 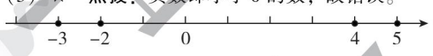

（1）5　（2）7

7. 用直线上的点表示数略

$-2.4<-1.2<-\frac{3}{5}<\frac{1}{5}<2.2$

8. 6−4−2＝0（人）　没有变化。

点拨：用上、下车的人数相加减得出的结果就是人数的变化情况。

第3课时　用正、负数表示相反意义的量

1. （1）零下温度　下降　收入　（2）向西走700米

（3）−1000元　（4）−600米　（5）下滑4 m

2. +35　−48　−12　−40　+30　115
3. −10米　**点拨：**题干中规定下降记为正数，故上升10米记为−10米。
4. （1）−50　（2）东　60　（3）西　60　（4）−30　（5）0
5. 这个点原来的位置在+1。

第4课时　根据一定的标准用正、负数表示相反意义的量

1. （1）+5　−5　−5　+5　+5

−5　+5　−5　+5　−5

+5　−5　+5　+5　0

（2）小丁　+10　晓峰　+5　小刚　−5

2. （1）+8　−5　0　−2　+5

（2）每袋最多有255 mL，最少有245 mL。

3. （1）−3　+4　−4

（2）4层　**点拨：**“上升到7层”指电梯到达7层，“下降了3层”指电梯下降3层后到达4层。

4. （1）$(150+152+148+147+153)\div5=150$（cm）

（2）0　+2　−2　−3　+3

第5课时　用正、负数表示事物中数据的变化

1. −2　2. 40　−2　38　+1　39　−3　36
3. （1）7　+6　1　−6　6　+5　3　−3

（2）4楼

4. 填表略。蜗牛第四天能爬出井口。
5. +25　25　20　13　10　最初的进货量为25箱。
6. 明明还可以赛一局或两局，必须胜一局。

亮亮必须赛两局胜两局。

阶段小达标（1）

1. （1）2.5，$+\frac{4}{5}$，+41　−7，−5.2，$-\frac{1}{3}$

（2）−2　（3）4，3，2，1　−4，−3，−2，−1

（4）−200元　（5）水位上涨了0.8米

（6）<　>　>　<

（7）+2　−1　（8）15.5　14.5　（9）−3℃

（10）−2米

2. （1）×　（2）×　（3）×　（4）√　（5）×
3. （1）C　（2）C　（3）B　（4）C　（5）C
4. 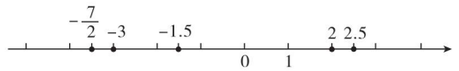

5. （1）①有5人达标。

②$(18\times8+4-1+0+3-2+2+4-2)\div8=19$（个）

（2）①−3时表示宇航员要进餐，宇航员−2时穿太空衣。　②宇航员两餐之间间隔5小时。

（3）春节补贴　+2000　给爷爷和外婆　−2000　给小林　−100　水电费　−120　购买食品　−800　购置新衣服　−1000　旅游费用　−2000　1180

（4）32；−3　+5　34；+2　−8　28；+3　−7　24；−9　15；−15　0

综合应用》记录天气

1. 略
2. （1）多云　4　−2　6；晴　6　0　6；多云　8　2　6；阴　1　−6　7；阴　2　−4　6；晴　3　−3　6；

关注微信公众号“教辅资料站”获取更多学习资料

晴　2　－8　10　（2）星期三的最高气温最高，星期日的最低气温最低。

（3）－8℃ < －6℃ < －4℃ < －3℃ < －2℃ < 0℃ < 2℃

3. （1）12　18　（2）14　24　1　9　（3）+5　－7　（4）气温记为 0 ℃的还有 2 时和 23 时，气温记为 +3 ℃的有9 时和 21 时。

4. 6　11　14　10

第二单元　位置

第 1 课时　用数对表示具体情境中物体的位置

1. （1）3　5　明明　（2）略　（3）列　排　（3，1）　（4）（2，6）　（5，2）　（5）略

2. （1）3　2　（2）（3，5）

3. （11，20）　10　7　**点拨：**“6 排 9 号”记作（9，6），则数对中第一、二个数的意义分别是号数和排数。

4. 略

5. 两朵花分别在（3，2）与（3，4）的位置上，画图略。

第 2 课时　在方格图中用数对确定物体的位置

1. （1）（1，10）　（2，6）　（4，9）　（5，8）　（5，3）　（8，1）　（2）略

2. （1）B　C　（2）B

3. （5，4）　**点拨：**根据点 X 的位置推断出（0，0）点的位置。

4. （1）A（2，3），B（1，1），C（4，1）。　画图略

（2）向上平移 4 格后所得图形顶点的位置是 A'（2，7），B'（1，5），C'（4，5）。

向右平移 4 格后所得图形顶点的位置是 A''（6，3），B''（5，1），C''（8，1）。

向上平移列不变，向右平移行不变。

5. （1）A（0，8），B（3，8），C（3，6），D（0，6）。

（2）图略　A_1（0，4），B_1（3，4），C_1（3，2），D_1（0，2）。

阶段小达标(2)

1. （1）①（5，1）　（3，2）　（2，4）

②夜　落　不　啼

点拨：已知文字位置，要求用数对表示出来或者已知文字对应的数对，要求找出该文字，都是先确定文字所在的列，再确定文字所在的行。

（2）（5，2）　6　2　（3）（10，18）　4　9

（4）（3，5）　（5，5）　（6，2）　（2，2）

（5）（3，3）　（5，3）　（6）（6，5）　（5，1）

2. （1）B　（2）A　（3）B　（4）C　（5）C

3. football（足球）

4. （1）（1，1）　（8，6）　（2，9）　（8，8）　（9，4）　（2，4）

（2）

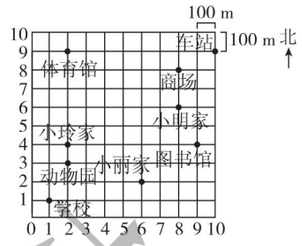

（3）南　200　东　100（或东　100　南　200）

（4）小玲从家出发，依次去了图书馆、商场、体育馆，最后回到家。

5. B（6，8）　C（2，8）

A'（3，2）　B'（6，4）　C'（2，4）

6. （1）C（6，1）　D（5，3）　E（2，3）　F（1，1）

（2）

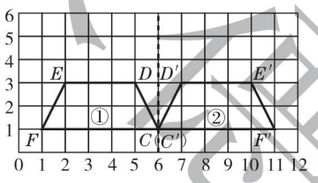

C'（6，1）　D'（7，3）　E'（10，3）　F'（11，1）

7. 象可以走（2，0），（6，0），（2，4），（6，4）位置。

第三单元　正比例　反比例

第 1 课时　正比例的意义

1. （1）①份数　总价　份数　总价

②30　每份《小学生天地》的价钱　③正比例

（2）速度　路程　时间　正

2. （1）总字数　打字的时间　每分钟打字个数　总字数　打字的时间

（2）成正比例。因为购买的费用 ÷ 数量 = 单价（一定），所以购买的费用和数量成正比例。

3. （1）×　**点拨：**圆的半径的平方和面积成正比例。

（2）√

4. （1）生产天数与生产总件数。

（2）成正比例，因为每天生产的件数一定。

5. 5　3　12.5　15

6. b 一定时，a 与 c 成正比例关系。

c 一定时，a 与 b 成正比例关系。

第 2 课时　正比例的图象

1. （1）120　180　240　300

（2）①修路的长度与时间的交点　②经过原点的射线　③480

（3）成正比例，因为修路的长度 ÷ 修路的天数 = 每天修路米数（一定），所以工程队修路的长度和修路的天数成正比例。

2. （1）略　（2）300　450　（3）成正比例，因为图象是经过原点的射线。

3. （1）均成正比例关系。

（2）5 ×（90 + 60）= 750（千米）

第 3 课时　反比例的意义

1. （1）①每天装配的台数　需要的天数　越少

②3600　需要装配的总台数　③反比例　（2）反

2. （1）底面积 × 高 = 长方体的体积　底面积　高

（2）成反比例。因为订阅的份数 × 报纸的单价 = 总价（一定），所以订阅的份数和报纸的单价成反比例。

3. 不成反比例关系，因为每块方砖的边长与需要的块数的积不确定。

点拨：当所铺正方形地面的面积一定时，每块方砖的面积与需要的块数成反比例关系，而不是边长。

4. （1）正　（2）反　（3）反

5. （1）60　10；30　20；20　30；10　60

（2）成反比例，因为两种量的乘积一定。

6. x 一定时，y 和 z 成反比例；z 一定时，x 和 y 成正比例；y 一定时，x 和 z 成正比例。

第 4 课时　整理与复习

1. 钢笔的总价随着数量的增加而增加，它们的比值都是定值，所以钢笔的总价和数量成正比例。

2. 每天生产玩具的个数 × 生产的天数 = 生产玩具总数，当生产的天数一定时，生产玩具总数与每天生产玩具的个数成正比例；当每天生产玩具的个数一定时，生产玩具总数与生产的天数成正比例；当生产玩具总数一定时，每天生产玩具的个数与生产的天数成反比例。

3. （1）成正比例关系，因为工作总量 ÷ 工作时间 = 工作效率（一定）。

（2）成反比例关系，因为分母 × 分数值 = 分子（一定）。

（3）成反比例关系，因为打字的速度 × 打字所用的时间 = 稿件的总字数（一定）。

（4）成正比例关系，因为雪糕的销售额 ÷ 销售量 = 每根雪糕的价格（一定）。

4. （1）小汽车行驶的路程和耗油量是两种相关联的量。每升汽油行驶路程是一定的。

（2）成正比例，因为小汽车行驶的路程和耗油量的比值一定。

（3）30 ÷ 4 × 12 = 90（千米）　（4）略

5. 125 个　275 个

阶段小达标(3)

1. （1）工作总量　工作时间　正　工作总量　工作效率　正　工作效率　工作时间　反　（2）正　反　（3）正

（4）反　（5）反　不成　（6）正　5　12　16

2. （1）×　（2）×　（3）×　（4）×　（5）√

3. （1）C　（2）C　（3）B　（4）C　（5）B

4. （1）①树高和影长。　②成正比例，因为树高与影长的比值一定。

（2）①成反比例。　②20 × 120 ÷ 160 = 15（个）

5. （1）工作效率　生产数量　工作时间　正　（2）略　（3）4.5

6. （1）15.95　16.5　17.6

（2）表中变化的量有用电量和电费两种相关联的量，它们的变化规律是：电费随着用电量的增加而增加。

（3）$\frac{8.25}{15}=0.55$，$\frac{11}{20}=0.55$，$\frac{13.2}{24}=0.55$，比值表示每千瓦时电的价格。

（4）表中的两种相关联的量成正比例关系。

因为$\frac{\text{电费}}{\text{用电量}}$ = 每千瓦时电的价格（一定），所以电费和用电量成正比例关系。

7. （1）表中的两种量是相关联的量。

（2）2.5 × 48 = 120，4 × 30 = 120，5 × 24 = 120，2 × 60 = 120，积都是 120，一定。

（3）这个积表示的意义是这批物资的总质量。

（4）表中的两种量成反比例关系。

因为每辆车的载质量 × 所用辆数 = 这批物资的总质量（一定），所以每辆车的载质量和所用辆数成反比例关系。

第四单元　圆柱和圆锥

第 1 课时　圆柱的表面积》认识圆柱和计算侧面积

1. （1）3　底面　侧面　高　（2）圆柱　6　3　113.04

2. 底面圆的周长（或高）　高（或底面圆的周长）

3. ②是圆柱的展开图，因为②中两个圆的周长都等于长方形的长。

4. （1）23 × 6 = 138（dm^2）

（2）3.2 × 2 × 3.14 × 5 = 100.48（m^2）

（3）8 × 3.14 × 4 = 100.48（cm^2）

5. 不对，因为若不是沿圆柱的高剪开，展开后的图形可能是平行四边形或不规则图形。

点拨：圆柱的侧面展开图是长方形或正方形的前提是侧面沿高剪开。

6. 长方形铁皮的宽：2 × 2 × 2 = 8（dm）

长方形铁皮的长：3.14 × 2 × 2 + 2 × 2 = 16.56（dm）

长方形铁皮的面积：16.56 × 8 = 132.48（dm^2）

点拨：长方形铁皮的宽是油桶的底面直径的 2 倍，因为半径为2 dm，所以宽为 2 × 2 × 2 = 8（dm）；长方形铁皮的长是油桶的底面周长加上底面直径，所以长为 3.14 × 2 × 2 + 2 × 2 = 16.56（dm）。

7. 4 × 6 × 2.512 × 45 = 2712.96（元）

8. 底面直径：9.42 ÷ 3.14 = 3（cm）

切割面的总面积：2 × 3 × 6 = 36（cm^2）

第 2 课时　圆柱的表面积》圆柱表面积的计算方法

1. （1）长方形　圆

关注微信公众号“教辅资料站”获取更多学习资料

（2）侧面积　两个底面积

2. （1）$2\times3.14\times4\times5=125.6$（$cm^2$）

（2）$3.14\times4^2=50.24$（cm^2）

（3）$125.6+50.24\times2=226.08$（$cm^2$）

（4）$2\times3.14\times4\times5+3.14\times4^2\times2=226.08$（$cm^2$）

3. （1）$\left(\frac{12}{2}\right)^2\times3.14\times2+12\times3.14\times16=828.96$（$cm^2$）

（2）$9^2\times3.14\times2+9\times2\times3.14\times15=1356.48$（$cm^2$）

4. （1）$3.14\times10\times15+3.14\times(10\div2)^2\times2=628$（$cm^2$）

（2）$50.24\times4+3.14\times(50.24\div3.14\div2)^2\times2=602.88$（$dm^2$）

（3）$4dm=0.4m$　$2\times3.14\times0.4\times1.5+3.14\times0.4^2\times2=4.7728$（$m^2$）

5. $2\times3.14\times20\times50+3.14\times20^2=7536$（$cm^2$）　$=75.36$（dm^2）

点拨：学生易做成两个底面，而实际鱼缸只有一个底面。

6. $\left[18.84\times2.5+\left(\frac{18.84}{2\times3.14}\right)^2\times3.14\right]\times20=1507.2$（kg）

7. $2\times3.14\times5\times(5\times4)+3.14\times5^2\times2=785$（平方厘米）

8. $628\div10\div3.14\div2=10$（cm）

$3.14\times10^2\times2+3.14\times10\times2\times(10+15)=2198$（$cm^2$）

点拨：圆柱被截去 10 cm 后，减少的表面积就是截去的圆柱的侧面积。

9. $3.14\times(8\div2)^2\times[(3-1)\times2]=200.96$（$cm^2$）

点拨：圆柱截成 3 根小圆柱要截 3 − 1 = 2（次），增加 2 × 2 = 4（个）底面。

10. $12\times20+\left(\frac{12}{2}\right)^2\times3.14+12\times3.14\times20\div2=729.84$（$cm^2$）

11. 底面积：$6.28\div2=3.14$（cm^2）

底面半径为 1 cm

高：$80\div2\div(1\times2)=20$（cm）

表面积：$3.14\times2+20\times1\times2\times3.14=131.88$（$cm^2$）

第 3 课时　圆柱的体积》探索圆柱的体积公式

1. （1）底面积　高　底面积 × 高　底面积 × 高　$V=Sh$

（2）πr^2h

2. （1）$V=Sh$

$=40\times5$

$=200$（cm^3）

（2）$V=\pi\left(\frac{d}{2}\right)^2h$

$=3.14\times\left(\frac{10}{2}\right)^2\times15$

$=1177.5$（cm^3）

（3）$V=\pi r^2h$

$=3.14\times3^2\times12$

$=339.12$（cm^3）

（4）$3.14\times(37.68\div3.14\div2)^2\times15=1695.6$（$dm^3$）

3. （1）$60\times\left(\frac{10}{2}\right)^2\times3.14\times7.8=36738$（g）$=36.738$ kg

（2）$\left(\frac{6.28}{2\times3.14}\right)^2\times3.14\times3=9.42$（$m^3$）

（3）8 分米 = 80 厘米　$78.5\times80\times7.8=48984$（克）$=48.984$ 千克

4. （1）×　**点拨**：体积和表面积的单位不同，无法比较。

（2）×　**点拨**：圆柱的高不变，底面半径扩大到原来的 2 倍，体积就扩大到原来的 4 倍。

（3）×　**点拨**：如果两个圆柱的体积相等，那么只有底面积相等时，它们的高才相等。

（4）√

5. $1^2\times3.14\times3=9.42$（$cm^3$）

6. $3.14\times4^2\times6\div(8\times3)=12.56$（cm）

7. $\left(\frac{50.24}{4\times2\times3.14}\right)^2\times3.14\times10=125.6$（$cm^3$）

8. $3.14\times\left(\frac{2}{2}\right)^2\times(3+7)\div2=15.7$（$cm^3$）

9. $10\times10\times10-3.14\times(10\div2)^2\times10=215$（$cm^3$）

10. 底面积：$3.14\times1^2=3.14$（dm^2）

侧面积：$3.14\times6=18.84$（dm^2）

高：$18.84\div(3.14\times1\times2)=3$（dm）

体积：$3.14\times3=9.42$（dm^3）

第 4 课时　圆柱的体积》圆柱体积公式的实际应用

1. （1）底面直径　高　底面周长　高

（2）$3.14\times(6\div2)^2\times20=565.2$（立方厘米）

2. （1）$3.14\times(1.884\div3.14\div2)^2\times4=1.1304$（立方米）

（2）$1.884\times4\times4=30.144$（平方米）

3. 不对　2.5m = 25dm　$3.14\times(12.56\div2\div3.14\div2)^2\times25=78.5$（$dm^3$）

点拨：学生误认为减少的表面积是 2 个底面积，而实际是侧面积。

4. $3.14\times(2.5\div2)^2\times9.25\div50\approx0.9$（$cm^3$）

5. $64=8\times8$　$3.14\times(8\div2)^2\times8=401.92$（立方厘米）

阶段小达标(4)

1. （1）780　5.04　（2）1.12　（3）2.25

（4）62.8　87.92　62.8　（5）60　（6）8

（7）12.56　1884　（8）2　125.6　（9）1177.5

2. （1）×　（2）×　（3）×　（4）√　（5）×

3. （1）C　（2）C　（3）B　（4）C　（5）C

4. 表面积：$3.14\times10\times8+3.14\times(10\div2)^2\times2+3.14\times5\times4=471$（$cm^2$）

体积：$3.14\times(10\div2)^2\times8+3.14\times(5\div2)^2\times4=706.5$（$cm^3$）

5. （1）$75.36\div6\div3.14\div2=2$（cm）

（2）$4^2\times3.14+4\times2\times3.14\times12\approx352$（$dm^2$）

（3）$3.14\times1.2\times5=18.84$（m）

$3.14\times1.2\times2\times5=37.68$（$m^2$）

（4）$3.14\times(3\div2)^2\times0.5\times2=7.065$（$m^3$）

（5）5 m = 50 dm　$3.14\times(4\div2)^2\times50\div20\approx31$（张）

（6）1 cm = 10 mm

$3.14\times(6\div2)^2\times10=282.6$（$mm^3$）

$3.14\times(5\div2)^2\times10\times36\div282.6=25$（次）

第 5 课时　容积》容积的意义与计算方法

1. （1）$3.14\times(42\div2)^2\times51=70621.74$（$cm^3$）

（2）$3.14\times[(42-1\times2)\div2]^2\times(51-1)=62800$（$cm^3$）$=62.8$ L

2. 容积：$3.14\times2^2\times6.5=81.64$（立方分米）

水深：62.8 升 = 62.8 立方分米

$62.8\div(3.14\times2^2)=5$（分米）

3. $6.28\div3.14\div2=1$（m）

$3.14\times1^2\times3\times0.85=8.007$（t）

4. （1）×　（2）×

5. （1）$3.14\times20^2\times40=50240$（$cm^3$）$=50.24$ L

（2）$50240\div[3.14\times(10\div2)^2\times15]\approx43$（个）

6. （1）$10-2\times2=6$（厘米）

$(10\div2)^2\times3.14-(6\div2)^2\times3.14=50.24$（平方厘米）

$50.24\times50\times7.8=19593.6$（克）$\approx19.6$ 千克

（2）1 米 = 100 厘米

$3.14\times(6\div2)^2\times100\times60$

$=169560$（立方厘米）

$=169.56$ 升

第 6 课时　容积》测量不规则物体的体积

1. （1）$3.14\times(94.2\div3.14\div2)^2\times50=35325$（$cm^3$）$=35.325$ L

（2）$35.325\div1.2\approx29$（杯）

2. $3.14\times(40\div2)^2\times(22-20)\div4=628$（$cm^3$）

3. $\left(\frac{25}{2}\right)^2\times3.14\times2=981.25$（立方厘米）

4. 不对。　改正：$3.14\times8^2\times6=1205.76$（$cm^3$）

点拨：误认为“上升了”就是“上升到”。

5. $\left(\frac{8}{2}\right)^2\times3.14\times(10+2.5)=628$（$cm^3$）$=628$mL

6. $3.14\times(12\div2)^2\times(6.2-5.7)=56.52$（$dm^3$）

$4\times4\times4=64$（dm^3）　$64>56.52$　水会溢出。

第 7 课时　圆锥》认识圆锥

1. （1）×　（2）√　（3）√

2. A——②　B——①　C——④　D——③

3. （1）圆　曲　顶点　底面圆心　（2）扇形

（3）等腰三角

4. 略。　5. C

6. 不对，因为从圆锥顶点到底面圆心的距离是圆锥的高，圆锥只有 1 条高。

7. 上面是一个底面直径为 6，高为 3 的圆锥，下面是一个底面直径为 6，高为 3 的圆柱。

8. $100.48\div3.14\div2=16$（cm）

$16^2\times3.14=803.84$（cm^2）

第 8 课时　圆锥》探索圆锥的体积公式

1. （1）3　$\frac{1}{3}$　$V=\frac{1}{3}Sh$　（2）4.2　37.8

2. （1）$\frac{1}{3}\times12\times1.5=6$（$m^3$）

（2）$\frac{1}{3}\times3.14\times4^2\times9=150.72$（$cm^3$）

（3）$\frac{1}{3}\times3.14\times(6\div2)^2\times8=75.36$（$dm^3$）

（4）$\frac{1}{3}\times3.14\times(28.26\div3.14\div2)^2\times5=105.975$（$dm^3$）

3. （1）×　**点拨**：例如圆锥的底面积是圆柱的$\frac{1}{3}$，圆锥的高是圆柱的 3 倍时，该圆锥的体积也是圆柱的$\frac{1}{3}$，故错误。

（2）√　**点拨**：等底等高的圆柱体积是圆锥的 3 倍，故题干中圆柱体积是圆锥的 9 倍。

4. $18.84\times3\div[3.14\times(2\div2)^2]=18$（dm）

5. $6\times\frac{1}{3}=2$（cm）

6. $36\div2=18$（cm^2）　$18\times2\div9=4$（cm）

$\frac{1}{3}\times3.14\times(4\div2)^2\times9=37.68$（$cm^3$）

第 9 课时　圆锥》解决与圆锥有关的实际问题

1. （1）100　（2）27　（3）2

2. （1）$\frac{1}{3}\times3.14\times(12.56\div3.14\div2)^2\times1.5=6.28$（$m^3$）

（2）$6.28\times1.7=10.676$（t）

3. （1）$3.14\times(4\div2)^2\times3+\frac{1}{3}\times3.14\times(4\div2)^2\times0.9=41.448$（$m^3$）

（2）$41.448\times650=26941.2$（kg）$=26.9412$ t

4. $12.56\div3.14\div2=2$（m）

$3.14\times2^2\times1.8\times\frac{1}{3}\times780\times80\%=4702.464$（kg）

5. $\left(\frac{6}{2}\right)^2\times3.14\times3\times\frac{1}{3}\times8.9\approx252$（g）

6. 不对。　改正：$15\times12\times6\times3\div90=36$（cm）

点拨：逆用圆锥体积公式计算时易漏掉乘 3。

7. $3.14\times(12\div2)^2\times20-\frac{1}{3}\times3.14\times(12\div2)^2\times9=1921.68$（$cm^3$）

8. 圆锥的底面半径是 3 cm，高是 6 − 3 = 3（cm）。

圆锥的体积：$\frac{1}{3}\times3.14\times3^2\times3=28.26$（$cm^3$）。

圆柱的体积：$3.14\times3^2\times3=84.78$（$cm^3$）。

$28.26+84.78=113.04$（cm^3）

9. $\left(\frac{9.42}{2\times3.14}\right)^2\times3.14\times1.5\times\frac{1}{3}\div(6\times2)$

$=0.294375$（m）

≈29 cm

关注微信公众号“教辅资料站”获取更多学习资料

10. $25.12 \div 3.14 \div 2 = 4$（cm）

$3.14 \times 4^2 \times 6 \times \frac{1}{3} \div [3.14 \times (16 \div 2)^2] = 0.5$（cm）

11. 设圆锥的底面半径是 R，高是 h。

乙容器中水的体积：$\frac{1}{3}\pi\left(\frac{1}{2}R\right)^2 \times \frac{h}{2} = \frac{1}{24}\pi R^2 h$

甲容器中水的体积：$\frac{1}{3}\pi R^2 h - \frac{1}{24}\pi R^2 h = \frac{7}{24}\pi R^2 h$

$\left(\frac{7}{24}\pi R^2 h\right) \div \left(\frac{1}{24}\pi R^2 h\right) = 7$

第 10 课时　整理与复习

1. C
2. （1）$3.14 \times 20 \times 0.8 + 3.14 \times (20 \div 2)^2 = 364.24$（$m^2$）
（2）$3.14 \times (20 \div 2)^2 \times 0.8 = 251.2$（$m^3$）
3. 1.8 m = 180 cm　1.2 m = 120 cm
$120 \div (3.14 \times 12) \approx 3$　$180 \div 60 = 3$　$3 \times 3 = 9$（个）
4. $3.14 \times (3.14 \div 3.14 \div 2)^2 \times 1.5 = 1.1775$（$m^3$）= 1177.5 L
5. $\frac{1}{3} \times 3.14 \times (4 \div 2)^2 \times 6 = 25.12$（$cm^3$）
$25.12 \times 7.8 \approx 196$（克）
6. $3.14 \times (1.6 \div 2)^2 \times 8 \times 3 \div [3.14 \times (4 \div 2)^2] = 3.84$（dm）
7. 3 m = 300 cm
$[3.14 \times (6 \div 2)^2 - 3.14 \times (4 \div 2)^2] \times 300 \times 7.8 =$
36738（g）= 36.738 kg ≈ 37 kg

阶段小达标(5)

1. （1）31.4　20　（2）18.84
（3）62.8　78.5　（4）200.96
（5）13.5　（6）9.42
（7）3　（8）2　（9）127.17
2. （1）√　（2）×　（3）×　（4）√　（5）×
3. （1）C　（2）C　（3）B　（4）A　（5）B
4. 表面积：$10 \times 10 \times 5 + 3.14 \times (10 \div 2)^2 + 3.14 \times 10 \times 10 \div 2 = 735.5$（$cm^2$）
体积：$10 \times 10 \times 10 + 3.14 \times (10 \div 2)^2 \times 10 \div 2 = 1392.5$（$cm^3$）
5. （1）$3.14 \times (25.12 \div 3.14 \div 2)^2 \times 20 = 1004.8$（$cm^3$）
（2）$3.14 \times 20^2 \times (60 - 40) = 25120$（$cm^3$）
（3）①$12.56 \div 3.14 \div 2 = 2$（m）
$3.14 \times 2^2 \times 1.5 \times \frac{1}{3} = 6.28$（$m^3$）
②$6.28 \div [3.14 \times (1 \div 2)^2 \times 4] = 2$（根）
（4）$3.14 \times 9 \times 3 \div (3.14 \times 3^2) = 3$（dm）
（5）$3.14 \times 4^2 \times (28 - 12) \times 3 \div [3.14 \times (50.24 \div 3.14 \div 2)^2] = 12$（cm）

综合应用》木材加工问题

1. （1）$\left(\frac{0.4}{2}\right)^2 \times 3.14 \times 6 \times 50 = 37.68$（立方米）
（2）$37.68 \times 440 = 16579.2$（千克）≈17 吨
（3）$17 \times (1 - 10\%) = 15.3$（吨）
2. （1）$0.4 \times 0.4 \div 2 \times 6 = 0.48$（$m^3$）
（2）$0.48 \times 50 = 24$（m^3）
（3）$0.48 \div [3.14 \times (0.4 \div 2)^2 \times 6] \times 100\% \approx 63.7\%$
3. $\left[20 \times 20 - \left(\frac{20}{2}\right)^2 \times 3.14\right] \times 20 = 1720$（$cm^3$）
4. $42 - 1 \times 2 = 40$（cm）　$21 - 1 = 20$（cm）
$3.14 \times (40 \div 2)^2 \times 20 = 25120$（$cm^3$）
5. 最小：$3.14 \times (0.8 \div 2)^2 \times 1 = 0.5024$（$m^3$）≈0.5 m^3
最大：$3.14 \times (1 \div 2)^2 \times 0.8 = 0.628$（$m^3$）≈0.6 m^3

第五单元　探索乐园

第 1 课时　探索身份证号码编制规则

1. （1）18　行政区划　出生年月日　顺序码　校验码
（2）性别码　男　女　（3）35　女
2. 略。
3. $2000000 \times 1.3\% \div 365 \approx 71$（人）
4. 第 17 位是“2”，应是女性，而不是男性。
点拨：学生没有掌握身份证号码组成的含义而导致不能正确判断。
5. （1）所在年级　所在班级　学号
（2）七　（4）　31
6. 略。

第 2 课时　探索数字密码编码规律

1. （1）100　（2）1000　（3）260000
2. $(10 - 2)^2 - 1 = 63$（次）
3. 10000000
4. $4 \times 4 \times 4 = 64$（个）
5. $26 \times 26 \times 10 \times 10 \times 10 \times 10 = 6760000$（个）
6. $5 \times 10 \times 10 \times 1 = 500$（次）
7. $8 \times 9 \times 8 \times 7 \times 6 \times 5 \times 4 = 483840$（个）

第六单元　回顾与整理

（一）数与代数

第 1 课时　数的认识》数的意义

1. （1）正整数　负整数　0
（2）100，0　−5，−1.6　0
（3）1　8　5　5　8　1
（4）循环　$2.4\dot{3}6\dot{}$
（5）成活的树苗棵数　栽种的树苗棵数
（6）3 或 4
2. （1）1　0.1　$\frac{1}{2}$　（2）百万　750　4800
（3）0.001　75　（4）$\frac{1}{10}$　7　13
3. 六亿零三十五万四千零六　20400081300
十又八分之五　−300.303
4. （1）D　（2）A
5. （1）350.48 万　350 万　（2）9.95 亿　10.0 亿
（3）5.04　4.95
6. （1）0.48　48　（2）$\frac{3}{4}$　75　（3）$\frac{9}{20}$　0.45
7. $1.782 \div (1 - 0.01) = 1.8$
8. −5 mL 表示少了 5 mL；（500 ±5）mL 表示在 495 mL ~505 mL 范围内均为合格。
9. （1）55050500　（2）50000555
10. （1）5 ~ 9　（2）0 ~ 4
11. 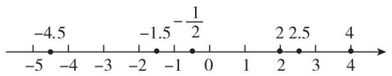

12. （1）0.9999　0.99999　（2）$\frac{1}{16}$　$\frac{1}{32}$
（3）36　81
13. $100 \div 6 = 16\cdots\cdots4$　小数点后第 100 位上的数字是 8。

第 2 课时　数的认识》数的性质

1. （1）>　=　<　>　<
（2）$1.\dot{5}\dot{1}$　156%　$1.\dot{5}$　$1\frac{5}{9}$
（3）$\frac{9}{20} <$ 五成 $< 0.\dot{5} < 1.505 < 255\%$
2. （1）A　（2）A
3. （1）两　3.050　（2）不变　（3）9　37.5　0.375　（4）24
4. （1）$\frac{1}{100}$　0.098　（2）86
5. 1 t = 1000 kg　$0.85 \times 1000 = 850$（kg）
6. （1）12　（2）9
7. $1 - \frac{20142014}{20152015} = \frac{10001}{20152015}$　$1 - \frac{20152015}{20162016} = \frac{10001}{20162016}$
$1 - \frac{20162016}{20172017} = \frac{10001}{20172017}$
因为 $\frac{10001}{20152015} > \frac{10001}{20162016} > \frac{10001}{20172017}$，
所以 $\frac{20142014}{20152015} < \frac{20152015}{20162016} < \frac{20162016}{20172017}$，即 $a < b < c$。
8. $15 \div (8 - 3) = 3$　$\frac{3 \times 3}{8 \times 3} = \frac{9}{24}$

第 3 课时　数的认识》因数和倍数

1. （1）1，2，3，6，9，18　8，16，24，32，40，48
（2）15
（3）1，3，5，7，9，11，13，15，17，19
2，4，6，8，10，12，14，16，18，20
2，3，5，7，11，13，17，19
4，6，8，9，10，12，14，15，16，18，20
（4）2 或 8　4　0 或 3 或 6 或 9　（5）9，15　2
（6）120　（7）7　13　3　17　2　11　17（后面三个空答案不唯一）　（8）$24 = 2 \times 2 \times 2 \times 3$
2. （1）√　（2）×　（3）√
3. （1）1，2，4　4　24，48，72，96　24
（2）30　180
（3）b　a　（4）mn
（5）12 和 180　36 和 60
4. （15，20）= 5　［15，20］= 60　（8，15）= 1
［8，15］= 120　（13，65）= 13　［13，65］= 65
（9，12，24）= 3　［9，12，24］= 72
5. （1）因为 60 和 36 的最大公因数是 12，所以正方形的边长最长是 12 cm。
$(60 \div 12) \times (36 \div 12) = 15$（个）
（2）因为 24 和 16 的最小公倍数是 48，所以铺成的正方形边长最短是 48 cm。
$(48 \div 24) \times (48 \div 16) = 6$（块）
6. $1994 \div 2 = 997$（个）
997 个奇数的和是奇数，997 个偶数的和是偶数，
奇数 + 偶数 = 奇数，所以和是奇数。
7. 男生人数是偶数，女生人数是奇数。
8. $100 \div 5 = 20$
$100 \div 8 = 12\cdots\cdots4$
$100 \div (5 \times 8) = 2\cdots\cdots20$
$20 + 12 - 2 = 30$（个）　$100 - 30 = 70$（个）
9. $3024 = 2 \times 2 \times 2 \times 2 \times 3 \times 3 \times 3 \times 7 = 6 \times 7 \times 8 \times 9$
这四个数分别是 6，7，8，9。
10. $10 \times 14 \times 33 \times 65 = 6 \times 22 \times 25 \times 91$
所以一组数为 10，14，33，65，另一组数为 6，22，25，91。
11. 3、5、7 的最小公倍数是 $3 \times 5 \times 7 = 105$。
$105 - 1 = 104$（个）
12. 16、20、24 的最大公因数是 4，所以每段最长是 4 dm。
$16 \div 4 + 20 \div 4 + 24 \div 4 = 15$（段）

阶段小达标(6)

1. （1）五亿零七百零九万五千八百　50709.58 万　5 亿
（2）$\frac{8}{9}$　1　（3）$\frac{1}{8}$　5　（4）$\frac{5}{12}$　$\frac{4}{3}$
（5）向北飞 50 m　（6）6　10　20　120
（7）$\frac{1}{7}$　1.43%　0.14　$\frac{7}{50}$　（8）0.01　不变
（9）$4.\dot{5}\dot{4}$　54　4.55　（10）$\frac{3}{4}$　$\frac{1}{8}$
（11）$\frac{1}{15}$　$\frac{3}{5}$　（12）2　3
（13）4　0 或 4 或 8　7　（14）1　210　（15）45
2. （1）√　（2）×　（3）×　（4）√　（5）×
3. （1）B　（2）B　（3）A　（4）B　（5）C
4. $\frac{12}{25}$　48%；1.125　112.5%；0.85　$\frac{17}{20}$；$\frac{12}{5}$　240%
5. （45，30）= 15　［45，30］= 90
（18，24）= 6
［18，24］= 72
6. （1）+0.07 m　−0.02 m　+0.03 m　+0.05 m　−0.01 m

关注微信公众号“教辅资料站”获取更多学习资料

（2）$97.02 \div \left(1-\frac{1}{100}\right)=98$

（3）（24，36，48）$=12$　每段最长是 12 cm

$24 \div 12+36 \div 12+48 \div 12=9$（段）

（4）［8，10］$=40$　$40 \times 2+6=86$（个）

第 4 课时　数的运算》四则运算意义与计算方法

1. （1）2.4　4　（2）0.85

（3）$\frac{4}{15}$的$\frac{5}{6}$是多少

（4）已知两个因数的积是$\frac{9}{10}$，其中一个因数是$\frac{3}{5}$，求另一个因数是多少

（5）<　>　>　<

2. $\frac{11}{12}$　1.78　$\frac{3}{8}$　4

3. （1）$\frac{7}{24}$　7.79

（2）$1.536 \div 3.2=0.48$，$1.536 \div 0.48=3.2$

（3）28　45　（4）615

4. （1）a　a　0　0　（2）a　0　1

5. $d>c>b>a$　**点拨：**假设这几个算式的结果都等于 1，这样就可以分别求出 a、b、c、d 各等于多少，进而可以比较出它们的大小。

6. $(9+9) \div 9+9+9=20$（答案不唯一）

7. 被减数个位上的 9 写成 4，则差比正确的差少 $9-4=5$；被减数十位上的 0 写成 6，则差比正确的差多 60，所以正确的差是 $199+5-60=144$。

第 5 课时　数的运算》四则混合运算与简便运算

1. 481　$\frac{7}{8}$　7.94　370　（运算顺序略）

2. 0.0642　1000　2.5　3　5.8　$\frac{2}{7}$　$2016\frac{2016}{2017}$

3. （1）$0.888 \times 0.8+0.111 \times 3.6$

$=0.111 \times 6.4+0.111 \times 3.6$

$=0.111 \times (6.4+3.6)$

$=1.11$

（2）$11.8 \times 43-860 \times 0.09$

$=11.8 \times 43-43 \times 1.8$

$=43 \times (11.8-1.8)$

$=430$

4. $\frac{1}{1 \times 2}+\frac{1}{2 \times 3}+\frac{1}{3 \times 4}+\cdots+\frac{1}{98 \times 99}+\frac{1}{99 \times 100}$

$=1-\frac{1}{2}+\frac{1}{2}-\frac{1}{3}+\frac{1}{3}-\frac{1}{4}+\cdots+\frac{1}{98}-\frac{1}{99}+\frac{1}{99}-\frac{1}{100}$

$=1-\frac{1}{100}$

$=\frac{99}{100}$

5. 原式 $=(100+99-98-97) \times (100 \div 4)$

$=4 \times 25$

$=100$

第 6 课时　数的运算》估算

1. （1）80　20　1600　（2）90　5　两　（3）小　（4）7　5

2. 800　300　30000　18

3. （1）$500 \times 6=3000$（人）

（2）①$8.5 \times 4.8 \approx 45$（元）　45 元 < 50 元　够

②$8.5 \times 4.8=40.8$（元）

4. $4 \div 0.32 \approx 12$（个）

5. $100-(30.6 \times 2+0.8 \times 26.5) \approx 18$（元）

18 元 < 20 元　不够

6. $347 \div 70 \approx 5$　$50 \times 5=250$（m）

第 7 课时　数的运算》解决问题

1. （1）400　（2）1100　（3）50　4

2. （1）$2.6 \times 55 \div (2.6+0.15)=52$（根）

（2）$200 \div (4+1)=40$（条）　$40 \times 8=320$（元）

（3）40.08　50.1　36.74

3. （1）15　16　（2）25　20　（3）$\frac{1}{6}$

4. （1）$75 \times 24 \times (1-80\%)=360$（元）

（2）$3.5 \times 2.4 \times 85\%=7.14$（吨）

（3）$120 \div (1+20\%) \times \left(1-\frac{1}{4}\right)=75$（件）

5. $540 \div 9=60$（千米/时）

甲车：$60 \div (3+1) \times 3=45$（千米/时）

乙车：$60 \div (3+1) \times 1=15$（千米/时）

6. 乙仓：$(20+2.2) \div (1+5)=3.7$（吨）

甲仓：$20-3.7=16.3$（吨）

7. 解：设甲先做了 x 天。

$\frac{1}{12}x+\frac{1}{9}(10-x)=1$

$x=4$

8. $(32-2) \div \left(1-\frac{3}{5}\right)=75$（岁）

9. $36-24 \div 2=24$（只）

兔：$24 \div (2+1)=8$（只）

鸡：$36-8=28$（只）

10. $(50 \times 4+40 \times 2) \div (50-40)=28$（分钟）

$40 \times (28+2)=1200$（米）

阶段小达标(7)

1. （1）>　<　<　（2）2　（3）7　30

（4）$\frac{15}{4}$　$\frac{4}{15}$　（5）25　（6）18　（7）90

2. （1）×　（2）×　（3）×　（4）√　（5）×

3. （1）B　（2）C　（3）C　（4）A　（5）C

4. （1）1　13.1　$\frac{1}{18}$　18　5　179　1000　$\frac{3}{10}$　27000　900

（2）54.78　21　（3）$\frac{11}{32}$　260　3.2　$\frac{3}{16}$

5. （1）$5+(1080-72 \times 5) \div (72+8)=14$（天）

（2）$360-360 \times \frac{1}{6}-\left[360 \times \left(1-\frac{1}{6}\right) \times \frac{1}{4}\right]=225$（本）

（3）$(28-14) \div \left(1-\frac{2}{5}-\frac{4}{9}\right)=90$（页）

（4）$16 \div (1 \div 25\%-1 \div 45\%)=9$（千克）

（5）$50 \div \left(1-\frac{1}{1+2}-\frac{1}{1+3}\right)=120$（kg）

甲：$120 \times \frac{1}{1+2}=40$（kg）　乙：$120 \times \frac{1}{1+3}=30$（kg）

点拨：甲的体重占三人体重之和的$\frac{1}{1+2}=\frac{1}{3}$，乙的体重占三人体重之和的$\frac{1}{1+3}=\frac{1}{4}$，这样就可以求出丙占三人体重之和的 $1-\frac{1}{3}-\frac{1}{4}=\frac{5}{12}$。

第 8 课时　式与方程》用字母表示数

1. （1）$85-x$　（2）$x+y$　$x-y$　（3）$1.5m+n$

（4）$\frac{1}{2}ah$　（5）$a(b+c)=ab+ac$

2. （1）×　（2）√　（3）√

3. （1）C　（2）C

4. （1）买 5 副羽毛球拍需多少元

（2）买 y 个乒乓球拍需多少元

（3）买 5 副羽毛球拍和 y 个乒乓球拍共需多少元

（4）买 5 副羽毛球拍比买 y 个乒乓球拍多多少元

5. $120-x$ 表示五年级订阅《中国少年报》的份数；$120a$ 表示四年级订阅的《中国少年报》的总钱数；$(120-x)a$ 表示五年级订阅的《中国少年报》的总钱数。

6. （1）$a-8b$　（2）$a-8b=94-8 \times 7=38$（页）

7. （1）$3n+1$　（2）64

第 9 课时　式与方程》解方程

1. （1）×　（2）√　（3）×　（4）√　（5）×

2. （1）C　（2）A

3. $x=19.5$　$x=9$　$x=0.3$　$x=\frac{1}{3}$　$x=\frac{6}{5}$　$x=1.7$

4. （1）$2(x+5)=36$　解：$x=13$

（2）$2x+30 \times 2=136$　解：$x=38$

（3）$x+3x=80$　解：$x=20$

5. （1）解：设这个数是 x。

$3x+10=34$

$x=8$

（2）解：设这个数是 x。

$2.5x-1.3x=6$

$x=5$

第 10 课时　式与方程》列方程解决问题

1. （1）解：设黄河长约 x 千米。

$x+835=6299$

$x=5464$

（2）解：设乙队每天开凿 x m。

$25(12.6+x)=675$

$x=14.4$

（3）解：设大象最快能达到每小时 x km。

$4x+14=110$

$x=24$

（4）解：设上衣的价钱是 x 元。

$x+\frac{2}{3}x=300$

$x=180$　裤子：$300-180=120$（元）

2. 解：设甲、乙两城相距 x km。

$\left[1-40\%-(1-40\%) \times \frac{1}{2}\right]x=18$

$x=60$

3. 解：设小朋友有 x 人。

$5x+46=8x-2$

$x=16$

$5 \times 16+46=126$（块）

4. 解：设加入浓度为 10% 的糖水 x g。

$120 \times 30\%+10\%x=(120+x) \times 20\%$

$x=120$

5. 解：设乙队被调出了 x 天。

$\frac{1}{20} \times 18+\frac{1}{30}(18-x)=1$

$x=15$

第 11 课时　正比例　反比例》比和比例的意义和性质

1. （1）5∶4　（2）2∶3＝4∶6（或 4∶6＝2∶3）

（3）1∶20　0.05　（4）5　4　（5）5∶7

2. $x=162$　$x=0.3$

3. （1）$54 \div 2=27$（m）　$27 \div (7+2) \times 7=21$（m）

$27 \div (7+2) \times 2=6$（m）　$21 \times 6=126$（m^2）

（2）$12 \div \frac{1}{5000000}=60000000$（cm）$=600$ km

$600 \div 80=7.5$（小时）

4. $2.4 \div 3 \times (3+5) \div \left(1-\frac{3}{7}\right)=11.2$（kg）

5. $8 \div \left(\frac{4}{4+5}-\frac{3}{3+4}\right)=504$（人）

6. $(6 \times 6)∶(8 \times 3)=3∶2$

甲队：$750 \times \frac{3}{3+2}=450$（吨）

乙队：$750-450=300$（吨）

第 12 课时　正比例　反比例》正比例和反比例的意义

1. （1）比值　飞机的航程　飞行时间　正

（2）积　每本钱数　买的本数　反

2. （1）成反比例　（2）成反比例　（3）不成比例

3. （1）卡车载重 × 卡车数量 = 100

货物总质量 ÷ 卡车数量 = 8

（2）第 2 个表中货物总质量与卡车数量成正比例关

关注微信公众号“教辅资料站”获取更多学习资料

系，第1个表中卡车载重与卡车数量成反比例关系。

（3）略　（4）4辆卡车运货物32吨，运16吨货物需要2辆这样的卡车。

4. 解：设实际每小时多行 x km。

$64\times9=(64+x)\times(9-1)$

$x=8$

5. 解：设原计划用 x 小时完成任务。

$(180+20)\times4.5=180x$

$x=5$

第13课时　探索规律

1.（1）图略　$1+4\times4$　37　201　（2）21　51　$5n+1$

2.（1）$1.5\times(3+4+5)=18$（米）

$360\div18=20$（组）

蓝灯笼：$20\times3=60$（个）

黄灯笼：$20\times4=80$（个）

红灯笼：$20\times5=100$（个）

（2）$50\div(3+4+5)=4$（组）……2（个）

第50个灯笼是蓝色的。

$100\div(3+4+5)=8$（组）……4（个）

第100个灯笼是黄色的。

（3）最后一个灯笼是红色的。

3.（1）45　36　（2）39　102　（3）$\frac{81}{32}$　$\frac{243}{64}$

4. $0.\dot{5}7142\dot{8}$　$0.\dot{7}14285\dot{7}$　$0.\dot{8}57142\dot{8}$

5.（1）第5行有 $2\times5-1=9$（个）数；

第9行有 $2\times9-1=17$（个）数。

（2）$1+3+5+7+9=25$（个）

6. $(31+30+31+31+30+1)\div7=22$

2019年的10月1日是星期二。

$(31\times5+30\times3+1)\div7=35$……1

2020年的1月1日是星期三。

阶段小达标(8)

1.（1）$n+2$　$n+4$　（2）$(a+2)\div2$

（3）0.38　0.02　（4）$x-\frac{1}{5}x=40$　（5）4∶5

（6）$\frac{25}{4}$　16　100　（7）5∶12　（8）15　1　14

（9）2　（10）黄

2.（1）×　（2）×　（3）×　（4）√　（5）×

3.（1）B　（2）B　（3）C　（4）B　（5）C

4.（1）4∶9　$\frac{4}{9}$　1∶16　$\frac{1}{16}$

（2）$x=26$　$x=40$　$x=2$　$x=13$

5.（1）解：设水星绕太阳一周是 x 天。

$4x+13=365$

$x=88$

（2）解：设乙车每小时行 x 千米。

$4\left(x+\frac{6}{7}x\right)=364$

$x=49$

$49\times\frac{6}{7}=42$（千米）

（3）$120\div4=30$（cm）

长：$30\times\frac{3}{3+2+1}=15$（cm）

宽：$30\times\frac{2}{3+2+1}=10$（cm）

高：$30\times\frac{1}{3+2+1}=5$（cm）

（4）$6\div\frac{1}{6000000}=36000000$（厘米）$=360$ 千米

$360\div3=120$（千米/小时）

$120\times\frac{3}{3+2}=72$（千米/小时）

$120\times\frac{2}{3+2}=48$（千米/小时）

（5）解：设剩余的还需要 x 天看完。

$96:4=(120-96):x$

$x=1$

（6）解：设需要 x 块。

$30\times20\times900=20\times20\times x$

$x=1350$

（二）图形与几何

第1课时　图形的认识》平面图形的认识

1.（1）1　8　6　（2）直　钝　（3）互相平行

2.（1）19　5　（2）75

（3）平行　相等　长方形　正方形　（4）梯形

3.（1）无数　$\frac{1}{2}$　无数　（2）4　4

4. 略　5. 略　6. 略　7. 略

8. $\angle2+\angle4=180°-125°=55°$

$\angle1+\angle2+\angle3+\angle4=55°\times2=110°$

$\angle6=180°-110°=70°$

第2课时　图形的认识》立体图形的认识

1.（1）四　相等　（2）$\frac{1}{4}$　（3）88　（4）6

2.（1）12.56　（2）扇形　一　（3）圆柱　28.26 cm^2

3. 略　4. 5

5. $90\times2+55\times2+22\times4=378$（m）

6. $2\times3.14\times5=31.4$（cm）

长是31.4 cm，宽是20 cm。

7. A　C

第3课时　测量》长度、面积和体积单位

1.（1）cm　dm　m　（2）cm^2　dm^2　m^2

（3）cm^3　dm^3　m^3　（4）cm　m^2　cm^3　mL

2. 3.35　7.5　0.086　4800　3.6

3.（1）1500 dm　（2）6.039m^2　（3）50800cm^3

4. $100\times100\times100=1000000$（个）　1000000 cm = 10000 m

5. $300\times250=75000$（m^2）$=7.5$ 公顷

$6800\times7.5=51000$（千克）$=51$ 吨

6. 24 cm = 0.24 m

$15\times0.24\times3=10.8$（m^3）

$10.8\times525=5670$（块）

7. 0.8 m = 8 dm　40 cm = 4 dm

$8\times5\times4=160$（dm^3）$=160$ L

阶段小达标(9)

1.（1）5　12　1.2　7　20　6　400　（2）50

（3）直角　（4）10　（5）6　（6）6　（7）12　8

（8）一　无数　（9）①　②　①　③

2.（1）×　（2）×　（3）×　（4）×　（5）√

3.（1）C　（2）B　（3）C　（4）B　（5）C

4.（1）$\angle2=45°$　$\angle4=45°$　$\angle5=135°$

（2）$\angle2=180°-50°\times2=80°$

点拨：长方形纸折起来的部分折叠前后是对称的，通过画辅助线将长方形纸还原（如图）。由图可知 $\angle3=\angle1=50°$，$\angle1+\angle2+\angle3=180°$。

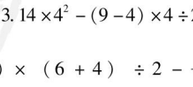

5. 略

6.（1）$40\div(3+3+2)=5$（cm）

腰：$5\times3=15$（cm）　底：$5\times2=10$（cm）

（2）$180°\div(2+2+5)=20°$　$20°\times2=40°$

$20°\times5=100°$

三个内角分别是40°，40°，100°。

（3）最短：$15-8+1=8$（cm）

最长：$15+8-1=22$（cm）

（4）$(80-8)\div4=18$（cm）　$4+3+2=9$

长：$18\times\frac{4}{9}=8$（cm）　宽：$18\times\frac{3}{9}=6$（cm）

高：$18\times\frac{2}{9}=4$（cm）

（5）$112\div4=28$（cm）

$28\div(1+1+2)=7$（cm）

$7\times2=14$（cm）

第4课时　测量》平面图形的周长和面积

1.（1）81　（2）60　（3）15　（4）31.4　50.24

2.（1）周长：$10+7+(10-4)+5+4+12=44$（cm）

面积：$10\times12-5\times(10-4)=90$（$cm^2$）

（2）周长：$3.14\times12\div2+12=30.84$（cm）

面积：$3.14\times(12\div2)^2\div2=56.52$（$cm^2$）

3. 花坛的半径：$50.24\div(2\times3.14)=8$（m）

草坪的面积：$3.14\times(8+1.5)^2-3.14\times8^2=82.425$（$m^2$）

4.（1）$4\times9-\frac{1}{4}\times3.14\times4^2-(9-4)\times4\div2=13.44$（$cm^2$）

（2）$(13+6+4)\times(6+4)\div2-\frac{1}{4}\times[3.14\times(6+4)^2-3.14\times6^2]=64.76$（$cm^2$）

5. $\frac{1}{4}\times3.14\times10^2-10\times10\div2=28.5$（$cm^2$）

6. 一条直道长：80 m = 8000 cm　$8000\div2000=4$（cm）

一条弯道长：40 m = 4000 cm　$4000\times3.14\div2\div2000=3.14$（cm）

一周的长度：$4\times2+3.14\times2=14.28$（cm）

面积：$4000\div2000=2$（cm）

$3.14\times\left(\frac{2}{2}\right)^2+4\times2=11.14$（$cm^2$）

第5课时　测量》立体图形的表面积和体积

1.（1）208　216　（2）251.2　75.36　（3）37.8

2.（1）$[18\times8+(18\times3.5+3.5\times8)\times2-24]\times400=120800$（g）$=120.8$ kg

（2）6 cm = 0.06 m

$3.14\times(12.56\div3.14\div2)^2\times1.5\times\frac{1}{3}\div(5\times0.06)\approx21$（m）

3. $3.14\times(4\div2)^2\times5+\frac{1}{3}\times3.14\times(4\div2)^2\times3=75.36$（$cm^3$）

4. $\left(\frac{25.12}{2\times3.14}\right)^2\times3.14\times0.5=25.12$（$cm^3$）

$25.12\times3\div\left[3.14\times\left(\frac{4}{2}\right)^2\right]=6$（cm）

5. $(40\div2+90\div3+96\div4)\times2=148$（$cm^2$）

第6课时　图形的运动

1.（1）无数　6　（2）平移　旋转　（3）3　2

2. 略　3. 略　4. 略

5. 图A先向右平移1格，再向下平移1格；图B向左平移1格；图C不动；图D以左上顶点为中心逆时针旋转90°，图②即可还原为图①。

6. 略

第7课时　图形与位置

1. 略

2. 画图略　（1）梯形　（2）略

（3）（3，5）　（3，2）　（5，2）　（10，5）

3. 略

4. $(7-1)\times(7-2)\div2=15$

阶段小达标(10)

1.（1）51.4　157　（2）8　（3）25　（4）50

（5）301.44　401.92　（6）13.5　（7）18　16　4

（8）163.28　78.5

2.（1）×　（2）×　（3）√　（4）×　（5）√

3.（1）C　（2）A　C　（3）A　（4）B　（5）C

4. $16\times(16\div2)\div2=64$（$cm^2$）

5.（1）（4，5）　（2，7）

（2）略　（3）略

6. 略

7.（1）$(160+180)\times50\div2\div10=850$（棵）

（2）$4\times4\times4-8\times6\times(4-2.8)=6.4$（$dm^3$）$=6.4$ L

（3）5 m = 50 dm　$3.14\times(4\div2)^2\times50\div20\approx31$（张）

关注微信公众号“教辅资料站”获取更多学习资料

（4）$\frac{1}{3}\times 50.24\times 1.2=20.096$（$m^3$）

4 cm = 0.04 m　20.096 ÷（10 × 0.04）= 50.24（m）

（三）统计与概率

第 1 课时　简单的数据统计过程

1. （1）条形　扇形　折线
   （2）折线
   （3）条形
   （4）扇形
2. （1）六（1）　六（2）　六（3）　六（4）
   （2）四十五点五　二十
3. （1）三十五　（2）四十　（3）300　75
4. （4 × 92.5 + 5 × 93.4）÷（5 + 4）= 93（分）
5. （1）40　35　$\frac{1}{7}$
   （2）乙飞机在同一高度飞行。
6. （95 × 2 + 94 × 2 + 99 × 2）÷ 2 = 288（分）
   语文：288 − 99 × 2 = 90（分）
   数学：95 × 2 − 90 = 100（分）
   英语：99 × 2 − 100 = 98（分）

第 2 课时　可能性

1. 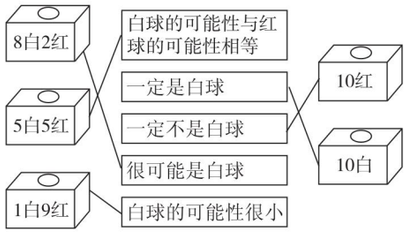

2. （1）3　蓝球　绿球
   （2）红　2　白
3. （1）6　15
   （2）2　红球、黄球　3　2 红、2 黄、1 红 1 黄
4. 略
5. 略
6. （1）手抄报　④
   （2）抽到手抄报，抄童话和练习书法的可能性同样大。

（四）综合与实践

第 1 课时　节约水资源

1. （1）略
   （2）**解**：设会流失 x mL。
   1 小时 = 60 分
   120 ∶ 2 = x ∶ 60
   x = 3600
   3600 mL = 3.6 L
2. 3.6 L = 3600 mL
   1 小时 30 分 = 90 分
   3600 ÷ 90 = 40（mL）
3. （1）12　24　36　48　60　72
   （2）72 × 365 = 26280（升）
   （3）26280 × 3 × 300000 = 23652000000（升）= 23652000 立方米　23652000 × 1 = 23652000（吨）
   （4）23652000000 × 1000 ÷ 1400 ÷ 365
   ≈46285714（人）
   = 4628.5714 万人
4. （1）2.1 × 20 +（26 − 20）× 2.9 = 59.4（元）
   （2）（86 − 2.1 × 20 − 10 × 2.9）÷ 3.75 = 4（立方米）
   所以实际用了 4 + 20 + 10 = 34（立方米）的水。

第 2 课时　开发绿色资源

1. （1）1 公顷 = 10000 m^2
   10000 ÷（5 × 4）= 500（棵）
   （2）20 cm = 0.2 m
   3.14 ×（0.2 ÷ 2）^{2} × 12 × 500 = 188.4（m^3）
   （3）0.2 × 0.2 ÷ 2 × 12 × 500 = 120（m^3）
2. （1）1 公顷 = 10000 平方米
   10000 × 0.073 ÷ 0.75 ≈ 973（人）
   （2）0.75 ÷ 0.073 ≈ 10.27（平方米）
3. （1）3 × 0.55 × 200 = 330（元）
   （2）2400 ÷ 330 ≈ 7（年）
4. （1）170 克 = 0.17 千克
   1850000 × 30 × 0.17 = 9435000（千克）= 9435 吨
   （2）9435 × $\frac{1}{2}$ × 365 = 1721887.5（吨）= 172.18875 万吨

第 3 课时　生活小区

1. （1）5 ÷ $\frac{1}{4000}$ = 20000（cm）= 200 m
   4 ÷ $\frac{1}{4000}$ = 16000（cm）= 160 m
   200 × 160 = 32000（m^2）
   （2）32000 × 30% = 9600（m^2）
2. （1）60 cm = 0.6 m
   3.14 ×［（4 ÷ 2）^{2} −（3 ÷ 2）^{2}］+ 3.14 × 4 × 0.6 = 13.031（m^2）
   13.031 × 2 = 26.062（m^2）
   （2）50 cm = 0.5 m
   3.14 ×（3 ÷ 2）^{2} × 0.5 × 2 = 7.065（m^3）
3. （1）50 cm = 0.5 m
   6 × 4 ÷（0.5 × 0.5）= 96（块）
   （2）6 × 4 +（6 × 3 + 4 × 3）× 2 − 10 = 74（m^2）
   74 × 0.8 = 59.2（L）
4. 550 × 0.3 × 30 = 4950（m^3）
5. 缴纳的费用：550 × 82 × 0.5 = 22550（元）
   工资费用：1000 × $\frac{550}{25}$ = 22000（元）
   22550 > 22000，所以缴纳的费用足够支付物业管理员的工资。

关注微信公众号“教辅资料站”获取更多学习资料



典点

活页检测卷

后附全书参考答案及点拨

六年级 数学 下

JJ版

第1招 圆柱表面积的解题技巧

荣老师告诉你

在解决圆柱表面积的相关问题时，要牢牢掌握圆柱的特征和相关的计算方法，有时要联系生活实际将表面积公式做适当的变形（如：无盖、空心圆柱等），养成数形结合的好习惯，解题时要认真观察、合理想象。

经典例题

例 有一个圆柱体零件（如图），高10 cm，底面直径6 cm，零件底面的一端有一个圆柱形圆孔。圆孔直径4 cm，孔深5 cm。如果将这个零件涂上防锈漆，一共要涂多少平方厘米？

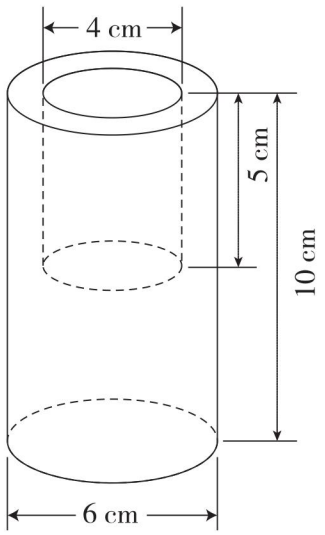

思路分析：要求涂漆部分的面积就是求这个零件的表面积，这个零件的表面积就是大圆柱的表面积加上小圆柱的侧面积。

规范解答： $3.14\times\left(\frac{6}{2}\right)^2\times2+3.14\times6\times10+3.14\times4\times5$

$=56.52+188.4+62.8$

$=307.72(\text{cm}^2)$

答：一共要涂307.72 cm^2。

分类训练

技巧❶ 用观察物体的方法解决问题

1. 如图所示，将高都为1 m，底面直径分别为2 m，1.5 m，1 m的三个圆柱组成一个物体，这个物体的表面积是多少平方米？ 【导学号6815034】

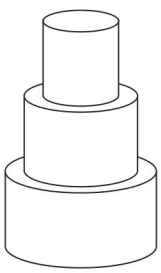

课课集中点

关注微信公众号“教辅资料站”获取更多学习资料

技巧❷ 已知减少（增加）的表面积，求原来的表面积

2. 有一个圆柱，它的底面积与侧面积正好相等，如果圆柱的底面积不变，高增加 1.5 cm，它的表面积就增加 56.52 cm^2。原来这个圆柱的表面积是多少？

技巧❸ 正方体的表面积与圆柱侧面积的综合运用

3. 如图，在一个棱长为 4 cm 的正方体的六个面的中心位置各挖去一个底面半径是 0.5 cm，深是1.5 cm 的圆柱，求它的表面积。

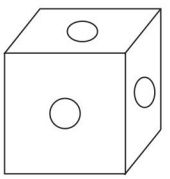

技巧❹ 用“转化法”解决问题

4. 一个圆柱的表面积和一个长方形的面积相等，长方形的长等于圆柱的底面周长，已知长方形的面积是 138.16 cm^2，圆柱的底面半径是 2 cm，圆柱的高是多少？

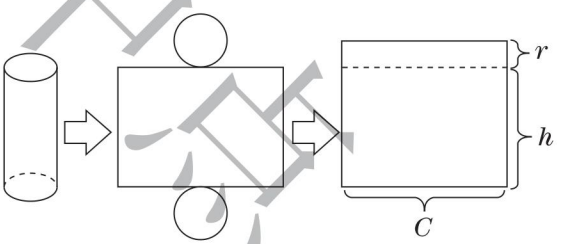

技巧❺ 用“方程法”解决问题

5. 把一块横截面是正方形的长方体木料削成一个最大的圆柱，此圆柱的表面积是32.97 cm^2，底面直径是高的$\frac{1}{3}$。原来长方体的表面积是多少平方厘米？

关注微信公众号“教辅资料站”获取更多学习资料

第2招 圆柱与圆锥体积的解题技巧

荣老师告诉你

求圆柱、圆锥的体积主要是应用公式解决问题，解题时，要注意分析题中的已知条件，善于发现所求问题和已知条件的关系，有些题中的条件比较隐蔽，要通过转换或计算求出所要用的条件，这就要求我们必须善于剖析和发现所求图形与基本图形的组合关系。

经典例题

例 一个圆柱形水槽，底面内半径是6 cm，里面盛有8 cm深的水，现将一个底面周长是25.12 cm的圆锥形铁块完全浸入水中，水面高度比原来上升了$\frac{1}{10}$，圆锥形铁块的高是多少厘米？

思路分析：要求圆锥形铁块的高，先要求出圆锥形铁块的体积，根据题目的条件可知，水面上升后所形成的圆柱的体积就是圆锥形铁块的体积，再用圆锥形铁块的体积乘以3除以底面积就是圆锥形铁块的高。

规范解答：水面上升所形成的圆柱体积（圆锥形铁块体积）：$3.14\times6^2\times8\times\frac{1}{10}=90.432(cm^3)$

圆锥形铁块的高：$90.432\times3\div[3.14\times(25.12\div3.14\div2)^2]=5.4(cm)$

答：圆锥形铁块的高是5.4 cm。

分类训练

技巧❶ 用“等积变形”的思想解决问题

1. 把一根底面半径为8 dm，高为4 dm的圆柱形钢材锻压成底面半径是4 dm的圆锥形钢材，它的高是多少分米？

2. 把一根底面直径是8 dm，高是5 dm的圆柱形钢材熔铸成一个底面直径是16 dm的圆锥，这个圆锥的高是多少分米？ 【导学号6815034】

荣德重中点

关注微信公众号“教辅资料站”获取更多学习资料

技巧❷ 用“转化法”解决问题

3. 一个圆柱的侧面积是100 m^2,底面半径是4 m,这个圆柱的体积是多少立方米?(将圆柱“转化”成一个近似的长方体,长方体前面的面积是圆柱侧面积的一半,宽是圆柱的底面半径)

技巧❸ 用“排水法”解决问题

4. 一个底面内直径是10 cm的圆柱形玻璃缸中装有水,水中放有一个底面半径为2 cm的圆锥,全部淹没,当把圆锥从水中拿出后,水面下降1 cm,求圆锥的高。

技巧❹ 综合运用立体图形的体积解决问题

5. 一个棱长为6 cm的正方体,从正方体的底面向内挖去一个最大的圆锥,剩下的立体图形的体积约是原正方体体积的百分之几?

6. 一个长方体木块,长50 cm,宽40 cm,高30 cm,将其加工成一个最大的圆锥形木块,圆锥形木块的体积是多少立方厘米?

未德典中点

关注微信公众号“教辅资料站”获取更多学习资料

第3招 计算技巧

荣老师告诉你

在小学数学中常常出现一些难度较大的计算题，它们乍一看上去都十分繁难，有的题目用一般的方法甚至不能算出结果来。遇到这样繁难的计算题，我们首先必须仔细审题，动脑筋找出题目中的某一些特殊联系；同时更要学习和掌握一些特殊、巧妙的计算技巧，从而使问题转化，使计算简化。

经典例题

例 $1995-1992+1989-1986+1983-1980+\cdots+15-12+9-6+3$

思路分析：本题可以采用分组法进行计算，从左往右，每两个数为一组：$(1995-1992)+(1989-1986)+(1983-1980)+\cdots+(15-12)+(9-6)$，这样一共组成了$(1995-9)\div(1995-1989)+1=332$(组)，每组的两个数的差都是3，最后还剩下一个3没有配对，再加上即可。

规范解答：原式 $=(1995-1992)+(1989-1986)+(1983-1980)+\cdots+(15-12)+(9-6)+3$

$=3\times332+3$

$=999$

分类训练

技巧❶ 裂项消去法

1. 计算：$\frac{3}{2}-\frac{5}{6}+\frac{7}{12}-\frac{9}{20}+\frac{11}{30}-\frac{13}{42}+\frac{15}{56}$

【导学号 6815034】

2. 计算：$\frac{1}{1\times4}+\frac{1}{4\times7}+\frac{1}{7\times10}+\frac{1}{10\times13}+\frac{1}{13\times16}$

荣德集中点

关注微信公众号“教辅资料站”获取更多学习资料

技巧❷ 分解因数法

3. 计算：$\frac{121121}{212121}\times\frac{121212}{212212}$

技巧❸ 运用运算律和性质简算

4. 计算：$\frac{1}{13}\times91-1\div13\times100+9\times\frac{1}{13}+11\frac{11}{12}\div11$

技巧❹ 公式法

5. 计算：$3+6+9+12+\cdots+120$

技巧❺ 借数凑整还原

6. 计算：$\frac{1}{2}+\frac{1}{4}+\frac{1}{8}+\frac{1}{16}+\frac{1}{32}+\frac{1}{64}+\frac{1}{128}$

荣德集中点

关注微信公众号“教辅资料站”获取更多学习资料

第4招 巧抓不变量

荣老师告诉你

在小学数学题中，常常会出现某些量的增减变化，在这些量变化的同时，与它们相关的另外一些量却没有变化，在分析数量关系时，这些“不变量”往往能起到重要的作用。

经典例题

例 如图所示，一只老鼠从长方形的顶点 A 点出发，沿 $A\rightarrow B\rightarrow C$ 的方向逃跑，同时一只猫也从 A 点出发，沿着 $A\rightarrow D\rightarrow C$ 的方向捕捉老鼠，结果在 BC 边上的 E 点捉住老鼠，已知老鼠的速度是猫的 $\frac{11}{14}$，且 CE 长 9 米，求长方形的周长。

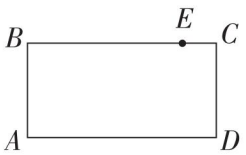

思路分析：本题的不变量是长方形的周长，猫和老鼠同时从 A 点出发，当猫捉住老鼠时，它们所用的时间相同，因为老鼠的速度是猫的 $\frac{11}{14}$，所以猫捉住老鼠时，老鼠所行的路程是猫所行路程的 $\frac{11}{14}$。

规范解答：猫捉住老鼠时，猫比老鼠多行的路程：$9\times2=18$（米）

猫行的路程：$18\div(14-11)\times14=84$（米）

老鼠行的路程：$18\div(14-11)\times11=66$（米）

长方形的周长：$84+66=150$（米）

答：长方形的周长是 150 米。

分类训练

技巧❶ 抓年龄差不变

1. 一天，王老师对小李说：“当我像你这么大的时候，你才 1 岁，当你像我这么大的时候，我已经 40 岁了。”你能帮小李算出王老师现在的年龄吗？ 【导学号 6815034】

关注微信公众号“教辅资料站”获取更多学习资料

技巧❷ 抓相遇问题中的不变量

2. 一辆卡车和一辆摩托车同时从甲、乙两地相对开出，两车在途中距甲地 60 km 处第一次相遇，然后两车继续前进，卡车到达乙地，摩托车到达甲地后都立即返回，两车又在途中距乙地 30 km 处第二次相遇，甲、乙两地之间的路程是多少千米？

技巧❸ 抓两个量的差不变

3. 有两条纸带，一条长 21 cm，一条长 13 cm，把两条纸带都剪下同样长的一段后，发现短纸带剩下的长度是长纸带剩下长度的$\frac{7}{15}$，剪下的一段有多长？

技巧❹ 抓分母与分子的差不变

4. 分数$\frac{11}{86}$的分子和分母同时加上一个相同的数，使得分数变成$\frac{2}{7}$，这个数是多少？

技巧❺ 抓分数应用题中的不变量

5. 甲、乙两个车间，甲车间人数是乙车间人数的$\frac{1}{6}$，如果从乙车间调 1 人到甲车间去，那么甲车间人数是乙车间人数的$\frac{1}{5}$，甲、乙两车间原来各有多少人？

未德集中点

关注微信公众号“教辅资料站”获取更多学习资料

第5招 用“转化法”解决问题

荣老师告诉你

我们在解决数学问题时，往往会遇到一些十分陌生的题目，这时需要展开积极而大胆的联想，把这些题目转化成我们比较熟悉的，或转化成比较简单的题型，这样复杂的问题就迎刃而解了。

经典例题

例 在圆内画一个尽可能大的正方形，已知这个正方形的面积是20平方厘米，圆的面积是多少平方厘米？

思路分析：本题我们可以采用“数据转化”的方法，假定圆的半径（即正方形对角线的$\frac{1}{2}$）为2厘米，这样可以分别求出圆的面积和圆中最大正方形的面积，进而可以求出圆的面积与正方形面积之间的关系，根据这个关系就可以求出题目中圆的面积。

规范解答：假定圆的半径是2厘米。

此时圆的面积：$3.14\times2^2=12.56$（平方厘米）

正方形的面积：$2\times2\div2\times4=8$（平方厘米）

圆与正方形的面积比：$12.56:8=157:100$

原题中圆的面积：$20\times\frac{157}{100}=31.4$（平方厘米）

答：圆的面积是31.4平方厘米。

分类训练

类型1 数据转化

1. $\frac{4}{11}\times\frac{4}{5}+4\frac{3}{11}\times\frac{2}{5}$

2. $1-\frac{1}{10}-\frac{1}{100}-\frac{1}{1000}-\frac{1}{10000}-\frac{1}{100000}$

荣德基中小

关注微信公众号“教辅资料站”获取更多学习资料

类型② 分率转化

3. 加工一批零件，甲先加工了这批零件的$\frac{2}{5}$，接着乙加工了余下的$\frac{4}{9}$。已知乙加工的零件个数比甲少 200 个。这批零件共有多少个？

类型③ 比与分率的转化

4. 甲、乙两袋大米共重 88 千克，已知甲袋大米的$\frac{2}{3}$与乙袋大米的$\frac{4}{5}$一样多。甲、乙两袋大米各重多少千克？

类型④ 工程问题中的转化

5. 抄一份资料，甲、乙单独抄各要 10 天完成，丙单独抄要 7.5 天完成，现在三人合抄，在抄的过程中，甲因事外出 1 天，丙因病休息 0.5 天，抄完这份资料需要多少天？

类型⑤ 图形的转化

6. 如图所示，直角三角形 ABC 中，已知 $AD=6$ cm，$DB=10$ cm，四边形 $CEDF$ 为正方形，求阴影部分面积。 【导学号 6815034】

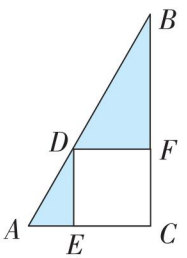

未德典书点

关注微信公众号“教辅资料站”获取更多学习资料

第6招 用“画示意图法”解决问题

荣老师告诉你

有些数学题的条件与条件之间、条件与问题之间的数量关系比较抽象、复杂时，可以把题中所给的条件用图形具体、形象地表示出来，这样便于理解和分析题中的数量关系，从而能快速地找到解题思路，这种方法叫画示意图法。在画图之前，要反复审题，弄清题意，这样才能把题中的条件和问题正确地表示出来。

经典例题

例 一个正方形，如果边长增加5米，面积就增加125平方米，原来这个正方形的面积是多少？

思路分析：为了清楚看出图形变化的情况，可根据题意画出示意图：

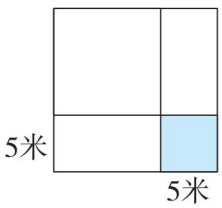

由图可知，如果我们把增加的部分分成三块，那么一块就是一个边长为5米的正方形，另外两块就是形状、大小相同的两个宽为5米的长方形。

规范解答：两个长方形的总面积：$125-5\times5=100$（平方米）

每个长方形的长（原正方形的边长）：$100\div2\div5=10$（米）

原正方形的面积：$10\times10=100$（平方米）

答：原来这个正方形的面积是100平方米。

分类训练

类型❶ 画示意图解一般应用题

1. 筑路队原计划20天修完一条公路，实际每天比计划多修45 m，实际提前5天完成任务。原计划每天修路多少米？

（1）看图理解：

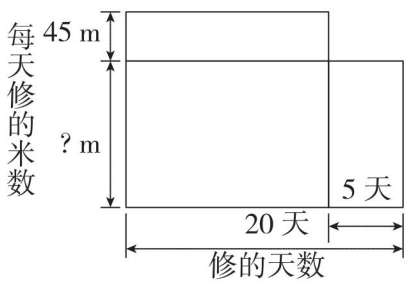

（2）列式解答：

关注微信公众号“教辅资料站”获取更多学习资料

类型② 画示意图解差倍问题

2. 同样长的两根绳子，第一根用去 30 米，第二根用去 18 米，剩下的长度第二根是第一根的 3 倍，原来每根绳子长多少米？

(1)补充示意图：　　(2)列式解答：

第一根 └──────────┘

第二根 └──────────┘

类型③ 画示意图求两个量的关系

3. 有甲、乙两数，甲数的$\frac{3}{5}$等于乙数的$\frac{1}{3}$(甲、乙两数均不为 0)，甲数是乙数的几分之几？

(1)补充示意图：　　(2)列式解答：

甲数：└┴┴┴┴┴┘

乙数：└┴┴┴┴┴┴┴┴┴┘

类型④ 画示意图解分数问题

4. 某小学男生比女生多 180 人，一半男生去参观科技成就展览会后，剩下的男生比女生少 80 人，这个小学男、女生各有多少人？

(1)画图理解：　　(2)列式解答：

类型⑤ 画示意图解比的问题

5. 一个车间有两个小组，第一小组和第二小组人数的比是 5∶3，若从第一小组调 14 人到第二小组，则第一小组与第二小组人数的比是 1∶2。原来两个小组各有多少人？

(1)画图理解：　　(2)列式解答：

荣德典中点

关注微信公众号“教辅资料站”获取更多学习资料

第7招 用“公式法”解典型应用题

荣老师告诉你

小学阶段有很多典型应用题，如：平均数问题、植树问题、追及问题、火车过桥问题、鸡兔同笼问题、盈亏问题等，对于这些典型应用题，我们可以根据各自题型的特点直接运用公式法解答。

经典例题

例 小兵骑自行车每小时行15千米，小明步行每小时行5千米。两人同时从小兵家出发，沿同一条线路到30千米外的学校。小兵到校后发现忘了带钥匙，就沿原路回家去拿，在途中与小明相遇。相遇时小明共行了多少千米？

思路分析：根据题意可知，此题是相遇问题，所以我们可以运用关系式“总路程÷速度和=相遇时间”去思考，求出相遇时间后，就可以求出小明共行的路程。

规范解答：小兵和小明的相遇时间：$30\times2\div(15+5)=3$（小时）

相遇时小明共行的路程：$5\times3=15$（千米）

答：相遇时小明共行了15千米。

分类训练

类型❶ 公式法解平均数问题

1. 六位评委给一名歌手打分，其平均成绩为9.6分，如果去掉一个最高分，这名歌手的平均成绩是9.4分，如果去掉一个最低分，这名歌手的平均成绩为9.8分，那么去掉一个最高分和一个最低分，这名歌手的平均成绩是多少分？

类型❷ 公式法解植树问题

2. 在一条公路的一侧栽有若干棵树，每相邻两棵树之间的距离相等，哥哥和弟弟同时出发，从第一棵树向最后一棵树的方向走去，哥哥每分钟走84米，弟弟每分钟走36米，哥哥走到第22棵树的时候，弟弟走到第几棵树？

荣德集中点

关注微信公众号“教辅资料站”获取更多学习资料

类型❸ 公式法解追及问题

3. 甲、乙、丙兄弟三人骑自行车旅行，出发时约好到某地集合，甲、乙二人早上 6 时一起从家中出发，甲每小时行 15 千米，乙每小时行 12 千米，丙因有事，到早上 8 时才从家中出发，下午 6 时，甲、丙同时到达该地，问丙何时追上乙？

类型❹ 公式法解火车过桥问题

4. 一列客车每分钟行 1000 米，一列货车每分钟行 750 米，货车比客车的车身长 135 米。两车在平行的轨道上同向行驶，当客车从后面超过货车时，两车交叉的时间是 1 分 30 秒。货车与客车的车身长各是多少米？

类型❺ 公式法解鸡兔同笼问题

5. 六(2)班有学生 52 人，全部到公园去划船，共租用 11 条船，每条大船坐 6 人，每条小船坐 4 人，大、小船各租了多少条？

类型❻ 公式法解盈亏问题

6. 动物园为猴山的猴子买桃，这些桃如果每只猴子分 5 个，还剩 32 个；如果其中 10 只猴子每只分 4 个，其余的猴子每只分 8 个，就恰好分完。猴山上有多少只猴子？共买了多少个桃？

未经典中点

关注微信公众号“教辅资料站”获取更多学习资料

第8招 用“设数法”解决问题

荣老师告诉你

数学本身就有它特殊的抽象性，而很多数学题目往往更加抽象。例如，有的题目看上去好像数据不齐全，有的甚至连一个具体数据也不出现，像这样的题目我们可以先设定一个具体数据放入题中进行解答，这种方法就是“设数法”。

经典例题

例 甲、乙两所小学，甲校的人数相当于乙校的40%，甲校的女生人数占甲校总人数的30%，乙校的男生人数占乙校总人数的42%。甲、乙两校的女生占两校总人数的百分之几？

思路分析：由“甲校的人数相当于乙校的40%”我们可假设乙校的学生数为100人，甲校的学生数则是100×40%=40(人)。然后依据这两个“具体人数”去逐一推算就容易了。

规范解答：假设乙校的学生数为100人，则甲校的学生数为100×40%=40(人)。

甲校的女生人数：40×30%=12(人)，

乙校的女生人数：100×(1−42%)=58(人)，

两校女生的总人数：12+58=70(人)，

两校的女生占两校总人数的百分数：70÷(40+100)×100%=50%。

答：甲、乙两校的女生占两校总人数的50%。

分类训练

类型❶ 设数法解变化幅度问题

1. 一种商品，去年底价格提高10%，最近又降低10%。现在的价格比去年底提价前增加了还是减少了？变化幅度是多少？ 【导学号6815034】

类型❷ 设数法解平均数问题

2. 王叔叔开车到县城运大米，去时空车，平均每小时行60千米；原路回来时装满了大米，平均每小时行40千米。王叔叔开车往返的平均速度是多少？

未领课中点

关注微信公众号“教辅资料站”获取更多学习资料

3. 某班级进行了一次小测验，全班同学的平均分为 88 分，其中$\frac{4}{5}$的同学成绩特别优秀，他们的平均分是 92 分，剩下同学的平均分是多少？

类型❸ 设数法解工程问题

4. 同样加工某一种机器零件，小王叔叔所用的时间比小张叔叔少$\frac{1}{4}$，那么小王叔叔的工作效率比小张叔叔高百分之几？

类型❹ 设数法求两个数的比

5. 有甲、乙两个数，如果把甲数的小数点往左移动两位，就等于乙数的$\frac{1}{8}$，那么原来甲、乙两数的比是多少？

类型❺ 设数法解图形面积问题

6. 一个梯形被它的两条对角线分成 4 个部分（如图），已知两条对角线的交点恰好是各自的一个三等分点。那么三角形①②面积之和是三角形③④面积之和的几分之几？

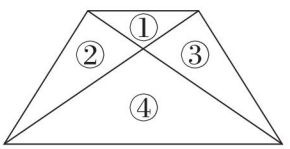

荣德集中点

关注微信公众号“教辅资料站”获取更多学习资料

第9招 用“方程法”解决问题

荣老师告诉你

要提高列方程解决问题的能力，应注意两个方面：一是要善于分析问题中的已知数与未知数之间的数量关系；二是要注意一般语言与数学语言之间的相互转化。在列方程解决问题时，设未知数有直接设元法和间接设元法两种。设好未知数后再列方程解答。

经典例题

例 一条船在两个码头之间航行，顺水行全程要4小时，逆水行全程要5小时，已知水流的速度是2千米/小时。这条船在静水中的速度是多少？

思路分析：船的顺水速度＝船的静水速度＋水速，船的逆水速度＝船的静水速度－水速，根据题意可知，题中等量关系是：顺水所行路程＝逆水所行路程。

规范解答：解：设这条船在静水中的速度为x千米/小时，列方程得：

$$5(x-2)=4(x+2)$$

$$5x-10=4x+8$$

$$x=18$$

答：这条船在静水中的速度为18千米/小时。

分类训练

类型❶ 列方程解鸡兔同笼问题

1. 某班46名同学去划船，一共乘坐10只船，每只大船坐6人，每只小船坐4人，全部坐满。大船、小船各有多少只？

类型❷ 列方程解盈亏问题

2. 某班学生合买一件纪念品。如果每人出6角，则多4元8角，如果每人出5角，则少3角。这个班有学生多少人？

未经集中心

关注微信公众号“教辅资料站”获取更多学习资料

类型❸ 列方程解平均数问题

3. 男生和女生平均每人植树 16.5 棵，女生平均每人植树 11 棵。男生有 24 人，共植树 506 棵，男、女生共植树多少棵？

类型❹ 列方程解分数应用题

4. 学校有篮球和足球共 100 个，篮球个数的$\frac{1}{3}$比足球个数的$\frac{1}{10}$多 16 个。学校有篮球和足球各多少个？

类型❺ 列方程解追及问题

5. 解放军某部快艇追击敌舰，追到甲岛时敌舰已逃离该岛 12 分钟，敌舰每分钟行 1000 米，我军快艇每分钟行 1380 米，如果距敌舰 600 米处可以开炮射击。解放军快艇从甲岛出发经过多少分钟可以开炮射击敌舰？

类型❻ 列方程解数位问题

6. 有一个两位数，如果在其两个数字之间添一个 0，则得到的三位数是原来两位数的 9 倍，原来这个两位数是多少？

荣德集中点

关注微信公众号“教辅资料站”获取更多学习资料

第10招 用“整体分析法”解决问题

荣老师告诉你

所谓“整体分析法”，就是将几个独立的部分合并成一个整体来分析，“整体分析法”可以避开许多细节问题的干扰和纠缠，以便使我们很快抓住问题的核心，迅速获解。

经典例题

例 甲、乙两人骑自行车同时从东西两地出发，相向而行，经过8分钟相遇，如果甲每分钟少行180米，而乙每分钟多行230米，经过7分钟就能相遇，东西两地相距多少米？

思路分析：由于不知道甲、乙两人骑自行车的速度分别是多少，问题就显得特别困难，因此解答这道题的关键是要把甲、乙两人合在一起（即将两个人转化成一个人）来考虑，原来他们两人行完全程要8分钟，每分钟行全程的$\frac{1}{8}$；后来由于两人的速度发生了变化，7分钟就能相遇，每分钟行全程的$\frac{1}{7}$，把他们的速度合起来看，每分钟多行了$230-180=50$（米），这个50米对应的分率是$\left(\frac{1}{7}-\frac{1}{8}\right)$。

规范解答： $(230-180)\div\left(\frac{1}{7}-\frac{1}{8}\right)$

$=50\div\frac{1}{56}$

$=2800$（米）

答：东西两地相距2800米。

分类训练

类型1 用整体分析法计算

1. 若$51-\left[27.5\times\frac{3}{8}-\left(7.3-6\frac{37}{40}\right)+\square\div2\frac{2}{3}\right]\times\frac{4}{45}=50$，求$\square$的值。

禁德集中心

关注微信公众号“教辅资料站”获取更多学习资料

类型② 用整体分析法解平均数问题

2. 有五个数的平均数是7，若把其中一个数改为9后，这五个数的平均数则为8。改动的那个数原来是多少？

类型③ 用整体分析法解分数加减法问题

3. 李林喝了一杯牛奶的$\frac{1}{6}$，然后加满水又喝了一杯的$\frac{1}{3}$，再加满水后又喝了半杯，又加满水，最后把一杯都喝了，李林喝的牛奶多还是水多？

类型④ 用整体分析法解行程问题

4. 一条马路长2000 m，小张和小李分别从这条马路的两端同时出发相向而行。小张每分走60 m，小李每分走40 m，小张带着一条狗，狗每分跑100 m。这条狗与小张一起出发，碰到小李时立即回头向小张跑，碰到小张时，又立即回头向小李跑，直到小张、小李相遇。从小张、小李出发到相遇，狗一共跑了多少米？

类型⑤ 用整体分析法解图形问题

5. 如图所示，已知四边形$ABCD$是一个边长为10 cm的正方形，三角形AED的面积比三角形ECF少20 cm^2，求CF的长。 【导学号6815034】

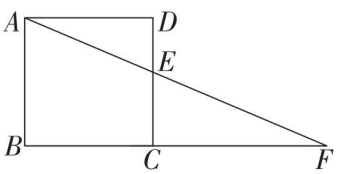

梁德典中点

关注微信公众号“教辅资料站”获取更多学习资料

第11招 用“对应思想”解决问题

荣老师告诉你

在数学中，巧妙地运用对应的思想方法往往可以把复杂的问题转化成简单的问题。如：计算中的对应、解决问题中的对应、计数中的对应等等。

经典例题

例 在1985到4891的整数中，十位数字与个位数字相同的数有多少个？

思路分析：根据条件“十位数字与个位数字相同”，我们可以设想把相同的两个数字“合并”成一个数字，这样可以把四位数变成三位数。把在1985到4891的整数中，十位数字与个位数字相同的数1988、1999、…、4888与“合并”的三位数建立一一对应关系：

1988	1999	2000	2011	…	4888
↓	↓	↓	↓		↓
198	199	200	201	…	488

规范解答：上述三位数共有：488 − 198 + 1 = 291（个），所以在1985到4891的整数中，十位数字与个位数字相同的数有291个。

分类训练

类型❶ 等差数列中的对应

1. 计算：(2 + 4 + 6 + 8 + … + 1000) − (1 + 3 + 5 + 7 + … + 999)

2. 100个连续自然数的和是8450，取其中第1个，第3个，第5个，…，第99个数（所有第奇数个数），再把这50个数相加，和是多少？

禁德典中点

关注微信公众号“教辅资料站”获取更多学习资料

类型② 鸡兔同笼中的对应

3. 鸡、兔共有脚 44 只，若将鸡、兔互换，则共有脚 52 只，问原来鸡、兔各有多少只？

4. 数码商场出售 64G、32G、16G 的 U 盘，它们的售价如下表：

类型	64G	32G	16G
售价	300 元	150 元	100 元

刘老师用 8100 元共买了 55 个 U 盘，其中 32G 的 U 盘个数与 16G 的 U 盘个数恰好一样多。问：三种 U 盘各买了多少个？

类型③ 比中的对应

5. 甲、乙两车的速度比是 3∶4，两车同时分别从两地相向而行，在离中点 6 千米处相遇。两地相距多少千米？

类型④ 计数中的对应

6. 16 名羽毛球运动员参加单打比赛，两两成对进行淘汰赛，请问要决出冠军，一共要比赛多少场？

学德典中点

关注微信公众号“教辅资料站”获取更多学习资料

第12招 用“假设思想”解决问题

荣老师告诉你

一些数学题目中含有两个或者两个以上的未知量，其数量关系比较隐蔽，很难找到解题途径，为了使复杂的数量关系变得简单，使隐蔽的关系变得明朗，我们可以使用“假设”改变某些条件，或者将某个条件设为已知，对因“假设”而产生的差异进行推断，并加以调整，从而使问题获得解决，这种解决问题的方法称为假设思维法。

经典例题

例 小花和小英一起跳绳，小花先跳了2分钟，然后两人各跳了3分钟，一共跳了780下，已知小花比小英每分钟多跳12下，则小花比小英一共多跳了多少下？

思路分析：假设小花跳绳的速度减少到和小英一样，则两人跳的总数就减少了$12\times(2+3)=60$（下），这时两人跳的总数是$780-60=720$（下），两人一共跳的时间为$2+2\times3=8$（分钟），因此小英每分钟跳$720\div8=90$（下），小英3分钟跳了$90\times3=270$（下）。小花每分钟跳$90+12=102$（下），5分钟跳了$102\times5=510$（下），所以小花比小英一共多跳$510-270=240$（下）。

规范解答：$[780-12\times(2+3)]\div(2+2\times3)=90$（下）

$(90+12)\times(2+3)-90\times3=240$（下）

答：小花比小英一共多跳了240下。

分类训练

类型❶ 假设法解代换问题

1. 某鞋厂将600双皮鞋分装在4个木箱和12个纸箱里，已知2个纸箱和1个木箱装的一样多，每个木箱和每个纸箱各装多少双？

类型❷ 假设法解工程问题

2. 甲管注水速度是乙管注水速度的1.5倍，同时开放甲、乙两个水管向一个空游泳池注水，12小时可注满，现在先开放甲管向空游泳池注水若干小时，剩下的由乙管注，9小时可将游泳池注满。甲管注水时间是多长？

荣德基中点

关注微信公众号“教辅资料站”获取更多学习资料

类型❸ 假设法解倍数问题

3. 有黑白棋子一堆，黑子的个数是白子的 2 倍，现在从这堆棋子中每次取出黑子 4 个，白子 3 个，待到若干次后，白子已经取完，而黑子还有 16 个，黑白棋子各有多少个？

类型❹ 假设法解一般应用题

4. 红星机械厂十一月份计划生产一批机器，实际每天比原计划多生产 80 台，结果 25 天就完成了全月计划，这个厂十一月份计划生产多少台机器？

类型❺ 假设法解分数应用题

5. 甲厂与乙厂去年共上缴税金 112 万元，已知甲厂上缴税金的$\frac{4}{9}$与乙厂上缴税金的$\frac{2}{7}$共 42 万元，两个厂去年各上缴税金多少万元？

类型❻ 假设法解页码问题

6. 给一本书编页码，一共用了 732 个数字，则这本书共有多少页？

类型❼ 假设法解鸡兔同笼问题

7. 某车站售出汽车票若干张，每张学生票 6 元，每张成人票 14 元，售出的学生票比成人票多 700 张，售出的成人票比学生票多收入 6200 元，售出学生票与成人票各多少张？

来德里中点

关注微信公众号“教辅资料站”获取更多学习资料

第13招 用“类比思想”解决问题

荣老师告诉你

假如要解决问题甲，通过联想，找到一个很类似的问题乙，问题乙是可解的，既然问题甲与问题乙很类似，那不妨试试能否用解决问题乙的方法来解决问题甲，这种思考问题的方法称为类比思想。

经典例题

例 明明晚上6点开始做作业，一直到时针与分针第二次成直角时，作业正好做完，明明做作业花了多少时间？

思路分析：解决这类问题乍看起来无从下手，实际上运用类比的方法可以把两针在钟面上作匀速圆周运动类比为同向而行的追及问题。分针每分钟走6°，时针每分钟走0.5°，6点时，分针落后时针180°，那么分针追上时针的时间为$180\div(6-0.5)=\frac{360}{11}$（分），这期间成过一次直角；从分针追上时针到第二次成直角所需时间为$90\div(6-0.5)=\frac{180}{11}$（分）；所以到第二次成直角一共用$\frac{360}{11}+\frac{180}{11}=49\frac{1}{11}$（分）。

规范解答：$180\div(6-0.5)=\frac{360}{11}$（分）　　$90\div(6-0.5)=\frac{180}{11}$（分）

$\frac{360}{11}+\frac{180}{11}=49\frac{1}{11}$（分）

答：明明做作业花了$49\frac{1}{11}$分。

分类训练

类型1 类比成追及问题解决问题

1. 从时针指向4开始，至少经过多少分时针与分针重合？　　【导学号6815034】

禁止售中点

关注微信公众号“教辅资料站”获取更多学习资料

类型② 类比成工程问题解决问题

2. 王老师为学校购买音乐器材，他带去的钱可以买 10 台手风琴或 50 把提琴，如果买了 6 台手风琴后，剩下的钱全部买提琴，可以买多少把提琴？

3. 一项工作，甲独做 15 天完成，乙独做 10 天完成，两人合作若干天后，甲休息了几天，结果共用 8 天才完成任务，甲休息了多少天？

类型③ 类比成年龄问题解决问题

4. 分数$\frac{3}{71}$的分子和分母同时加上一个相同的数，分数变成$\frac{1}{5}$，加上的这个数是多少？

类型④ 类比成按比例分配问题解决问题

5. 一个两位数，十位数字与个位数字的和是 9，十位数字与个位数字交换位置后所成的新数是原数的$\frac{5}{6}$。求原数。

类型⑤ 类比成重叠问题解决问题

6. 在 1 到 100 中，能被 2 或 5 整除的数有多少个？

荣德典中点

关注微信公众号“教辅资料站”获取更多学习资料

第14招 生活中的负数

荣老师告诉你

正、负数可以表示意义相反的量。一般地，用正、负数表示的意义如下：收入、前进、零上、提高等都用正数表示；支出、后退、零下、降低等都用负数表示。用正、负数表示数量时，要确定好标准和分界点。

用正、负数可以表示事物的变化，变化情况是指在前次记录数据的基础上升高或降低的数值，也就是用现在的数值减前次记录的数值，用正、负数表示事物的变化情况，一定要以前次记录为标准。

经典例题

例 一只羊从羊圈里出来找草吃，它向北走了50米，没有找到草地，又继续向北走了100米，还是没有找到草地，于是又继续走了－300米，终于找到了草地。这时这只羊在羊圈的哪个方向，距离羊圈多少米？（向北走50米和100米分别记作＋50米和＋100米）

思路分析：解决此题的关键是理解“又继续走了－300米”的意义，向北走50米和100米分别记作＋50米和＋100米，那么－300米表示向南走了300米，这只羊行走的情况如下图：

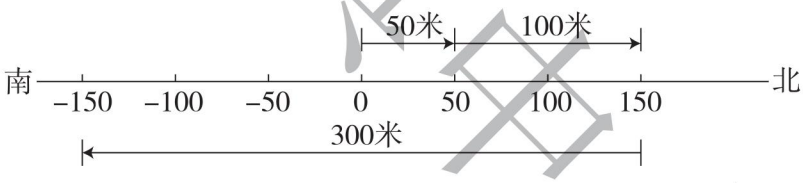

规范解答：300－100－50＝150（米）

答：这时这只羊在羊圈的南边，距离羊圈150米。

分类训练

应用❶ 用正、负数表示意义相反的量

1. 一个点从直线上某点出发，先向左移动5个单位长度，再向右移动2个单位长度，这时这个点表示的数为－1，则起点表示的数是多少？请你画图表示出来。（规定向右为正）

关注微信公众号“教辅资料站”获取更多学习资料

2. 红红在体育课上按照老师的指令进行前进或后退练习(前进用“+”表示),行动过程如下:+5 步、-4 步、-3 步、+2 步、+2 步、-3 步。红红前进了还是后退了?如果前进了,前进了几步?如果后退了,后退了几步?

3. 一个平价超市每天的营业成本是 3000 元,超市经理的电脑资料上记录了上周该超市每天的销售情况(如下表),完成表格,写出每天的盈亏情况,并计算出上周超市盈利了多少钱?(盈记作“+”,亏记作“-”)

星期	一	二	三	四	五	六	日
销售情况(元)	2700	3100	3000	2000	4000	5000	6000
盈亏情况(元)							

应用② 用正、负数表示事物的变化

4. 一口井深 10 m,一只蜗牛白天向上爬 3 m,晚上下滑 2 m,问井底的蜗牛第几天能爬出井口?完成下表(记井底为 10 m):

时间	白天	晚上	现处于几米处
第一天			
第二天			
第三天			
…	…	…	…

5. 下表是某仓库库存大米在一周内的变化情况(开始库存质量为 0 kg),其中星期日运进大米 300 kg。请根据变化情况填写表格。

星期	日	一	二	三	四	五	六
出入仓库大米质量(kg)	+300	-280 +800	-260 +260	-270	-250 +260	-290 +180	-90 +100
库存大米质量(kg)							

关注微信公众号“教辅资料站”获取更多学习资料

第15招 正比例与反比例的应用

荣老师告诉你

应用正比例与反比例知识解决问题时，先要弄清题意，找出相关联的量，看它们之间成什么比例，再找出等量关系式，根据关系式列出比例进行解答。

经典例题

例 一辆汽车从甲地开往乙地，4小时行了320千米。照这样计算，再行3.5小时离乙地还有15千米，甲、乙两地相距多少千米？

思路分析：本题可以列比例解答，根据题中条件“照这样计算”可判定速度一定，路程和时间成正比例，再根据正比例关系列比例解答。

规范解答：解：设甲、乙两地相距 x 千米。

$$\frac{320}{4}=\frac{x-15}{4+3.5}$$

$$\frac{80}{1}=\frac{x-15}{7.5}$$

$$x=615$$

答：甲、乙两地相距615千米。

分类训练

应用❶ 列比例解答植树问题

1. 一根木料，将它锯成8段，需要2.8分钟，照这样计算，如果锯成12段，需要多少分钟？

2. 小明家住在八楼，一天停电，小明只好从一楼爬楼梯回家，当他上到四楼时用了36秒，假设每层楼一样高，小明上楼的速度不变，那么小明从一楼回到家需要多少秒？

课堂集中营

关注微信公众号“教辅资料站”获取更多学习资料

应用❷ 列比例解答盈亏问题

3. 小东从家里出发去学校，如果每分钟走 70 m，能在上课前 5 分钟到校；如果每分钟走 45 m，就要迟到 5 分钟。那么小东家到学校的路程有多少米？

应用❸ 列比例解答工程问题

4. 有长度相等的两根蜡烛，粗的可烧 3 小时，细的可烧 2 小时。一天夜里 8:00 停电了，小明把两根蜡烛同时点燃照明。来电时，小明吹灭蜡烛一量，粗蜡烛余下的长度正好是细蜡烛的 2 倍，请问是何时来电的？

应用❹ 列比例解答行程问题

5. 一架飞机所带的燃料最多可以支持飞行 6 小时。飞机去时顺风，每小时飞行 1500 km，返回时逆风，每小时飞行 1200 km。这架飞机最多飞行多少千米就需要返回？

应用❺ 已知变化前后的比和变化的量，求原来的数量

6. 某次测试中，甲、乙两个同学的分数比为 5∶4，如果甲少得 25 分，乙多得 25 分，那么他们的分数比是 5∶7。甲、乙各得多少分？

荣德典中点

关注微信公众号“教辅资料站”获取更多学习资料

第16招 加法原理和乘法原理的应用

荣老师告诉你

做一件事，完成它可以有n类办法，在第一类办法中有m_1种方法，在第二类办法中有m_2种方法……在第n类办法中有m_n种方法，选择任何一类办法中的任何一种方法都可以完成这件事，那么完成这件事总的方法数N就等于这n类办法中方法数的总和，即$N=m_1+m_2+\cdots+m_n$。做一件事，完成它需要分成n个步骤，做第一步有m_1种方法，做第二步有m_2种方法……做第n步有m_n种方法，必须经过每个步骤这件事才算完成，那么完成这件事总的方法数N等于完成各个步骤的方法数之积，即$N=m_1\times m_2\times\cdots\times m_n$。

经典例题

例 从1到400的所有自然数中，不含数字3的自然数有多少个？

思路分析：从1到400的自然数可以分为三类：一位数、两位数和三位数。

一位数不含数字3的个数：有1,2,4,5,6,7,8,9，共8个。

两位数中不含数字3的个数：十位数字有1,2,4,5,6,7,8,9，共8个；个位数字有1,2,4,5,6,7,8,9,0，共9个，根据乘法原理，不含数字3的两位数共有$8\times9=72$(个)。

三位数中不含数字3的个数：除去400外，百位上有1,2，共2个；十位与个位上均有1,2,4,5,6,7,8,9,0，共9个，根据乘法原理，不含数字3的三位数(除去400)共有$2\times9\times9=162$(个)。

根据加法原理，从1到400的所有自然数中，不含数字3的自然数共有$8+72+162+1=243$(个)。

规范解答：$8+8\times9+2\times9\times9+1=243$(个)

答：从1到400的所有自然数中，不含数字3的自然数有243个。

分类训练

应用❶ 加法原理的应用

1. 有不同的语文书5本，数学书6本，英语书3本，科学书2本，从中任取一本，共有多少种不同的取法？ 【导学号6815034】

关注微信公众号“教辅资料站”获取更多学习资料

应用② 乘法原理的应用

2. 芳芳、媛媛、丽丽三人约好报名参加学校运动会的跳远、跳高、100 米跑、200 米跑四项中的一项比赛，报名的结果会出现多少种不同的情形？

3. 有 5 张卡片，分别写有数字 1，2，4，5，8，现从中取出 3 张卡片，并排放在一起，组成一个三位数，如 152，可以组成多少个不同的偶数？

应用③ 加法原理与乘法原理的综合应用

4. 从 3 名男生、2 名女生中选出优秀干部 3 人，其中至少有 1 名女生，一共有多少种不同的选法？

5. 在 1 至 400 的所有自然数中，不含数字 6 的自然数共有多少个？

6. 有大小两个正方体，每个正方体的六个面上分别标有数字 1，2，3，4，5，6，将两个正方体投掷在桌面上，向上一面的数字之和为偶数的情形有多少种？

荣德集中点

关注微信公众号“教辅资料站”获取更多学习资料

参考答案及点拨

第 1 招　圆柱表面积的解题技巧

1. $2\times3.14\times(2\div2)^2+2\times3.14\times1+1.5\times3.14\times1+1\times3.14\times1=20.41\ (m^2)$

答：这个物体的表面积是 20.41 m^2。

【点拨】这个组合图形的表面积等于最大的圆柱的两个底面面积加上三个圆柱的侧面积。

2. $(56.52\div1.5\div3.14\div2)^2\times3.14=113.04(cm^2)$

$113.04\times2+113.04=339.12\ (cm^2)$

答：原来这个圆柱的表面积是 339.12 cm^2。

3. $4\times4\times6+2\times3.14\times0.5\times1.5\times6=124.26\ (cm^2)$

答：它的表面积是 124.26 cm^2。

【点拨】所给图形的表面积等于正方体的表面积加上 6 个圆柱的侧面积。

4. 方法一：$138.16\div(2\times3.14\times2)-2=9\ (cm)$

答：圆柱的高是 9 cm。

【点拨】长方形面积 ÷ 长(C) = 宽，由题图可知宽 $=r+h$，所以宽 $-r=h$。

方法二：$(138.16-2\times3.14\times2^2)\div(2\times3.14\times2)=9\ (cm)$

答：圆柱的高是 9 cm。

5. 解：设圆柱的底面直径是 x cm，则高是 $3x$ cm。

$$3.14\times x\times3x+\left(\frac{1}{2}x\right)^2\times3.14\times2=32.97$$

$$x^2=3$$

$x\times3x\times4=36$

长方体的表面积：$36+3\times2=42\ (cm^2)$

答：原来长方体的表面积是 42 cm^2。

第 2 招　圆柱与圆锥体积的解题技巧

1. $(3.14\times8^2\times4)\div\frac{1}{3}\div(3.14\times4^2)=48(dm)$

答：它的高是 48 dm。

2. $3.14\times(8\div2)^2\times5=251.2(dm^3)$

$251.2\times3\div[3.14\times(16\div2)^2]=3.75(dm)$

答：这个圆锥的高是 3.75 dm。

3. $100\div2\times4=200\ (m^3)$

答：这个圆柱的体积是 200 m^3。

4. $3.14\times(10\div2)^2\times1\times3\div(3.14\times2^2)=18.75\ (cm)$　答：圆锥的高是 18.75 cm。

5. $\frac{1}{3}\times3.14\times(6\div2)^2\times6=56.52\ (cm^3)$

$6\times6\times6-56.52=159.48(cm^3)$

$159.48\div(6\times6\times6)\times100\%\approx73.8\%$

答：剩下的立体图形的体积约是原正方体体积的 73.8% 。

6. $3.14\times(40\div2)^2\times30\times\frac{1}{3}=12560\ (cm^3)$

答：圆锥形木块的体积是 12560 cm^3。

第 3 招　计算技巧

1. 原式 $=1+\frac{1}{2}-\left(\frac{1}{2}+\frac{1}{3}\right)+\left(\frac{1}{3}+\frac{1}{4}\right)-\left(\frac{1}{4}+\frac{1}{5}\right)+\left(\frac{1}{5}+\frac{1}{6}\right)-\left(\frac{1}{6}+\frac{1}{7}\right)+\left(\frac{1}{7}+\frac{1}{8}\right)$

$=1+\frac{1}{2}-\frac{1}{2}-\frac{1}{3}+\frac{1}{3}+\frac{1}{4}-\frac{1}{4}-\frac{1}{5}+\frac{1}{5}+\frac{1}{6}-\frac{1}{6}-\frac{1}{7}+\frac{1}{7}+\frac{1}{8}$

$=1\frac{1}{8}$

2. 原式 $=\left(1-\frac{1}{4}\right)\times\frac{1}{3}+\left(\frac{1}{4}-\frac{1}{7}\right)\times\frac{1}{3}+\left(\frac{1}{7}-\frac{1}{10}\right)\times\frac{1}{3}+\left(\frac{1}{10}-\frac{1}{13}\right)\times\frac{1}{3}+\left(\frac{1}{13}-\frac{1}{16}\right)\times\frac{1}{3}$

$=\frac{1}{3}\times\left(1-\frac{1}{4}+\frac{1}{4}-\frac{1}{7}+\frac{1}{7}-\frac{1}{10}+\frac{1}{10}-\frac{1}{13}+\frac{1}{13}-\frac{1}{16}\right)$

$=\frac{1}{3}\times\frac{15}{16}$

$=\frac{5}{16}$

关注微信公众号“教辅资料站”获取更多学习资料

【点拨】将原式中的各分数进行拆分。如：$\frac{1}{1\times4}=\left(1-\frac{1}{4}\right)\times\frac{1}{3}$，$\frac{1}{4\times7}=\left(\frac{1}{4}-\frac{1}{7}\right)\times\frac{1}{3}$。

3. 原式 $=\frac{121\times1001}{21\times10101}\times\frac{12\times10101}{212\times1001}$

$=\frac{121\times12}{21\times212}$

$=\frac{121}{371}$

【点拨】先用分解因数的方法将分子、分母写成两数相乘的形式，再约分。

4. 原式 $=\frac{1}{13}\times91-\frac{1}{13}\times100+9\times\frac{1}{13}+11\div11+\frac{11}{12}\div11$

$=\frac{1}{13}\times(91+9-100)+1+\frac{1}{12}$

$=1\frac{1}{12}$

5. 项数：$(120-3)\div3+1=40$

和：$(3+120)\times40\div2=2460$

6. 原式 $=1-\frac{1}{128}=\frac{127}{128}$

第4招　巧抓不变量

1. $(40-1)\div3=13$（岁）

$1+13\times2=27$（岁）

答：王老师现在的年龄是27岁。

【点拨】王老师40岁与小李1岁的差相当于王老师与小李的3个年龄差。

2. $60\times3-30=150$（km）

答：甲、乙两地之间的路程是150 km。

【点拨】从开始出发到第二次相遇，两车共行3个全程，在1个全程里卡车行了60 km，在3个全程里卡车行了$60\times3=180$（km），这180 km正好是1个全程多30 km，这样即可求出全程。

3. $(21-13)\div\left(1-\frac{7}{15}\right)=15$（cm）

$21-15=6$（cm）

答：剪下的一段有6 cm长。

【点拨】两条纸带剪下同样长的一段后，短纸带剩下的长度是长纸带剩下长度的$\frac{7}{15}$，也就是说两条纸带的差$21-13=8$（cm），正好与$1-\frac{7}{15}=\frac{8}{15}$相对应，这样可求出长纸带剩下的长度，即可求出剪下的长度。

4. $(86-11)\div(7-2)=15$　$15\times2=30$

$30-11=19$

答：这个数是19。

【点拨】$\frac{11}{86}$的分子和分母同时加上一个相同的数，它们的差仍是75，这个差正好与$7-2=5$（份）相对应。

5. $1\div\left(\frac{1}{1+5}-\frac{1}{1+6}\right)=42$（人）

乙车间：$42\div\left(1+\frac{1}{6}\right)=36$（人）

甲车间：$36\times\frac{1}{6}=6$（人）

答：甲车间原来有6人，乙车间原来有36人。

【点拨】根据题意可知甲、乙两车间总人数不变，所以可以把总人数看成单位“1”，原来甲车间人数占总人数的$\frac{1}{1+6}=\frac{1}{7}$，从乙车间调1人到甲车间后，这时甲车间人数相当于总人数的$\frac{1}{1+5}=\frac{1}{6}$，而$\frac{1}{6}$与$\frac{1}{7}$的差正好与1人相对应，这样可以求出总人数，进而求出各车间原来的人数。

第5招　用“转化法”解决问题

1. 原式 $=\frac{4}{11}\times\frac{4}{5}+\frac{47}{11}\times\frac{2}{5}$

$=\frac{8}{11}\times\frac{2}{5}+\frac{47}{11}\times\frac{2}{5}$

$=\frac{2}{5}\times\left(\frac{8}{11}+\frac{47}{11}\right)$

$=\frac{2}{5}\times5$

$=2$

关注微信公众号“教辅资料站”获取更多学习资料

2. 原式 $=1-0.1-0.01-0.001-0.0001-0.00001$
$=1-(0.1+0.01+0.001+0.0001+0.00001)$
$=1-0.11111$
$=0.88889$

【点拨】先将题中的分数化成小数，再根据减法的性质计算。

3. $\left(1-\frac{2}{5}\right)\times\frac{4}{9}=\frac{4}{15}$

$200\div\left(\frac{2}{5}-\frac{4}{15}\right)=1500$（个）

答：这批零件共有1500个。

【点拨】先转化分率，看乙加工的相当于这批零件的几分之几，再求出与200个零件相对应的分率即可求出这批零件的总数。

4. 甲$\times\frac{2}{3}=$乙$\times\frac{4}{5}$

甲∶乙$=\frac{4}{5}:\frac{2}{3}=6:5$

甲：$88\times\frac{6}{6+5}=48$（千克）

乙：$88\times\frac{5}{6+5}=40$（千克）

答：甲袋大米重48千克，乙袋大米重40千克。

【点拨】根据甲袋大米的$\frac{2}{3}$与乙袋大米的$\frac{4}{5}$一样多，可得出甲、乙两袋大米质量的比，再按比分配即可求出每袋大米的质量。

5. $1\div7.5=\frac{2}{15}$

$\left[1-\left(\frac{1}{10}+\frac{2}{15}\right)\times1-\frac{1}{10}\times2\times0.5\right]\div\left(\frac{1}{10}\times2+\frac{2}{15}\right)=2$（天）

$2+1+0.5=3.5$（天）

答：抄完这份资料需要3.5天。

【点拨】先转化条件：甲外出1天，说明乙、丙合抄1天；丙休息0.5天，说明甲、乙合抄0.5天。再从总工作量中减去乙、丙合抄1天和甲、乙合抄0.5天的工作量就是甲、乙、丙三人合抄的工作量，这样就可求出三人合抄的天数，再加上乙、丙，甲、乙合抄的天数就是共需要的天数。

6. $6\times10\div2=30$（cm^2）

答：阴影部分的面积是30 cm^2。

第6招　用“画示意图法”解决问题

1. （2）$45\times(20-5)\div5=135$（m）

答：原计划每天修路135 m。

【点拨】根据示意图可知，实际每天比原计划多修45 m，15天多修$45\times15=675$（m），这675 m相当于原计划5天修的。

2. （1）图略　（2）$(30-18)\div(3-1)=6$（米）
$6+30=36$（米）　答：原来每根绳子长36米。

【点拨】第二根比第一根少用$30-18=12$（米），剩下的长度第二根是第一根的3倍，则12米相当于第一根剩下的2倍，那么第一根剩下的是$12\div2=6$（米），这样就可以求出原来每根绳子的长度。

3. （1）

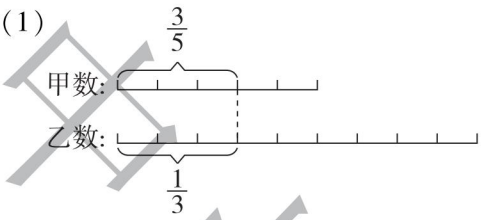

（2）$5\div9=\frac{5}{9}$

答：甲数是乙数的$\frac{5}{9}$。

【点拨】根据示意图可知，甲数是5格，乙数是9格，甲数是乙数的$\frac{5}{9}$。

4. （1）

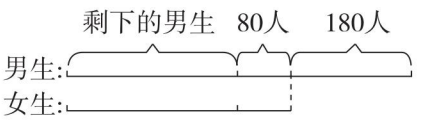

（2）男生：$(180+80)\times2=520$（人）
女生：$520-180=340$（人）

答：这个小学男生有520人，女生有340人。

【点拨】根据示意图可知，一半的男生是

关注微信公众号“教辅资料站”获取更多学习资料

80 + 180 = 260(人),则男生有 260 × 2 = 520(人),女生有 520 − 180 = 340(人)。

5. (1)

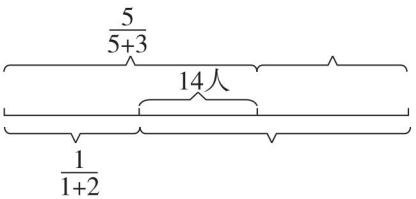

$(2)14 \div \left(\frac{5}{5+3}-\frac{1}{1+2}\right)=48$(人)

$48 \times \frac{5}{5+3}=30$(人)

48 − 30 = 18(人)

答:原来第一小组有 30 人,第二小组有 18 人。

【点拨】根据示意图和题意可知,原来第一小组的人数占总人数的$\frac{5}{5+3}$,从第一小组调 14 人到第二小组后,第一小组的人数占总人数的$\frac{1}{1+2}$,从图中可以看出 14 人与$\left(\frac{5}{5+3}-\frac{1}{1+2}\right)$相对应,这样就可求出总人数。

第 7 招　用“公式法”解典型应用题

1. 9.6 × 6 − 9.4 × (6 − 1) = 10.6(分)

9.6 × 6 − 9.8 × (6 − 1) = 8.6(分)

(9.6 × 6 − 10.6 − 8.6) ÷ (6 − 1 − 1) = 9.6(分)　答:去掉一个最高分和一个最低分,这名歌手的平均成绩是 9.6 分。

【点拨】此题可根据公式,平均分 × 人数 = 总分及总分 ÷ 人数 = 平均分解答。

2. $84 \div 36=\frac{7}{3}$

$(22-1) \div \frac{7}{3}=9$(个)

9 + 1 = 10(棵)

答:弟弟走到第 10 棵树。

【点拨】此题根据“时间一定,路程和速度成正比例”和“棵数 − 1 = 间隔数”来解答,哥哥的速度是弟弟的 $84 \div 36=\frac{7}{3}$,哥哥所行路程也是弟弟的$\frac{7}{3}$,再根据所行间隔数求弟弟走到第几棵树。

3. 下午 6 时是 18 时。

15 × (18 − 6) ÷ (18 − 8) = 18(千米/时)

12 × (8 − 6) ÷ (18 − 12) = 4(小时)

8 时 + 4 小时 = 12 时　答:丙 12 时追上乙。

4. 1 分 30 秒 = 1.5 分

(1000 − 750) × 1.5 = 375(米)

(375 + 135) ÷ 2 = 255(米)

255 − 135 = 120(米)

答:货车车身长是 255 米,客车车身长是 120 米。

5. (11 × 6 − 52) ÷ (6 − 4) = 7(条)

11 − 7 = 4(条)

答:大船租了 4 条,小船租了 7 条。

6. [(8 − 4) × 10 + 32] ÷ (8 − 5) = 24(只)

24 × 5 + 32 = 152(个)

答:猴山上有 24 只猴子,共买了 152 个桃。

【点拨】此题是根据“(盈数 + 亏数) ÷ 两次分配之差 = 份数”进行解答。先将“其中 10 只猴子每只分 4 个,其余的猴子每只分 8 个,就恰好分完”转化成“每只猴子分 8 个少(8 − 4) × 10 = 40(个)”,再根据上面的公式解答。

第 8 招　用“设数法”解决问题

1. 假设去年底提价前的价格是 100 元。

100 × (1 + 10%) × (1 − 10%) = 99(元)

(100 − 99) ÷ 100 × 100% = 1%

答:现在的价格比去年底提价前减少了,变化幅度是 1%。

2. 假设单程是 120 千米。

120 × 2 ÷ (120 ÷ 60 + 120 ÷ 40) = 48(千米/时)

答:王叔叔开车往返的平均速度是 48 千米/时。

【点拨】用设数法假设单程,再根据“总路程 ÷ 总时间 = 平均速度”进行解答。

3. 假设全班有 40 人。

$\left(88 \times 40-\frac{4}{5} \times 40 \times 92\right) \div \left(40-40 \times \frac{4}{5}\right)$

= 72(分)

答:剩下同学的平均分是 72 分。

关注微信公众号“教辅资料站”获取更多学习资料

4. 假设小张叔叔用了 4 小时，则小王叔叔用了 $4\times\left(1-\frac{1}{4}\right)=3$（小时）。

小王叔叔的工作效率是 $1\div3=\frac{1}{3}$，小张叔叔的工作效率是 $1\div4=\frac{1}{4}$。

$\left(\frac{1}{3}-\frac{1}{4}\right)\div\frac{1}{4}=\frac{1}{3}\approx33.3\%$

答：小王叔叔的工作效率比小张叔叔约高 33.3%。

5. 假设甲数是 25，甲数的小数点向左移动两位是 0.25。

乙数：$0.25\div\frac{1}{8}=2$

甲数：乙数 $=25:2$

答：原来甲、乙两数的比是 25∶2。

6. 假设三角形①的面积是 5，则三角形②③的面积都是 10，三角形④的面积是 20。

$(5+10)\div(10+20)=\frac{1}{2}$

答：三角形①②面积之和是三角形③④面积之和的$\frac{1}{2}$。

【点拨】根据“两条对角线的交点恰好是各自的一个三等分点”可知三角形②③的面积是三角形①的 2 倍，三角形④的面积是三角形②的 2 倍。

第 9 招　用“方程法”解决问题

1. 解：设大船有 x 只，则小船有 $(10-x)$ 只。

$6x+4(10-x)=46$

$x=3$

$10-3=7$（只）

答：大船有 3 只，小船有 7 只。

【点拨】此题的等量关系是：大船乘坐人数 + 小船乘坐人数 = 总人数。

2. 4 元 8 角 = 48 角

解：设这个班有学生 x 人。

$6x-48=5x+3$

$x=51$

答：这个班有学生 51 人。

【点拨】此题是根据买纪念品的总钱数不变列方程。

3. 解：设女生有 x 人。

$11x+506=16.5\times(x+24)$

$x=20$

$506+11\times20=726$（棵）

答：男、女生共植树 726 棵。

【点拨】此题应根据“男生植树棵数 + 女生植树棵数 = 总棵数”列方程。

4. 解：设学校有篮球 x 个。

$\frac{1}{3}x-\frac{1}{10}(100-x)=16$

$x=60$

$100-60=40$（个）

答：学校有篮球 60 个，足球 40 个。

5. 解：设解放军快艇从甲岛出发经过 x 分钟可以开炮射击敌舰。

$(1380-1000)x=1000\times12-600$

$x=30$

答：解放军快艇从甲岛出发经过 30 分钟可以开炮射击敌舰。

6. 解：设原来这个两位数的十位数字为 x，个位数字为 y。

$100x+y=9(10x+y)$

$x=\frac{4}{5}y$

因为 x，y 只能是一位整数，所以 $x=4$，$y=5$，故原来这个两位数是 45。

【点拨】因为两位数的两个数字都不知道，所以可以设十位数字为 x，个位数字为 y，再用含有字母的式子分别表示出两位数和三位数，最后根据三位数是两位数的 9 倍列方程解答。

第 10 招　用“整体分析法”解决问题

1. $51-\left[27.5\times\frac{3}{8}-\left(7.3-6\frac{37}{40}\right)+\square\div2\frac{2}{3}\right]\times\frac{4}{45}=50$

关注微信公众号“教辅资料站”获取更多学习资料

$\left[27.5\times\frac{3}{8}-\left(7.3-6\frac{37}{40}\right)+\square\div2\frac{2}{3}\right]\times\frac{4}{45}=1$

$27.5\times\frac{3}{8}-\left(7.3-6\frac{37}{40}\right)+\square\div2\frac{2}{3}=\frac{45}{4}$

$\square\div2\frac{2}{3}=\frac{21}{16}$

$\square=\frac{7}{2}$

2. $8\times5-7\times5=5$

$9-5=4$

答:改动的那个数原来是4。

【点拨】先求出改动前后五个数的和的差:$8\times5-7\times5=5$,说明其中一个数改动后,和增加了5,要得到原来的数,就用$9-5=4$,原来的数是4。

3. $\frac{1}{6}+\frac{1}{3}+\frac{1}{2}=1$

答:李林喝的牛奶和水一样多。

【点拨】根据“最后把一杯都喝了”说明牛奶喝了一杯,而水喝了多少要看加了几次,把加的几次加起来就是喝了多少水。

4. $100\times[2000\div(60+40)]=2000(\text{m})$

答:从小张、小李出发到相遇,狗一共跑了2000 m。

【点拨】先求出小张、小李的相遇时间,因为从开始出发到相遇狗一直在跑,这个相遇时间就是狗跑的时间,这样就可求出狗跑的路程。

5. $10\times10+20=120(\text{cm}^2)$

$BF=120\times2\div10=24(\text{cm})$

$CF=24-10=14(\text{cm})$

答:CF的长为14 cm。

【点拨】因为三角形AED的面积比三角形ECF的面积少20 cm^2,所以正方形$ABCD$的面积比三角形ABF的面积少20 cm^2。因为正方形$ABCD$的面积是$10\times10=100(\text{cm}^2)$,所以三角形$ABF$的面积是$100+20=120(\text{cm}^2)$,再逆用三角形面积公式就可求出$BF$的长,进而求出$CF$的长。

第11招 用“对应思想”解决问题

1. 原式$=(2-1)+(4-3)+(6-5)+(8-7)+\cdots+(1000-999)$

$=1\times1000\div2$

$=500$

2. $(8450-50)\div2=4200$

答:和是4200。

3. $(44+52)\div(2+4)=16(\text{只})$

$(44-2\times16)\div(4-2)=6(\text{只})$

$16-6=10(\text{只})$

答:原来鸡有10只,兔有6只。

【点拨】把原来的鸡兔看作第一群鸡兔,鸡与兔互换后看作第二群鸡兔,两群鸡兔合在一起总脚数为$44+52=96$(只)。接下来我们可以把第一群鸡兔中的鸡与第二群鸡兔中的兔对应起来组成一对,把第一群鸡兔中的兔与第二群鸡兔中的鸡对应起来组成一对,每对都有6只脚,这样共有$96\div6=16$(对)。由此可知有16只鸡兔,再用假设法即可求出原来鸡兔的只数。

4. $(150+100)\div2=125(\text{元})$

$(8100-125\times55)\div(300-125)=7(\text{个})$

$55-7=48(\text{个})$

$48\div2=24(\text{个})$

答:64G的U盘买了7个,32G的U盘和16G的U盘各买了24个。

【点拨】根据“32G的U盘个数与16G的U盘个数恰好一样多”,可以把一个32G和一个16G对应起来,然后把每个32G与16G的看成是24 G的。这时每个24G的价格是32G与16G价格的平均值,$(150+100)\div2=125$(元),这样就转化成典型的鸡兔同笼问题。

5. $6\div\left(\frac{1}{2}-\frac{3}{3+4}\right)=84(\text{km})$

答:两地相距84 km。

6. 16名运动员只有淘汰15名运动员才能决出单打冠军,所以一共要比赛15场。

【点拨】淘汰赛表示每赛一场要淘汰一名运

关注微信公众号“教辅资料站”获取更多学习资料

动员，这表明了一场比赛与淘汰掉一名运动员可建立“一对一”的对应关系，要淘汰多少名运动员，就要进行多少场比赛。

第 12 招　用“假设思想”解决问题

1. $600 \div (4 \times 2 + 12) = 30$（双）
$30 \times 2 = 60$（双）
答：每个纸箱装 30 双，每个木箱装 60 双。
【点拨】假设 600 双皮鞋都用纸箱装，则需要 $4 \times 2 + 12 = 20$（个）纸箱，这样就可求出每个纸箱装多少双皮鞋。

2. 设乙管每小时注水 1 t，则甲管每小时注水 1.5 t。
$[(1 + 1.5) \times 12 - 1 \times 9] \div 1.5 = 14$（小时）
答：甲管注水时间是 14 小时。
【点拨】假设乙管每小时注水 1 t，则甲管每小时注水 1.5 t，两管 12 小时共注水 $(1 + 1.5) \times 12 = 30$（t），由于乙管 9 小时注 9 t，余下的 $30 - 9 = 21$（t）水让甲管注，要注 $21 \div 1.5 = 14$（小时）。

3. $16 \div (3 \times 2 - 4) = 8$（次）
$8 \times 3 = 24$（个）
$4 \times 8 + 16 = 48$（个）
答：黑子有 48 个，白子有 24 个。

4. $80 \times 25 \div (30 - 25) \times 30 = 12000$（台）
答：这个厂十一月份计划生产 12000 台机器。

5. $\left(42 - 112 \times \frac{2}{7}\right) \div \left(\frac{4}{9} - \frac{2}{7}\right) = 63$（万元）
$112 - 63 = 49$（万元）
答：甲厂去年上缴税金 63 万元，乙厂去年上缴税金 49 万元。

6. $9 \times (3 - 1) = 18$（个）
$(99 - 10 + 1) \times (3 - 2) = 90$（个）
$(18 + 90) \div 3 + 732 \div 3 = 280$（页）
答：这本书共有 280 页。
【点拨】假设每页都用了 3 个数字，则这本书共有 $732 \div 3 = 244$（页），而实际有 9 页是 1 个数字，10 ~ 99 页共 90 页是 2 个数字，3 个数字比 1 个数字每页多用了 $3 - 1 = 2$（个）数字，9 页就多用了 $9 \times 2 = 18$（个）数字，3 个数字比 2 个数字每页多用了 $3 - 2 = 1$（个）数字，90 页就多用了 $90 \times 1 = 90$（个）数字。这样一共多用 $18 + 90 = 108$（个）数字，这 108 个数字又可编 $108 \div 3 = 36$（页），所以这本书共有 $244 + 36 = 280$（页）。

7. 成人票：$(6 \times 700 + 6200) \div (14 - 6) = 10400 \div 8 = 1300$（张）
学生票：$1300 + 700 = 2000$（张）
答：售出学生票 2000 张，成人票 1300 张。

第 13 招　用“类比思想”解决问题

1. $120 \div (6 - 0.5) = 21\frac{9}{11}$（分）
答：至少经过 $21\frac{9}{11}$ 分时针与分针重合。

2. $\left(1 - \frac{1}{10} \times 6\right) \div \frac{1}{50} = 20$（把）
答：可以买 20 把提琴。

3. $8 - \left(1 - \frac{1}{10} \times 8\right) \div \frac{1}{15} = 5$（天）
答：甲休息了 5 天。

4. $(71 - 3) \div (5 - 1) = 17$
$1 \times 17 - 3 = 14$
答：加上的这个数是 14。
【点拨】类比成年龄问题，根据差不变解决问题。

5. $99 \div (5 + 6) = 9$
$9 \times 6 = 54$
答：原数是 54。
【点拨】根据“十位数字与个位数字的和是 9”可知十位数字与个位数字交换位置后所成的新数与原数的和是 99，再根据新数是原数的$\frac{5}{6}$按比例分配。

6. 2 的倍数有：$100 \div 2 = 50$（个）
5 的倍数有：$100 \div 5 = 20$（个）
既是 2 的倍数又是 5 的倍数有：$100 \div (2 \times 5) = 10$（个）
$50 + 20 - 10 = 60$（个）
答：在 1 到 100 中，能被 2 或 5 整除的数有 60 个。

关注微信公众号“教辅资料站”获取更多学习资料

第 14 招　生活中的负数

1. 起点表示的数是 2。

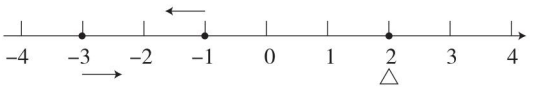

【点拨】此题可采用“还原法”解答，先画出直线图，从 −1 开始向左移动 2 个单位长度，再向右移动 5 个单位长度到起点。

2. 5 + 2 + 2 = 9（步）

4 + 3 + 3 = 10（步）

10 − 9 = 1（步）

答：红红后退了，后退了 1 步。

3. −300　+100　0　−1000　+1000　+2000　+3000

3000 + 2000 + 1000 − 1000 + 100 − 300 = 4800（元）

答：上周超市盈利了 4800 元。

4. 填表略。

井底的蜗牛第 8 天能爬出井口。

5. 300　820　820　550　560　450　460

第 15 招　正比例与反比例的应用

1. 解：设需要 x 分钟。

$\frac{2.8}{8-1}=\frac{x}{12-1}$　$x=4.4$

答：需要 4.4 分钟。

2. 解：设小明从一楼回到家需要 x 秒。

$\frac{36}{4-1}=\frac{x}{8-1}$　$x=84$

答：小明从一楼回到家需要 84 秒。

3. 解：设小东从家到学校的时间是 x 分钟时恰好不迟到。

$70\times(x-5)=45\times(x+5)$　$x=23$

$70\times(23-5)=1260$（m）

答：小东家到学校的路程有 1260 m。

4. 解：设蜡烛烧了 x 小时。

$\left(1-\frac{1}{3}x\right):\left(1-\frac{1}{2}x\right)=2:1$

$x=1.5$

8:00 + 1.5 小时 = 9:30

答：是夜里 9:30 来电的。

5. 解：设飞机去时用了 x 小时。

$1500x=1200\times(6-x)$　$x=\frac{8}{3}$

$1500\times\frac{8}{3}=4000$（km）

答：这架飞机最多飞行 4000 km 就需要返回。

6. 解：设甲得 $5x$ 分，乙得 $4x$ 分。

$(5x-25):(4x+25)=5:7$

$x=20$

$5\times20=100$（分）

$4\times20=80$（分）

答：甲得 100 分，乙得 80 分。

第 16 招　加法原理和乘法原理的应用

1. 5 + 6 + 3 + 2 = 16（种）

答：共有 16 种不同的取法。

2. 4 × 4 × 4 = 64（种）

答：报名的结果会出现 64 种不同的情形。

【点拨】三人报名参加比赛，彼此不受影响，可看作“三步完成”，首先芳芳报名，她可以报四项中的任何一项，有 4 种不同情形；然后媛媛报名，仍可报四项中的任何一项，也有 4 种不同情形；剩下丽丽报名同样有 4 种不同情形，所以共有 4 × 4 × 4 = 64（种）不同的情形。

3. 3 × 4 × 3 = 36（个）

答：可以组成 36 个不同的偶数。

4. 选 1 名女生，2 名男生：2 × 3 = 6（种）

选 2 名女生，1 名男生：1 × 3 = 3（种）

6 + 3 = 9（种）

答：一共有 9 种不同的选法。

5. 8 + 8 × 9 + 3 × 9 × 9 + 1 = 324（个）

答：在 1 至 400 的所有自然数中，不含数字 6 的自然数共有 324 个。

6. 3 × 3 + 3 × 3 = 18（种）

答：向上一面的数字之和为偶数的情形有 18 种。

关注微信公众号“教辅资料站”获取更多学习资料