东方杰创®
DONGFANG JIECHUANG
让 学习更快乐，人生更精彩

骄子之路®
the Road to Pride
主　编：邓保沧

45分钟

课时作业与单元测试

活页
可拆开使用

教辅资料站

电子教辅　试卷练习
知识总结　备课资源

扫码关注获取更多学习资料

提升＝基础＋能力＋方法
课时作业　基础自测·知能提升
阶段检测　梯度练习·评估达标
答案与解析　全解全析·点拨精准

历史

必修2·RJ

河北人民出版社

东方杰创®
DONGFANG JIECHUANG
让 学习更快乐，人生更精彩

骄子之路®
the Road to Pride
主　编：邓保沧

45分钟

课时作业与单元测试

活页
可拆开使用

提升＝基础＋能力＋方法
课时作业　基础自测·知能提升
阶段检测　梯度练习·评估达标
答案与解析　全解全析·点拨精准

历史

必修2·RJ

微信公众号
教辅资料站

河北人民出版社
石家庄

关注微信公众号“教辅资料站”获取更多学习资料

图书在版编目（CIP）数据

45分钟课时作业与单元测试．历史．必修2 / 邓保沧主编．— 2版．— 石家庄：河北人民出版社，2017.12（2019.10重印）
ISBN 978-7-202-12737-7

Ⅰ．①4… Ⅱ．①邓… Ⅲ．①中学历史课－高中－习题集 Ⅳ．①G634

中国版本图书馆CIP数据核字（2017）第323592号

编　委：张　力　周　杰　姜文勇
王晓磊　陈　青　李晨晖

书　名　45分钟课时作业与单元测试　历史　必修2
主　编　邓保沧

责任编辑　周建图　李　莉　刘一苇
美术编辑　李　欣
封面设计　欣　羽

出版发行　河北人民出版社（石家庄市友谊北大街330号）
印　刷　河北伦洋印业有限公司
开　本　880毫米×1230毫米　1/16
印　张　11
字　数　352 000
版　次　2017年12月第2版　2019年10月第3次印刷
书　号　ISBN 978-7-202-12737-7
定　价　46.00元

版权所有　翻印必究

微信公众号
教辅资料站

关注微信公众号“教辅资料站”获取更多学习资料



目录 CONTENTS

第一部分　课时作业

第一单元　古代中国经济的基本结构与特点 …… 1

第 1 课　发达的古代农业 …… 1

第 2 课　古代手工业的进步 …… 4

第 3 课　古代商业的发展 …… 8

第 4 课　古代的经济政策 …… 12

第二单元　资本主义世界市场的形成和发展 …… 15

第 5 课　开辟新航路 …… 15

第 6 课　殖民扩张与世界市场的拓展 …… 18

第 7 课　第一次工业革命 …… 21

第 8 课　第二次工业革命 …… 25

第三单元　近代中国经济结构的变动与资本主义的曲折发展 …… 28

第 9 课　近代中国经济结构的变动 …… 28

第 10 课　中国民族资本主义的曲折发展 …… 31

第四单元　中国特色社会主义建设的道路 …… 35

第 11 课　经济建设的发展和曲折 …… 35

第 12 课　从计划经济到市场经济 …… 39

第 13 课　对外开放格局的初步形成 …… 43

第五单元　中国近现代社会生活的变迁 …… 47

第 14 课　物质生活与习俗的变迁 …… 47

第 15 课　交通和通讯工具的进步 …… 50

第 16 课　大众传媒的变迁 …… 53

微信公众号 教辅资料站

关注微信公众号“教辅资料站”获取更多学习资料



目录 CONTENTS

第六单元　世界资本主义经济政策的调整 …… 57

第 17 课　空前严重的资本主义世界经济危机 …… 57

第 18 课　罗斯福新政 …… 60

第 19 课　战后资本主义的新变化 …… 63

第七单元　苏联的社会主义建设 …… 67

第 20 课　从“战时共产主义”到“斯大林模式” …… 67

第 21 课　二战后苏联的经济改革 …… 71

第八单元　世界经济的全球化趋势 …… 75

第 22 课　战后资本主义世界经济体系的形成 …… 75

第 23 课　世界经济的区域集团化 …… 78

第 24 课　世界经济的全球化趋势 …… 81

第二部分　阶段检测

单元质量检测卷(一)(第一单元　古代中国经济的基本结构与特点) …… 85

单元质量检测卷(二)(第二单元　资本主义世界市场的形成和发展) …… 89

单元质量检测卷(三)(第三单元　近代中国经济结构的变动与资本主义的曲折发展) …… 93

单元质量检测卷(四)(第四单元　中国特色社会主义建设的道路) …… 97

单元质量检测卷(五)(第五单元　中国近现代社会生活的变迁) …… 101

单元质量检测卷(六)(第六单元　世界资本主义经济政策的调整) …… 105

单元质量检测卷(七)(第七单元　苏联的社会主义建设) …… 109

单元质量检测卷(八)(第八单元　世界经济的全球化趋势) …… 113

第三部分　答案与解析

答案与解析 …… 118～172

提示：全书包括课时作业、阶段检测、答案与解析三部分，共计 176 页。

（根据教师教学情况不同，课时作业部分可在书中作答，也可撕下使用。）

微信公众号 教辅资料站

关注微信公众号“教辅资料站”获取更多学习资料

第一单元　古代中国经济的基本结构与特点

第1课　发达的古代农业

课前自检自查练　自主预习点对点　ZIZHUYUXIDIANDUIDIAN

一、耕作方式

1. 刀耕火种：原始社会的人们用石刀、石斧把树木砍倒，晒干后放火焚烧，然后用石犁翻土播种。

2. 石器锄耕：商周时期，出现青铜农具，但使用范围十分有限，主要工具仍是木制的[1]_____和石锄、石犁。

3. 铁犁牛耕

(1)春秋战国：开始使用铁农具和[2]_____，并逐渐推广。

(2)西汉：赵过推广[3]_____，后又出现犁壁和耧车。

(3)东汉：使用耦犁的牛耕方法推广到珠江流域。

(4)隋唐：江东地区出现[4]_____。这种犁安装了犁评，耕犁已相当完善。

对点训练 DUIDIANXUNLIAN

1. 史载："所种之地，唯以刀伐木，纵火焚烧，用竹锥地成眼，点种苞谷。"这反映的是　(　)

A. 铁犁牛耕　　B. 原始农业

C. 精耕细作　　D. 个体经济

2. 某学者认为"春秋战国时期农业实现了革命性的突破"。下列史实最能佐证这一观点的是　(　)

A. 县制的出现　　B. 铁农具的使用

C. 都江堰的修建　　D. 一牛挽犁的出现

3. 它在唐朝已经被使用，"是古代中国耕作农具成熟的标志，其优点是深浅自如、轻便省力"。该"耕作农具"是下列图中的　(　)



A　　B　　C　　D

二、农耕技术

1. 耕作技术

(1)春秋战国：使用当时世界上先进的[5]_____。

(2)汉朝：出现了二牛一人的犁耕法，赵过推行[6]_____。

(3)魏晋南北朝：北方旱地的[7]_____技术形成，南方的水田也采用耕耙技术。

2. 耕作制度

(1)两汉：耕作制度是以[8]_____为主。

(2)宋代以后：江南形成稻麦轮作的一年两熟制，有些地方形成一年三熟制。

3. 水利灌溉

(1)水利工程：战国时期的[9]_____、汉朝的漕渠、白渠和龙首渠等。

(2)灌溉工具：曹魏时改制了[10]_____；唐朝时创制了筒车；宋朝出现利用水力的高转筒车；明清时出现风力水车。

对点训练 DUIDIANXUNLIAN

4. 古人有诗云：清流直下宝瓶口，离堆千载怨声滔。沃野无垠天府裕，从此天下绝饿殍。此诗描述的水利工程是　(　)

A. 都江堰　　B. 郑国渠

C. 白渠　　D. 灵渠

5. 西汉时，赵过推行代田法，把田地开成一条条垄和沟，每年轮换在沟和垄上栽种，这样可以合理利用地力、保苗抗旱。这反映了我国古代农业经济的特点是　(　)

A. 小农经济　　B. 自给自足

C. 男耕女织　　D. 精耕细作

6. "翻倒，翻倒，喝得醉来吐掉。转来转去自行，千匝万匝未停。停未，停未，禾苗待我灌醉。"唐代诗人徐来军的这首《调笑令》描写的是　(　)

A. 筒车　　B. 翻车

C. 曲辕犁　　D. 水排

三、男耕女织的小农经济

1. 条件：春秋战国时，铁农具的出现和牛耕的推广；封建土地[11]_____逐渐确立。

2. 特点：以[12]_____为生产单位；男耕女织；自给自足。

3. 地位：是中国传统农业社会生产的[13]_____。

4. 影响：在较长时间内推动了社会的发展和经济的进步；由于小农经济长期牢固地存在，中国封建社会发展缓慢并长期存在。

对点训练 DUIDIANXUNLIAN

7. 个体生产是封建农业的标志，个体生产的发展速度从根本上说取决于　(　)

A. 铁农具的推广程度

B. 牛力等畜力使用程度

C. 封建政府重视程度

D. 土地私有化发展程度

8. 如图反映出的中国古代农业的基本特征是　(　)



A. 种植业与饲养业结合　　B. 精耕细作的生产方式

C. 男尊女卑的家庭关系　　D. 男耕女织的小农经济

关注微信公众号"教辅资料站"获取更多学习资料

学考基础合格练　学考基础练能力　XUEKAOJICHULIANNENGLI

1. 先秦时期的农作物品种经历了一个由多到少的过程，文献中有“百谷”“九谷”“六谷”“五谷”的演变。这表明先秦时期（　　）
A. 农业走向衰退　　B. 外来作物引进
C. 作物历经选择　　D. 经济重心南移

2. 春秋战国时期，我国的水利建设出现了一次高潮，同时推动了农业的发展。形成这种局面的原因是（　　）
A. 生产力的发展　　B. 水利技术的进步
C. 政治局面的稳定　　D. 耕作技术的进步

3. “其制两柄上弯，高可三尺……其所盛种粒，各下通足窍，仍旁挟两辕，可容一牛，用一人牵，傍一人执耧，且行且摇，种乃自下。”这段话描述的农具出现于（　　）
A. 秦朝　　B. 西汉
C. 唐朝　　D. 魏晋时期

4. 隋唐时期出现了一种安装有犁评的生产工具，可以调节犁耕的深浅，既简便又轻巧。它是（　　）
A. 耧车　　B. 翻车
C. 曲辕犁　　D. 筒车

5. 明代宋应星《天工开物》中记载：“扬郡以风帆数扇，俟风转车，风息则止，此车为救潦，欲去泽水，以便栽种。”材料描写的灌溉工具是（　　）


A


B


C


D

6. 古代俗语说，“养牛为种田，养猪为过年，养鸡为换油盐针线”。此俗语反映了小农经济的特点是（　　）
A. 男耕女织　　B. 极端贫困
C. 自给自足　　D. 自产自销

7. 阅读下列材料，回答问题。

材料一：对于大多数国家来说，铁制工具是最后过渡到农业的必要前提，铁为农业提供了犁，犁完成了重大的变革。铁犁牛耕使古代松辽地区的农业在其发展史上进入了一个新的阶段。两汉的铁犁影响了中国古代农业两千年。

材料二：


战国时期的耕作农具


西汉的耧车


汉墓出土的陶风车模型

材料三：宋代文集、笔记中，有不少“劝农文”。“劝农文”的内容主要是劝勉农桑和宣传农业生产技术。与农书不同的是，它比较注意针对当地的农业生产情况，文句简练，篇幅短小，带有文告性质，便于普及推广。

——摘编自白寿彝《中国通史》

(1)根据材料一并结合所学知识，分析铁犁牛耕对中国古代农业发展的影响。

(2)结合材料二及所学知识，分析中国古代农业生产的特点。

(3)材料三反映了什么本质问题？综合上述材料并结合所学知识，分析中国古代农耕经济发达的原因。

课时加餐拔高练　课后拔高练规范　KEHOUBAGAOLIANGUIFAN

课后加餐练

1. “春初砍山，众木尽嘶。至当种时，伺有雨候，则前一夕灭之，借其灰以粪。明日雨作，乘热下种，即苗盛倍收。”上述耕作方式是（　　）
A. 刀耕火种　　B. 铁犁牛耕
C. 耜耕　　D. 耦犁

2. 商代甲骨文中常见大雨、小雨、足雨、及雨、多雨、延雨、雨疾、各(至)雨、来雨、云雨等记录，“一年之中，无月不可以降雨”。这反映出在商代（　　）
A. 节气用于指导农业生产
B. 甲骨文记载内容的多样性
C. 农业生产具有重要地位
D. 神权成为维系统治的纽带

3. 《墨子》记载：“农夫早出暮入，耕稼树艺，多聚菽粟，此其分事也；妇人夙兴夜寐，纺绩积纴，多治麻丝葛布绳，此其分事也。”这句话直接反映了（　　）
A. 小农经济的生产方式
B. 手工业经济的生产方式
C. 古代妇女的地位较高
D. 商品经济的不发达

4. 下表为汉代各农耕区的劳动生产率比较表

农耕区域	年人均耕田数	平均亩产量	粮食总收入量
南方农耕区	23 小亩	1.37 石	32 石
中原农耕区	30 小亩	1.5 石	45 石
西北屯垦区	74 小亩	0.4 石	29 石

关注微信公众号“教辅资料站”获取更多学习资料

此表可以用来说明当时　　（　　）

A. 人多地少制约南方经济发展

B. 西北与南方生产力水平相近

C. 中原地区精耕细作技术领先

D. 地理环境决定农业生产水平

5. 古代流传有“湿耕泽锄，不如归去”“肥是农家宝，庄稼不可少”“且溉且粪，长我禾黍”等谚语。这些谚语反映出中国古代农业生产的特点是　　（　　）

A. 精耕细作　　B. 男耕女织

C. 注重把握农时　　D. 注重使用肥料

6. 汉代《淮南子·说山》一书中写道：“王法禁杀牛，犯禁杀之者诛。”该规定反映了　　（　　）

A. 封建王朝法律的系统性

B. 奖励耕战政策的必要性

C. 自给自足经济的脆弱性

D. 小农经济地位的重要性

7. “脚痛腰酸晓夜忙，田头车声响浪浪。高田车进低田出，只愿高低不做荒。”这首《竹枝词》描述的灌溉工具是　　（　　）



A. 耧车



B. 翻车



C. 筒车



D. 风力水车

8. 右图《雨中耕作图》（局部）截取自甘肃敦煌的唐朝壁画，它可以佐证　　（　　）



A. 中国古代耕犁技术的萌芽

B. 江东地区曲辕犁的结构变化

C. 西北地区已经使用耕犁技术

D. 传统农业自给自足的特点

9. 《论语·微子》记载，“丈人止子路宿，杀鸡为黍食”；唐诗记载，“故人具鸡黍，邀我至田家”。由此可以推知“黍”（　　）

A. 在古代已被广泛种植　　B. 在生活中有重要地位

C. 已经成为高产农作物　　D. 改变了人们饮食习惯

10. 明代时期关于苏南太湖地区生产生活的《便民图纂》载：“男子园中去采桑，只因女子喂蚕忙。蚕要喂时桑要采，事须分管讲相当。”这反映了　　（　　）

A. 农产品的商品化趋势　　B. 农民生活悠闲且富足

C. 古代农业的精耕细作　　D. 家庭生产的经营形式

11. 中国古代是一个以农立国，以农为本的国家。阅读下列材料：

材料一：武帝末年，悔征伐之事，乃封丞相为富民侯，下诏曰：“方今之务，在于力农。”以赵过为搜粟都尉。过能为代田，一亩三甽。岁代处，故曰代田。……用耦犁，二牛三人。一岁之收常过缦田亩一斛以上，善者倍之。……过试以离宫卒田其宫壖地，课得谷皆多其旁田亩一斛以上。……至昭帝时，流民稍还，田野益辟，颇有畜（蓄）积。

——《汉书·食货志上》

材料二：窃为四民之中，惟农最苦。农夫寒耕热耘，沾体涂足，戴星而作，戴星而息。蚕妇育蚕治茧，绩麻纺纬，缕缕而积之，寸寸而成之。其勤极矣。又水旱霜雹蝗蜮间为之灾。幸而收成……谷未离场，帛未下机，已非己有矣。农夫蚕妇所食者糠秕而不足，所衣者绨褐而不完。

——司马光《温国文正公文集》卷48

材料三：在传统时代，所谓农业生产结构，其主要生产要素可归纳为四项：(1)耕地；(2)作物；(3)农具；(4)劳力。……农业负担过重，这是一个比起小农经济的生产结构不符合现代要求更为严重，更为致命的病症。……中国的传统农业，无论从其现实的经济效益，还是潜在的发展可能，它自身不是不能转变，而是使其“自转变”的通道，受到来自帝国政治、经济体制的阻扼，被堵塞以致堵死。……农业经济效果、历史效应，不只取决于它生产的内环境，还要受制于它的外环境的有利与否。对传统中国而言，后者更是致命性的障碍。

——王家范《中国历史通论》

请回答：

(1)材料一反映了哪些进步的农业生产技术？农业技术的进步对农业产生怎样的作用？体现了怎样的特点？

(2)据材料二，归纳司马光认为“惟农最苦”的原因是什么。

(3)材料三中的“内环境”与“外环境”分别指什么？结合材料一、二，你如何认识材料三的观点？

课后拔高练

1. （2019·全国卷Ⅱ）战国后期，秦国建造了一批大型水利工程，如郑国渠、都江堰等，一些至今仍在发挥作用。这些工程能够在秦国完成，主要是因为　　（　　）

A. 公田制度逐渐完善　　B. 铁制生产工具普及

C. 交通运输网络通畅　　D. 国家组织能力强大

2. （2018·海南卷）唐宋时期，南方民众在丘陵山区的坡地开垦耕地，引泉水灌溉，形如阶梯，被称为山田，也叫梯田。这种做法　　（　　）

A. 推动了美洲农作物的传播

B. 加剧了土地兼并

C. 适应了南方深入开发需要

D. 刺激了人口南迁

3. （2017·全国卷Ⅱ）北朝时，嗜好奶类制品的北方人常常嘲笑南方人的喝茶习俗。唐中期，北方城市中，“多开店铺，煎茶卖之，不问道俗，投钱取饮。其茶自江、淮而来，舟车相继，所在山积”。据此可知，唐中期　　（　　）

关注微信公众号“教辅资料站”获取更多学习资料

A. 国家统一使南茶开始北运
B. 南北方饮食习惯趋于一致
C. 南方经济文化影响力上升
D. 南方经济水平已超越北方

4.（2016・全国卷Ⅰ）如图为汉代画像砖中的农事图。此图可以用来说明当时　（　）



A. 个体农户的生产劳作状态
B. 精耕细作农业的不断发展
C. 土地公有制下的集体劳作
D. 大地主田庄上的生产情形

5.（2015・全国卷Ⅰ）《吕氏春秋・上农》在描述农耕之利时不无夸张地说：一个农夫耕种肥沃的土地可以养活九口人，耕种一般的土地也能养活五口人。战国时期农业收益的增加　（　）
A. 导致畜力与铁制农具的使用
B. 抑制了手工业和商业的发展
C. 促进了个体小农经济的形成
D. 阻碍了大土地所有制的成长

6.（2015・全国卷Ⅱ）唐宋时期，江南经济迅猛发展，南宋时全国经济重心已移至江南。促成这一转变的主要动力之一是　（　）
A. 坊市制度瓦解　　B. 土地集中加剧
C. 农业技术进步　　D. 海外贸易拓展

第 2 课　古代手工业的进步

课前自检自查练　自主预习点对点　ZIZHUYUXIDIANDUIDIAN

一、官营手工业

1. 历程

（1）夏商周时，手工业由官府垄断，商周实行“[1]_____”制度。

（2）春秋战国时，官营手工业继续发展。

（3）西汉武帝以后，煮盐、[2]_____、铸钱等都收归官办。

2. 特点：由政府直接经营，进行集中的[3]_____生产；生产不计成本，产品大多精美。

3. 成就

项目 / 时期	冶铸业	制瓷业	纺织业
商周	青铜铸造进入繁荣时期	商朝时已烧制出原始瓷器	商朝已有织机，西周时能生产[4]_____织物
秦汉	东汉杜诗发明了水力鼓风冶铁工具——[5]_____	东汉烧出成熟的青瓷	西汉长安的东西织室有数千工人
魏晋南北朝	南北朝时发明了[6]_____	北朝烧出成熟的白瓷	——
隋唐	——	唐朝形成[7]_____两大制瓷系统	唐朝吸收[8]_____的织法和图案风格
宋元	——	宋代瓷窑遍布全国各地，出现了五大名窑	织锦吸收了花鸟画中的写实风格
明清	——	青花瓷、彩瓷、[9]_____争奇斗艳	在苏杭等地设[10]_____；缎成为清朝丝织品的代表

对点训练 DUIDIANXUNLIAN

1. 中国的青铜器之多之重要，在世界上是少有的。商周时代我国的青铜器主要属于　（　）
A. 农具和酒器　　B. 礼器和兵器
C. 礼器和用具　　D. 兵器和农具

2.《国语・齐语》：“昔圣王之处士也，使就闲燕；处工，就官府；处商，就市井；处农，就田野。”这则材料反映的我国古代手工业形态是　（　）
A. 官营手工业
B. 家庭手工业
C. 民营手工业
D. 官营和民营合并的手工业

3. 史载：唐代官营丝织业“凡织纴之作有十：一曰布，二曰绢，三曰施，四曰纱……八曰绮”，反映唐代官营丝织业生产　（　）
A. 分工细致　　B. 规模巨大
C. 品种丰富　　D. 供不应求

关注微信公众号“教辅资料站”获取更多学习资料

4.“……色白花青的锦鲤跃然于碗底，临摹宋体落款时却惦记着你，你隐藏在窑烧里千年的……在泼墨山水画里，你从墨色深处被隐去。”这首歌描述了始创于元代的（　　）
A. 白瓷　　B. 青花瓷
C. 粉彩瓷　　D. 珐琅彩

二、家庭手工业

农户的副业，产品主要用来交纳⑪_____和家庭消费，剩余一小部分作为商品出卖。

对点训练 DUIDIANXUNLIAN

5. 下图为南宋《脚踏三锭纺车图》。从中可以看出当时（　　）



A. 家庭手工业是手工业的主要形态
B. 民营手工业生产城乡所需日用品
C. 商品经济的繁荣带动手工业发展
D. 纺织业以手工劳动方式进行生产

三、民营手工业

1. 生产特点：由民间私人经营，主要生产供⑫_____的产品。

2. 发展历程

（1）早期状况：经历春秋战国和秦汉的发展后，魏晋南北朝时遭受摧残。

（2）隋唐时期：朝廷赋税户调的布、绢、锦等，多数出自农夫织妇之手。

（3）宋元时期：民间日常用品主要出自民营手工业；元代⑬_____推广棉纺织技术。

（4）明中叶以后：⑭_____占据手工业生产的主导地位；明朝中后期，在江南一些手工业部门开始出现了资本主义性质的生产关系。

对点训练 DUIDIANXUNLIAN

6. 明朝中期，苏州东城“比屋皆工织作”，杭州城东北“机杼之声，比户相闻”。这反映了苏杭地区丝织业（　　）
A. 民营作坊兴盛
B. 已采用大机器生产
C. 实行工官制度
D. 出现资本主义生产关系萌芽

7. 明朝时嘉兴石门镇有油坊二十家，“杵油须壮有力者……镇民少，辄募旁邑民为佣……一夕作，佣值二铢而赢”。这一记载反映的实质是（　　）
A. 当地人口严重不足
B. 当地出现资本主义萌芽
C. 当地工商业经济发展
D. 当地商品经济渗入农村

四、享誉世界

1. 西汉：中国丝绸远销亚洲、欧洲。运送丝绸产品的商路被后世称为“⑮_____”。

2. 唐朝：中国瓷器大量输出国外，远达欧洲、非洲。

3. 明清：通过海上丝绸之路，瓷器对外的销量更大。西方国家称中国为“⑯_____”。

对点训练 DUIDIANXUNLIAN

8. 明朝是中国陶瓷史上一个重要发展阶段，明朝瓷器上有以文字作为纹饰装饰内容。明朝烧制带有阿拉伯文和梵文图案的瓷器的主要原因是（　　）
A. 适应对外经贸交流的多种需要
B. 反映了中国各民族间联系加强
C. 为适应贵族生活多样化的需要
D. 体现当时兼容并蓄的对外政策

学考基础合格练 学考基础练能力 XUEKAOJICHULIANNENGLI

1. 在古代中国手工业的主要经营形态中，能征调最优秀的工匠、控制最好的原料、生产精美的产品的是（　　）
A. 官营手工业　　B. 民营手工业
C. 家庭手工业　　D. 官商合办手工业

2. 商代甲骨文中出现蚕、帛、丝、桑等字（如图），并由此辟生出从“桑”、从“糸”等与蚕丝有关的文字100多个。从中可以得出的认识是商代（　　）



A. 种桑养蚕现象开始出现
B. 丝、帛等成为主要衣料
C. 丝织业有一定程度的发展
D. 丝织业成为重要的手工业部门

3. 沈括《梦溪笔谈》载：“世间锻铁所谓钢铁者，柔铁屈盘之，乃以生铁陷其间，泥封炼之，锻令相入，谓之团钢。”这项技术最早出现于（　　）
A. 春秋时期　　B. 西汉
C. 南北朝　　D. 北宋

4. 元人熊梦祥在《木棉歌》中写道：“尺铁碾去瑶台雪，一弓弹破秋江云。中虚外泛搓成索，昼夜踏车声落落。”诗中描写的是（　　）
A. 家庭棉纺织生产的景象
B. 青花瓷生产的景象
C. 官营丝织业生产的景象
D. 青铜器生产的景象

5. 明朝时期，我国出现了资本主义萌芽，其本质特征是（　　）
A. 进行商品生产
B. 使用手工业机械进行集中劳动
C. 雇佣劳动关系
D. 商人投入资金控制手工业生产

6.“丝路花雨，铃声悠扬”是后人对古代东西方陆上贸易通道的描述，在该通道上流通的主要商品是（　　）
A. 玉米　　B. 丝织品
C. 马铃薯　　D. 烟草

关注微信公众号“教辅资料站”获取更多学习资料

7. 阅读下列材料，回答问题。

材料一：



图一 商朝后母戊大方鼎



图二 西周乍伯簋(一种盛食物的礼器)

材料二：在属于春秋时期的矿井遗址中，有石质工具和铜质工具；而在属于战国以后的矿井遗址中，有大量铁质工具。

材料三：昭王(指战国时期的秦昭王)曰："吾闻楚之铁剑利而倡优拙。夫铁剑利则士勇，倡优拙则思虑远。夫以远思虑而御勇士，吾恐楚之图秦也。"

——《史记·范雎蔡泽列传》

(1)仔细观察材料一中的图片，概述商周时期青铜器铸造的主要特点。

(2)与材料一相比，材料二反映了春秋时期在铜的使用上发生了怎样的变化？

(3)根据材料二、三和所学知识，分析战国以来铁器的应用领域及其产生的主要影响。

课时加餐拔高练　课后拔高练规范　KEHOUBAGAOLIANGUIFAN

课后加餐练

1.《吕氏春秋·召类》中写道："吾恃为鞍(指鞋)以食三世矣，今徙之，是宋国之求鞍者不知吾处也，吾将不食。愿相国之忧吾不食也。"这里"吾"的身份是　(　)

A. 官营手工业者　　B. 民营手工业者

C. 家庭手工业者　　D. 雇佣手工业者

2.《考工记》关于制作合金成分的叙述如下图，《考工记》的这一记载能够说明春秋时期　(　)

钟鼎之剂	斧斤之剂	戈戟之剂	大刃之剂	杀矢之剂	鉴燧之剂
铜85.71%	铜83.33%	铜80%	铜75%	铜71.43%	铜50%
锡14.29%	锡16.67%	锡20%	锡25%	锡28.57%	锡50%

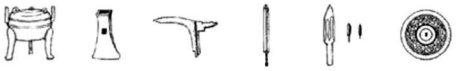

A. 青铜铸造技术的先进

B. 铁器产品多样化

C. 手工业生产规模庞大

D. 冶铁技术水平高超

3. 战国时期秦国的青铜兵器出土数量很多，不少带有铭文，如"相邦吕不韦戈""相邦义(张仪)戈""上郡守戈""陇西守戈"等。这些铭文证实　(　)

A. 兵器使用者为中央高级官员

B. 秦国人具有深厚的文化底蕴

C. 秦兵器分由中央和地方督造

D. 秦兵器带有显著的地域特色

4. 铸铁柔化处理技术和炼钢技术在汉初并不普及，但汉武帝后却得到迅速推广，工艺也更为成熟。其主要原因在于　(　)

A. 盐铁官营政策的推行

B. 民营手工业的发展

C. 水力鼓风冶铁工具的发明

D. 铁农具的广泛应用

5. 宋代诗人艾可叔在其作品《木棉》中有这样的描述："收来老茧倍三春，匹似真棉白一分。车转轻雷秋纺雪，弓弯半月夜弹云。衣裘卒岁吟翁暖，机杼终年织妇勤。"从中可以得到的历史信息是　(　)

A. 宋代棉纺织技术高度发达

B. 棉纺织业出现资本主义萌芽

C. 最迟在宋代棉纺织使用了纺车

D. 人们的衣食结构发生变化

6.《沈氏农书》中记载"家有织户，织与不织，总要吃饭，不算工本，自然有赢"。这段话反映了中国古代家庭手工业　(　)

A. 与农业相结合，竞争力强

B. 生产方式落后，效率较低

C. 以营利为目的，面向市场

D. 生产成本较低，自给自足

7. 白寿彝先生说："官方以法令来保护手工业技术的世代传习。有时，为了技术的世代传习，官府还要干涉某些手工业者家属的婚姻，使民间技术的传习成为顽固的传统。"这说明我国古代手工业　(　)

A. 技术水平领先世界　　B. 技术工艺不断创新

C. 技术传承封闭保守　　D. 技术交流范围广泛

8. 明朝中后期，瓷器的生产多采用"官搭民烧"的办法，在制瓷中心景德镇有民窑"形器走天下"之说。这充分说明了　(　)

A. 民营手工业超过官营手工业

B. 重农抑商政策的松动

C. 景德镇出现了资本主义萌芽

D. 景德镇瓷器天下无双

9. 明清时期，江南城镇附近农户不事农耕，"尽逐绫绸之利"，渐成风尚，城镇中"络纬机杼之声通宵彻夜"。这反映出当时江南地区　(　)

A. 农业生产遭到严重破坏

B. 家庭手工业注重面向市场

C. 世俗拜金主义之风盛行

D. 资本主义工商业发展迅速

关注微信公众号"教辅资料站"获取更多学习资料

10.《欧洲瓷器史》第一章提到：(明清时期，欧洲)“银器、精陶和其他器皿，被送到中国作为瓷器模型之用，以致中国提供到欧洲市场上的瓷器也包括了地道的欧洲风格的器皿”。这段材料主要说明　(　　)

A. 中国传统手工业发展受世界市场影响

B. 明清官窑瓷器大量投放市场

C. 政府对官瓷的工艺水平要求越来越高

D. 欧洲普遍采用中国的制瓷技艺

11. 阅读下列材料：

材料一：



采桑画像砖



东汉纺织画像石



西汉锦袍



折枝玫瑰花金宝地牧花缎

材料二：杭州……桑麻遍野，茧丝棉织之所出，四方咸取给焉。……毅庵祖……购机一张，织诸色纻帛，备极精工。每一下机，人争鬻之，计获利当五之一。积两旬，复增一机，后增至二十余。商贾所货者，常满户外，尚不能应。自是家业大饶。

——张瀚《松窗梦语》

材料三：郡城之东，皆习机业，工匠各有专能，匠有常主，计日受值。有他故，则唤无主之匠代之。无主者，黎明立桥以待：“缎”工立花桥；“纱”工立广化寺桥；以车纺丝者，车匠立濂溪坊。

——《苏州俗考》

请回答：

(1)从材料一的四幅图中可以获取怎样的历史信息？

(2)根据材料二，概括出毅庵祖“家业大饶”的原因。(不得摘抄原句)

(3)材料三与材料二相比，在市场和经营管理方面，有何新动向？

课后拔高练

1.(**2018·全国卷Ⅲ**)据考古报告，从数十处战国以前的墓葬中发现了铁器实物，这些铁器不少是自然陨铁制作而成，发现地分布情况见下图。据此可知，战国以前　(　　)

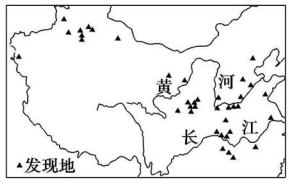

A. 铁制农具得到普遍使用

B. 新疆地区与中原联系紧密

C. 我国的冶铁技术已经相当普及

D. 铁器分布可反映社会发展程度

2.(**2018·全国卷Ⅰ**)北宋前中期，在今四川井研县一带山谷中，密布着成百上千个采用新制盐技术的竹筒井。井主所雇工匠大多来自“他州别县”，以“佣身赁力”为生，受雇期间，若对工作条件或待遇不满意，辄另谋高就。这反映出当时　(　　)

A. 民营手工业得到发展

B. 手工业者社会地位高

C. 雇佣劳动已经普及

D. 盐业专卖制度解体

3.(**2017·江苏卷**)《国语》讲“祀，国之大节”。有学者认为，青铜器在商周时期被视为“政治的权力”。可推断，商周时期青铜器主要用作　(　　)

A. 农具　　B. 礼器

C. 食具　　D. 货币

4.(**2016·海南卷**)下图是中国古代一面铜镜背面的局部，图饰为葡萄。它的制作朝代应当是　(　　)



A. 商　　B. 周

C. 秦　　D. 唐

5.(**2014·海南卷**)文献与考古表明，唐代中后期，“波斯锦”“胡锦”“番锦”通过丝绸之路，不断输入中国，内地也生产“胡式锦”。这表明　(　　)

A. 外来文化改变了唐代的社会生活

B. 唐代中后期手工业趋于衰落

C. 外来的丝织技术超过了唐朝

D. 中外文化交流互动日益深入

微信公众号
教辅资料站

关注微信公众号“教辅资料站”获取更多学习资料

第 3 课　古代商业的发展

课前自检自查练　自主预习点对点　ZIZHUYUXIDIANDUIDIAN

一、重农抑商下的古代商业

1. 商朝：商朝人以善于经商著称，因此后世将从事商业活动的人称为“商人”。

2. 春秋战国：官府控制商业的局面被打破，各地出现了许多商品市场和大商人，商人社会地位提高。

3. 秦汉：商人经商受时间、地点的限制，商业发展艰难，商业总体水平不高。

4. 隋唐：都市商业和农村[1]_____得到发展；柜坊和[2]_____相继问世。

5. 宋朝：商业环境相对宽松，商品种类增加，出现纸币“[3]_____”，商税收入成为政府的重要财源，商业空前繁荣。

6. 元朝：交通发达，[4]_____成为国际性的商业大都会。

7. 明清

(1)城镇商业繁荣，[5]_____大量进入市场成为商品。

(2)区域间长途贩运贸易发展较快，货币的作用越来越大。

(3)出现了地域性的商人群体，实力最强的是徽商和晋商。

对点训练 DUIDIANXUNLIAN

1. “肇牵车牛远服贾，用孝养厥父母。”(《尚书·酒诰》)“如贾三倍，君子是识。”(《诗经·大雅》)这两段材料的主题虽然是儒家思想，但也可以用来研究　(　)

A. 农业的产生　　B. 商业的发展

C. 手工业的进步　　D. 城市的变迁

2. 宋代出现了“交子”。“交子”的“交”，是交合的意思，指两张券合得起来就交钱。据此可知“交子”　(　)

A. 具有一定“防伪”功能

B. 满足商品经济发展的要求

C. 促进了古代经济的发展

D. 源于唐代类似汇票的飞钱

3. 一些商人以地域为中心、以血缘乡谊为纽带，自发组成了既“亲密”又松散的商人群体——商帮。这些商帮主要活跃于　(　)

A. 春秋战国时期　　B. 秦汉时期

C. 唐宋时期　　D. 明清时期

二、市的变迁和城市的发展

1. 市的变迁

	位置、时间	官府的监管力度	主要表现
宋朝以前	县治以上的城市，在特定位置设市，与[6]____严格分开，并有时间限制	官府设[7]____或市长，对市场交易进行严格管理	西汉长安设东西“市”九处；唐长安城设东西二市
宋朝及其以后	城市中“坊”和“市”的界限被打破；经营时间限制也被打破	市场交易活动不再受官府的直接监管	明清时，汉口镇、佛山镇、景德镇、朱仙镇发展成为四大商业名镇

2. 城市的发展

(1)原因：丝绸之路的开通，[8]_____的开凿，经济重心的逐渐南移等。

(2)表现

①北方：长安、洛阳、[9]_____、大都等大城市既是不同时期的政治中心、军事重镇，也是著名的商业中心。

②南方：扬州、成都等一批南方城市逐渐繁荣，出现“[10]_____”的说法。

对点训练 DUIDIANXUNLIAN

4. 据《史记》记载：“(战国)临淄之中七万户。临淄甚富而实，其民无不吹竽鼓瑟……者。临淄之途，车毂击，人肩摩。”材料最能说明战国时临淄　(　)

A. 是当时的商业都市

B. 城市居民全员参与休闲娱乐

C. 政府鼓励商业发展

D. 区域间长途贩运贸易发展较快

5. 据说西汉都城长安，有正式的“市”九处，在“市”的中央设置亭楼，四面建有门、墙。由此可知西汉　(　)

A. 商业非常繁荣　　B. 社会秩序紧张

C. 市场管理严格　　D. 经营规模狭小

关注微信公众号“教辅资料站”获取更多学习资料

6. 下表为北宋都城夜市的记载，由此可知，北宋　（　）

种类	概况
固定型店铺	酒楼、茶肆、金银首饰店、药铺等，其中大部分属于个体私营
半固定型摊贩	装饰品、迷信品、日用杂品、各类小吃
流动型摊贩	各类饮食

A. 社会崇尚奢靡之风
B. 商业管理制度较为混乱
C. 专业化市场已出现
D. 商业经营方式灵活多样

三、官府控制下的对外贸易

1. 表现

（1）西汉：由于开通了陆上和海上两条丝绸之路，中外贸易逐渐发展起来。

（2）唐朝：广州成为重要的外贸港口，政府在这里设⑪_____专管对外贸易。

（3）两宋：同亚非许多国家进行贸易，海外贸易税收成为南宋国库的重要财源。

（4）元朝：⑫_____成为当时世界第一大港。

（5）明清：对外贸易逐渐萎缩，清代只特许广州“⑬_____”统一经营对外贸易。

2. 特点：以⑭_____为主；以宣扬国威、加强与海外各国的联系，满足统治者对异域珍宝的需求为目的。

对点训练 DUIDIANXUNLIAN

7. 下面是南宋时期南海“华光礁1号”沉船中排列密集的部分外销瓷器图。此图可以用来说明　（　）



A. 宋代航海技术落后
B. 南海是中国固有领土
C. 宋代制瓷技术高超
D. 瓷器贸易有利可图

8. 明清时期，前来中国的外国使节称为“贡使”。据记载，贡使来华，旨准京城觐见，来往国书，献奇珍异物。帝嘉许，与之贸易，倍偿之。这种“贸易”形式　（　）
A. 有效阻止了西方的经济侵略
B. 促进了资本主义萌芽的发展
C. 造成了封建政府的财政负担
D. 加速了封建自然经济的解体

学考基础合格练　学考基础练能力　XUEKAOJICHULIANNENGLI

1. 在殷墟贵族墓葬中发现了许多随葬的贝壳，甲骨文中也有如下图所示的带“贝”的文字。这说明　（　）



買(买)　貯(贮)　貸(贷)　寶(宝)

A. 贝用于占卜　　B. 贝用于祭祀
C. 贝是装饰品　　D. 贝是货币

2. 西周时期实行“工商食官”制度，这表明当时的手工业和商业　（　）
A. 由官府控制
B. 不受官府的干预
C. 存在官营和民营的区别
D. 以民营手工业和商业为主

3. 某历史学习兴趣小组在研究中国古代商业时对某机构做出如下图描述。该机构是　（　）

> ①设置：前身于开元年间在广州设立，宋时正式设立。
> ②被称为中国早期的“海关”。
> ③其职责主要包括：颁发公凭、点检货品、博买、征税等。
> ④促进了中外贸易的有序发展。

A. 柜房　　B. 票号
C. 市舶司　　D. 十三行

4. “坊巷桥头及隐僻去处，俱是铺席买卖。”这则材料反映的商业繁荣的景象最有可能出现在　（　）
A. 商代　　B. 汉代
C. 唐代　　D. 宋代

5. 在中国古代，中国同南亚、非洲国家进行贸易是在（　）
A. 汉代　　B. 唐代
C. 两宋时期　　D. 明清时期

6. 明清时期的“富室之称雄者，江南则推新安，江北则推山右”。这一说法中的“富室”是　（　）
A. 地主　　B. 资本家
C. 商帮　　D. 官僚

7. 商业是古代经济中最活跃的因素。阅读下列材料：

材料一：自京师东西南北，历山川，经郡国，诸殷富大都，无非衔衢五通，商贾之所凑（聚集），万物之所殖者……宛、周、齐、鲁，商遍天下。故乃商贾之富，或累万金，追利乘羡之所致也。

——《盐铁论·力耕》

材料二：马行街铺席：马行北去旧封丘门外袄庙斜街州北瓦子……其余坊巷院落，纵横万数，莫知纪极（终极）。处处拥门，各有茶坊酒店，勾肆饮食。市井经纪之家，往往只于市店旋买饮食，不置家蔬……夜市直至三更尽，才五更又复开张。如要闹去处，通晓不绝。

——《东京梦华录·卷三》

关注微信公众号“教辅资料站”获取更多学习资料

材料三：(嘉定县南翔镇)“四方商贾辐辏，廛市蝉联”，但自明至清，“多徽商侨寓，百货填集，甲于诸镇”。

——摘编自《南翔镇志》

请回答：

(1)据材料一，概括“殷富大都”的特点，判断其描述的是哪一朝代的经济发展情况。

(2)据材料二，概括宋代商业发展的表现，指出其对城市布局和功能的影响。

(3)据材料三，指出明清时期商业有哪些新发展？综合以上材料，指出城市与商业发展之间的关系。

课时加餐拔高练　课后拔高练规范　KEHOUBAGAOLIANGUIFAN

课后加餐练

1. 战国后期，大商人吕不韦以自己的经济实力帮助嬴政之父秦异人争得王位，后来吕不韦做了秦国的相国。这反映的实质问题是　(　)
   A. 吕不韦是一位杰出的政治家
   B. 战国时期的商业非常发达
   C. 商品经济的发展已渗入到政治领域
   D. 官商勾结的现象在当时已经出现

2. 下面是关于古代中国某时期货币的发展演变图。这种变化反映出　(　)

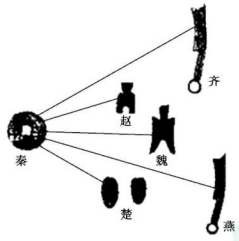

   A. 强国对小国经济控制加强
   B. 商品交换推动统一市场形成
   C. 封建经济由开放倾向保守
   D. 政治局面影响货币发展走向

3. 早在汉代就出现的商业现象是　(　)
   A. 富商大贾周流天下
   B. 草市迎江货，津桥税海商
   C. 夜市卖菱藕，春船载绮罗
   D. 今朝半醉归草市，指点青帘上酒楼

4. 丝绸之路开通后，西域有汗血马、毛皮、葡萄、核桃等传入中原，中原有丝绸、瓷器、茶叶、冶铁、凿井技术等传入西域。这说明　(　)
   A. 外来物品传入改善人民生活
   B. 中原生产力发展水平相对较高
   C. 以物易物是商贸的主要方式
   D. 商品经济发展推动丝路的繁荣

5. 魏晋南北朝时期商业发展相对缓慢，至隋唐时期，商业发达的城市广布于黄河流域、长江流域及沿海地区。促成这一变化的主要原因是　(　)
   A. 农业手工业发展　　B. 京杭大运河的开通
   C. 大一统局面形成　　D. 经济重心不断南移

6. 晚唐诗人李绅在《宿扬州》中写道：“夜桥灯火连星汉，水郭帆樯近斗牛。今日市朝风俗变，不须开口问迷楼。”这反映扬州　(　)
   A. 成为国际大都会　　B. 成为经济政治中心
   C. 商品经济的繁荣　　D. 开始出现娱乐场所

7. 历史学家钱乘旦说：“中国古代的城市与商业一贯发达，但中国的商业与城市一向都是在体制内发展的。”这说明中国古代城市　(　)
   A. 商业发展无障碍　　B. 商人地位高
   C. 主要具有商业功能　　D. 主要具有政治功能

8. “(建康)台城六门之外，各有草市，置草市尉司察之。”史书这一记载反映南朝时草市　(　)
   A. 政府实行行政管理　　B. 成为地方商业中心
   C. 具有饮食服务设施　　D. 不受官吏直接监管

9. 明代宋应星在《天工开物》中称颂：“幸生圣明极盛之世，滇南车马，纵贯辽阳；岭徼宦商，衡游蓟北。”这反映当时　(　)
   A. 形成了全国性的市场　　B. 手工业获得长足发展
   C. 对外贸易发达　　D. 出现资本主义萌芽

10. 明清时期中国对外贸易出现的新特点是　(　)
    A. 海上贸易通道已取代陆上丝绸之路
    B. 民间的自发贸易成为海上贸易主体
    C. 丝织品成为对外贸易中的主要商品
    D. 开始与西欧国家形成直接贸易关系

关注微信公众号“教辅资料站”获取更多学习资料

11. 阅读下列材料，回答问题。

材料一：隋唐两朝是史家津津乐道的中国城市发展的黄金时期，雄伟的长安城内外三重城墙，周回八十余里，相当于今天西安城的九倍还多。宫殿、官署都被围在宫城和皇城的高墙之中，坊区排列纵横有序，被南北十四条大街和东西十一条大街分割成棋盘状，市区则被固定在东西两区，有墙隔断，与坊区分开。按规定，坊区是居住区，市区为商业区，一切商业活动都规定在市区进行。

——《中国古代的城市与城墙》

材料二：江南地区自唐宋时代开始逐渐成为中国的经济中心，明中叶以后，当地传统市镇的军事及行政机能渐趋退化，商业机能日渐凸现，其规模和数量远超过宋代。至盛清时代，市镇经济呈现出空前繁荣的景象，市镇和农村之间逐渐形成一种生产与贸易的连锁体，构成市镇网络。

——《明清江南市镇与农村关系史研究概说》

(1)根据材料一，概括隋唐时期长安城的布局状况。结合所学知识分析其原因。

(2)综合上述材料并结合所学知识，分析影响中国古代城市经济发展的主要因素。

课后拔高练

1.（**2019·全国卷Ⅰ**）明中后期，大运河流经的东昌府是山东最重要的棉花产区，所产棉花多由江淮商人坐地收揽，沿运河运至江南，而后返销棉布。这一现象产生的主要因素是（　　）

A. 交通方式的变革　　B. 土地制度的调整

C. 货币制度的改变　　D. 地区经济的差异

2.（**2019·全国卷Ⅱ**）研究表明，明代大商人的资本一般为白银数十万两，多者上百万两。到清代中期，大商人的资本一般在一百万两以上，甚至多达千万两。这表明清代中期（　　）

A. 商人的地位发生根本性改变

B. 重农抑商政策明显松弛

C. 商业活动的规模进一步扩大

D. 白银开始成为流通货币

3.（**2018·海南卷**）据记载，南宋初年，杭州的餐饮名店遍布全城，西湖苏堤上一家鱼羹店味道独特，店主因此得到宋高宗的召见，获赏钱、绢若干。这表明当时（　　）

A. 社会上奢靡之风盛行

B. 商人的政治地位提高

C. 政府强化了市场管理

D. 城市的经济功能增强

4.（**2018·全国卷Ⅰ**）图中的动物是郑和下西洋时外国使臣随船向明政府贡献的奇珍异兽。明朝君臣认为，这就是中国传说中的“麒麟”，明成祖遂厚赐外国使臣。这表明当时（　　）



A. 对外交流促使中国传统绘画出现新的类型

B. 朝廷用中国文化对朝贡贸易贡品加以解读

C. 海禁政策的解除促进了对外文化交流

D. 外来物品的传入推动了传统观念更新

5.（**2017·全国卷Ⅱ**）下图为春秋战国之际局部示意图。当时，范蠡在陶、子贡在曹鲁之间经商成为巨富，这一现象反映了（　　）

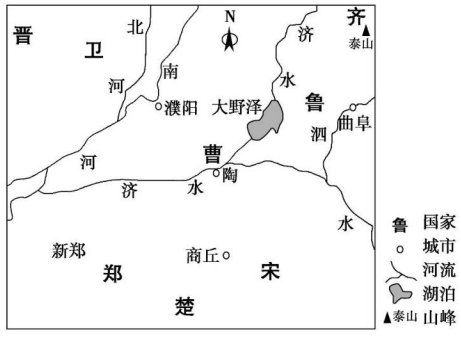

A. 区域位置影响商贸发展

B. 争霸战争促进经济交往

C. 交通条件决定地方经济状况

D. 城市规模扩大推动商业繁荣

6.（**2017·全国卷Ⅲ**）《史记》记载，西汉前期，从事农牧业、采矿业、手工业和商业的人，通过自己的努力和智慧而致富，“大者倾郡，中者倾县，下者倾乡里者，不可胜数”。这反映了当时（　　）

A. 义利观发生根本改变

B. 朝廷注重提高工商业者地位

C. 经济得到恢复和发展

D. 地方豪强势力控制了郡县

7.（**2017·全国卷Ⅰ**）明前中期，朝廷在饮食器具使用上有一套严格规定，例如官员不得使用玉制器皿等。到明后期，连低级官员乃至普通人家也都使用玉制器皿。这一变化反映了（　　）

A. 君主专制统治逐渐加强

B. 经济发展冲击等级秩序

C. 市民兴起瓦解传统伦理

D. 低级官员易染奢靡风气

关注微信公众号“教辅资料站”获取更多学习资料

第 4 课　古代的经济政策

课前自检自查练　自主预习点对点　ZIZHUYUXIDIANDUIDIAN

一、土地制度的演变

1. 原始社会：土地属于氏族公社所有。

2. 商周井田制

(1)一切土地属于国家，是奴隶社会的[1]_____制度。

(2)国王层层分封土地，受封者世代享用，但不得转让与买卖。

(3)庶民和奴隶在贵族封地上[2]_____，劳动产品归奴隶主所有。

3. 封建土地私有制

(1)形成的原因：生产力的发展是根本原因；各国变法承认土地私有是直接原因；战争频繁加速其形成。

(2)形成

①春秋时期，鲁国等诸侯国的税制改革实际上承认了土地私有的合法性。

②战国时期，[3]_____以法律的形式确立了封建土地私有制。

(3)弊端：土地兼并。

原因	根源：封建[4]_____和土地自由买卖制度 直接原因：地主依靠政治经济特权兼并农民土地
危害	大批自耕农失去土地；加剧社会矛盾；影响国家财政收入和徭役的征派
抑制措施	北魏至唐朝前期，政府实行均田制 明朝，政府按照人丁和田亩的多寡收取赋税

对点训练 DUIDIANXUNLIAN

1. 公元前 594 年，鲁国规定：不论公田、私田，都要按照田亩的实有数目收税。其中“公元前 594 年”属于　(　)

A. 前五世纪末　　B. 前五世纪初

C. 前六世纪末　　D. 前六世纪初

2. 钱穆在《国史大纲》中指出：“此制用意并不在求田亩之绝对均给，只求富者稍有一限度，贫者亦有一最低之水准。”据此可知，实行该“制”的目的是　(　)

A. 抑制土地兼并　　B. 增加财政收入

C. 缩小贫富差距　　D. 打击豪强地主

3. 造成古代中国封建社会出现“有力者无田可耕，有田者无力可耕”现象的根本原因是　(　)

A. 贵族、官僚及豪强霸占良田

B. 封建土地制度的存在

C. 政府采取不抑兼并的政策

D. 地权和劳动者的分离

二、“重农抑商”

1. 原因：商业与农业争夺劳动力，影响农业生产甚至危及封建政权统治。

2. 目的：保护农业生产和[5]_____，巩固封建统治。

3. 产生：战国时期，商鞅在秦国首倡。

4. 发展

(1)西汉：汉武帝推行货币官铸、盐铁酒专卖、向工商业者加重征税等政策，在一定程度上抑制了富商大贾的势力。

(2)明清：固守[6]_____政策，继续实行专卖制度，对民营商业加征商税，阻碍了资本主义萌芽的发展。

对点训练 DUIDIANXUNLIAN

4. 下图反映的信息，正确的是　(　)



A. 忠孝观念源远流长

B. 重农抑商观念根深蒂固

C. 小农经济具有稳定性

D. 海外贸易交通艰难

5.《明太祖实录》：“若有不务耕种，专事末作者，是为游民，则逮捕之。”明太祖诏：“商贾之家止穿绢布。”这些措施的根本目的是　(　)

A. 打击富商大贾　　B. 保护小农经济

C. 阻碍商业发展　　D. 镇压游民作乱

三、“海禁”与“闭关锁国”

	原因	表现	影响
明朝的“海禁”政策	明太祖担心流亡海上的敌对势力勾结[7]_____，危及统治	人民不得擅自出海与外国[8]_____，对外贸易只能在官方主持下进行	一方面，妨碍了海外市场的开拓，抑制了资本的[9]_____，阻碍了资本主义萌芽的滋长；另一方面，使中国逐渐落后于世界潮流
清朝的“闭关锁国”政策	为对付东南沿海的[10]_____斗争；认为天朝大国无须与外国进行贸易	厉行“海禁”，禁止官民私自出海；不许片板下海	

关注微信公众号“教辅资料站”获取更多学习资料

对点训练 DUIDIANXUNLIAN

6. 明朝政府下令：禁止建造远洋船只，禁止保留超过两根以上的桅杆帆船。从此，船员只得在内地小船上当雇工，郑和的大船因搁置而烂掉。以下对材料理解正确的是（　）
A. 明朝鼓励民间贸易　　B. 明朝禁绝朝贡贸易
C. 明朝实行海禁政策　　D. 明朝造船技术落后

7. “在广州，外人也是不自由的，夏秋两季是买卖季，他们可以住在广州的十三行……他们在十三行住的时候，照法令也不能随便出游。”这表明清政府（　）
A. 禁止外国商人来华
B. 重视维护外商利益
C. 加强沿海军事防御
D. 严格限制对外交往

8. “间年外域有人来，宁可求全关不开，人事天时诚极盛，盈虚默念惧增哉。”这是乾隆皇帝的御制诗，这一思想的深远影响是（　）
A. 使中国逐渐落伍于世界发展潮流
B. 阻碍了小农经济的发展
C. 抑制了明清时期的社会转型
D. 一定程度上维护了国家的安全

学考基础合格练 学考基础练能力 XUEKAOJICHULIANNENGLI

1. 从西周“溥天之下，莫非王土”到战国商鞅“废井田，开阡陌”，直接反映了（　）
A. 分封制瓦解　　B. 封建王权的强化
C. 土地所有制的变化　　D. 中央集权的加强

2. 北魏至唐朝前期，我国曾经实行过一种土地制度，即国家授田给农民，农民承担赋役。这种土地制度是（　）
A. 井田制　　B. 均田制
C. 私田制　　D. 公田制

3. 商鞅在秦国变法时规定：制止弃农经商，未经允许从商者罚作奴隶。此规定体现的经济政策是（　）
A. 海禁　　B. 闭关锁国
C. “重农抑商”　　D. 土地国有

4.《汉书·食货志》记载：“贾人有市籍，及家属，皆无得名田，以便农。敢犯令，没入田货。”该禁令的主要目的是（　）
A. 限制商人经营范围　　B. 增加赋税收入
C. 加强商人户籍管理　　D. 保护小农经济

5. 清朝有官员认为“洋商卖船与番，或载米接济异域，恐将来为中国患”。他支持的经济政策是（　）
A. 农战结合　　B. 对外开放
C. 重商　　D. “海禁”

6. 明清统治者推行“海禁”和“闭关锁国”政策，其主要影响是（　）
A. 妨碍了海外市场的开拓　　B. 保护了民族工业的发展
C. 避免了西方列强的侵略　　D. 有利于商品经济的发展

7. 阅读下列材料，回答问题。

材料一：（康熙元年）令滨海民悉徙内地五十里，以绝接济台湾之患。于是麾兵折界，期三日尽夷其地，空其人。……自有粤东以来，生灵之祸，莫惨于此。

——屈大均《广东新语》

材料二：（康熙五十五年下诏）海外有吕宋、葛喇巴等处，常留汉人，自明以来有之，此即海贼之薮也……东洋可使贸易，若南洋，商船不可令往。

——《清圣祖实录》

(1)根据材料一，归纳康熙帝实行“海禁”政策的原因和影响。

(2)根据材料二，归纳康熙帝实行“海禁”的主要目的。这里的“海禁”与材料一中的“海禁”有什么不同？

课时加餐拔高练 课后拔高练规范 KEHOUBAGAOLIANGUIFAN

课后加餐练

1.《诗经》是一部现实主义文学作品，具有重要的史料价值。其中“雨我公田，遂及我私”反映的是（　）
A. 精耕细作技术成熟　　B. 井田制趋于瓦解
C. 小农经济发展完善　　D. 土地兼并严重

2. 唐代后期，“远近异法，内外异制，民得自有其田而公卖之，天下纷纷，遂相兼并。”这表明当时（　）
A. 农业发展迅猛　　B. 曲辕犁推广
C. 井田制恢复　　D. 均田制被破坏

3. 宋代“不抑兼并”，导致了土地所有权的竞争与垄断，出现了“贫富无定势，田宅无定主，有钱则买，无钱则卖”的局面。这种局面客观上（　）
A. 减少了土地的垦荒面积
B. 适应了土地私有制的发展要求
C. 抑制了农民生产积极性
D. 加剧了土地的分散和贫富分化

4. 战国时期强调耕战和加强中央集权，由于商业的不稳定性及商人流动性大，于是出现了（　）
A. 工商食官政策　　B. 工商皆本政策
C. 闭关锁国政策　　D. 重农抑商政策

5. 汉代对大商贾重征商税，不许社会有大富之现象；唐初不收一切商业赋税，为前代所未有。这一变化反映出（　）
A. 汉代节制资本，有均富思想
B. 唐朝商人政治地位有所改善
C. 汉代开始实行重农抑商政策
D. 抑商政策在汉唐有不同表现

关注微信公众号“教辅资料站”获取更多学习资料

6.“重农抑商”政策得以长久实行的根本原因是　（　）
A. 适应了自给自足自然经济的需要
B. 中国一向具有重视农业的优良传统
C. 中国人口众多，解决吃饭问题是当务之急
D. 有利于巩固专制主义中央集权制度

7. 有学者认为，重农抑商政策基本上贯穿中国古代封建帝制王朝时期，其中秦朝、汉朝、唐朝、明朝、清朝时期的重农抑商政策更具有典型性。这一观点突出反映了（　）
A. 封建政权加强对社会经济的干预
B. 重农抑商政策多出现在统一王朝
C. 重农抑商的程度与王朝兴衰相关
D. 商业过度发展往往影响社会稳定

8. 伊恩·莫里斯在《西方将主宰多久》一书中写道：“大多数中国皇帝担心的，不是自己如何获得更多财富，而是外贸可能使不受欢迎的商人阶层致富。”为此明清皇帝采取的政策是　（　）
A. 工商皆本　　B. 海禁和闭关锁国
C. 重农抑商　　D. 断绝中西贸易

9. 某学生进行研究性学习，搜集的一条史料是：“（明中后期，有大臣）请开市舶，易私贩而为公贩……不得往日本……亦禁不得以硝黄、铜、铁违禁之物夹带出海。奉旨允行，凡三十载”。对该史料理解最恰当的是　（　）
A. 明代没有民间的海外贸易
B. 明政府曾奉行重商主义政策
C. 明政府曾有条件地允许海外贸易
D. 明政府从此废除“海禁”政策

10. 1647年，清政府规定，准许寓居澳门的葡萄牙商人“以携来番货与粤商互市”，但是“禁入省会”“止令商人载货下澳贸易”，结果“每岁通市不绝”。这一现象表明　（　）
A. 海外贸易管制相对宽松
B. 朝贡贸易关系迅速发展
C. 清廷海外贸易占据优势
D. 海禁政策得到有效执行

11. 阅读下列材料，回答问题。

材料一：今背本而趋末，…是天下之大残也；……今驱民而归之农，皆著于本，使天下各食其力，末技游食之民转而缘南亩，则畜积足而人乐其所矣。

——贾谊《论积贮疏》

材料二：明万历年间徽州人汪道昆的《太函集》中说：“吾乡左（轻视）儒右（崇尚）贾，喜厚利而薄名高，纤啬之夫，抉一缯而起巨万……要之，良贾何负于闳儒！”

材料三：研究华商历史的郭德利指出：“在史籍中并不乏有关从商致富的记载，但几乎毫无例外，过去几个世纪以来，商人最后总是倾向于把累积得来的财富或过剩的资本投资于购买土地，或供应下一代有闲沉浸于传统典籍，参与科举，以便进入官僚行列。即使有人终生以商贾为业，仍会要求其下一代尽可能转向科举。因此，我们可以说，引发人们营商致富的动机中，实已包含了否定或摧毁商业企业发展的因素。”

——选自《中国全史·商贾史》

（1）材料一体现了怎样的经济政策？在封建社会早期它起到了什么样的影响？

（2）材料二与材料一相比，明清时期人们在思想观念上发生了怎样的变化？简要分析其原因。

（3）据材料三及所学知识，指出“否定或摧毁商业企业发展的因素”，并说明其影响。

课后拔高练

1.（**2019·全国卷Ⅲ**）乾隆时江南地主“所居在城或他州异县，地亩山场皆委之佃户”。苏州甚至出现“土著安业者田不满百亩，余皆佃农也。上田半归于郡城之富户”。由此可知，当时江南　（　）
A. 土地所有权变更极为频繁
B. 农业生产利润微不足道
C. 个体农耕为主要生产形式
D. 农业中商品化生产普遍

2.（**2018·全国卷Ⅱ**）西汉文景时期，粮食增产，粮价极低，国家收取的实物田租很少甚至免除，但百姓必须把粮食换成钱币，缴纳较高税额的人头税。富商大贾趁机操纵物价，放高利贷，加剧了土地兼并、农户流亡。这反映出当时　（　）
A. 重农抑商政策未能实行　B. 自耕农经济发展受阻
C. 粮价低抑制了生产热情　D. 富商大贾操纵税收

3.（**2018·海南卷**）明中后期，有人议论，“商亦无害，但学者不当自为之，或命子弟，或托亲戚皆可”，否则一家老小都没有办法养活。这一议论反映了　（　）
A. 农本思想被否定　　B. 重商主义盛行
C. 传统义利观废弛　　D. 抑商观念削弱

4.（**2017·全国卷Ⅲ**）

表

土地规模（亩）	户数	户数比例
20以下	24	17.3%
20～130	103	74.1%
131～300	10	7.2%
300以上	2	1.4%
小计	139	100%

上表为唐代后期敦煌某地土地占有情况统计表。据此可知，当时该地　（　）
A. 自耕农经济盛行　　B. 土地集中现象突出
C. 均田制破坏严重　　D. 农业生产效率提高

5.（**2016·全国卷Ⅱ**）宋代，有田产的“主户”只占民户总数20%左右，其余大都是四处租种土地的“客户”。导致这种状况的重要因素是　（　）
A. 经济严重衰退　　B. 土地政策调整
C. 坊市制度崩溃　　D. 政府管理失控

关注微信公众号“教辅资料站”获取更多学习资料

第二单元　资本主义世界市场的形成和发展

第5课　开辟新航路

课前自检自查练　自主预习点对点　ZIZHUYUXIDIANDUIDIAN

一、新航路开辟的原因和条件

1. 原因

(1)经济根源:15世纪前后,西欧国家[1]_____发展,出现资本主义萌芽。

(2)社会根源:《马可·波罗行纪》的诱导,使欧洲出现了"寻金热"。

(3)商业危机:15世纪中叶,[2]_____帝国控制了东西方之间的商路。

(4)精神动力:教会鼓励人们去遥远的东方传播[3]_____。

2. 条件

(1)主观条件:葡萄牙和西班牙统治者积极支持海外探险,希望获得海外财富,以加强在欧洲的地位。

(2)客观条件:欧洲生产力的发展;[4]_____和造船技术的发展;地理知识的进步。

对点训练 DUIDIANXUNLIAN

1. 恩格斯说:"葡萄牙人在非洲海岸、印度和整个远东寻找的是黄金;黄金一词是驱使西班牙人横渡大西洋到美洲去的咒语……"这说明新航路的开辟已具备了　(　)
A. 宗教动力　　B. 社会根源
C. 客观条件　　D. 交通条件

2. 关于马可·波罗是否来过中国,中外史学界一直有两种不同的看法,但《马可·波罗行纪》对新航路的开辟却产生了重大影响。这表现在　(　)
A. 介绍世界地理知识
B. 介绍航海技术
C. 提出了地圆学说
D. 增强了欧洲人对东方财富的向往

二、新航路开辟的过程

时间	航海家(船队)	支持国	航　线
1487～1488年	迪亚士	葡萄牙	抵达非洲[5]_____
1492年	哥伦布	西班牙	横渡大西洋,到达美洲
1497～1498年	达·伽马	葡萄牙	沿着迪亚士开辟的航线到达印度
1519～1522年	[6]_____船队	西班牙	首度环球航行

对点训练 DUIDIANXUNLIAN

3. 世界知识出版社发行新作《好望角背后的故事》,书中的主人公是　(　)
A. 迪亚士　　B. 哥伦布
C. 达·伽马　　D. 麦哲伦

4. "征服了天堂的你,却征服不了黄金的欲望;执着的水手,却没有看到东方的黄金和香料"出自电影《1492征服天堂》中的一首插曲。插曲中的"天堂"是指　(　)
A. 非洲　　B. 亚洲
C. 美洲　　D. 欧洲

5. "西纪一千五、六百年之交,全欧沿岸诸民族,各以航海业相竞。……□□□沿亚非利加南岸,逾好望角,达印度,回航以归欧洲。"在□□□填写的航海家应是　(　)
A. 迪亚士　　B. 达·伽马
C. 哥伦布　　D. 麦哲伦

三、新航路开辟的影响

1. 对世界

(1)结束了世界各地[7]_____的状态,各地的文明开始会合交融,世界日益连成一个整体。

(2)以西欧为中心的[8]_____的雏形开始出现。

2. 对欧洲

(1)"商业革命":贸易规模不断扩大,商品种类日益增多,商业经营方式变化;贸易中心转移到[9]_____沿岸。

(2)"价格革命":黄金、白银大量流入欧洲,造成[10]_____,货币贬值。

(3)社会转型:加速了西欧封建制度的解体,促进了[11]_____的发展。

对点训练 DUIDIANXUNLIAN

6. 吴于廑、齐世荣主编的《世界史·近代史编》以1500年为世界近代史的起点,其主要理由可能是　(　)
A. 早期殖民扩张　　B. 商路中心转到大西洋沿岸
C. 世界贸易繁荣　　D. 人类开始由分散走向整体

7. 新航路开辟后,在西欧市场上出现的商品中最能体现时代特色的是　(　)


丝绸 A


茶叶 B


玉米 C


香料 D

8. 西欧新航路开辟和新大陆的发现,引发了西欧的"商业革命"。以下描述属于"商业革命"的是　(　)
A. 人文主义鼓励大胆追逐利益
B. 西欧金银价格下跌,物价上涨
C. 美洲烟草、棉花等传入欧洲
D. 世界各地连成一个统一的市场

关注微信公众号"教辅资料站"获取更多学习资料

学考基础合格练　学考基础练能力　XUEKAOJICHULIANNENGLI

1. 人类曾生活在彼此隔绝的地区，后来世界逐步连成一体。在此过程中起决定性作用的因素是　（　）
   A. 地理知识的积累
   B. 航海技术的进步
   C. 勇于探险的航海家的贡献
   D. 资本主义萌芽的出现
2. “星盘”和“指向标”的发明为新航路开辟创造了条件，表现在　（　）
   A. 地理知识的进步　　B. 造船技术的进步
   C. 航海技术的进步　　D. 天文知识的进步
3. 15 世纪末，率先在东西两个半球进行殖民掠夺活动的国家是　（　）
   A. 荷兰、英国　　B. 葡萄牙、西班牙
   C. 美国、苏联　　D. 德国、法国
4. 1522 年 9 月 6 日，某国国王举行褒奖仪式，特地制作了一个地球仪，赠送给生还的 18 位勇士，说：“你们第一个拥抱了地球。”这 18 位勇士隶属于　（　）
   A. 达·伽马船队　　B. 哥伦布船队
   C. 麦哲伦船队　　D. 迪亚士船队
5. 1520 年，一位萨克森商人在里斯本买到了许多玉米回去赚了大钱，他讲“要感谢上帝……”另一位商人说：你还要感谢　（　）
   A. 西欧一些特色农业区的资本家种出了玉米
   B. 葡萄牙商人从摩洛哥运回了玉米
   C. 阿拉伯人从非洲运来了玉米
   D. 西班牙人从美洲运来了玉米
6. 16 世纪末，西班牙物价平均上涨了 4 倍多，粮食上涨了 5 倍，英、法、德等国的物价平均上涨了 2 至 2.5 倍。这一现象导致了　（　）
   A. 西班牙成为殖民大国　　B. 资产阶级实力上升
   C. 封建主力量得到加强　　D. 欧洲普遍陷入贫困
7. 阅读材料，完成下列问题。

   材料一：黄金、香料、珠宝是西班牙人和哥伦布海外冒险的另一个重要动因。由于《马可·波罗行纪》中关于中国与日本的财富无穷的神话在当时的欧洲广为流传，激起欧洲人的无限遐想。

   材料二：如果全球化把欧洲人迈入大洋当作开始的话，那么走在前列的首先是伊比利亚半岛国家。他们以高效的行政机器组织远航，怀揣着传播上帝福音和寻找黄金的期盼揭开了不同种族、不同文明的大碰撞，充满“内在动力”的帆船运载着奴隶、黄金、香料，也撒播着诸如“地球是圆的”等进步光芒。

   ——摘编自巴勒克拉夫《处于变动世界中的历史》

   (1)根据材料一、二并结合所学知识，概括哥伦布海外冒险的动力因素。

   (2)根据材料二并结合所学知识，简单列举伊比利亚半岛国家的远航尝试，并概括其积极影响。

课时加餐拔高练　课后拔高练规范　KEHOUBAGAOLIANGUIFAN

课后加餐练

1. 下图是《万国宇宙图》中的一幅 14 世纪欧洲人对遥远国度的想象图。图中的人们身体畸形，似妖似兽，丑恶可怕。造成欧洲人这种认识的客观原因是　（　）



   A. 世界各地处于相对孤立的状态
   B. 新航路开辟前对东方人的丑化
   C. 对遥远国度的畸形人感到恐惧
   D. 生产力水平低人类未进化完毕
2. 斯塔夫里阿诺斯在《全球通史》一书中认为：即使哥伦布没有发现美洲大陆……在以后的几十年中其他人也会这么做。这个观点强调了新航路开辟的　（　）
   A. 可能性　　B. 偶然性
   C. 必然性　　D. 突发性
3. “孩子们围观着这些外国人，他们正在土地上插进一根大理石柱，柱身上刻着文字，那是用葡文写着：‘在耶稣基督诞生后 1498 年，葡萄牙君主国王曼努埃尔，派王室侍臣发现这块土地，并竖立这个标志。’”这里的“侍臣”应是　（　）
   A. 迪亚士　　B. 达·伽马
   C. 哥伦布　　D. 麦哲伦
4. 据统计，麦哲伦船队的船员来自十几个国家和地区，其中葡萄牙人 37 人，意大利人 30 多人，法国人 19 人，此外还有佛兰德（今属比利时）人、德国人、英国人等。这表明当时　（　）
   A. 葡意法成为航海活动的领导者
   B. 各国间加强了航海方面的合作
   C. 航海活动具有一定的社会基础
   D. 地圆学说的科学性已得到证实

关注微信公众号“教辅资料站”获取更多学习资料

5. 1494 年，西班牙和葡萄牙在教皇仲裁下，划定了一条如图所示的分界线。这意味着　　（　　）

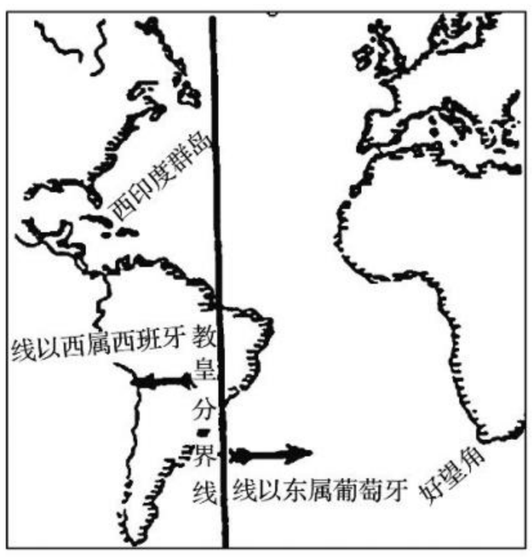

A. 两国当时的航海成果得到承认
B. 大西洋是两国争夺的焦点
C. 其他国家被永远排除在殖民争夺之外
D. 开辟新航路的目的是传播基督教

6. 学者认为，公元 1500 年前后是人类历史的一个重要分水岭，从那个时候开始，人类的历史才称得上是真正意义上的世界史。这里“分水岭”的含义是　　（　　）
A. 从封闭走向开放
B. 国际贸易中心转移到大西洋沿岸
C. 从分散走向整体
D. 人的注意力转移到现实生活中来

7. 1693 年，康熙患疟疾，服御医药无效。欧洲传教士献上原产美洲的金鸡纳，康熙服用后疟疾速愈。这反映了（　　）
A. 传统商路和国际贸易中心转移
B. 闭关锁国下的朝贡贸易繁荣
C. 殖民扩张使美洲社会遭到破坏
D. 地理大发现后洲际间物种的交流

8. 在历史研究中，新航路的开辟这一历史事件又被称为“地理大发现”“探索时代”“大航海时代”等。这些表述　　（　　）
A. 丰富史料实证　　B. 含有时空观念
C. 彰显家国情怀　　D. 属于历史解释

9. 下表是 16 世纪末欧洲部分主要国家的物价与 16 世纪初相比的上涨倍数。由此可以推断　　（　　）

国家	西班牙	英国	荷兰	法国
倍数	4.2	3	2.6	2.2

A. 社会分化正在加速　　B. 商业革命影响深刻
C. 世界市场初步形成　　D. 经济水平决定物价

10. 16 世纪，西班牙的手工业城市塞维尔，手工业者大都放弃或减少了低档商品的生产，而专注于高档商品的生产。这一现象　　（　　）
A. 促进了商品价格的大幅上涨
B. 预示了西班牙霸权的衰落
C. 反映了欧洲贸易中心的转移
D. 导致了民众购买力的下降

11. 阅读下列材料，回答问题。

材料一：木薯、马铃薯、甘薯和玉米，还有花生、豆类和西红柿，极大地丰富了整个世界可以利用的食物资源，并且一直持续到今天。“哥伦布交流”的结算清单很复杂，但这场交流开始以后，世界就不可否认地改变了。

——《世界文明史》

材料二：哥伦布没有到达印度，但他发现了至关重要的贵金属。据权威统计，从 1493 年到 1800 年世界白银产量的 85％和黄金产量的 70％来自拉丁美洲。美洲白银生产在 16 世纪约为 17 000 吨，到 17 世纪约为 42 000 吨，其中有 31 000 吨运往欧洲。欧洲又将约 40％运往亚洲……全球白银产量的一半最终抵达亚洲，尤其是中国和印度。

(1)根据材料一并结合所学知识，说明“哥伦布交流”使世界发生了哪些改变？

(2)根据材料二，简要说明 16～18 世纪美洲白银的主要流向(不能照抄材料)。造成美洲白银这样流动的主要原因是什么？

课后拔高练

1. (**2017 · 北京卷**)下图取材于欧洲画家斯泰达努斯的画作《新发现》(NOVA REPERTA)。图中所描绘的新发现　　（　　）



A. 有助于罗马帝国的海外扩张
B. 密切了世界各地之间的联系
C. 宣告了人文主义思想的诞生
D. 标志着英国海上霸权的确立

2. (**2015 · 广东卷**)一位哥伦比亚学者在“纪念美洲发现——两个世界文明汇合 500 周年国际学术讨论会”上说，“黄金和白银的作用只是使两个大陆之间的距离更加遥远了”。由此可知　　（　　）
A. 该学者关注殖民掠夺的后果
B. “两个大陆”指的是美洲和非洲
C. 黄金和白银阻碍了世界市场的形成
D. 该会议讨论的是英国人登陆美洲的意义

3. (**2014 · 天津卷**)1500 年，欧洲航海家卡布拉尔率远征队准备东去印度，但途中在赤道海流冲击下离开了航道，结果漂流到南美洲东部。他登陆后宣布该地为本国领地。这位航海家应属于　　（　　）
A. 西班牙　　B. 葡萄牙
C. 荷兰　　D. 英国

关注微信公众号“教辅资料站”获取更多学习资料

第 6 课　殖民扩张与世界市场的拓展

课前自检自查练　自主预习点对点　ZIZHUYUXIDIANDUIDIAN

一、荷兰的殖民扩张

1. 条件

(1)地理位置:濒临大西洋,地理位置优越。

(2)政治:1581 年,摆脱①_____的统治,赢得国家独立。

(3)经济:手工业发达,商船众多,有"②_____"之称。

2. 表现

(1)组建殖民机构:成立了③_____等垄断性的贸易公司。

(2)参与殖民争夺:在非洲,从葡萄牙手里夺取了④_____殖民地;在亚洲,夺取马六甲和锡兰,侵入今天的印度尼西亚一带,并一度占领中国领土台湾;在美洲,建立以⑤_____为中心的殖民地。

3. 结果:17 世纪,建立起世界性的⑥_____帝国。

对点训练 DUIDIANXUNLIAN

1. 17 世纪的荷兰被称为"海上的马车夫",从根本上说明了(　　)
   A. 荷兰占有广阔的殖民地
   B. 荷兰掌握着海上的商业霸权
   C. 荷兰商船当时数量最多
   D. 荷兰成为"世界工厂"

2. 17 世纪的荷兰通过创办养老院、孤儿院和救济院,举办医院,实行日常消费品低税政策等,过着富足的生活。出现这种兴盛局面的重要基础是(　　)
   A. 成为"日不落"殖民帝国
   B. 击溃西班牙的"无敌舰队"
   C. 发动对法战争并取得胜利
   D. 开展商业贸易和海外殖民

二、英国的殖民扩张

1. 条件

(1)地理位置:利用得天独厚的地理位置,加入海外贸易的竞争。

(2)政治:爆发革命,资产阶级开始掌握政权。

(3)经济:资本主义工商业日益繁荣,为殖民活动奠定物质基础。

(4)军事:大力发展⑦_____力量,为殖民争夺提供武力保障。

2. 表现

(1)英西战争:1588 年,英国击溃西班牙"⑧_____",开始确立海上霸主地位。

(2)英荷战争:17 世纪中期,英国夺取了荷兰在北美的殖民地新阿姆斯特丹,改名为纽约。

(3)英法战争:18 世纪中期,英国打败法国,最终确立了世界殖民霸权。

3. 结果:逐步建立起"日不落"的殖民帝国。

对点训练 DUIDIANXUNLIAN

3. 17 世纪的世界历史"以血与火的征服与掠夺"为主要内容,主要殖民国家之间展开了一场世界版的"三国演义"。它们是(　　)
   A. 葡、西、荷　　B. 英、西、荷
   C. 英、法、荷　　D. 英、法、俄

4. 16 世纪以后,英国加入海外贸易竞争,开展海外殖民活动,并逐步发展成为"日不落帝国"。英国走上海外殖民扩张道路的标志是(　　)
   A. 击败西班牙"无敌舰队"
   B. 颁布《航海条例》
   C. 夺取新阿姆斯特丹
   D. 建立东印度公司

5.《航海条例》是英国近代早期关于航海贸易的一系列立法。下列关于《航海条例》,说法正确的是(　　)
   A. 颁布于光荣革命之后
   B. 是自由主义政策的产物
   C. 与英荷海上争霸相关
   D. 使英国取得了世界霸权

6. 在长期的殖民争霸中,英国最终战胜法国成为世界上最大的殖民国家,表明(　　)
   A. 英国"大陆均衡政策"的胜利
   B. 英国有优势的海军力量
   C. 工业国对农业国的胜利
   D. 先进制度对落后制度的胜利

三、早期殖民扩张的途径与影响

1. 途径

(1)殖民掠夺:奴役殖民地人民,抢夺殖民地财富。

(2)种族灭绝:屠杀⑨_____。

(3)黑奴贸易:将大批非洲黑人贩运到美洲卖为奴隶。

2. 影响

(1)对欧洲:为西欧资本主义发展提供了⑩_____。

(2)对殖民地:造成极大的破坏和灾难。

(3)对世界:⑪_____进一步得到拓展。

对点训练 DUIDIANXUNLIAN

7."三角贸易"是 16～19 世纪西方殖民活动的一个重要方式。读下图《三角贸易示意图》,其中航程 B 贩运的主要是(　　)

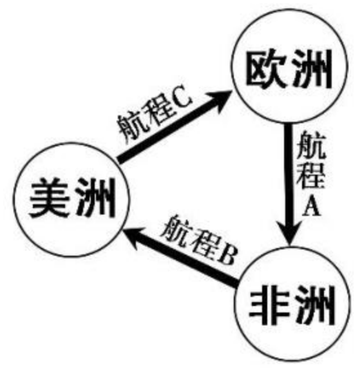

   A. 棉纺织品　　B. 香料和布匹
   C. 黄金和白银　　D. 黑人奴隶

8. 霍布斯鲍姆认为,西方的征服活动在当时(19 世纪 70 年代中期以前)殖民地产生的最明显结果是"失去整个……旧世界而未产生一个新世界"。这说明西方的征服活动(　　)
   A. 无法为殖民地创造新生的契机
   B. 给当地人民再度套上了枷锁
   C. 瓦解了殖民地封建剥削关系
   D. 造成殖民地社会人才断层

关注微信公众号"教辅资料站"获取更多学习资料

学考基础合格练　学考基础练能力　XUEKAOJICHULIANNENGLI

1. 1609 年，某地各种银行林立，成为欧洲的储蓄和兑换中心。此地还开启股票市场，进行融资和投机，被后人称为“17 世纪的华尔街”。“某地”是指（　　）
A. 英国的伦敦　　B. 法国的巴黎
C. 荷兰的阿姆斯特丹　　D. 意大利的威尼斯

2. 17 世纪上半叶是荷兰海上贸易的黄金时代。荷兰人在国际竞争中的重要手段是（　　）
A. 商业讹诈　　B. 组建商业公司
C. 炮舰政策　　D. 以武力为后盾

3. 16 世纪英国著名思想家培根说：“一个国家若能成为海上的主人就等于成了一个帝国。”在世界近代史上，英国为确立“海上的主人”地位，首先是打败了（　　）
A. 西班牙　　B. 葡萄牙
C. 荷兰　　D. 法国

4. 1664 年“新阿姆斯特丹”(New Amsterdam)更名为纽约市(City of New York)。下面漫画反映了更名后两个国家的关系，这两国最有可能是（　　）



A. 葡萄牙与西班牙　　B. 荷兰与英国
C. 英国与法国　　D. 美国与法国

5. 16 世纪，印第安人在给被征去矿山劳动的亲人送行时，就预先为他们举行送葬的仪式。据此可推知（　　）
A. 资本原始积累的血腥性
B. 当时矿山劳动时间太长
C. 印第安人的送丧仪式
D. 印第安人多被折磨致死

6. 从人类发展的角度看，殖民扩张在客观上的积极意义主要表现在（　　）
A. 促进了欧洲资本主义的发展
B. 客观上传播了先进的生产方式
C. 密切了世界各地的联系
D. 促进了世界各地的平衡发展

7. 阅读下列材料，回答问题。
材料一：就是这样一个地方，在三百年前，也就是 17 世纪的时候，却是整个世界的经济中心和最富庶的地区。一个仅有 150 万人口的荷兰，将自己的势力几乎延伸到地球的每一个角落，被马克思称为当时的“海上第一强国”。
——《大国崛起》
材料二：17 世纪中叶，英国资产阶级革命第一次从欧洲封建堡垒中打开了缺口……英国面临来自欧洲大陆封建势力的巨大压力。作为近代工业资本主义兴起的源头国家，英国资本主义的诞生，需要极强的力量反抗霸权并建立适合于自身发展的世界体系。
——摘编自张文木《欧美地缘政治格局的历史演变》
(1)结合材料一和所学知识分析指出，17 世纪的荷兰为什么能成为“海上第一强国”？

(2)根据材料二并结合所学知识，分析 17～18 世纪国际政治格局的主要特点。

课时加餐拔高练　课后拔高练规范　KEHOUBAGAOLIANGUIFAN

课后加餐练

1. 下图是美妙的荷兰景致。那一座座深褐色的传统风车不仅是荷兰的标志，还见证了荷兰 17 世纪作为“海上马车夫”的经济奇迹。对“海上马车夫”的确切理解是（　　）

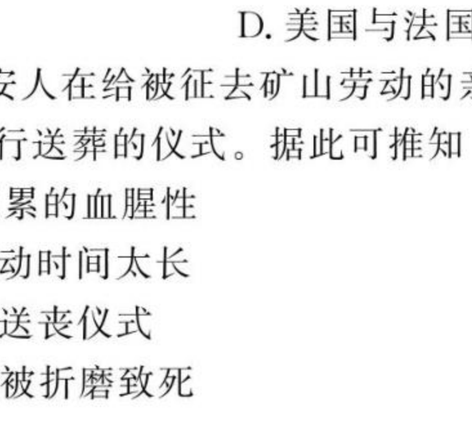

A. 荷兰的造船业最发达
B. 荷兰只能依靠替别国运输商品赚钱
C. 荷兰成为当时世界头号贸易强国
D. 荷兰的交通运输业发达

2. 有历史学家认为，近五百年来，真正意义上拥有过世界霸权的只有三个国家，这三个国家对市场经济进行了接力棒式的创新和发展。其中第一个国家对市场经济进行“创新和发展”是指（　　）
A. 创立现代商业、金融制度
B. 确立资本主义国家商业霸权范例
C. 率先推行自由主义经济模式
D. 开创国家垄断资本主义模式

3. 17 世纪上半叶，荷兰海军每次海战都可以出动 200 艘以上的战舰，18 世纪初，荷兰的舰队只有 12 艘能作战。由此可知，荷兰衰落的原因是（　　）
A. 荷兰海军的废弛
B. 英国海军的强大
C. 荷兰金融业发达
D. 荷兰手工业落后

关注微信公众号“教辅资料站”获取更多学习资料

4. 下列图片说明东印度公司的性质　（　）


不列颠东印度公司标志


东印度公司的武装商船



荷属东印度公司发行的铜币

A. 荷兰政府特许的商业股份制企业
B. 英国政府特许的金融证券公司
C. 西欧国家对外殖民扩张的工具
D. 西欧国家联合从事三角贸易的组织

5. “他们之间有遍布全球的冲突点——北大西洋的渔业、东方的商战、美洲的殖民地以及非洲和西印度群岛的奴隶贸易。这些争端直接促成 1652 至 1674 年的接连三次的战争。”这里的“他们”是指　（　）
A. 葡萄牙与西班牙　　B. 英国与西班牙
C. 英国与荷兰　　D. 英国与法国

6. 1651 年英国议会通过的《航海条例》规定：“一切输入英国的货物，必须由英国船只，或者由实际产地的船只运到英国。”它遭到荷兰的强烈反对，导致英荷战争爆发。由此说明这场冲突的实质是为争夺　（　）
A. 殖民霸权　　B. 商业霸权
C. 海运霸权　　D. 商品市场

7. 2018 年 12 月 29 日，英国国防大臣威廉姆森声称，“加拿大新西兰等传统殖民地国家期待我们领导”，对大英帝国的怀念溢于言表。英国成为“日不落帝国”应该是（　）
A. 17 世纪后半期　　B. 18 世纪后半期
C. 19 世纪上半期　　D. 19 世纪后半期

8. 一位非洲学者对近代以来欧、亚、非三洲的人口变化作了如下统计（单位：百万人），他制作了如下这张表格，最有可能是为了说明　（　）

	1650 年	1750 年	1850 年	1900 年
非洲	100	100	100	120
欧洲	103	144	274	423
亚洲	253	437	656	857

A. 非洲人口长期停滞在一亿人左右
B. 欧洲殖民者推行种族灭绝政策
C. 黑奴贸易给非洲人口带来惨重损失
D. 非洲人口在世界总人口比重下降

9. 下列对作者在书名中所用“海上囚徒”的解释，合理的是　（　）



A. 这种贸易中的奴隶都是各国的犯人
B. 海上航行时不服从者被囚禁在船舱
C. 奴隶贸易是解决非洲犯罪的主要措施
D. 贸易中被贩卖的黑人缺乏基本人权

10. 马克思说：“美洲金银产地的发现，土著居民的被剿灭、被奴役和被埋葬于矿井，对东印度开始进行的征服和掠夺，非洲变成商业性地猎获黑人的场所——这一切标志着资本主义生产时代的曙光。”这段话的主要观点是　（　）
A. 殖民扩张传播了资本主义生产方式
B. 殖民掠夺极大地促进了欧洲资本主义发展
C. 殖民掠夺是欧洲资本主义产生的前提条件
D. 殖民扩张给殖民地人民带来了巨大灾难

11. 近代欧美国家的崛起多与殖民扩张关系密切，但各国选择的立国道路又不尽相同。阅读下列材料：

材料一：荷兰人与海抗争的经历养成了荷兰人开放的性格；当时遭到迫害的天主教徒移民到尼德兰带来了葡萄牙、西班牙的先进技术；这也养成了他们对宗教信仰自由的包容，是第一个提倡宗教信仰自由的国家；独立后的荷兰是欧洲第一个发展资本主义的国家；为便利日益扩大的海上商业贸易，荷兰人勇于进行经济制度的创新，其最早创立了股份制、股份公司和股票交易所，并形成了近代的市场经济体制；然而当时在缺乏国际安全体系的情况下，商船往往成为各种海盗劫掠的目标，于是，荷兰发展起了规模巨大的商业船队和海军。

——邱妍《海洋与荷兰崛起》

材料二：值得注意的是，英国殖民贸易的鼎盛时期正是在英国进行工业革命的时期。这说明离开殖民贸易提供的充足的资金和原料，英国工业革命难以迅速完成。而工业革命的进展又为殖民贸易的进一步扩大提供了保障。英国就是在殖民贸易和工业革命相互促进的发展中，愈益富足起来。至 18 世纪 80 年代英国在资本积累、工业投资以及金融等方面已超过西班牙、法国、葡萄牙等欧洲强国而处于遥遥领先的地位。

——李德志《英国的殖民活动与“日不落”大帝国的崛起》

请回答：
(1)根据材料一，指出荷兰推行海外贸易的有利条件。
(2)根据材料二并结合所学知识，指出殖民扩张对英国的主要意义，简析英荷两国崛起方式的相同点。

关注微信公众号“教辅资料站”获取更多学习资料

课后拔高练

1.（**2019·全国卷Ⅰ**）有研究认为，美国独立后不到半个世纪，拉丁美洲经过独立战争，推翻了殖民统治，但拉美国家并没有像近邻美国那样独立后进入现代化的快车道，而是发展停滞，究其原因，殖民统治难辞其咎。“难辞其咎”主要是指殖民者在拉丁美洲　（　　）

A. 奴役掠夺土著居民

B. 建立的殖民统治最早

C. 进行了大量的移民

D. 移植了本国生产方式

2.（**2018·全国卷Ⅱ**）下图可以用来说明，奴隶贸易　（　　）

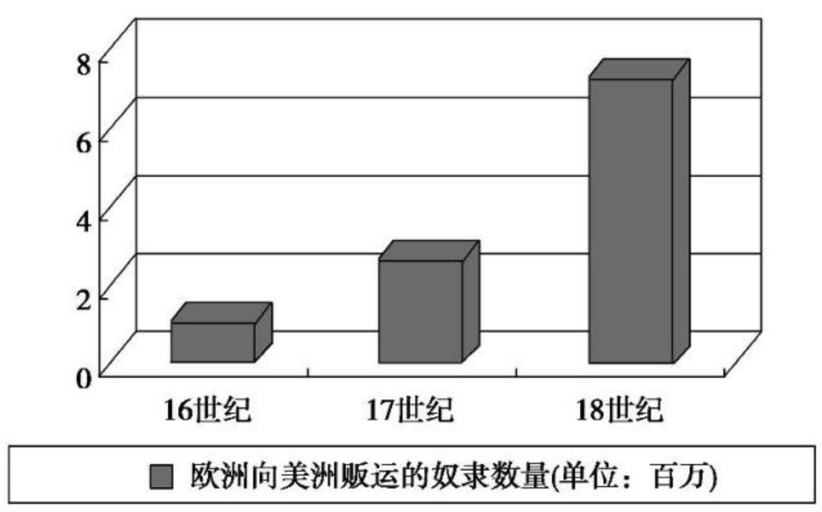

A. 是早期资本主义扩张的手段

B. 促成世界殖民体系最终确立

C. 导致“日不落帝国”的产生

D. 因白银开采的需要达到极盛

3.（**2018·海南卷**）有关欧洲近代史的一部著作形象地描述道：挪威是他们的森林，莱茵河两岸是他们的葡萄园，爱尔兰是他们的牧场，普鲁士、波兰是他们的谷仓，印度和阿拉伯是他们的果园。这段描述可以用来说明　（　　）

A. 西班牙的殖民扩张

B. 荷兰海上贸易的发达

C. 拿破仑帝国的兴盛

D. 英国殖民地版图广阔

4.（**2015·全国卷Ⅱ**）17世纪60年代，茶叶在英国只是上流社会的消费品；到18世纪末，茶叶已成为普通民众的日常消费品。这反映了当时的英国　（　　）

A. 等级观念明显淡化

B. 崇尚东方的生活方式

C. 贫富差距日益缩小

D. 扩大了与东方的贸易

5.（**2015·海南卷**）1500～1800年美洲人口结构发生变化，欧洲人、印欧混血人、非洲人、非欧混血人数量不断增加，并最终超过美洲原住民。造成这一变化的根本原因是　（　　）

A. 美洲原住民遭到大量屠杀

B. 欧洲人对美洲不断的探险和征服

C. 外来疾病导致美洲原住民大量死亡

D. 欧洲人在美洲大陆的分布越来越广泛

第7课　第一次工业革命

课前自检自查练　自主预习点对点　ZIZHUYUXIDIANDUIDIAN

一、第一次工业革命的背景

1. 政治前提：18世纪时，英国[1]＿＿＿＿＿＿的进一步发展。

2. 经济条件

（1）市场：殖民地为英国提供了广阔的海外市场。

（2）资本：许多人将通过殖民贸易和殖民掠夺获得的巨额财富，投资于[2]＿＿＿＿＿＿。

（3）劳动力：[3]＿＿＿＿＿＿为英国提供了自由劳动力。

（4）技术：手工工场日益兴旺，生产技术进一步发展。

3. 直接动力：市场的需求急剧扩大，推动[4]＿＿＿＿＿＿革命。

对点训练 DUIDIANXUNLIAN

1. 15世纪下半叶，英国有人形容“羊蹄可以把泥土变成黄金”。这喻指的历史现象是　（　　）

A. 圈地运动　　B. 手工工场

C. 君主专制　　D. 民族国家

2. 有人说“强盗——殖民经济”引发了工业革命。这样说是强调了工业革命产生需要的重要条件是　（　　）

A. 充足的资金和广阔的海外市场

B. 巨额的财富和生产技术的提高

C. 充足的劳动力和广阔的国内市场

D. 殖民扩张和资本主义制度确立

二、第一次工业革命的进程

1. 开始：18世纪60年代，哈格里夫斯发明“[5]＿＿＿＿”。

2. 扩展：在冶金、采煤等生产领域纷纷出现发明和使用机器的高潮。

3. 突破：1785年，瓦特研制成的[6]＿＿＿＿＿＿在工厂投入使用。

4. 完成：1840年前后，英国的[7]＿＿＿＿＿＿基本上取代了工场手工业，率先完成工业革命；不久，法、美等国相继完成工业革命。

对点训练 DUIDIANXUNLIAN

3. 英国的工厂最初是沿着河岸建立的，以后在人口稠密的内地城镇，工厂也增多了。出现这一变化的直接原因是　（　　）

A. 棉纺织业实现机械化

B. 改良蒸汽机的推广使用

C. 立体交通网络的诞生

D. 工业化和城市化的推动

4. 英国女王维多利亚在1851年的伦敦万国博览会开幕式上，脸上始终洋溢着自信和骄傲，主要是因为　（　　）

A. “光荣革命”成功

B. 君主立宪制度的完善

C. “日不落”帝国建立

D. 工业革命的巨大成就

关注微信公众号“教辅资料站”获取更多学习资料

三、第一次工业革命的影响

1. 生产力：人类社会进入⑧_____，社会生产力得到极大提高。

2. 生产组织形式：⑨_____成为工业生产的主要组织形式。

3. 产业结构：农业在国民经济中的比重相对减少，工业发挥了日益重要的作用。

4. 城市化：工厂逐渐集中，城市化进程明显加快。

5. 阶级关系：形成⑩_____和工业无产阶级两大对立阶级。

6. 社会变革：欧美资本主义国家纷纷进行社会变革，进一步巩固了⑪_____的统治。

7. 思想意识：资产阶级希望进一步摆脱封建束缚，要求自由经营、⑫_____和自由贸易。

8. 世界市场：19世纪中后期，以⑬_____国家为主导的世界市场基本形成，英国成为⑭_____和世界贸易中心。

对点训练 DUIDIANXUNLIAN

5. 下表所列数字的变化，反映了英国工业革命　（　）

英国纺织业中动力织布机台数变化表（单位：万台）

年份	1813	1820	1829	1833	1850	1861
台数	0.24	1.4	5.5	10	25	40

A. 改变了世界格局　　B. 密切了国际交流
C. 完成了城市化进程　　D. 提高了社会生产力

6. “随着机器的日益增多，传统的手工工场无法适应机器生产的需要，资本家开始建造工厂，安置机器，雇佣工人集中生产，这样，一种新的生产组织形式——工厂出现了。”由此可见，工业革命的实质是　（　）
A. 生产组织形式的革命　　B. 生产技术的革命
C. 生产方式的革命　　D. 社会关系的革命

7. 在英国，狭窄的铁路跨过像绿色海洋一样的乡间，把沿途被装进火车的英国人民，抛进城门口越来越稠密的人群之中。这一现象反映了工业革命　（　）
A. 缩小城乡差距　　B. 促进农业快速发展
C. 推动城市化进程　　D. 加速农村城镇化进程

8. 工业革命结束了民族地域历史，实现了从民族历史向世界历史的转变。其中“转变”的含义是　（　）
A. 东方从属于西方格局的形成
B. 世界开始成为一个整体
C. 资本主义世界市场初步形成
D. 民族主义萌发

学考基础合格练 学考基础练能力 XUEKAOJICHULIANNENGLI

1. 有人说：“如果瓦特早出生一百年，他和他的发明将会一起死亡！”这反映出　（　）
A. 科学理论对实际发明具有推动意义
B. 科学发明与社会需要联系紧密
C. 科学技术需结合才能推动社会进步
D. 发明蒸汽机的实际意义不是很大

2. 在经济史上第一个采用机器生产的部门是　（　）
A. 毛纺织业　　B. 棉纺织业
C. 机器制造业　　D. 汽车制造业

3. 瓦特制成改良蒸汽机极大地推动了工厂的广泛建立，它对工业革命最重要的影响是　（　）
A. 标志着英国工业革命的完成
B. 使机械化生产突破了自然条件的限制
C. 使英国工场手工业时代终结
D. 促进了英国重工业部门的发展

4. 下图为英国就业人口比重的变化示意图。

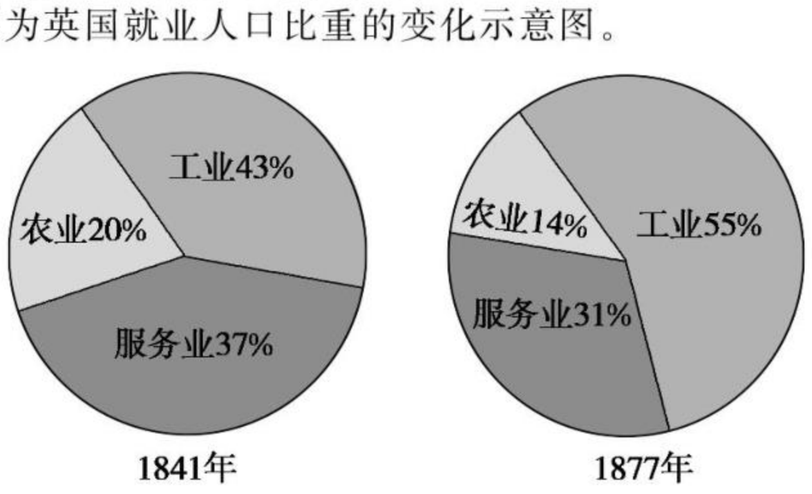

据此可知，当时的英国　（　）
A. 国民经济结构日趋合理
B. 农业生产实现机械化
C. “世界工厂”地位日益凸显
D. 工业化进展非常迅速

5. 英国首都伦敦曾经被称为“雾都”，因为那里一年中有四分之一的日子大雾笼罩。雾都的形成是由于伦敦地区　（　）
A. 大搞圈地运动　　B. 快速工业化
C. 使用蒸汽机　　D. 流行沙尘暴

6. 工业革命密切了当时世界各地之间的联系，最基本的媒介是　（　）
A. 先进的政治制度　　B. 先进的通讯手段
C. 具有威慑力的炮舰　　D. 价格低廉的商品

7. 阅读下列材料，回答问题。

材料一：环顾当时的世界，法国正在君主专制的鼎盛时期……大清王朝268年的江山才刚刚坐了44年。但是英国，这个地处边缘的小国，却在历史性的转变中抢占了先机，已经率先到达现代文明的入口处，即将一步步稳健地走向世界的中心。在下两个世纪里，它将傲视全球。

材料二：16～19世纪英国城市人口占总人口比例（%）

年代	1600	1670	1700	1750	1801	1851
比例	8.25	13.5	17.0	21.0	27.5	51.0

材料三：英国是蒸汽机的故乡。……可是煤烟带给英国的灾难是将房屋、树木、雕塑、桥梁一切都熏成黑色，就连泰晤士河也不例外。……伦敦的烟雾中毒事件也是全世界纪录之先……

——徐刚《世纪末的忧思》

关注微信公众号“教辅资料站”获取更多学习资料

(1)据材料一并结合所学知识,指出17～18世纪的英国是如何“在历史性的转变中抢占了先机”的。

(2)据以上材料并结合所学知识,说明英国工业化的影响。

(3)综合以上材料,对我国现代化建设有何启示?

课时加餐拔高练 课后拔高练规范 KEHOUBAGAOLIANGUIFAN

课后加餐练

1. 没有不列颠殖民帝国的建立,就没有后来的英国“工业帝国”。这说明殖民帝国的建立 (　　)
   A. 为“工业帝国”提供了政治保障
   B. 为“工业帝国”提供市场和资金
   C. 为“工业帝国”提供劳动力和市场
   D. 为“工业帝国”提供技术与资金
2. 1765年,英国织工哈格里夫斯发明了一种叫“珍妮机”的纺纱机……功效一下子提高了八倍。后来人们把“珍妮纺纱机”的发明和使用作为工业革命开始的标志,其主要依据是 (　　)
   A. 引发了发明机器的连锁反应
   B. 极大地提高了纺织品的产量
   C. 推动了机器制造业的出现
   D. 宣告了工业动力时代的到来
3. 下图是某同学在学习《英国工业革命》时所作的笔记,其中内容出现了疏漏。请结合所学知识,a、b处应该补上的内容是 (　　)

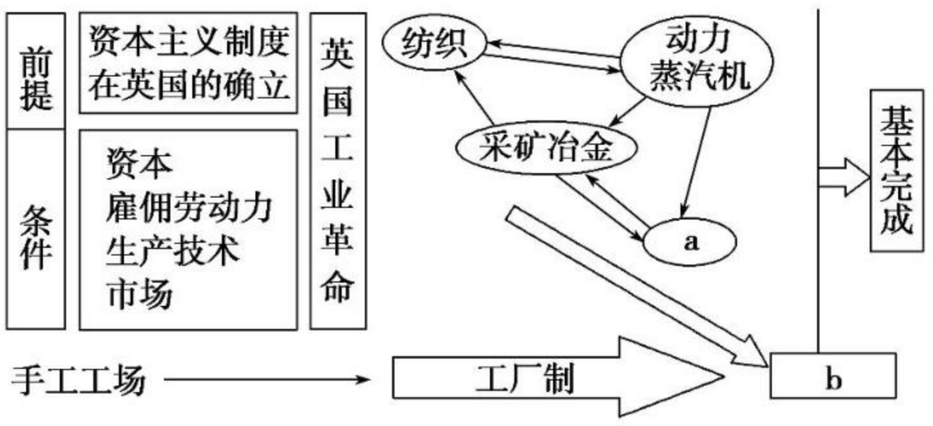

   A. 冶炼业/城市化进程加快
   B. 交通运输业/阶级产生分化
   C. 服务业/用机器制造机器
   D. 交通运输业/用机器制造机器
4. “在各个方面,有血有肉的工匠都被赶出他的作坊,让位给一个速度更快的、没有生命的工匠。梭子从织工的手指间掉落,落入到穿梭更快的铁指当中。”材料反映出 (　　)
   A. 纺织业生产方式发生改变
   B. 英国纺织业日益走向衰落
   C. 纺织工匠的技能日益落后
   D. 蒸汽机得到了广泛的应用
5. “在17世纪,(英国)煤的运输方面的困难,曾是其作为燃料的一大缺陷,但到19世纪30年代后,煤就可以自己运输自己了。”材料现象反映 (　　)
   A. 煤炭已成为工业主要能源
   B. 英国急需煤炭的大量进口
   C. 铁路是煤的主要运输方式
   D. 近代的电力工业发展迅速
6. 19世纪中期,欧洲的技工学校和工人学院为女生开设读、写、算术、平板缝纫等课程;男生则学气象学、地质学、陶瓷制作、电学等课程。以下选项最符合材料主旨的是 (　　)
   A. 男尊女卑思想依然严重
   B. 男女平等观念不占主流
   C. 工业化加剧了性别歧视
   D. 工业化强化了性别分工
7. 18世纪60年代,英国城乡人口的比例为1∶2;19世纪初上升为2∶3,你认为这种变化最主要的原因是 (　　)
   A. 大量吸引外来移民
   B. 大量人口不断迁往殖民地
   C. 圈地运动使农民流入城市
   D. 工业革命改变了人口布局
8. 下表罗列了1870～1900年间美、欧、亚、非四大洲的铁路长度(单位:千公里)。结合数据分析可得出的正确结论是 (　　)

年份	欧洲	美洲	亚洲	非洲
1870	105	93	8	2
1880	169	175	16	5
1890	224	331	34	9
1900	284	402	60	20

   A. 美国开始主导世界市场
   B. 非洲尚未接触工业文明
   C. 工业化成果在世界扩散
   D. 铁路发展呈现均衡态势

关注微信公众号“教辅资料站”获取更多学习资料

9. 到 19 世纪蒸汽时代，资本主义取得了决定意义的胜利。其含义之一是（　　）

A. 蒸汽机已广泛应用于工业生产

B. 一系列国家通过改革进入资本主义社会

C. 全人类已经进入资本主义社会

D. 资本主义的统治地位最终得以确立

10. 工业革命带来的巨大变革不止是技术上的，用诺贝尔经济学奖得主、芝加哥大学卢卡斯教授的话说，历史上第一次人们开始无所畏惧，“人定胜天”“人是自然界的主宰”的思想日益增强。作者主要想说明工业革命（　　）

A. 促进人们思想解放　　B. 带来技术突飞猛进

C. 增强改造自然能力　　D. 促使科学奖项设立

11. 阅读下列材料，回答问题。

材料一：早在 1800 年前，英国的矿山已经使用“铁路”（铁轨），马拉的货车，将煤运到运河或者海边。1829 年，利用蒸汽机做动力的火车在新建成的铁路上行驶，达到令人印象深刻的时速 16 英里。当时，有铁路公司的董事们指出“用机车牵引比用马力牵引可节省经费百分之三十”。到 1835 年底，议会相继通过了五十四项各式各样的铁路条例。到 19 世纪中期，通车的铁路整整五千英里。此时的欧洲正处于建设铁路的时代。

——摘编自[英]克拉潘《现代英国经济史》等

材料二：19 世纪下半叶，欧洲的铁路修建达到高潮。人们通过铁路把大量的炭、原材料运往城市，还能把城市的手工制品输送到其他地方。铁路运输首次实现大规模、低成本、高速度的陆上货物配送，深入大陆与国家的偏远内地。19 世纪晚期，铁路衔接上以蒸汽为动力的海运路线，跨洲的大宗货运走陆路和海路从此一样容易，贸易的流动不再受大自然左右。

——据[美]诺曼·里奇《现代欧洲史》等整理

(1)根据材料一并结合所学，指出英国工业革命时期铁路建设迅速发展的原因。

(2)结合材料二和所学，概括欧洲的铁路建设对市场形成的重要意义。

课后拔高练

1.（**2019·全国卷Ⅰ**）工业革命前，英国矿井里使用蒸汽唧筒抽水。1765 年，修理过唧筒的瓦特发明了一种单动式蒸汽机，后在工厂主的合作和资助下，终于改进制成“万能蒸汽机”，并广泛使用到工业领域。该过程表明，第一次工业革命期间生产领域的主要发明创造（　　）

A. 源自于劳动实践

B. 依赖于科学理论的突破

C. 取决于资金保障

D. 得益于各阶层广泛参与

2.（**2018·全国卷Ⅰ**）传统观点认为，英国成为工业革命发源地，是因为英国最早具备了技术、市场等经济条件；后来有研究者认为，其主要原因是英国建立了君主立宪制度；又有学者提出，煤铁资源丰富、易于开采等自然条件是其重要因素。据此可知，关于工业革命首先在英国发生的认识（　　）

A. 只能有一种正确合理的观点

B. 随着研究视角拓展而趋于全面

C. 缺少对欧洲其他国家的观察

D. 后期学者研究比传统观点可信

3.（**2017·全国卷Ⅰ**）

表

英国国民总收入变化表			
年份	约 1770	约 1790～1793	约 1830～1835
数额(百万英镑)	140	175	360
英国工人实际工资变化表(即按实际购买力计算的工资，1851 年为 100。)			
年份	1755	1797	1835
指数	42.74	42.48	78.69

综合上表可知，在工业革命期间，英国（　　）

A. 工人实际收入与经济发展同步增长

B. 经济快速发展依赖于廉价的劳动力

C. 工人生活整体上没有改善

D. 社会贫富差距进一步拉大

4.（**2016·全国卷Ⅱ**）英国 18 世纪人口死亡率明显下降，但 1816 年以后死亡率上升。1831～1841 年，工厂集中的伯明翰每千人死亡率由 14.6 上升到 27.2，利物浦由 21 上升到 34.8。导致上述情况发生的重要原因是（　　）

A. 城市环境极其恶化　　B. 化学工业污染严重

C. 人口膨胀食物短缺　　D. 医疗技术水平下降

5.（**2016·全国卷Ⅲ**）19 世纪 60 年代，总长超过 3 万英里的美国铁路有多种轨距。南部铁路轨距以 5 英尺居多，北部最普遍的轨距是 4.9 英尺，部分地区还采用 6 英尺、5.6 英尺的轨距。这反映出当时美国（　　）

A. 尚未形成成熟的统一国内市场

B. 铁路是经济增长的主导部门

C. 科技水平限制了制造业的发展

D. 战争破坏了基础交通设施建设

6.（**2016·海南卷**）据研究，从 1760 年到 1850 年间，英国棉纺厂使用的原棉数量由 200 万磅增加到 3.66 亿磅，增长了 180 多倍。据此可知，这一时期英国（　　）

A. 资本主义生产方式开始建立

B. 工场手工业进入鼎盛时期

C. 经济发展越来越依赖世界市场

D. 农业中的商品化生产迅速发展

关注微信公众号“教辅资料站”获取更多学习资料

第8课　第二次工业革命

课前自检自查练　自主预习点对点　ZIZHUYUXIDIANDUIDIAN

一、第二次工业革命的条件

1. 政治前提：19世纪下半叶，资本主义制度在欧美主要资本主义国家相继确立。

2. 经济基础：第一次工业革命完成后，生产力的发展和[1]_____的初步形成。

3. 理论基础：19世纪，欧美各国科学家的科学探索取得丰硕成果。

对点训练 DUIDIANXUNLIAN

1. 19世纪后半期，许多科学研究成果都应用于生产，各种新发明、新技术带来了社会生产力的巨大飞跃。这表明第二次工业革命的特征是（　　）

A. 两次工业革命交叉进行
B. 科学与技术紧密结合
C. 电力的发明和广泛应用
D. 科技革命同时在几个国家进行

二、第二次工业革命的成就

1. 电的广泛使用

（1）1866年，德国人[2]_____成功研制发电机；19世纪70年代，实际可用的发电机问世。

（2）出现集中供电的发电厂，输变电技术日益完善。

（3）电灯、电车、电话、电影放映机等电器产品纷纷涌现。

2. 内燃机的创制和使用：以内燃机为动力，研制成功新的交通工具[3]_____和飞机。

3. 化学工业：从煤和[4]_____等原材料中提炼出多种化学物质，制成多种化学合成材料。

4. 传统工业：推动了[5]_____等传统工业的进步。

对点训练 DUIDIANXUNLIAN

2. “生活在那个时代的人很害怕黑夜，因为黑夜来临意味着魔鬼、女巫可能乘着夜色飘飘荡荡来到你的床头。”第二次工业革命时，结束这种古老夜间生活模式的是（　　）

A. 莱特兄弟　　B. 史蒂芬孙
C. 瓦特　　D. 爱迪生

3. 根据下图数据判断，该统计图表反映的是（　　）

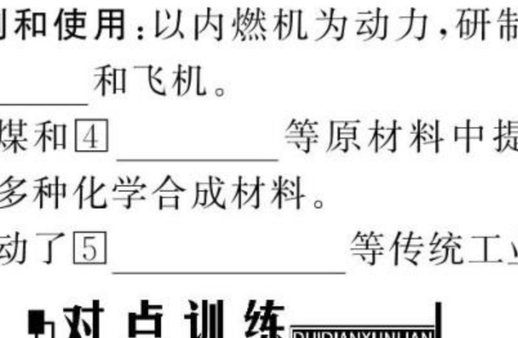

1870年至1900年世界产量

A. 粮食产量　　B. 棉织品产量
C. 石油产量　　D. 煤炭产量

4. 近代西欧城市长期为马粪所困扰，当时市内交通主要依靠马车，政府采取很多办法都难以奏效，却随着技术进步最后迎刃而解。该技术是（　　）

A. 火车　　B. 轮船
C. 汽车　　D. 飞机

三、第二次工业革命的影响

1. 生产力：极大地提高了生产力，人类进入“[6]_____”。

2. 工业部门：诞生了电力工业、石油工业和汽车工业等一系列新兴工业。

3. 产业结构：[7]_____取代轻纺工业成为工业生产的主要成分。

4. 生产关系：在新兴工业和钢铁工业中，生产和资本高度集中，产生了[8]_____，资本主义进入垄断资本主义阶段。

5. 世界市场最终形成

（1）原因：第二次工业革命促进了生产力的巨大增长；新型交通工具和通信手段的出现，加强了世界各地的联系。

（2）途径：划分殖民地和势力范围，掀起了瓜分世界的狂潮；在输出商品、掠夺原材料的同时，直接向殖民地或半殖民地输出[9]_____。

（3）表现：19世纪末20世纪初，世界基本被资本主义列强瓜分完毕，亚洲、非洲和拉丁美洲等广大地区基本上都沦为殖民地或半殖民地；世界贸易额增长，非工业国家与工业化国家之间的[10]_____日益明显。

（4）影响：以欧美资本主义列强为主导的资本主义世界体系最终建立起来；殖民地和半殖民地的[11]_____工业开始了艰难的发展历程。

对点训练 DUIDIANXUNLIAN

5. 1880年，美国建立了第一个发电站，90年代末，美国已有2 700座发电站，发电量已达到248亿千瓦时，各项电器发明广泛应用于美国的工业、交通和公共事业部门。材料说明美国（　　）

A. 基本实现了电气化
B. 取代英国世界第一的地位
C. 成为工业革命中心
D. 生产集中推动生产力发展

6. “有人说工业革命从本质上就是人类在新能源、新材料、新技术方面的广泛应用过程”，随着第二次工业革命的进行，主要资本主义国家工业生产结构发生的最大变化是（　　）

A. 重工业开始占据主导地位
B. 轻工业的地位在逐步下降
C. 交通运输业获得巨大发展
D. 电力工业的发展最为突出

7. 1870年，约翰·洛克菲勒组建了俄亥俄美孚石油公司；1880年，它提炼的石油占全美95%；1882年，它掌握了14家公司的所有权，控制了26家公司的多数股票。这反映了（　　）

A. 手工工场的建立　　B. 工厂制度的出现
C. 垄断组织的发展　　D. 贸易自由化的实现

8. “交通运输愈发达，商品流转愈迅速、愈频繁，单个的、地方的和民族的市场结合的进程就愈快。作为一个整体的世界经济的生产机体的发展也就愈迅速。”“整个的世界经济的生产机体”完全形成的时间是（　　）

A. 14、15世纪　　B. 16～18世纪
C. 19世纪中期　　D. 19世纪末20世纪初

关注微信公众号“教辅资料站”获取更多学习资料

学考基础合格练　学考基础练能力　XUEKAOJICHULIANNENGLI

1. 在 19 世纪末的西欧，一个资本家要新建纺织厂，为提高产量，他应该优先选址在（　　）
A. 商业繁盛的地区　　B. 盛产煤炭的地区
C. 邻近河流的地区　　D. 电力充足的地区

2. 工厂制和垄断组织出现是近代生产组织形式的重大变革，这两大生产组织形式都（　　）
A. 推动了跨国贸易和资本输出
B. 推动了世界市场的初步形成
C. 适应了社会化生产的需要
D. 杜绝单个资本家生产的无计划性

3. 第二次工业革命中，既解决了交通工具的发动机问题，又推动了石油开采业发展的重大发明是（　　）
A. 珍妮机　　B. 蒸汽机
C. 骡机　　D. 内燃机

4. 下列两幅图片最能反映的社会现象是（　　）





A. 工厂制度的形成　　B. 世界市场的形成
C. 垄断组织的形成　　D. 殖民体系的形成

5. 19 世纪最后 30 年，世界已无“世外桃源”。彼时列强瓜分世界的主要手段为（　　）
A. 原始积累　　B. 商品输出
C. 资本输出　　D. 国家垄断

6. 资本主义世界体系最终建立的标志是（　　）
A. 电气化生产模式在全世界得以实现
B. 工业革命在世界各地的扩展
C. 世界上大多数国家走上了资本主义道路
D. 资本主义世界殖民体系与世界市场最终形成

7. 阅读下列材料，回答问题。
材料一：我们发觉自己处于这样一个世界：……在这世界里，充满了流线型汽车、有轨电车和飞机；这世界受到了来自传声筒的喧声的干扰，遭到了新闻标题以及电影和电视中的不断变化的镜头的攻击。这世界是有史以来唯一的一种经济统治——工业文明的统治的一部分；它不但为西欧诸民族所分享，也为俄国人、美国人和日本人所分享，甚至还在某种程度上为中国人和印度人所分享。
材料二：美国历史学家斯塔夫里阿诺斯说：广大亚非拉国家经济的不发达状况和资本主义国家的发达状况“并非两个孤立而无联系的对象”，两者是“相互联系”的。
(1)材料一描述的“这世界”处于哪一次工业革命？

(2)材料一中提及的电车和汽车，其出现的先决发明是什么？

(3)结合史实说明，在资本主义原始积累和工业革命两个时期，材料二中的“联系”是怎样体现的？

课时加餐拔高练　课后拔高练规范　KEHOUBAGAOLIANGUIFAN

课后加餐练

1. 第一次工业革命是英国“一花独放”的局面，第二次工业革命则是各先进国家“竞相开放”。导致这种变化的主要前提是（　　）
A. 英国经济实力的急剧衰退
B. 美、德等国经济发展速度加快
C. 自然科学研究有重大进展
D. 资本主义制度在各国普遍确立

2. 1882 年，发明家尼古拉·特斯拉发明了高频交流电，在当时，更为著名的发明家爱迪生却把这种沿用至今的伟大发明称之为“魔鬼的触角”，宣扬交流电具有强烈的不稳定性，甚至会毁灭人类。这反映出（　　）
A. 特斯拉电的技术领先爱迪生
B. 科学技术推广应用步履艰难
C. 高频率交流电缺陷影响运用
D. 时代需要呼唤电气时代到来

3. 《全球通史》曾经这样形容过两次工业革命的发展历程：“早先，发明是个人对机会作出响应的结果，而如今，发明是事先安排好的，实际上是定制的。”下列发明属于“定制”的是（　　）
A. 珍妮纺纱机　　B. 电灯
C. 汽船　　D. 蒸汽机车

4. 导致石油开采业发展、石油化工产业和陆空交通工具发明的最主要原因是（　　）
A. 远洋轮船的出现　　B. 飞机的出现
C. 汽车的出现　　D. 内燃机的创制和使用

关注微信公众号“教辅资料站”获取更多学习资料

5. 近代以来，世界交通运输工具发生了很大的变革。下图中虚线所示的交通工具是　（　）

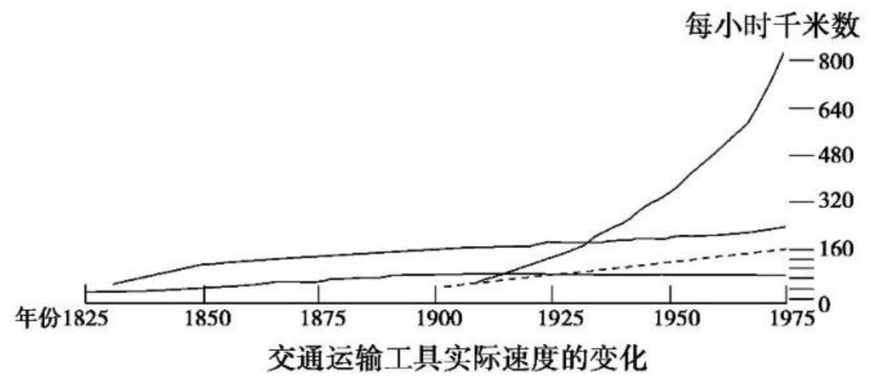

交通运输工具实际速度的变化

A. 轮船　　B. 火车
C. 汽车　　D. 飞机

6. 与第一次工业革命相比，第二次工业革命的最大区别在于　（　）
A. 科学技术的发展推动
B. 各种新发明层出不穷
C. 带来社会生产力巨大飞跃
D. 社会生产关系随之发生变化

7. “工业生产正在达到非常巨大的规模，以致公司无法筹集到必需的资金……这时，银行通过提供由大批储户和投资者的资产汇集而成的资本，满足了这些金融需求。”这种情况开始出现于　（　）
A. 1500 年前后　　B. 17 世纪末 18 世纪初
C. 19 世纪中期　　D. 19 世纪末 20 世纪初

8. 1914 年，一位工人的妻子在写给流水线生产的发明者福特的信中说：“你所使用的生产线是一种奴隶驱赶装置，我的上帝！福特先生。我丈夫回家后一头卧倒，不吃晚饭……”当时的欧美社会，类似的舆论也屡屡出现。这一现象反映了　（　）
A. 自由劳动力资源严重不足
B. 工人缺乏必要的保护
C. 工业发展对人文精神产生了冲击
D. 强化劳动强度弥补了技术革新的不足

9. 阅读下表，可以得出的结论是　（　）

英、法、美、德工业生产总和在世界工业生产中所占比例表

年代	1870	1896～1900	1913
比例	78%	74%	72%

A. 第二次工业革命向纵深发展
B. 设备陈旧阻碍了欧美国家的发展
C. 欧美列强间经济发展不平衡
D. 欧美发达国家经济发展持续下降

10. 有学者指出，到 1900 年，在人类历史上第一次可以提及“世界文明”，这主要是由于　（　）
A. 世界各地区都进入了资本主义社会
B. 各地被拖入一个统一的世界市场中
C. 英语国家取得了对整个世界的统治
D. 世界各地的语言和文化差异被消除

11. 阅读下列材料，回答问题。

材料一：英国工业革命时期，随着工厂制度的确立，现代工厂的管理制度也逐渐形成。工厂主制定了严格的规章制度，并且通过罚款、解雇和体罚等强制措施迫使工人服从，从而保证了工厂的纪律。他们还运用复式簿记的方式实现了对生产成本和企业利润的核算；通过对产品质量的把关，确立了对生产过程的监督，通过制定恰当的销售方案，促进了市场的开发，这些都直接促使了工厂管理制度的建立。

——摘引自宋严萍《英国工业革命时期的工厂管理及特点探究》

材料二：第二次工业革命促成的大工业，不但规模大，而且所用的资金很多，设备更是全新的。它们必须依靠股份公司，还需要联合，需要成立新的经济联合体。……垄断企业通常是用吞并、兼并、收买等方式而形成的。……吞并者大多是资金雄厚、管理先进、经营得体的企业，在兼并之后它必定以先进的方式改造那些落后部分。同时，垄断组织有条件设立科研部门，将科研与生产直接结合起来，把科研成果迅速转化为生产力。

——摘自《垄断经济和现代经济模式》

(1)依据材料一和所学知识，分析近代工厂制对资本主义经济发展的主要推动作用。

(2)结合材料二和所学知识，分析垄断组织形成的原因，并概括说明垄断组织对现代经济模式形成所产生的影响。

课后拔高练

1. (**2018 · 海南卷**)伴随着第二次工业革命的进行，大众休闲文化在欧美出现，戏院如雨后春笋般建立起来，喜剧和音乐剧吸引了成千上万的观众，足球等大型体育赛事成为人们关注的焦点。这反映出当时欧美　（　）
A. 城市化进展显著　　B. 贫富差距逐渐消除
C. 工业化开始启动　　D. 工人福利得到保障

2. (**2015 · 全国卷Ⅱ**)由下表可以推知，19 世纪 70 年代到 20 世纪初　（　）

英、美、法、德工业生产总和在世界工业生产中所占比例表

年代	1870	1896～1900	1913
比例	78%	74%	72%

A. 欧美发达国家已经开始盛极而衰
B. 世界各地的工业化有所发展
C. 世界各国工业发展差距明显缩小
D. 世界经济结构发生重大变化

3. (**2015 · 海南卷**)据统计，1850 年德国的专利授予数目为 243 项，1870 年为 4 132 项，1900 年达到 8 784 项。这反映出德国　（　）
A. 海外市场的拓展主导着科技发明
B. 在整体科技实力上遥遥领先于他国
C. 政府在科技发展中扮演重要角色
D. 从欧洲其他国家大量引进技术发明

关注微信公众号“教辅资料站”获取更多学习资料

第三单元　近代中国经济结构的变动与资本主义的曲折发展

第9课　近代中国经济结构的变动

课前自检自查练　自主预习点对点　ZIZHUYUXIDIANDUIDIAN

一、自然经济的逐渐解体

1. 原因：鸦片战争后，资本主义经济势力入侵。

2. 表现

(1)洋纱取代土纱，使中国家庭棉纺织业的“[1]____”与“织”分离。

(2)洋布取代土布，使中国农家的“[2]____”与“耕”分离。

(3)列强大量收购中国的农副土特产品，使中国丝、茶生产日趋[3]_____。

3. 影响：客观上促进了中国[4]_____的发展，同时瓦解着中国社会的自然经济。

对点训练 DUIDIANXUNLIAN

1. 鸦片战争后中国自给自足的自然经济逐步解体，这种“解体”的含义是　(　　)

A. 大批洋货涌入中国，丝、茶大量出口

B. 外国资本主义经济控制了中国市场

C. 自然经济被近代资本主义企业取代

D. 农业和手工业逐渐分离并日益商品化

2. 下面是近代上海部分年份进出口贸易总值统计图(单位：万关两)。据此可知，这一时期　(　　)

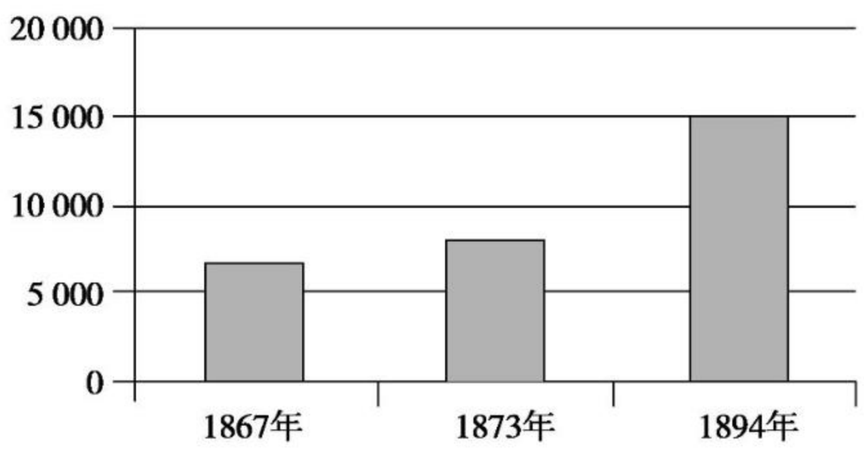

A. 中国日益卷入资本主义世界市场

B. 上海取代了广州的贸易中心地位

C. 中国民族资本主义经济发展较快

D. 中国半殖民地化的程度不断加深

二、洋务运动

1. 背景：第二次鸦片战争以后，清政府面临[5]_____的窘境。

2. 概况

(1)时间：19世纪60～90年代。

(2)目的：在不改变[6]_____的前提下，利用西方先进的科技，维护清朝统治。

(3)代表：在中央以奕䜣为代表，在地方以曾国藩、李鸿章、左宗棠和[7]_____为代表。

3. 实践

(1)创办近代工业

军事工业	以“[8]_____”为旗号，引进西方先进生产技术	创办[9]_____、江南制造总局、福州船政局和天津机器制造局
民用工业	以“[10]_____”为旗号，解决军事工业资金、燃料、运输等方面的困难	兴办[11]_____、开平煤矿、汉阳铁厂和湖北织布局

(2)筹划海防：从19世纪70年代中期起，先后建成[12]_____、南洋、福建三支海军。

(3)近代教育：创办[13]_____等一批新式学堂，选派留学生出国深造，开近代教育的先河。

4. 结局：清军在甲午中日战争中惨败，宣告洋务运动的破产。

5. 意义

(1)引进了西方一些近代科学技术，培养了一批科技人才，客观上刺激了中国[14]_____的发展。

(2)对外国的经济侵略起到了一定的抵制作用，对本国[15]_____的瓦解起到一定的推动作用。

对点训练 DUIDIANXUNLIAN

3. 洋务运动被称为“中国近代化的开端”，主要表现在　(　　)

A. 最早使用机器生产

B. 提出“自强”“求富”的口号

C. 主张政治体制改革

D. 主张在中国发展资本主义

4. 下图为湖广总督张之洞于1894年7月3日视察武汉汉阳铁厂时拍摄的老相片。拍摄该照片的目的是　(　　)



A. 表达对环境污染的忧虑

B. 展现近代化运动的成就

C. 鼓舞清军对日作战的信心

D. 对中体西用思想进行反思

关注微信公众号“教辅资料站”获取更多学习资料

5. 从1872年到1875年，清政府每年派遣30名幼童留学，同时规定他们每3个月要学习14天《孝经》和圣谕。这可以说明清政府派遣留学生的宗旨是（　　）
A. 改革传统教育制度　　B. 维护清朝专制统治
C. 宣扬中华传统文化　　D. 加强中外友好往来

6. 有人说，洋务运动是“有心栽花花不开，无心插柳柳成荫。”这里的“柳”，应当是（　　）
A. 使用机器引进近代科技　B. 抵制外国资本主义扩张
C. 刺激民族资本主义产生　D. 维护清王朝的专制统治

三、中国民族资本主义的产生

1. 条件

(1)列强的入侵瓦解了中国的自然经济，为资本主义的发展提供了条件。

(2)受⑯＿＿＿＿＿＿丰厚利润的刺激和⑰＿＿＿＿＿＿引进西方先进生产技术的诱导。

2. 概况

(1)产生：⑱＿＿＿＿＿＿＿＿＿＿。

(2)地区：主要在沿海地区。

(3)代表：上海的⑲＿＿＿＿＿＿、广东南海的⑳＿＿＿＿＿＿、天津的贻来牟机器磨坊等。

(4)特点：㉑＿＿＿＿＿＿、㉒＿＿＿＿＿＿，进行生产。

对点训练 DUIDIANXUNLIAN

7. 我国早期的民族资本主义企业主要分布在上海、广州等沿海城市，这在客观上反映出（　　）
A. 上述地方地理位置优越
B. 清政府大力扶植沿海企业
C. 外资和洋务派企业的刺激作用
D. 受西方经济影响比较明显

8. 继昌隆缫丝厂等近代民族企业与洋务派创办的近代军事工业的主要区别是（　　）
A. 使用机器生产还是手工劳动
B. 对外国资金是否有依赖性
C. 工资高低是否由技术决定
D. 产品是否与市场发生直接联系

学考基础合格练　学考基础练能力　XUEKAOJICHULIANNENGLI

1. 在外国商品的冲击下，传统的经济结构发生了变化，小农经济开始解体。这一现象开始于（　　）
A. 鸦片战争后　　B. 中法战争后
C. 甲午战争后　　D. 八国联军侵华后

2. 鸦片战争后，中国的茶和丝通过通商口岸大量出口，其客观进步作用表现在（　　）
A. 使中国的关税收入大增
B. 使农民和市场的联系日益密切
C. 使清政府贸易逆差得到扭转
D. 使中国产品在国际上竞争力增强

3. 下图是一幅反映洋务运动的漫画，漫画中人物所说的这些“洋玩意”的含义是（　　）



A. 西方洋枪队　　B. 外商企业
C. 西方近代科技　　D. 洋枪、洋炮

4. 李鸿章说：“古今国势，必先富而后能强，尤必富在民生，而国本乃可益固。”下列企业体现这一思想的是（　　）
A. 安庆内军械所　　B. 福州船政局
C. 江南制造总局　　D. 轮船招商局

5. “陈启源……壬申岁(1872年)返粤，在简村乡创设缫丝厂，名曰继昌隆，容女工六七百人。”这则材料反映了当时（　　）
A. 自然经济完全解体　　B. 民族工业兴起
C. 资本主义萌芽出现　　D. 清政府设置工厂

6. 19世纪六七十年代中国民族资本主义企业与明代“机房”相比，最大的不同点是（　　）
A. 生产方式　　B. 地域分布
C. 生产规模　　D. 资金来源

7. 阅读下列材料，回答问题。

材料一：1840年后，长江三角洲的村镇无不受到开埠带来的影响。时人有诗：蚕事乍毕丝事起，乡农卖丝争赴市。……小贾收买交大贾，大贾载入申江(上海)界，申江鬼国正通商……番舶来银百万计，中国商人皆若狂。今年买经更陆续，农人纺经十之六。遂使家家置纺车，无复有心种菽粟。

——清末史志资料

材料二：马克思在1853年就预言：“与外界隔绝曾是保存旧中国的首要条件，而当这种隔绝状态在英国的努力下被暴力所打破的时候，接踵而来的必然是解体的过程。”马克思在这里使用了“暴力”一词，这无疑是侵略的同义词。但他并没有用侵略和被侵略来概括全部中外关系。……把侵略同侵略带来的社会变化区分开来，是马克思主义的一个重要思想。

——陈旭麓《近代中国社会的新陈代谢》

(1)仔细阅读材料一中的诗歌，结合时代大背景，分析长江三角洲的村镇经济发生的重大变动。

(2)阅读材料二，按照“把侵略同侵略带来的社会变化区分开来”的思路，概括19世纪外国资本主义入侵对中国经济的影响。

关注微信公众号“教辅资料站”获取更多学习资料

课时加餐拔高练　课后拔高练规范　KEHOUBAGAOLIANGUIFAN

课后加餐练

1. 鸦片战争后，洋纱首先涌入中国东南沿海的市场。因其质优价廉，取代土纱，使中国家庭棉纺织业的“纺”与“织”分离。这意味着（　　）
A. 中国家庭织布业仍为手工
B. 西方商品完全占据中国市场
C. 耕织结合的农业模式已经解体
D. 农产品商品化程度大大增加

2. 下表是 1843 年与 1858 年中国进口棉花及棉纺织品税率比较表。这一现象造成（　　）

货物	单位	1843 年税率	1858 年税率
棉花	担	6.54%	5.72%
印花布	匹	14.25%	4.98%
棉纱	担	6.94%	4.85%

A. 自给自足的自然经济完全解体
B. 中国传统的经济结构发生变化
C. 列强控制中国棉纺织业经济命脉
D. 中国洋务棉纺织企业大量破产

3. 19 世纪中叶以后，中国逐渐被卷入世界资本主义体系。从人类文明演进的角度看，这对中国最主要的影响是（　　）
A. 清政府统治土崩瓦解　　B. 自然经济迅速崩溃
C. 近代化进程开始启动　　D. 农民起义风起云涌

4. 洋务派提出“寓强于富”的口号，鼓励投资近代企业，并采取减免税收、优化管理等措施推动经济发展。在这一口号引领下，洋务派创办的企业是（　　）
A. 江南制造总局　　B. 发昌机器厂
C. 轮船招商局　　D. 安庆内军械所

5. 下图为 1881 年发行的开平矿务局股票，股票下面记载：“……批准设局招商开采煤铁等矿……当经本局议定先后招集股银壹百贰拾万两，分作壹万贰仟股……”由此可知（　　）



A. 军用工业由官办转为官督商办
B. 政府放宽了兴办实业的限制
C. 洋务企业受西方经营方式影响
D. 煤矿业获得了稳健快速发展

6. 上海机器织布局在筹办过程中，李鸿章根据一些官绅的申请，代向清政府奏请准予“酌定十年之内，只准华商附股搭办，不准另行设局”。材料表明洋务运动（　　）
A. 有效抵制了列强对华侵略
B. 促进了民族工业的发展
C. 限制了民族资本主义的发展
D. 推动了中国近代化的进程

7. 设想你生活在 19 世纪 70 年代前后的中国，欲投资新式企业，从投资小、见效快的角度考虑，你最有可能投资的行业和地区是（　　）
A. 采矿业；北京　　B. 制碱业；天津
C. 冶金业；上海　　D. 棉纺织业；广州

8. 近代中国的民族工业呈现出“一流价格，二流设备，三流产品”的不正常现象，其中的主要原因是（　　）
A. 缺少必要的资金
B. 缺乏先进的投资方式
C. 劳动力素质较低
D. 设备和技术受制于外国

9. 19 世纪 80 年代，上海发昌机器厂造成一艘小汽船，船头悬挂英国旗，船尾悬挂中国龙旗。造成以上现象的根源是（　　）
A. 近代中国推行和平友好外交政策
B. 民族企业都是中外合作企业
C. 半殖民地半封建社会的性质所致
D. 民族企业得到外国大力支持

10. 19 世纪中期，中国出现外资企业、洋务企业和民族资本主义企业三种新的经济成分。它们的共同特征是（　　）
A. 资本主义性质　　B. 私人经营
C. 使用机器生产　　D. 产品完全投放市场

11. 阅读下列材料，回答问题。

材料一：1843～1856 年间中国生丝出口数量表（部分）

年份	总计（包）	从广州出口		从上海出口	
		数量（包）	百分比（%）	数量（包）	百分比（%）
1843	1 787	1 787	100	—	—
1845	13 220	6 787	51.3	6 433	48.7
1846	18 746	3 554	19.0	15 192	81.0
1853	62 896	4 577	7.3	58 319	92.7
1856	79 196	—	—	79 196	100

——程浩《试论鸦片战争后广州港对外贸易地位的变化及其原因》

材料二：中国与外部世界的联系……近代以后的情况与以前已有了很大的不同……如果离开这个背景来考虑中国近代史的开端问题，那么我们对于当时中国历史处境的认识，将不会超过道光皇帝之流的清代统治者的水平。

——白寿彝《中国通史》

关注微信公众号“教辅资料站”获取更多学习资料

材料三：19世纪中叶，西方资本主义以炮舰打开了中国的大门。此后，中国于19世纪后半期创建新式工业。当时，西方拼命地向中国推销纺织品和鸦片，而中国人向西方寻求的却是如当时洋务派所说的“机船矿路”。“机”主要指兵器，“船”主要指战船，“矿”主要指煤矿，“路”指铁路。为了制造“机”“船”，修筑铁路，钢铁的生产也突出出来。

这些基础产业和基础设施都是追赶时代的。可以说，洋务运动的倡导者——从封建统治集团分化出来的开明派部分地捕捉到时代脉搏，认识到这些基础产业和设施对中国“求强”“求富”的重要意义。

——董志凯《从“机船矿路”到“瓶颈产业”——中国百年投资结构之联想》

(1)根据材料一，指出1843～1856年间中国生丝出口情况，并结合所学知识分析其原因。

(2)根据材料二和所学知识，概括说明近代中国在政治和经济上是如何逐渐与世界联系在一起的？

(3)根据材料三，结合所学知识，归纳中国近代化兴起的时代背景及这一时期中国工业化发展的特点。

课后拔高练

1.（**2019·全国卷Ⅲ**）19世纪六七十年代，外国人将自己的名字租借给中国人经办新式企业的做法，在通商口岸较为盛行。这一做法（　　）

A. 导致民间设厂高潮局面的出现
B. 有利于中国新的社会阶层发展
C. 加剧了外国资本对中国的输入
D. 扭转了中国对外贸易入超局面

2.（**2017·全国卷Ⅰ**）开平煤矿正式投产时，土煤在国内从一个通商口岸装船到另一个通商口岸卸货，须缴纳出口税和复进口税，每吨税金达1两以上，比洋煤进口税多20余倍。李鸿章奏准开平所产之煤出口税每吨减为1钱。这一举措（　　）

A. 增强了洋务派兴办矿业的信心
B. 加强了对开平煤矿的管理
C. 摆脱了列强对煤矿业的控制
D. 保证了煤矿业稳健发展

3.（**2017·全国卷Ⅱ**）1879年以前，福州船政局所造之船均“派拨各省，并不索取原价分文”；此后造船所用材料费用由用船一方拨付，采取“协造”方式生产。这种变化反映了（　　）

A. 军用工业由官办转为商办
B. “协造”意在缓解经费压力
C. 军工产品市场化趋势明显
D. 近代轮船制造业走出困境

4.（**2016·全国卷Ⅰ**）19世纪中期以后，中国市场上的洋货日益增多，火柴、洋布等用品“虽穷乡僻壤，求之于市，必有所供”。这种状况表明（　　）

A. 中国关税主权开始丧失
B. 商品经济基本取代自然经济
C. 民众生活与世界市场联系日趋密切
D. 中国市场由被动开放转为主动开放

5.（**2016·全国卷Ⅰ**）甲午中日战争爆发前夕，有些西方人士认为中国拥有一定的军备优势，“毫无疑问的是日本必然最后被彻底粉碎”。他们做出上述判断的主要依据应是，中国（　　）

A. 已完成对军队的西式改革
B. 集权制度有利于作战指挥
C. 近代化努力收到较大成效
D. 能获得更广泛的外部援助

第10课　中国民族资本主义的曲折发展

课前自检自查练　自主预习点对点　ZIZHUYUXIDIANDUIDIAN

一、民族资本主义的初步发展（19世纪末）

1. 条件

(1)外部：甲午中日战争后，列强争相向中国[1]＿＿＿＿＿＿，进一步瓦解了中国的自然经济。

(2)清政府为[2]＿＿＿＿＿＿，解决财政危机，放宽对民间办厂的限制。

2. 表现：民间出现[3]＿＿＿＿＿＿，商办企业数量增加，规模扩大，而且由沿海向[4]＿＿＿＿＿＿扩展。

3. 影响：[5]＿＿＿＿＿＿开始登上历史舞台。

对点训练 DUIDIANXUNLIAN

1. 甲午战争后，张謇提出：“要改变国弱民贫的现状，不在于兵，也不在于商，而在于工农业和教育的发展”。由此可见，张謇（　　）

A. 停办官营军事企业
B. 利用垄断发展工商业
C. 主张发展民族工业
D. 提倡实行“民主共和”

关注微信公众号“教辅资料站”获取更多学习资料

2. 1899 至 1911 年，新增私人资本总额 9 350 万银元，厂矿企业 410 家。这一现象的出现得益于　　（　　）

A. 政府放宽民间设厂限制

B. 洋务运动的刺激与诱导

C. 列强放松对华经济侵略

D. 国民经济建设运动兴起

二、短暂的春天（1912～1919 年）

1. 原因

（1）内因

①政治基础：辛亥革命推翻了清朝统治，建立中华民国，为⑥＿＿＿＿＿＿的发展扫除了一些障碍。

②政策因素：中华民国临时政府奖励⑦＿＿＿＿＿＿，激发了民族资产阶级和海外华侨投资近代企业的热情。

③群众基础：群众性的⑧＿＿＿＿＿＿的推动，尤其是 1915 年的抵制日货、提倡国货的群众运动。

（2）外因：第一次世界大战爆发后，⑨＿＿＿＿＿＿忙于战争，暂时放松了对中国的经济侵略。

2. 表现

（1）新建厂矿企业数量和新增资本增加。

（2）面粉业和⑩＿＿＿＿＿＿发展最快，化工、皮革、卷烟等行业也有相当发展。

（3）涌现出一批实业家，如⑪＿＿＿＿＿＿等。

3. 结局：第一次世界大战结束后，⑫＿＿＿＿＿＿卷土重来，整个中国民族工业又迅速萧条。

对点训练 DUIDIANXUNLIAN

3. 民国初年，中国民族工业有了进一步发展。以天津为例，在工商部注册、资产达万元以上的企业有数十家。出现上述状况的政治前提是　　（　　）

A. 华侨竞相回国投资办厂

B. 列强忙于第一次世界大战

C. 各类实业团体广泛建立

D. 辛亥革命推翻了清朝统治

4. 下图是民国初年民族工业资本分布状况统计图。从图中可看出这一时期民族工业发展的特点是　　（　　）

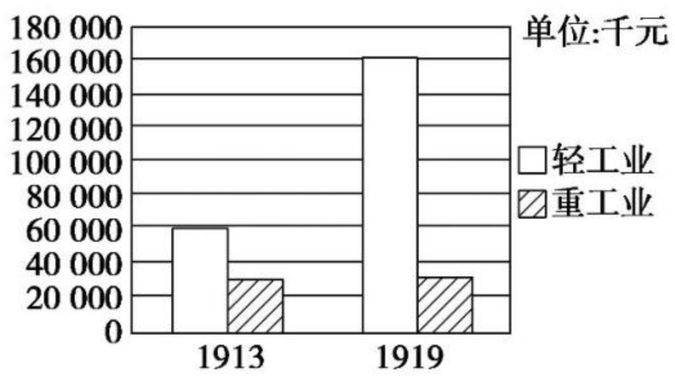

A. 轻重工业按比例协调发展

B. 轻重工业资本薄弱

C. 轻工业发展迅速，重工业发展缓慢

D. 轻重工业地区分布不合理

5. 美国学者费正清认为第一次世界大战期间中国民族工业的发展是“没有前途的经济奇迹”。他说的“没有前途”主要是因为中国民族工业　　（　　）

A. 缺乏良好的社会环境

B. 地区分布呈东密西疏

C. 生产技术水平低

D. 产业结构不合理

三、曲折的发展（1927～1949 年）

1. 国民政府统治前期的短暂发展（1927～1936 年）

（1）原因：国民政府开展“⑬＿＿＿＿＿＿”，鼓励发展工业、农业和交通运输业。

（2）表现

①原来的棉纺织业和面粉业及新兴工业部门，如化学工业、橡胶工业均获得较大发展。

②制碱工厂制成的碱除满足国内需要外，还出口日本和朝鲜半岛。

③中国国民生产总值增长速度创历史最高纪录。

2. 抗战时期遭受沉重打击（1937～1945 年）

（1）原因：日本侵华战争的打击和国民党官僚阶层的压榨。

（2）表现

①在沦陷区：来不及内迁的民族企业或被日军所毁，或被日军吞并；在华北，日军采取“军管理”办法，吞并中国民族企业。

②在国统区：国民政府实行⑭＿＿＿＿＿＿，国民党官僚阶层借此控制经济命脉，压榨民族企业。

3. 抗战胜利后走向绝境（1945～1949 年）

（1）原因

①蒋介石为取得美国援助发动内战，与美国签订《⑮＿＿＿＿＿＿》，美国商品大量涌入中国市场，排挤国货。

②⑯＿＿＿＿＿＿进行经济垄断，挤压民族企业。

③国民政府不断增加⑰＿＿＿＿＿＿，并⑱＿＿＿＿＿＿，导致通货膨胀。

（2）表现：民族工业陷入绝境，工厂、矿山、店铺纷纷倒闭。

对点训练 DUIDIANXUNLIAN

6.《十年来的中国航运》记载：“自国民政府成立（1927 年）至今，不过十年，此十年间，民营公司之组织，约计二十五家，……已远胜以前数十年矣。”当时航运业民营公司发展较快的主要原因是　　（　　）

A. 中国自然经济开始瓦解

B. 蒸汽轮船制造技术开始传入

C. 国民经济建设运动的开展

D. 列强忙于战争暂时放松对华侵略

7. 1943 年，在国统区 3 700 余家工业中，官营的 600 余家，民营的 3 100 余家。但官营的占资本总额 69%，民营的只占 31%。这一状况　　（　　）

A. 有利于持久抗战的需要

B. 推动了民营企业的迅速发展

C. 抵制了列强的经济侵略

D. 建立了完整的国民经济体系

8. “见物即购，深恐一夜之间币值大贬致受损失”“米、煤、布匹等必需品，连迷信品锡箔、白钱、甚至棺材等也在抢购之列”。上述现象出现的直接原因是　　（　　）

A. 国民政府滥发纸币　　B. 日本人的掠夺政策

C. 物资供应紧张　　D. 资本主义经济危机的影响

关注微信公众号“教辅资料站”获取更多学习资料

学考基础合格练　学考基础练能力　XUEKAOJICHULIANNENGLI

1. 甲午战争以后，国内出现了兴办近代民族工业的热潮。其直接原因是（　　）
A. 西方技术的传播　　B. 重商思潮的影响
C. 清政府放宽了限制　　D. 改良思想的推动

2. 清末状元张謇认为："救国为目前之急……譬之树然，教育犹花，海陆军犹果也，而其根本则在实业。"为此张謇创办了（　　）
A. 发昌机器厂　　B. 继昌隆缫丝厂
C. 大生纱厂　　D. 汉阳铁厂

3. 民国初期，中国民族工业出现了"短暂的春天"。导致春天"短暂"的主要原因是（　　）
A. 封建自然经济的束缚
B. 巴黎和会中国外交的失败
C. 北洋政府对民族工业扶植不力
D. 第一次世界大战后西方列强卷土重来

4. 下面是民国初年我国经济法规类目统计表。这一情况表明民国初年（　　）

经济法规类别	工商矿业类	农林牧渔业	交通运输类	银行金融类	标准器物类	特别税则类	经济社团类
条数	21	14	6	7	5	11	12

A. 工商业发展最快　　B. 政府重视发展经济
C. 交通发展速度较慢　　D. 金融业不受重视

5. 1928年10月，南京国民政府开展提倡国货运动。规定了一些办法和措施，并要求各地举办国货运动周、召开国货运动大会。这一做法（　　）
A. 扩大了中国对外贸易
B. 加快工业体系的形成
C. 促进民族工业的发展
D. 调整失衡的国民经济

6. 马寅初曾指出："几位大官，乘国家之危急，挟政治上之势力……做生意之时以统制贸易为名，以大发其财为实……"这些"大官"指的是（　　）
A. 民族资产阶级　　B. 官僚资产阶级
C. 大地主　　D. 大商人

7. 阅读下列材料，回答问题。
材料一：下面是民国初期历年新注册工厂数量一览表（不包括矿山）：

年份	民国元年	民国二年	民国三年	民国四年	民国五年	民国六年	民国七年	民国八年
工厂数	17	37	37	50	33	34	29	23

材料二：下面是1933～1936年中国（国民政府）轻工业月平均生产指数增长表：

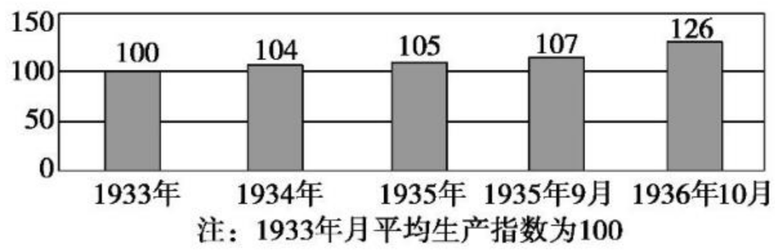

（1）根据材料一，分析民国初期我国民族工业的发展状况，并简要分析原因。

（2）材料二反映了中国民族工业怎样的发展状况？结合所学知识分析其原因。

课时加餐拔高练　课后拔高练规范　KEHOUBAGAOLIANGUIFAN

课后加餐练

1. 1896年，清朝政府下令"多以广开矿产为方今济急要图，当通谕各省将军、督抚，体察各省情形，酌度办法具奏"。这一谕令反映出当时清朝政府（　　）
A. 思想保守，阻碍了民族工业的发展
B. 出卖矿产资源，维护列强在华利益
C. 应对时局，放宽对民间办厂的限制
D. 强化中央集权，加强对地方的控制

2. 1906～1907年，清政府先后颁行了多个奖励实业的章程，规定对所办实业开办资金达到一定数量者赏赐子、男等爵位。该政策（　　）
A. 鼓励绅商从政以巩固统治
B. 使商人活动合法化
C. 刺激传统理财方式的更新
D. 导致资本高度集中

3. 20世纪初，会计学、企业管理等应用经济学的研究和应用在当时倍受关注。这从侧面反映了（　　）
A. 实业救国渐成风尚　　B. 维新变法影响较小
C. 民族经济缺乏市场意识　　D. 近代教育欠缺理论深度

4. 中国近代某一时期，"在进口品不能满足中国市场需要的情况下，一种'替代型'的工业逐渐发展起来了"。其主要原因是（　　）
A. 欧洲列强忙于世界大战　　B. 民众提倡国货运动的影响
C. 西方列强对中国的封锁　　D. 国内自然经济的顽强抵抗

5. 张謇自称兴办实业可谓是"幸而利，幸而成"，却又"至于钝，几于败"，感叹自己"不幸而生中国，不幸而生今之时代"。造成张謇不幸的根源是（　　）
A. 重农抑商的传统政策　　B. 自给自足的自然经济
C. 封闭保守的思想观念　　D. 近代中国的社会性质

6. 下面表格内容反映出（　　）

1919年全国注册工厂数

江苏（含上海）	直隶（含京津）	浙江	广东	山东	福建	奉天	湖北	陕西	黑龙江	广西	甘肃	其他省份
135	45	42	33	31	20	19	19	3	3	1	1	0

——陈真《中国近代工业史资料》

关注微信公众号"教辅资料站"获取更多学习资料

A. 民族工业发展迅速
B. 民族工业规模小、企业少
C. 轻重工业比例严重失调
D. 民族工业地区分布不平衡

7. 1925 年华资最大的两家水泥公司启新洋灰公司与华商上海水泥公司达成为期 5 年的联营协议。双方规定联营区域，在联营区域内约定销售比例和售价。这一协议（　　）
A. 加剧了同业内部的恶性竞争
B. 有利于抵制外国商品的倾销
C. 是海外市场不断扩大的结果
D. 体现了国家的统制经济政策

8. 下图是根据赵德馨《中国近现代经济史》中的相关数据绘制。图中现象出现的主要原因是　　（　　）

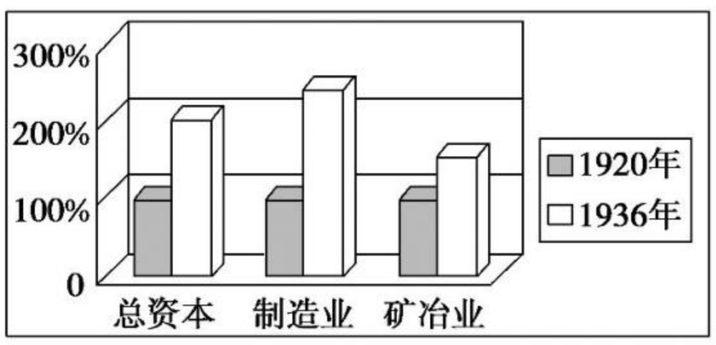

A. 欧洲列强暂时放松了对华侵略
B. “国民经济建设运动”的开展
C. 社会安定创造了有利条件
D. 反帝爱国运动的大力推动

9. 1938 年，国民党临时全国代表大会召开，大会决定：经济建设以军事为中心，对粮食、矿产、税收、金融、交通、物价等实行全方位的管制。国民政府这样做主要是由于　　（　　）
A. 抑制官僚资本的膨胀　　B. 推行国民经济建设运动
C. 经济建设服务于抗战　　D. 积极发展民族资本主义

10. 近代某不平等条约规定，“缔约此方之国民，在缔约彼方领土全境内，应许其不受干涉，从事并经营依法组成之官厅所施行之法律规章所不禁止之商务、制造、加工、科学、教育、宗教及慈善事业”。该不平等条约是　　（　　）
A.《南京条约》　　B.《马关条约》
C.《辛丑条约》　　D.《中美友好通商航海条约》

11. 阅读下列材料，回答问题。

材料一：1866 年，方举赞投资 200 元，在上海虹口创办了发昌机器厂。建厂时只有一座打铁炉，四五个工人，专门为美商的“老船坞”加工、制造船舶零配件。三年以后，它开始用车床生产，由一个手工锻造作坊转化为近代企业。19 世纪 70 年代，这家工厂发展很快，已经能够制造小火轮船，不久又能生产车床、气锤等。不过直到此时，发昌机器厂自身的力量还很薄弱，它制造的小火轮船，发动机均为英国制造。进入 80 年代，发昌机器厂受到外商排挤、日趋衰落，到 90 年代，终于被英商开办的耶松船厂兼并。

材料二：1894 年，张謇考取状元，但他未贪恋官场，而是选择了实业救国之路。1895 年，他在南通开设大生纱厂。据唐闸镇（大生纱厂所在地）的老人回忆，大生纱厂开工前夕，当地农民根本不知道工厂是怎么回事，因此不愿进厂做工。张謇让人把工厂门打开，开动安装好的机器，任由当地农民前来观看。村中的孩子都对这种飞转的纺纱机器十分好奇，胆子大的还动手学接线头，干满七天者，每人还能领到几串钱。农民们一算，进厂做工比在家织布挣钱多，纷纷前来报名。

（1）方举赞和张謇在开办工厂过程中都有优势和困难，根据材料并结合所学知识指出他们各自不同的优势和困难。

（2）根据材料二并结合所学知识，对张謇的人生选择和解决困难的方式谈谈自己的认识。

课后拔高练

1.（**2019 · 全国卷Ⅰ**）

表　川沙县部分名人简历表

黄　彬	国学生，干练有才，上海招商局创办时，章程皆其手订
朱纯祖	监生，幼时孤苦伶仃，学习米业，中年创设朱丽记花米行
姚光第	南邑生员，感于地方贫瘠日甚，就其家设机器轧棉厂

上表是 19 世纪末 20 世纪初毗邻上海的川沙县部分名人的简历，说明当时国内　　（　　）
A. 科举取士转向选拔实务人才
B. 传统社会结构受到冲击
C. 儒家的义利观念被抛弃
D. 新式工业在经济中居于主导

2.（**2017 · 全国卷Ⅲ**）1897 年，有人指出：“中国创行西法已数十年，皆属皮毛，空言无补。至今两年来，忽大为变动，如邮政、银行、铁路，直见施行，今天津亦有小轮，风气之开，人力诚难阻隔也。”产生上述变化的主要原因是　　（　　）
A. 维新变法运动迅速兴起
B. 政府大力扶持官督商办企业
C. 列强对华资本输出减少
D. 政府放宽了兴办实业的限制

3.（**2016 · 全国卷Ⅱ**）抗战胜利后，国民政府将日伪纺织企业合并，成立了国有的中纺公司。政府高层解释称，商民在抗战之后，对于所接收之敌伪纱厂，“即便有人承购，事实上仍需由政府予以维持，等于仍由政府自行拨款接办，国库并不因出售纱厂而有大量之收入”。这反映了此时期　　（　　）
A. 政府试图缓解民族工业困境
B. 国家实行对轻纺工业的统制
C. 民族资本主义工业开始衰落
D. 政府在经济中主导地位加强

4.（**2016 · 全国卷Ⅲ**）右图是 1932 年出产的一款火柴上的图案。据此可知当时中国　　（　　）



A. 民族火柴工业举步维艰
B. 新的营销方式得到采用
C. 开始兴起实业救国思潮
D. 全国抗日救亡运动高涨

5.（**2014 · 海南卷**）晚清时期清政府实行专利制度，允许企业享有长时间生产经营垄断权。1912 年北京政府规定专利保护期限最高为 5 年。后财政总长周学熙等为其所设公司申请 30 年的专利权时，未获批准。这反映了民国初期　　（　　）
A. 建立了系统完善的经济法制体系
B. 经济立法鼓励工商业自由竞争
C. 中央政府限制官营商业的发展
D. 经济法规得以完全遵照执行

关注微信公众号“教辅资料站”获取更多学习资料

第四单元　中国特色社会主义建设的道路

第11课　经济建设的发展和曲折

课前自检自查练　自主预习点对点　ZIZHUYUXIDIANDUIDIAN

一、社会主义建设的起步

1. 恢复国民经济(1949～1952年)

(1)背景:由于[1]_____的长期掠夺和国民政府的肆意搜刮,加上多年战争破坏,国民经济全面崩溃。

(2)表现:到1952年,工农业生产超过历史最高水平。

(3)意义:为国家开展有计划的经济建设创造了条件。

2. 实施"一五"计划(1953～1957年)

(1)背景:新中国成立之初,我国是一个落后的[2]_____。

(2)特点:优先发展[3]_____,有步骤地对[4]_____、手工业、[5]_____进行改造。

(3)成就:鞍山钢铁公司三大工厂、长春第一汽车制造厂、沈阳机床厂和[6]_____制造厂等先后建成投产。

(4)意义:我国开始改变工业落后面貌,为[7]_____奠定了初步基础。

3. 完成三大改造(1953～1956年)

(1)过程

①农业:组织农民参加农业生产合作社,走[8]_____道路。

②手工业:手工业者加入手工业生产合作社。

③资本主义工商业:掀起全行业[9]_____的高潮。

(2)意义:标志着[10]_____经济体系在我国基本建立起来。

对点训练 DUIDIANXUNLIAN

1. 1951年美国《时代》周刊上登载"共产党的经济成就何在?他们最大的成功是制止了通货膨胀,至少暂时做到了"。对此材料解读正确的是　(　　)

A. 当时美国敌视中国,此报道无史料价值

B. 新中国恢复国民经济的工作取得了成就

C. 工业体系初步建立,人民生活水平提高

D. 资本主义工商业实现全行业"公私合营"

2. 下图是我国"一五"计划期间为配合大规模建设而绘制的宣传海报。对其解读正确的是　(　　)

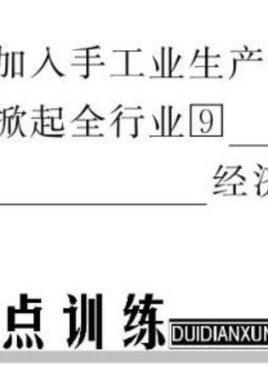

A. 远处的工厂寓意工业化基本实现

B. 图下的文字宣传了绿色环保观念

C. 往来的船只说明交通运输业基础良好

D. 工作的场景展现工人投身建设的热情

3. "改变了近千年来小农经济在我国的主导地位,实现了农村土地经营管理体制的历史性变革。"这场运动　(　　)

A. 实现了平均地权的民生主义

B. 彻底废除了封建土地所有制

C. 推动了新中国工业化的发展

D. 极大挫伤了农民生产积极性

二、探索与失误

1. 成功探索——中共八大

(1)正确分析了国内[11]_____的变化。

(2)提出了当前的主要任务:集中力量把我国尽快地从落后的农业国变为先进的[12]_____。

(3)意义:是对我国建设社会主义道路的一次成功探索。

2. 探索中的失误

失误之处	表现	危害
总路线	中共八大二次会议提出"鼓足干劲,力争上游,[13]_____地建设社会主义"的总路线	违背了[16]_____的客观规律,超越了历史发展阶段;1959～1961年,我国出现了建国以来最严重的经济困难
"大跃进"	片面要求大办工业、大办农业;工业制定[14]_____,农业出现主观臆断的口号	
人民公社化运动	一切财产由公社统一[15]_____,统一分配	

3. 探索中的调整

(1)措施:中共中央对国民经济实行"调整、[17]_____、充实、[18]_____"方针。

(2)结果

①从[19]_____年起,经济逐步得到恢复和发展。

②到[20]_____年,国民经济调整任务基本完成。

对点训练 DUIDIANXUNLIAN

4. 1956年9月,中共八大指出"国家的主要任务是在新的生产关系下保护和发展生产力,全党要集中力量发展生产力"。这说明　(　　)

A. 社会主义改造已经完成

B. 经济冒进思想已开始盛行

C. 人民公社体制开始确立

D. 正确认识了社会主要矛盾

关注微信公众号"教辅资料站"获取更多学习资料

5. 1958 年，河北省徐水县大搞“共产主义”试点，并实行了所谓的“全民供给制”。这一现象（　　）
A. 体现了社会主义分配制度
B. 消除了城乡之间的差别
C. 建立了社会主义公有制
D. 超越了历史发展的阶段

6. 新中国成立后，我国在建设社会主义的过程中有过曲折和失误，其中“用大搞群众运动的办法去抓经济建设，造成了国民经济比例严重失调”指的是（　　）
A. 三大改造　　B. “大跃进”运动
C. 人民公社化运动　　D. 文化大革命

7. 1960 年第四季度，毛泽东主席在中央的一次会议上提出“要搞几年慢腾腾，不要务虚名而遭实祸”，于是出台了“调整、巩固、提高”六字方针。随后，周恩来总理又加上两个字为（　　）
A. 恢复　　B. 改造
C. 跃进　　D. 充实

三、国民经济的劫难

1. 原因：1966 年，“㉑＿＿＿＿＿＿”爆发，动乱由思想文化领域、政治领域扩展到经济领域。

2. 表现：许多行之有效的政策、规章制度被废除，大批工人、干部停产“闹革命”，国民经济受到严重影响。

3. 调整

（1）周恩来：1971 年着手恢复调整国民经济。到 1973 年，国民经济出现复苏局面。

（2）邓小平：1975 年主持中央日常工作，明确提出㉒＿＿＿＿＿＿的思想，并采取有效措施，使国民经济呈现迅速回升状态。

对点训练 DUIDIANXUNLIAN

8. 1975 年 7 月 17 日，党中央转发国务院《关于今年上半年工业生产情况的报告》，指出，3 个月以来，“工业生产和交通运输一个月比一个月好”。全国工业总产值增长 15%，全国农业总产值比 1974 年增长 4.6%。出现上述变化的主要原因是（　　）
A. 粉碎了林彪集团　　B. 国家工业政策的推动
C. 邓小平大力整顿　　D. 人们建设国家的热情

学考基础合格练 ——— 学考基础练能力 ——— XUEKAOJICHULIANNENGLI

1. 1953 年党提出以“一化三改”为核心的过渡时期总路线，其中“一化”是指（　　）
A. 手工业合作化　　B. 农业合作化
C. 社会主义工业化　　D. 教育现代化

2. 1957 年全国工业总产值达 783.9 亿元，比 1952 年增长 128.5%。这主要是由于（　　）
A. 土地改革的推行　　B. “一五”计划的实施
C. 三大改造的完成　　D. “大跃进”的开展

3. 1956 年，三大改造基本完成，由此可见（　　）
A. 生产资料完全实现公有制
B. 社会主义制度基本建立
C. 多种所有制经济共同发展
D. 社会主义建设由此起步

4. 1956 年，中国共产党第八次全国代表大会在北京召开。大会提出党和人民当前的主要任务是（　　）
A. 把我国尽快地由新民主主义社会转变为社会主义社会
B. 把我国尽快地从落后的农业国变为先进的工业国
C. 提高中国的国际地位
D. 实现全面对外开放

5. 下图为新中国某历史时期工农业总产值变化图，从中可以看出（　　）

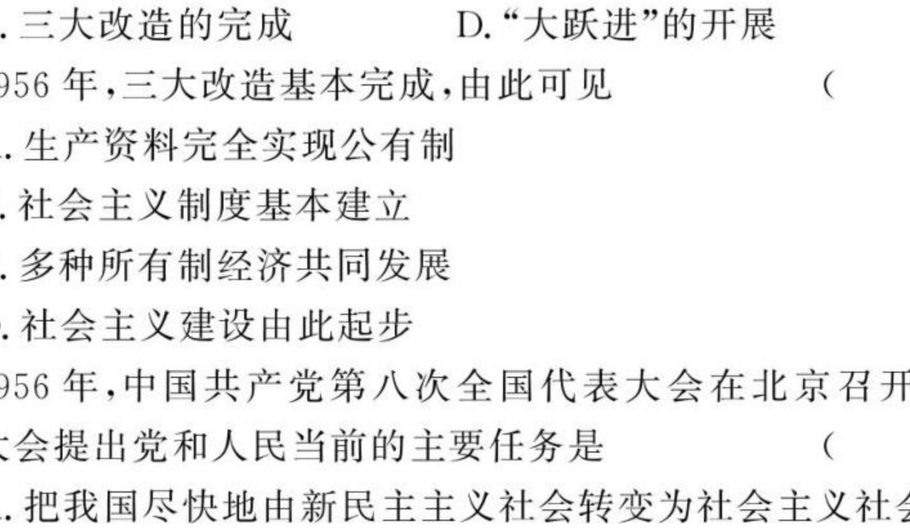

A. “一五”计划开局之年农业总产值呈现明显下降趋势
B. “三大改造”期间的工业总产值始终不及农业总产值
C. “大跃进”“人民公社化”运动使农业总产值进一步下降
D. 20 世纪 50 年代我国国民经济呈现持续健康发展趋势

6. 1963 年《人民日报》元旦献词高频词汇有“调整、企业、国民经济、困难、农业生产”等。对高频词汇的解读符合史实的是（　　）
A. “调整”的重点在国民经济比例关系
B. “企业”的改革方向是公私合营
C. “困难”的根源是“一边倒”方针
D. “农业生产”的经营方式遭否定

7. 阅读下列材料，回答问题。

材料一：“三亩地，一头牛，老婆孩子热炕头儿。”

——百姓俗语

材料二：第一个五年计划主要成就分布图

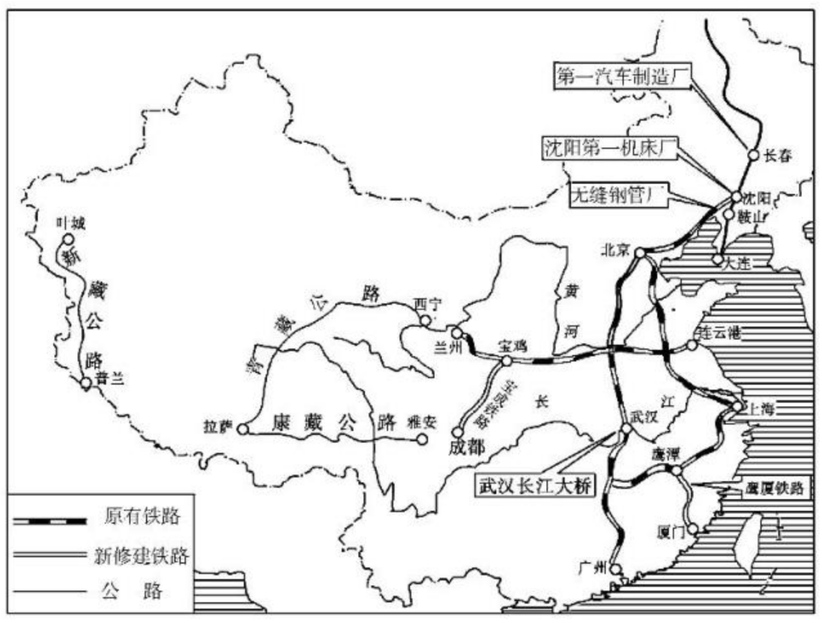

材料三：人有多大胆，地有多高产。
三年超英，五年赶美。
一天等于 20 年，跑步进入共产主义。
你是英雄咱好汉，高炉旁边比比看，你能炼一吨，咱炼一吨半。

——某历史时期的宣传口号

关注微信公众号“教辅资料站”获取更多学习资料

(1)材料一反映了什么时期哪些人的梦想？与这一梦想相对应的是什么经济形态？

(2)根据材料二，概括“一五”计划中工业建设的重心集中在哪些部门。这些成就的取得对中国的工业化有什么意义？

(3)材料三反映了什么时期中国人的什么梦想？这一梦想的问题在哪里？

课时加餐拔高练 课后拔高练规范 KEHOUBAGAOLIANGUIFAN

课后加餐练

1. 1949年，中央人民政府在接收官僚资本企业的过程中，采取了“不打烂旧机构”和“保持原职原薪原制度”的做法。这样做的主要目的是（　　）
   A. 稳定社会秩序以巩固革命政权
   B. 实现新民主主义革命的需要
   C. 实现发展生产恢复经济的既定目标
   D. 借鉴近代企业合理化的管理模式
2. 根据“一五”计划，国家对工业的投资只有11.2%用于轻工业(消费品工业)，而88.8%的投资用在钢铁、机器制造、燃料、电力、冶金和基础化学工业的发展上。这反映了“一五”计划的特点是（　　）
   A. 优先发展重工业　　B. 注重工业的均衡发展
   C. 牺牲农业的发展　　D. 充分利用我国丰富资源
3. 下面是关于社会主义三大改造的四枚邮票。其反映的本质是（　　）



   A. 劳动人民主人公的责任意识
   B. 建设社会主义的高度热情
   C. 生产资料私有制的社会变革
   D. 社会主义制度的完善发展
4. 1953年12月开始实行粮食计划收购政策，统购价格由中央规定，对城市人民和农村缺粮人民实行粮食计划供应，严禁私商自行经营粮食。以上政策的实施有利于（　　）
   A. 国民经济的迅速恢复
   B. 提高城乡生活水平
   C. 多种所有制经济发展
   D. 形成计划经济体制
5. 1956年，一汽总装线装配出第一辆卡车，毛泽东给新车起了个名字叫“解放”；1958年，根据中国的民族特色改制成了一辆高级轿车，吉林省委第一书记吴德给轿车命名为“红旗”，毛泽东欣然题字。这反映了（　　）
   A. 社会建设急于求成倾向
   B. 新中国优先发展重工业
   C. 工业化的基础得以巩固
   D. 计划经济下的政治色彩
6. 下图反映了19世纪50年代我国农村生产关系的变化情况。该图示（　　）

   1951年互助组 → 1953年初级社 → 1956年高级社 → 1958年人民公社

   A. 体现了公有化程度越来越高的趋势
   B. 表明了农民在生产中的地位日益提高
   C. 揭示了按劳分配、多劳多得的本质要求
   D. 罗列了党对社会主义建设的成功探索
7. “一切认为农业产量只能按百分之几速度而不能按百分之几十的速度增长的悲观论调已经完全破产了”。“地的产是人的胆决定的”。以上见诸报端的言论出现于（　　）
   A. 社会主义改造中
   B. “大跃进”运动时期
   C. “文化大革命”之中
   D. 改革开放的初期
8. 五年一规划，是中国经济安排的一大特色。“二五”计划大起大落，历程曲折，各年度的计划数字不断大幅调整变化，最后并无定稿。导致这种局面出现的主要原因是（　　）
   A. 经济建设方针出现偏差
   B. 经济发展形势不断变化
   C. 较为严重的自然灾害
   D. 中苏关系的日益恶化
9. 1961年，中共中央起草颁布了《农村人民公社工作条例(草案)》，取消了农村部分供给制和公共食堂。这说明（　　）
   A. 由于物资匮乏，生活必需品要凭票供应
   B. 中共中央纠正农村工作中“左”的错误
   C. 中国经济体制改革首先在农村全面展开
   D. 为调整国民经济取消了人民公社体制

关注微信公众号“教辅资料站”获取更多学习资料

10. 新中国建立后一度销声匿迹的集市贸易，1962 年到 1965 年在城镇中重现。新中国对集市贸易的两种不同政策的共同点是（　　）

A. 国家经济管理方式的调整
B. 对社会主义建设道路的有益探索
C. 克服了经济建设中的困难
D. 加强了国家对经济的控制

11. 阅读下列材料，回答问题。

材料一：从 1953 年我国完成战后的经济恢复，转入大规模经济建设以后，资本（包括人力资本）和资源严重缺乏就开始困扰着中国共产党。为此，中国共产党采取了集中有限资本和资源来加快建设的发展战略。

——武力《中国共产党对转变经济增长方式的认识与实践》

材料二：1952、1957 年中国主要产品产量简表

项目	1952 年	1957 年	增幅（%）
钢（万吨）	135	535	296
煤炭（万吨）	6 600	13 100	98
棉纺物（亿米）	38.3	50.5	32
谷物（万吨）	16 092	19 505	21

材料三：在这岁月更新的时候，回顾过去一年的巨大成就，我们建设社会主义的信心越发增强了。……我们的事业永远是前进的。但是，在前进的道路上，有时会遇到某些曲折，这也是很自然的。因为我们所从事的社会主义事业，是我国历史上前所未有的一项伟大的艰巨的新事业。

——人民日报社论（1957 年元旦）

（1）据材料一，指出中国共产党开始大规模经济建设的前提。结合所学知识，概括中国共产党采取的经济发展战略的作用。

（2）据材料二，归纳 20 世纪 50 年代中国经济发展的状况。结合所学知识，分析其形成的主要原因。

（3）据材料三，指出人民日报社论体现出的心态。结合 1956 年的国内政治、经济形势，简析其形成的主要因素。

课后拔高练

1.（**2019 · 全国卷Ⅰ**）据统计，1954 年 1 月到 4 月，中国科学院图书馆上海分馆俄文书刊借阅总数为 1953 年同期的 5 倍，为 1952 年同期的 50 倍，东北各研究所俄文书刊借阅量也大幅增加。这表明当时（　　）

A. 科学研究已与国际前沿接轨
B. 科教兴国战略已展开
C. 对苏联经验的反思蔚然成风
D. 工业化建设需求迫切

2.（**2019 · 全国卷Ⅲ**）下图是 1953 年创作的年画。该作品（　　）



图　《数他劳动强》

A. 继承了中国传统文人画作的基本风格
B. 描绘了农民参与社会主义生产的场景
C. 体现了“双百”方针提倡的创作精神
D. 倡导了适应国家建设需要的社会新风

3.（**2018 · 全国卷Ⅰ**）下图是 1953 年的一幅漫画，描绘了资源勘探队员来到深山，手持“邀请函”叩响山洞大门的情景。这反映了当时我国（　　）



A. 已经初步改变工业落后局面
B. 开始进行对矿产资源的开采
C. 国民经济调整任务基本完成
D. 大规模的经济建设正在展开

4.（**2018 · 全国卷Ⅱ**）右图为 1956 年的一幅漫画《两把尺》（画中字：“奶奶的尺——量布做新衣。阿姨的尺——测量祖国，建设社会主义。”）该漫画反映了（　　）



A. 社会主义建设以工业化为中心
B. 女性成为国家建设的重要力量
C. 人民公社化运动蓬勃开展
D. 城乡差别发生根本性改变

5.（**2017 · 海南卷**）右图是创作于 1950 年的宣传画《拖拉机》，该作品反映出（　　）



A. 农村开始走上人民公社化道路
B. 农业机械化已在农村得到普及
C. 农业生产方式将发生巨大变化
D. 农村掀起社会主义改造的高潮

关注微信公众号“教辅资料站”获取更多学习资料

6.（**2016·全国卷Ⅱ**）“一五”计划期间，我国住宅建设占基本建设投资额的比重不断减少，其他非生产性建设投资也开始受到抑制。这表明我国（　　）

A. 致力于奠定工业化基础

B. 国民经济结构臻于平衡

C. 大力压缩基本建设投资规模

D. 城市化的进程趋于缓慢

7.（**2019·全国卷Ⅱ，节选**）阅读材料，回答问题。

材料：1950 年，政务院确立改造海关的基本方针，海关税则“必需保护国家生产，必需保护国内生产品与外国商品竞争”。在海关税率方面，根据国家经济情况和国内需要予以调整，“使其较能适合于发展国内生产保护国内工业的要求”。同年，中国对外贸易出现了 70 余年来未有的出超。

——摘编自武力主编《中华人民共和国经济史》等

根据材料并结合所学知识，简析 1950 年中国海关税率调整的特征和意义。

第 12 课　从计划经济到市场经济

课前自检自查练　自主预习点对点　ZIZHUYUXIDIANDUIDIAN

一、伟大的历史转折

1. 背景

（1）经济状况：粉碎“四人帮”后，国民经济仍处于停滞状态。

（2）思想基础：1978 年，关于[1]_____问题的讨论促进了人们的思想解放。

（3）指导思想：邓小平《解放思想，实事求是，团结一致向前看》的讲话，为中共十一届三中全会确立了指导思想。

2. 标志：1978 年 12 月，中共十一届三中全会在北京召开。

3. 内容

（1）思想路线：重新确立了解放思想、[2]_____的马克思主义思想路线。

（2）政治路线：抛弃“以阶级斗争为纲”的“左”倾错误方针，把党和国家工作的重点转移到社会主义[3]_____上来。

（3）经济方针：确定今后党和国家的工作要以经济建设为中心，实行改革开放。

4. 意义：成为实行[4]_____和开辟中国特色社会主义道路的起点。

对点训练 DUIDIANXUNLIAN

1. 中共某会议公报：“我们在明年把工作中心转入社会主义现代化建设并取得应有的成就，将是对建国三十周年的最好献礼。”此次会议是中共（　　）

A. 七大　　B. 八大

C. 十一届三中全会　　D. 十二大

二、经济体制改革

	措施	影响
农村经济体制改革	①1978 年，在全国普遍实行以[5]_____经营为主要形式的责任制 ②1983 年，撤销人民公社，建立乡、镇政府；撤销生产大队，建立[6]_____	①农民有了生产和分配的[7]_____，极大地调动了生产积极性 ②全国农业得到大发展 ③促进了城市的改革
城市经济体制改革	①中心环节：增强[8]_____，把企业搞活 ②管理体制：政企分开，简政放权，企业[9]_____、自负盈亏 ③所有制：变单一的公有制经济为以公有制经济为主体、多种所有制经济共同发展 ④分配制度：实行以[10]_____为主、多种分配方式并存的制度	调动了各方面的积极性，企业有了[11]_____机制，增强了活力，经济得到快速发展，效益显著提高

对点训练 DUIDIANXUNLIAN

2. 中国共产党十一届三中全会揭开了中国经济改革的序幕。中国农村率先进行改革，普遍（　　）

A. 发动人民公社化运动

B. 建立社会主义市场经济体制

C. 建立起现代企业制度

D. 实行了家庭联产承包责任制

关注微信公众号“教辅资料站”获取更多学习资料

3. 1980 年，美国记者尤布乐在报道中写道："在共产党中国的心脏，美味的食品和私人工商业正在狭窄的小胡同里恢复元气。"这反映了当时中国（　　）
A. 经济体制改革成效显著
B. 已明确私人工商业的地位
C. 国民经济得到恢复发展
D. 重新定位个体经济的价值

4. 1985 年 1 月江苏省人民政府将一批省属企业下放给所在地(市)领导管理，下放的企业中有南京机床厂、江南水泥厂、江苏玻璃厂等 34 个省属企业。该决定主要是为了（　　）
A. 调整工业布局　　B. 实行政企分开
C. 增强企业活力　　D. 鼓励租赁经营

5. 下图为 1986 年全国社会商品零售总额构成示意图。这说明（　　）

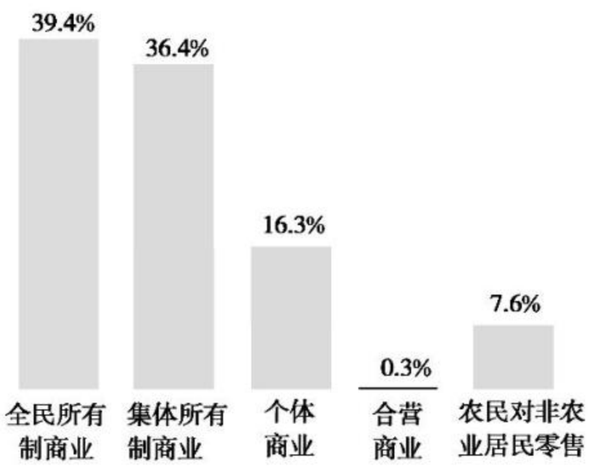

A. 社会经济富有活力　　B. 经济体制出现剧变
C. 商品市场非常繁华　　D. 民众生活有重大改善

三、社会主义市场经济体制的建立

1. 背景

(1)国内：改革遇到重重阻力。
(2)国际：东欧剧变，苏联解体，世界⑫＿＿＿＿＿＿运动遭遇挫折。

2. 过程

(1)邓小平"⑬＿＿＿＿＿＿"：提出要搞好社会主义的市场经济。
(2)中共十四大：提出我国经济体制改革的目标是建立社会主义⑭＿＿＿＿＿＿体制。
(3)中共十四届三中全会：确立了我国社会主义市场经济体制的基本框架。
(4)中共十五大：进一步完善了社会主义市场经济理论。
(5)到 21 世纪初：社会主义商品市场经济体系基本建立。

3. 意义

(1)促进了⑮＿＿＿＿＿＿的高速发展，中国成为世界上经济增长速度最快的国家。
(2)人民的生活发生了翻天覆地的变化；中国已从总体上达到小康水平，并朝着全面建设⑯＿＿＿＿＿＿的新目标迈进。

对点训练 DUIDIANXUNLIAN

6. "一九九二年又是一个春天，有一位老人在中国的南海边发表诗篇。"歌曲中"在中国的南海边发表诗篇"指的是（　　）
A. 中共十四大
B. 邓小平南方谈话
C. 开始确立社会主义市场经济体制
D. 中共十四届三中全会

7. 1992 年，全国掀起公务员辞职"下海"潮，有 12 万公务员辞职下海创业。这一浪潮的出现主要是由于中国（　　）
A. 加入了世界贸易组织
B. 明确了经济体制改革目标
C. 实施了对外开放战略
D. 拉开了政治体制改革序幕

8. 改革开放以来，我国实现了由计划经济向市场经济的伟大跨越。到 21 世纪初，已经初步建立起社会主义市场经济体制。实现这一跨越的关键性决策出自于（　　）
A. 中共"八大"　　B. 中共"十二大"
C. 中共"十三大"　　D. 中共"十四大"

学考基础合格练 学考基础练能力 XUEKAOJICHULIANNENGLI

1. 下图是 20 世纪 80 年代的漫画《来自家乡的喜讯》。该漫画讨论的主题主要得益于哪次会议的决策（　　）



A. 中国共产党八大
B. 中国共产党十一届三中全会
C. 中国共产党十四大
D. 中国共产党十五大

2. 20 世纪 80 年代，中国农村流行一副对联："三十年前分田地，耕者有其田；三十年后又分地，耕者有其责。"其中"三十年后又分地"指（　　）
A. 开展土地改革运动
B. 进行农业社会主义改造
C. 掀起人民公社化运动
D. 实行家庭联产承包责任制

3. 1980 年 12 月，我国颁布了改革开放后的第一份个体工商业执照。这表明（　　）
A. 公有制经济主体地位开始改变
B. 城市经济体制改革全面展开
C. 企业承包经营责任制开始实行
D. 单一所有制经济结构已被突破

4. 下列词汇是某一年份报刊杂志出现频率最高的：专业户、放开、奖金、厂长负责制、乡镇企业、裁军。这最有可能是（　　）
A. 1978 年　　B. 1984 年
C. 1992 年　　D. 1997 年

5. 邓小平南方讲话和中共十四大是中国社会主义改革开放和现代化建设进入新阶段的标志。从此，中国的经济体制逐步迈向（　　）
A. 社会主义商品经济体制
B. 社会主义计划经济体制
C. 社会主义市场经济体制
D. 新民主主义经济体制

关注微信公众号"教辅资料站"获取更多学习资料

6. 1955 年 11 月我国正式印制使用粮票，1993 年 2 月后粮票逐渐退出历史舞台。粮票的使用与废除实际上体现了（　　）

A. 社会经济结构的变化　　B. 经济管理体制的变化

C. 所有制形式变化　　D. 产品分配方式的变化

7. 经济结构的变动通常表现为所有制结构、产业结构等的调整。阅读下列材料，回答问题。

材料一：1952～1956 年我国所有制结构变动表

类型		1952 年	1956 年
公有制经济	国营经济	19.1%	32.2%
	合作社经济	1.5%	53.4%
	公私合营经济	0.7%	7.3%
私有制经济	资本主义经济	6.9%	0%
	个体经济	71.8%	7.1%

材料二：

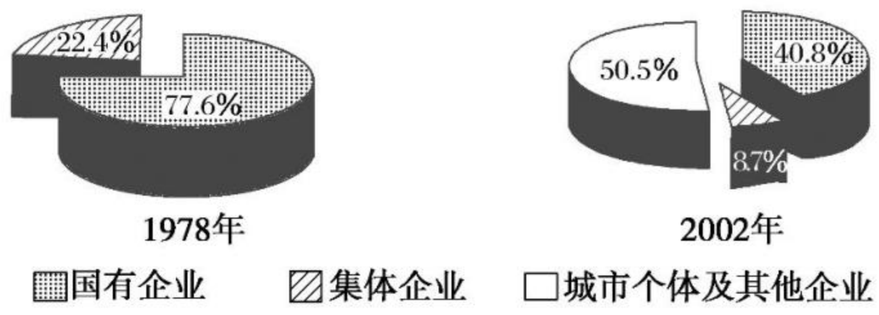

(1)根据材料一，中华人民共和国成立后我国所有制结构发生了怎样的变化？指出形成这种变化的主要原因及其对我国社会性质产生的影响。

(2)根据材料二，指出这一时期我国所有制结构又发生了怎样的变化？这一变化有何积极作用？

课时加餐拔高练　课后拔高练规范　KEHOUBAGAOLIANGUIFAN

课后加餐练

1. 1979 年初，宣传中共十一届三中全会精神的标语是（　　）

A. “为巩固新民主主义制度而斗争”

B. “解放思想，实事求是，团结一致向前看”

C. “政治挂帅，提高觉悟，争取更大的跃进”

D. “深化改革，建立社会主义市场经济体制”

2. 下图是拍摄于 20 世纪 80 年代的一张照片（民户内景）。它最能反映出（　　）



A. 所有制变革给民户带来的喜悦

B. 生产关系调整促进了粮食增收

C. 思想解放带来文艺创作的繁荣

D. 改革之初，农村生存状况堪忧

3. 1979 年起，政府大幅度提高了粮食、油脂等 18 种主要农产品的收购价格，平均涨幅 35%，同时还对粮食和油料超过政府征购部分加价 50%。这一举措（　　）

A. 调动了农民生产的积极性

B. 打破了旧经济体制的束缚

C. 扩大了农民的生产自主权

D. 宣告市场定价机制的形成

4. 1983 年 10 月，中共中央、国务院发出《关于实行政社分开建立乡政府的通知》，到 1984 年底，全国各地基本完成了政社分设，建立 9.1 万个乡（镇）政府，92.6 万个村民委员会。这实际上（　　）

A. 宣告了人民公社制度的结束

B. 标志着家庭联产承包责任制开始

C. 扩大了农村基层民主的范围

D. 揭开了农村政治经济改革的序幕

5. 据国家统计局数据显示，1978 年、1980 年、1984 年，我国粮食产量分别为 304.77 万吨、320.56 万吨、407.31 万吨、油料产量分别为 5.21 万吨、7.69 万吨、11.91 万吨。这反映了此时的中国（　　）

A. 市场经济已取代计划经济

B. 农村经济改革成效明显

C. 城市经济体制改革促进了农业发展

D. 城乡经济交流稳步发展

6. 1984 年 3 月，来自福建全省各地国有骨干企业的 55 位厂长经理联合发表了一封呼吁信——《给我们松绑》，要求扩大企业自主权，试行厂长（经理）负责制，在全国引起了很大的反响。这说明当时我国经济体制改革的中心环节是（　　）

A. 增强企业活力

B. 建立现代企业制度

C. 发展非公有制经济

D. 建立社会主义市场经济体制

关注微信公众号“教辅资料站”获取更多学习资料

7. 1985年1月，国家物价局与国家物资局在联合发出的《关于放开工业生产资料超产自销产品价格的通知》中规定，允许企业按市场价格销售“计划外”产品。这说明（　　）
A. 计划经济体制已经崩溃
B. 市场经济体制开始确立
C. 企业经营的自主权扩大
D. 企业经营管理出现混乱

8. 下列漫画表现了中国社会经济生活发生的巨大变化。这种变化反映了（　　）





A. 社会主义改造的完成
B. “大跃进”运动的开展
C. “文化大革命”的结束
D. 改革开放的成效

9. 1992年初，邓小平在南方视察时指出：“市场经济不等于资本主义，社会主义也有市场。计划和市场都是经济手段。”中国建立社会主义市场经济的本质目的是（　　）
A. 解放和发展生产力
B. 改变计划经济体制
C. 宏观调控资源配置
D. 强调以经济建设为中心

10. 中共十四大报告指出：“它不是要改变我们社会主义制度的性质，而是社会主义制度的自我完善和发展……是同社会主义基本制度结合在一起的。”材料中的“它”是指（　　）
A. 国有企业改革
B. 社会主义有计划的商品经济
C. 社会主义计划经济体制
D. 社会主义市场经济体制

11. 阅读材料，回答问题。

材料一：1978年《华盛顿邮报》上刊登了记者马修斯发表的一篇中国工厂观察记。他说：“当我走进一个车间的时候，有三名女工正在同旁边桌上的另外三名女工聊天。在我逗留的几分钟里只有一个女工干了活，而没有一个女工说得清楚她们的生产定额是多少。”一位日本记者在重庆炼钢厂发现了一台140多年前的机器。这家年产30万吨原钢的工厂，使用的机械设备全都是20世纪50年代以前的。日本驻香港记者松永二日也对中国企业的落后感到惊讶，他举例说，上海内燃机研究所的31名技师，平均年龄是56岁。

——摘编自吴晓波《激荡三十年 中国企业1978～2008》

材料二：今日国企与老国企不同，已发生质变：昔日国企资本百分之百国有，今日国企90%以上实行股份制，还有外资介入。昔日国企经营为完成国家计划，今日国企经营为追求利润最大化。昔日国企利润全部归属国有，今日国企已数年不向国家交利润；即便最近上缴，也是微乎其微。昔日国企没有分配自主权，今日国企具有完全分配自主权，不受国家约束。

——摘编自何伟《对国企改革历程的深层次思考》

(1)据材料一，指出我国国有企业在当时存在的不足之处。

(2)据材料二，概括“今日国企非昔日国企”表现在哪些方面。

(3)综合上述材料并结合所学知识，说明在经济全球化的条件下如何进一步深化我国的国企改革。

课后拔高练

1. (**2019·全国卷Ⅱ**)1979～1981年，中国减少粮食播种面积5 000万亩，有计划地扩大了经济作物的种植面积，在有条件的地方还开始逐步退耕还林还牧，鼓励农村在经济合理原则下举办社队企业。这些政策（　　）
A. 推动了农村经济结构的调整
B. 加快了私营企业发展
C. 完善了家庭联产承包责任制
D. 健全了市场经济体制

2. (**2018·全国卷Ⅲ**)

中国乡镇企业行业分布表(单位：万个)

年份	农业	工业	建筑业	交通运输业	商、饮、服务业
1982	29.28	74.92	5.38	9.58	17.01
1988	23.28	773.52	95.58	372.55	623.23

表中的数据变化说明，这一时期我国（　　）
A. 农村剩余劳动力大量转移
B. 城乡一体化逐步实现
C. 社会主义市场经济体制已建立
D. 工业结构趋于合理

关注微信公众号“教辅资料站”获取更多学习资料

3.（**2018·海南卷**）20世纪50～90年代，中国城镇居民须与国营粮店建立供给和消费关系，由粮店按规定标准定期供应粮油。城镇间人口迁移和农业人口进城都要办理“粮油关系”。2001年国家正式取消这一做法，其目的是（　　）

A. 消除城乡区域差别

B. 增加城乡居民收入

C. 完善市场经济体制

D. 开启农产品商品化

4.（**2017·全国卷Ⅰ**）1990年，一份提交中央的报告说，理论上的凯恩斯主义和实践中的罗斯福新政，实际上是把计划用作国家干预的一种手段，从那时候起，计划与市场相结合成为世界经济体制优化的普遍趋势。据此可知，该报告的主旨是（　　）

A. 肯定国家干预经济的发展模式

B. 阐明融入经济全球化的必要

C. 主张摆脱传统经济模式的束缚

D. 剖析西方经济体制的实质

5.（**2016·全国卷Ⅲ**）1980年与1975年相比，我国粮食播种面积减少6 884万亩，总产量却增加674亿斤；棉花播种面积减少53万亩，总产量增加652万担；油料作物和甜菜播种面积共扩大3 626万亩，其总产量分别增加70%和150%。出现这一现象的主要原因是（　　）

A. 农民生产自主权的扩大

B. 农业生产技术有了革命性的改变

C. 农村经济体制改革完成

D. 国家取消对农副产品的统销政策

第13课　对外开放格局的初步形成

课前自检自查练　自主预习点对点　ZIZHUYUXIDIANDUIDIAN

一、经济特区的创办

1. 创办

（1）1980年，[1]_____、珠海、汕头、厦门成为我国第一批经济特区。

（2）1988年，中国设立[2]_____，划出海南岛设置海南经济特区。

2. 特点

（1）国家给予特区较大的[3]_____权限。

（2）特区建设以吸收和利用外资为主，实行以社会主义公有制为主导的多元化经济所有制形式，经济活动以[4]_____为主。

（3）特区对[5]_____给予优惠和方便。

3. 意义

（1）特区在发展[6]_____经济方面，成为全国排头兵。

（2）深圳成为“一夜崛起的城市”。

（3）对沿海地区实行外向型经济战略，具有探索和示范作用。

（4）特区的改革，为全国提供了宝贵经验。

对点训练 DUIDIANXUNLIAN

1. 1979年4月，时任广东省省委书记习仲勋说：“中国这么大，各省有各省的特点，有些应根据省的特点来搞。……希望中央给点权，让广东先行一步，能放手干。”习仲勋的建议得到了邓小平的肯定和支持。广东“先行一步”的表现是（　　）

A. 率先实行农业改革

B. 开辟经济特区

C. 设立沿海经济开放区

D. 设立沿海开放城市

2. 改革开放后的中国出现了两种不同的“特区”。香港、澳门特别行政区和深圳等经济特区，它们最主要的区别是（　　）

A. 文化习俗　　B. 政治制度

C. 经济模式　　D. 生活方式

3. 1988年夏天，一位企业家准备赴新设立的经济特区创业，他在日记中写道：“在前方的新大陆上，自由和均等的机会正遍地盛开。”该日记作者渡船的目的地是（　　）

A. 深圳　　B. 珠海

C. 汕头　　D. 海南

二、沿海经济开放区的开辟

1. 沿海港口城市的开放

（1）目的：加快利用外资、引进技术的步伐。

（2）概况：有天津、[7]_____、福州、广州等14个沿海港口城市。

2. 沿海经济开放区的开辟

（1）概况：1985年以后，[8]_____三角洲、珠江三角洲、闽东南地区和环渤海地区相继开辟为沿海经济开放区。到1992年，沿海经济开放区已从南到北连成片，形成了沿海经济开放地带。

（2）作用：进一步深化了对外开放，带动了内地开发。

3. 经济技术开发区的设立

（1）目的：引进外资，生产[9]_____产品或加工出口产品。

（2）特点：汇集了优秀人才和先进技术，具有[10]_____的特点。

（3）意义：是学习先进管理经验、提高管理水平的重要场所，也是了解[11]_____的重要窗口。

对点训练 DUIDIANXUNLIAN

4. 国际舆论曾高度评价当代中国的开放举措，“开放整个海岸，意味着实际开放了半个中国”，它是35年来中国政府所“采取的最大胆行动”。这是指（　　）

A. 开发开放上海浦东

B. 创办深圳等四个经济特区

C. 开放沿海14个港口城市

D. 开放海南岛为经济特区

关注微信公众号“教辅资料站”获取更多学习资料

5. 下图是新中国成立后四大城市群的城市数增加曲线图，其中珠江三角洲的城市数在1980年以后增加迅速，主要原因是（　　）

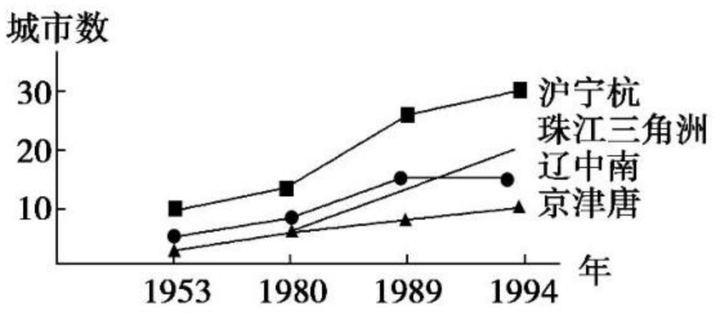

A. 历史原因　　B. 地理因素
C. 政策因素　　D. 国际环境

三、浦东的开发和开放

1. 浦东的开发和开放

(1)时间：1990年。

(2)目的

①进一步开放⑫＿＿＿＿＿＿＿＿，尽快把上海建成为国际经济、金融、贸易中心之一。

②带动长江三角洲和整个长江流域经济的新飞跃。

(3)意义

①浦东开发成为20世纪90年代初国家经济发展的重大战略步骤。

②浦东新区成为上海新兴高科技产业和现代工业基地，成为上海新的经济增长点。

③成为中国20世纪90年代改革开放的重点和标志。

2. 开放格局的形成

(1)表现：已形成⑬＿＿＿＿＿＿、沿海开放城市、⑭＿＿＿＿＿＿、沿江开放港口城市、沿边开放城镇、内地省会开放城市的开放体系。

(2)特点：全方位、多层次、宽领域。

对点训练 DUIDIANXUNLIAN

6. 1984年被列入沿海开放城市，20世纪90年代初成为改革开放重点的城市是（　　）

A. 深圳　　B. 上海
C. 厦门　　D. 珠海

7. 下图为改革开放以来我国对外贸易情况表(单位：亿美元)。出现这一现象的主要原因是（　　）

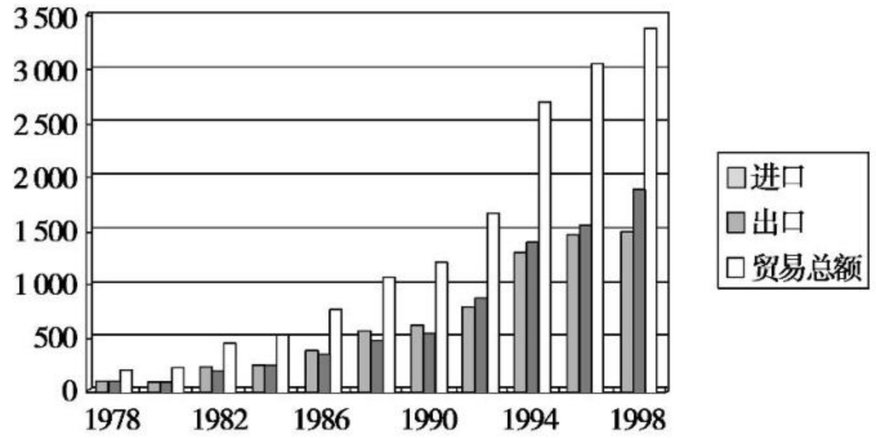

A. 世界经济全球化的推动
B. 社会主义市场经济体制的确立
C. 中国加入世界贸易组织
D. 对外开放格局的形成和发展完善

8. 实行改革开放以来，我国已经形成了全方位、多层次、宽领域的对外开放格局，以下各项正确的是（　　）

A. 沿海开放城市—经济特区—沿海经济开放区—内地
B. 经济特区—沿海经济开放区—沿海开放城市—内地
C. 经济特区—沿海开放城市—沿海经济开放区—内地
D. 沿海经济开放区—沿海开放城市—经济特区—内地

学考基础合格练 学考基础练能力 XUEKAOJICHULIANNENGLI

1. 有人把中国1979年所做的追赶世界、融入世界的决策称为打开了“第一扇窗”。“第一扇窗”比喻的是（　　）

A. 十一届三中全会召开
B. 在广东和福建设立经济特区
C. 兴办经济技术开发区
D. 社会主义市场经济体制确立

2. 深圳、珠海等地是我国第一批经济特区，其特殊性表现为（　　）

A. 突破了计划经济的限制
B. 确立了社会主义市场经济体制
C. 对外关系可以独立自主
D. 具有特别的行政能力

3. 据下图判断在中国进出口总额开始出现较快增长的年代，与此同步发生的重大事件是（　　）

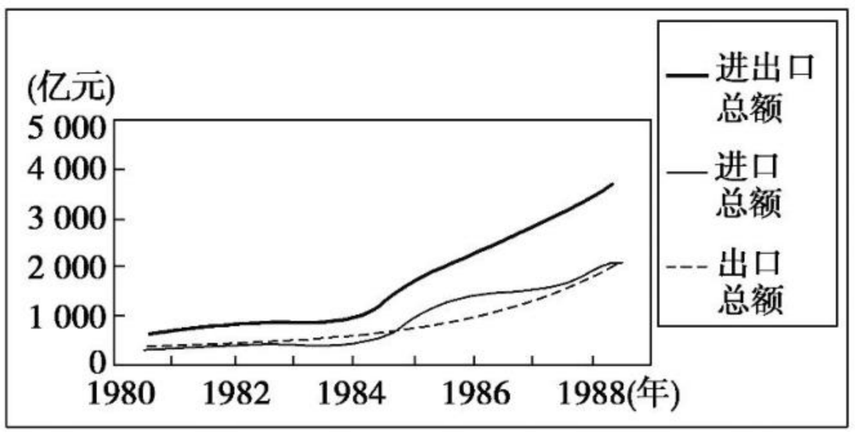

1980~1988年中国进出口总额走势图

A. 设立四个经济特区
B. 开放14个沿海港口城市
C. 开发上海浦东地区
D. 加入世界贸易组织

4. 厦漳泉三角地区属于这一格局中的（　　）

A. 经济特区
B. 沿海开放城市
C. 沿海经济开放区
D. 经济技术开发区

5. 被海内外人士誉为20世纪90年代“进入中国经济大门，打开中国市场的金钥匙，连接中国与世界经济的桥梁”的是（　　）

A. 深圳特区　　B. 海南特区
C. 港澳特别行政区　　D. 上海浦东

6. “开着门，世界能够走进中国，中国也才能走向世界。”2017年，习近平在达沃斯论坛上的生动描述，让全世界听懂了中国的全方位对外开放战略。“全方位”主要是指（　　）

A. 全国范围对外开放
B. 全行业对外开放
C. 对所有周边国家开放
D. 对世界所有国家开放

关注微信公众号“教辅资料站”获取更多学习资料

7. 阅读下列材料，回答问题。

材料一：现在的世界是开放的世界。中国在西方国家产业革命以后变得落后了，一个重要的原因就是闭关自守。经验证明，关起门来搞建设是不能成功的，中国的发展离不开世界。当然，像中国这样大的国家搞建设，不靠自己不行，主要靠自己，这叫做自力更生。但是，在坚持自力更生的基础上，还需要对外开放，吸收外国的资金和技术来帮助我们发展。

——《邓小平文选》

材料二：



图一　“一夜崛起之城”——深圳特区(1980年)



图二　长江流域经济发展的龙头——上海浦东新区(1990年)



图三　北方经济增长的引擎——天津滨海新区(2006年)

(1)根据材料一，指出当代中国为什么要实行对外开放政策。这一政策的主要内容和立足点是什么？

(2)依据材料二中的图片，结合改革开放的历史进程，说明新时期我国对外开放的基本格局。指出图三所示地区与前两地开发相比，在经济运行环境方面的最大优势。

课时加餐拔高练　课后拔高练规范　KEHOUBAGAOLIANGUIFAN

课后加餐练

1. 1979年1月，一封关于香港厂商要求回广州开设工厂的来信摘报送到了邓小平同志的办公室，邓小平读后当即表示：这种事，我看广东可以放手干。“放手干”的第一步是　(　　)

A. 设立经济特区

B. 开放沿海港口城市

C. 开辟沿海经济开放区

D. 设立自由贸易试验区

2. 1979年深圳市常住人口约31.41万人，1988年约120.14万人，2012年约1 054.74万人。深圳常住人口的增长　(　　)

A. 适应了外向型经济需要

B. 源于人口出生率的提高

C. 推动了经济结构的升级

D. 加速了社会老龄化进程

3. 袁庚(1917～2016)，被誉为“改革先锋”。1979年他开始担任深圳特区蛇口工业区管委会主任时，曾提出“时间就是金钱，效率就是生命”的口号。此口号　(　　)

A. 体现了经济特区开掘创新的实干精神

B. 拉开了城市经济体制改革的大幕

C. 突破了科学技术是第一生产力的论断

D. 最早打破“吃大锅饭”的体制弊端

4. 1984年2月，邓小平说：“除现在的特区之外，可以考虑再开放几个港口城市……这些地方不叫特区，但可以实行特区的某些政策。”“某些政策”主要适用于　(　　)

A. 特区立法　　B. 招商引资

C. 机构设置　　D. 关税协定

5. 1979年7月，中国通过了《中外合资经营企业法》，80年代相继颁布《涉外经济合同法》《外资企业法》和《中外合作经营企业法》等。这些文件的发布　(　　)

A. 表明中国已经融入世界经济体系

B. 建立了社会主义市场经济体制

C. 有利于对外开放引进外资

D. 巩固了社会主义公有制经济

6. 1985年2月，中共中央、国务院决定把长江三角洲、珠江三角洲和闽南厦门、漳州、泉州三角地区开辟为沿海经济开放区。这一举措　(　　)

A. 推动城市经济体制改革的展开

B. 使我国对外开放进一步深化

C. 说明外向型经济战略开始确立

D. 标志对外开放格局初步形成

7. 1985年，邓小平指出：“外国有的评论家说，中国的现行政策是不可逆转的。我认为这个看法是正确的。”此处“不可逆转”的判断主要是基于　(　　)

A. 沿海经济开放区相继开辟

B. 经济特区与农村改革的成功

C. 人民公社化体制已经撤销

D. 城市经济体制改革全面展开

8. 在改革开放初期，广东有一个说法：遇到绿灯往前走，看到黄灯赶紧走，碰上红灯绕着走。但1992年他们说：北京送来了更通畅的绿灯。这说明　(　　)

A. 广东是改革开放的排头兵

B. 经济体制之争备受关注

C. 思想解放加速了改革开放

D. 简政放权取得初步成效

关注微信公众号“教辅资料站”获取更多学习资料

9. 前上海市副市长赵启正评价某一重大措施时说："(它)实现了以点带面，壮大上海，带动周边的战略效果，是经济学理论'点轴开发模式'的典型案例。"这是指　　(　　)

A. 开放港口城市

B. 开辟经济开放区

C. 浦东的开发开放

D. 开放长江三角洲地区

10. 下面为我国对外贸易和引进外资增长统计表(单位：亿美元)，表中信息反映出我国　　(　　)

对外贸易(进出口)	1980 年	1990 年	2000 年	2012 年
	381.4	1 154.4	4 722.9	38 671.2
引进外资(已利用外资)	1984 年	1990 年	2000 年	2012 年
	270.5	1 028.9	5 935.6	11 329.4

A. 基本形成了外向型经济

B. 在全球化中的地位提高

C. 对外开放步伐逐步加快

D. 市场经济体制逐渐完善

11. 阅读下列材料，回答问题。

材料一："那时候我去广西火车站坐车，车站上就挂着大幅标语，写着坚决抵制来自广东的资本主义倾向"。郭华雄回忆说，当时很多人认为搞改革开放是资本主义的东西，有很多名词，如"苏修""资本主义""搞复辟"等，"一开始，特区的建设只是作为一个试点，当时珠海景山路的左边是特区，右边就不是了，它的区域最开始只有 8 平方公里，后来扩大到 10 平方公里，最后才慢慢扩展到整个珠海。"

——《珠海经济特区好》

材料二：1985 年 2 月，中共中央、国务院决定把长江三角洲、珠江三角洲和闽南厦门、漳州、泉州三角地区开辟为沿海经济开放区。1988 年 3 月，国务院进一步扩大了长江、珠江三角洲和闽南三角洲地区经济开放区的范围，并把辽东半岛、山东半岛、环渤海地区的一些市、县和沿海开放城市的所辖县列为沿海经济开放区。把这些地区开辟为经济开放区，既可以加快其自身的发展，也可以带动内地的发展，并使沿海与内地形成优势互补、相得益彰的局面。

——摘编自《影响中国之 60 大事件：开辟沿海经济开放区》

(1)材料一反映了珠海经济特区初创时期的什么问题？你对此有何认识？

(2)材料二表明了我国对外开放怎样的发展历程？这对我国经济发展有何影响？

课后拔高练

1. (**2017 · 上海卷**)1979 年 4 月，广东省领导向中央汇报："我们省委讨论过……希望中央给点权，让广东先走一步，放手干。""先走一步"是指实行　　(　　)

A. 土地改革　　B. 农业合作化

C. 包产到户　　D. 对外开放

2. (**2016 · 海南卷**)1979 年 7 月，中共中央做出决定，要求广东和福建两省"发挥优越条件，抓紧当前有利的国际形势，先走一步"。其直接结果是　　(　　)

A. 推行家庭联产承包责任制

B. 设立经济特区

C. 建立社会主义市场经济体制

D. 开展国企改革

关注微信公众号"教辅资料站"获取更多学习资料

第五单元　中国近现代社会生活的变迁

第14课　物质生活与习俗的变迁

课前自检自查练　自主预习点对点　ZIZHUYUXIDIANDUIDIAN

一、动荡中变化的近代社会生活

1. 鸦片战争前：物质文化生活与社会习俗多沿袭传统。

2. 鸦片战争后：西方文化逐步渗透到国民生活中。

(1)衣

①“洋布”“[1]_____”渐渐进入中国城市百姓生活。

②辛亥革命后，孙中山设计了[2]_____。

③20世纪二三十年代，西服、粗布大衫、旗袍、学生装和裙子等五花八门。

(2)食：吃西餐成为有钱人的一种时尚。

(3)住：西方[3]_____在中国传统民居中引人注目。

(4)社会风俗

①维新派主张“[4]_____”“废止缠足”，并改革传统的婚姻制度。

②辛亥革命前后，“断发易服”具有[5]_____的色彩。

③民国时期，政府颁布剪辫易服和废止缠足等法令。

④大城市的婚丧仪式由繁琐愚昧改为[6]_____，农村仍沿袭传统的风俗习惯。

对点训练 DUIDIANXUNLIAN

1. 19世纪中后期，在沿海主要城市开始出现西式婚礼，穿白色婚纱成为当时有钱人的一种时尚。此材料反映出　(　　)

A. 通商口岸的开放使西方文化大量传入

B. 西方殖民者在中国推行同化政策

C. 对于国人白色婚纱比红盖头更具吸引力

D. 民族工业发展使穿婚纱成为资产阶级特权

2. 1879年，上海租界管理当局为严守男女之大防，规定一辆人力车只能载客一名，如不遵行，便要罚钱。这一规定　(　　)

A. 为汽车拉客提供方便

B. 严重违背了社情民意

C. 体现新旧杂陈的现实

D. 顺应了历史发展趋势

3. 下图是水下考古图片，这表明　(　　)

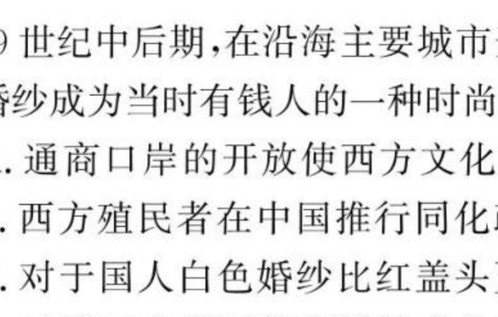

2016年12月发现的致远舰“餐盘”，中间标有篆书“致远”二字，下半圆为英文“THE IMPERIAL CHINESE NAVY”，组合成一个圆形徽标。

A. 军舰官兵的生活受西方影响

B. 市民阶层接受新事物较快

C. 通商口岸出现西式餐饮

D. 军舰官兵的日常生活已经全盘西化

4. “爱国帽兴，瓜皮帽灭；天足兴，纤足灭；阳历兴，阴历灭；鞠躬礼兴，跪拜礼灭。”这首民谣反映了某个时期社会风貌的变化。推动该变化发生的主要因素是　(　　)

A. 政治变革　　B. 经济发达

C. 教育先进　　D. 科技进步

5. 1924年，林语堂走出北京的哈德门(即崇文门)，过了护城河，就觉得“立刻退化一千年”。这种感觉折射出　(　　)

A. 东西方文明的激烈碰撞

B. 城市化进程下的城乡鸿沟

C. 中华文明只延续于乡间

D. 新文化运动走不出北京城

二、新中国社会生活新风尚

1. 20世纪50～70年代

(1)人民生活逐步得到改善，但许多生活必需品要凭[7]_____计划供应，生活水平总体较低。

(2)勤俭节约、无私奉献，是中国社会风尚的主流。

2. 改革开放后：党和政府把实现[8]_____作为经济建设的奋斗目标。

(1)衣：颜色从灰蓝色调为主变为五彩缤纷，从单一款式走向[9]_____。

(2)食：到1987年，中国已基本解决了温饱问题，政府还倡导“[10]_____”。

(3)住：1995年，国家在城镇启动了“[11]_____”。

(4)风俗习惯：[12]_____成为人们日常生活的一部分，注重环保、讲究卫生、赈济灾区的社会风尚逐步形成。

对点训练 DUIDIANXUNLIAN

6. 20世纪50年代初，春节期间各地报纸上出现更多的报道是有关过春节巩固农村速成识字学习，宣传婚姻法、努力生产、简省节约等内容。这表明当时　(　　)

A. 人民政权注重改良社会习俗

B. 政治变革服务于习俗变革

C. 传统习俗带有意识形态色彩

D. 春节习俗呈现新旧交织性

7. 近年来社会的流行语言发生了很大变化，出现了如4G、iPhone、电子书等新词汇，根本原因是　(　　)

A. 外来文化的影响

B. 大量新事物涌现

C. 改革开放使社会经济发生巨大变化

D. 人们追求时尚

关注微信公众号“教辅资料站”获取更多学习资料

学考基础合格练　学考基础练能力　XUEKAOJICHULIANNENGLI

1. 晚清重臣翁同龢在日记中描述著名买办徐润的花园时说："园小而曲折，然楼阁几案皆有夷气。"这里的"夷气"主要是指　（　）
A. 陈设带有西洋风格
B. 全部供外国富商居住
C. 园中皆为中式家具
D. 招聘欧洲建筑师施工

2. 近代某歌词中写到："五龄女子吞声哭，哭向床前问慈母。母亲爱儿自孩提，如何缚儿如缚鸡。儿足骨折儿心碎，昼不能行夜不寐。"此歌词意在　（　）
A. 提倡裹足　　B. 推行断发
C. 废止缠足　　D. 婚姻自主

3. 清末民初，具有中西合璧特色的男子服装是　（　）
A. 长袍马褂　　B. 西装
C. 中山装　　D. 唐装

4.《中国社会通史·民国卷》："民国光复，罐头之品，番餐之味，五方来会，烦费日增。"这反映出当时的中国　（　）
A. 人们已完全接受了西方的生活方式
B. 政府公开赞成西方生活方式的推广
C. 西方生活方式与传统习俗无法融合
D. 部分民众已经能认同西方生活方式

5. 如图所示是 20 世纪 50 年代中国妇女最时尚的着装——列宁装。这反映出当时女性的着装　（　）



A. 款式多样　　B. 受西方服饰影响
C. 受苏联影响　　D. 注重个性

6. "黄金周"假日是人们休闲放松的一种方式，也拉动了我国经济的发展。它透出的主要历史信息是　（　）
A. 改革开放以来人民生活水平的提高
B. 旅游业、餐饮业的快速发展
C. 假日经济是一种新经济
D. 是几千年来家庭生活的重大变革

7. 阅读下列材料，回答问题。
材料一：电灯、自来水出现之初，上海市民曾十分恐惧，担心用电会"遭雷殛"。……后来则非常欢迎电灯，称其"赛月亮"，"颇便行人"；开始，市民"谓（自来）水有毒质，饮之有毒，相戒不用"，后来则"通装水管，饮濯称便"。
——冯天瑜《中华文化史》
材料二：20 世纪初，对于清朝统治者当年强迫汉人接受的发辫，大多数人都主张剪去，并且认为"不剪发不算革命"，"也不算时髦"。在服饰上，"一切前清官爵命服及袍褂、补服、翎顶、朝珠，一概束之高阁"，人们穿衣"务趋自由平等的理性原则建立起来的一种完美时髦"。当时一般人认为，西方的社会生活是依据天赋人权等理性原则建立起来的理想社会模式，代表着社会进步的方向。相比之下，中国传统的社会生活则充满着陈旧愚俗，不符合时代潮流，非改革不可。以致在民国初形成了这样一种社会心理：认为谁接受西方的社会生活习俗，谁就是文明、开化，属于新派人物。
——王文泉主编《中国近代史》
(1)根据两则材料，概括清末民初社会观念的变化。

(2)两则材料都反映了当时社会生活习俗的新气象，比较其形成的不同原因。

课时加餐拔高练　课后拔高练规范　KEHOUBAGAOLIANGUIFAN

课后加餐练

1.《竹枝词·京华咏俗》写道："衣裳时样年来瘦，渐仿洋装显细腰。"这种情况表明　（　）
A. 西方服饰开始传入中国
B. 民间服饰受到西方影响
C. 新式服饰体现等级观念
D. 洋装普遍取代传统服饰

2. 自 19 世纪中叶以来，啤酒、汽水、奶茶、蛋糕以及各类西式快餐，渐渐受到了中国人的青睐，同时也加快了中国人的生活节奏。这实际上反映了　（　）
A. 西餐成为中华饮食文化的主流
B. 中国卷入资本主义世界市场
C. 中国社会生活变迁的外部原因
D. 中西合璧是近代饮食的突出特点

关注微信公众号"教辅资料站"获取更多学习资料

3. 下图为1872年《申报》刊登的一则图文广告(成衣机器出售)。这可以用来说明当时　(　　)




成衣機器出售 甲
啟者本行今有新到外國最衣機器數輛係微荷所作其價每輛計洋五十元倘欲買者請至廣東路第二號便是特此佈聞
十一月十四日
謹啓洋行啟

A. 新式广告促进社会价值观更新
B. 西方文明助推社会生活变化
C. 中国传统的自然经济开始解体
D. 近代中国服装业已经西方化

4. 歌曲《文明结婚歌》唱道:“吾祖国,改良婚礼,社会进文明;莫再说,男尊女卑,同是新国民。”歌词描绘的社会现象最早可能出现于　(　　)
A. 鸦片战争时期　　B. 中华民国初期
C. “大跃进”时期　　D. 改革开放时期

5. 中国古代就有“天下兴亡,匹夫有责”之说,1912年1月11日的《民立报》却传出了发自女界的另一种声音“天下兴亡,匹妇有责”。这一变化主要反映了　(　　)
A. 民主科学观念深入人心
B. 近代女权意识逐渐增强
C. 社会生活日趋现代时尚
D. 封建正统思想已经瓦解

6. 1919年6月,曾参加过辛亥革命的女子沈佩贞致函国会,陈述了她与议员魏肇文的婚姻情况,对魏肇文登报毁婚表示不满,希望通过法庭解决家庭纠纷。这件事在当时社会引起了轩然大波。对材料理解比较全面的是(　　)
A. 封建思想,根深蒂固　　B. 民主法治,深入人心
C. 妇女解放,潮流涌动　　D. 社会观念,碰撞转型

7. 20世纪20年代前后,北京、上海、广州的一些戏楼、茶馆出现男女杂处合坐。僻居四川的成都也大致相同:“社交男女要公开,才把平权博得来;若问社交何处所,维新茶社大家挨(维新茶社男女可以杂坐)。”这反映出当时　(　　)
A. 女性地位有所提高　　B. 各地风俗趋向一致
C. 民主思想广泛传播　　D. 娱乐场所繁荣兴盛

8. 民国建立后,以国家法制的形式通令改革服装,民众的穿着打扮不再受国家禁令的约束,中国社会从此进入自由穿着的时代。从中可以看出　(　　)
A. 衣冠之制影响人们的日常生活
B. 服饰洋化成为各阶层追逐的新时尚
C. 服饰成为展现个性自由的窗口
D. 中山装是具有中国气派的民族服装

9. 2008年底,由国内15家主流媒体共同发起了改革开放流行语征集活动,最终选出全国十大流行语:下海、下岗再就业、农民工、黑猫白猫、上网、改革开放、北京奥运、炒股、中国特色、雄起。这些流行语　(　　)
A. 反映了部分公务员思想观念转变
B. 经济体制改革的顺利发展
C. 反映了改革开放以来中国的巨变
D. 表明中国互联网普及率高

10. 近期,在“现代女人的嫁妆流行啥?”的调查中,下面调查结果说明　(　　)

问卷提问	结果前三位
现代女人的嫁妆流行啥?	1. 房子:最奢侈的嫁妆
	2. 车子:最受宠的嫁妆
	3. 票子:最实用的嫁妆

A. 社会进步,旧风俗观荡然无存
B. 经济发展,民众生活水平提高
C. 体现改革,市场理念影响婚俗
D. 社会转型,女性政治地位提高

11. 服饰的变迁是以非文本的方式记载着社会与生活的变迁,并成为时代发展的一个永恒的烙印和缩影。阅读下列材料,回答问题。

材料一:(鸦片战争后)在各个通商口岸城市,衣冠华丽、不遵规制者大有人在,暴富起来的商人穿上锦袍,是再平常不过的事。

——苏生文、赵爽《素裙革履学欧风》

材料二:民国后的社会舆论强调:“民国新建,亟应规定服制,以期整齐划一。今世界各国,趋用西式,自以从同为宜。”但由于当时西式服装的主要原料是进口的,为了保护民族工业,民国政府在制定新的礼服样式时,保留了一款传统的中国服饰作为礼服,但传统帝国时期通过服装便可辨认身份的特征已经彻底消失了。

——《中国近现代服饰变迁》

材料三:据说20世纪二三十年代的时候……有些学校规定毕业生参加毕业典礼时必须穿西装,颇让那些穷学生为难,不得不赊账三四百元(数月的薪水)置备一套西装,以解燃眉之急。有的人则到旧货市场上去买旧西装,时称“淘西装”。

——邹韬奋《经历》

(1)据材料一指出服饰象征意义的变化,结合所学知识分析其主要原因。

(2)据材料二、三分析西装在民国后流行的主要原因,同时还存在着哪些制约其流行的因素?

(3)结合上述材料,归纳出中国近代服饰变迁的主要趋势。

关注微信公众号“教辅资料站”获取更多学习资料

课后拔高练

1.（**2018·海南卷**）1903年，上海一些新式学堂学生剪发辫，江浙许多城市青年加以效仿，他们在发辫四围留短发，覆于额头，与道教人物刘海蟾的发式相似，故得名“前刘海”。“前刘海”并没有剪掉发辫，官府仍视为大害，严令禁止。这表明当时江浙地区（　　）

A. 道教的地位被否认

B. 扫除封建陋习成为潮流

C. 官府反对政治革新

D. 革命思潮影响社会习俗

2.（**2017·全国卷Ⅱ**）1913年《申报》登载的“艾罗补脑汁”广告称：“欲图一国之进步，当先使一国之人民精神日旺，思想日新，舍补脑之外另无精神思想也。故善国者必先得卫生，善谋卫生者必先得谋补脑。”由于广告成功，产品一上市就十分畅销。这反映出当时（　　）

A. 新文化运动的影响日益广泛

B. 追求新思想成为社会时尚

C. 改良社会风俗成为国民共识

D. 广告成为推进文明的工具

3.（**2017·全国卷Ⅲ**）20世纪30年代，上海市政府组织举办集体婚礼。仪式上，喜字纱灯引导，乐队演奏钢琴曲，新郎着蓝袍黑褂，新娘穿粉色旗袍，头披白纱，手持鲜花，婚礼场面整齐宏大。这反映了当时上海（　　）

A. 民众实现了婚姻自主　　B. 中西习俗融合成为时尚

C. 门当户对观念已颠覆　　D. 政府主导社会习俗演变

4.（**2016·海南卷**）1903年，《大公报》刊文称：“江南之新学国民及留学生多剪去辫发，以为不如此则形式上有缺点也。乃今年乡试而伊等又复假装辫发，依然入场乡试。然伊等称自由讲民权者，实不敌其功名心也。”这表明（　　）

A. 科举制度仍有较强的生命力

B. 新式教育与传统科举已融为一体

C. 发式成为区别新旧学的标志

D. 旧制度制约社会观念的变革

第15课　交通和通讯工具的进步

课前自检自查练　自主预习点对点　ZIZHUYUXIDIANDUIDIAN

一、交通事业的发展

1. 铁路

(1)19世纪70年代：外国商人擅自修筑从[1]_____到上海的淞沪铁路。

(2)19世纪80年代初：清政府修筑从[2]_____到胥各庄的铁路。

(3)辛亥革命前夕：中国已建成多条铁路，奠定了中国近代铁路网的基本格局。

(4)新中国成立后：先后建成宝成、[3]_____等铁路；到“九五”末期，中国的铁路营运总里程跃居亚洲第一位、世界第四位；2006年，青藏铁路全线通车。

2. 公路

(1)20世纪初：汽车开始出现在[4]_____等大城市，外国近代筑路技术传入中国。

(2)新中国成立后：建起汽车制造厂，全国建起比较密集的公路网。

3. 水运

(1)鸦片战争后：西方列强在中国设立轮船公司，控制中国水上运输。

(2)19世纪70年代初期：洋务派创办[5]_____，打破列强在中国的垄断局面。

(3)新中国成立后：轮船运输业由国家统一管理，获得较快发展。

(4)20世纪90年代以后：轮船运输业转向[6]_____服务业。

4. 航空

(1)1909年：[7]_____制成中国第一架飞机，标志着中国航空事业的开始。

(2)1920年：中国首条空中航线——北京至天津航线开通，中国民航业拉开了序幕。

(3)新中国成立初期，民航发展有限；改革开放以后，中国成为世界民航大国。

对点训练 DUIDIANXUNLIAN

1. 在19世纪六七十年代，江苏沿江居民到上海，最有可能乘坐的交通工具是（　　）

A. 江南制造总局的汽车

B. 洋人发明的火车

C. 轮船招商局的轮船

D. 福州船政局的军舰

2. 右图所示是1908年上海第一辆有轨电车，只有一节车厢，车速很慢，乘客可随时上下。中国有轨电车的出现（　　）



A. 促进了人们生活观念的转变

B. 完全改变了人们的出行方式

C. 消除了中外交通事业的差距

D. 实现了自由平等的政治诉求

3. 徐志摩在他一首著名的诗中写道：“长虫似的一条，呼吸是火焰，一死儿往暗里闯，不顾危险，就凭那精窄的两道，算是轨，驮着这份重，梦一般的累坠。”诗人在这首诗中描写的交通工具应该是（　　）

A. 电车　　B. 飞机

C. 火车　　D. 轮船

4. 1920年，英国飞行员驾驶一架由亨得利·佩治式轰炸机改制的0—004型14座客机，历时50分钟，完成了中国民航史上的第一次飞行。他当时是由（　　）

A. 上海飞往武汉　　B. 上海飞往南京

C. 天津飞往北京　　D. 广州飞往上海

关注微信公众号“教辅资料站”获取更多学习资料

二、通讯工具的变迁

1. 近代通讯

(1)电报

①19 世纪 70 年代，[8]_____的电报公司私自把电报线架设到上海，建起一个电报机房。

②福建巡抚在[9]_____主持架设中国第一条有线电报线。

③20 世纪初，上海[10]_____装置无线电台，设立无线电报局。

(2)电话：19 世纪 80 年代，外国开始在上海设立电话公司。

2. 现代通讯

(1)新中国成立后，逐渐形成全国电讯网络。

(2)改革开放以后，电话由奢侈品变成日用品。

(3)近年来，人们还通过[11]_____，发送电子邮件。

对点训练 DUIDIANXUNLIAN

5. 1879 年沙皇俄国乘机强占我国伊犁。清政府为了加快沟通军情，派李鸿章负责修建大沽、北塘至天津，以及从天津兵工厂至李鸿章衙门的一条通信线路。该通信工具最可能是（　　）

A. 驿站　　B. 电报

C. 邮政　　D. 电话

6. “人手而能用，著耳而得声。坐一室可对百朋，隔颜色而可亲馨欬(咳)。”这项近代发明指的是（　　）

A. 电话　　B. 电报

C. 电影　　D. 互联网

7. 为了能更好地实现教育的公平性，让各地的孩子能够选择想要学的课程，享受到全球最优秀的课程资源，我们可以选择的最佳现代技术手段是（　　）

A. 电话　　B. 无线广播

C. 卫星电视　　D. 互联网

学考基础合格练 学考基础练能力 XUEKAOJICHULIANNENGLI

1. 19 世纪 60 年代，有人写道：“火轮船自入中国以来，天下商民称便，以是知火轮船为中国必不能废之物。”这反映了当时中国（　　）

A. 已有新式交通工具　　B. 组建了近代海军

C. 商民反对轮船运输　　D. 禁绝外来事物

2. 右图为上海造币厂 2004 年铸造的上海铁路博物馆纪念章，图案为 130 多年前淞沪铁路上运行的“先导号”机车。选择此图案是为了纪念（　　）



A. 中国出现的第一条铁路

B. 中国自己设计建造的第一条铁路

C. 中国近代铁路网基本格局奠定

D. 中国的第一台内燃机车

3.《申报》在 20 世纪 30 年代常刊登“共用黄汽车”“云飞汽车，日夜出租”“教授驾驶汽车，包领驾驶执照”等广告。这说明当时的上海（　　）

A. 交通工具趋同化　　B. 交通迈向近代化

C. 汽车驾驶普及化　　D. 汽车制造国产化

4. 新式交通的引入和发展，最能符合历史潮流的是（　　）

A. 促进了经济的发展　　B. 转变了人们的思想观念

C. 加强了世界之间的联系　　D. 推动了中国近代化的进程

5. 甲午中日战争期间，如果你是当时的前线将领，有十万火急的军情要向朝廷报告，你会采用哪种方式（　　）

A. 通过驿站传递

B. 通过有线电报传递

C. 通过轮船传递

D. 通过无线电报传递

6. 右图是中国近代时期一张老照片，从中体现发生变化的社会生活领域是（　　）



A. 服饰

B. 建筑

C. 通讯

D. 婚礼

7. 阅读下列材料，回答问题。

材料一：1878 年，英国一家公司获得唐山煤矿开采权，报请修筑唐山至北塘之间的运煤铁路，遭到清政府多数官员的强烈反对。两年后，唐山至胥各庄之间 9 千米长的铁路以不用机车牵引为条件获准兴建。

材料二：火车轮下伸向远方的双轨、风驰电掣般的速度、欢快的轰鸣，昭示着新时代的到来。19 世纪 90 年代末，反对之议已波澜不兴。

材料三：



上海磁悬浮列车



青藏铁路开通

(1)根据材料一，指出该铁路修筑的目的是什么。

(2)依据材料二和所学知识，分析近代铁路运输业在受到百般阻挠下仍能发展壮大的原因。

(3)综合上述材料，从铁路运输业的发展历程中，你可以得到什么认识？

关注微信公众号“教辅资料站”获取更多学习资料

课时加餐拔高练　课后拔高练规范　KEHOUBAGAOLIANGUIFAN

课后加餐练

1. 1868 年 11 月 24 日《上海新报》报道："兹见上海有车几辆，乃一人坐于车上，一轮在前，一轮在后，人用两脚尖点地，引轮而走。"材料中的交通工具是（　　）
A. 黄包车　　B. 自行车
C. 汽车　　D. 电车

2. 下图是吴淞铁路公司于 1876 年发行的"铁路火轮车"招贴画。据记载，当"火轮车"通过时，人们纷纷涌来，争相乘坐。图文材料说明（　　）

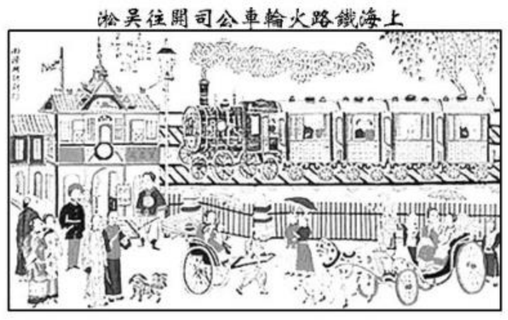

A. 近代交通工具首现中国
B. 国人观念发生彻底改变
C. 铁路火车影响人们生活
D. 广告公司广揽旅游业务

3. 下面是 1881 年到 1911 年中国新建铁路里程表。这反映了（　　）

	清政府借款修建	外国资本直接投资	清政府独立筹资	官商合办
里程（千米）	4 171.2	2 746.1	1 042.4	1 042.4
占总里程的比重	46.3%	30.5%	11.5%	11.5%

A. 辛亥革命推动了铁路大力修建
B. 近代民族工业初步发展
C. 列强控制了近代铁路的修筑权
D. 清政府将路权收归国有

4. 近代有大量竹枝词对西方新事物进行了赞叹，如"最是称奇一线长，跨山越海度（渡）重洋。顷刻音书东海来，机关错讶有神仙。"该材料反映的是（　　）
A. 电报传输　　B. 无线电传输
C. 电话传输　　D. 互联网传输

5. 20 世纪 30 年代，某报刊评论道："上海近日以乘汽车为豪。每至礼拜日，必有许多少年男女同乘一车，疾驰于南京路、静安寺路、福州路。"这说明（　　）
A. 汽车已成为人们的主要出行工具
B. 近代上海的交通日益便利发达
C. 近代上海的奢侈风气最为盛行
D. 新式交通工具冲击着传统观念

6. 近代中国的交通变化呈现出地域分布不均衡的特点，这一特点是由近代中国（　　）
A. 政治发展不平衡决定的
B. 经济发展不平衡决定的
C. 列强侵略不平衡决定的
D. 自然条件不平衡决定的

7. 1934 年陇海铁路修至潼关后，渝关"由荒凉之地，一变而成繁荣的商埠，一时之间，商号栉比"。由此可知，当时（　　）
A. 交通发展带动了区域的开发
B. 国民党开始加强内地的建设
C. 近代工业发展布局日趋合理
D. 国民经济建设运动成效显著

8. 1935 年《四川导游》报刊曾提及："过去的旧说法：四川是四川人的四川，如今渐渐让位于必须与周边省份乃至于全国各地打通交流的途径。"此变化得益于近代（　　）
A. 川江航运的发展　　B. 电话的普及
C. 报纸的大量刊印　　D. 电视广告的宣传

9. 某记者回忆从业生涯时说，20 世纪 80 年代他曾以"书信电报"的方式发送文稿。他先把整篇稿子逐字填写在电报纸上，邮局再逐字译成电报码，利用电流把"点点杠杠"符号传输，对方通过无线电接收机接收信号还原文稿。这种通信方式在中国最早出现于（　　）
A. 19 世纪中期　　B. 19 世纪末期
C. 20 世纪初期　　D. 20 世纪中期

10. 1868 年，上海首次由欧洲运来自行车；20 世纪后半期，中国成为自行车王国；截至 2016 年数据显示，中国共享单车市场整体用户数量已达到 1 886 万并仍在迅猛增长，预计 2018 年将达到 2.35 亿。材料表明（　　）
A. 新中国科学水平的提高
B. 信息传递改变了大众思想
C. 社会交通和观念的变迁
D. 技术革命深刻改变了世界

11. 阅读下列材料，回答问题。

材料一：驰道和栈道的修建，是秦汉时期规模宏大的筑路工程。秦始皇统一中国后，下令筑驰道，以咸阳为中心修了多条大道。隋唐两代水陆交通都很发达。尤其是中唐之前，内河航运和海上交通更为繁忙，当时贯通南北的大运河以及全国各主要河道和广州、泉州、明州（今宁波）等沿海一带。辽宋夏金时期的主要陆上运输工具是名目繁多的各种车辆，造车技术达到了前所未有的水平。宋朝将指南针应用到海船上，航海技术大大提高。元朝继续开挖运河。京杭运河全线通航。大都成为全国乃至世界交通中心。明清时期，我国古代交通由盛而衰。明代出现造船高峰，郑和七下西洋，把我国古代航海活动推向顶峰。不久后明朝实行了海禁，清朝延续，航海事业衰落。

——据刘芃、朱汉国《历史学习精要》等

材料二：从 19 世纪 70 年代起，中国近代交通运输业逐渐发展，以内河航运最为突出。截止到 1893 年，中国籍轮船 133 艘；到 1911 年时，中外内河轮船共有 168 艘，中方船只占总数的 91%，形成遍及上海、长江干支流及东南沿海和珠江流域的航运网络。自第一次世界大战结束后，外商轮船先后返回中国沿海内河复航，加之内战频

关注微信公众号"教辅资料站"获取更多学习资料

繁屡有征调军用、碰坏船只等事，自营航运业受到很大打击。抗日战争爆发后，外轮陆续撤离，自营航运业均努力抢运上海数百家工厂的内迁器材及军用物资，其后又投入后方水陆交通。战时中国船舶直接间接损失总计三千艘，四十九万五千三百二十吨。抗战胜利后，各航业公司努力恢复水运交通。据1947年6月交通部统计，当时轮船共一千五百零一艘，计十七万九千八百九十三吨。内河航运终未恢复到战前水平。

——摘编自白寿彝总主编《中国通史近代史前编》上

(1)根据材料一并结合所学知识，概括古代中国交通运输的基本特征并分析其影响。

(2)根据材料一、二，分析近代中国与古代中国在交通运输方面的异同，并结合所学知识指出影响近代中国交通变革的因素。

课后拔高练

(2018·江苏卷)张园是清朝末年上海最大的私家园林，被主人开放为公共场所。下图为筠香斋刻印的年画《海上第一名园》，描绘的是当年张园门前的景象。该年画　(　　)



A. 延续传统绘画的以形求神
B. 体现追求时尚的国民共识
C. 反映世界交通的最新成果
D. 表明社会生活的新旧杂陈

第16课　大众传媒的变迁

课前自检自查练　自主预习点对点　ZIZHUYUXIDIANDUIDIAN

一、报刊业走向繁荣

阶段	时期	表现
形成	19世纪中期前后	外国人开始在华办报，比较著名的有《中国丛报》和《[1]_____》等
	19世纪70年代	出现中国人自己办的报刊
发展	戊戌变法前后	维新派创办报刊，宣传维新思想
	辛亥革命时期	革命派创办报刊，同[2]_____展开论战
	新文化运动时期	先进知识分子利用报刊大力宣传民主科学思想
	20世纪前期	中国共产党先后创办《[3]_____》《红色中华》《新华日报》《解放日报》等
	新中国成立后	《[4]_____》《红旗》等党报党刊成为宣传党的路线、政策和方针的主要舆论工具，而《光明日报》《文汇报》等报刊的内容也比较丰富
繁荣	改革开放后	除党报党刊外，各种专业性、娱乐性报刊也创办起来；各报刊把真实、及时、客观和讲求[5]_____作为自己的发展方向

对点训练 DUIDIANXUNLIAN

1. 19世纪70年代初，有人作诗云："见闻历历备于此，读之可惊复可喜。费去十文买一纸，博古通今从此始。"诗中所提到的"纸"是　(　　)
A. 传单　　B. 信件
C. 报纸　　D. 电报

2. 随着西方文化的传入，我国社会生活发生了重大变化。近代维新派在宣传维新思想时使用的新方式是　(　　)
A. 公车上书　　B. 著书出版
C. 创办报刊　　D. 进行变法

3. 晚清时期，中国女报介绍西方的杰出女性时，逐渐从贤妻、孝女转向女爱国者、女政治家。这种变化表明(　　)
A. 革命取代改良成为主流思潮
B. 西方正进行资产阶级革命
C. 中国女性的政治地位已与男性完全平等
D. 女报逐渐担当起国民教育的职责

关注微信公众号"教辅资料站"获取更多学习资料

二、影视事业的发展

1. 电影事业的发展

(1)起步:1905年,中国人自己摄制的电影《⑥_____》首映成功,标志着中国电影事业开始起步。

(2)发展:20世纪20年代以后迅速发展,并走向成熟。30～40年代诞生了一批蜚声海内外的进步影片。

(3)新发展:中华人民共和国成立后,⑦_____和革命战争题材纷纷被搬上银幕。

(4)走向辉煌:20世纪80年代中期以后,中国电影走向辉煌,数量和质量都远远超过了以前。

2. 电视事业的发展

(1)诞生:1958年,⑧_____开始试播,标志中国电视业的诞生。

(2)普及:改革开放后,电视逐渐普及,电视节目越来越丰富。科学技术的进步,是电视迅速普及的一个重要原因。

对点训练 DUIDIANXUNLIAN

4. 中国人自己摄制的第一部电影是京剧《定军山》。以下说法正确的是　(　　)

A. 该剧摄制于19世纪末

B. 体现了中西合璧的特点

C. 民国政府重视文化事业的发展

D. 世界电影开始进入有声时代

5. 中华人民共和国成立后,《南昌起义》《平原游击队》《北大荒》《钢铁战士》等电影风行一时。这说明当时的电影主题是　(　　)

A. 土地改革和抗美援朝　　B. 三大改造和社会主义建设

C. 革命战争和工农生活　　D. 对内改革和对外开放

6. 1958年5月1日,北京电视台(中央电视台的前身)开始试播　(　　)

A. 说明新中国电视事业的诞生

B. 反映了人民生活水平的提高

C. 标志着地方电视台的纷纷建立

D. 体现了电视技术的迅速提高

三、互联网的兴起

1. 诞生:20世纪60年代末。

2. 发展:20世纪90年代以后风靡全球。⑨_____年,中国正式接入互联网。

3. 特点

(1)具有迅速传播信息的功能,被称为"⑩_____"。

(2)网络媒介可以集文字、图像、声音于一体,还能模拟⑪_____效果,具有很强的表现力和感染力。

(3)互联网可以高度互动,双向传受。

4. 影响

(1)互联网使人们的生活更加快捷与方便。

(2)互联网不仅改变了人们的⑫_____,也改变着人们的生产、学习、娱乐方式。

对点训练 DUIDIANXUNLIAN

7. "百货商店频打折,超市购物有赠品;不如网上淘淘宝,鼠标一点廉价美!"材料突出反映了互联网具有　(　　)

A. 传播信息的功能　　B. 学习、办公的功能

C. 娱乐的功能　　D. 生产、生活的功能

学考基础合格练 学考基础练能力 XUEKAOJICHULIANNENGLI

1. 在中国境内创办的第一份中文报刊是　(　　)

A.《时务报》　　B.《万国公报》

C.《民报》　　D.《东西洋考每月统记传》

2. 清末的一首竹枝词写道:"是非曲直报中分,一纸风行四海闻。振聩发聋权力大,万般提创总由君。"对该词的恰当解读是　(　　)

A. 当时报刊言论不受限制

B. 民众的文化水平普遍提高

C. 报纸宣传反映社会生活

D. 报纸的社会功能已被认知

3. 在新民主主义革命时期,中国共产党为了扩大宣传舆论的阵地,创办了许多革命性报刊,其中在国民党统治区创办的合法报刊是　(　　)

A.《红色中华》　　B.《新华日报》

C.《解放日报》　　D.《中央日报》

4. 央视六套电影频道的官方网址是"www.m1905.com",其中"m"为"movie"的简写,那么"1905"的寓意是　(　　)

A. 这一年中国拍了第一部电影

B. 这一年世界电影传入中国

C. 这一年是世界电影诞生的年份

D. 这一年中国影片第一次获得国际荣誉

5. 新中国成立后,电影事业获得了飞速发展。当时电影的题材主要是反映　(　　)

A. 工农生活和革命战争

B. 帝王将相和英雄人物

C. 社会新貌和文化娱乐

D. 国际风云和百姓现实

6. 中国互联网获得迅速发展的最主要的自身原因是(　　)

A. 整个世界已经进入了信息时代

B. 互联网满足了人们对时尚的追求

C. 互联网具有无可比拟的优越性

D. 中国政府在财力上的积极支持

7. 阅读下列材料,回答问题。

材料一:《时务报》以中国为主题的译稿(翻译外国人"看清朝"的文章)分类表(部分):

类别	篇数	比例
列强在中国	215	47.4%
经济/财政/商务	87	19.2%
总论(变法维新主张)	19	4.2%

——潘光哲《开创"世界知识"的公共空间:〈时务报〉译稿研究》

引者注:《时务报》1896年创刊于上海,1898年停刊,梁启超任总主笔。

关注微信公众号"教辅资料站"获取更多学习资料

材料二：时四方新学士子喜康、梁议论新颖，群相呼应，起而组织学会讨论政治问题与社会问题。举其著者，如长沙之湘学会，时务学堂……其他如算学会、农学会、天足会、禁烟会等，犹不可计数。而每会必有一种出版物以发表意见。于是维新运动，顿呈活跃之观，而杂志亦风起云涌，盛极一时。

——戈公振《中国报学史》

(1)结合材料一和所学知识，分析《时务报》刊载上述几类译稿的背景。

(2)结合材料二和所学知识，概括《时务报》创办的积极影响。

课时加餐拔高练　课后拔高练规范　KEHOUBAGAOLIANGUIFAN

课后加餐练

1. 下表是美国教士林乐知创办的《教会新报》于1868～1871年刊载的内容明细表，表格主要反映了　(　)

年份	宗教	世俗消息	科技	建议
1868年	48%	26%	22%	4%
1869年	36%	36%	9%	19%
1870年	18%	68%	5%	9%
1871年	16%	46%	23%	15%

A. 传教士传教热情逐渐减退
B. 传教士日益重视传播世俗信息
C. 国民的科技意识淡薄
D. 国民对西方社会了解需求增多

2. 1895～1911年中国创办报刊1 520余种，其中政论性报刊占88%，就连素为商业性报纸的《申报》也要经常发表与政治相关的文章。这折射了当时中国　(　)
A. 列强入侵阻碍经济发展
B. 政治变革备受关注
C. 放弃了实业救国思想
D. 民主共和观念深入人心

3. 《故都杂咏》中写道："啧啧沿街卖报声，成天奔走送新闻；秀才不出门前去，一样全球消息灵。"材料表明近代报纸　(　)
A. 改变了人们的阅读方式
B. 丰富了大众的娱乐生活
C. 加速了社会新闻的传播
D. 宣传民主革命政治主张

4. 有学者统计，1933年12月1日的《申报》广告，当日该报的30版(10版为增刊)中，29版登有广告，总数多达540条，许多广告占了版面1/4以上，甚至占了半版或全版。这说明当时　(　)
A. 报刊的时政新闻性功能减弱
B. 广告成为报刊竞争主要方式
C. 民众的社会心态日益开放
D. 商品信息的流通更加及时化

5. 1896年8月10日《申报》刊登广告：徐园初三夜仍设文虎(灯谜)候教，西洋影戏，客串戏法。以下对材料理解正确的是　(　)
A. "西洋影戏"已遍布中国各地
B. 中国人的娱乐活动更加丰富
C. "西洋影戏"伴随着优美的旋律
D. 中国大众娱乐发生彻底改变

6. 1909年初，《大公报》上的一篇文章称"第一是开眼界，可以当作游历，看看欧美各国的风土人情——真如身临其境，亲眼得见一样"。当时这种使人们"开眼界"的大众传媒是　(　)
A. 电视　　B. 广播
C. 电影　　D. 互联网

7. 1937年8月12日，国民政府制定的《战时电影事业统制办法》规定："中央电影摄影场会同军委会政训处电影股，联合上海各影业公司合组一总机关，由中央电影事业处负责总其成，指挥及分配全部工作。"这一规定旨在　(　)
A. 强化对思想的引导
B. 促进电影产业发展
C. 加强对经济的控制
D. 巩固抗日统一战线

8. 20世纪80年代，中国电影由宏大叙事逐渐向个体表达回归，往往讲述"大时代的小故事"，展现生活的低吟浅唱和个人的沉浮起落，使人感同身受并寄寓对真善美的美好渴望。这一变化　(　)
A. 顺应了社会发展的趋势
B. 体现了传统道德的回归
C. 得益于新技术手段的运用
D. 反映了消费市场快速成长

关注微信公众号"教辅资料站"获取更多学习资料

9. 1984 年，伴随着香港电视剧《射雕英雄传》热播，内地掀起了第一轮“金庸热”。金庸小说一夜之间在大江南北遍地开花，仅仅一年时间，全国约有 14 家出版社，出版了将近 20 种金庸小说单行本。这最能说明　　(　　)

A. 文学发展受制于电视艺术的普及

B. 电视艺术影响文学的走向

C. 文学和电视艺术都是现实的反映

D. 电视和文学相伴而生

10. 2018 年全球移动互联网大会于 2018 年 4 月 26 日至 28 日举行，主题为“AI 生万物”。下列关于互联网的说法正确的是　　(　　)

A. 互联网大大增加了全球空间距离

B. 互联网诞生于 20 世纪 90 年代末

C. 互联网与报纸、电影、电视被称为“四大媒介”

D. 互联网能迅速传播信息，高度互动，双向传受

11. 阅读下列材料，回答问题。

材料一：中国的“电影”一词，原本是“电光影戏”的缩略。因为中国人早在电影进入中国以前便享有丰富的传统戏剧，很自然，在接受电影这个新生事物时人们把它看作京剧、粤剧等传统戏剧的延展。也正因为如此，中国人拍摄自己的首部电影时，非常自然地从京剧中借用题材。这部由同名京剧若干片断构成的电影于是就成为中国电影的滥觞。

——王众一《“电光影戏”百年风云》中国网

材料二：20 世纪 30 年代是上海电影的黄金时代，1931 年日本军国主义发动对中国东北的军事侵略后，一批表现抵抗侵略的救亡电影应运而生。如《风云儿女》——抗战结束之后，一部 8 年抗战中发生的一个家庭悲剧《一江春水向东流》创造了连映 80 天不衰的票房纪录。这部电影描写了战争给每一个人，每一个家庭带来的创伤和变化，使观众发生了深深的共鸣。民族的厚重感和国家的历史感以及电影故事的感染力交织在一起，使一部家庭伦理片跃升为一首经典的民族电影史诗。

——以上均改编自王众一《“电光影戏”百年风云》中国网

(1)请写出以京剧为题材的中国人自己拍摄的第一部电影名称以及拍摄时间，并结合所学知识概括京剧艺术在中国传统文化中的地位。

(2)根据材料二，分析 20 世纪三四十年代抗战电影深受国民欢迎的原因。

(3)根据上述两则材料，概述电影艺术对人类社会的影响。

课后拔高练

1. (**2017 · 江苏卷**)《万国公报》对近代中国知识分子产生了较大影响。有学者统计了其中发表的相关文章，如下表：

时间 主题	1880～1889 年	1890～1899 年	1900～1907 年
禁缠足(篇)	3	11	17
兴女学(篇)	5	6	17
介绍外国妇女(篇)	2	19	22
合计	10	36	56

由此推断　　(　　)

A.《万国公报》是中国人最早创办的报刊

B. 晚清知识分子通过报刊实现了言论自由

C. 知识界的宣传呼吁迫使清政府革除陋习

D. 随着社会发展知识界对妇女问题渐趋重视

2. (**2016 · 海南卷**)1949 年 12 月，中央人民政府政务院颁布《关于统一发布中央人民政府及其所属各机关重要新闻的暂行办法》，规定所有公告和公告性新闻均由新华通讯社统一发布。这一举措的目的在于　　(　　)

A. 建立起高效的新闻宣传网络

B. 实现信息传播业的结构性调整

C. 便于及时通报国内国际形势

D. 建立集中统一的新闻宣传制度

3. (**2014 · 全国卷Ⅰ**)20 世纪 20 年代，上海成为中国电影的制作中心，当时在上海放映的各种影片中，外国片与国产片比例约为 2∶1；而在北京和天津，这一比例高达 5∶1 甚至 6∶1。上海与京津放映中外电影比例不同，能够说明这一现象的应是　　(　　)

A. 外国电影的制作水平较高

B. 京津民众对外来事物更具热情

C. 中国电影拷贝流通税费重

D. 上海民众的社会心态更为开放

关注微信公众号“教辅资料站”获取更多学习资料

第六单元　世界资本主义经济政策的调整

第17课　空前严重的资本主义世界经济危机

课前自检自查练　自主预习点对点　ZIZHUYUXIDIANDUIDIAN

一、虚假“繁荣”的幻灭

1. 虚假“繁荣”

(1)表现

①一战后，[1]_____成为世界金融中心之一。

②美国的汽车工业、电器业和建筑业等工业部门显示出蓬勃生机，一派“繁荣”景象。

(2)影响：“繁荣”背后，隐藏着严重的危机。

2. 经济危机爆发的原因

(1)根本原因：资本主义制度的[2]_____依然存在。

(2)主要原因：生产与销售的矛盾。

(3)直接原因：毫无顾忌的分期付款和银行贷款，烘托出市场的繁荣假象；人们醉心于[3]_____投机活动，金融市场不稳。

3. 爆发

(1)标志：1929年，美国[4]_____股价狂跌。

(2)表现：大批银行倒闭，企业破产，市场萧条，生产锐减；失业人数激增，人民生活水平骤降；农产品价格[5]_____，很多人濒临破产。

对点训练 DUIDIANXUNLIAN

1. 1920年，美国有29 609个股票经纪人，十年的时间里，这个数字跃升到了70 950人。这反映出当时在美国(　　)

A. 国家干预促进经济发展

B. 供给与需求保持基本平衡

C. 资本市场的投机氛围浓厚

D. 资本大量输出造成经济萧条

2. 1929年10月，当美国人还陶醉在繁荣的美梦中时，这一美梦却因残酷的现实而破碎。其中的“残酷的现实”是指(　　)

A. 政局动荡　　B. 自然灾害

C. 环境污染　　D. 经济危机

二、危机席卷资本主义世界

1. 特点

(1)范围广：从美国爆发迅速扩展到其他主要资本主义国家，演变为[6]_____资本主义经济危机。

(2)持续时间长：直到1933年，美国等国才陆续走出危机阴影。

(3)破坏性大：1929～1933年，资本主义世界的工业产量下降了三分之一以上，失业工人超过三千万。

2. 影响

(1)加深了各主要资本主义国家的[7]_____，示威游行、罢工等抗议活动接连不断。

(2)各主要资本主义国家为摆脱危机，加强对经济的干预，加紧在[8]_____上的争夺，彼此之间的矛盾和摩擦日趋尖锐。

(3)主要资本主义国家进一步加紧对[9]_____的掠夺，激起当地人民更为强烈的反抗，加剧了世界紧张局势。

对点训练 DUIDIANXUNLIAN

3. 有人认为，如果说1929年美国的金融风暴是场“高烧”的话，接下来的大萧条则是严重的“慢性病”。这形象地说明了1929年爆发的资本主义经济危机(　　)

A. 波及范围广　　B. 破坏性特别大

C. 持续时间长　　D. 引发政治危机

4. 1931年，伦敦的劳埃德保险协会宣布，他们破天荒头一遭大量向美国客户销售暴动和内乱保险。这一现象反映了当时(　　)

A. 英国保险协会主导世界金融

B. 美国正在健全社会保险体系

C. 英国正式放弃自由贸易国策

D. 美国经济危机转向政治危机

5. 1930年，美国通过法案提高进口关税。这一行动引起连锁反应，各国纷纷调高关税。这反映了经济危机爆发后，西方国家(　　)

A. 一致提高关税，共渡难关

B. 整顿金融体系，扩大内需

C. 设置关税壁垒，转嫁危机

D. 实行国家干预，限制出口

三、“自由放任”政策的失败

1. 对策：胡佛固守传统的“[10]_____”政策，反对政府直接干预经济。

2. 结果

(1)经济危机非但没有克服，反而不断恶化。

(2)举国上下期盼出现新的[11]_____政府，迅速克服危机。

对点训练 DUIDIANXUNLIAN

6. 经济大萧条时期，一位雕塑家说：“如果你放一朵玫瑰花在胡佛手里，它就会枯萎。”这句话中“玫瑰花”枯萎的原因是胡佛(　　)

A. 个人能力不足　　B. 坚持自由放任政策

C. 实施国家干预的政策　　D. 对克服危机灰心绝望

7. 在经济危机期间，美国出现了“胡佛村”“胡佛毯”“胡佛车”“胡佛旗”等一些新词，这些称呼反映了(　　)

A. 胡佛在美国威望很高

B. 胡佛是一个很吉祥的名词

C. 美国人民喜欢用总统的名字作商标

D. 美国人民对总统的不干预政策强烈不满

关注微信公众号“教辅资料站”获取更多学习资料

学考基础合格练　学考基础练能力　XUEKAOJICHULIANNENGLI

1. 1929 年 10 月 29 日，美国一些坐豪华游轮出玩的富人们回来后发现，他们已变成身无分文的贫民。出现这种状况的原因是　（　）
A. 通货膨胀　　B. 股票上扬
C. 股价暴跌　　D. 银行倒闭

2. 1929～1933 年期间，美国有 5 500 家银行倒闭，13 万多家企业破产，对外贸易缩减了 70%，失业人数达到 1 700 万。材料反映了这场经济危机　（　）
A. 爆发十分突然　　B. 影响极其深远
C. 破坏性非常强　　D. 涉及地域广阔

3. 下图反映的是美国 20 世纪 30 年代初公开销毁牛奶的现象。这种现象说明　（　）



农场主销毁“过剩”的牛奶

A. 美国经济高度繁荣，产品过剩
B. 资本主义生产与市场之间的矛盾尖锐
C. 国家垄断资本主义促进了生产的发展
D. 美国正处在经济大危机的前奏

4. 1929 年发生在美国的经济危机很快波及其他主要资本主义国家，主要是因为
A. 美国掌握了世界经济霸权
B. 资本主义国家的基本矛盾决定的
C. 资本主义经济危机具有世界性
D. 资本主义世界市场形成，经济联系加强

5. 1929～1933 年美国经济危机期间，俄亥俄州的示威者喊出了“我们必须夺取政权，建立工农共和国”的口号。这最能说明这次危机　（　）
A. 对经济的破坏十分严重
B. 使人民生活十分困苦
C. 引起了政治危机
D. 促进政府调整政策

6. 1930 年 12 月，胡佛说：“经济不景气的问题是绝不能用立法的行动或行政的声明来解决的。”其依据是　（　）
A. 重商主义经济理论　　B. 社会主义市场经济理论
C. “自由放任”经济思想　　D. 国家政权干预经济思想

7. 阅读下列图文资料，回答问题。

材料一：



纽约华尔街股市焦急的人们



漫画（注：老兄，你先跳吧，你是大股东啊）



游行示威的汽车工人们

材料二：1930 年 5 月，美国国会通过对 890 种商品提高征税的方案。由美国挑起的关税战，激起了其他资本主义国家的恐惧和愤慨。有 33 个国家提出了抗议。到 1931 年底，有 25 个国家采取报复措施，到 1932 年 4 月更增加到 76 国以上。

材料三：在彼此对抗的集团中，德、日、意……显出其不利地位。它们一方面竭力摆脱对其他国家的依赖，另一方面则宣扬对外扩张的理论。……德、日继意大利之后于 30 年代初公开建立法西斯专政，企图从战争中寻求出路。

(1)结合材料一分析美国当时面临的状况，并分析这种状况出现的原因。

(2)材料二、三反映了什么问题？二者之间存在怎样的关系？

课时加餐拔高练　课后拔高练规范　KEHOUBAGAOLIANGUIFAN

课后加餐练

1. “(美国)从 1920 年到 1929 年，工人每小时的工资只上升了 2%，而工厂中工人的生产率却猛增了 55%。”这表明 1929 年经济大危机爆发的原因是　（　）
A. 资本主义社会固有的基本矛盾
B. 美国经济的虚假繁荣
C. 美国国内生产相对过剩严重
D. 美国实行自由放任的经济政策

2. 下图为 20 世纪 20 年代美国“分期付款使用比例柱状图”。该数据说明美国　（　）

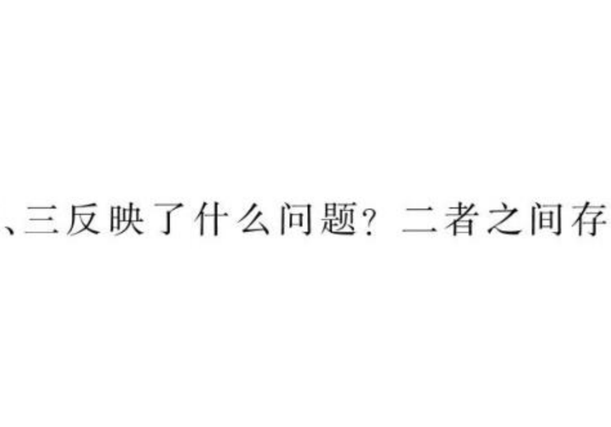

A. 大众消费结构趋于合理
B. 人民生活水平显著提高
C. 生产销售矛盾日益缓和
D. 经济运行风险不断增加

关注微信公众号“教辅资料站”获取更多学习资料

3. 1929～1933 年资本主义世界经济危机给人类带来了巨大的灾难。这场危机首先爆发于（　　）

A. 工业领域　　B. 贸易领域

C. 农业领域　　D. 金融领域

4. 有一张汽车上的出卖说明，内容大致是："100 美元即可买走这辆车，我所有的钱都已在股市中化为乌有了。"与这种现象最相对应的体验是（　　）

A. "牛奶面包供不应求"

B. "找工作如登天一般"

C. "为共度难关各国亲密无间"

D. "整个西方世界像一潭死水般平静"

5. 下表是 1929～1933 年经济危机期间各主要资本主义国家工业生产和失业情况统计。从表中数据可以得出，这次经济危机（　　）

	美国	德国	英国	法国	日本
工业下降	46.2%	40.6%	28.4%	16.5%	8.4%
外贸缩减	70%	69.1%	50%	48%	50%
失业人数	1 700 万	600 万	近 300 万	85 万	300 万

A. 破坏性大，影响范围广

B. 只发生在资本主义国家

C. 对法国的破坏性最小

D. 根源是资本主义的基本矛盾

6. 第十届奥运会于 1932 年 7 月 30 日至 8 月 14 日在美国的洛杉矶举行。申办城市无其他竞争对手，最终参赛的运动员人数也因费用问题而显著减少。这主要是因为（　　）

A. 奥运体制不健全宣传推广不足

B. 交通通讯不发达往来美国不便

C. 大萧条背景下的世界经济萎缩

D. 罗斯福执行保护主义政策

7. 1929～1933 年的经济大危机迅速蔓延，北美、西欧、日本首先受到了大危机的沉重打击，其次是中国、印度、西亚、拉美也受到冲击。这表明危机的影响程度取决于各国或地区（　　）

A. 政治经济上能否独立自主

B. 是否拥有完整的工业体系

C. 是否拥有完善的应对措施

D. 对世界市场依赖程度高低

8. "1931 年，世界各地所有的人都在认真地思考并坦率地议论着西方的社会制度也许会失败和不再起作用的可能性。"阿诺德·汤因比产生上述言论的原因是（　　）

A. 国家对经济的宏观干预加强

B. "自由放任"经济政策失败

C. 苏联实力壮大威胁西方安全

D. 经济危机引发政治危机

9. 如图是 1929 年刊登在《合众存异：美国人的历史》上的一幅漫画，内容为一个赔了钱的"投资者"正抓着一只在华尔街上狂奔的熊的尾巴。此漫画折射出（　　）

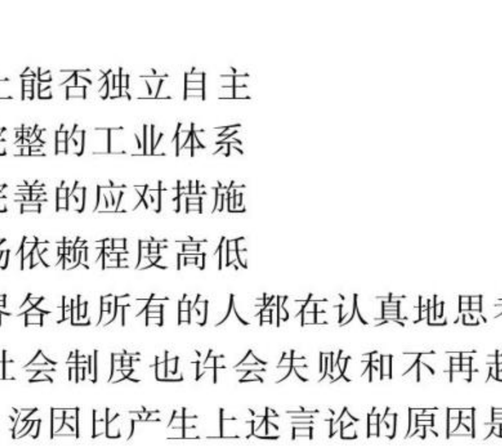

A. 经济政策调整的紧迫性

B. 政府勇于承担责任

C. 经济颓势迅速得到扭转

D. 新政推行遭遇困境

10. 1930 年 6 月，胡佛签署"斯姆特－霍利关税法"。该法律修改了 1 125 种商品的进口税率，其中增加税率的商品有 890 种，有 50 种商品由过去的免税改为征税，这项法律的出台（　　）

A. 部分阻止了危机蔓延

B. 促进了美国经济发展

C. 放弃了自由放任政策

D. 导致了国际关系紧张

11. 阅读下列材料，完成相关问题。

材料一：20 世纪 30 年代，美国《名利场》杂志的漫画（如图），画中把"山姆大叔"描绘成受到小矮人攻击的格列佛。



材料二：1929～1933 年主要资本主义国家工业生产下降情况表

美国	德国	英国	法国	日本
45.2%	40.6%	28.4%	16.5%	8.4%

材料三：大危机刚爆发的时候，胡佛总统立即召开了一系列会议，竭力说服企业界的领袖们，自愿地不降低工资和物价，他要求联邦储备银行为企业界借款提供方便。此外，根据胡佛的建议，国会对公共工程也增加了拨款。联邦政府提高了各州在公路修筑方面的年度补贴，一座名为"胡佛水坝"的工程也于 1931 年在科罗拉多河动工。他一再召集企业界领袖们开会敦促他们稳定物价，但他却只在私下提意见而不愿公开干预。他虽然提出对各州的公共工程提供联邦补贴，但又坚决主张和维护传统的预算收支平衡原则，以避免联邦政府出现财政赤字，并一再运用总统否决权来阻止有关法案的通过，在胡佛看来，大国的主要企业"是建立在健全的和繁荣的基础之上的，其经济体制和结构总的来看始终运转的很好，没必要对它们进行根本性的改革和调整"。总之，在整个反危机过程中，他常常不得不用自己的一只手，去收回他的另一只手所给予的东西，致使自己的某些责任和承诺变成一纸空文。

(1)根据材料一，造成"山姆大叔"如此窘境的原因是什么？并指出这一因素的实质。

(2)指出材料二反映的历史现象。

关注微信公众号"教辅资料站"获取更多学习资料

(3)根据材料三,概括指出胡佛反危机的措施。

课后拔高练

1.(**2018·全国卷Ⅲ**) 1929～1931年美国部分行业工人周工资变化表(单位:%)

时间 类别	1929～1930年	1930～1931年
烟煤业	−12.3	−19.1
金属矿业	−6.6	−18.3
制造业	−7.2	−11.3

据表可知,当时美国　(　　)

A. 最低工资标准失效

B. 产业结构迅速调整

C. 经济危机不断加深

D. 政府财政支出锐减

2.(**2015·海南卷**)20世纪30年代经济危机期间,美国政府采取一系列措施以增强本国产品在国际市场上的竞争力,属于这类措施的是　(　　)

A. 保持农产品的生产和消费之间的某种平衡

B. 把进口物品平均关税率从40%提高至47%

C. 废止不公平竞争惯例使各产业生产能力得到充分利用

D. 在美元原来价值的50%～60%之间固定它与黄金的比价

3.(**2014·全国卷Ⅱ**)20世纪30年代,美国每周有成千上万的人去电影院,轻歌曼舞的幻想型影片备受欢迎,当红童星秀兰·邓波儿通常在电影中扮演孤儿去感化富人。这一现象　(　　)

A. 表明了新政已使全国重现繁荣的景象

B. 体现了民众身陷危机淡定应对的精神

C. 反映了民众逃避现实希求慰藉的心态

D. 说明了现代主义艺术得到社会的认同

4.(**2014·海南卷**)1923～1929年,美国的企业普遍使用流水线等先进生产管理方式,提高了劳动生产率,同时在少数企业中工人可以领取养老金,享受带薪休假。这反映出当时在美国　(　　)

A. 工人分享的经济发展成果有限

B. 科技未对经济发展发挥重大作用

C. 供给与需求保持基本平衡

D. 国家干预促进了经济发展

第18课　罗斯福新政

课前自检自查练　自主预习点对点　ZIZHUYUXIDIANDUIDIAN

一、临危受命——罗斯福新政的背景

1. 严峻形势:面对不断恶化的经济危机和①_____,民主党人罗斯福决心扭转危局。

2. 竞选总统:1932年罗斯福竞选美国总统。

3. 临危受命:1933年3月,罗斯福就任新一届美国总统。

对点训练 DUIDIANXUNLIAN

1. 罗斯福就职之日,胡佛送给新政府一句话:"我们已经到了山穷水尽的境地,我们无能为力了。"这说明美国　(　　)

A. 只有走法西斯道路

B. 国家干预经济的新模式失灵

C. 胡佛政府反危机措施失败

D. 胡佛信任新政府

2. 罗斯福在美国总统竞选的演讲中说:"我的愿望是排除革命……既避免激进的革命,又防止保守的革命。"他就职后为"排除革命"而采取的重大行动是　(　　)

A. 推行自由放任政策

B. 实施"新政"干预经济

C. 建立计划经济体制

D. 提倡"新经济"模式

二、实施"新政"——罗斯福新政的内容

内容	措施	作用
整顿财政金融体系	整顿银行,恢复信用;放弃②_____,实行美元贬值;扩大③_____的权力;管制证券业	恢复银行信用,刺激出口
复兴工业(核心)	通过《④_____》,将生产的各个环节置于国家监督之下	防止盲目竞争引起生产过剩,调整⑤_____和劳资关系
调整农业	成立⑥_____,用行政手段调整农业政策,调控市场,为⑦_____的农民提供补贴	调整农产品结构,提高并稳定农产品价格,防止农产品过剩
社会福利	加强救济工作;加强社会保障措施;推行⑧"_____",兴办公共工程	增加就业,刺激消费和生产,稳定社会秩序
社会立法	颁布《⑨_____》等	保障工人的基本权利,提高工人的政治地位

关注微信公众号"教辅资料站"获取更多学习资料

对点训练 DUIDIANXUNLIAN

3. 罗斯福曾说道："只要国家仍处在危急存亡的关头，我就要求国会授予我应付危机的那种唯一最后手段——广泛的行政权。"罗斯福利用这一行政权，首先（　　）
A. 整顿银行业　　B. 恢复工农业生产
C. 举办救济和公共工程　　D. 建立社会保障体系

4. 罗斯福称《全国工业复兴法》"是美国国会制定的最重要、最具深远意义的立法"，如将此立法置于新政内容示意图中，准确无误的位置是（　　）

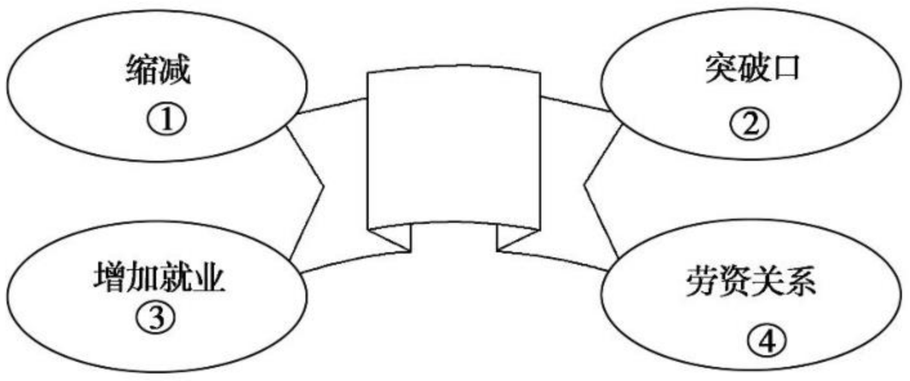

A. ①　　B. ②
C. ③　　D. ④

5. 1932 年，（美国）一蒲式耳（约合 36 升）小麦的售价不到 25 美分，糖每磅只值 3 美分，猪、牛肉每磅 2.5 美分。为此，罗斯福政府（　　）
A. 减耕减产，减少农产品过剩
B. 鼓励农产品出口，以增加农场主的收益
C. 出资收购农产品，将其分配给失业者
D. 成立工业复兴署，以减少盲目生产

6. 田纳西水利工程是 1933 年美国政府兴办的公共工程之一。这一措施属于罗斯福新政时期的（　　）
A. 整顿财政金融　　B. 调整工业生产
C. 调节农业生产　　D. 实行以工代赈

三、摆脱危机困境——罗斯福新政的影响

1. 恢复经济：新政使美国经济逐渐走出低谷。1940 年⑩＿＿＿＿＿＿基本恢复到大危机爆发前的水平。

2. 缓和矛盾：新政缓和了美国的⑪＿＿＿＿＿＿，遏制了法西斯势力。

3. 深远影响：新政开创了⑫＿＿＿＿＿＿＿＿的新模式，国家垄断资本主义开始出现。

对点训练 DUIDIANXUNLIAN

7. 20 世纪 30 年代，罗斯福总统曾受到全美国人民的深切爱戴。当时罗斯福总统之所以受欢迎，主要是因为他（　　）
A. 整顿银行，促使美元升值，恢复人们的信心
B. 采用自由放任政策，企业及下层民众获利多
C. 实行国家干预经济，社会生产力得到了恢复
D. 降低农产品的收购价格，促进农业生产恢复

8. 美国史学家迈克·亚达斯指出："'新政'的执行让政府获得迅速发展，这在美国历史上是一个分水岭。"对材料中的"分水岭"含义理解最准确的是（　　）
A. 美国由民主政体走向集权政体
B. 美国由经济危机走向经济繁荣
C. 美国由自由主义走向国家干预
D. 美国由电气时代走向信息时代

学考基础合格练 学考基础练能力 XUEKAOJICHULIANNENGLI

1. "我向你们、也向我自己发誓：一定要为美国人民实行新政。"1932 年罗斯福"发誓"的时候（　　）
A. 经济危机仍在恶化
B. "自由放任"政策已被废止
C. 胡佛已引咎辞职
D. 新政已经开始

2. 下表是 1933～1937 年间美国政府兴办的公共工程统计表（部分），这些工程的兴建所体现的罗斯福新政重要举措是（　　）

项目	国有公园	桥梁	机场	公共建筑	公路	下水道
数量	20 万亩	7.7 万座	285 座	12.2 万幢	66.4 万英里	2.4 万英里

A. 以工代赈　　B. 复兴工业
C. 调整农业　　D. 整顿金融

3. "诚信"是现代经济正常运行的主要保障。罗斯福新政的措施中，具有诚信机制作用的是（　　）
A. 奖励农民，压缩农业产量
B. 政府对银行存款进行担保
C. 兴办公共工程，减少失业
D. 实行美元贬值，刺激出口

4. 《全国工业复兴法》也译作《全国产业复兴法》，罗斯福称《全国工业复兴法》是美国国会通过的最重要、最具有深远意义的立法。因为该法（　　）
A. 借鉴苏联经验，实行计划经济
B. 实行"以工代赈"，扩大就业机会
C. 依靠国家干预，缓和劳资矛盾
D. 稳定金融秩序，重建银行信誉

5. 有人批评罗斯福新政的措施至今对美国仍有负面影响。下列措施最能体现"负面影响"的是（　　）
A. 整顿金融　　B. 以工代赈
C. 调整工业　　D. 贸易保护

6. 有人说，罗斯福"新政"为整个资本主义世界摸索出一条延长垄断资本主义生命的唯一可行途径。这种途径就是（　　）
A. 国家垄断资本主义
B. 进行科学技术创新
C. 大力发展福利国家
D. 私人垄断资本主义

7. 阅读下列材料，回答问题。

材料一：《全国工业复兴法》包括三方面内容：一是建立国家复兴管理局。二是由国家举办各种公共工程，减少失业大军。三是适当提高劳工地位，改善劳工待遇。劳工组织有与资方谈判的权利，雇主不得以工人参加何种工会作为雇佣条件，雇主必须遵守最高工时和最低工资限额，不得雇佣童工。

——苗枫林《世界近代史》

材料二：1933 年 5 月通过《紧急救济法令》到 1936 年止，政府大约支出 30 亿美元用于失业救济。1935 年提出《社会保险法》，在全国范围内推行养老金制度和失业保险制度。

——高德步《世界经济通史》

关注微信公众号"教辅资料站"获取更多学习资料

(1)材料一中有关社会保障的内容有哪些?《全国工业复兴法》旨在复兴美国工业,但为什么涉及社会保障问题?

(2)根据材料一、二,指出“新政”的社会保障制度主要是通过什么方式建立的?

(3)关于“新政”中的社会保障措施,有人认为主要是为克服危机而采取的临时性措施,也有人认为主要是为维护资产阶级民主制而进行的长期性制度建设。请选择你认同的一种观点并简要说明理由。

课时加餐拔高练　课后拔高练规范　KEHOUBAGAOLIANGUIFAN

课后加餐练

1. 富兰克林·罗斯福在首次总统就职演说中表示,“届时我将请求国会采取应对危机的唯一手段——赋予我紧急状态下迅速发动战争的权力,这种权力等同于国家遭遇入侵时国民授予我的权力”。该材料表明,罗斯福正在敦促国会　(　　)
A. 废除“中立法案”
B. 发动战争转嫁危机
C. 立即对日本宣战
D. 迅速通过新政提案

2. 1933 年 3 月 10 日,罗斯福命令停止黄金出口,后来宣布放弃金本位制,10 月美元贬值 30%左右,其措施　(　　)
A. 增加就业
B. 调整企业关系
C. 缓和与列强矛盾
D. 增强了美国在世界市场的竞争力

3. 1932 年,面对病入膏肓的美国经济,罗斯福坚定地认为,这个国家需要进行大胆的、坚持不懈的试验……最重要的是要进行试验。罗斯福的“试验”中,最核心的措施是(　　)
A. 通过《紧急银行法》,整顿银行业
B. 通过《全国工业复兴法》,复兴工业
C. 通过《联邦紧急救济法》,进行救济
D. 通过《社会保险法》,建立保障体系

4. 1933 年,美国政府在西部和西南部共毁掉 1 000 万英亩的棉田,屠宰了 20 多万头大猪和 600 多万头小猪。从应对经济危机角度看,政府此举　(　　)
A. 破坏了农村生产力
B. 造成了极大的浪费
C. 损害了农民的积极性
D. 缓解了农产品供需矛盾

5. 下表是美国联邦政府雇员人数统计表。导致表中数据变化的主要原因是　(　　)

年份	1933 年	1936 年	1938 年
人数	603 000	867 000	920 000

A. 政府管理机构的大量建立
B. 解决失业问题的客观需要
C. 现代文官管理制度的建立
D. 美国经济形势的根本好转

6. 罗斯福新政的某项法案在国会讨论时,反对者声称,如果它得到通过,子女就将不再赡养父母,工人也会辞工不干。有人甚至认为这个法案是从共产党的著作中抄来的。下列与之直接相关的新政措施是　(　　)
A. 整顿财政金融　　B. 加强工业计划指导
C. 成立农业调整署　　D. 建立社会保障体系

7. 罗斯福新政期间,政府给演员支付工资,让他们搞免费演出;也曾雇佣研究人员专门去研究曲别针的历史。这些做法　(　　)
A. 实现了充分就业目标　　B. 推动了福利制度建设
C. 体现了以工代赈思想　　D. 证明了新政的可行性

8. 有学者说,罗斯福新政“在自由放任的资本主义和社会主义之间走了一条中间道路——有管制的资本主义”。该学者强调的是罗斯福新政　(　　)
A. 放弃了资本主义自由体制
B. 开创了国家干预经济的先河
C. 调整了政府与市场的关系
D. 是学习苏联计划经济的结果

9. 《大国崛起》有这样的表述:“大国之谜,当然还有另外的答案,那就是体制创新。”20 世纪 30 年代,美国实行罗斯福新政。其体制创新最突出的特点是　(　　)
A. 建立市场经济
B. 实行自由放任经济政策
C. 拓展海外市场
D. 政府加强对经济的干预

10. 关于“新政”,沃尔特·李普曼说:“2 月末,我们是一些乌合的受惊暴民与宗派团伙。在 3 月至 6 月这 100 天中,我们又成为一个有组织的民族,相信我们保证自己安全和控制自己命运的力量了。”这表明新政　(　　)
A. 开创了国家干预经济新模式
B. 维护了美国工人阶级利益
C. 借鉴了苏联的计划经济体制
D. 稳定了美国资本主义制度

关注微信公众号“教辅资料站”获取更多学习资料

11. 阅读下列材料，回答问题。

材料一：（胡佛）主张救济主要应由地方政府和社区、私人慈善团体进行；救济重点在照顾处于困境中的大工业资产者、金融家和大农场主。他说："联邦政府一干预，这种保险或干预，就会一成不变地堕落为仅仅的布施。""对我们国家的理想和精神来说，自愿自觉的行动总比国库里拨出款来要强上千倍。"

——黄安年《罗斯福和1935年社会保障法》

材料二：罗斯福认为，（联邦）政府对于全体公民的福利负有一种终极的责任。如果私人之间相互合作共同努力，未能为那些愿意工作的人提供工作和为不幸的人提供救济，那么，那些并非由于自己的过错而遭遇困难的人就有一种要求政府予以援助的权利，他宣称"所有的人"，都有权"享受充分保障不必在经济上担心老、病、事故和失业的权利"。

——塞缪尔·埃利奥特·莫里森《美利坚合众国成长史》

材料三：1933～1939年，美国政府各项救济工作的支出总额达到了180亿美元。这样的结果，毫无疑问地造成了美国政府的连年赤字……1936年财政年度的赤字为43亿美元，……但客观效果却使整个国家的境况有所好转，大大减轻了失业者的贫困和痛苦。

——温荣刚《罗斯福实行赤字财政政策的原因分析》

(1)根据材料一、二和所学知识，比较胡佛和罗斯福在社会救济方面的主张有何不同。

(2)根据上述材料并结合所学知识指出，为提供"工作"和"救济"，罗斯福政府采取了哪些措施？评价罗斯福新政中的社会救济举措。

课后拔高练

1. (**2018·浙江卷**)以"狮子"和"狐狸"见称的罗斯福，面对大危机审时度势、大胆突破，采取"三R"(复兴、救济、改革)行动对经济进行干预。新政的措施之一是实施"蓝鹰运动"，下列选项中属于执行该措施的机构是　(　)

A. 联邦银行　　B. 全国工业复兴署
C. 农业调整署　　D. 紧急救济署

2. (**2017·上海卷**)罗斯福新政是资本主义世界的一次重大调整，它表明　(　)

A. 自由资本主义进入垄断阶段
B. 国家调控经济模式形成
C. 自由主义市场经济盛行
D. "滞胀"型危机得以缓解

3. (**2015·全国卷Ⅰ**)1935年8月，美国国会通过法案，其中规定凡年满65岁的退休人员，根据原工资水平每月可获得一定数额的养老金。与该规定属于同一法案的是　(　)

A. 制订公平经营章程　　B. 建立失业保险制度
C. 提供农副产品补贴　　D. 规定最低工资水平

第19课　战后资本主义的新变化

课前自检自查练　自主预习点对点　ZIZHUYUXIDIANDUIDIAN

一、国家垄断资本主义的发展

1. **黄金时期**：从第二次世界大战结束到20世纪70年代初期，西方资本主义国家普遍奉行[1]_____的经济政策，出现了经济发展的"[2]_____"。
2. **"滞胀"时期**：20世纪70年代初，美国和西欧主要资本主义国家出现"[3]_____"现象。
3. **调整时期**："滞胀"现象出现后英美等国适当减少了国家对经济的干预，发展"[4]_____"。

对点训练 DUIDIANXUNLIAN

1. 下图是某一年的《世界主要大国国民生产总值图示》。结合所学知识推测，最接近图中状况的年份是　(　)



(单位:10亿美元)

A. 1945年　　B. 1956年
C. 1987年　　D. 1992年

2. 1961～1971年，美国经济快速发展，国民生产总值从5 233亿美元上升到10 634亿美元，这一时期主导美国经济发展的理论是　(　)

A. 重商主义　　B. 自由主义
C. 凯恩斯主义　　D. 计划经济

3. 1979年，英国保守党领袖撒切尔夫人当选首相后，大规模推动国有企业私有化，同时严格控制货币发行量和削减福利开支。这一政策　(　)

A. 使凯恩斯主义取得主导地位
B. 有利于英国走出"滞胀"危机
C. 导致英国财政不堪重负
D. 有利于保障底层民众的生活水平

二、建立"福利国家"

1. **目的**：缩小贫富差距，减少因贫困引发的社会问题。
2. **历程**：20世纪六七十年代，"[5]_____"的发展日渐完备；1973年经济危机后，"福利国家"的发展在一些国家受挫，但仍在继续发展；20世纪80年代以后，美、英、法等国缩小"福利国家"的规模。

关注微信公众号"教辅资料站"获取更多学习资料

3. 影响

(1)使低收入者阶层受惠,对⑥_____起到了一定的积极作用。

(2)助长了部分人的惰性,“福利国家”制度的弊端导致⑦_____不堪重负。

对点训练 DUIDIANXUNLIAN

4. 二战后,西方资本主义国家实行“福利国家”制度。其主要目的在于 (　　)

A. 扩大资本市场　　B. 增加社会财富

C. 缓和社会矛盾　　D. 调动劳动积极性

5. 英国政府向国民提供的福利项目之多,为其他许多资本主义国家所望尘莫及。第二次世界大战后,英国大力推行社会福利政策 (　　)

A. 强化了自由放任政策　　B. 加强了政府对经济的干预

C. 减轻了政府的财政负担　　D. 淡化了资本主义性质

6. 20世纪七八十年代“‘今朝有酒今朝醉,明日无酒找政府’的消费心理使得西欧各国储蓄率明显低于其他发达国家。”该现象 (　　)

A. 体现经济危机影响人们的消费心理

B. 导致混合经济的发展

C. 反映了“福利国家”制度的弊端

D. 推动了新经济的出现

三、第三产业的兴起

1. 原因:科学技术的进步,社会生产力的发展,公众生活水平的提高,⑧_____的多样化。

2. 表现:第三产业成为国民经济中增长最快的部门。

3. 作用

(1)以其新技术改造传统的工业和农业,促进了⑨_____的提高。

(2)拓展了经济活动领域,增加了就业,扩大了市场,改善了⑩_____。

(3)在一定程度上缓和了经济的周期性波动,使经济发展产生了质的变化。

对点训练 DUIDIANXUNLIAN

7. 下表是1947～1988年美国各产业劳动力分布情况,据此可知,当时美国 (　　)

年份	总就业人数	第一产业	第二产业	第三产业
		就业人数(万人)	就业人数(万人)	就业人数(万人)
1947	5 127.5	1 038.2	1 554.5	2 534.8
1970	8 267.7	797.9	2 556.4	4 913.4
1985	10 715.0	411.8	2 786.6	7 516.6
1988	11 496.8	392.2	2 892.3	8 212.3

A. 国家干预经济渐趋加强

B. 产业结构不断调整,促进经济发展

C. 已消除经济危机影响

D. “新经济”出现促进经济持续增长

四、“新经济”的出现

1. 原因

(1)第二次世界大战后,美国努力应用先进的科学技术成果,革新生产技术,发展⑪_____。

(2)经济全球化和⑫_____的推动。

2. 特点:以知识经济为基础、以信息技术为主导的新的经济增长模式。

3. 影响:从20世纪90年代初开始,美国经济实现了长达⑬_____的持续增长。

对点训练 DUIDIANXUNLIAN

8. 在克林顿的几乎整个执政期间,美国经济出现了一系列前所未有的新现象:创纪录的长期繁荣、高增长,甚至出现低通货膨胀率与低失业率并存。在此期间,成为美国经济主导产业的是 (　　)

A. 第二产业　　B. 金融保险

C. 加工工业　　D. 高新产业

学考基础合格练 学考基础练能力 XUEKAOJICHULIANNENGLI

1. 第二次世界大战结束后,美国进入经济发展的“黄金时期”。其主要原因是 (　　)

A. 社会福利政策的实施

B. 国家垄断资本主义的发展

C. 战争的良性刺激作用

D. 低失业率与低通货膨胀率并存

2. 美国著名经济学家保罗·萨缪尔森认为某种经济形式“就是国家机构和私人机构共同对经济实行控制”。该经济形式是 (　　)

A. 混合经济　　B. 计划经济

C. 市场经济　　D. 小农经济

3. 二战后,资本主义国家不同程度地推行了社会福利政策,主要影响是 (　　)

A. 强化了国家机器　　B. 阶级矛盾基本消除

C. 促进了社会和谐　　D. 消除了社会不公现象

4. 20世纪70年代,西方各国纷纷改革社会福利制度,削减福利开支,大规模推行国有企业的私有化。这表明西方国家 (　　)

A. 福利开支压力巨大　　B. 财政赤字巨大

C. 大力发展私有企业　　D. 减少国家干预

5. 阅读《20世纪70年代主要资本主义国家经济发展表》(部分),表中出现的变化和影响,主要是 (　　)

国别	农业	制造业	第三产业
联邦德国	3%	48%	49%
美国	2%	36%	62%

A. 国家加强对经济的干预,促进经济的高速发展

B. 普遍实行国家福利政策,有效缓和了社会矛盾

C. “新经济”的出现,使社会经济持续增长

D. 大力发展第三产业,使经济结构发生重大变化

6. 美国“新经济”的主要特点是 (　　)

A. 低通货膨胀率和高失业率并存

B. 高通货膨胀率和低失业率并存

C. 通货膨胀率和失业率较高

D. 通货膨胀率和失业率逐年走低

关注微信公众号“教辅资料站”获取更多学习资料

7. 阅读下列材料，回答问题。

材料一：某西方国家的福利体系。

养老金：65岁以上的瑞典公民享受养老金，金额以其一生收入的多少和纳税情况评算。养老金的来源则由雇主和雇员各支付一半	父母保险及儿童护理：产妇休产假可领取产假补贴，孩子入托费90%由国家负担，16周岁前可领取儿童补贴
	医疗保险：瑞典公民都享受公费医疗，超出规定金额部分可享受50%～90%补贴
	失业补贴：瑞典失业者都可以领取失业救济，金额为原工资的75%

材料二：西方主要国家的社会保险支出占国民生产总值的比重(1971年)。

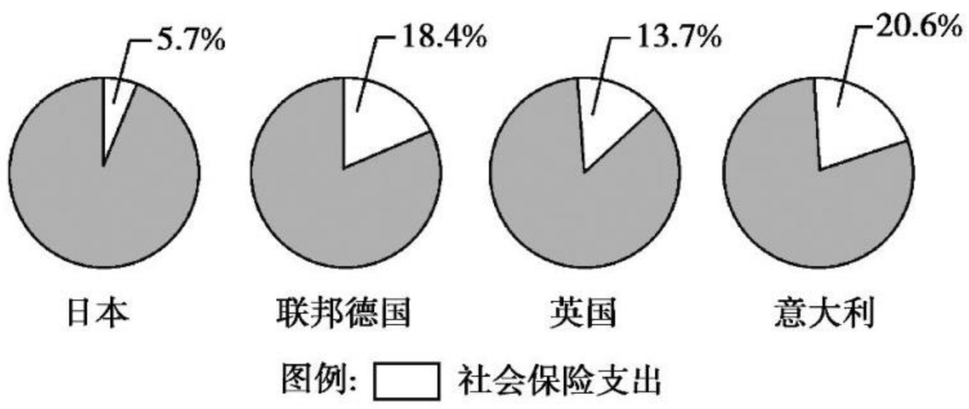

(1)结合材料一、二，说明战后西方发达国家的福利制度有何特点。

(2)“福利国家”出现后，有人宣称：“为每日的面包而斗争的时代一去不复返了！”也有人认为：“高福利国家和经济增长势不两立。”请结合所学知识，谈谈你对“福利国家”的认识。

课时加餐拔高练　课后拔高练规范　KEHOUBAGAOLIANGUIFAN

课后加餐练

1. 沃尔特·拉菲伯《美国世纪》中写道：“政府用他的手掌管着美国经济汽车的方向盘，需要时则用他的脚踩下它的制动器或加速器。”这体现了当代资本主义发展的新特征是　(　　)

A. 实行自由放任政策　　B. 强化国家干预经济
C. 建立福利国家制度　　D. 扩张政府行政权力

2. 20世纪70年代，欧美资本主义经济发展进入“滞胀”状态。对“滞胀”的含义，理解准确的是　(　　)

A. 生产停滞与生产发展迅速交替
B. 经济发展滞缓，社会革命一触即发
C. 经济发展滞缓，与通货膨胀并存
D. 经济危机发生，范围广，持续时间长

3. 美国过去是建立规章制度最有代表性的国家。而在20世纪70年代初又是取消规章制度最有代表性的国家。美国取消规章制度是为了　(　　)

A. 让市场发挥更大效应　　B. 取消政府对经济干预
C. 实行劫富济贫的政策　　D. 完善“福利国家”的制度

4. 历史的图片往往蕴涵着丰富的信息。阅读下列图片，指出其共同的经济特征是　(　　)



法国国营核电站　　德国国营铁路　　英国国有铁路和火车

A. 国有企业主导国家经济发展
B. 由市场经济向计划经济转型
C. 国家干预与自由竞争相结合
D. 能源与交通业全由国家经营

5. 1929～1933年的经济危机，罗斯福新政开创了国家干预经济的新模式。进入20世纪70年代后，面对经济“滞胀”，资本主义国家又减少了对经济进行干预。对经济的干预或减少干预的根本出发点是为了　(　　)

A. 减轻经济危机造成的损失
B. 缓和当时社会的主要矛盾
C. 扩大内需以刺激产品消费
D. 保证经济秩序的正常运行

6. 20世纪70年代，虽然爆发经济危机，失业率居高不下，但发达国家仍保持社会稳定，其主要原因是　(　　)

A. 实施“福利国家”政策　　B. 推行“以工代赈”
C. 第三产业的日渐发达　　D. “互联网”的兴起

7. “最穷的与最富的，在交税之前可以相差17倍，但是纳完税之后，差距可以缩小到3倍。”材料表明福利政策的推行，其深远影响是　(　　)

A. 缩小了社会贫富差距　　B. 有利于实现社会公平
C. 保障了家庭最低收入　　D. 提供了良好社会服务

8. 下表为1947年至2000年美国制造业总产值及其在国民收入中的比例(单位：十亿美元)。表中数据的变化说明　(　　)

年份	制造业总产值	制造业产值占国内生产总值的百分比
1947	60	30%
1980	527	24%
1993	1 118	17.6%
2000	1 566.6	15.8%

A. 技术革新步伐减缓　　B. 国际竞争日益加剧
C. 产业结构调整加速　　D. 知识经济开始崛起

关注微信公众号“教辅资料站”获取更多学习资料

9. 在 1950 年的美国就业总人口中，白领工人占 36%，蓝领工人占 41%。而到 1995 年，白领工人上升到 70%，蓝领工人则大幅下降。这一变化根源于　（　）

A. 第三次科技革命

B. 生产力的大幅度提高

C. 产业结构的变化

D. 知识经济的快速发展

10. 下图是美国“1992～1998 年失业率与通货膨胀率相互关系的变化示意图”。导致其变化的主要原因是　（　）

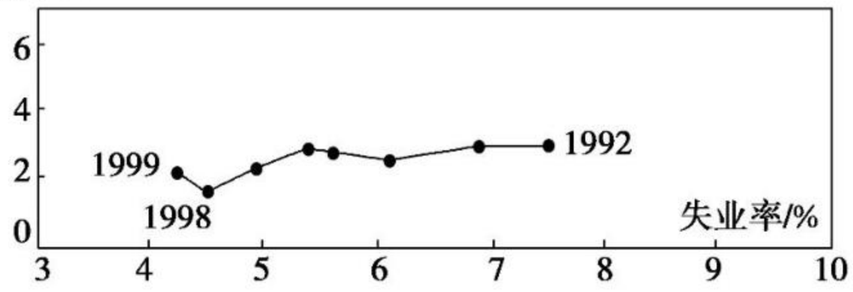

A. 政府减少对经济的干预

B. 国家垄断资本主义的推动

C. 新经济发展模式的实施

D. 社会福利制度的发展完善

11. 阅读下列材料，回答问题。

材料一：罗斯福无意发动一场革命，也无意为美国创造一种新的体制机构。相反，他是在设法医治一个资本主义社会的暂时疾病，通过护理使它恢复健康。只是因为常规疗法再也不能奏效，他才试用了试验性疗法。

——[美]内森·米勒《罗斯福正传》

材料二：1945 年底，(英国)议会通过大英银行国有化法案，1946 年开始实施煤炭工业国有化。法国(20 世纪 60 年代)鼓励和积极推进科技进步和全民教育事业，不惜投入巨额资金发展高科技产业和支持科学研究活动，国家投资开办职工职业培训工作。1949 年，美国总统杜鲁门正式提出“公平施政”的政策纲领，把过去各种建议合并起来，形成一个更广泛、更系统、更具体的计划。

——吴于廑、齐世荣主编《世界史》

材料三：英国撒切尔夫人执政 11 年间一反传统的经济政策，率先在西方国家中推行以现代货币主义为中心的新经济政策，人们通常称这副药方为撒切尔主义。它首先对付结构性经济危机，重新倡导资本主义自由经营和私人首创精神。

——黄安年《评撒切尔夫人治理“英国病”》

(1)根据材料一，指出“资本主义社会的暂时疾病”是什么。罗斯福的“试验性疗法”使得美国的经济制度发生了怎样的转变？

(2)根据材料二，概括二战后初期欧美国家发展经济的方式。结合所学知识，指出这一时期西方资本主义国家经济政策的理论来源。

(3)根据材料三并结合所学知识，指出当时英国结构性经济危机的具体表现，为此英国撒切尔政府采取的主要措施是什么？

课后拔高练

1. (**2019·全国卷Ⅲ**)20 世纪 70 年代中后期，法国国内生产总值年平均增长率由 2.6%下降到 1.3%，物价上涨了 1 倍。1981 年，密特朗就任总统后，推行包括国有化在内的一系列措施，其结果　（　）

A. 加剧了经济恶化　　B. 实现了物价下降

C. 推动了通货紧缩　　D. 放弃了经济自由

2. (**2017·全国卷Ⅲ**)20 世纪 70 年代初，美国联邦政府机构臃肿，财政支出庞大。总统尼克松在咨文中呼吁，应当“使权力和资源开始从华盛顿流回到州和地方，更重要的是回到全体人民手中。我们要使各州和地方担负更多的责任，我们将同他们分享收入”。由此可知，美国联邦政府试图　（　）

A. 消除国家干预经济的弊端

B. 将权力下放到州政府

C. 扩大福利政策的覆盖范围

D. 恢复自由放任的传统

3. (**2016·海南卷**)下表是美国、日本、联邦德国三大产业产值在其国民生产总值中所占比重情况。

	1950 年			1970 年		
	农业	工业	服务业	农业	工业	服务业
美国	7.2	36.9	55.1	2.9	31.7	64.7
日本	26.0	31.7	42.3	3.6	43.0	48.4
联邦德国	10.7	49.7	39.6	3.3	51.7	45.0

表中的数据反映了三国　（　）

A. 第三产业带动经济发展

B. 农业生产衰退

C. 产业结构出现严重失衡

D. 工业发展滞后

4. (**2015·海南卷**)20 世纪 50 年代初，法国机器已平均使用了 20 年，而美国大多数工业设备的使用还不到 5 年；在农业领域中，通常一名美国农民的产出是法国农民的 3 倍多。这反映出　（　）

A. 法美两国的国民经济结构存在根本差异

B. 欧洲的衰落和美国的崛起已经显露端倪

C. 资本主义国家之间发展差距明显

D. 经济一体化成为各国的必由之路

关注微信公众号“教辅资料站”获取更多学习资料

第七单元　苏联的社会主义建设

第20课　从“战时共产主义”到“斯大林模式”

课前自检自查练　自主预习点对点　ZIZHUYUXIDIANDUIDIAN

一、“战时共产主义”政策

1. 背景

(1)政治上:十月革命胜利后,国内外敌对势力联合起来企图扼杀新生的苏维埃政权。

(2)经济上:粮食严重缺乏,经济极端贫困。

2. 目的:集中全国的物力和财力,巩固苏维埃政权。

3. 内容

(1)农业:实行[1]_____。

(2)工业:大中小工业企业全部实行[2]_____。

(3)商业:取消[3]_____。

(4)劳动分配:实行普遍义务劳动制。

4. 特征:兼有“战时”和“[4]_____”两种特色。

5. 评价

(1)积极:保证了对前线红军的粮食供应,为战胜敌人提供了必要的[5]_____保障。

(2)消极:违背了经济发展的客观规律,损害了农民的利益。

对点训练 DUIDIANXUNLIAN

1. 1918年9月,苏俄中央执行委员会宣布苏维埃共和国为统一的军营,发出了“一切为了前线,一切为了胜利”的号召。为了保证军事的胜利,苏俄　(　　)

A. 大力发展军事工业

B. 实施了余粮收集制

C. 对农民征收粮食税

D. 开始了工业化建设

2. 发生在1920年苏俄的现象有　(　　)

A. 政府取消自由贸易

B. 国营企业的经营自主权扩大

C. 私营企业纷纷涌现

D. 农民积极参加农业集体化运动

二、新经济政策

1. 背景:国内战争结束后,苏俄继续执行“战时共产主义”政策,引发了严重的[6]_____和政治危机。

2. 内容

(1)农业:以[7]_____代替余粮收集制,税后余粮由农民自己支配。

(2)工业:政府解除苏俄大部分小企业和一部分中型企业的国有化;允许私人开办小企业;个别企业以[8]_____的方式让外国资本家经营。

(3)商业:恢复[9]_____和商品交换。

(4)分配:废除实物分配制。

3. 意义:提高了人民的生产积极性,促进了经济的迅速恢复,有利于稳定政治形势。

对点训练 DUIDIANXUNLIAN

3. 1921年3月,俄共(布)十大决定实行新经济政策,在农业方面的措施是　(　　)

A. 实行余粮征集制　　B. 确立土地私有制

C. 征收固定粮食税　　D. 推行全盘集体化

4. 1921年,列宁提出:我们希望建立一种给外国人以工商业承租权的制度。对此理解正确的是　(　　)

A. 苏俄全面对外开放　　B. 苏俄允许自由发展工商业

C. 有限利用市场经济　　D. 此政策引发严重社会危机

5. 20世纪20年代,一位苏俄作家说:“他们在各个角落织补着支离破碎的工业网,重新组织俄国的商业促使俄国大地开始复苏。”这主要体现了　(　　)

A. 十月革命胜利的重大影响

B. 战时共产主义政策的意义

C. 新经济政策的实施和作用

D. 工业化和农业集体化的成果

三、“斯大林模式”

1. 背景:[10]_____年苏联成立;1924年列宁逝世后,斯大林的领导地位逐步确立。

2. 表现

(1)工业建设:采取优先发展[11]_____的方针,由农业和轻工业为重工业的发展提供资金。

(2)经济体制:实行单一的[12]_____,实行高度集中的计划经济。

(3)农业建设:推行[13]_____运动,把分散的农民组织到集体农庄里。

3. 评价

(1)成就

①开辟了一种不同于市场经济的计划经济体制和新型的[14]_____模式,国家在较短的时间里实现了经济的快速发展。

②为后来反法西斯战争的胜利奠定了物质基础。

(2)弊端

①片面发展重工业,导致农业和[15]_____长期处于落后状态。

②国家向农民索取过多,农民的生产积极性不高。

③长期执行计划指令,压制了地方和企业的积极性,阻碍了苏联经济的持续发展,成为以后[16]_____的一个重要原因。

对点训练 DUIDIANXUNLIAN

6. 下图是苏联某时期的一幅宣传画。该画意在　(　　)



关注微信公众号“教辅资料站”获取更多学习资料

A. 讽刺西方对苏联工业化的态度
B. 展示苏联重工业建设的成就
C. 抨击当时流行的修正主义思潮
D. 揭示西方国家遏制苏联的阴谋

7. 1930～1932 年乌克兰地区粮食产量和征粮量(乌克兰每年向苏联中央政府上交的粮食量)统计。

时间	粮食生产(单位:万吨)	征粮量(单位:万吨)
1930 年	2 290	780
1931 年	1 760	700
1932 年	1 280	770

这表明当时苏联　(　　)
A. 优先发展重工业的政策存在重大失误
B. 农村经济建设深受西方经济危机影响
C. 农民为国家经济工业化作出巨大贡献
D. 新经济政策的实施难以恢复国民经济

8. “每一双皮鞋或每一件内衣,都要由中央调配”“计划就是法令”,这说明斯大林时期的苏联经济体制的特点是　(　　)
A. 计划经济与市场经济相结合
B. 多种所有制并存发展
C. 扩大国营企业的管理权力
D. 高度集中的计划经济

学考基础合格练　学考基础练能力　XUEKAOJICHULIANNENGLI

1. 十月革命后,新生的苏维埃政权仍处于危急中,于是政府发出了“一切为了前线,一切为了战胜敌人”的号召,为此苏维埃政权实行了　(　　)
A. “战时共产主义”政策
B. 新经济政策
C. 社会主义工业化
D. 农业全盘集体化

2. 假如你生活在 1919 年的苏俄境内,全国上下在“战时共产主义”政策的指导下,你不可能做的事情是　(　　)
A. 从事经商活动　　B. 把粮食捐给前线
C. 参加义务劳动　　D. 参加红军

3. 新经济政策与“战时共产主义”政策相比,主要“新”在(　　)
A. 对资本主义进行社会主义改造
B. 国家控制一切经济命脉
C. 无产阶级掌握国家政权
D. 在一定限度内恢复资本主义,发展商品经济

4. 1921 年,列宁提出“我们真正需要的是美国的资本和技术。这样就可以让我们的车轮再次转动起来。”为此,苏俄采取的措施是　(　　)
A. 实行贸易自由化
B. 部分企业允许资本家经营
C. 优先发展重工业
D. 实行高度集中的经济体制

5. 斯大林时期苏联经济体制的主要特点是　(　　)
A. 高度集中的计划经济
B. 计划经济与市场经济结合
C. 多种所有制经济并存
D. 扩大国营企业的自主权

6. 20 世纪 30 年代,十万美国人申请向苏联移民,这主要是因为当时　(　　)
A. 美苏形成了战时的同盟
B. 美国人口多导致生存艰难
C. 苏联国民经济发展迅速
D. 第二次世界大战即将爆发

7. 阅读下列材料,回答问题。

材料一:列宁曾说:“社会主义就是消灭商品经济。”“只要仍然有交换,谈什么主义都是可笑的。”……后来,他又说:“商品交换失败了……必须再退,从国家资本主义转到国家调节买卖和货币流通业,商品交换没有得到丝毫结果,私人市场比我们强大,通常的买卖贸易代替了商品交换。”

材料二:斯大林的国家工业化和农业全盘集体化运动,体现着直接过渡到社会主义的原则……从理论到实践都明显地改变了列宁的新经济政策。

——叶书宗《关于苏联的国家工业化和农业全盘集体化问题》

(1)材料一反映了列宁的经济思想发生了什么变化?为此,苏俄的农业政策作了怎样的调整?

(2)依据材料二并结合所学知识,指出斯大林的经济政策与新经济政策相比有哪些“改变”。

关注微信公众号“教辅资料站”获取更多学习资料

课时加餐拔高练　课后拔高练规范　KEHOUBAGAOLIANGUIFAN

课后加餐练

1. 1919年3月，苏维埃政府将全国城乡存在的各种形式的合作社，一律联合并改组为统一的消费公社，规定全体城乡居民都必须加入消费公社，日用必需品由国家统一分配。由此可知，苏维埃政府（　　）
A. 取消了自由贸易
B. 实行了普遍义务劳动制
C. 鼓励私人办企业
D. 征收固定粮食税

2. “我们处于空前未有的破产状况，我们不得不在大战之后又承受一系列内战，在这种情况下……我们没有任何其他可能性，而只有立即实行最大限度的垄断。”列宁这番话主要针对的是（　　）
A. 余粮收集制的实行
B. 固定粮食税的实行
C. 农业集体化的实行
D. 土地国有化的实行

3. 列宁认为，新经济政策是一种用“改良主义的办法”来解决苏维埃国家过渡时期经济发展战略任务的长期性政策。这里的“改良主义”是指（　　）
A. 利用市场和商品货币关系扩大生产
B. 建立巩固的工农联盟
C. 修改、调整战时共产主义政策
D. 壮大社会主义经济成分

4. 1921年，面对严重的经济危机，列宁对到访的美国商人阿曼德·哈默说：“现在我们必须从头做起……重新发掘我们的经济潜能。”为了“发掘经济潜能”，苏俄（　　）
A. 实行了战时共产主义政策
B. 采取了优先发展重工业的方针
C. 恢复货币流通和商品交换
D. 建立高度集中的计划经济体制

5. 1923年，苏联的农产品批发价只有1913年的一半多，而工业品的相应价格却高出战前水平的一倍。这说明了（　　）
A. 新经济政策的过时性
B. 农业集体化的必要性
C. 计划经济体制的优越性
D. 工业化建设的迫切性

6. 1928年，苏联按照国家计划在乌拉尔地区建设两个钾矿矿井，一个由苏联自主建设，另一个由德国公司负责。这反映出苏联当时（　　）
A. 缺少基本的技术基础
B. 打破了集中计划管理的成规
C. 依赖外资建设重工业
D. 延续新经济政策的某些做法

7. 学者莫斯统计，（苏联）从1927年到1933年间，高等教育招生（往往是技术学院）增加了3倍，其中工人阶级家庭出身的学生人数从总数1/4增加到了1/2。这一现象的出现是由于（　　）
A. 农业集体化的推动
B. 工业化建设的需要
C. 与美争夺世界霸权
D. 经济危机趋于缓解

8. “（苏联）为了实现工业化，应用牵制手段实现工农经济的理想结合，其途径是把分散的小农户变为以公共耕种为基础的联合起来的大农庄。”下列对这一举措理解正确的是（　　）
A. 实现工农经济协调发展
B. 牺牲农业，优先发展重工业
C. 努力提高人民生活水平
D. 建立农庄，调动农民积极性

9. 以下数据摘自齐世荣主编《世界史·现代史编》的1928年和1940年苏联主要产品产量简表。

项目	1928年	1940年	增幅(%)
钢(万吨)	430	1 830	326
煤炭(万吨)	3 550	16 600	368
棉织物(亿米)	26.78	39.54	48
谷物(万吨)	7 300	9 550	31

对该表反映的信息，理解正确的是（　　）
A. 农业集体化运动解决了粮食供应问题
B. 五年计划有助于国民经济的协调发展
C. 新工业化模式成为经济发展重要途径
D. 以指导性计划促进人民生活水平提升

10. 20世纪30年代，“非共产主义的政治家和知识分子曾排着队去莫斯科探寻‘计划’的秘密”。莫斯科“计划”（　　）
A. 开辟了社会主义现代化道路
B. 是战胜一切法西斯主义的强大精神力量
C. 是新兴独立国家借鉴的模式
D. 推动西方国家向宏观调控的现代经济过渡

11. 斯大林模式让苏联迅速实现了工业化，但也制约了苏联经济的可持续发展，其中主要原因是（　　）
A. 企业自主权过大
B. 片面发展重工业
C. 重点扶持农业
D. 重点扶持轻工业

12. 阅读下列材料，回答问题。
材料一：1920年9月，列宁说，“要使每个农民家庭，连一普特余粮都不剩”，要把全部余粮交给工人国家。1921年3月，列宁就农民交完税后再出售粮食一事说：“如果他们单个地换粮食，那有什么大不了的？……不应当加以阻挠。”
——《列宁全集》

关注微信公众号“教辅资料站”获取更多学习资料

材料二：苏联工、农业产品(部分)产量对比表

年份	钢（万吨）	煤炭（万吨）	棉织物（亿平方米）	谷物（万吨）
1928 年	425.1	3 551	18.21	7 330
1940 年	1 831.7	16 592.3	27.15	9 564
增幅(%)	330.89	367.26	49.09	30.48

——周荣坤等《苏联基本数字手册》

材料三：戈尔巴乔夫说："当时不加快工业化进程是不行的。法西斯的威胁从 1933 年起就开始迅速增长。""我国人民用他们在 20～30 年代建立起来的力量粉碎了法西斯。如果没有工业化，我们就会在法西斯面前处于手无寸铁的境地。"

——陆南泉等《苏联真相》

材料四：(1945 年后)苏联工业的发展已出现停滞现象……其部分原因是，苏联的劳动力和能源日益匮乏。另一同样重要的原因则是官僚主义的计划不切实际，过于重视重工业，不根据消费者的喜好和市场需要调整产品结构。

——保罗·肯尼迪《大国的兴衰》

(1)根据材料一，分别指出列宁两次讲话所体现的经济政策。

(2)根据材料二、三并结合所学知识，指出苏联发展经济的方针，并概括这一方针的积极作用。

(3)根据材料四，归纳 1945 年后苏联工业发展停滞的因素。综合上述材料，基于经济现代化的视角，说说你对发展工农业生产的认识。

课后拔高练

1.(**2017·海南卷**)俄国苏维埃政权建立后至 1920 年间，一段时期内经济进入停滞状态，工业和生活用品的生产极度萎缩，可耕地面积缩减，粮食不断减产，牲畜大幅度减少。这一时期是　(　　)

A. 二月革命时期　　B. 国内战争时期

C. 农业集体化时期　　D. 德军入侵时期

2.(**2016·全国卷Ⅱ**)1928 年，苏联开始实施第一个五年计划，并未受到美国人的关注。4 年以后这种情况发生变化，美国出版了大量关于苏联的著作，如《俄罗斯的黎明》《俄国今日：我们从中能学到什么?》。当时，苏联吸引美国人的主要是　(　　)

A. 经济危机造成的破坏较小

B. 工业化取得显著成就

C. 农业集体化保证城市供应

D. 公有制显示出优越性

3.(**2015·全国卷Ⅱ**)1930 年苏联粮食产量为 835.4 亿千克，1931 年降至 694.8 亿千克；1930 年苏联粮食出口 483 亿千克，1931 年增至 518 亿千克。这表明苏联　(　　)

A. 人民为国家工业化建设作出奉献

B. 农业投入不足造成粮食供不应求

C. 粮食减产严重制约工业发展速度

D. 农业集体化影响农民生产积极性

4.(**2015·海南卷**)1924 年，季诺维也夫在俄共(布)十三大上所作的政治报告中强调"不会再有因新经济政策而采取的新的退却"。此后，党的许多领导人也纷纷表示，反对"扼杀社会主义因素而复活资本主义"。这表明当时他们认为，新经济政策　(　　)

A. 已经完成了恢复经济的任务

B. 是特殊时期被迫做出的暂时妥协

C. 是建设社会主义的正确道路

D. 应该为战时共产主义政策所取代

关注微信公众号"教辅资料站"获取更多学习资料

第21课　二战后苏联的经济改革

课前自检自查练　自主预习点对点　ZIZHUYUXIDIANDUIDIAN

一、赫鲁晓夫改革

1. 背景："斯大林模式"的弊端日益显露，特别是[1]＿＿＿＿＿＿的消极影响越来越明显。

2. 措施

(1)农业方面：取消农产品的义务交售制，实行[2]＿＿＿＿＿＿；扩大集体农庄和国营农场的自主权；大规模开垦荒地，提倡种植[3]＿＿＿＿＿＿。

(2)工业方面：废弃部门管理体制，将部分中央企业[4]＿＿＿＿＿＿下放给加盟共和国；给企业部分权利；一定程度上承认企业和个人的[5]＿＿＿＿＿＿，调动生产者的积极性。

3. 评价：在一定程度上冲击了"斯大林模式"，但其对"斯大林模式"的弊端缺乏科学的认识，无法从根本上突破这一模式。

对点训练 DUIDIANXUNLIAN

1. 有学者称赫鲁晓夫为"蛮干家"，所谓"蛮干"是指他（　　）

A. 背离了科学社会主义方向

B. 扩大地方和企业的经营管理权

C. 强行推广种植玉米运动

D. 彻底废除了"斯大林模式"

2. 下图为1954～1963年苏联玉米种植面积和玉米产量统计图。

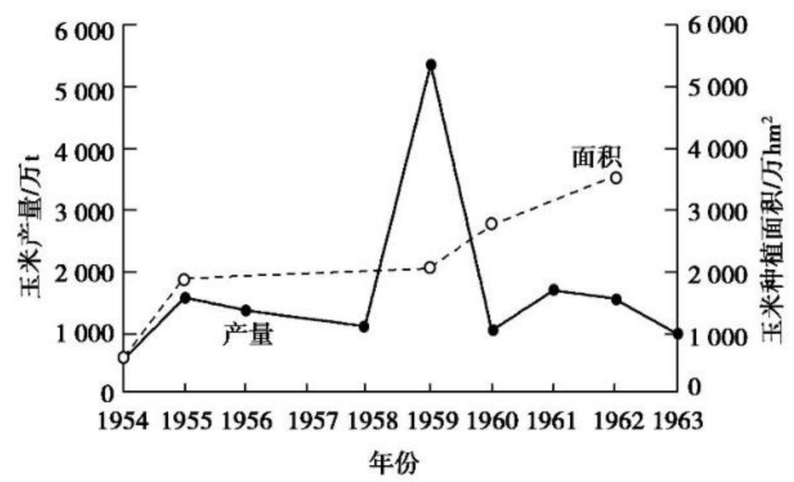

对此理解正确的是，赫鲁晓夫农业改革　（　　）

A. 突破了计划经济体制

B. 利用了自然环境因素

C. 缺乏实事求是的精神

D. 是新经济体制的体现

3. 有的史学家认为："赫鲁晓夫的经济改革，有一半是失败的，但也说明另一半是成功的。"上述观点表明赫鲁晓夫的改革　（　　）

A. 彻底冲破了苏联原有模式的束缚

B. 抛弃了以计划经济为主导的模式

C. 在一定程度上冲破了传统观念的束缚

D. 大力发展社会主义市场经济

二、勃列日涅夫改革

1. 内容

(1)恢复部门管理体制，加强对经济的[6]＿＿＿＿＿＿。

(2)在坚持集中计划管理的前提下，扩大国营企业的经营自主权。

(3)运用经济手段，刺激企业改进经营管理。

2. 特点：注重发展重工业，特别是与[7]＿＿＿＿＿＿有关的工业部门。

3. 评价

(1)使苏联重工业得到优先发展，军事实力增强。

(2)军备竞赛导致经济负担不断增长，[8]＿＿＿＿＿＿年以后，苏联经济发展进入停滞时期。

对点训练 DUIDIANXUNLIAN

4. 1971年，苏联政府在关于五年计划的报告中说："商品货币关系在我国具有新的、社会主义的内容。"这表明苏联政府试图　（　　）

A. 废除原有的经济体制

B. 推进经济领域的改革

C. 重新推行新经济政策

D. 打破单一公有制结构

5. 下面是勃列日涅夫执政时期经济成就表。

项目	时间(年)	
工业利润总额（单位：卢布）	1965	225亿
	1970	560亿
国民收入年均增长率	1961～1965	6.1%
	1966～1970	7.7%

上表反映了　（　　）

A. 勃列日涅夫推行的改革收到一定效果

B. 改革突破了斯大林体制的束缚

C. 改革使人民生活水平得到较大提高

D. 苏联基本上实现了工业化

6. 勃列日涅夫的经济体制改革主要包括减少中央下达给企业的计划经济指标、扩大企业的经营自主权等，这些改革　（　　）

A. 突破了斯大林时期的框架

B. 一定程度上冲击了斯大林模式

C. 改变了此前苏联改革的方向

D. 不利于经济的恢复与发展

三、戈尔巴乔夫改革

1. 背景：20世纪80年代中期，苏联出现社会动荡、经济增长速度下降、人民生活水平逐步下降的危机局面。

关注微信公众号"教辅资料站"获取更多学习资料

2. 措施

(1)改革的重点是用经济管理方法代替原来的行政命令，实际上承认了市场对经济的调节作用。

(2)政府减少指令性计划指标，代之以⑨_____计划指标。

(3)通过了一系列法规，调整苏联的⑩_____结构。

(4)企业开始实行各种形式的租赁和承包，并出现了与国外合资的企业。

(5)一些集体农庄和国营农场也开始实行⑪_____或建立家庭农场。

3. 影响

(1)经济改革措施缺少宏观决策和相应的配套措施，加上戈尔巴乔夫继续优先发展⑫_____，致使经济不断滑坡，人民生活水平继续下降。

(2)后期戈尔巴乔夫把改革的重点转向政治领域，最终导致国内局势失控和苏联解体。

对点训练 DUIDIANXUNLIAN

7. 对右图漫画中的改革，解读正确的是(　　)



A. 缓解了政治经济危机

B. 形成了计划经济体制

C. 确立了世界军事霸权

D. 导致了联盟全面解体

8. 为了解决“斯大林模式”给苏联经济造成的困难，从赫鲁晓夫、勃列日涅夫到戈尔巴乔夫都进行了经济改革，他们改革的共同点是(　　)

A. 优先解决农业生产中的问题

B. 发展重工业以进行军备竞赛

C. 调整所有制结构发展个体经济

D. 力图缓解计划经济造成的弊端

学考基础合格练 学考基础练能力 XUEKAOJICHULIANNENGLI

1. 20 世纪 50 年代中期，苏联开始对斯大林模式进行改革的主要原因是(　　)

A. 斯大林模式弊端日益暴露

B. 战后社会主义力量的壮大

C. 苏共二十大打破了对斯大林的个人崇拜

D. 斯大林的逝世

2. 赫鲁晓夫改革未能成功的根本原因是(　　)

A. 不顾自然条件限制，盲目扩大玉米种植面积

B. 没有调动农民的生产积极性

C. 揭露斯大林错误引起了国内的思想混乱和社会动荡

D. 对斯大林模式的弊端缺乏科学认识，没有从根本上突破这一模式的束缚

3. 美国学者在《俄罗斯史》中写道：勃列日涅夫政府基本上只是试图作表面的改革，而不考虑从根本上进行改革。对这句话理解正确的是(　　)

A. 勃列日涅夫开创了苏联改革的先河

B. 勃列日涅夫把改革限制在政治方面

C. 勃列日涅夫不打算触动斯大林模式

D. 勃列日涅夫首次建立市场经济体制

4. 赫鲁晓夫和勃列日涅夫经济改革失败的主要原因是(　　)

A. 把重点放在农业方面

B. 把重点放在工业方面

C. 没有改变经济体制

D. 缺乏正确的指导思想

5. 1956 年以来苏联的经济改革中，承认市场对经济的调节作用的领导人是(　　)

A. 斯大林　　B. 赫鲁晓夫

C. 勃列日涅夫　　D. 戈尔巴乔夫

6. 戈尔巴乔夫改革与赫鲁晓夫、勃列日涅夫改革最大的不同点是(　　)

A. 经济体制改革　　B. 文化制度改革

C. 政治体制改革　　D. 福利制度改革

7. 阅读下列材料，回答问题。

材料一：下图是 1953～1983 年苏联与世界实际 GDP 平均增长率的对比。

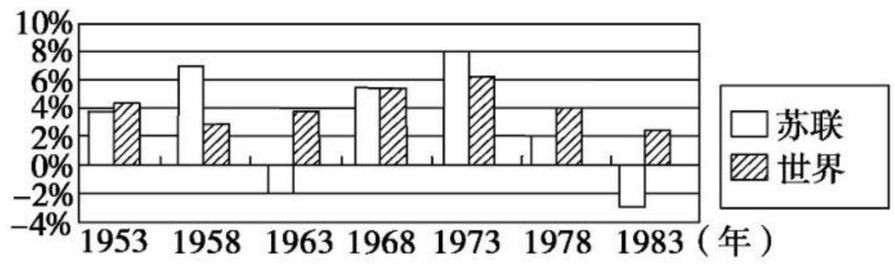

对应时期的苏联领导人：

赫鲁晓夫	勃列日涅夫
上台：1953 年	上台：1964 年
下台：1964 年	下台：1982 年

材料二：1986 年在苏联流传的一则笑话：“这则笑话把苏联比做一列因铁轨已到尽头，无法继续前进的火车。每个领导人都以自己的方式处理这场危机：斯大林下令把司机和列车员枪决；赫鲁晓夫则为他们平反；勃列日涅夫把窗帘拉上并命令左右摇动列车，造成列车正在运行的假象；戈尔巴乔夫则拉开窗帘，把身子探出窗外大声喊道：前面没有铁轨了，前面没有铁轨了！”

——历史风云网

关注微信公众号“教辅资料站”获取更多学习资料

(1)从材料一看,赫鲁晓夫和勃列日涅夫的经济改革对苏联经济的作用如何?

(2)材料二中1986年苏联“无法继续前进时”,戈尔巴乔夫是如何解决“铁轨”问题的?结果如何?

课时加餐拔高练 课后拔高练规范 KEHOUBAGAOLIANGUIFAN

课后加餐练

1. 赫鲁晓夫上台后,首先对农村做了实际调查,对农业和粮食问题提出了一些新看法,在此基础上进行农业改革。下列结论不符合其调查结果的是 (　　)
   A. 农业生产管理体制松散
   B. 农民生产劳动积极性不高
   C. 农产品收购价格过高
   D. 农业发展不能满足人民生活需求
2. “外交的失败更进一步损害了他在其同事们之间的声望。他在古巴部署导弹这一鲁莽计划成为压倒他的最后一根稻草。”材料中的“他” (　　)
   A. 始终是斯大林政策的忠实拥护者
   B. 致力于援助中国的经济建设
   C. 开展了以农业为突破口的改革
   D. 把重工业发展到了新的高度
3. 1953～1963年苏联工业总产值年均增长率为10.5%,是美国的2倍。这得益于赫鲁晓夫改革 (　　)
   A. 放松对个人副业的限制
   B. 扩大企业的经营自主权
   C. 承认企业和个人的物质利益
   D. 承认企业是独立的商品生产者
4. 有学者认为:“赫鲁晓夫是一个勇于否定过去而又不能彻底摒弃历史遗产的人物。”李鸿章曾自嘲为“大清朝这座破屋的裱糊匠”。这表明赫鲁晓夫改革与中国洋务运动的相同局限性是 (　　)
   A. 未推动社会发展进程
   B. 缺乏勇于改革的精神
   C. 没有彻底改变旧体制
   D. 面临必然失败的命运
5. 20世纪70年代初,苏联决定通过合并企业和撤销管理局的办法建立生产联合公司,精简管理环节。这一做法旨在 (　　)
   A. 建立现代企业制度
   B. 恢复国家资本主义
   C. 下放企业管理权
   D. 利用市场货币关系
6. 1956～1964年,苏联工业总产值的增长速度为年均10.3%,超过所有发达资本主义国家,是美国的两倍。20世纪70年代中期,苏联进入历史上综合国力最强盛的时期。这些现象 (　　)
   A. 表明经济体制改革取得一定成效
   B. 是社会主义优越性的典型表现
   C. 说明美国深陷经济危机难以自拔
   D. 是美苏争霸在政治领域的体现
7. 勃列日涅夫时期,苏联几乎每两位科学家中就有一位在研究坦克、火炮和导弹,军工生产接近国民生产总值的40%。从长远来看,这一现象对苏联社会发展产生的最大影响是 (　　)
   A. 人民生活水平提高
   B. 国民经济比例严重失调
   C. 科技水平大大提高
   D. 民用工业迅速发展
8. 1991年7月1日,苏联最高苏维埃通过了《私有化法》,根据这部法律,到1992年底,苏联有将近一半的工业企业将脱离国家控制。由此可知,该法律 (　　)
   A. 使苏联开始打破计划经济体制束缚
   B. 促进苏联尝试推行了国家资本主义
   C. 不利于苏联巩固社会主义经济基础
   D. 表明苏联全盘接受了市场经济模式
9. 戈尔巴乔夫说:“多一些社会主义,意味着社会生活中多一些民主、公开性和集体主义……多一些公民对全国事务及其对国际事务的良好影响的关切。换句话说,就是多一些社会主义本质所包含的内容……”在这一思想指导下的苏联改革 (　　)
   A. 实行对外开放政策
   B. 背离了马克思主义
   C. 没有突破“斯大林模式”
   D. 体现了社会主义本质
10. 从苏联先后实施的不同经济政策及其结果可以得出的结论是 (　　)
   A. 要把市场与计划结合起来
   B. 要使生产关系适应生产力的发展
   C. 要充分调动农民的积极性
   D. 要为工农业的发展创造有利条件

关注微信公众号“教辅资料站”获取更多学习资料

11. 阅读下列材料，回答问题。

材料一：苏联有许多学者以从列宁晚期著作中描绘出来的轮廓，把列宁的社会主义模式的主要特征归纳为以下几点：在国家计划范围内，为了劳动者的利益利用价值规律和商品货币关系；根据劳动的质和量付给报酬的原则；允许多元化的社会主义所有制形式存在……

——苏联 1989 年《有关社会主义的现代概念》专题讨论会纪要

材料二：关于经济改革，戈尔巴乔夫提出，以公有制为主体是“经济垄断”，只有实行私有化，建立“真正的市场经济”，才能“恢复社会公正”。1987 年通过的、次年生效的《国营企业（联合公司）法》是改革时期主要的经济法。《国营企业法》的目的，就是使苏联企业成为自治的、民主的和财政上独立的生产者

——摘编自肖明《戈尔巴乔夫改革及其本质》

(1)根据材料一并结合所学知识，概括列宁的社会主义模式的特征。

(2)根据材料二并结合所学知识，对戈尔巴乔夫经济改革进行评价。

(3)根据上述材料并结合所学知识，分析列宁、戈尔巴乔夫改革一成一败的原因。

课后拔高练

1.（**2019 · 全国卷Ⅱ**）

表　苏联 1970 年计划完成情况　（单位：吨）

类别	1961 年对 1970 年的预测或计划任务	1970 年实际产量
钢	1.45 亿	1.15 亿
煤	3.9 亿	3.35 亿
肉	2 500 万	1 230 万
蔬菜与瓜类	4 700 万	1 300 万

上表可以说明当时苏联　（　）

A. 经济发展的问题积重难返

B. 经济政策保持了连续性

C. 经济改革的重点转向农业

D. 社会生活需求发生变化

2.（**2018 · 全国卷Ⅲ**）1959 年，苏共二十一大讨论通过了七年经济计划，规定 7 年内工业生产总值提高 80%，其中发电量、钢铁产量都要求成倍增长。这反映出七年经济计划　（　）

A. 未能摆脱斯大林模式

B. 是应对马歇尔计划的举措

C. 是新经济政策的延续

D. 加强了国家对经济的控制

3.（**2018 · 海南卷**）1956 年 12 月，《人民日报》刊文指出：能否正确地认识和对待斯大林的错误，已经成为影响许多国家共产党及党与党相互团结的重大问题；对斯大林的错误应该批评，但必须在肯定和维护他正确方面的前提下进行。与此直接相关的重大事件是　（　）

A. 万隆会议召开

B. 越南战争爆发

C. 苏共“二十大”召开

D. 朝鲜战争停战

4.（**2017 · 全国卷Ⅲ**）1953 年，苏共中央决定，改变集体农庄劳动报酬发放办法，由以前每年发放一次物质报酬改为按季度或按月发放，同时在一些集体农庄试行工资制度，农民可以像工人一样每月领取工资。这一措施旨在　（　）

A. 调动农民生产积极性

B. 改变计划经济管理体制

C. 消除城乡之间的差别

D. 推动农民走集体化道路

5.（**2017 · 全国卷Ⅱ**）20 世纪 70 年代至今，《赫鲁晓夫回忆录》多次出版，并被翻译成多种语言。因其内容的复杂性，不同年代版本的内容均有所不同。由此可知，此回忆录作为一种史料　（　）

A. 能够准确记述作者的事迹

B. 比相关研究著作的可信度更高

C. 版本越新越接近历史真相

D. 反映出时代对历史叙述的影响

关注微信公众号“教辅资料站”获取更多学习资料

第八单元　世界经济的全球化趋势

第22课　战后资本主义世界经济体系的形成

课前自检自查练　自主预习点对点　ZIZHUYUXIDIANDUIDIAN

一、布雷顿森林会议

1. 背景

(1)美国经济实力空前膨胀,西欧国家普遍衰落。

(2)如何建立有利于世界经济持续稳定发展的机制,成为重建战后[1]_____的关键。

(3)以[2]_____为中心的资本主义世界[3]_____已经难以维系。

2. 经过

(1)召开:[4]_____年7月,在美国新罕布什尔州的布雷顿森林举行联合国[5]_____。

(2)内容:通过《联合国货币金融会议最后决议书》及附件,这些文件统称为《[6]_____》。

对点训练 DUIDIANXUNLIAN

1. 第二次世界大战后期,美国之所以能够建立起以其为主导的资本主义世界经济体系,关键是因为美国　(　)

A. 工业产值在世界上占绝对优势

B. 黄金储备居世界第一位

C. 是世界政治军事大国

D. 成为资本主义世界的头号经济强国

2. 1944年,苏联参加了布雷顿森林会议,但由于固定卢布汇价、交流经济情报等规定,苏联后来没有批准《布雷顿森林协定》。这表明　(　)

A. 美苏两国战时同盟关系破裂

B. 美国准备实行"冷战"政策

C. 苏联担心国家利益受到损害

D. 美苏争霸激烈

二、世界货币体系的建立

法律基础		《布雷顿森林协定》	
构成	国际货币基金组织	宗旨	稳定[7]_____体系
		主要任务	①稳定[8]_____,消除妨碍世界贸易的外汇管制 ②在货币问题上促进[9]_____,对在国际收支中出现暂时困难的成员国提供短期贷款
	国际复兴开发银行(世界银行)	①成立初期的宗旨是致力于战后的[10]_____经济复兴 ②后来转向[11]_____的发展援助	
特征	①美国对这两个机构拥有绝对的控制权 ②是一个以[12]_____为中心的世界货币体系		
作用	①加强了美国在国际金融领域的特权和支配地位,使美国掌握了资本主义世界的[13]_____ ②为世界货币关系提供了统一的[14]_____和基础,为世界经济的恢复和发展创造了条件		

对点训练 DUIDIANXUNLIAN

3. 为改良农田、建立商品粮基地和发展教育事业,自1981年起,中国曾多次向某国际组织申请贷款。该组织最可能是　(　)



A.国际货币基金组织　B.世界银行　C.关贸总协定　D.联合国

4. 二战后成立的某国际机构,以"促进汇价的稳定,维持会员国间有秩序的外汇安排"为宗旨。此机构是　(　)

A. 国际货币基金组织

B. 世界银行

C. 亚太经济合作组织

D. 世界贸易组织

5. 二战后,资本主义各国在国际贸易中使用美元作为结算手段,其主要原因是　(　)

A. 英国经济实力严重衰退

B. 关税与贸易总协定的确立

C. 布雷顿森林体系的建立

D. 国际货币基金组织的建立

6. 美元与黄金的关系,经历了从第二次世界大战后初期的"挂钩"到20世纪70年代以来的"脱钩"。这一变化说明了　(　)

A. 美元不再是国际支付手段

B. 美国经济霸权地位的衰落

C. 国际货币基金组织已瓦解

D. 美国与其同盟国关系破裂

关注微信公众号"教辅资料站"获取更多学习资料

三、战后资本主义世界经济体系的形成

1.《关税与贸易总协定》

(1)原因:1929～1933 年的世界性经济危机的教训促使各国开始认识到国际贸易⑮_____的必要性。

(2)签订:1947 年,美国、中国等 23 个国家在日内瓦签署了《⑯_____》。

(3)宗旨:降低关税,减少贸易壁垒,在实施互惠和非歧视的基础上实现国际贸易自由化。

(4)影响:客观上创造了一个⑰_____的环境,推动了战后世界经济的发展。

2. 体系形成

(1)标志:⑱_____、国际复兴开发银行和"关贸总协定"三大经济支柱的出现。

(2)积极影响:是世界经济朝着体系化和⑲_____方向发展的反映。

对点训练 DUIDIANXUNLIAN

7. 第二次世界大战的发生很大程度上源于战前世界经济的无序恶性竞争。战后初期国际社会为实现自由贸易,消除关税壁垒,采取的措施是 (　　)

A. 建立布雷顿森林体系

B. 成立关贸总协定

C. 世界银行的建立和运行

D. 成立国际货币基金组织

8. 与近代相比,第二次世界大战后的资本主义世界经济体系的不同之处是 (　　)

A. 发达国家居于主导地位

B. 建立起制度性协调机制

C. 实现了无壁垒的自由贸易

D. 欧美与其他地区差距悬殊

学考基础合格练 学考基础练能力 XUEKAOJICHULIANNENGLI

1. 1971 年,美国宣布停止履行对外国政府或中央银行以美元向美国兑换黄金的义务,同时美联储拒绝向国外中央银行出售黄金。这主要是由于美国 (　　)

A. 企图垄断资本主义世界经济

B. 已无力维持布雷顿森林体系

C. 受到了西欧和日本经济冲击

D. 意欲维护世界金融秩序稳定

2. 20 世纪 90 年代,国务院扶贫办向世界某机构申请长期贷款,成功实施了西南扶贫、山西扶贫、秦巴山扶贫等项目。此机构应该是 (　　)

A. 国际货币基金组织　　B. 世界贸易组织

C. 世界银行　　D. 亚太经合组织

3. 由希腊债务危机引发的欧洲新一轮经济危机成为世界金融的热点。为稳定金融秩序,希腊可向哪一机构申请救助 (　　)



A. 世界银行　　B. 国际货币基金组织

C. 关贸总协定　　D. 联合国

4. 布雷顿森林体系建立后,获得了"等同黄金"特殊地位的货币是 (　　)

A. 英镑　　B. 美元

C. 欧元　　D. 日元

5. 第二次世界大战后,美、中等 23 国签署了一份协定书,建立了一个世界性经济组织,其宗旨有"取消国际贸易中的歧视待遇,以促进自由贸易"。该组织是 (　　)

A. 关税与贸易总协定　　B. 世界银行

C. 国际货币基金组织　　D. 亚太经合组织

6. 第二次世界大战后,说明世界经济朝着体系化和制度化方向发展的是 (　　)

A. 布雷顿森林体系建立

B.《关税与贸易总协定》签订

C. 世界银行建立

D. 三大经济支柱的出现

7. 阅读下列材料,回答问题。

材料一:下图是 1944 年 7 月 1 日,44 个国家或政府的经济特使在美国新罕布什尔州的布雷顿森林召开了联合国货币金融会议,商讨战后的世界经济格局。经过 3 周的讨论,会议通过了以"怀特计划"为基础制订的《联合国货币金融会议最后决议书》。



材料二:关贸总协定只是一个"临时协定",一个准国际组织,这就是为什么在乌拉圭回合多边贸易谈判中,人们还在酝酿筹建一个新的真正的多边贸易体系的缘由。许多缔约国常利用一般禁止数量限制原则的例外,大量采用非关税壁垒的措施,推行贸易保护主义等。……至今仍没有具有法律约束力的强制手段。这也是许多重大国际贸易争端无法真正解决的重要原因。

——王东京、王志主编《关贸总协定知识读本》

(1)材料一图片所示形成的国际性体系是什么?结合所学知识概述这一体系诞生的背景。

(2)根据材料二概括关贸总协定的不足之处,并结合所学知识指出关贸总协定的历史地位。

关注微信公众号"教辅资料站"获取更多学习资料

课时加餐拔高练　课后拔高练规范　KEHOUBAGAOLIANGUIFAN

课后加餐练

1. 在布雷顿森林会议上，英国外交官哈利法克斯勋爵对英国代表团主要成员凯恩斯低声耳语："他们是有钱袋子，但是我们有的是脑瓜子。"这表明　（　）
A. 英国对自己的方案缺乏自信
B. 英美两国经济实力差距悬殊
C. 美国的方案比英国的方案更好
D. 美英均提出国际贸易体系方案

2. 下表为某国际经济组织对中国援助的概况。该组织是（　）

年份	援助战略	主题展开
2002	农村/农村社会向城镇/工业社会转型	解决贫困人口和贫困地区的问题
	中国环境技术援助	推动环境的可持续性
	计划经济向市场经济转型	改变商业环境以推动市场经济转型

A. 世界银行　　B. 国际货币基金组织
C. 关贸总协定　　D. 联合国

3. 长期以来，世界银行的最高职务人选一直是美国人。造成这一现象的直接原因是　（　）
A. 美国认缴的股金最多　　B. 美国推行霸权主义
C. 机构的发起国是美国　　D. 机构的总部在美国

4. 根据国际货币基金组织的决定，人民币从2016年10月1日起成为"可自由使用货币"。这是该组织"历史上首次"扩大作为特别提款权基础的货币篮子。下列宗旨或使命与此举相吻合的是　（　）
A. 消除关税壁垒　　B. 稳定国际汇率
C. 促进自由贸易　　D. 与贫困作斗争

5. 图一到图二的历史变迁　（　）



图一



美元与黄金直接挂钩：1盎司黄金=35美元
其他会员国货币与美元挂钩，同美元保持固定汇率关系。

图二

A. 反映出国际货币关系从无序到有序
B. 确立了美国主导的世界贸易体系
C. 逐步建立起世界政治经济新秩序
D. 构建了黄金本位的国际金融体系

6. 1948年11月，国民政府宣布金圆券大幅贬值后，上海中央银行柜台前老百姓都急于将金圆券兑换成黄金或美元。当时美元像黄金一样被抢购的主要原因是　（　）
A.《马斯特里赫特条约》的签订
B.《中美友好通商航海条约》的签订
C.《布雷顿森林协议》的签订
D.《关税与贸易总协定》的签订

7. 下图反映了1955～2007年1美元兑换日元的数量变化，对此图解读正确的是　（　）

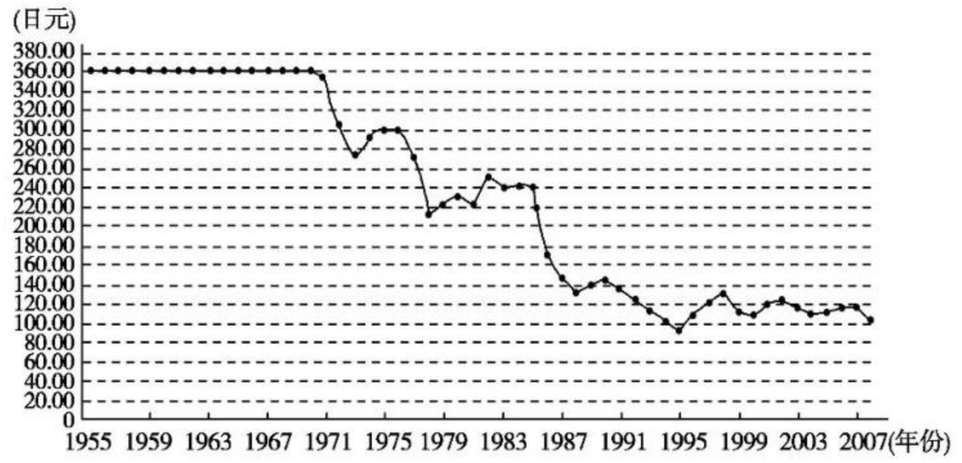

A. 二战后初期日美经济发展同步
B. 日元贬值助推日本经济崛起
C. 世界经济三足鼎立的局面形成
D. 美元优势地位逐渐发生变化

8. 被称为"经济联合国"的世界贸易组织(WTO)，构建了当今世界的多边贸易体制。其前身是1947年成立的关税与贸易总协定，当初成立这一组织是为了　（　）
A. 维护国家经济安全　　B. 促进知识经济发展
C. 促进贸易自由化　　D. 减轻发展中国家债务

9. 关贸总协定规定："缔约国之间通过谈判，在互惠基础上互减关税，以保障缔约国的出口商品适用稳定的税率。"这有利于　（　）
A. 发达国家向发展中国家进行贸易和技术投资
B. 缓解其成员国间的贸易不平等状况
C. 维护发展中国家和贸易小国的利益
D. 消除关税壁垒，推动世界贸易发展

10. 有学者认为，在20世纪上半期整体世界已经形成，但全球化属于自发阶段。"二战"后，联合国、国际货币基金组织、关贸总协定等一系列国际组织出现，全球化进入自觉阶段。这一观点的依据是　（　）
A. "二战"后资本主义世界体系最终形成
B. 资本主义与社会主义经济联系密切
C. 大国之间关系由战时对抗走向战后合作
D. 经济合作的体系化建设出现了突破

11. 阅读下列材料，回答问题。

材料一：在布雷顿森林体系以前两次世界大战之间的20年中，国际货币体系分裂成几个相互竞争的货币集团，各国货币竞相贬值，动荡不安，因为每一经济集团都想以牺牲他人利益为代价，解决自身的国际收支和就业问题，呈现出一种无政府状态。20世纪30年代世界经济危机和第二次世界大战后，各国的经济政治实力发生了重大变化，美国登上了资本主义世界盟主地位，美元的国际地位因其国际黄金储备的巨大实力而空前稳固。这就使建立一个以美元为支柱的有利于美国对外经济扩张的国际货币体系成为可能。

材料二：无论在华盛顿还是海外，人们对布雷顿森林体系服务美国长远利益的初衷已不再有任何疑问，然而其他国家的领导人打消了疑虑，接受这样的思想：这个体系造福美国的同时也造福世界。

——《布雷顿森林体系70年之痒》

关注微信公众号"教辅资料站"获取更多学习资料

材料三：缔约各国政府，认为在处理它们的贸易和经济事业的关系方面，应以……扩大世界资本的充分利用以及发展商品的生产与交换为目的。……切望达成互惠互利协议，导致大幅度地削减关税和其他贸易障碍，取消国际贸易中的歧视待遇，以对上述目的作出贡献。

——《关税与贸易总协定》

(1)根据材料一，概括布雷顿森林体系产生的历史背景。这一体系的主要特征是什么？

(2)结合所学知识，指出布雷顿森林体系的主要内容。如何理解材料二中“这个体系造福美国的同时也造福世界”？

(3)依据材料三，概括《关税与贸易总协定》的主要内容。结合所学，分析《关税与贸易总协定》对战后经济发展的影响。

课后拔高练

1.(**2018·天津卷**)京津塘高速公路是第一条经国务院批准并部分利用世界银行贷款建设的跨省、市高速公路，1987年12月动工。这条高速公路的修建能够得到世界银行贷款，主要是因为改革开放后我国　(　)

A. 加入亚太经合组织

B. 将天津设为沿海开放城市

C. 恢复世界银行席位

D. 成功加入世界贸易组织

2.(**2016·海南卷**)1948年2月，美国的一份报告称，美国拥有世界财富的50%，却只有世界人口的6.3%。在这种形势下，美国的任务是设计一种在不危及美国国家安全情况下，保持这种优势的“关系模式”。能够体现这一“关系模式”的是　(　)

A. 确立并维护世界货币体系

B. 成立北大西洋公约组织

C. 实行贸易保护主义

D. 对欧洲进行经济援助

3.(**2015·全国卷Ⅰ**)世界银行在1968年的贷款项目为62个，贷款总额为9.5亿美元；1981年贷款项目为266个，贷款总额为124亿美元。出现这一变化是因为　(　)

A. 美国西欧经济实力下降

B. 各国关税税率明显降低

C. 新兴独立国家大量增加

D. 世界贸易组织大力推动

第23课　世界经济的区域集团化

课前自检自查练　自主预习点对点　ZIZHUYUXIDIANDUIDIAN

一、从欧共体到欧洲联盟

1. 背景

(1)历史因素：西欧国家有相似的①＿＿＿＿＿＿，近代欧洲国家的冲突与战争，激起了欧洲人对欧洲统一的强烈愿望。

(2)现实因素：第二次世界大战后西欧国家普遍衰落，美苏②＿＿＿＿＿＿形成。

2. 过程

(1)欧共体：1951年西欧六国签订了欧洲③＿＿＿＿＿＿；1957年六国又签订了欧洲经济共同体及欧洲原子能共同体条约；1967年三个共同体合并为欧洲共同体。

(2)欧盟：1992年，欧共体成员国签署《欧洲联盟条约》；④＿＿＿＿＿＿年，欧洲联盟成立；1999年，欧盟单一货币⑤＿＿＿＿＿＿问世。

3. 特点：由单纯的经济实体向⑥＿＿＿＿＿＿实体过渡，目标是建立欧洲经济货币联盟和欧洲政治联盟。

4. 影响：欧盟在经济领域取得突出的成就，成为当今世界⑦＿＿＿＿＿＿格局中的重要力量。

对点训练 DUIDIANXUNLIAN

1. 联邦德国总理阿登纳说：“如果我们欧洲人不想在起了根本变化的世界上走下坡路的话……欧洲的联合是绝对必要的。”这表明推动西欧走向联合的主要因素是　(　)

A. 冷战时期的国际形势

B. 西欧共同文化心理认同

C. 实现欧洲统一的梦想

D. 西欧经济发展水平相近

2.《欧洲经济共同体条约》文本使用了荷兰纸张、德国墨水、法国印刷术，由比利时和卢森堡装订，附着意大利制作的飘带。这说明了　(　)

A. 分别利用了各国最先进的技术

B. 说明各国经济水平不同

C. 象征着欧洲的联合

D. 说明文本制作工序复杂

3. 因西欧国家纷纷减持美元，2002年美元在国际货币储备体系中占比由2001年的71.4%下降到67%，西欧国家减持美元是因为　(　)

A. 美欧关系彻底恶化

B. 欧洲单一货币欧元启用

C. 美国霸权不得人心

D. 世界经济新秩序的建立

二、北美自由贸易区

1. 背景：20世纪80年代中后期，欧洲一体化发展迅猛，日本实力急剧增强，美国在国际经济中的绝对优势地位面临挑战。

2. 建立：1992年，美、加、墨签订《⑧＿＿＿＿＿＿》；1994年，北美自由贸易区正式成立。

关注微信公众号“教辅资料站”获取更多学习资料

3. 宗旨：逐步取消关税及其他贸易壁垒，实现商品、劳务及资本等的⑨_____。

4. 影响：加强了三国间的经济合作与交往；实现了发达国家与⑩_____优势互补，增强了区域集团的实力。

对点训练 DUIDIANXUNLIAN

4. 有人以“一个大块头，带着两个小个子”来形容北美自由贸易区，这说明（　　）
   A. 加、墨两国都是发展中国家
   B. 北美自由贸易区是由美国主导的
   C. 美国对加、墨两国进行剥削
   D. 实现三国合作是美国的最终目标
5. 有学者评价北美自由贸易区在区域一体化组织模式上具有创新价值，这主要体现这一自由贸易区（　　）
   A. 由发达国家和发展中国家组成
   B. 由不同社会制度的国家组成
   C. 实行政治经济的一体化模式
   D. 商品、劳务、资本自由流通

三、亚太经济合作组织

1. 背景：20 世纪 80 年代以来，世界经济区域集团化发展的影响。

2. 建立：1989 年，澳大利亚等 12 国在堪培拉成立亚太经济合作组织；1991 年，通过《⑪_____》，确立了其宗旨和目标。

3. 影响

（1）在贸易和投资自由化、贸易和投资便利化以及⑫_____三个方面取得了成就。

（2）成员之间存在着文化和历史的差异，对其经济集团化的发展有一定的影响。

对点训练 DUIDIANXUNLIAN

6. 当今规模最大，地跨亚洲、大洋洲、北美洲和南美洲四大洲的区域性经济集团是（　　）
   A. 北美自由贸易区　　B. 上海合作组织
   C. 世界贸易组织　　D. 亚太经合组织
7. 下面是一幅关于亚太经济合作组织的漫画。其主要寓意可能是（　　）



   A. 扩大经济合作范围融入全球化
   B. 提升整体实力应对外部挑战
   C. 打破地域障碍加强制度化建设
   D. 减少贸易壁垒以便优势互补

学考基础合格练 学考基础练能力 XUEKAOJICHULIANNENGLI

1. 下列对欧洲一体化进程排序正确的是（　　）
   A. 欧洲共同体　煤钢共同体　欧盟　欧元
   B. 煤钢共同体　欧盟　欧洲共同体　欧元
   C. 煤钢共同体　欧洲共同体　欧盟　欧元
   D. 煤钢共同体　欧元　欧洲共同体　欧盟
2. 2016 年以来，英国脱欧成为一个十分热门的话题。受英国脱欧影响最大的是（　　）
   A. 世界多极化　　B. 西欧一体化
   C. 贸易自由化　　D. 政治民主化
3. 如图是一位同学上课时所记的部分笔记，笔记内容所反映的组织是（　　）

- 1. 背景：经济全球化的发展
- 2. 特点：南北合作，大国主导，减免关税的不同步性，战略的过渡性
- 3. 评价：经济交流加强；但国家间实力差距较大，发展中国家民族经济受到冲击

   A. 欧共体　　B. 上海合作组织
   C. 北美自由贸易区　　D. 亚太经合组织
4. 北美自由贸易区比欧盟合作程度低，主要表现在（　　）
   A. 合作的内容上
   B. 成员国的规模和数量上
   C. 合作的时间长短上
   D. 组成的国家发展水平上
5. 作为世界和平的建设者，中国加入的地区性国际组织是（　　）
   A. 北大西洋公约组织　　B. 北美自由贸易区
   C. 欧洲联盟　　D. 亚太经合组织
6. 下图是一个区域性经济合作组织的会标，该组织的特点是（　　）



   A. 会员之间实行统一关税
   B. 推行政治经济一体化
   C. 承认多样化和强调灵活性
   D. 奉行安全先行原则
7. 阅读下列材料，回答问题。

材料一：莫耐认为欧洲不能长期在资金和军事上依赖美国，否则，有害无益，只有建立强大的欧洲联盟才有可能与美国平等对话。

——《欧洲之父的思路及其对亚洲的启示》

材料二：20 世纪 90 年代以来，世界经济区域集团化出现了一些新的特点：不同经济发展水平、不同社会制度的国家结成了区域经济集团；在广度与深度、外延与内涵方面有了新发展，突破了洲的限制，开始跨洲发展；区域经济集团相互之间、其内部各参加国及地区之间的经济发展水平是不平衡的，其结构也是多层次的。

——《世界经济区域集团化的发展与对策》

关注微信公众号“教辅资料站”获取更多学习资料

(1)材料一中莫耐提出了什么主张？结合所学知识指出他提出这一主张的依据。

(2)根据材料二，概括 20 世纪 90 年代以来世界经济区域集团化出现的新特点。

课时加餐拔高练

课后拔高练规范　KEHOUBAGAOLIANGUIFAN

课后加餐练

1. 1950 年，法国外长舒曼说："煤钢生产的联营将可以改变这一地区长期生产武器使它自己成为牺牲品这一命运。"这说明法国主张建立煤钢联营的目的在于　(　)
A. 推动欧洲经济的发展　B. 实现欧洲一体化
C. 增强欧洲的军事力量　D. 消除欧洲的战争隐患

2. 下图反映了某个国际组织逐步发展的历程，它体现的实质内容是　(　)



A. 国际政治多极化　B. 国际贸易自由化
C. 区域一体化　D. 经济全球化

3. 欧盟委员会这样解释欧盟旗帜的文化含义：12 是完美和丰饶的象征，使我们同时联想起《圣经》中的 12 使徒、罗马的 12 铜表法、一天的 12 小时、一年的 12 月……最后，圆形的排列代表了联盟。对这一解释，理解正确的是　(　)
A. 联合欧洲十二国为统一国家
B. 封建神学在欧洲占统治地位
C. 罗马法确立了欧盟法制规范
D. 欧洲联合有共同的文化基础

4. 欧洲联盟、亚太经济合作组织和北美自由贸易区是当今世界三大著名区域集团。欧洲联盟与后两者相比，主要不同点是　(　)
A. 典型地反映了世界经济区域集团化趋势加强
B. 合作程度最高，合作领域最广泛，合作成效最显著
C. 典型地反映了世界经济的全球一体化趋势加强
D. 是发达国家与发展中国家组成的经济合作组织

5. 美国总统克林顿在 1997 年向国会提交的一份评估报告中称赞："协定使美国增加了 311 万个就业机会，其中 189 万个是因增加了对加拿大的出口。"这份评估报告论述了　(　)
A. 美国建立了"福利国家"
B. 北美自由贸易区的积极作用
C. 第三产业兴起的重要性
D. 美加实行经济合作的必要性

6. 传统经济理论认为，发达国家和发展中国家因经济水平差距过大，很难结成经济集团。突破这一传统经济理论的是　(　)
A. 欧共体的建立　B. 北美自由贸易区建立
C. 联合国的成立　D. 布雷顿森林体系建立

7. 下图是载于墨西哥《观察家日报》的一幅漫画，从中可以获得的准确信息是　(　)



A. 揭示经济多极化的危害性
B. 抨击美国经济技术的垄断性
C. 呼唤世界贸易体系公正性
D. 质疑区域经济合作的公平性

8. 20 世纪 80 年代以来，一些国家之间建立起较为稳定的经济联系，组成了区域性经济集团，这主要是因为各国　(　)
A. 经济发展水平趋于一致
B. 经济相互依赖程度进一步加深
C. 逐渐消除意识形态上的差异
D. 政治经济利益逐渐趋于一致

9. 2017 年 1 月 23 日，美国新总统特朗普上任后正式宣布美国退出跨太平洋战略经济伙伴协定(TPP)。对于 TPP 的出现，有人认为可以称之为亚太区域合作中"硬机制"向"软机制"——APEC 的挑战。"软机制"在这里指的是　(　)
A. 灵活性　B. 开放性
C. 平等互利　D. 自主自愿

10. 2014 年北京 APEC 会议指出，过去 25 年，APEC 成员经济体平均实施关税降低超过 10 个百分点，推动区域内贸易额和区域总贸易额提升 7 倍。这说明 APEC 的成立　(　)
A. 使成员国间贸易壁垒消除
B. 得益于经济一体化的推动
C. 受到其他经济组织的欢迎
D. 促进了亚太地区经济发展

关注微信公众号"教辅资料站"获取更多学习资料

11. 阅读下列材料，回答问题。

材料一：希腊哲学、罗马法和基督教义作为欧洲各国的共同精神财富，经近代文艺复兴和启蒙运动已被重新“化合”，成为欧洲统一的文化基础。……“冷战”开始后，西欧国家逐渐认识到，必须走联合的道路才能保障自身的安全和获得发展。而法德两个国家化解宿仇、实现和解是西欧联合的关键。1950 年，法国外交部长舒曼发表了一项声明，提议把法国、联邦德国的全部煤矿和钢铁生产置于一个联营机构的管制之下。法德实现煤钢的共同生产，不仅促进了法德关系的改善，还为西欧国家的联合铺平了道路。

——《教学参考》

材料二：在今天，我们要欢迎欧盟大家庭里又多了 10 个新成员国（塞浦路斯、匈牙利、捷克、爱沙尼亚、拉脱维亚、立陶宛、马耳他、波兰、斯洛伐克和斯洛文尼亚）。在欧洲一体化进程启动了 50 年后……多样性的联合，将会使我们变得更加强大，更好地解决彼此间的共同问题。多样性的联合，也会使我们更有效率地为整个欧洲的安全和繁荣而努力工作。

——欧盟委员会主席罗马诺·普罗迪

在欧盟扩大会议上的讲话（2004 年 5 月 1 日）

(1)据材料一并结合所学知识，分析欧洲走向联合的主要原因。

(2)结合所学，分析 2004 年欧盟扩大的背景。据材料二，说明欧洲实现“多样性的联合”的主要意义。

课后拔高练

1.（**2018·全国卷Ⅱ**）20 世纪 60～70 年代，法国、联邦德国和意大利北部原本落后的农村迅速实现了机械化，数百万农民成了相对富裕的农场主。这一变化的原因是（　　）

A. 马歇尔计划开始发挥作用
B. 欧洲经济一体化的推动
C. 西欧社会福利制度的确立
D. 布雷顿森林体系的瓦解

2.（**2016·全国卷Ⅰ**）1947 年，美国国务卿马歇尔提出援助欧洲复兴计划，并敦促欧洲方面首先拟定一项联合性质的计划，要求该计划即使不能得到所有欧洲国家的同意，也应征得一部分国家的同意。马歇尔计划体现出来的美国对欧政策（　　）

A. 有利于煤钢联营的建立
B. 促成了欧美平等伙伴关系
C. 导致欧洲出现对峙
D. 成为德国分裂的根源

3.（**2016·全国卷Ⅰ**）

表

成立时间	名称
1955	国际茶叶委员会
1960	石油输出国组织
1962	可可生产者联盟
1970	天然橡胶生产者协会

推动表中所列国际组织出现的主要因素是（　　）

A. 发达国家经济高速增长造成的资源紧缺
B. 新兴独立国家应对不利的国际经济秩序
C. 经济全球化开始扩展到生产领域
D. 经济的区域集团化取得显著成就

第 24 课　世界经济的全球化趋势

课前自检自查练　自主预习点对点　ZIZHUYUXIDIANDUIDIAN

一、经济向全球化发展

1. 原因

(1)历史条件：①_____以后，资本主义经济在世界范围内获得空前的发展，世界市场迅速扩大。

(2)科技条件：二战以来，②_____技术迅速发展，特别是 20 世纪 90 年代以来信息技术的迅猛发展。

(3)国际环境：③_____的瓦解也为经济全球化扫清了障碍。

(4)各国政策：绝大多数国家都实行了④_____经济体制。

(5)推动因素：⑤_____和各种国际组织成为经济全球化的强有力的推动者。

2. 评价

(1)对世界：既加速了世界经济的发展和繁荣，也加剧了全球竞争中的利益失衡。

(2)对发达国家：凭借⑥_____、⑦_____、市场和经营管理方面的绝对优势，成为经济全球化最大的受益者。

(3)对发展中国家

①既是机遇，又是⑧_____，由于发展中国家的经济基础较差，技术水平低等原因，在经济全球化中处于劣势和被动地位。

②策略：保持清醒头脑，制定合理对策，在积极主动的参与中谋求发展。

对点训练 DUIDIANXUNLIAN

1. 20 世纪 90 年代以来，世界经济全球化趋势进一步加快，其重要因素之一是绝大多数国家都实行了（　　）

A. 市场经济体制　　B. 计划经济体制
C. 自由资本主义　　D. 国家垄断资本主义

关注微信公众号“教辅资料站”获取更多学习资料

2. “20 世纪 90 年代以来，跨国公司大制造商‘以世界为工厂，以国家为车间’。”导致此现象形成的主要原因是　（　　）
A. 各国贸易保护主义重新盛行
B. 世界各区域经济集团的形成
C. 西方新殖民主义扩张的结果
D. 经济全球化加速了国际分工

3. 历史漫画往往以幽默夸张的笔法描绘历史现象或历史事件，并赋之以深刻的寓意，从而揭示历史现象或事件的本质特征。下图漫画《追不上了》反映了　（　　）



A. 经济全球化是发达国家资本主义的新一轮扩张
B. 经济全球化下世界经济发展不平衡加剧
C. 经济全球化对发展中国家是一次机遇
D. 经济全球化推动了世界各国经济的发展

二、世界贸易组织的建立

1. 背景：关贸总协定存在着诸多弊端。特别是在解决争端时缺乏法律性的强制措施。

2. 目的：为了适应⑨_____发展的需要。

3. 成立：1995 年，世界贸易组织取代关贸总协定，⑩_____和法制化的世界贸易体系开始建立起来。

4. 宗旨和目标：促进各国市场的开放，调解贸易纠纷，实现全球范围内的⑪_____。

5. 作用
(1)促进各成员之间逐渐取消贸易壁垒，使各成员通过贸易获得生活水平的提高和经济的繁荣。
(2)努力减少其成员间的不平等，对⑫_____和贸易小国的利益给予足够的重视。

对点训练 DUIDIANXUNLIAN

4. 1995 年运行了 47 年的“关税与贸易总协定”结束了其推动国际贸易自由化的使命，被世界贸易组织所取代。这反映了　（　　）
A. 美国经济霸权的衰落　　B. 国际格局多极化的需要
C. 多边贸易秩序的强化　　D. 区域经济集团化的深化

5.《世界贸易组织协定》第 15 条规定：各成员方都要保证使其法律、规章与管理办法均符合本协定附件中规定的义务。这一规定反映出世界贸易组织　（　　）
A. 对所有成员具有法律约束力
B. 消除了不同文明间的对抗
C. 推动了世界经济格局的变动
D. 是经济全球化形成的标志

三、中国加入世界贸易组织

1. 过程
(1)复关：1986 年，中国正式提出恢复关贸总协定⑬_____地位的申请，开始了漫长的复关过程。
(2)入世：2001 年 12 月，正式加入世界贸易组织。

2. 影响
(1)积极
①中国加入世界贸易组织，促进了中国的经济发展，进一步完善了⑭_____体制。
②中国的加入也将促进世界经济的增长，有利于建立完整的⑮_____体系。
(2)消极：中国加入世界贸易组织也带来压力和严峻的挑战。使国内一些产品、企业和产业面临更强的竞争，有些产业会受到冲击。

对点训练 DUIDIANXUNLIAN

6. 1986 年中国正式提出恢复在关贸总协定地位的申请，90 年代，中国政府加快了进入世贸组织的谈判。这是为了顺应世界　（　　）
A. 文化多元化趋势
B. 政治多极化趋势
C. 经济全球化趋势
D. 经济区域集团化趋势

7. 中华人民共和国加入世界贸易组织，既是一次机遇，也面临挑战。其中“面临挑战”指的是　（　　）
A. 进一步完善了社会主义市场经济体制
B. 有利于建立完整的世界贸易体系
C. 中国的企业正在不断提高自身的竞争能力，以适应新的国际经济形势
D. 市场的进一步开放、关税的大幅度减让，有些产业会受到冲击

学考基础合格练　学考基础练能力　XUEKAOJICHULIANNENGLI

1. 目前，世界经济日益走向“自由化、网络化、融合化和多边化”。这反映出当今世界经济发展的　（　　）
A. 全球化　　B. 趋同化
C. 集团化　　D. 平等化

2. 历史漫画一般能较好地揭示历史现象，据下图可知　（　　）



A. 跨国公司加强了世界联系
B. 全球化加大国家管理难度
C. 社会上盛行唯利是图思想
D. 全球人员往来实现自由化

3. 我们对待全球化的态度应该是　（　　）
A. 对发展中国家不利，坚决反对
B. 对发展中国家有利，完全赞同
C. 为保护民族企业，坚决反对
D. 要趋利避害，顺应全球化

4. “20 世纪后半叶，自由的全球贸易体系以及稳定而灵活的汇兑体系为发展中国家出口的快速增长创造了有利的环境。……外国投资和外国贷款等形式的资本流动促进了发展中国家的经济发展。发展中国家也组建了一些区域性经济团体，如东南亚国家联盟。”

关注微信公众号“教辅资料站”获取更多学习资料

上述材料主要反映了　　(　　)

A. 经济全球化的进一步发展

B. 资本主义经济体系的发展

C. 资本全球化的进一步发展

D. 经济区域集团化的发展

5. 世贸组织的建立对抑制国际经济贸易关系中的强权政治具有现实意义和深远的影响。这是由于其在决策中采取　　(　　)

A. “求同存异”方式

B. 自愿自主方式

C. “完全协商一致”方式

D. 完全统一方式

6. 下表是战后部分国际经济组织统计表。这些国际组织的成立说明　　(　　)

成立时间	名称
1945 年	国际货币基金组织
1945 年	世界银行
1947 年	关税与贸易总协定
1960 年	国际开发协会
1961 年	经济合作与发展组织

A. 发展中国家经济影响力增强

B. 经济区域化趋向日益明显

C. 各国间贸易壁垒被逐步打破

D. 世界经济的有序发展趋向

7. 阅读下列材料，回答问题。

材料一：第二次世界大战后，为避免各国推行贸易保护主义，实现贸易自由化，关贸总协定(GATT)于 1947 年建立。关贸总协定是调整缔约国对外贸易和国际经济贸易关系方面的相互权利、义务的国际多边协定。但由于“组织宪章”未通过，所以该协定并不是正式的国际组织。1995 年，GATT 被世界贸易组织(WTO)所取代。

——摘自吴于廑、齐世荣《世界史·现代史编》

材料二：在 20 年的时间里，中国的货物出口增长了 20 多倍，去年达 1 510 亿美元，中国目前已成为第五大贸易国和第二大外国投资输入国。……当其他人在编写游戏规则时，一个外向型的中国决不能袖手旁观。一个拥有越来越重要的出口利益的中国决不能没有可靠的、更多地进入全球市场的机会，而这种可靠性只有在多边体制中才能找到。或许更为重要的是，一个依赖于技术和现代化的中国决不能落后于如此迅速的全球化步伐。

——《中国和世界贸易体制》(1997 年世界贸易组织总干事鲁杰罗在北大的演讲)

(1)结合材料一和所学知识，简述 GATT 的宗旨。

(2)根据材料二，请您用一句话概括鲁杰罗演讲的核心观点。结合所学知识简要分析中国加入 WTO 的理由。

课时加餐拔高练　课后拔高练规范　KEHOUBAGAOLIANGUIFAN

课后加餐练

1. 地理大发现时期，欧洲的航海家们发现“世界是圆的”；500 多年后，美国作家弗里德曼乘飞机沿哥伦布的航线来到了印度，却发现“世界是平的”。如果前者侧重于地理常识的话，那么后者旨在强调　　(　　)

A. 经济区域化　　B. 世界两极化

C. 经济全球化　　D. 制度多元化

2. 1991 年出版的《各国的劳动》一书中，声称“严格意义上的美国经济正在消失”，并预言 21 世纪的经济将没有国界。其结论的依据是　　(　　)

A. 两极格局的瓦解消除了各国矛盾

B. 世界多极化趋势逐渐加强

C. 美国经济迅速衰退并趋于停滞

D. 经济全球化趋势的不断发展

3. 有学者认为，迄今为止的经济全球化仅仅是资本运动的全球化，而非经济福音的全球化。西方资本的大规模跨国运动将世界的生产和交换活动连为一体，但是从世界性的生产和交换活动中产生的经济利益，却没有在全球合理分配。这一观点旨在强调经济全球化　　(　　)

A. 表现为大规模的跨国运动

B. 不利于世界经济均衡发展

C. 使生产和交换活动更密切

D. 给发展中国家提供了机遇

4. 有研究指出，发展中国家的经济年增长速度每下降 3%，发达国家的经济增长速度就有可能下降 1%。这主要表明，在经济全球化的浪潮中　　(　　)

A. 发展中国家处于劣势和被动地位

B. 发达国家是最大经济受益者

C. 发展中国家与发达国家经济相互依存

D. 发展中国家与发达国家贫富差距缩小

5. 随着“全球化”这一概念不断地被赋予新的含义，扭转全球变暖趋势，给人类的子孙后代留下一种与自然相和谐的健康而富有成效的生活环境，便成为世界各国的共识。为此各国应采取的发展战略是　　(　　)

A. 经济全球化战略

B. 经济区域合作战略

C. 经济结构调整战略

D. 可持续发展战略

关注微信公众号“教辅资料站”获取更多学习资料

6. 2016 年 6 月，英国卡梅伦政府发起“脱欧”公投；2018 年 3 月，美国特朗普政府对中国输美产品加征关税。这些事件反映出（　　）
A. 经济全球化不利于发达国家
B. 中国是全球化的最大受益者
C. 发达国家出现反全球化现象
D. 国际格局多极化趋势的加强

7. 某学者用“两个‘协定’改变经济世界”来评述第二次世界大战后资本主义世界经济体系的变化。第二次世界大战后，经济世界的“改变”主要是指（　　）
A. 西方国家居于经济主导地位
B. 建立起制度性的经济协调机制
C. 消除了国际自由贸易的壁垒
D. 出现倡导自由贸易的经济思想

8. 下图是 16 世纪以来世界经济发展示意图。该图可说明（　　）

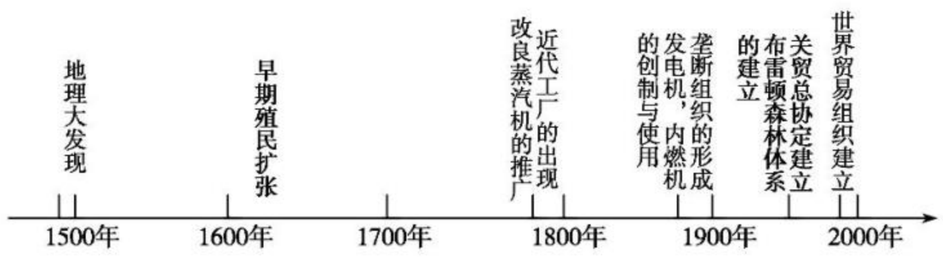

A. 经济全球化呈现了从无序到有序的发展趋势
B. 18 世纪中期以后贸易自由化的发展一帆风顺
C. 资本主义世界经济体系形成推动了工业革命
D. 世界贸易组织的建立标志着经济全球化形成

9. 某一国际组织的领导人曾说：“一个拥有越来越重要的出口利益的中国决不能没有可靠地、更多地进入全球市场的机会，而这种可靠性只有在多边体制中才能找到。”中国“找到”“多边体制”是在（　　）
A. 1971 年　　B. 1991 年
C. 1995 年　　D. 2001 年

10. 中国加入世界贸易组织的原因，一言以蔽之是“世界需要中国，中国需要世界”。其中“中国需要世界”体现在（　　）
A. 中国经济实力和综合国力不断增加，地位举足轻重
B. 可以直接参与 21 世纪国际贸易规则的决策过程，摆脱被动接受规则的不利状况
C. 发展中的中国有着广阔的市场和无限的商机
D. 中国深化对外开放，严重依赖国际市场

11. 阅读下列材料，回答问题。

材料一：在全球化的过程中……人们将和世界各地越来越多的人互相竞争和合作……人们的机会将越来越平等……全球各地之间变得越来越相互依赖。贸易的疆界已经被铲平，我们的经济可以延伸到任意的地方，技术、人员、资本、贸易在自由地运行，用它们的方式达到平衡。

——[美]托马斯·弗里德曼《世界是平的》

材料二：

部分目录

第一章　金融的混乱＝世界的终结？
第二章　全球巨额资金：危机重重
……
第六章　风雨满楼：真正的欧洲货币战争
第七章　美联储：心有余而力不足
第八章　世界是弯的：薄弱的全球化基础
（一）全球化难道患上焦虑症？
……
（十）薄弱的全球化政治基础
第九章　全球化与金融体系：生存与发展的命题

——[美]戴维·斯密克《世界是弯的》

（1）根据材料一，说明弗里德曼为什么说“世界是平的”。结合所学知识，简析第二次工业革命推动世界“变平”的因素。

（2）根据材料二并结合所学知识，概括“世界是弯的”的表现并为“弯”的世界提供解决方案。

课后拔高练

1.（**2018·江苏卷**）西方学者弗里德曼认为，全球化包括不可阻挡的市场一体化，民族国家发展和科技进步达到前所未有的程度，同时全球化也会使某些国家遭到不公正对待并远远落在后面，从而在这些国家出现强烈的反作用。由此可知，该学者（　　）
A. 指出了全球化带来的利弊
B. 批评现存的反全球化思潮
C. 强调了全球化的消极作用
D. 提出了应对全球化的策略

2.（**2017·全国卷Ⅰ**）1976 年，美、英、法等西方国家组成七国集团，协调经济政策以解决世界经济难题，俄罗斯加入后成为八国集团。1999 年，八国集团国家和中国、巴西、印度等组成二十国集团，寻求合作以促进国际金融稳定和经济持续增长。从这一历程可看出（　　）
A. 世界格局的变化冲击旧的世界经济秩序
B. 经济全球化深入到贸易金融领域
C. 越来越多的亚非拉国家进入世界体系
D. 区域经济集团从封闭走向开放

3.（**2017·江苏卷**）当前，人们提到或使用“全球化”一词时，往往没有将“全方位的全球化”和“经济全球化”进行明确区分，而是将特定和有限度的“经济全球化”省略为“全球化”。出现这一情况的主要原因是，目前（　　）
A. 人们对全球化的理解逻辑混乱
B. 全球化主要表现为经济全球化
C. 全球化的政治意图被刻意淡化
D. 全球化的经济意义被刻意彰显

关注微信公众号“教辅资料站”获取更多学习资料

班级_____ 姓名_____ 考场号_____ 准考证号_____

密 封 线

单元质量检测卷(一)

第一单元 古代中国经济的基本结构与特点

(时间:90 分钟 满分:100 分)

一、选择题(每题 2 分,共 50 分)

1. 先秦时期,官方颁布的月令体著作中,将一年中每月的物候列出,表明动植物的生长情况,然后要求人们按照时令合理安排采集渔猎活动和农业生产。这反映出当时 ( )

A. 自然科学有了长足进步 B. 官方重视发展农业经济

C. 争霸战争推动农业发展 D. 耕作技术取得重大突破

2. 从春秋开始,随着铁农具、牛耕在农业生产中的推广,农业生产过程的个体性质也获得加强,农民大肆开垦,自垦田经营蒸蒸日上。这反映出 ( )

A. 井田制已完全瓦解 B. 牛耕已经普遍使用

C. 小农经济逐渐发展 D. 个体生产成为主体

3. 下图为汉代画像石中的农事图。由此图可以用来说明当时 ( )



A. 中原地区人地矛盾的缓和 B. 田庄的管理方式较为落后

C. 个体农户精耕细作的特点 D. 雇佣关系成为普遍的现象

4.《齐民要术·序》中说:"今采捃经传,爰及歌谣,询之老成,验之行事,起自耕农,终于醯、醢(酿造、腌制之法),资生之业,靡不毕书,号曰《齐民要术》。"这段话体现了 ( )

A. 农业技术的重要性 B. 统治阶级对农业的重视

C. 农书与农业的关系 D. 古代重视农业经验总结

5. 下表为宋代部分地区人口密度统计表(单位:人/平方千米)。这一变化 ( )

时间 / 地区	崇宁元年(1102 年)	嘉定十六年(1223 年)
江南东路	24.9	27.9
两浙路	30.7	32.9
江南西路	27.7	37.7
荆湖南路	17	22.5
福建路	16	25.4

A. 助推南方经济社会影响力的上升 B. 促使中国南北方经济发展趋向平衡

C. 使土地集中成为突出的社会问题 D. 不利于小农经济的稳定和持续发展

6. 明朝初期政府规定:家有土地十亩以下者,需种植桑、麻、棉各半亩,十亩以上者,则需倍之。这一规定 ( )

A. 促进了江南资本主义的萌芽 B. 有利于明朝货币体系的转型

C. 加剧了人口资源之间的矛盾 D. 强化了男耕女织的自然经济

7. 从 16 世纪中叶开始,玉米、番薯、马铃薯等原产于美洲的粮食作物先后传入中国,种植面积迅速扩大,逐步成为主导性的农作物品种。据此可知 ( )

A. 缓和了明清人口增长压力 B. 改变了明初的农业种植结构

C. 精耕细作进一步走向成熟 D. 对外开放加速明清经济发展

关注微信公众号"教辅资料站"获取更多学习资料

8.《考工记》记载:“郑之刀,宋之斤,鲁之削,吴(越)之剑”等手工业品闻名于世。这一现象说明 (　　)

A. 特色手工业生产出现　　B. 地区间经济差距拉大

C. 私营手工业发展较快　　D. 区域性经济竞争激烈

9. 汉赋《蓝赋》记载:“余就医偃师,道经陈留。此境人皆以种蓝、染绀(织物染料作物)为业,蓝田弥望,黍稷不植。”据此可推断汉代 (　　)

A. 农业地位的下降　　B. 民间纺织业渐成规模

C. 商品经济的发达　　D. 农业专业化现象开始出现

10. 明清时期,江南苏湖地区桑蚕业和棉纺织业发达,“民间于秋成之后,家家纺织,赖此营生,上完国课,下养老幼”。这说明 (　　)

A. 江南地区的粮食作物生产不发达　　B. 苏湖地区出现了专业的手工工场

C. 蚕棉业是当地农民重要生活来源　　D. 家庭手工业内部的分工更加明确

11. 据载:“明万历年间,在铁矿场中,有数百人在矿头指挥下进行生产,矿头并无地产,完全靠经营矿冶而‘享其利’,而矿夫则多为‘处州流民,少不下百,多则至千’。”这一记载从本质上说明 (　　)

A. 矿冶业带动了经济繁荣　　B. 资本主义萌芽已经出现

C. 资本主义萌芽发展缓慢　　D. 私营手工业被官府压制

12. 西周时期,在较大的都邑中都出现了市场,有管理市场的“质人”,商贾在市场上进行贸易,都有“质人”制发买卖的契券。据此可知,西周 (　　)

A. 形成契约精神　　B. 规范商业行为

C. 履践重农抑商　　D. 出现货币经济

13. 春秋时期的著名商人范蠡指出:“贸易货物时,容易腐败变质的食用货物不要滞留,更不要囤积待贵。”由此可知,他主张 (　　)

A. 国家要加强食物安全监察　　B. 食物商品应禁止进入市场

C. 市场秩序应得到法律规范　　D. 商品贸易应该注重时效性

14. 张骞出使西域后,汉朝招募了大批商人到西域各国经商,沿线设置关卡征税,并置西域都护府管辖西域,扼制匈奴的侵扰。这些举措 (　　)

A. 旨在攫取西域经济利益　　B. 是汉朝抑商政策的延伸

C. 有利于丝路的繁荣有序　　D. 将西域纳入了郡国体制

15. 到宋代,商业信用大发展,领域遍及消费、流通以及生产,充当信用中介物的“交引”“券”“契约文书”大量涌现。由此可知 (　　)

A. 商品流通速度加快　　B. 宋代形成了商业信用

C. 货币作用逐步降低　　D. 宋代货币形式多样化

16. 有学者指出:宋朝是中国历史上城市人口比例最高的一个时代,北宋城市人口占总人口的 20.1%,南宋则高达 22.4%。人口向城市的集聚,这一现象 (　　)

A. 使城市的生活环境恶化　　B. 导致农村劳动力相对缺乏

C. 推动了坊市界限的打破　　D. 刺激农村商品生产发展

17. 湖南省沅陵县曾出土两张元代油漆颜料广告。广告宣称“将油漆试验,便见颜色与众不同”,并提醒消费者“认门首红字高牌为记”。材料反映出 (　　)

A. 繁荣发展的广告服务业　　B. 较为激烈的商业竞争

C. 私营手工业地位的上升　　D. 资本主义萌芽的出现

18. 明朝市镇经济各有特色。如盛泽镇以蚕桑为业,震泽镇居民竞逐绫绸之利,濮院镇专织丝绸,枫泾镇棉纺织业兴盛。这反映出明中后期,市镇经济 (　　)

A. 制约了农业发展　　B. 生产方式多样化

C. 区域化分工明显　　D. 以棉纺织业为主

19. 西周晚期的一些青铜器的铭文中出现土地交换和土地买卖的记录,甚至还列出了在场作证的王室官员的名字,以作凭据。这说明了西周晚期 (　　)

A. 土地出现私有化的趋向　　B. 宗法分封制严重破坏

C. 青铜铸造工艺日渐成熟　　D. 井田制得到发展和完善

关注微信公众号“教辅资料站”获取更多学习资料

20. 商鞅曾向秦孝公建议：招揽三晋农民归附秦国耕种，免除他们三代的徭役，不服兵役；开垦山坡、洼湿之地，十年不收赋税。这一建议的意图是（　　）

A. 打击贵族势力　　B. 增强经济实力

C. 贯彻仁政思想　　D. 扩展秦国疆域

21. 西汉立国之初，汉高祖刘邦为迅速稳定统治秩序，规定商人“不得衣丝乘车，重租税以困辱之”，商人本人及其子孙不得“仕宦为吏”，以“遏贪鄙之俗，而醇至诚之风也”。这体现了（　　）

A. 汉代开始确立重农抑商政策　　B. 汉代官商勾结现象非常严重

C. 政治文化考虑影响商业政策　　D. 汉高祖以墨家思想巩固统治

22. 重农抑商政策是在重视农业生产和发展的同时，重官商，遏制农民经商，打击富贾大商，抑制中小商贩人数过多。这说明重农抑商政策的实施（　　）

A. 便于专制政府与民争利　　B. 适应维护专制统治的需要

C. 压抑了社会经济的活力　　D. 推动了农业经济持续发展

23. 唐玄宗曾下诏：“马牛驴皆能任重致远，济人使用，先有处分，不令宰杀”，并派出御史专门“纠察”。这反映了唐代（　　）

A. 重农抑商政策得到了强化　　B. 对地方事务管理相当严格

C. 刑罚严苛且涉及领域广泛　　D. 统治者对社会生产的重视

24. 在洪武年间，每过二、三年就可以见到申谕海禁的记载。例如，在洪武十四年、十七年、二十年、二十三年、二十七年、三十年，都有这种严厉的申谕。这说明洪武年间（　　）

A. 中外海上贸易几近断绝　　B. 闭关锁国已经形成

C. 民间对外贸易依然持续　　D. 君主专制不断加强

25. 如果让你深入研究明清时期的“海禁”政策，你会发现这一政策（　　）

A. 杜绝中国官方对外贸易　　B. 禁止中国所有船只出海

C. 阻止外邦“朝贡”贸易　　D. 禁止民间出海及对外贸易

二、非选择题（第 26 题 18 分，第 27 题 12 分，第 28 题 20 分，共 50 分）

26. 阅读下列材料，回答问题。

材料一：我国古代是一个以农立国的社会，历代都把发展农业当作头等大事，尤其是重视兴建水利工程。公元前 246 年，为耗竭秦国实力，韩国派水工郑国入秦游说，在泾水和洛水间穿凿一条大型灌溉渠道。本为“疲秦”之策的郑国渠却在完工后发挥了“强秦”的作用，使干旱的关中平原旱涝保收，为战国时期秦国的强盛和统一六国奠定了经济基础。湖州太湖溇港是太湖流域特有的古代水利工程类型，源于在太湖滩涂上纵港横塘的开凿。始建于春秋时期，北宋时形成完整体系。因为有了太湖溇港，太湖平原成为我国主要的粮食产区和蚕丝品生产地，孕育出“苏湖熟、天下足”的杭嘉湖平原和鱼米之乡、丝绸之府、文化之邦。

——陈晨《中国古代水利工程何以千年不衰》

材料二：自尧舜追溯农业发达之时，亦必在千年左右。我国农业发达，总在距今五千年之前了。中国的农业，是如何进化的呢？一言以蔽之，曰：自粗耕进于精耕。总而言之：农业有大农制和小农制。大农制的长处在于资本的节约，能够使用机械，以及人工的分配得宜。小农制的长处，则在以人尽其劳，使地尽其力。所以就一个人的劳力，论其所得的多少，是大农制为长。就土地同一的面积，论其所得的多少，则小农制为胜。中国农夫的技能，在小农制中，总可算首屈一指了。这都是长时间自然的进化。

——吕思勉《中国通史》

(1)根据材料一并结合所学知识，指出中国古代重视兴修水利工程的原因。(8 分)

(2)根据材料一、二并结合所学知识，概括中国古代小农经济的基本特征，分析我国古代小农经济发展的有利因素。(10 分)

关注微信公众号“教辅资料站”获取更多学习资料

27. 扬州盐商是泛指古代两淮地区的盐业商人群体。阅读以下材料，完成下列要求。

材料一："扬州繁华以盐盛"，其发轫期远可追溯到西汉时期。从隋朝开凿京杭大运河以来，扬州逐渐形成南北交通的枢纽和全国财货的集散地，成为盐运漕运的重镇。明中期以后，随着商品流通领域扩大，经济活动频繁，扬州也出现了继汉唐以后的第三次繁荣。特别是盐商在清康乾时期最为显赫，形成全国重要的商业资本集团。明清时期都将两淮盐区的最高管理部门设在扬州，使其成为盐政中心。

——王伟康《两淮盐商与扬州文化》

材料二：扬州盐商在寓居城市大兴土木，兴建园林、会馆、书院、码头等，因而留下了丰富的文化遗产。他们乐善好施，赈灾济贫，积极倡办公益事业，造福于民众，推动了地方事业的发展和城市的繁荣，保护和弘扬了优秀传统文化，表现出强烈的社会责任感和救世济民的抱负。他们敬重风雅、善交名儒硕士、吟诗作画的文化风尚，也流及盐商活动的广大区域。

——王雪萍《扬州盐商文化线路》

材料三：扬州盐商一方面深受中国传统儒家思想中积极观念的熏陶和影响，仁爱、忠 义、礼和、睿智和诚信并存，在商业行为风格上自成一派；另一方面长期被封建落后思想所禁锢，重本而轻末。

——朱迪《扬州盐商衰落原因的新制度经济学分析》

(1)根据材料一，指出明清时期扬州盐业兴盛的原因。(4 分)

(2)根据材料二，概括扬州盐商文化的积极内涵。(4 分)

(3)结合材料和所学知识，说明扬州盐商文化的社会影响。(4 分)

28. 明朝中后期经济领域出现了一些值得注意的新因素。阅读下列材料，回答问题。

材料一：明朝中后期，原产美洲的玉米、红薯等高产作物传入中国，提高了粮食的单位面积产量，使许多耕地可改种棉花、蚕桑等经济作物。在松江府，妇女们"晨抱棉纱入市，易木棉花以归，机杼轧轧，有通宵不寐者"，催生枫泾镇成为棉纺业专业市镇。湖州府双林镇的丝织业，广东佛山镇的铁器业等，也远近驰名。随着工商业市镇的勃兴，由中小商人和手工业者构成的市民阶层形成，明代阶级结构发生新变化。

——摘编自卜宪群《简明中国历史读本》

材料二：隆庆元年(1567)部分开放海禁后，海外贸易蓬勃发展。中国精美的丝绸和瓷器等产品，在世界市场上有着极好的销路，白银便源源不断地往中国内流。到万历年间，白银的使用已相当普遍，手中握有大量白银的徽商几乎遍布全国各地，进行大宗的商品长途贩卖。明朝后期，许多富商带着大量资本经营起矿冶业等产业。在这种历史潮流推动下，徽州的士人十之七八"以儒而贾"，甚至"左儒而右贾"，习以为常。

——摘编自晁中辰《明后期白银的大量内流及其影响》

(1)据材料一并结合所学知识，简述高产作物传入中国后，明朝农业和手工业发生的变化。(6 分)

(2)据材料二，指出明朝中期"海外贸易蓬勃发展"的国内因素，概括白银内流推动的商业发展表现。(10 分)

(3)有学者认为，商品经济繁荣促使明朝中后期萌动社会转型。据材料一、二并结合所学知识加以说明。(4 分)

关注微信公众号"教辅资料站"获取更多学习资料

班级 姓名 考场号 准考证号
密 封 线
历史 必修2 RJ

班级_____ 姓名_____ 考场号_____ 准考证号_____

密 封 线

单元质量检测卷(二)

第二单元 资本主义世界市场的形成和发展

(时间:90分钟 满分:100分)

一、选择题(每题2分,共50分)

1.《马可·波罗游记》对日本的描写:"君主有一大宫,其顶皆用精金为之;宫廷房室地铺金砖,以代石板,一切窗栊亦用精金,由是此宫之富无限。"这一描写 ( )

A. 真实可信、影响巨大　　B. 真实可信、但影响有限

C. 毫无根据、亦无影响　　D. 脱离现实、但影响较大

2. 新航路开辟以后,世界许多地区的植物种子被带回欧洲,经培育改良成为欧洲人的食物原料,如玉米、土豆等。欧洲人也将欧洲的一些植物种子带到殖民地进行培育生产,最终成为殖民地人民的重要食材。这说明新航路开辟 ( )

A. 未给殖民地造成任何的打击和破坏　　B. 有利于世界各地文明的交流与融合

C. 带来的物种交流助推新旧大陆发展　　D. 促进新旧大陆经济互补而共同发展

3. 据记载,当达·伽马航行到印度后,一位印度王公问他是否带来了一些商品,他回答说"总数不多,是样品",并请求准予把货物从船上卸下来。这反映达·伽马此行的目的是 ( )

A. 加强经济文化交流　　B. 积极抢占海外地盘

C. 追求丰厚商业利益　　D. 谋求控制印度王室

4. 经过70天的航行,虽然他没有到达中国,也没有到达印度,但他根据地图,仍将他到达之地称为"印度"(Indian),将他遇到的原住民称为"印度人"(Indians),他其实不知道自己发现了"新大陆"。这里的"他"是 ( )

A. 迪亚士　　B. 哥伦布

C. 麦哲伦　　D. 达·伽马

5. 菲律宾马克坦岛上有一个双面碑亭,其正面刻有这样的文字:"1521年4月27日,费尔南多·麦哲伦死于此地。"下列与此相关的选项是 ( )

A. 到达好望角　　B. 发现美洲

C. 直达印度　　D. 环球旅行

6. 新航路开辟后,世界各民族的历史逐渐融合为一部统一的人类历史。这种"融合"和"统一"实现的主要途径是 ( )

A. 西方的殖民扩张　　B. 人员交流的频繁

C. 东西文明的交汇　　D. 科技发明的推广

7. 下图直接反映 ( )

1500～1557年英国物价指数变化

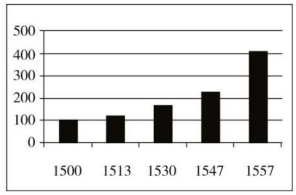

A. 价格革命　　B. 商业革命

C. 工业革命　　D. 交通革命

8. 新航路的开辟让欧洲各国在世界舞台上扮演的角色发生了变化,出现了新的名称如"海上马车夫""日不落帝国"等。下列与其对应的国家分别是 ( )

A. 西班牙、荷兰　　B. 意大利、英国

C. 意大利、西班牙　　D. 荷兰、英国

9. 17世纪初,世界上第一个股票交易所在荷兰的阿姆斯特丹成立。荷兰联合东印度公司通过向全社会融资的方式,成功地将社会分散的财富变成远航的资本。这体现出当时的欧洲 ( )

A. 强烈渴求贵金属　　B. 贸易造成物价上升

C. 工业原料需求旺盛　　D. 商业模式发生变化

关注微信公众号"教辅资料站"获取更多学习资料

10. 1585 年到 1604 年，在政府授权下，英国每年至少有一两百武装商船出海，专门在大西洋和加勒比海劫掠他国运输船队，每年的掳获平均可达 20 万英镑。这一现象 （　　）

A. 导致了英荷战争的爆发　　B. 推动了英国资本的原始积累

C. 促成了欧洲商贸中心转移　　D. 反映了英国社会矛盾的缓和

11. 1651 年，克伦威尔领导的英国议会通过了第一个保护英国本土航海贸易的法案，规定凡从欧洲运往英国的货物，必须由英国船只或商品生产国的船只运送。由此引发的殖民战争是 （　　）

A. 英西战争　　B. 英荷战争

C. 英法战争　　D. 英葡战争

12. 美国金融中心纽约始建于 17 世纪初，原名叫新阿姆斯特丹。17 世纪中后期新阿姆斯特丹改名为纽约。纽约名称的变化反映了 （　　）

A. 商业资本的强大　　B. 资本输出的兴起

C. 资本主义制度的先进　　D. 殖民霸权的角逐

13. 17 世纪中叶后，饮茶之风逐渐遍及英国，“茶叶已经在英国各饭店和咖啡店等公共场所大量销售，并已成为国家税收的对象。”这一现象反映出 （　　）

A. 世界市场得到了进一步开拓　　B. 茶税成为英国财政的主要收入

C. 茶叶贸易中心已转移到英国　　D. 工业革命促进了中英贸易扩大

14. 据统计，1400 年拉丁美洲的人口大约是 3 600 万，到 1600 年降到 1 000 万左右，造成这一现象的主要原因是 （　　）

A. 欧洲国家的殖民扩张　　B. 奴隶贸易的盛行

C. 第二次工业革命的扩展　　D. 工业革命的开展

15. 耶鲁大学资深史学教授彼得·盖伊在其著作《启蒙时代》中写道：“对成千上万知道它的人和当时的观察家来说，在 1760 年到 1800 年之间，生活彻底地改变了”，“这个时代被疯狂地追求发明”。这种情形可能出现在 （　　）

A. 英国　　B. 法国

C. 德国　　D. 美国

16. 1771 年，英国人阿克莱特在曼彻斯特设立了一座水力纺纱厂，它被称为第一个现代意义上的工厂。这一“现代意义”主要是指 （　　）

A. 动力的革命　　B. 生产组织的革命

C. 城市化开始　　D. 产业结构的调整

17. 18 世纪中期前后，英国立法严惩在外国居留逾六个月的技术工人；1785 年，又制定法律禁止多种机器和工具出口。这些措施 （　　）

A. 利于英国保持工业技术优势　　B. 阻碍了英国工业革命的进程

C. 提高了新技术开发的积极性　　D. 促进了工业技术的迅速传播

18. 1780～1851 年英国从北美洲进口棉花数量呈逐年增长趋势，其主要原因是 （　　）

A. 北美沦为英国的原料产地　　B. 工业革命完成需要大量原料

C. 棉纺织业技术的不断进步　　D. 世界市场形成各国联系加强

19. 下表反映了 18～19 世纪中期英国城市人口占总人口比例(%)的变化情况，这种变化主要是由于 （　　）

年代	1750	1801	1851
城市人口占总人口比例	21.0	27.5	51.0

A. 工业革命的开展　　B. 第二次工业革命的进行

C. 政府鼓励人口迁移　　D. 世界市场的初步形成

20. 19 世纪中期以后，英国人的休闲(指人们对可自由支配的时间)方式从随意休闲日益发展成为定时休闲。这一变化主要反映了 （　　）

A. 近代交通发展的迅速　　B. 民众财富收入的增加

C. 工厂制度影响的深远　　D. 生活方式日益国际化

21. 工业革命时期的英国，在亚当·斯密自由主义理论的影响下，贫穷被看作是个人的事，失业人口甚至有利于经济的发展，因为它可以把工资压至最低水平，从而降低生产成本。这表明工业革命 （　　）

A. 有助于生产的合理化　　B. 使社会贫富差距拉大

C. 推动社会观念的进步　　D. 降低了社会人文关怀

关注微信公众号“教辅资料站”获取更多学习资料

22. 英国艺术家威廉·希斯常以漫画表达对大量机器进入人们生活的反思。下图《怪物汤》描绘了一位贵妇看到放大的泰晤士河水滴后的惊恐。这幅漫画反映了（　　）



A. 环境保护成为社会共识　　B. 技术革新带来社会问题
C. 工业革命造成大众恐慌　　D. 经济发展加剧贫富分化

23. 迈克尔·法拉第是英国物理学家，1831 年，他做出了关于电力场的关键性突破，永远改变了人类文明，与之相关的成就是（　　）
A. 新通讯手段的发明　　B. 新交通工具的创制
C. 化学工业的建立　　D. 电力的广泛使用

24. 有人这样描述：大自然的昼夜节律不再是人类社会生活的节律，人类从此得以征服黑夜，他如同为人间盗火的“普罗米修斯”。“他”的这项发明应该是（　　）
A. 火车　　B. 电灯
C. 电报　　D. 电脑

25. 据统计，1870～1913 年间，世界贸易总量增长了 3 倍多，铁路线长度增长了 4 倍，世界船舶总吨位增长 1 倍以上。这表明（　　）
A. 国家之间经济争夺更加剧烈　　B. 世界各地区间联系加强
C. 世界各地获得同等发展机会　　D. 蒸汽机广泛用于各个领域

二、非选择题（**第 26 题 18 分，第 27 题 16 分，第 28 题 16 分，共 50 分**）

26. 阅读材料，完成下列要求。

材料一：许多证据证明，丝绸之路在商朝就已存在。比如，在商朝的妇好墓中发现了一些玉器，经鉴定是和田玉、昆仑玉等。汉武帝时，迫于匈奴的军事压力，汉武帝派张骞通西域。虽历经千辛万苦，但张骞没有完成汉武帝交给他的使命。尽管如此，他的亲身见闻，引起了汉武帝的巨大兴趣。第二次奉命出使西域时，张骞带了很多副使，浩浩荡荡几百人，并携带了大量的礼品。汉武帝认为自己是天下共主、最高统治者，所以要吸引西域各国到中原来，就需要带很多礼品，其中就包括大量的丝绸。随着张骞和副使们的出使，大批中亚国家和当地的民族都体会到丝绸的美丽，同时又通过商人扩大了与中亚、西亚的丝绸贸易。

——摘编自刘伟《改变世界经济地理的一带一路》

材料二：15 世纪末到 16 世纪初，欧洲人开辟横渡大西洋到达美洲、绕道非洲南端到达印度的新航线以及第一次环球航行的成功，历史上习惯称之为“地理大发现”。葡萄牙以当时不到一百万的人口，在几十年间奇迹般崛起成为西欧最富有的国家之一，一度与西班牙瓜分了整个地球。……葡萄牙 16 世纪控制了跨越半个地球的商业航线，打破了阿拉伯人和意大利商人对印度洋的传统垄断，垄断了世界上的香料、食糖、黑奴贸易，成为世界性的商业帝国，欧洲的贸易中心也从意大利转移到了葡萄牙（它的邻国西班牙也因美洲的黄金、白银而强大起来）。

——摘编自唐晋《大国崛起》等

(1)根据材料一并结合所学知识，概括丝绸之路形成的特点并简析其影响。(8 分)
(2)根据材料一、二并结合所学知识，说明新航路开辟与丝绸之路形成的不同，并简析其世界意义。(10 分)

关注微信公众号“教辅资料站”获取更多学习资料

27. 阅读下列材料，回答问题。

材料一：18世纪初，英国的棉纺织品主要来自印度，它成为英国社会非常喜欢的东西。棉纺织工业在英国是完全崭新的工业，既没有毛纺织工业的特权，也没有其重重束缚，因此，容易接受新技术。当时的一位经济学家指出："棉纺织工业用在产品的原料价值，在制造过程中增长了百分之一千到百分之五千"。水力纺纱机的发明者阿克莱特请求国会"准许一切人出卖或购买棉纺织品"，并请求降低消费税，议会批准了他的请求。

——摘编自陈紫华《一个岛国的崛起：英国产业革命》

材料二：工业革命促成了资本主义世界市场的形成和发展。市场是商品贸易的场所，世界市场的物的表现就是世界范围内的商品贸易，它必然包括商品、对商品贸易的需求、商品贸易的渠道与途径、商品贸易的规则等因素。

——摘编自吕宁《工业革命的科技奇迹》

(1)根据材料一，概述英国棉纺织业迅速发展的主要原因，并结合所学知识指出水力纺纱机发明前，英国棉纺织业的主要发明成果。(6分)

(2)根据材料二并结合所学知识，从世界市场"物的表现"的视角，概括说明工业革命推动世界市场形成和发展的表现。(10分)

28. 阅读材料，完成下列要求。

材料一：一位法国游客在1788年参观一家棉布工厂后，写道："和我们在一起时，拥有这种工厂的英国富人们并不注意保持与其财富相称的姿态"……对他们而言，他们的工作有其自身的尊严和回报；至于工作所带来的财富，则是另一回事。当博斯韦尔在伦敦索霍区看到瓦特和博尔顿的大型发动机工厂时，他想起了博尔顿的一句话："先生，我们在卖全世界都渴望拥有的东西——动力。"这些新贵就是企业家，他们带来了一种新的精神。事实证明，这种精神是取之不尽用之不竭的。从经济而非政治的角度来讲，他们给我们呈现了一场全面彻底且不可逆转的变革，因此他们堪称"革命者"。

——摘编自[美]罗伯特·L.海尔布罗纳、威廉·米尔博格《经济社会的起源》

材料二：每个时代都有技术进步，但是对于帝国主义者的掠夺行为有帮助的许多发明，却首先是在1860年至1880年这20年间产生作用的……新技术在19世纪的传播令帝国主义的成本变得很低廉，因此欧洲各民族和政府对它的接受程度也达到了顶峰，它让欧洲各国进入了帝国主义时代。

(1)根据材料一，概括指出英国新贵们"新的精神"追求是什么。根据材料并结合所学知识，分析说明他们从经济角度"给我们呈现了一场全面彻底且不可逆转的变革"。(6分)

(2)根据材料二并结合所学知识，分析说明1860年至1880年间出现的新技术为何能令帝国主义的成本变得很低廉？(4分)

(3)根据上述材料，分析说明科学和技术进步对人类发展产生的客观进步作用。(6分)

班级 姓名 考场号 准考证号
密 封 线
历史 必修2 RJ
关注微信公众号"教辅资料站"获取更多学习资料

班级_____ 姓名_____ 考场号_____ 准考证号_____
密 封 线

单元质量检测卷(三)

第三单元 近代中国经济结构的变动与资本主义的曲折发展

(时间:90分钟 满分:100分)

一、选择题(每题2分,共50分)

1. 19世纪70年代,上海的生丝市场中一种新的交易方式通行起来。商人们在上海买到生丝的同时即在伦敦市场将其出售。这种交易方式的通行得益于 ( )
A. 中国生丝质量的提高 B. 近代科学技术的进步
C. 民族资本主义的初步发展 D. 中国产业结构的调整

2. 表:1868年中国进口洋布在通商口岸和内地城市价格对比(计价单位:匹)

通商口岸	价格	内地城市	价格
镇江	2.19~2.24元	淮安	2.30~2.35元
上海	2.17~2.20元	苏州	2.23~2.30元
汕头	2.95~3.10元	潮州	3.10~3.20元

表中的地区差价 ( )
A. 便利了洋布抢占内地市场份额 B. 导致民族工业日益萎缩
C. 反映了中国关税主权遭到破坏 D. 密切了国内外经济联系

3. 晚清洋务派郭嵩焘在开矿问题上认为"天地自然之利,百姓都可以为之,不必官为督率,若经由官开采,则将夺民业,烦扰百端,百姓岂能顺从。"这一主张 ( )
A. 客观上有利于民族工业的发展 B. 保证了煤矿业的健康发展
C. 说明政府放宽了民间设厂限制 D. 突破了洋务派的核心思想

4. 洋务派在1865年以后创办的军事工业中,普遍实行雇佣劳动,工人的工资基本上是按照技术高低而定,劳动强度虽然很大,但加班作业,亦加给工资。这表明洋务企业 ( )
A. 注重保障工人权益 B. 已脱离落后因素的影响
C. 具有资本主义因素 D. 主动引进西方先进技术

5. 右图中的"伊敦号"是轮船招商局初创时向英国购置,1873年首航日本神户、长崎,开创了中国商轮驶入国际航线的历史。此举标志着中国 ( )



A. 自然经济开始解体 B. 近代造船工业诞生
C. 近代海军初具规模 D. 航运业进入新阶段

6. 铁匠方举赞、孙英德在上海创办的发昌机器厂,专为美国商人经营的船坞加工、打制船坞零件,后来转化为近代企业。对上述史实的分析,正确的是 ( )
A. 发昌机器厂设厂之初的性质仍属于传统手工业 B. 美国大规模的资本输出为加工业提供了可能
C. 集中体现了近代民族工业的实业救国思潮 D. 发昌机器厂的创办获得了地方政府的全力支持

7. 据《南海县志》记载,珠江三角洲一带机器缫丝业起步于十九世纪七十年代,"三四年间,南(海)、顺(德)两邑继之而起者,多至百数十家。"与此情形直接相关的是 ( )
A. 广州被列为通商口岸 B. 外国资本输入的刺激
C. 清政府鼓励民间设厂 D. 新式企业的引领作用

8. 1893年,有人写信给张之洞说:"方今机器之利,粤人知其益者,十之八九,两江闽浙,十之二三;河洛之北,万不得一。"该材料折射出 ( )
A. 洋务运动已走向失败 B. 政府限制发展近代企业
C. 近代工业发展不平衡 D. 工业发展受到列强制约

9. 甲午战后,在"实业救国"思潮的推动下,清末状元张謇等投身于近代民族工业,从而使我国民族工业的发展出现了第一个高潮。"实业救国"思潮的出现主要是由于 ( )
A. 清政府鼓励发展工商业 B. 中国民族危机不断加深
C. 国人价值观念发生变化 D. 自然经济的逐步解体

10. 甲午中日战争后,汉阳铁厂和大冶铁矿合并为民办"汉冶萍煤铁厂矿公司",生产有很大起色;江南制造总局扫除官场习气,注重质量,制造的轮船被誉为长江各轮之冠。由此可得知 ( )
A. 洋务企业纷纷破产 B. 洋务企业获得新生
C. 民族资本主义取得初步发展 D. 民族资本主义受到政府影响

关注微信公众号"教辅资料站"获取更多学习资料

11. 1896 年初，清廷批准了各省设立商务局的建议。之后，准许民间招商集股开矿、开放内河航运等，并制定了《振兴工艺给奖章程》。这说明当时 （ ）

A. 清政府放弃了重农抑商的政策　　B. 民族工业获得了进一步的发展

C. 政府为民族工业的发展提供有利条件　　D. 中国民族资本主义的发展受到了制约

12. 1897 年，大生纱厂发行股票。张謇“领南洋商务局官机二万锭，作为官股规银二十五万两，议集商股规银二十五万两，共计官商本规银五十万两……官绅订立合同，永远合办。”这可以反映当时 （ ）

A. 官方限制民间办厂　　B. 股本结构较为单一

C. 社会资金的资本化　　D. 列强放松对华侵略

13. 下表是近代中国茶叶所占世界茶叶市场比重表

时间	1860 年	1880 年	1905 年
占比	90%	70%	29%

对此表解读正确的是 （ ）

A. 列强的侵略使中国茶叶生产萎缩　　B. 是世界市场不断发展的结果

C. 经济危机使市场对茶叶需求减少　　D. 列强对中国的商品输出扩大

14. 1894～1912 年，民族资本工业的平均年增长率为 15%，民族工业发展出现第一个高潮。这主要是由于 （ ）

A. 洋务运动办厂诱导　　B. 清政府放宽设厂限制

C. 辛亥革命扫清障碍　　D. 欧洲列强放松侵略

15. 下图是 20 世纪初期中国民营工业新增厂矿及资本额示意图。下列解读最为合理的是 （ ）

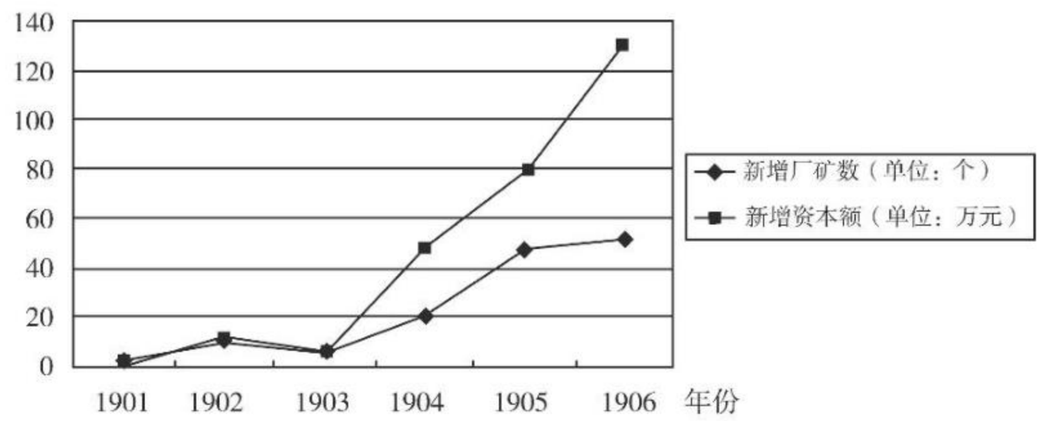

A. 资产阶级革命的高涨推动了民营工业的快速发展

B. 资产阶级政治改良引发了商人投资工商业的热潮

C. 列强暂时放松经济侵略为民营工业发展提供了时机

D. 清政府政策的调整为民营工业发展营造了良好氛围

16. 从 1912 年到 1916 年，北洋政府颁布的有关发展实业的条例、章程、细则、法规等多达 86 项，主要包括简化民间企业的注册手续、对新办企业实行保息政策等六大方面的内容。北洋政府的这些举措 （ ）

A. 促进了实业救国思想的产生　　B. 顺应了中国近代化的发展潮流

C. 推动了民族工业的初步发展　　D. 抵制了列强对中国的经济侵略

17. 1920 年，我国著名的民族企业——南洋兄弟烟草公司开始选派留学生出国留学。下图为公司在送别宴会上对留学生提出的要求与希望。其要求与希望反映出当时 （ ）

> ● 学农工商三科为国家造就富强基础
>
> ● 心系祖国，中西兼顾，新旧知识交融，以期成为完全之才
>
> ● 养成勤俭的美德
>
> ● 学习余暇，调查国外商业发展，随时报告，使我国商业有长足进步

A. 实业救国已成为社会各界的广泛共识　　B. 中国教育开始趋向近代化

C. 民族企业已意识到实业人才的重要性　　D. 企业热衷于社会公益事业

18. 1929 年，国民政府实行了一系列税则改革，对需要限制进口的货物提高关税，以保护本国工业和抑制消费，对某些工业原料降低税率并废除过境税、常关税等。这些措施旨在 （ ）

A. 实现关税主权的独立　　B. 加速官僚资本的膨胀

C. 促进国民经济的发展　　D. 刺激中外贸易的发展

19. 1928 年至 1937 年，是近代中国史上经济增长较快的时期之一，这一时期工业经济增长率平均达到了 8.7%，究其客观原因是 （ ）

A. 国民政府奉行国家主义　　B. 国民政府奉行自由主义

C. 开展了国民经济建设运动　　D. 深受世界经济形势的影响

关注微信公众号“教辅资料站”获取更多学习资料

20. 如图是我国某一时期产业资本状况表。结合所学知识判断，这一时期应是 （　　）

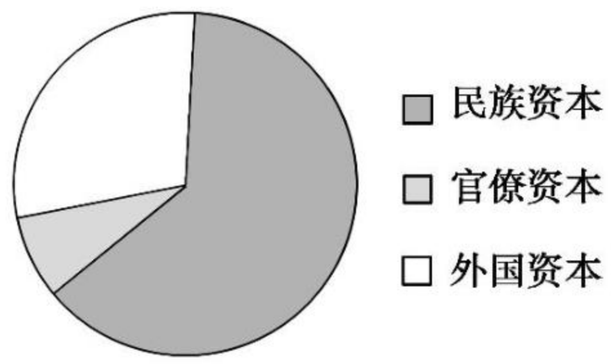

A. 洋务运动时期
B. 土地革命时期
C. 全面抗战时期
D. 解放战争时期

21. 1936 年，南京国民政府资源委员会制订重工业发展计划：五年内兴建钢铁、有色冶金、机械、电力、电器、化工等大中型工厂并利用外国资本、引进国外技术。该计划 （　　）
A. 使近代中国实现了工业化
B. 有助于为全面抗战奠定物质基础
C. 有效遏制了官僚资本成长
D. 成功抵制了西方列强的经济侵略

22. 1941 年，国民党中央全会决议创设专卖制度，1942 年，盐、糖、烟类、火柴等重要物品先后实行专卖。其主要目的是 （　　）
A. 发展官僚资本
B. 压制民族工业
C. 振兴民族经济
D. 打击日本企业

23. 1945 年 11 月 27 日，国民政府行政院通过决议，要求全部敌伪纺织厂由国营中国纺织建设公司经营。据此可知当时 （　　）
A. 国民政府以抗战大局为重
B. 民族工业得到政府的支持
C. 官僚资本主义迅速膨胀
D. 官僚资本垄断了全国工业

24. 下列有关《中美友好通商航海条约》的说法，正确的是 （　　）
A. 是蒋介石为争取美国联合抗日签订的
B. 促进了中国民族工业的发展
C. 国民政府为争取美国支持内战签订的
D. 有利于台湾的开发与建设

25. 1949 年 5 月，《和平日报》报道兰州时说："工业界危机严重，已临破产边缘……若干工厂实际增资维持残余寿命，各货仍持续下跌，产品销售不足成本的 5/10。"与此密切相关的是 （　　）
A. 人民解放军揭开战略反攻序幕
B. 日本掠夺造成残酷的经济损失
C. 蒋介石采取"假和平，真内战"阴谋
D. 政治腐败导致民族工业陷入绝境

二、非选择题（第 26 题 20 分，第 27 题 16 分，第 28 题 14 分，共 50 分）

26. 阅读材料，完成下列要求。

材料一：在我国先秦时期两部著作——《墨子》与《山海经》中，都不同程度地提到了煤炭。记载虽并不详细，但史料价值极高。《墨子》中把煤称为"每"（明代有人把每加上火字旁，写成"煔"，把煤称作煔）。彼时在战争中，可以利用煤炭燃烧时产生的浓烟，以烟幕制胜。《山海经》一书中把煤炭称为"石涅"，这个名字与煤的特征较为接近。此书明确指出煤炭赋存地赋存方位以及与某些植被的关系。在矿业管理上，我国周代已出现"卝"（矿）人这一称谓，并明确了其责任范围，说明已有专门的管理人员。在煤炭采挖技术上，可以借鉴已经较发达的金属矿开采技术。

——吴晓煜《中国古代煤矿史的基本脉络和煤炭开发利用的主要特征》

材料二：中国古代的煤炭技术曾长期领先于世界，只是到了 17、18 世纪才开始落后于西方。以手工操作为主要特征的中国古代煤炭技术进入近代发展时期，是从 19 世纪下半叶开始的。19 世纪六七十年代，清王朝中的洋务派在"自强""求富"和"中体西用"的口号下，建立了一批近代工业，这些军用和民用企业都要消耗大量的煤炭。为了满足近代工业用煤的需要，洋务派于 19 世纪 70 年代开始引进西方的采煤技术，兴办新式煤矿。所谓新式煤矿，即使用机器的煤矿。在当时，新式煤矿仅仅是在提升、通风和排水三个生产环节上使用以蒸汽为动力的提升机、通风机和排水机，而其他生产环节仍然主要靠人力或畜力。

——摘编自周岩、胡茹《中国近代煤炭开采技术发展及其影响因素》

(1)根据材料一、二，概括中国古代煤炭利用的特点。（10 分）

(2)根据材料一、二，分析中国近代煤炭工业与古代的不同，并结合所学知识说明制约中国近代煤炭生产技术发展的因素。（10 分）

关注微信公众号"教辅资料站"获取更多学习资料

27. 阅读材料，完成下列要求。

材料一：随着时间的推移，草市上设立了不少的店铺，成为新的固定的贸易场所。宋代政府也同样承认这一事实，而不加以任何的干预。这样一来，汴京以外的许多城市，都由于近郊草市的发展而成为重要的商业都市。如南宋前期的鄂州（武昌），因是江防重地，故城市建筑规模不大，但由于商业发展的需要，在城外发展起了南市。这个南市，“沿江数万家，廛闬甚盛，列肆如栉，酒垆楼栏尤壮丽，外郡未见其比，盖川广荆襄淮浙贸迁之会，货物之至者无不售”。

——摘编自漆侠《宋代经济史》

材料二：政府发起的自强运动，主要集中在沿海地区和条约口岸。这些地方更容易获得外国的资助，外国人及其企业如银行、贸易公司和工厂也主要分布在这些港口和租借地。而且这些地方比较安全、外资集中，使得中国商人纷纷移居这里，同时，失去生计的农民也来到城市寻找工作，他们往往在外国人或中国企业家的工厂里聊以度日。越来越多的条约口岸成为中国金融、工业和人口集中之地，如上海、南京、广州、汉口和天津都发展成为具有相当规模并拥有一定财富的中心城市。

——摘编自徐中约《中国近代史》

（1）根据材料一并结合所学知识，概括宋代商业都市发展的原因和影响。（8分）

（2）根据材料二，概括中国近代前期城市发展的特点，并结合所学知识对宋代和近代中国的城市发展做简要评述。（8分）

28. 二战后民营经济的命运与国民政府的统治息息相关。阅读下列材料，回答问题。

材料一：战后国营与民营资本在国民经济中的比重（1945～1947年）

年份 产业	1945年		1946年		1947年	
	国营	民营	国营	民营	国营	民营
基础工业	20.0	80.0	23.8	76.2	43.9	56.1
民生工业	6.1	93.9	27.1	72.9	38.1	61.9
出口矿产	100.0	0.0	100.0	0.0	100.0	0.0

——摘编自秦孝仪主编《中华民国经济发展史》

材料二：有学者对中国的工矿企业、金融和商业的资本及比重做过统计，认为1936年国家资本与民间资本的比重相差不多，分别为49.21%和50.79%；但1947～1948年国家资本则上升到58.43%，民间资本则相应下降到41.57%。

——摘编自虞和平《抗战后国家资本膨胀和垄断问题再研究》

材料三：造成战后民营企业陷入困境的因素很多，主要有如下几点：战后美国商品大量倾销中国，民营企业无法与其竞争……内战爆发后，国民政府加紧了对中共解放区的经济封锁，实行严格的禁运政策，限制物资出境，在销售市场日益萎缩的情况下，几乎所有民营企业的发展和生存都遇到了极大的困难……由于物价暴涨，一般资本家卖出成品后所得现金往往买不回相应数量的原材料，“虚盈实亏”，这样连简单再生产也不易维持了。

——张宪文等著《中华民国史》

（1）据材料一、二，归纳其所反映的经济现象。（4分）

（2）根据上述材料并结合所学知识，概括民营企业陷入困境的原因。（6分）

（3）根据上述材料并结合所学知识，简要分析民营经济发展状况与国民政府统治之间的关系。（4分）

关注微信公众号“教辅资料站”获取更多学习资料

班级＿＿＿＿ 姓名＿＿＿＿ 考场号＿＿＿＿ 准考证号＿＿＿＿
密 封 线
历史 必修2 RJ

班级_____ 姓名_____ 考场号_____ 准考证号_____
密 封 线

单元质量检测卷(四)

第四单元　中国特色社会主义建设的道路

(时间:90 分钟　满分:100 分)

一、选择题(每题 2 分,共 50 分)

1. 1949 年,新中国成立后的上海曾依据米、面、油等货物价格实行工人报酬同步波动的“折实工资制度”,类似的举措也用于银行的储蓄业务。这些措施 (　　)
A. 保障了人民群众的利益　　B. 打击了囤积物资的行为
C. 确立起新型的经济体制　　D. 使生产恢复到战前水平

2. 1950 年统计数据显示,辽宁本溪和鞍山钢铁产量占全国产量 80%,沈阳拥有 2 000 多家工厂,200 多种工业。这些工业中心电力供应主要来自鸭绿江水电站。这说明,当时 (　　)
A. 苏联援助发挥了重要作用　　B. 巩固国防安全十分迫切
C. “一五”计划取得了巨大成就　　D. 形成了合理的工业布局

3. 新中国成立后,在农业生产明显落后,发展工业特别是重工业所需的高额资本投入严重不足的情况下,逐步推行计划经济,启动工业化建设。这反映了当时中国 (　　)
A. 实行计划经济是基于现实需要　　B. 工业化服务于农业生产的发展
C. 国民经济发展的比例严重失调　　D. 国家战略左右社会经济的发展

4. “一五”计划时期苏联援建的工程进入实际施工的共有 150 项:军工企业 44 个,冶金业 20 个,化工业 7 个,机械加工 24 个,能源 52 个,轻工医药 3 个。这些项目的建设 (　　)
A. 推动了“一边倒”外交方针形成　　B. 奠定了中国工业化初步基础
C. 彻底改变了工业布局的不合理性　　D. 确立了社会主义的经济体系

5. 如图是 1954 年邮电部发行的一套邮票中的两枚,分别是第三枚“重型机器厂”、第七枚“哈尔滨亚麻纺织厂”。这反映了当时我国 (　　)





A. 轻重工业均衡发展
B. 大规模经济建设正在进行
C. 工业布局趋于合理
D. 计划经济体制已初步形成

6. 据学者统计,在 1949～1956 年期间《人民日报》曾出现少量的招聘、招工广告,但 1956 年后这类广告基本消失。这一变化反映了当时我国 (　　)
A. 工业化成就突出　　B. 生产关系的变革
C. 城市化进程缓慢　　D. 生活水平的提高

7. 中国共产党第八次全国代表大会是对我国建设社会主义道路的一次成功探索。能为此结论提供佐证的是 (　　)
A. 确立了第一个五年计划的方针　　B. 确定了“三大改造”的方针政策
C. 正确分析了中国社会的主要矛盾　　D. 制定“调整、巩固、充实、提高”方针

8. 1970 年 12 月,毛泽东会见美国人斯诺时说:“世界上的事情就是这样,要走弯路就是 S 形。”历史证明,中共在社会主义探索时期正是走了 S 形。这一时期“走弯路”的突出表现是 (　　)
A. 三大改造的完成　　B. 中共八大的召开
C. 开展大跃进运动　　D. 八字方针的提出

9. 有诗云:园里瓜菜绿蓬蓬,圈里猪羊肥滚滚。端碗举筷吃上席,公社食堂赛天宫。这说明当时 (　　)
A. 对农业的社会主义改造如火如荼　　B. 农村工作中存在明显“左”的错误
C. “文革”动乱正在向农村蔓延　　D. 家庭联产承包促进了农业大发展

10. 1960 年 11 月,中共中央发出指示,要求各地立即展开大规模采集和制造代用食品运动。中央根据科学院的建议,推荐了若干种代用食品,如玉米根粉、小麦根粉、叶蛋白等。这反映了当时 (　　)
A. 国民经济处于严重困难时期　　B. 科学技术的进步改善了国民生活
C. 大跃进运动遇到了严重挫折　　D. 人民公社化运动违背了客观规律

关注微信公众号“教辅资料站”获取更多学习资料

11. 1961 年，中国油料作物收购牌价提高 19%，1963 年棉花收购牌价提高 10%，并且 1963 年农村地区福利费是 1958～1962 年平均水平的 3 倍。以下分析准确的是 （　　）

A. “八字”方针得到贯彻落实　　B. 体现了“左”倾错误泛滥

C. 严重忽视客观规律的表现　　D. 农民生活水平较高

12. 1957 年～1966 年是“全面建设社会主义”的时期，其历史阶段特征是 （　　）

A. 社会主义经济持续和稳定发展　　B. 正确与失误、成就与挫折错综交织

C. 遭到建国以来最严重的挫折和损失　　D. 社会主义民主政治建设取得重大进展

13. “中国梦”承载着为开创中国特色社会主义建设道路艰辛探索的伟大历程。下列按时序排列正确的是 （　　）

A. 天朝惊梦—专制梦醒—自强梦碎—建国梦成—富强梦启航

B. 天朝惊梦—专制梦醒—自强梦碎—富强梦启航—建国梦成

C. 天朝惊梦—富强梦启航—专制梦醒—自强梦碎—建国梦成

D. 天朝惊梦—自强梦碎—专制梦醒—建国梦成—富强梦启航

14. 如图展品是安徽小岗村 18 位农民按下包产到户“红手印”的雕塑，该雕塑反映了 （　　）



A. 家庭联产承包责任制实行

B. 政府积极创办经济特区

C. 农民走上了合作化的道路

D. 城市经济体制改革开展

15. 1984 年，柳传志在中关村创办了一家小公司，张瑞敏着力改造青岛日用品电器厂，李经纬推出了一款“东方魔水”健力宝饮料，王石在深圳成立了现代科教仪器展销中心。他们的事迹反映了 （　　）

A. 国有企业改革的开始　　B. 对外开放的不断深化

C. 城市经济结构的松动　　D. 计划经济的弊端严重

16. 下图反映了 1961～1985 年全国集市数量变化的态势。该变化 （　　）

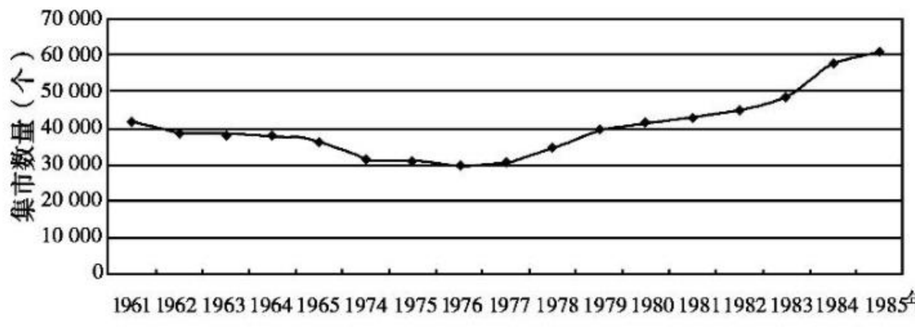

A. 见证了改革开放的全过程　　B. 是中央行政体制调整的结果

C. 与国家政策调整密切相关　　D. 是“左”倾思想影响的结果

17. 某一时期的国民经济成分有公有制经济、私有经济、三资企业（外商独资、中外合资、中外合作），这一时期最有可能处于 （　　）

A. 新民主主义革命时期　　B. 向社会主义过渡时期

C. 文化大革命时期　　D. 社会主义现代化建设新时期

18. 邓小平在南方谈话中指出“社会主义要赢得与资本主义相比较的优势，就必须大胆吸收和借鉴人类社会创造的一切文明成果”。在这一思想指导下，我国深化改革的目标是 （　　）

A. 进行农村经济体制改革　　B. 加快进行城市经济体制改革

C. 大力引进西方先进技术　　D. 建立社会主义市场经济体制

19. 改革开放以来，我国初步建立了社会主义市场经济体制。社会主义市场经济体制与资本主义市场经济体制的相同点是 （　　）

A. 市场主体的所有制结构　　B. 企业参与市场竞争

C. 形成过程具有自发特点　　D. 劳动产品分配制度

20. 1980 年 8 月，美国《纽约时报》以惊叹的口吻报道说：“铁幕拉开了，中国大变革的指针正轰然鸣响。”此报道中的“轰然鸣响”是指 （　　）

A. 农村实行生产责任制　　B. 城市扩大企业自主权

C. 对外开放的正式确立　　D. 经济特区建设的启动

21. 中国近现代史上，有两次对外开放。一次是鸦片战争之后的开放，一次是 1979 年以后的开放。两次对外开放的共同之处是 （　　）

A. 都是中国积极、主动的融入世界的行为　　B. 都有由东南沿海向政治中心地区发展的趋势

C. 都极大地推动了中国社会政治、经济的进步　　D. 都主要体现世界经济发展对中国的要求

关注微信公众号“教辅资料站”获取更多学习资料

22. 1984 年国庆，首都北京举行了盛大的阅兵式和群众游行。深圳有两辆彩车参加了游行，蛇口工业区彩车上“时间就是金钱，效率就是生命”的口号，从天安门广场响遍大江南北。此口号（　　）

A. 拉开经济体制改革的序幕　　B. 说明社会主义市场经济改革已经开始

C. 提倡走资本主义道路的标志　　D. 体现经济特区创新的实干精神

23. 1990 年，“中共中央、国务院决定，要加快上海浦东地区的开发，在浦东实行经济技术开发区和某些经济特区的政策”。这标志着（　　）

A. 经济技术开发区的出现　　B. 90 年代国家经济重大战略步骤出台

C. 对外开放格局初步形成　　D. 社会主义市场经济体系的基本建立

24. 2002～2010 年，我国货物出口总额 85 187.8 亿美元，进口总额 72 099.9 亿美元，分别是 1978～2001 年的 4.0倍和 3.6 倍。这一变化的主要原因是中国（　　）

A. 加入世界贸易组织　　B. 对外贸易规模的不断扩大

C. 改革开放战略提出　　D. 进口、出口贸易的不均衡

25. 以下是 1997 年世界出口经济数据统计，据此可以推断（　　）

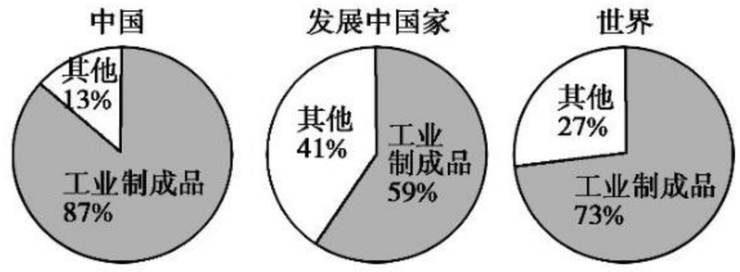

A. 欧美发达国家制造业开始衰落　　B. 我国的工业产业结构趋向合理

C. 世界制造业中心实现向中国转移　　D. 改革开放加快中国的工业化进程

二、非选择题（**第 26 题** 18 **分，第 27 题** 18 **分，第 28 题** 14 **分，共** 50 **分**）

26. 新中国社会主义建设经历了一个曲折的发展历程。阅读材料，回答问题。

材料一：右面为中国 1952～1960 年工农业总产值变化图。

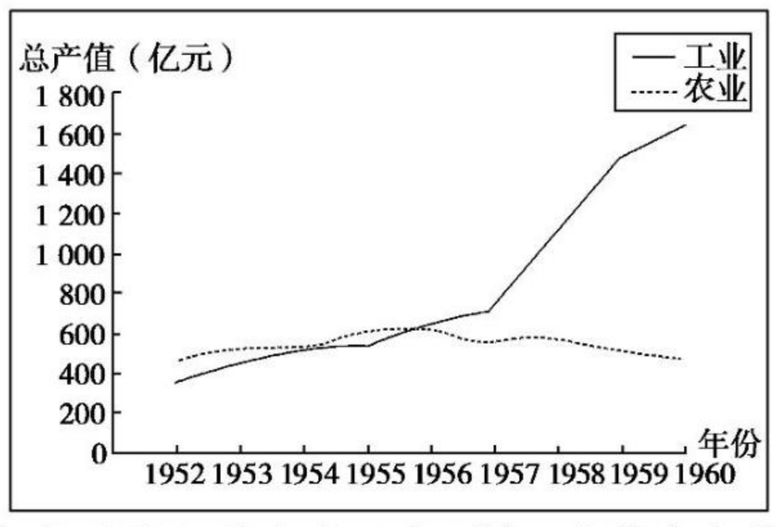

材料二：到 1952 年，中国的工农业生产不仅达到了战前的最高点，而且超过了 1949 年产量的 77.5%。……该计划（第一个五年计划）号召建设 694 个工业项目，其中的 156 个工厂将在苏联援助下修建。……在预算总支出中，58.2% 投入工业建设，19.2% 投入交通、邮政和电信业，7.6% 投入农业、林业和水利业，7.2% 投入文化、教育和卫生事业。

——摘编自徐中约《中国近代史》

材料三：国有企业是问题的核心。20 世纪 80 年代中期，它占了城市就业人口工业产值的 70%，而集体与合作制部门大约占 25%，新兴的私营企业只占 5%。改革者在搞活国有大型企业时遇到了最大的挑战。在这些企业中，生产指标和分配到的原材料一直是由中央政府官员决定的，为了解决浪费和效益低下问题，政府鼓励国有企业根据市场计划生产。这就意味着企业要按照市场价格购进原材料、辞退效率低下或怠工的工人并为产品制定具有竞争力的价格。但是这种竞争可能导致工厂破产，因此这一做法遇到了阻力，有人指责它有意识形态上的问题。

——摘编自费正清《中国：传统与变迁》

(1)概括材料一所反映的中国经济发展趋势；结合材料二和所学知识，说明影响经济发展趋势变化的因素。(8 分)

(2)根据材料三，概括指出费正清认为中国国有企业改革遇到的问题；20 世纪 90 年代，中国为解决这些问题而推行的措施有哪些？(10 分)

关注微信公众号“教辅资料站”获取更多学习资料

27. 有学者认为，在一系列“边缘革命”的带动下，中国逐渐步入了现代市场经济。阅读下列材料，完成下列要求。

材料一：真正的改革先锋不是国营企业，而是那些落后的、被边缘化的群体。在这些“边缘革命”中，意义最为重大的变革是在中国经济最为薄弱的环节农业中爆发的。中国政府于1979年着手改善农业环境，然而真正意义上的农业改革是自下而上展开的。家庭联产承包责任制在中国农业改革过程中极其重要，从长远角度看，农民重新获得的经济自由对发展农村经济的意义要重大得多。

材料二：在推动中国市场转型的诸多“边缘革命”中，经济特区的开辟和发展，在推进中国向世界经济开放的过程中，起到了尤为关键的作用。经济特区被视为学习资本主义以实现社会主义先进性的实验室。在整个80年代，政府都因担忧经济特区会被资本主义蚕食而不安。选择深圳、珠海、汕头和厦门作为首批经济特区，实际上是个折中做法。拥有相同的地理优势的城市并不止这四个，但它们对中国社会主义经济过于重要，试验中的任何闪失都有可能会对社会主义经济造成毁灭性的打击。经过30年的改革，中国的经济特区得到稳步成长，从中国经济的外围逐渐向核心渗透。

——以上材料摘编自[英]罗纳德·哈里·科斯、王宁著《变革中国——市场经济的中国之路》

(1)据材料一并结合所学知识，指出农民重新获得“经济自由”的措施和“经济自由”的含义，并简析农业改革的影响。(6分)

(2)据材料二，概括选择首批四个经济特区的原因，并说明经济特区设置的作用。(6分)

(3)据材料一、二并结合所学知识，概括我国经济体制改革进程的主要特点。(6分)

28. 阅读下列材料，回答问题。

材料一：广州自古以来就是我国对外贸易与文化交往的重要港口，因其优越便利的地理位置，享有“外贸古港”的称誉。自汉以来，各国每次到中国朝贡，除带来给皇帝的贡品外还带来大量的货物，朝贡的船只到了广州后，“贡使捧表进京朝贡”，而其他货物则就地贩卖，然后“其船置办国需随汛回国”。这就是清初广州十三行对外贸易的起源，“怀远驿”“粤海关”“十三行”等都在日益频繁的对外交往中应运而生。

材料二：2013年，深圳、广州和厦门位居前三，获评对外开放“金牌城市”。报告指出，广州的优势在于其综合实力和开放的均衡性，它未来努力的方向是发挥规模和综合优势，全面提升国际竞争力，成为具有全球影响力的国际化大都市。此次评出的“金牌城市”和“银牌城市”全部来自沿海或东部地区。

——摘编自《中国城市对外开放指数研究报告》(2013年)

(1)根据材料一，简述古代广州成为“外贸古港”的主要历史条件。结合所学知识，分析“怀远驿”“粤海关”“十三行”等应运而生的主要影响。(6分)

(2)根据材料一、二并结合所学知识，分析广州在2013年获得对外开放“金牌城市”的有利条件；从“金牌城市”和“银牌城市”的分布和发展方向，概括我国当前对外开放的突出特点。(8分)

关注微信公众号“教辅资料站”获取更多学习资料

班级＿＿＿＿ 姓名＿＿＿＿ 考场号＿＿＿＿ 准考证号＿＿＿＿
密 封 线
历史 必修2 RJ

班级_____ 姓名_____ 考场号_____ 准考证号_____
密 封 线

单元质量检测卷(五)

第五单元　中国近现代社会生活的变迁

(时间:90 分钟　满分:100 分)

一、选择题(每题 2 分,共 50 分)

1. 1860 年,上海西人书馆助西人译书的文士王韬去某友人家作客,友人"特出西洋名酒为饷,味极甘醇可口"。王韬虽收入不多,但也购买一些西洋玻璃杯、洋皂用来赠送亲朋好友。这反映出当时 (　　)
A. 社会经济结构的变动　　B. 百姓生活水平的提高
C. 物质生活时尚的变化　　D. 实用性消费观念盛行

2. 右面是晚清时期上海小校场年画——《湖丝厂放工抢亲图》。此年画所蕴含的历史信息主要反映了 (　　)



A. 新式婚俗取代旧式婚俗　　B. 新旧出行方式的并存
C. 普通民众服饰的变革　　D. 西方生活观念的接受

3. 电灯、自来水初出现时,上海市民曾十分恐惧,担心用电会"遭雷殛"……"谓(自来水)饮之有毒,相诫不用"。这表明近代上海 (　　)
A. 战乱频仍民生多艰　　B. 城市设施完善
C. 工业文明曾遇阻力　　D. 善于学习西方

4. 1897 年,天津中西大学堂举行了全校运动会,共设 12 个比赛项目:跑带跳一百码;赛掷重物;跑带跳二百二十码;先跑后长跳;先立后长跳;跑袋法;跑围场一周;跑兼拾物;绕场围跑三周;持棍高跳法;先跑后高跳;赛递物法。据此可知 (　　)
A. 传统体育文化具有弘扬中华民族精神功能　　B. 全民健身理念得到了社会各界的普遍认同
C. 学校体育竞技活动的开展受西方文明影响　　D. 德智体美劳全面发展的教育方针得到贯彻

5. 1903 年,章太炎在《顺天时报》刊登《征婚告白》,条件为:鄂籍人;大家闺秀,性情开放;要通文墨,精诗赋;双方互相平等;夫死可嫁,亦可离婚。这反映了当时 (　　)
A. 报纸开始推动社会启蒙和时代进步　　B. 先进的婚姻观念已经成为时代风尚
C. 传统的封建礼教受到新思想的冲击　　D. 女性的社会地位得到了进一步提高

6. 兰陵忧患生《京华百二竹枝词》云:"坤(女)鞋制造甚精工,争奈人多足似弓。庚子(1900 年)已过尚依旧,几时强迫变颓风?"这主要反映了 (　　)
A. 政局更替推动习俗变迁　　B. 废止缠足法令成效显著
C. 革新传统陋习进程艰难　　D. 民族资本主义迅速发展

7. 维新变法时,康有为提出"剪辫易服"的主张被指责成"妖言惑众"。但 1912 年以后,还留着辫子则被取笑为封建余孽、满奴。这表明 (　　)
A. 辫子问题是革命的重要标志　　B. 民主共和观念日渐深入人心
C. 政治变革推动社会习俗变化　　D. 封建陋习开始丧失社会土壤

8. 民国初年,参议院公布的男女礼服分为中西两类,中式即长袍马褂。民间衣着更为自由。由此可知,民国初年 (　　)
A. 服饰改革举步维艰　　B. 崇洋媚外之风开始盛行
C. 民众普遍接受西式服饰　　D. 社会物质生活发生了很大变化

9. 1934 年 4 月 8 日中央苏区颁行《中华苏维埃共和国婚姻法》,宣布废除聘金、聘礼及嫁妆的规定,但很多地方仍存在把订婚作为结婚的前置程序,在农村尤盛。这说明 (　　)
A. 传统婚俗已遭到完全废除　　B. 移风易俗任务依然困难重重
C. 婚姻仪式由繁琐走向简约　　D. 南京国民政府倡导婚姻自主

10. 宣传画能反映一定时期的社会特征,右图为 20 世纪 80 年代的一幅宣传画,它能够反映 (　　)



A. 苏式服装成为人们的普遍选择
B. 一批新青年开始反对包办婚姻
C. 服饰受到港台、欧美文化影响
D. 握手开始成为常见的社交礼节

关注微信公众号"教辅资料站"获取更多学习资料

11. 1876 年，淞沪铁路通车后，“华客即持照纷纷上车，并有妇女小孩”。1897 年，京津铁路告成，“京城内外附近居民，咸思（乘火车）到津一阔眼界，其中以旗人妇女为最多”。对此解释合理的是（　　）

A. 科技进步加速社会阶层融合　　B. 交通工具变革使女性地位提高

C. 工业文明助推社会观念变化　　D. 大众出行方式受地域影响明显

12. 1896～1911 年中国铁路建设有了一定的发展，新建铁路总里程约为此前的 22 倍。右图为铁路投资构成示意图。由此可知（　　）

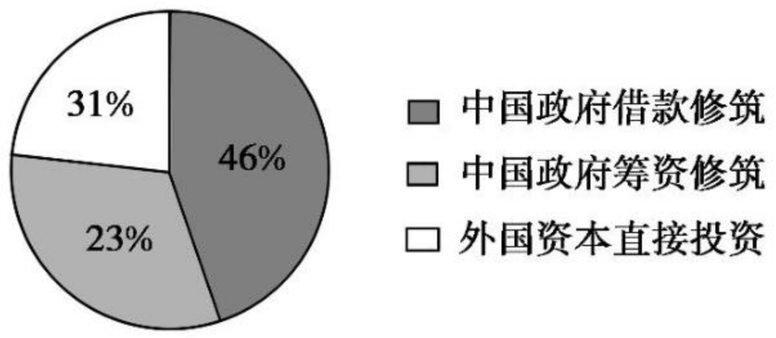

A. 清政府一直以来重视铁路修筑

B. 西方列强控制中国铁路修筑权

C. 铁路修筑极大地推动经济发展

D. 国人的阻碍严重制约铁路修筑

13. 从晚清顽固派官僚认为火车的轰鸣与震动会“损害地脉”到民国成立后，孙中山亲自担任全国铁路督办的历史变迁。反映了（　　）

A. 封建迷信是当时阻碍社会进步的主要原因　　B. 官员的喜好对各行业的发展有决定性影响

C. 中国交通近代化的趋势是向机械动力演进　　D. 近代交通的进步逐渐改变人们的思想观念

14. 中国的火车经历了由图一到图二、图三到图四的变化。出现这一变化的根本原因是（　　）


图一 蒸汽机车


图二 内燃机车


图三 高速列车


图四 磁悬浮列车

A. 中华人民共和国的成立　　B. 社会主义改造的完成

C. 改革开放取得重大成就　　D. 社会经济的不断发展

15. 经总理衙门批准，1878 年海关总税务司赫德指派德璀琳以天津为中心，在北京、天津、烟台、牛庄（营口）、上海 5 处试办邮政，发行邮票，设立书信局，收发中外信件。这一做法（　　）

A. 损害了中国关税主权　　B. 建立起中国近代邮政体制

C. 推动中国外交近代化　　D. 适应了社会生活变化需要

16. 清末竹枝词：“千山万壑赴京门，不失人兮不失言。尤便好官订暗码，个中托嘱最温存。”词中描写的是（　　）

A. 电话　　B. 电报

C. 火车　　D. 轮船

17. 晚清出版的《格致汇编》记载：“（上海）租界之内，中外大行家，以及办公事处，皆有此器以通消息，更于各马路间设立此器，以便通报火灾及报捕等要事。”该记载反映出近代上海（　　）

A. 最早架设有线电报线路　　B. 有线电报得到普遍应用

C. 已经建成近代电讯网络　　D. 利用电话进行信息传输

18. 右图为中国漫画先驱丁悚《百美图》中的一幅，画中诗为“佳期约定故迟迟，转眼宵深到子时。壁角电铃微响处，暂凭一线话相思。”材料反映了当时中国（　　）



A. 妇女社会地位普遍提高

B. 民众生活方式发生根本改变

C. 传统伦理观念彻底颠覆

D. 社会生活习俗日趋文明开化

19. 1873 年 8 月，《昭文新报》创办于汉口，这份报纸内容多为轶闻趣事，间有诗词小品，与当时以刊载官方文书为主的《京报》《宫门钞》旨趣颇异。这说明该报（　　）

A. 关注社会生活诸多方面　　B. 具有推动维新的目的

C. 是近代最有价值的报纸　　D. 有浓厚的殖民色彩

20. 1905 年，孙中山在《民报》发刊词中将同盟会的纲领阐发为“三民主义”，当时《民报》属于（　　）

A. 艺术性报刊　　B. 娱乐性报刊

C. 通俗性报刊　　D. 政论性报刊

关注微信公众号“教辅资料站”获取更多学习资料

21. 右图为发表于1909年的时事漫画《一手掩尽天下目》。该漫画的寓意是　（　　）



A. 清政府肆意压制革命舆论
B. 新闻媒体面临恶劣的环境
C. 报刊有效发挥着政治监督作用
D. 革命派开始利用报刊启发民智

22. 中华书局创始人陆费逵曾说："我们希望国家社会进步，不能不希望教育进步；我们希望教育进步，不能不希望书业进步。我们书业虽然是较小的行业，但是与国家社会的关系，却比任何行业大些。"陆费逵意在说明，出版业　（　　）
A. 要勇于担当时代使命　　B. 要紧跟时代步伐
C. 是社会最重要的行业　　D. 要坚持行业自信

23. 近代中国，随着外国电影的传入，专门影院出现，其不再像戏院那样供应茶水、食品和手巾，并要求观影者不乱拍掌、入座脱帽、宁静少谈，不碍他人等事项。这说明电影有利于　（　　）
A. 摒弃落后观念　　B. 规范公共秩序
C. 改变消费观念　　D. 主导移风易俗

24. 抗战时期中国抗战电影海外传播一览表(部分)

国家	片名	发行方式
美国	《热血忠魂》《八百壮士》	赠送
苏联	《精神总动员》	赠送
	《热血忠魂》	赠送
新加坡	《抗战特辑》	出售版权

据上表可知，抗战电影在海外传播　（　　）
A. 有助于反法西斯同盟的建立　　B. 鼓舞了国内军民的抗战意志
C. 表明政府注重国际形象的构建　　D. 体现政府与美苏关系更为密切

25. "凡事百度，我拥有了丰富的知识和狭窄的思路。"这一极具幽默感的网络签名，形象地反映了现代人的生活状态。下列对其理解正确的是　（　　）
A. 网络极大地方便了工作和生活　　B. 现代信息技术的发展是一把"双刃剑"
C. 国内网站的影响力超越了国际网站　　D. 电子计算机技术的发展是这一现象出现的根本原因

二、非选择题(第26题18分，第27题14分，第28题18分，共50分)

26. 阅读下列材料，回答问题。

材料一：中国古代服饰讲求含蓄，注重伦理，不强调服装与人体各部位保持一致，更不注重用服装表现人体的曲线，褒衣博带、长裙雅步是中国古代服饰的主流。从夏商时期开始，服饰就已不可避免地被拉入了"礼"制范畴；赵武灵王引进胡服主要是用于改革军队服饰，便于骑射；孝文帝迁都洛阳，全面割断鲜卑拓跋族与旧有文化的纽带；大唐时代经济发达、国家富强、文化政策宽松，以宽厚和兼容并包的精神自信地接纳四方远近外来服饰文化；满清统治者以"首崇满洲"来竭力维护满族服饰文化的独自系统性，并通过"剃发易衣冠"的政策改造汉服饰文化。

——摘编自竺小恩《中国近代服饰与古代服饰变革之比较》

材料二：民国成立后，要求废除满式的官服顶戴，以新礼服代替旧式官服，不分级别高低，凡任职的官员，一概统一着装。上海作为中国首批对外开放的商埠，国际移民的大量涌入，使上海与国际的联系愈发密切，中国与世界各国的文化在这里碰撞、交融，近代上海的服饰文化呈现出了多元化现象，很多服饰直接采用西方样式，以上海为中心，遍布全国各大城市的一批主要从事西式服装制作的裁缝产生了，有的则在中国传统的基础上引进西方样式并加以改进。

——摘编自竺小恩《中国近代服饰与古代服饰变革之比较》

(1)根据材料并结合所学知识，分析中国古代服饰的特点及其原因。(8分)
(2)根据材料并结合所学知识，分析中国近代服饰变革的原因及影响。(10分)

关注微信公众号"教辅资料站"获取更多学习资料

27. 从古到今，交通的发展都有着重要的意义。阅读下列材料，回答问题。

材料一：交通的便利、旅行安全的保障、商运的畅通和驿传制度的方便，都使得汉代的人民得以免除固陋的地方之见，他们的见闻比较广阔，知识易于传达。汉代的官吏士大夫阶级的人多半走过很多的地方，对于'天下'知道得较清楚，对于统一的信念也较深。

——王子今《秦汉史：帝国的建立》

材料二：中国铁路发展大事记

时间	大事
1889～1911 年	1889 年清政府批准设立中国铁路总公司，同时采取官办铁路、借债筑路的政策，由此出现中国近代第一个铁路建设高潮；1903 年清政府颁布《铁路简明章程》，允许华商集股筑路，民办铁路兴起。同时，西方列强大肆掠夺中国铁路利权。
1912～1949 年	1912 年在孙中山的倡导下，民族资产阶级和华侨商人投资铁路的要求高涨，民国初年一度出现了筹办铁路的热潮；1915 年北洋政府几乎完全取缔民办铁路，继续借债筑路，中国铁路利权进一步丧失。中国铁路事业进入低潮。1928 年国民政府制定铁道建设计划和中外合资筑路政策，整顿铁路路务和整理铁路外债，出现了中国近代第二个铁路建设高潮。1937 年以后，铁路事业陷入低谷。
1949～1957 年	新中国成立后，中国铁路路权发生了根本性变革。国家设立铁道部，在对原有铁路进行修复、改建的同时，着手进行有计划的、大规模的铁路新线建设，先后建成宝成、兰新等铁路。

(1)依据材料一，分析汉代发达的交通有哪些影响？(6 分)

(2)阅读材料二，对中国铁路的发展历程进行解读。(8 分)

28. 阅读材料，完成下列要求。

材料一：宋代是我国古代报纸发展的鼎盛时期，不仅有大量发行的官报，还出现了官方禁令下民间发行的"小报"，其发行人多为邸吏、使臣、书店主人等，内容有真有假。明清时期，政府允许民间自设报房，人员构成及运作方式与现代报社机构类似，刊发的内容需官方审核，真实性更高、更可靠。报房的大量出现，促进了报业的技术革新。作为盈利性质的商业报纸，一定程度上表达了民众的意见和需求，呈现出古代向近代过渡中的微弱新变。

——摘编自潘小露《宋代"小报"与明清〈京报〉比较》等

材料二：19 世纪末，国内出现第一次民间办报高潮。王韬于 1874 年创刊于香港的《循环日报》，是中国报刊史上第一个以政论为主的报纸。以康有为为首的改良派一共创办了《中外纪闻》《时务报》等 30 多种报刊。在上海、重庆等地也出版了不少兼载新闻评论和译文的时事性政治刊物。

——摘编自王鑫宏《晚清民间办报高潮与清政府官方应对》

材料三：近年来，人类逐渐步入了个人借助互联网技术平台将信息进行自由的采集、过滤、加工并传播给他人的自媒体时代。中国的自媒体以博客、微信公众号、微博等为主体。与传统媒体相比，自媒体具有个体性、自由性、多元性、平等性、便捷性等特点，但也出现了许多新的问题。

——摘编自张爱军、秦小琪《自媒体传播与公平正义演化》

(1)根据材料一并结合所学知识，概括宋代到明清时期民间报刊的变化，并说明民间报刊的积极作用。(10 分)

(2)根据材料二并结合所学知识，简述晚清中国第一次民间办报高潮出现的历史背景。(4 分)

(3)根据材料三并结合所学知识，说明自媒体发展的意义。(4 分)

关注微信公众号"教辅资料站"获取更多学习资料

班级 姓名 考场号 准考证号
密 封 线
历史 必修2 RJ

班级_____ 姓名_____ 考场号_____ 准考证号_____
密 封 线

单元质量检测卷(六)

第六单元　世界资本主义经济政策的调整

(时间:90 分钟　满分:100 分)

一、选择题(每题 2 分,共 50 分)

1. 1923 年底,美国一项调查发现,某城镇 123 个工人家庭中 60 个都有汽车,而这 60 个家庭里面有 26 家住房相当简陋,其中 21 个家庭甚至连洗澡盆也没有。据此推断,当时美国 (　　)
A. 经济通货膨胀相当严重　　B. 经济运行过程隐含危机
C. 一战对美国的打击沉重　　D. 轻重工业比例严重失调

2. 1932 年,一位观察家报道:"从南、北卡罗来纳起,一直伸展到新墨西哥,地里的棉花没人采摘。葡萄园里还有未摘的葡萄,橄榄园里挂满正在溃烂的果实。"与之密切相关的是 (　　)
A. 政府采取自由放任经济政策　　B. 美国企业中劳动力的缺乏
C. 各国普遍推行贸易保护主义　　D. 国家对农产品结构的调整

3. 据《美国通史》记载:仅纽约一市,1931 年记录在案的饿死街头事件,就有 2 000 起;1932 年,纽约《晚画报》报道了一系列饿死人的事件。造成这一现象的主要原因是 (　　)
A. 自然灾害频发导致农业歉收　　B. 生产相对过剩引发经济危机
C. 产业结构调整挫伤农民积极性　　D. 通货膨胀引发粮食价格上涨

4. 20 世纪 30 年代,美国漫画界开始塑造强大、不可战胜的英雄形象,如人猿泰山、大力水手、超人、蝙蝠侠等,他们匡扶正义,扫除世上的罪恶,为人间带来希望。这类英雄漫画广受欢迎。材料反映出当时 (　　)
A. 社会大众存在逃避现实的倾向　　B. 美国持续推行霸权主义
C. 经济繁荣刺激精神享受的需求　　D. 科技发展引发科幻热潮

5. 1933 年 6 月,资源自给力较低、金融力量相对薄弱的德意互相靠拢,形成了法西斯集团;而英法美也摒弃前嫌,于 1936 年签订了《三国货币稳定协定》和《三国黄金协定》。材料反映出经济危机 (　　)
A. 推动了国家干预经济模式建立　　B. 改变了国际关系格局
C. 使世界经济向制度化方向发展　　D. 引发了第二次世界大战

6. 经济危机期间,大量工人失业,美国政府实行社会救济。对此,一位技师说:"没有别的办法,只有到救济机关去,我简直不得不糟蹋我的自尊心。"这表明 (　　)
A. 实行以工代赈的必要性　　B. 美国民众抵制政府的干预政策
C. 经济危机引发民众恐慌　　D. 罗斯福新政无法摆脱经济危机

7. 1929 年的最后一周,美国政府在追加了约 3 亿美元的信贷资金后,胡佛总统对此评论说:"以前没有一位总统认为这是政府的责任,因此我们必须开辟一条新的道路。"这说明当时美国 (　　)
A. 坚守了自由放任的经济政策　　B. 开始尝试突破传统经济政策
C. 尽力为罗斯福新政创造条件　　D. 认识到了经济危机的严重性

8. 从 1930 年~1933 年,美国联邦政府对各州在公路修筑方面的年底补贴,从 8 600 万美元一跃而增加到 1.72 亿美元。一座名为"胡佛水坝"的工程也于 1930 年在科罗多河动工。美国政府的上述举措 (　　)
A. 体现了政府对经济的干预　　B. 表明仍在固守自由放任政策
C. 有利于彻底根除经济危机　　D. 赢得民众对政府的普遍支持

9. 据美国官方统计,能见度小于一英里的沙尘暴 1932 年有 14 次,1933 年 38 次,1934 年 22 次,1935 年 40 次,整个沙尘暴肆虐范围达 1 000 万英亩。这一状况 (　　)
A. 引发了严重的经济危机　　B. 是工业化进程的必然产物
C. 使民间资源保护队成立　　D. 表明生态危机与经济危机并发

10. 1933 年罗斯福宣誓就职后,敦促国会出台了一系列紧急立法,就社会经济中的紧急情况制定对策。在美国经济形势危急的情况下,任何原则、规矩都不得不向美国政府的紧急应对危机权力让步,联邦最高法院也不例外。这表明 (　　)
A. 政府实行专制　　B. 三权分立失效
C. 总统权力扩大　　D. 国民经济崩溃

关注微信公众号"教辅资料站"获取更多学习资料

11. 有学者认为，罗斯福新政从以下四个方面来解决经济大危机：过剩与秩序，过剩与价格，信用与保障，温饱、就业与保障。这四个方面所解决的问题对应最恰当的是（　　）

A. 农业危机 工业危机 金融危机 民生危机　　B. 工业危机 农业危机 金融危机 民生危机

C. 民生危机 农业危机 金融危机 工业危机　　D. 农业危机 金融危机 民生危机 工业危机

12. 从 1933 年 3 月初美国国会通过《紧急银行法》到 6 月通过《全国产业复兴法》，是罗斯福新政的第一阶段，史称“百日新政”。这一阶段新政的中心任务是（　　）

A. 结束混乱状态，稳定经济秩序　　B. 调节劳资矛盾，稳定社会秩序

C. 强化制度建设，巩固改革成果　　D. 整顿金融秩序，恢复银行信用

13. 1933 年美国宣布停止黄金出口，并颁布法令，禁止居民和私人银行拥有黄金，停止美钞兑换黄金偿还债务。美国采取以上做法旨在（　　）

A. 维护美元霸权　　B. 防止通货膨胀

C. 提升外贸竞争力　　D. 缓和劳资矛盾

14. 1932 年，美国的失业人数达到 1 100 万。据《幸福》杂志估计，美国有 3 400 万成年男女没有任何收入，许多人活活饿死，活着的人也处境困难。为此，罗斯福采取的措施是（　　）

A. 社会救济与以工代赈　　B. 调整工业生产

C. 整顿财政金融体系　　D. 减少农业产量

15. 1935 年，罗斯福政府批准了瓦格纳法，该法规定工人有通过自己选择的代表与资方进行集体谈判的权利。这一规定事实上恢复了之前被废除的某部法律的重要条款。这部被废除的法律最有可能是（　　）

A.《紧急银行法》　　B.《全国工业复兴法》

C.《社会保险法》　　D.《公平劳动标准法》

16. 尽管美国人对富兰克林·罗斯福个人及其内外政策褒贬不一，但他们均认为，“罗斯福在执政期间把总统作用这一概念改变得比所有前任加在一起还多”。该说法的依据是（　　）

A. 开创了国家干预经济新模式　　B. 三权分立体制遭到了破坏

C. 新政取得了前所未有的成功　　D. 自由放任政策的弊端暴露

17. 1932 年，罗斯福竞选基金的 25%来自银行家和经纪人的捐助，1936 年，罗斯福第二次竞选，这 25%下降到 4%。这表明罗斯福新政（　　）

A. 导致罗斯福的支持率大大下降　　B. 维护了工农阶级的利益

C. 一定程度上损害资本家的利益　　D. 开创了国家干预的先河

18. 资中筠在《美国十讲》中指出：“新政在美国历史上既无先例可循，也没有系统的经济理论作为基础。它的一个显著特点是，任何一批政策法令的颁布实施，都不是事前计划好的，都是应急性的、试验性的。”作者意在强调罗斯福新政（　　）

A. 取得成功的偶然性　　B. 整顿措施的系统性

C. 脱离理论的盲目性　　D. 基于实际的灵活性

19. 战后，受战后重建影响，国家投资恢复发展经济成为英法等主要资本主义国家盛行的经济模式，但唯独美国国家投资比例小。其主要原因在于（　　）

A. 二战使美国经济遭受重创　　B. 冷战制约了美国经济发展

C. 美国的自由主义经济传统　　D. 美国的私人资本比较稳定

20. 1983 年 3 月，英国政府宣布把货币供应量的增长率从 1980 年的 7%～11%，下降到 1984 年的 4%～8%，并在四年内把政府的公共开支降低 4%，严格控制财政赤字。这表明英国政府（　　）

A. 放弃了对经济的干预　　B. 以货币贬值来刺激经济

C. 以增税为工作的中心　　D. 调整了经济的增长模式

21. 威廉·贝弗里奇在《自由社会中的充分就业》中明确提出：“保护国民免于大规模的失业……这必须确定无疑的是国家的职能，就像国家现在保护国民免于来自国外的威胁和来自内部的强盗及暴力的威胁一样。”材料中的国家职能是（　　）

A. 保护国民就业　　B. 提供人身安全

C. 实行福利制度　　D. 保障经济安全

关注微信公众号“教辅资料站”获取更多学习资料

22. 二战结束后，欧美国家脑力劳动者人数迅速增加，他们被称为“白领工人”。20 世纪 40～70 年代，美国“白领工人”的总数从 1 508 万人增加到 5 105 万人。这一状况出现的主要原因是（　　）

A. 产业结构升级　　B. 中产阶级出现

C. 大众教育普及　　D. 科学技术进步

23. 1951～1982 年英国社会福利增长 2.7 倍，而国内生产总值只增长近 1 倍，同期社会福利金额占国内生产总值的比重从 14.4%跃升为 29.4%。材料反映英国的社会福利（　　）

A. 促进了国民经济高速增长　　B. 加重了国家财政负担

C. 提高了人们的工作积极性　　D. 扩大了社会消费

24. 20 世纪 80 年代以来，美国提出了“星球大战计划”和“信息高速公路”计划，日本确立了“科学技术立国”战略，欧共体制定了“尤里卡计划”（将使欧洲“能够掌握所有的高技术”）。这表明（　　）

A. 各国加强了科技领域的合作　　B. 国家力量推动经济的转型

C. 军备竞赛推动世界科技发展　　D. 互联网已广泛运用于生产

25. 据统计，在美国国民生产总值的产业构成中，1960 年第三产业所占的比重为 59.9%，1980 年上升到65.2%，1986 年超过了 70%。这种现象的出现（　　）

A. 表明美国已进入知识经济时代　　B. 将会导致贫富差距更加严重

C. 避免了经济危机在美国的爆发　　D. 有利于经济的长期稳定发展

二、非选择题（第 26 题 18 分，第 27 题 18 分，第 28 题 14 分，共 50 分）

26. 20 世纪 30 年代是英国农业政策转变的一个重要时期。阅读下列材料，回答问题。

材料一：1929～1932 年英国的农产品价格下降约 34%，尤其是谷物、羊毛等农产品价格下降更为明显。其中，小麦在 1927～1931 年的平均价格降幅达到 47.1%，羊毛从 1928 年的每磅 37 便士下降至 1931 年的每磅 14.7 便士。1931 年英国农产品进口量比 1927～1929 年增长了 17%，与此同时，英国国内的农产品也出现了过度生产的情况。在农产品严重供过于求的情况下，农产品市场呈现滞胀状态。受谷物生产萧条的影响，很多地区的农耕土地在销售以及租赁方面都没有市场。

材料二：1931 年 11 月，英国颁布《园艺产品法案》，该法案规定对一些受外国倾销影响较为严重的无核小水果以及马铃薯征收关税。英国政府在 20 世纪 30 年代，颁布了一系列法令，实行生产性农业补贴，授权农业生产者可以组建委员会对某类农产品的生产和销售进行控制，加大农业研究与教育的推广，设立农业研究委员会致力于将农业教育推广到地方层面。

——以上材料摘编自刘倩《20 世纪 30 年代的英国农业改革与国家干预》

(1)据材料一，指出 20 世纪 20 年代末至 30 年代初英国农业发展面临的困境。结合所学知识分析其产生的国际背景和国内政策因素。(8 分)

(2)据材料二，指出英国为摆脱农业困境采取的措施，概括其特点并简析影响。(10 分)

关注微信公众号“教辅资料站”获取更多学习资料

27. 阅读下列材料，完成要求。

材料一：据统计，20世纪30年代全国从事乡村建设工作的团体和机构有600多个，先后设立的各种实验区有1 000多处。这些团体和机构，性质不一，情况复杂，然而随着工作的进展，乡村建设运动对农村问题的关注由点到面，基本上都包含政治改革、文化教育、科技改良和推广、卫生保健、组织合作社、移风易俗、自卫保安等内容，最终成效不大。

——摘编自彭大鹏《20世纪二三十年代中国乡村建设运动简要回顾》

材料二：1933年5月12日在《农业调整法》通过时，农业部长华莱士表示，美国“自由的个人主义时代”已经结束，“唯一可以达成长期生产控制的方法，乃是农民们自己组织起来，联合起来进行努力。”他还动用政府力量，引导农业生产者与农产品加工者之间签订“市场协议”，使他们在最低限度价格、供求总量等方面达成协议。后来，在他的活动下又争取通过了《土壤保持与作物调配法》《农业信贷法》《农场抵押法》《农作物贷款法》等法律，以加强对农民的政策支持。他还建立农业“常平仓”制度，即政府储备粮食以调节粮价。从1932年至1939年，美国农业基本恢复起来，农民的处境得到根本性的好转。

——摘编自王丽、张婵等《论罗斯福的〈农业调整法〉及农业政策》

(1)根据材料一并结合所学知识，指出20世纪30年代中国乡村建设运动的特点并分析其兴起的背景。(8分)

(2)根据材料二并结合所学知识，概括20世纪30年代美国农业部长华莱士的农业措施。(6分)

(3)根据材料一、二并结合所学知识，谈谈你对乡村振兴的认识。(4分)

28. 近现代以来，越来越多的国家重视社会保障问题。阅读下列材料，完成要求。

材料一：1933年，在罗斯福的倡议下国会通过了联邦紧急救济法案，拨款5亿美元补助各州进行劳动救济和失业救济。1935年通过的社会保障法是第一个由联邦政府承担义务的、以解决老年和失业问题为主体的社会保障立法。二战后美国联邦政府举办的社会保障事业发展很快。

——摘编自陈宝森《美国经济与政府政策：从罗斯福到里根》

材料二：二战后，西方发达国家纷纷制定并实施了住房保障制度，其中各国廉租房建设的资金主要是政府的财政支持。在住房保障方面，英国政府通过设立专门机构，对资金运营、住房建设进行管理，保障低收入居民能租到房屋；法国、日本等国家则采取政府提供优惠贷款，实行贷款利息补贴的办法，支持非营利机构发展低租金、低成本住房；在住房补贴方面，美国一方面直接对低收入家庭提供低租金的公共住房，另一方面向低收入家庭提供房屋租金补贴。

——摘编自陈小春、杨鹏《廉租房制度的国际比较》

(1)据材料一，指出罗斯福政府为发展社会保障采取的做法。(6分)

(2)据材料二，结合所学知识，分析二战后西方发达国家廉租房制度形成的条件。(4分)

(3)综合上述材料，结合所学，分析西方国家推行社会保障制度的影响。(4分)

关注微信公众号“教辅资料站”获取更多学习资料

班级 姓名 考场号 准考证号
密 封 线
历史 必修2 RJ

班级_____ 姓名_____ 考场号_____ 准考证号_____

密 封 线

单元质量检测卷(七)

第七单元 苏联的社会主义建设

(时间:90分钟 满分:100分)

一、选择题(每题2分,共50分)

1. 1920年,俄国的农业总产量只相当于战前水平的2/3,老百姓的日常生活用品严重缺乏,人们要忍受着冬季严寒的侵袭。到1921年,情况更惨了。这主要是因为 ( )
A. 苏俄新经济政策的实施 B. 国内战争的破坏
C. 战时共产主义政策延续 D. 西方国家的封锁

2. 据《苏联经济史》记载,(苏俄)国营农场的数目:1919年只有2 020个,1920年末已经增长到3 312个。这一时期国营农场的发展有利于 ( )
A. 农业生产水平的迅速提高 B. 保障对工业中心的粮食供应
C. 推动农业集体化运动的开展 D. 调动个体小农生产积极性

3. 据统计,到1921年2月,苏俄工人的工资中实物工资占到了工资总额的93.7%,国家银行也被取消。出现这一现象是因为当时 ( )
A. 推行实物配给制度 B. 流通货币严重短缺
C. 国内金融危机严重 D. 采取了新经济政策

4. 从1921年至1928年,苏俄(联)原来破败不堪、奄奄一息的经济,很快恢复了起来,人民生活也迅速得到了提高。出现这一现象主要得益于 ( )
A. 没收地主土地,鼓励农业生产 B. 实施计划经济,优先发展工业
C. 允许私人经营,恢复商品市场 D. 削减农业税收,扩大谷物生产

5. 列宁曾说:"我们并不是孤零零地生存在世界上,我们是作为世界经济的一员生存在资本主义国家体系中。"最能体现这一思想的是 ( )
A. 对部分企业实行租让制或租借制 B. 通过指令计划管理经济
C. 扩大集体农庄和国营农场自主权 D. 加强对经济的集中领导

6. 新经济政策实施后,许多优秀的布尔什维克对此不理解,甚至为此痛哭。列宁指出,新经济政策是一种为了继续前进的"有限的退却"。列宁所指的"退却"是 ( )
A. 实行余粮收集制缓解饥荒 B. 中小企业全部实行国有化
C. 恢复货币流通和商品交换 D. 大力推行农业集体化运动

7. 斯大林针对苏联与西方国家之间的差距,提出在十年内缩短距离,必须建立工业化所需的社会组织形式,随后苏联短短几年内消灭了私有制和个体农民。这一做法 ( )
A. 消除了城乡之间的差别 B. 增强了国家动员能力
C. 提高了农民生产积极性 D. 解放了社会生产力

8. 1928年在苏联工作的外国专家有379人,技术人员505人。到1932年,前者增加到1 910人,比1928年增加了4倍多;后者则增加到10 655人,与1928年同比增加了20多倍。据此可知 ( )
A. 全球劳务实现自由流动 B. 经济建设需要抓住良机
C. 美国极力转移过剩产能 D. 苏联经济体制快速转型

9. 斯大林为了加速工业化,不得不依靠农产品和原料出口来换取外汇,以支付机器设备等进口费用。这种做法 ( )
A. 合理地利用了世界经济形势 B. 表明苏联的农业成就斐然
C. 赢得了世界反法西斯的胜利 D. 是农业集体化的重要原因

10. 国内战争时期,苏俄实行余粮收集制;1921年,苏俄实行固定的粮食税,规定纳税后剩下的粮食归农民所有;1927年,苏联开展农业集体化运动,建立集体农庄。这表明苏俄 ( )
A. 农民生产的积极性始终不高 B. 充分认识到农业生产的重要性
C. 依据国家战略调整农业政策 D. 制定经济政策存在随意性倾向

关注微信公众号"教辅资料站"获取更多学习资料

11. 1930年，时任苏维埃外交官的亚历山大·巴米尔纳在国外待了四年后回到苏联，他震惊于首都的经济困境："几乎找不到还在营业的商店，罕见的陈列橱窗里弥漫着萧条的气候。什么都短缺，尤其是肥皂、靴子、蔬菜、肉类、黄油、脂肪类食品。"这反映出当时的苏联经济 （　　）

A. 受到资本主义世界经济危机的波及　　B. 呈现模式僵化与衰退的景象

C. 取消自由贸易导致生活水平的骤降　　D. 行政干预过多导致弊端显现

12. 2003年，俄罗斯民意调查机构就斯大林逝世50周年进行民意调查。结果显示，高达57%的人对斯大林在俄罗斯的作用是肯定的，只有34%的人持否定态度。对此解读最合理的是 （　　）

A. 斯大林模式仍适应俄罗斯建设　　B. 俄罗斯仍盛行崇拜斯大林之风

C. 苏联工业化建设取得巨大成就　　D. 俄罗斯民众对国家振兴的期望

13. 下图是苏联经济阶段年平均增长率示意图。该图说明苏联 （　　）

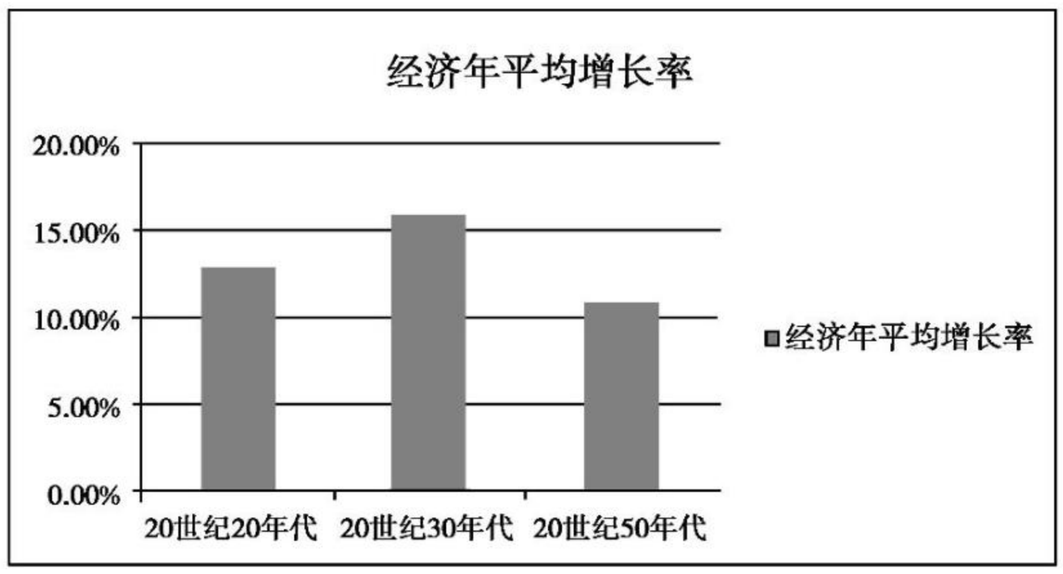

A. 经济发展与政策调整密切相关　　B. 三次经济改革使苏联经济不断下滑

C. 新经济政策推动了工业化实现　　D. 斯大林模式推动了经济的高速增长

14. 1935年苏联取消了面包和面粉的配售制，后来，又陆续取消了其他食品和所有工业品的配售制。这反映了计划经济的实施 （　　）

A. 促进了苏联经济比例协调发展　　B. 使劳动人民的生活水平得到改善

C. 使苏联迅速成为世界工业强国　　D. 促进苏联农业轻工业的快速发展

15. 20世纪60年代，美国著名学者杜兰特夫妇在《历史的教训》中指出："现在俄国的社会主义，正在逐步恢复个人主义的激励机制，以使得这个体制拥有更大的生产动力。"这里主要评价的是 （　　）

A. 战时共产主义政策　　B. 赫鲁晓夫改革

C. 新经济政策　　D. 戈尔巴乔夫改革

16. 苏联学者指出：若不是多亏新开垦地获得丰收，苏联在1956年几乎肯定是要发生饥荒的。这主要表明 （　　）

A. 赫鲁晓夫农业改革出现重大突破　　B. 赫鲁晓夫的垦荒政策符合苏联实际

C. 垦荒政策是苏联特殊国情的产物　　D. 二战后初期的苏联改革成效最突出

17. "在经济上，赫鲁晓夫建立了地区经济委员会，给工厂管理者赋予更大程度的自主权，并激励他们提高效率和利润，以求放松集中化的经济管制。"这表明赫鲁晓夫改革 （　　）

A. 系统纠正了斯大林体制弊端　　B. 深刻改变了经济体系的缺陷

C. 根本上突破了原有经济体制　　D. 一定程度上运用了经济手段

18. 赫鲁晓夫提出"全面展开共产主义建设"的口号，勃列日涅夫执政时期代之以"发达社会主义"的提法，1967年宣称苏联已建成"发达的社会主义社会"。这两个口号都 （　　）

A. 具有开创性、探索性、创新性的特征　　B. 与美苏争霸中苏联居于优势密切相关

C. 是"加速发展战略"在改革中的运用　　D. 体现了苏联领导人对国情的片面认识

19. 勃列日涅夫当政时期，宇宙飞船可以到达月球和火星，汽车却故障频出且耗油惊人，许多苏联百姓家里的家用电器陈旧不堪，电视机爆炸事件经常发生，很多人经常开玩笑说苏联生产的电视机应当送给敌人。这体现出 （　　）

A. 指令性计划减少　　B. 商品经济发展

C. 计划体制的弊端　　D. 公有制被打破

关注微信公众号"教辅资料站"获取更多学习资料

20. 美国人的研究认为，勃列日涅夫后，苏联在第三世界政策上出现新动向，降低了对第三世界的义务、减少对东欧盟国的承诺，要盟国提高自力更生程度等。这种动向的出现（　　）

A. 源于苏联实力的相对下降　　B. 体现了第三世界的崛起

C. 表明世界政治多极化趋势　　D. 彰显了苏联的大国战略

21. 1970 年苏联氢弹之父萨哈罗夫说："苏联就像一辆巨大的卡车，驾驶员用一只脚使劲往下踩加速器，同时另一只脚踩刹车"。这里的"踩刹车"意指苏联（　　）

A. 工业经济停滞不前　　B. 突破了斯大林模式

C. 致力于发展核武器　　D. 仍坚持传统的体制

22. 1981～1985 年，苏联国民生产总值平均增长率为 5.1%、3.1%、2.2%、1.8%，因此，戈尔巴乔夫一上任就惊呼，"国内形势已经潜伏着严重的社会经济危机"。据此，戈尔巴乔夫（　　）

A. 优先发展军事工业　　B. 制定"加速发展战略"

C. 加强执政党地位　　D. 大力发展社会主义市场经济体制

23. 历史学家尤·叶梅里亚诺夫撰文写道："（斯大林逝世时）苏联是世界上数一数二的强国！那些指责斯大林的人却用其双手毁灭了这个超级大国。"直接导致这个超级大国灭亡的是（　　）

A. 战时共产主义政策　　B. 赫鲁晓夫改革

C. 新经济政策　　D. 戈尔巴乔夫改革

24. 从 1985 年 3 月到 1990 年 10 月，短短五年多的时间，苏共中央曾先后推出 12 套经济改革计划，……1990 年 2 月出台"400 天计划"，5 月出台"5 年计划"，8 月又随即出台"500 天计划"，改革计划的混乱使地方层面根本无法落实。由此可见，戈尔巴乔夫改革（　　）

A. 背离了社会主义道路　　B. 把重心转向政治领域

C. 使苏联社会陷入失控　　D. 具有盲目随意的特点

25. 俄国历史学家德米特连科评述道："这样，到 80 年代初，苏联的极权体制事实上在社会上失去了支持，不再有合法性。它的崩溃只是时间问题。"据此可得出（　　）

A. 赫鲁晓夫的改革没有实现理论上的突破　　B. 勃列日涅夫的改革没有突破原有经济体制的框架

C. 戈尔巴乔夫的改革具有历史必然性　　D. 斯大林模式是苏联解体的直接因素

二、非选择题（第 26 题 20 分，第 27 题 16 分，第 28 题 14 分，共 50 分）

26. 阅读下列材料，完成要求。

材料一：1862 年和 1864 年，美国国会通过了两项建筑横贯大陆的铁路方案。为鼓励私营公司向铁路投资，联邦政府实行了补贴制度。据统计，从 1850～1871 年，作为奖励措施，政府先后把 1.75 亿英亩的农田、牧场、森林及矿地赠给铁路大王们。另外，还给予铁路公司特殊的银行信贷便利，允许享有长期或短期的免税特权。在 19 世纪最后 30 年，美国全境铺设了四条铁路干线。1865 年，美国有铁路 35 000 里，到 1900 年增加到 25.9 万里，约占全世界铁路长度的一半。

——摘编自徐鹰《美国工业化进程中的政府作用》

材料二：十月革命后，苏俄把全国铁路全部收归国有，并建立了统一领导交通运输的交通部。国内战争时期，国家采取了一系列措施，拨款恢复、改造旧线，同时兴建新线，到 1928 年苏联境内的铁路总长度达到 76 887 公里，同时在 1920 年通过的国家电气化计划指导下，开始了主要铁路干线的电气化建设。在前三个五年计划中，都把铁路建设作为重点发展部门。到 1945 年，全苏铁路通车里程已增加到 112 900 公里，比十月革命胜利初增加了 60%。

——摘编自纳波尔科《苏联铁路运输发展史略》

(1)根据材料一并结合所学知识，概括指出 19 世纪末美国铁路发展的表现，并简析其原因。(8 分)

(2)根据材料一、二并结合所学知识，说明苏联与美国铁路修建模式上的差异。(8 分)

(3)根据材料并结合所学知识，简析铁路修筑在社会发展中的意义。(4 分)

关注微信公众号"教辅资料站"获取更多学习资料

27. 阅读下列材料，完成下列要求。

材料一：1921年底，苏俄使者马林在张太雷的陪同下会见了孙中山。马林介绍了新经济政策的情况。孙中山评价到“此种新经济政策，其精神与余所主张之民生主义，不谋而合。”新经济政策的实施相对于中国国民党而言，消除了对苏俄的恐惧感，从而在寻求西方资本主义支持失败后，转而投入了苏俄的怀抱，走上了联俄的道路。

——摘编自《再论第一次国共合作——从新经济政策实施的角度》

材料二：新经济政策并不是一开始就是完整的政策体系，而是通过不断地摸索、实践逐步完善起来的。新经济政策允许经济活动有某些自由，承认商业、商品货币和市场关系，对农民和私人资本让步。党内以斯大林等人为代表的一派对新经济政策总体上持否定的态度，把它看成是发展资本主义的政策，年年不忘限制以致取消新经济政策。

——摘编自《苏联真相：对101个重要问题的思考》

材料三：列宁的新经济政策思想为后人的探索留下了巨大的空间，尽管它实施后也收到了相当显著的经济实绩，当时终未能在苏俄社会成规模地引入市场因素。二战后的50年代中期，赫鲁晓夫改革一度为高度僵化体制下的苏联注入了活力，但是这一代人对改革缺乏理解，并由于战略、政策乃至作风上的失当所带来的动荡，使改革不可能继续下去。

——马绍雷《二十世纪的俄罗斯》

(1)据材料一，概括孙中山对新经济政策的认识。结合所学知识，分析其对中国革命形势产生的影响。(4分)

(2)据材料二，分析俄共党内对新经济政策产生分歧的原因。结合所学知识，分析新经济政策实施的必要性。(6分)

(3)据材料三，概括苏俄(联)经济政策调整产生的影响。综合材料二、三，谈谈苏俄(联)经济政策调整给你带来的启示。(6分)

28. 阅读下列材料，回答问题。

材料一：列宁曾提出过这样一个著名的公式：“苏维埃政权＋普鲁士的铁路管理制度＋美国的技术和托拉斯组织＋美国的国民教育……＝社会主义。”

——《列宁文稿》

材料二：作为苏联领导人之一的布哈林主张“必须发展各类工业”，优先发展轻工业，用轻工业赚回来的资金建设重工业。对于实现工业化的资金来源，他主张本国节约。斯大林认为，如果将用来购买汽车和机器的资金用来购买布匹，苏联就会在用新技术武装起来的资本主义包围面前处于手无寸铁的状况。在工业化建设上，斯大林明确表示决不能放慢速度，必须竭力加快速度。斯大林用强制的办法，使农民的一半收入交给国家，“一五”计划时期，从农业吸收的资金占用于发展工业所需资金的三分之一以上。

——据陈仲丹《墙头政治——现代外国宣传海报解读》整理

材料三：改革必须是全面的、深刻的，绝不能像勃列日涅夫时期进行的改革那样浅尝辄止、半途而废，也不能像戈尔巴乔夫那样左右摇摆、朝三暮四。改革要有目标、有步骤、循序渐进地进行。

——整编自《苏联兴亡史论》

(1)材料一中的公式蕴含什么深意？该深意在经济领域付诸实践的表现是什么？(4分)

(2)材料二中布哈林和斯大林在工业化建设问题上有什么不同主张？(4分)

(3)据材料三并结合所学知识，指出苏联改革失败的原因有哪些？(6分)

关注微信公众号“教辅资料站”获取更多学习资料

班级 姓名 考场号 准考证号
密 封 线
历史 必修2 RJ

班级_____ 姓名_____ 考场号_____ 准考证号_____

密 封 线

单元质量检测卷(八)

第八单元 世界经济的全球化趋势

(时间:90分钟 满分:100分)

一、选择题(每题2分,共50分)

1.《漫长的20世纪》指出:30年代大危机爆发……人们放弃了相对稳定货币的追求,"世界资本主义退到了民族国家经济及相关帝国的避难所里。"为此,战后采取的措施是 ( )

A. 政府加强了对经济的干预 B. 建立"福利国家"

C. 建立国际金融和贸易体系 D. 发展"混合经济"

2. 1943年,在国际货币基金组织建立过程中,美国人怀特提出根据各国的黄金外汇储备决定本国的投票权;英国人凯恩斯则要求按照每国一票的方式决定各国投票份额。怀特与凯恩斯的主张 ( )

A. 加剧了战后欧洲的紧张局势 B. 体现了英美两国的利益诉求

C. 削弱了美国的世界霸主地位 D. 为布雷顿森林体系奠定基础

3. 1944年7月1日,44个国家的经济特使在美国新罕布什尔州的布雷顿森林召开会议,会议确立了布雷顿森林体系。该体系的基本特征是 ( )

A. 35美元稳定等价于1盎司黄金 B. 促进了战后世界经济的恢复和发展

C. 美元与黄金挂钩,会员国的货币与美元挂钩 D. 美国拥有雄厚的工业实力和最丰厚的黄金储备

4. 某国际经济组织纲领称,该组织旨在"通过投资更好地用于生产事业的办法以协助成员国境内的复兴与建设……以及鼓励欠发达国家生产设施资源的开发"。该组织是 ( )

A. 欧洲联盟 B. 关贸总协定

C. 国际货币基金组织 D. 世界银行

5. 第二次世界大战后形成了资本主义世界经济体系,其显著特征是 ( )

A. 以美国为主导 B. 以欧洲为中心

C. 摒弃社会制度的对抗 D. 在联合国框架内运行

6. 1971年12月,西方10国在美国华盛顿签订了《史密森协议》,协议规定:1盎司黄金的官价从35美元提高到38美元。这表明 ( )

A. 美元不再是最主要的国际货币 B. 西方国家出现金融危机

C. 美元地位上升而黄金出现贬值 D. 布雷顿森林体系走向瓦解

7. 下图为1948~1970年世界出口贸易总额年均增长率示意图。出现这一现象的主要原因是 ( )

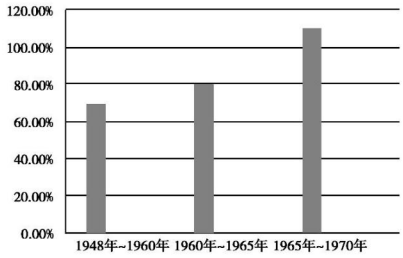

A. 雅尔塔体系的建立 B. 市场经济原则的普遍认同

C. 马歇尔计划的提出 D. 新的世界经济体系的建立

8. 1945年~1948年,国际货币基金组织、世界银行、关贸总协定等一系列国际经济组织相继建立。这些机构的建立最能说明二战后 ( )

A. 资本主义世界市场的最终形成 B. 国际政治经济新秩序建立

C. 资本主义世界经济体系的形成 D. 经济区域集团化趋势加强

9.《欧洲煤钢共同体条约》被誉为"欧洲的出生证"。这里"欧洲"的内在含义主要是 ( )

A. 和平的欧洲 B. 平等的欧洲

C. 联合的欧洲 D. 稳定的欧洲

关注微信公众号"教辅资料站"获取更多学习资料

10. 2002 年欧元成为欧元区唯一合法货币。跨主权货币从此由思想变成了实践，“口袋里的欧洲”使欧洲人找到一种休戚与共、做真正欧洲人的感觉。材料主要说明（　　）

A. 西欧联系更加紧密　　B. 欧洲政治一体化加快

C. 欧洲实现主权统一　　D. 西欧摆脱了美国控制

11. 右图“英国脱欧”的漫画反映出（　　）



A. 加入欧盟完全违背英国国家利益

B. 欧洲的联合不符合历史发展潮流

C. 英国脱欧增加欧盟内部不稳定性

D. 英国脱欧必然会导致欧盟的解体

12. 某文件规定“……所有三国的国境对过境的陆上运输车辆完全开放。”这应该是哪一组织成立的文件（　　）

A. 欧洲共同体　　B. 东南亚国家联盟

C. 北美自由贸易区　　D. 亚太经合组织

13. 根据《北美自由贸易协定八周年》总结报告：1993～2001 年，区内贸易翻了一番，三国之间每天的贸易量就有 17 亿多美元。材料表明北美自由贸易区（　　）

A. 三国贫富差距拉大　　B. 是由美国一国来主导

C. 贸易合作卓有成效　　D. 不与区域外国家贸易

14. 东亚经济的崛起，美国经济重心的西移，澳大利亚和新西兰在经济上融入亚洲，这些结构性变化所产生的巨大合力直接推动（　　）

A. 关贸总协定的签署　　B. 亚太经合组织的发展

C. 上海合作组织成立　　D. 北美自由贸易区建立

15. 2017 年 11 月 11 日，亚太经合组织第二十五次领导人非正式会议在越南岘港举行。国家主席习近平出席并发表题为《携手谱写亚太合作共赢新篇章》的重要讲话。亚太经合组织的作用表现在（　　）

A. 消除了成员国间的贸易壁垒　　B. 促进了亚太地区经济技术合作

C. 推动了世界贸易组织的发展　　D. 巩固了中国在亚太中领导地位

16. 右图为反映 20 世纪 60 年代的漫画《自己组队》。漫画所示国家“自己组队”的原因是（　　）

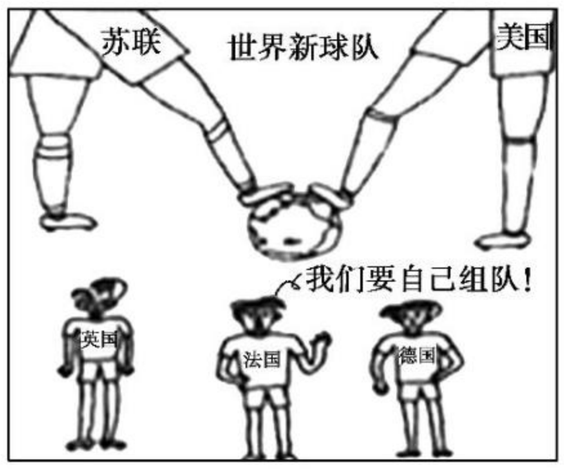

A. 东西方阵营对峙局面的形成

B. 区域经济合作的日益发展

C. 资本主义世界经济体系建立

D. 成员国内政外交趋于一致

17. 20 世纪 60 年代，全球共有 19 个区域经济一体化组织，70 年代增至 28 个，80 年代增至 32 个，进入 90 年代，世界区域经济一体化的组织已达 100 多个。材料说明（　　）

A. 经济全球化的高潮到来　　B. 世界经济发展速度越来越快

C. 经济合作发展成为共识　　D. 政治格局变化影响经济秩序

18. 据资料统计，目前全球跨国公司已达 6.4 万家，跨国公司的直接投资额占世界直接投资额的 90%，这说明（　　）

A. 跨国公司已垄断了世界经济　　B. 发达国家间的经济竞争激烈

C. 世界各国贸易壁垒已被清除　　D. 跨国公司推动了全球化发展

19. 20 世纪末期以来，经济全球化加速发展的最重要纽带是（　　）

A. 垄断组织　　B. 国际货币基金组织

C. 世界贸易组织　　D. 国际复兴开发银行

20. 世贸组织在其协定中有这样的规定：禁止成员国采用倾销或补贴等手段扰乱正常贸易的行为，并允许采取反倾销和反补贴的贸易补救措施，保证国际贸易进行。这一规定体现的原则是（　　）

A. 市场开放　　B. 公平贸易

C. 非歧视性　　D. 自主自愿

21. 世界各国大多数经济专家认为，经济全球化背景下，国家之间的竞争使民族国家推行本国政策的能力受到削弱，过去国家间的经济谈判涉及一些国家行为，而今涉及国家内部制度。这表明经济全球化（　　）

A. 促进国家之间的友好合作　　B. 缓和各国之间的矛盾

C. 损害部分国家的经济主权　　D. 加剧各国之间的矛盾

关注微信公众号“教辅资料站”获取更多学习资料

22. 1965 年，世界上 7 个最发达国家的人均收入是 7 个最贫穷国家人均收入的 19 倍，而到 1995 年，这一差距扩大到 38 倍。材料说明世界 （　　）

A. 文明发展的多样性　　B. 现代化进程有先后

C. 经济发展水平失衡　　D. 经济多极化的形成

23. 据《中华人民共和国经济史》：1992 年以来，中国政府多次公开宣布并执行了大面积、大幅度调低进口关税。中国的进口关税税率总水平从 1992 年的 43.2%降至 2002 年的 12%。以下对此现象理解最准确的是 （　　）

A. 加入世贸组织使中国经济迅速腾飞　　B. 世贸组织对贸易小国利益足够重视

C. 中国积极主动融入世界经济全球化　　D. 中国企业有技术、市场等绝对优势

24. 下图为中国财经报公布的 2016 年金砖五国数据，下列说法正确的是 （　　）

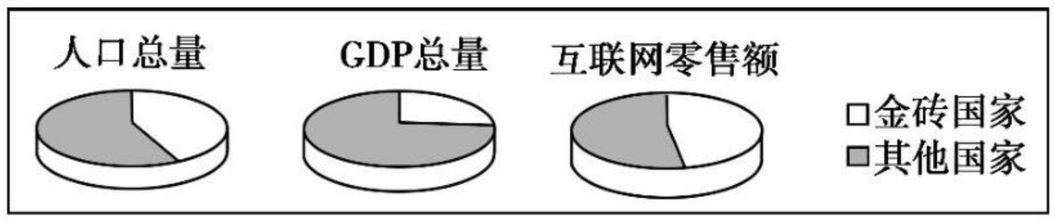

A. 发达国家仍居世界经济主导地位　　B. 金砖国家成为多极化格局的一极

C. 世界经济的区域集团化趋势加强　　D. 世界经济力量对比发生显著变化

25. 20 世纪 90 年代以来，经济全球化趋势大大加强。在现代化进程中出现了一系列重大问题，如资源与环境问题、战争与和平问题等。这些问题如果不能得到很好的解决，将威胁到全人类的生存和发展。这说明 （　　）

A. 全球化发展具有两重性　　B. 资源环境战争已威胁人类生存

C. 人类已形成了共同利益　　D. 经济全球化趋势进一步加强

二、非选择题（第 26 题 18 分，第 27 题 14 分，第 28 题 18 分，共 50 分）

26. 阅读下列材料，完成要求。

材料一：当流水一样滚滚而来的白银流入中国后，运出去的却是丝绸、瓷器、茶叶、蔗糖等。东西方之间的对决便输赢已定了。因为西方通过交易得到的是培育社会机能的营养——中国民众的超额劳动甚至生命价值，而东方（中国）得到的只是维持生命活力的血液。白银在明朝中期以后的大量输入，扩大了大一统经济系统的容量，促进了生产的扩张与贸易的发展，使濒于热寂状态的社会经济重新焕发了生机。但毫无疑问，这是以对自然和人力资源的超限榨取为代价的。白银推动着经济的轮子飞转，像抽水机一样把底层的财富抽向高处，阶级与地区之间的贫富分化空前加剧，基层民众尤其是白银所灌溉不到的边缘地区的民众陷入了一贫如洗的境地，遂使发生“资本主义萌芽”的核心区因为得不到支持而迅速枯萎，最终导致整个民族在经济上沦为西方的附庸。

——摘编自李宪堂《白银在明清社会经济中生发的双重效应》

材料二：1944 年 7 月，在联合国国际货币金融会议上确立了布雷顿森林体系。随后建立了两大国际金融机构即国际货币基金组织与国际复兴开发银行（即现在的世界银行）。前者负责向成员提供短期贷款，目的是保障国际货币体系的稳定；后者提供中长期贷款促进成员经济复苏。这确立了美元和黄金挂钩及固定汇率制度，结束了混乱的国际金融秩序，为国际贸易的扩大和世界经济增长创造了有利的外部条件。美元作为储备货币和国际清偿手段，弥补了黄金的不足，提高了全球的购买力，促进了国际贸易和跨国投资。20 世纪 70 年代初，在日本、西欧崛起的同时，美国经济实力相对削弱，无力承担稳定美元汇率的责任。1971 年 8 月 15 日，尼克松政府宣布停止履行外国政府或中央银行可用美元向美国兑换黄金的义务。1973 年 2 月，美元进一步贬值，世界各主要货币由于受投机商冲击被迫实行浮动汇率制度，布雷顿森林体系至此完全崩溃。

——摘编自黄楠《善变美元搞垮布雷顿森林体系》

（1）根据材料一并结合所学知识，分析明清时期白银大量流入中国的原因及对中国社会经济的影响。（10 分）

（2）根据以上材料并结合所学知识，分析布雷顿森林体系、国际货币基金组织与国际复兴开发银行对二战后世界经济恢复的共同作用。（8 分）

关注微信公众号“教辅资料站”获取更多学习资料

27. 经济区域合作不仅有助于经济全球化的深入，也有利于该地区经济的共同发展。阅读下列材料，回答问题。

材料一：北美自由贸易区在区域一体化组织模式上具有创新价值。由于成员国经济发展差别悬殊，决定了北美自由贸易区形成一套差别性的法律制度。……虽然北美自由贸易区不存在超国家因素机构的统一立法和司法，但却特别强调法律规则的精确性。北美自由贸易区的成功运作表明，南北关系应是一种双赢而不是一种零和的关系。

——摘编自王春婕《北美自由贸易区模式的创新价值探析》

材料二：当前，中国经济和世界经济高度关联。中国将一以贯之地坚持对外开放的基本国策，构建全方位开放新格局，深度融入世界经济体系。……“一带一路”致力于亚欧非大陆及附近海洋的互联互通，在基础设施互联互通、产业投资、资源开发、经贸合作、金融合作、人文交流、生态保护、海上合作等领域加强合作，推动沿线各国实现经济政策协调，共同打造开放、包容、均衡、普惠的区域经济合作架构。

——摘编自《推动共建丝绸之路经济带和21世纪海上丝绸之路的愿景与行动》

(1)根据材料一，概括北美自由贸易区的组织特点，并指出其成功运作对本区域经济发展的影响。(8分)

(2)根据材料和所学知识，分析中国推动建设“一带一路”的时代背景，并指出北美自由贸易区和“一带一路”战略所蕴含的共同理念。(6分)

28. 近现代以来世界经济发展呈现全球化趋势。阅读下列材料，回答问题。

材料一：从历史看，全球化分几个阶段，主导方式不停变化。第一阶段是1500年到工业革命时期，强国通过海上战争控制航路，击溃竞争对手商船船队寻求贸易垄断，建立主导性的全球贸易网络。第二阶段是英国工业革命后，强国以殖民方式在全球进行原材料掠夺和市场扩张，这个时期的全球化本质上是种“帝国模式”，英国是霸权国。第三阶段是二战后，世界各国间逐渐走向全球性相互依赖，国家间处理彼此关系的行为方式也发生了变化，最强大的国家认为以战争方式开疆拓土得不偿失，战争无异于自杀，美国靠贸易就能致富。

——摘自徐秀军、刘贞晔等的《特朗普会大开经济全球化倒车吗?》

材料二：1990年后，全球经济开始为公众所注意，国家间贸易的扩大，对外投资的增加，资本的自由流动，国有企业的私有化，政府干预的减少和新型合作的出现，通信技术的进展……推动了世界经济的全球化。1995年世贸组织建立，成为解决国际争端的舞台，拥有行使决定的权力。

——摘自杰里·齐格勒的《新全球史》

材料三：经济全球化对第三世界来说，风险多于机会，代价大于利益。中国加入世贸组织等于穿上了一件紧身囚衣。美国政府认为，中国进入世贸组织后势必造成失业狂潮，这样中国社会就不会稳定，政府就可能垮台。全球化是美国政治精英的一个重大阴谋，这在美国决策圈实际上早就是公开的秘密。

——摘自马立诚的《最近四十年中国社会思潮》

(1)据材料一，概括全球化三个阶段的特征。结合所学知识，指出“美国靠贸易致富”的有效机构。(6分)

(2)据材料二并结合所学知识，指出“推动世界经济全球化”的主要因素。(6分)

(3)据材料三并结合所学知识，指出我们应如何正确认识全球化对第三世界国家的影响？经济全球化的实质是什么？(6分)

关注微信公众号“教辅资料站”获取更多学习资料

班级 姓名 考场号 准考证号
密 封 线
历史 必修2 RJ

骄子之路®
the Road to Pride
让 学习更快乐，人生更精彩

答案与解析

与45分钟课时作业与单元测试配套使用

历史

必修2·RJ

班级：_____

姓名：_____

关注微信公众号“教辅资料站”获取更多学习资料

第一部分　课时作业

第一单元　古代中国经济的基本结构与特点

第1课　发达的古代农业

课前自检自查练

①耒耜　②牛耕　③耦犁　④曲辕犁　⑤垄作法　⑥代田法　⑦耕耙耱　⑧一年一熟　⑨都江堰　⑩翻车　⑪私有制　⑫一家一户　⑬基本模式

对点训练

1. 选B　原始社会是典型的刀耕火种，“唯以刀伐木，纵火焚烧”正是这种耕作方式的体现，故B项正确；A项是春秋战国以后的耕作方式；C项与材料所述的特点不符；D项是生产组织形式，不是耕作方式，故A、C、D三项排除。
2. 选B　春秋战国时期，铁农具的使用，大大推动了生产力的发展，农业实现了革命性的突破，故B项正确。
3. 选D　曲辕犁安装了犁评，可以调节犁耕的深浅，使耕作更自如、更轻便，标志着我国犁耕技术的成熟，故D项正确。
4. 选A　“天府裕”指的是四川成都平原，战国时期李冰父子修建的都江堰水利工程位于四川成都，都江堰的修建促进了成都平原农业发展，故A项正确；郑国渠位于陕西境内，故B项错误；白渠位于陕西境内，故C项错误；灵渠位于广西境内，故D项错误。
5. 选D　材料“把田地开成一条条垄和沟，每年轮换在沟和垄上栽种，这样可以合理利用地力、保苗抗旱”的信息反映了我国古代农业经济的特点是精耕细作，故答案选D项。
6. 选A　《调笑令》描述的是利用水力进行农田灌溉的水利工具，即唐朝的筒车，故选A项；翻车是曹魏时期利用人力灌溉农田的工具，故B项错误；曲辕犁为耕作工具，水排为冶铁工具，均与材料信息不符，故C、D两项错误。
7. 选A　小农经济形成于春秋战国时期，它产生的根本原因是铁农具、牛耕的使用和推广，铁农具由于生产成本低廉、制造工艺简单，对个体生产的发展产生的影响大于牛耕的推广，故答案为A项；耕牛相对铁农具而言，成本要高，不及铁农具使用更广泛，故排除B项；C、D两项与题意无关，均排除。
8. 选D　图片中女子在家织布，男子在田间耕作，这反映了男耕女织，故D项正确；图片信息没有反映饲养业，A项错误；精耕细作指的是在一定面积的土地上，投入较多的生产资料、劳动和技术，进行细致的土地耕作，最大限度提高单位面积产量，图片信息不能反映，故B项错误；图片信息不能反映男尊女卑的家庭关系，故C项错误。

学考基础合格练

1. 选C　农作物品种经历了一个由多到少的过程，表明长期农业实践中存在培优选优、作物历经选择的过程，故C项正确。
2. 选A　春秋战国时期，由于铁犁牛耕的出现，生产力的发展，我国的水利建设出现了一次高潮，故A项正确；水利技术的进步对水利建设具有一定促进作用，但不是主要作用，故B项错误；春秋战国时期，兼并战争频繁，政治局面不稳定，故C项错误；耕作技术的进步对水利的开发建设有一定需要，但非主要因素，故D项错误。
3. 选B　“用一人牵，傍一人执耧，且行且摇，种乃自下”可知反映的是兼有耕种和播种功能的农具耧车，出现的时间是西汉，故B项正确。
4. 选C　根据材料信息“可以调节犁耕的深浅”可知是曲辕犁，故选C项。
5. 选D　根据关键词“俟风转车，风息则止”可以判断此灌溉工具借助的是风力，A项是水力的高转筒车，宋代所用，故排除；B项为曹魏时期的翻车，借用的是人力，故排除；C项是唐朝的筒车，借助的是水力，故排除；D项是风力水车，借助的是风力，故D项正确。
6. 选C　从材料中的“种田”“过年”“换油盐针线”等信息得出小农经济自给自足的特点，故选C项；材料中没有体现男耕女织等信息，故A项错误；材料内容从产品用途方面体现小农经济的自给自足的特点，无法体现极端贫困，故B项错误；自产自销不是小农经济的特点，故D项错误。
7. **解析**：第(1)问，结合中国古代农业耕作工具的发展与演变以及农业发展的状况来分析。第(2)问，根据图片及中国古代小农经济的特点分析即可。第(3)问，第一小问根据“劝勉农桑和宣传农业生产技术”即可概括；第二小问从农具、政府的重农政策及农业生产所需要的基本因素等方面概括即可。

   答案：(1)影响：铁犁牛耕是中国古代社会生产中农用动力的一次革新；奠定了中国古代农具的基本模型；促进了农业的长足发展。

   (2)特点：生产工具种类多，比较齐全；精耕细作。

   (3)本质问题：宋朝政府重视农业生产技术的推广。原因：生产工具的改进和生产技术的提高；政府的重农政策；国家的统一和社会秩序的稳定。

课时加餐拔高练

课后加餐练

1. 选A　材料信息“砍山”“众木尽嘬”“明日雨作，乘热下种”说明这种耕作方式的特征是放火烧山，用草木灰作为肥料。这是一种典型的“刀耕火种”的耕作方式，故选A项。
2. 选C　从材料“一年之中，无月不可以降雨”可以看出，商代对雨水的记载比较多，降雨有利于农业生产，因此在商代农业生产具有重要地位，故C项正确；材料中没有体现出节气，故A项错误；材料反映的是商朝对雨水的记载，故B项错误；材料中没有体现出神权的作用，故D项错误。
3. 选A　根据材料现象可知为男耕女织的分工模式，体现了自给自足的小农经济的经营方式，故A项正确；材料中既有家庭手工业经济的生产方式，也有个体农耕模式，故B项排除；材料无法证明妇女的地位提高，C项排除；题干内容与商品经济无关，D项排除。
4. 选C　汉代南方地区尚未得到充分开发，人口数量有限，并非人多地少，故A项错误；西北地区年人均耕田数多于南方，但平均亩产量和粮食总收入量均低于南方，说明西北生产力水平低于南方，故B项错误；中原地区平均亩产量和粮食总收入量高于南方和西北，说明中原地区精耕细作技术领先，故C项正确；南方地区自然地理条件优于中原，但生产力水平却低于南方，说明地理环境并非农业生产水平的决定性因素，故D项错误。
5. 选A　材料指出古代农业生产中耕作、施肥、灌溉等技术要点，这些谚语强调了中国古代农业生产的精耕细作特点。
6. 选D　材料中规定保护耕牛，体现了保护农业生产，反映出小农经济地位的重要性，故D项正确。

关注微信公众号“教辅资料站”获取更多学习资料

7. 选 B　耧车是播种工具，故 A 项错误；“脚痛腰酸”“高田车进低田出”说明是依靠人力的翻车，故 B 项正确；筒车是依靠水力，与题干意思不符，故 C 项错误；风车是利用风带动水车提水的一种工具，故 D 项错误。
8. 选 C　材料是出现在甘肃敦煌地区的壁画，艺术是现实的体现，说明当时西北地区已经使用耕犁技术，故 C 项正确。
9. 选 B　材料没有黍广泛种植的信息，排除 A 项；由材料“杀鸡为黍食”和“故人具鸡黍”，说明五谷之一的黍是待客的重要食物，故选 B 项；材料没有涉及黍的产量问题，排除 C 项；黍作为五谷之一，材料反映黍成为饮食的重要组成部分，排除 D 项。
10. 选 D　农产品的商品化表现在农产品出现在市场上并进行流通，材料中并未体现，故 A 项错误；根据材料中“女子喂蚕忙”，故生活悠闲无从谈起，故 B 项错误；采桑喂蚕不属于精耕细作，精耕细作指单位面积土地上投入更多的人力、物力，故 C 项错误；一个家庭中男采桑女喂蚕，分工明确，是小农经济中的男耕女织的表现，故 D 项正确。
11. **解析**：第(1)问，第一、二小问通过材料并结合所学知识回答即可；第三小问结合所学知识可知是精耕细作的特点。第(2)问，据材料二进行概括即可。第(3)问，材料三中的“内环境”与“外环境”在材料中直接概括即可。

答案：(1)技术：代田法；耦犁(二牛三人耕作法)。作用：产量增加；耕地面积扩大。特点：精耕细作。

(2)原因：生产(生活)艰辛；自然灾害破坏；赋税沉重。

(3)内环境：自然环境(耕地)、技术和农具、农作物、劳动力。外环境：国家政策(体制)。

认识：小农经济在封建社会的早期已经得到较快发展，但受到封建体制(社会环境)的阻碍，无法获得突破性发展。

课后拔高练

1. 选 D　由材料“战国后期，秦国建造了一批大型水利工程，如郑国渠、都江堰等”可知，商鞅变法后秦国建立了集权统治，推动国家组织人力、物力、财力开展大规模的经济建设，故选 D 项；战国后期，井田制遭破坏，封建土地私有制逐步确立，公田制度是受到了破坏而非完善，排除 A 项；战国时期铁农具推广，秦汉时期得以普及，排除 B 项；秦统一六国后修筑驰道、直道，加强了交通运输，排除 C 项。
2. 选 C　新航路的开辟推动了美洲农作物的传播，与材料时间不符，故 A 项错误；耕作技术的进步，与土地兼并的加剧无关，故 B 项错误；据材料“南方民众在丘陵山区的坡地开垦耕地”，可知梯田适应了南方地形，推动南方的深入开发，故 C 项正确；人口南迁推动梯田的开垦，而不是开垦耕地刺激了人口南迁，故 D 项错误。
3. 选 C　根据材料“北朝时，嗜好奶类制品的北方人常常嘲笑南方人的喝茶习俗”推断，北朝时，南茶已在北方出现，而不是唐代才开始北运，故 A 项错误；材料涉及的仅是喝茶习俗在北方的影响，无法推断南北方饮食习惯趋于一致，故 B 项错误；由材料“北方人常常嘲笑南方人的喝茶习俗”到北方城市中“多开店铺，煎茶卖之，不问道俗，投钱取饮”，可以看出南方经济文化影响力上升，故 C 项正确；材料只是提及北方城市中有很多南方的饮食习俗，无法体现经济水平的高低，故 D 项错误。
4. 选 D　图片反映的是集体劳动的场景，而非个体农户分散的生产劳作状态，故 A 项错误；图片没有反映出通过耕作技术的进步来提高单位面积产量，因此不能说明精耕细作农业的不断发展，故 B 项错误；汉代封建土地私有制已经确立，不存在土地公有制，故 C 项错误；图片反映出汉代豪强地主在庄园内驱使农民集体生产的情形，故 D 项正确。
5. 选 C　畜力与铁制农具的使用，导致农业收益的增加，故 A 项错误；农业是手工业和商业的基础，农业收益的增加会促进手工业和商业的发展，故 B 项错误；战国时期，农业劳动生产率提高，农业收益增加，使得以家庭为单位，自给自足的生产成为可能，从而促进了个体小农经济的形成，故 C 项正确；农业收益增加，会刺激土地兼并，导致大土地所有制的成长，故 D 项错误。
6. 选 C　从东汉末年开始，受中原地区战乱等因素的影响，中原人民开始南迁，为南方带去了先进的生产技术，促进了江南地区的开发，推动了经济重心的南移，故 C 项符合题意。A、D 两项是商业发展的表现和影响，故排除；土地集中加剧是土地私有制发展的结果，与经济重心的南移关联不大，故排除 B 项。

第 2 课　古代手工业的进步

课前自检自查练

[1]工商食官　[2]冶铁　[3]大作坊　[4]斜纹提花　[5]水排　[6]灌钢法　[7]南青北白　[8]波斯　[9]珐琅彩　[10]织造局　[11]赋税　[12]民间消费　[13]黄道婆　[14]民营手工业　[15]丝绸之路　[16]瓷器大国

对点训练

1. 选 B　中国的古代青铜器，由于成本高，质地脆，较少在农业生产中使用，很少做成一般器物，排除 A、C、D 三项；中国古代的青铜器主要作礼器和兵器，故选 B 项。
2. 选 A　我国古代把工匠的住处安排在官府，可见中国古代的手工业发展依附于官府，是一种官营手工业，故 A 项正确；材料体现的中国古代手工业形态是官营手工业，并非家庭手工业，B 项错误；材料并未体现民营手工业，C 项错误；D 项的内容与材料不符，错误。
3. 选 C　“一曰布，二曰绢，三曰施，四曰纱……八曰绮”表明品种丰富，故 C 项正确。
4. 选 B　根据材料信息“色白花青的锦鲤跃然于碗底”可知 B 项正确。
5. 选 D　根据材料信息只能看出纺车等工具和纺织方式，而不能看出产品流向和纺织业的比例问题等，无法判断是何种形态手工业，故 A 项错误；材料中并无产品流向，故 B 项错误；静态的图片信息无法体现商品经济和手工业发展这种动态的史实，故 C 项错误；图片中的纺车是手工生产，符合图片信息，故 D 项正确。
6. 选 A　由“皆工织作”“比户相闻”可知，苏杭地区纺织业中民营手工业发达，故选 A 项；B 项不符合史实，C 项与材料信息不符，D 项无法从材料中得以体现，故均排除。
7. 选 B　材料体现了雇佣关系的出现(“募旁邑民为佣”“佣值二铢而赢”)，反映的实质问题是当地出现资本主义萌芽，故选 B 项。
8. 选 A　明朝烧制带有阿拉伯文和梵文图案的瓷器是为了适应海外市场对中国瓷器的需要，侧面反映了明朝对外经济文化交流的情况，故选 A 项；阿拉伯文和梵文是外国文字，所以反映的是与外国的联系，B 项错误；明朝瓷器不是都卖给贵族，C 项错误；唐朝实行兼容并蓄的对外政策，D 项错误。

学考基础合格练

1. 选 A　古代中国手工业的主要经营形态中，能征调最优秀的工匠、控制最好的原料、生产精美的产品的是官营手工业，故选 A 项。

关注微信公众号“教辅资料站”获取更多学习资料

2. 选C　在原始社会，我国就出现了种桑养蚕现象，故A项错误；材料反映了商代丝织业的发展情况，没有涉及商代丝、帛等成为主要衣料，故B项错误；由材料“商代甲骨文中出现蚕、帛、丝、桑等字”“与蚕丝有关的文字100多个”信息可知，商代丝织业有一定程度的发展，故C项正确；材料无法体现出商代丝织业成为重要的手工业部门，故D项错误。
3. 选C　根据题干叙述的技术特点，结合所学知识判断，该项技术是灌钢法，出现于南北朝，故选C项。
4. 选A　元代，棉纺织业是家庭手工业生产的主要形式，故A项正确。
5. 选C　明朝产生的资本主义萌芽的表现是“机户出资，机工出力”，即雇佣劳动关系，故C项正确。进行商品生产不一定是资本主义生产关系，A项错误；使用手工业机械进行集中劳动可能是田庄手工业，不一定是雇佣劳动和资本主义生产关系，B项错误；资本主义萌芽的本质特征是出现雇佣劳动关系，商人投入资金控制手工业生产不能体现雇佣关系，D项错误。
6. 选B　由材料“丝路花雨”可知贸易通道流通的主要商品是丝织品，故B项正确。
7. **解析**：第(1)问，根据图片，可从规模、技术含量、用途、地位等方面来概括。第(2)问，根据材料二中的“铜质工具”即可分析出铜在使用方向上的变化。第(3)问，“应用领域”要结合第(2)问以及材料三来概括；“影响”根据前一小问中的两个领域来回答。

答案：(1)特点：生产规模较大，铸造工艺高超；铸造的青铜器大多作为礼制的象征，代表权力和秩序。

(2)变化：应用于生产领域，出现了铜质工具。

(3)领域：生产和军事领域(铁器被制成工具和武器)。影响：为农业生产提供了先进的农具，促进了农业的迅速发展；提高了军队战斗力，增强了国家的军事实力。

课时加餐拔高练

课后加餐练

1. 选B　从材料可以看出，“吾”需要通过制作鞋子、销售鞋子来维持生计，说明是民营手工业者。
2. 选A　材料的核心信息：一是春秋时期的官方手工技术专著《考工记》，二是关于铜锡合金制作的工艺，不同比例配料制造不同的手工业产品，这是青铜铸造技术先进的表现，故答案为A项；材料不涉及铁器内容，排除B、D两项；材料与手工业生产规模没有关系，排除C项。
3. 选C　战国时期青铜器物勒工名，即器物上刻制(督)造者名字，方便管理者检验产品质量，体现了当时手工业生产的管理模式，兵器督造有中央官员相邦吕不韦和张仪，地方官员上郡守和陇西守等，故C项正确；A项在材料中没有体现；B、D两项仅凭材料无法得出，排除。
4. 选A　抓住时间限定“汉武帝后”。材料介绍的是汉武帝前后汉代冶铁技术的发展，主要原因是国家政策的支持，西汉武帝以后，煮盐、冶铁、铸钱等最有利可图的行业，都收归官办，盐铁官营的政策推动冶铁技术的发展，故答案选A项。B项不符合题意，C项出现于东汉初，D项不是主要原因，均排除。
5. 选C　这首诗主要描绘了一幅妇女弹棉、纺棉的图画。棉纺织技术高度发达是在元朝，故A项错误；纺织行业出现资本主义萌芽是在明朝中后期，故B项错误；“车转轻雷秋纺雪，弓弯半月夜弹云”，说明在宋代的棉纺织行业已经出现了“纺车”这一纺织工具，故C项正确；《木棉》这首诗主要描绘了弹棉、纺棉的图画，没有涉及“衣食结构发生变化”，故D项错误。
6. 选D　依据“织与不织，总要吃饭”“不算工本，自然有赢”可知，家庭手工业生产成本较低，故选D项。A、B、C三项与题意无关，排除。
7. 选C　材料中官方设法保护“手工业技术的世代传习”甚至干涉手工业者的婚姻，这导致手工业技术只能在极封闭的范围内传播，故选C项。
8. 选A　材料“官搭民烧”以及景德镇民营手工业“形器走天下”，说明民营手工业超过官营手工业，故A项正确；重农抑商政策的松动是在甲午战争后，故B项错误；材料没有体现雇佣关系，故C项错误；“景德镇瓷器天下无双”不是材料所反映的主要内容，故D项错误。
9. 选B　材料没有体现农业生产遭到严重破坏，故A项错误；材料“城镇附近农户不事农耕，‘尽逐绫绸之利’，渐成风尚”可知家庭手工业注重面向市场，故B项正确；材料“‘尽逐绫绸之利’，渐成风尚”只能说明农户重视商业利润，但不能说拜金主义之风盛行，故C项错误；资本主义工商业发展迅速的表现是出现雇佣劳动，材料中没有涉及，故D项错误。
10. 选A　题干反映了中国瓷器面向世界，根据市场需要进行生产，故A项正确；官窑的产品主要是为政府、皇家服务，不会出现大量投放市场的现象，故B项错误；C项材料无体现；题干强调的是中国在欧洲市场上的瓷器具有欧洲风格，没有体现欧洲采用中国制瓷技艺，故D项错误。
11. **解析**：第(1)问，根据“采桑”“纺织”“锦袍”等信息可知与养蚕缫丝及丝织业有关。第(2)问，抓住材料二中的关键信息“桑麻遍野”“织诸色纻帛”“备极精工”“常满户外”“尚不能应”等归纳概括。第(3)问，抓住材料三中“缎”工、“纱”工、“车匠”等信息分析。

答案：(1)历史信息：中国很早就养蚕缫丝，中国古代丝织业发达，丝织品十分精美。

(2)原因：发展丝织业的原材料丰富；丝织品品种多，花样全；丝织品质量好；产品销路好，供不应求；注重扩大再生产。

(3)新动向：雇佣的劳动力增加；机织业分工更细；手工工场数量增多。

课后拔高练

1. 选D　材料铁器实物并非就是铁制农具，故A项错误；图中新疆地区出现铁器实物，但不能推断它与中原地区铁器实物的关系，故B项错误；图中铁器实物并没有广泛分布，可见冶铁技术还未普及，故C项错误；当时的经济重心在黄河流域，因此图中黄河流域分布较其他地区更加广泛，可见铁器分布可反映社会发展程度，故D项正确。
2. 选A　根据“成百上千个采用新制盐技术的竹筒井”可知井研县制盐业规模较大，并且井主所雇工匠具有选择权，可看出井研县制盐业不是官营手工业，而是民营手工业，故A项正确；材料所反映的工匠仅是少部分手工业者，而且材料只是提及工匠对工作有自主权，无法体现社会地位高，故B项错误；材料反映的以“佣身赁力”为生的仅是少数井研县制盐业工匠，不能说明雇佣劳动普及，并且与史实不符，故C项错误；井研县制盐业的发展不能说明盐业专卖制度解体，解体的说法过于绝对化，故D项错误。
3. 选B　商周时期青铜器主要用作农具与材料的内容“青铜器在商周时期被视为‘政治的权力’”不符，故A项错误；商周时期青铜器主要用作礼器，因为礼器是政治权力的象征，故B项正确；商周时期青铜器主要用作食具与材料的内容“青铜器在商周时期被视为‘政治的权力’”不符，故C项错误；商周时期青铜器主要用作货币与材料的内容“青铜器在商周时期被视为‘政治的权力’”不符，故D项错误。

关注微信公众号“教辅资料站”获取更多学习资料

4. 选 D　铜镜的制作与发展可以追溯到商周青铜时代，每个时代有鲜明的特色。图中镜中的装饰物为葡萄，这种形状的葡萄是在汉代张骞通西域后才开始在中国种植，隋唐时代达到繁荣，与商代、周代、秦朝在时空上不符，唐代铜镜装饰中有葡萄海兽，选择 D 项符合题意。
5. 选 D　“胡锦”输入唐朝，并不可能改变唐代的社会生活，故 A 项错误；“内地也生产‘胡式锦’”说明唐朝手工业技术提高而不是衰落，故 B 项错误；材料中没有显示中外纺织技术的对比的信息，故 C 项错误；“‘波斯锦’‘胡锦’‘番锦’通过丝绸之路，不断输入中国”说明中外文化交流的加深，故 D 项正确。

第 3 课　古代商业的发展

课前自检自查练

1集市贸易　2飞钱　3交子　4大都　5农副产品
6民居　7市令　8大运河　9开封　10扬一益二
11市舶使　12泉州　13十三行　14朝贡贸易

对点训练

1. 选 B　“肇牵车牛远服贾，用孝养厥父母”译为在农闲的时候，用牛车载着商品，去远处的地方进行贸易，用来孝敬赡养父母，“如贾三倍，君子是识”译为好比奸商发横财，君子洞察目了然。因而可以用来研究商业发展，故 B 项正确。A、C、D 三项错误。
2. 选 A　“两张券合得起来就交钱”，这充分说明“交子”具有一定“防伪”功能，故 A 项正确；“交子”是商品经济发展的要求，但不符合材料信息，故 B 项错误；“交子”的出现促进了古代经济的发展，这不是材料的主旨信息，故 C 项错误；“交子”是货币，而唐代的飞钱是汇票，不能直接用于交易，故 D 项错误。
3. 选 D　由所学知识可知，明清时期出现了地域性的商人群体，叫做“商帮”。
4. 选 A　题干体现了临淄商业的繁荣，故 A 项正确；B 项说法属于夸大史实，错误；题干中并未体现政府的政策，故 C 项错误；题干中并未体现区域间的长途贩运，故 D 项错误。
5. 选 C　根据材料“在‘市’的中央设置亭楼，四面建有门、墙”可知西汉时期对市有严格的空间限制，反映出政府对市场管理严格，故 C 项正确；材料未能直接反映长安商业的繁荣状况，A 项排除；对市的严格管理与社会秩序混乱无直接联系，B 项排除；材料旨在体现政府对市的严格管理，与市场经营规模无关，D 项排除。
6. 选 D　材料反映出北宋夜市类型多元，商品服务丰富，私营为主，故答案为 D 项；材料没有反映社会非理性和过度消费等信息，A 项排除；材料没有体现商业管理政出多门、相互矛盾与朝令夕改等方面的信息，B 项排除；周秦至唐代坊市制下早已出现专业市场，并且材料信息无法体现按类型或行业分类的交易市场，C 项排除。
7. 选 D　根据图片可知宋代的瓷器大量出口，有专门的海上“陶瓷之路”，说明当时进行瓷器贸易有利可图，故 D 项正确。
8. 选 C　材料体现的是明清时期的朝贡贸易，这种贸易在政府主导下进行，政府往往“厚往薄来”“倍偿其价”，容易造成封建政府的财政负担。

学考基础合格练

1. 选 D　“买”“贮”“贷”“宝”这些古代带“贝”的文字，其含义都与商品贸易有关，因此，我们可以推断，贝在当时就是货币，故选 D 项。
2. 选 A　周朝实行“工商食官”政策，将手工业者和商人们集中起来，设官统一管理，为他们提供衣食，驱使他们为政府服务，故 A 项正确。
3. 选 C　由“前身于开元年间在广州设立，宋时正式设立”“被称为中国早期的‘海关’”等信息可知，该机构为由唐时设立的管理海上对外贸易的市舶使发展而来的市舶司，故选 C 项。
4. 选 D　“坊巷桥头及隐僻去处，俱是铺席买卖”说明坊和市的界限被打破，这种景象应出现在宋代。
5. 选 C　两宋时期，中外贸易繁荣，中国同东南亚、南亚、阿拉伯半岛和非洲的几十个国家进行贸易。
6. 选 C　“新安”在安徽、“山右”则指代山西，由此判断与 C 项中的商帮有关。
7. **解析**：第(1)问，第一小问特点，根据材料一的信息回答即可；第二小问根据“郡国”可知是郡国并行制，这是西汉初期实行的政治制度。第(2)问，第一小问表现，根据材料二的信息归纳；第二小问影响，布局上打破了坊市界限，功能上经济功能增强。第(3)问，第一小问发展，根据材料三“多徽商侨寓”“百货填集，甲于诸镇”得出答案；第二小问关系，综合材料不难看出城市与商业发展是相互促进的。
答案：(1)特点：位于交通便利处；商业繁荣；出现富商大贾。朝代：西汉。
(2)表现：出现瓦子(专门的娱乐场所)；服务业发展；夜市繁荣。影响：打破坊市界限；经济功能增强。
(3)发展：商业市镇繁荣；出现地域性商人群体(徽商)。关系：互相促进。

课时加餐拔高练

课后加餐练

1. 选 C　“吕不韦以自己的经济实力帮助嬴政之父秦异人争得王位”说明商品经济实力上升影响到政治领域，故 C 项正确；吕不韦是一位杰出的政治家只是现象，不是实质问题，A 项错误；战国时期的商业非常发达不符合史实，B 项错误；官商勾结不是材料主旨信息，D 项错误。
2. 选 D　题干反映了国家统一后的经济统一，小国此时已被统一，A 项排除；推动统一市场的因素为国家大一统，而非商品经济发展，B 项排除；题干未体现封建经济的保守倾向，C 项排除；秦朝统一六国后，统一货币、文字、度量衡，图片反映了秦国统一后经济统一的措施，故 D 项正确。
3. 选 A　“富商大贾周流天下”是汉代商业发展的情况，“草市迎江货，津桥税海商”是唐代商业发展情况，“夜市卖菱藕，春船载绮罗”反映的是唐代夜市的繁荣，“今朝半醉归草市，指点青帘上酒楼”反映的是宋代草市的情况，故 A 项正确，B、C、D 三项错误。
4. 选 B　中原传入西域基本上都是手工业产品或先进技术，而西域传入中原的主要是原始的农牧业产品，中原生产力发展水平相对西域来说是较高的，故答案为 B 项。材料不能反映“人民生活”因“外来物品传入”而“改善”，A 项排除；以物易物是生产力低下，物质极不丰富，部落或家庭之间偶尔发生的交换活动，它不是商贸的主要方式，C 项排除；材料反映的是物种的交换，不能体现商品经济发展，D 项排除。
5. 选 C　隋唐时期大一统局面的形成，有利于形成更为广阔的市场，促使商业的发展，故 C 项正确。
6. 选 C　根据题干诗句可知当时的扬州水陆交通繁荣，在唐代已经成为繁华的商业都市，故 C 项正确；A 项诗句中未反映扬州外商云集的盛况，无法体现其国际大都会的地位，故排除；题干未体现扬州的政治作用，故 B 项排除；北宋时期城市出现娱乐场所，与材料时间不符，故 D 项排除。
7. 选 D　中国古代长期推行“重农抑商”政策，故 A、B 两项错误；C 项与材料中“但中国的商业与城市一向都是在体制内发展的”不符；中国古代城市的政治性、军事性很强，与材料中“城市一向都是在体制内发展的”相符，故 D 项正确。

关注微信公众号“教辅资料站”获取更多学习资料

8. 选A　“置草市尉司察之”说明南朝时的草市由政府实行行政管理，故A项正确；材料并不能说明草市成为地方商业中心，故B项错误；材料中没有饮食服务设施的信息，故C项错误；材料也无法体现市场不受官吏直接监管，故D项错误。

9. 选A　材料“滇南车马，纵贯辽阳；岭徼宦商，衡游蓟北”，反映了明代境内交通南北东西畅通，商品交流无碍，国内市场统一，故A项正确。

10. 选D　明清时期中国对外贸易在新航路开辟的影响下，开始与英国等西欧国家形成直接贸易关系，这成为明清对外贸易的新特点，故D项正确；明朝中后期陆上丝绸之路被奥斯曼帝国垄断，但没有断绝，故A项错误；明清海上贸易的主体是官方贸易，故B项错误；此时的瓷器、茶叶等成为对外贸易中的主要商品，故C项错误。

11. **解析**：第(1)问，第一小问“布局状况”根据材料一信息“宫殿、官署都被围在宫城和皇城的高墙之中，坊区排列纵横有序，被南北十四条大街和东西十一条大街分割成棋盘状，市区则被固定在东西两区，有墙隔断，与坊区分开”概括得出：市、坊严格分开；街道纵横有序。第二小问“原因”依据所学知识从君主专制加强、商业政策、加强管理等角度分析。第(2)问，“主要因素”，依据材料二信息“江南地区自唐宋时代开始逐渐成为中国的经济中心，明中叶以后，当地传统市镇的军事及行政机能渐趋退化，商业机能日渐凸现，其规模和数量远超过宋代。至盛清时代，市镇经济呈现出空前繁荣的景象，市镇和农村之间逐渐形成一种生产与贸易的连锁体，构成市镇网络”并结合所学知识从政府的政治经济政策、地理位置、经济的发展、商品生产和消费市场的规模等角度分析。

答案：(1)状况：市、坊严格分开；街道纵横有序，呈棋盘状。

原因：君主专制加强；隋唐政府对商业发展的抑制；加强对人民和商业活动管理的需要。

(2)主要因素：政府的政治经济决策；地理位置；经济的发展；商品生产和消费市场的规模等。

课后拔高练

1. 选D　材料“大运河流经的东昌府是山东最重要的棉花产区，所产棉花多由江淮商人坐地收揽，沿运河运至江南，而后返销棉布”说明山东是江南的原料产地和棉布市场，而江南是棉布的生产地，棉织业发达，这体现了地区经济的差异，故选D项；大运河是其共同的交通方式，交通方式没有变革或差异，排除A项；材料涉及的是商业和手工业，与土地制度调整无关，且明朝仍旧以地主土地所有制为主，排除B项；国家货币制度的变化不会带来国内地区差异，排除C项。

2. 选C　由材料“明代大商人的资本一般为白银数十万两，多者上百万两。到清代中期，大商人的资本一般在一百万两以上，甚至多达千万两”可知，明清时期商业规模的扩大促使资本的集中，故选C项；古代商人地位受到重农抑商政策的影响地位较低，且“根本性改变”表述过于绝对化，排除A项；封建社会统治者一直固守重农抑商的政策，且“明显松弛”表述过于绝对化，排除B项；明朝后期，由于商品经济的发展，白银成为普遍流通的货币，排除D项。

3. 选D　材料表明当时杭州餐饮业的发展，是城市经济发展的反映，与奢靡之风无关，故A项错误；宋高宗的召见，体现出商人的社会地位有所提高，但不是政治地位，故B项错误；材料宋高宗的召见，是对该鱼羹店味道的肯定，与政府强化市场管理无关，故C项错误；据材料“杭州的餐饮名店遍布全城”，可得出餐饮业的发展，城市的经济功能增强，故D项正确。

4. 选B　绘画不是材料关注的重点，并且元朝时就已经出现文人画，此画并不是新的类型，故A项错误；明朝君臣将外国使臣进贡的奇珍异兽解释为中国传说中的祥瑞之物“麒麟”，表明了朝廷用中国文化解读朝贡贸易贡品，故B项正确；明成祖虽派郑和下西洋，但并未解除海禁政策，开放的只是朝贡贸易，故C项错误；外国使臣进贡的奇珍异兽虽为外来物品，但却被明朝君臣用中国传统文化解读，并没有形成新的观念，故D项错误。

5. 选A　根据图示，陶、曹、鲁均为黄河中下游地区，经济相对发达且相距较近，有利于商贸发展，故A项正确；争霸战争导致社会生产的破坏，影响经济的交往，故B项错误；图示中没有陶、曹、鲁之间的相关交通信息，故C项错误；材料主要讲述范蠡和子贡经商致富，没有涉及城市规模的扩大，故D项错误。

6. 选C　材料反映了西汉时期很多人“通过自己的努力和智慧而致富”，而没有提到当时人们义利观念的变化，故A项错误；材料主要强调工商业者通过自己的努力和智慧致富，而西汉实行“重农抑商”政策，朝廷不可能注重提高工商业者的地位，故B项错误；根据材料“大者倾郡，中者倾县，下者倾乡里者，不可胜数”可知很多人发家致富，说明当时经济得到恢复和发展，故C项正确；材料“大者倾郡，中者倾县，下者倾乡里者”反映了当时人民的富有，而这些富人并非都是豪强地主，财富多少与是否控制郡县无关，故D项错误。

7. 选B　材料涉及的是饮食器具使用上的变化，无法体现君主专制统治的强化，故A项错误；明朝后期，连低级官员乃至普通人家也都使用玉制器皿，说明社会经济的发展，原有的等级秩序受到冲击，故B项正确；明朝时儒家的伦理文化是最为成熟且一直占据统治地位的主流文化，故C项错误；使用玉制器皿的人群不只是低级官员，还有普通人家，且使用玉制器皿与奢靡风气没有直接关系，故D项错误。

第4课　古代的经济政策

课前自检自查练

①土地国有　②集体耕种　③商鞅变法　④土地私有制
⑤小农经济　⑥重农抑商　⑦倭寇　⑧互市
⑨原始积累　⑩抗清

对点训练

1. 选D　公元前594年属于公元前6世纪初期，故D项正确。

2. 选A　由“不在求田亩之绝对均给，只求富者稍有一限度，贫者亦有一最低之水准”可知，该“制”为均田制，由所学知识可知，推行均田制的目的是抑制土地兼并，故A项正确。

3. 选B　封建社会由于土地兼并现象严重，从而导致“有力者无田可耕，有田者无力可耕”，其根源是土地私有制的确立，故B项正确；A、D两项的表述均由B项所致，故与题干中的设问要求不符，排除；面对土地兼并现象，封建政府曾采取措施进行抑制，故C项错误。

4. 选B　古代中国长期以来实行重农抑商的政策，题干图片的对话反映了这一问题，B项符合题意。

5. 选B　材料反映朱元璋以逮捕的手段惩戒不从事农业劳动者，以“身份歧视”的方式重农抑商，其根本目的是保护小农经济，故选B项；A、C两项是重农抑商的手段，排除；D项是重农抑商政策的直接目的，而不是根本目的，排除。

6. 选C　根据材料信息“禁止建造远洋船只，禁止保留超过两根以上的桅杆帆船”可知C项正确；A项在材料中无法体现，排除；B、D两项与史实不符，排除。

关注微信公众号“教辅资料站”获取更多学习资料

7. 选D　从材料“外人也是不自由的”“不能随便出游”可知清政府严格限制对外交往，故选D项。
8. 选A　据材料“求全关不开”可知，乾隆帝主张闭关锁国，导致中国落后于世界发展的潮流，故A项正确；闭关锁国是小农经济的封闭性的要求，故B项错误；抑制了明清时期社会转型属于当时的影响，故C项错误；乾隆帝这一思想在一定程度上保障了国家安全，这是当时的影响，不是深远影响，故D项错误。

学考基础合格练

1. 选C　材料中“溥天之下，莫非王土”是国有土地制度的典型特征。西周时期实行井田制，战国时期商鞅变法“废井田，开阡陌”，废除井田制，确立封建土地私有制，实现土地国有向封建土地私有转变，是土地所有制的变化，故选C项。
2. 选B　井田制是商周时期的土地制度，故A项错误；均田制是北魏至唐朝前期实行的封建社会土地国有制，故B项正确；“国家授田给农民，农民承担赋役”反映的是封建社会土地国有制，不是公田和私田制度，故C、D两项错误。
3. 选C　材料中“制止弃农经商，未经允许从商者罚作奴隶”，体现重视农业，限制商业发展，即“重农抑商”政策，故选C项。
4. 选D　材料反映汉朝时期的商人有专门的户籍，并且还不能拥有品质好的田地，否则田货就会被没收，该禁令的主要目的是防止商人占有田地，以免影响小农经济的正常发展，故答案选D项。
5. 选D　依据材料信息可知，为了防止沿海人民入海通商，潜通海贼，同谋结聚，祸患中国，该官员支持实行“海禁”政策，D项符合题意。
6. 选A　明清统治者采取消极逃避政策，推行“海禁”和“闭关锁国”政策，错失了开辟海外市场的机会，故A项正确。
7. **解析**：第(1)问，第一小问，依据材料一中“绝接济台湾之患”等信息可分析得出康熙推行“海禁”政策的原因是为了封锁台湾；第二小问，依据材料一中“生灵之祸，莫惨于此”等信息可分析得出“海禁”政策给广东居民带来灾难。第(2)问，第一小问，依据材料二中“此即海贼之薮也”等信息分析可得出康熙帝推行“海禁”是为了清除海贼。第二小问，比较材料一中“空其人”等信息及材料二中“可使贸易”“不可令往”等信息可得出材料一是完全禁止，材料二是限制。

   答案：(1)原因：封锁台湾(或收复台湾需要)。影响：给沿海居民带来巨大灾难。

   (2)主要目的：清除海贼(防止沿海商人与海盗勾结)。

   材料一：完全禁止；材料二：限制。

课时加餐拔高练

课后加餐练

1. 选B　《诗经》是我国第一部诗歌总集，收集了西周至春秋中叶的诗歌。题干中的诗句体现的是土地所有制从公田到私田的转变，反映的是井田制在春秋时期趋于瓦解，故选B项。
2. 选D　材料信息中“远近异法，内外异制”表明原有法令的松弛，“民得自有其田而公卖之”表明均田制逐渐被土地私有制取代，故选D项。
3. 选B　宋代“不抑兼并”的土地政策，适应了当时土地私有制的发展，在一定程度上推动了当时社会经济的发展，故B项符合题意；宋代“不抑兼并”的土地政策与减少土地垦荒面积无关，A项排除；在宋代土地高度集中的情况下，宋代租佃经济高度发展，农民可以维持生计，不一定抑制生产积极性，C项排除；宋代“不抑兼并”的土地政策加剧了土地的集中程度，D项排除。
4. 选D　商鞅变法时期为了强化中央集权，限制商人流动，实行重农抑商政策，故D项正确；工商食官政策是西周时期实行的，A项错误；工商皆本政策不符合材料主旨，B项错误；C项是明清时期实行的，排除。
5. 选D　题干中“汉代对大商贾重征商税，不许社会有大富之现象；唐初不收一切商业赋税，为前代所未有”说明汉代固守抑商政策，唐代则有所松动，故D项正确。
6. 选A　封建社会“重农抑商”政策得以长久实行的根本原因是其适应自给自足自然经济的需要，因为重农抑商政策可以保护农业生产和小农经济，以确保赋役的征派和地租的征收，巩固封建统治。故A项正确。
7. 选A　秦汉唐明清时期作为中国古代的大一统王朝，封建政权更加彻底地贯彻了重农抑商政策，反映了封建王权对社会经济干预的加强，故选A项；重农抑商政策贯穿中国古代封建帝制王朝时期，故排除B项；重农抑商的程度与王朝兴衰相关以及商业过度发展往往影响社会稳定的说法明显均不符合史实，故排除C、D两项。
8. 选B　关键信息是“而是外贸可能使不受欢迎的商人阶层致富”，题干主要针对外贸问题，因此，B项正确。
9. 选C　从材料中“奉旨允行，凡三十载”可看出明政府曾开放海禁，有条件地与外国进行贸易活动，故C项正确。A、B、D三项与史实不符，均排除。
10. 选A　根据材料“1647年，清政府规定，准许寓居澳门的葡萄牙商人‘以携来番货与粤商互市’”可以知道清朝此时海外贸易管制相对宽松，故A项正确，D项错误；材料并没有涉及朝贡贸易，排除B项；材料中没有相关的对比信息，无法得出“清廷海外贸易占据优势”的结论，故C项错误。
11. **解析**：第(1)问，依据材料“令驱民而归之农，皆著于本，使天下各食其力，末技游食之民转而缘南亩，则畜积足而人乐其所矣”中可以得出重农抑商政策。结合所学从巩固地主阶级统治、促进社会经济发展等角度分析作答重农抑商政策在封建社会早期产生的影响。第(2)问，依据上述问题的作答及材料二“吾乡左(轻视)儒右(崇尚)贾”可以得出明清时期人们在思想观念上发生的变化。结合所学知识可知，经济基础决定上层建筑，明朝商品经济繁荣，导致人们的思想观念发生变化，来分析其原因。第(3)问，依据材料“商人最后总是倾向于把累积得来的财富或过剩的资本投资于购买土地，或供应下一代沉浸于传统典籍，参与科举，以便进入官僚行列”可从买房置地、求取功名等方面概括得出“否定或摧毁商业企业发展的因素”。依据材料“实已包含了否定或摧毁商业企业发展的因素”结合所学可知这种思想的存在阻碍了中国古代商品经济和资本主义萌芽的发展。

    答案：(1)政策：重农抑商。影响：有利于地主阶级统治的确立与巩固；有利于社会经济的发展。

    (2)变化：由轻视商业到崇尚商业。原因：明朝商品经济繁荣。

    (3)因素：财富主要用于购田置地；供应子女求取功名。影响：阻碍商品经济和资本主义萌芽的发展。

课后拔高练

1. 选C　“地亩山场皆委之佃户”“土著安业者田不满百亩，余皆佃农也”可看出个体租佃经营是农业生产的主要形式，故选C项；“所居在城或他州异县，地亩山场皆委之佃户”不涉及土地所有权的变迁，排除A项；“土著安业者田不满百亩，余皆佃农也。上田半归于郡城之富户”没有涉及农业生产的利润问题，而佃农的普遍，客观上说明地主有利可图或者说明利润丰厚，排除B项；材料信息没有说明农产品的动向问题，不能说明商品化的程度，排除D项。

关注微信公众号“教辅资料站”获取更多学习资料

2. 选B　重农抑商的政策开始于商鞅变法时期，封建社会基本沿用这一政策，故A项错误；由材料“加剧了土地兼并、农户流亡”可知货币税收加重了富商大贾对自耕农的剥削，因而影响自耕农经济的发展，故B项正确；材料强调的是税收情况而非农民的生产热情，故C项错误；由材料“富商大贾趁机操纵物价”可知富商大贾操纵物价而非税收，故D项错误。
3. 选D　据材料“学者不当自为之”，可得出抑商观念仍然存在，农本思想没有被否定，故A项错误；据材料“学者不当自为之”，可得出抑商观念仍然存在，重商主义并未盛行，故B项错误；据材料“学者不当自为之”，可得出传统重义轻利的观念仍然存在，没有废弛，故C项错误；据材料“商亦无害”，可得出传统抑商观念有所削弱，故D项正确。
4. 选A　根据图表内容可知拥有20～130亩土地的自耕农比例达到74.1%，说明当时该地自耕农经济盛行，故A项正确；拥有300亩以上土地的户数仅有2家，而拥有20～130亩土地的自耕农有103家，说明当时该地土地集中现象并不严重，故B项错误；唐朝中期实行“两税法”后均田制瓦解，此时为唐朝后期，均田制已经瓦解，并且材料无法判断当地是否实行均田制，故C项错误；仅凭拥有不同土地规模的户数及所占比例无法判断农业生产效率是否提高，故D项错误。
5. 选B　宋代经济较唐代有进一步发展，没有出现严重衰退，故A项错误；宋代为加强专制主义中央集权，实行“不抑兼并”的土地政策，导致土地高度集中，租佃制进一步发展，进而出现“有田产的‘主户’只占民户总数20%左右，其余大都是四处租种土地的‘客户’”的现象，故B项正确；坊市制度崩溃主要与商品经济关系密切，与农民租种土地并无直接关系，故C项错误；材料中宋代土地高度集中的问题与宋代实行的“不抑兼并”的土地政策有关，不能表明政府管理失控，而是政府对土地政策进行调整，故D项错误。

第二单元　资本主义世界市场的形成和发展

第5课　开辟新航路

课前自检自查练

①商品经济　②奥斯曼土耳其　③天主教　④航海技术
⑤好望角　⑥麦哲伦　⑦相对孤立　⑧世界市场
⑨大西洋　⑩物价上涨　⑪资本主义

对点训练

1. 选B　解题关键是把黄金和新航路开辟产生联系，根据材料可知，对黄金的追求是开辟新航路的社会根源，故选B项。
2. 选D　《马可·波罗行纪》引发了东方“寻金热”，增强了欧洲人对东方财富的向往，故D项正确；《马可·波罗行纪》的主要作用并不是介绍世界地理知识，故A项错误；航海技术与地圆学说也不属于《马可·波罗行纪》的主要内容，故B、C两项错误。
3. 选A　1487年，葡萄牙航海家迪亚士率船队到达非洲的最南端，迪亚士将其命名为“风暴角”，后葡萄牙国王改为“好望角”。达·伽马到达印度；哥伦布到达美洲；麦哲伦船队完成环球航行。故答案选A项。
4. 选C　依据材料中的“《1492征服天堂》”及“没有看到东方的黄金和香料”等信息判断，这与哥伦布发现美洲的史实相符，故C项符合题意。
5. 选B　好望角是由航海家迪亚士发现的，好望角是非洲最南端的一个海角，当时迪亚士把它命名为“风暴角”，后来被国王命名为“好望角”，迪亚士的航海时期是1487年，并且他没有到过印度，达·伽马既到过好望角又到过印度，故选择B项。
6. 选D　地理大发现发生在1500年前后，使人类开始由分散走向整体，因此，以1500年作为世界近代史的开端，故D项正确；A、B、C三项都是新航路开辟的影响，故排除A、B、C三项。
7. 选C　新航路的开辟使欧洲与美洲的联系从无到有，所以原产美洲的玉米最能体现这一时代特色，C项符合题意。丝绸、茶叶、香料最早通过丝绸之路就已经出现在欧洲了，A、B、D三项排除。
8. 选D　“商业革命”是16世纪随着新航路开辟引起的欧洲商业和世界市场的一系列新变化，故D项正确；人文主义鼓励大胆追逐利益不符合“商业革命”的内涵，排除A项；B项属于价格革命，排除；棉花原产于印度和阿拉伯地区，C项排除。

学考基础合格练

1. 选D　世界逐渐成为一个整体开始于地理大发现，促使探险家出海探险的因素就是资本主义的发展需要大量原料产地和商品市场，故选D项。
2. 选C　题干中的“星盘”和“指向标”都是航海仪器，说明了航海技术的进步，故选C项。
3. 选B　荷兰进行殖民掠夺活动是17世纪，英国进行殖民掠夺活动是18世纪，故A项排除；15世纪末，随着新航路的开辟，葡萄牙、西班牙率先在东西两个半球进行殖民掠夺活动，故B项正确；美国是在1781年取得独立战争胜利，苏联是1922年成立的，故C项排除；德国法国要晚于英国，故D项排除。
4. 选C　根据材料中“特地制作了一个地球仪，赠送给生还的18位勇士，说：‘你们第一个拥抱了地球’”可知指的是环球航行，1522年麦哲伦船队实现了环球航行，故C项正确。
5. 选D　玉米最初生长在美洲，新航路开辟后，美洲的黄金、白银、玉米、烟草以及欧洲的枪支、工艺品等被运往各地销售。而发现美洲的哥伦布（意大利人）是在西班牙国王的支持下远航的。
6. 选B　欧洲各国物价上升是由价格革命引起的，而16世纪末的价格革命加速了西欧封建制度的解体，促进了资本主义的发展，推动了资产阶级实力上升，故B项符合题意。A、C、D三项与史实不符，均排除。
7. **解析**：第(1)问，根据“黄金、香料、珠宝是西班牙人和哥伦布海外冒险的另一个重要动因”“揣着传播上帝福音和寻找黄金的期盼揭开了不同种族、不同文明的大碰撞”可知哥伦布海外冒险的动力因素主要是宗教原因和追求黄金、香料、珠宝等。第(2)问，依据材料二并结合所学内容，伊比利亚半岛国家的远航尝试主要是迪亚士到达好望角、达·伽马到达印度、哥伦布抵达美洲和麦哲伦船队完成环球航行；结合所学内容从促进世界不同种族、文明融合、推动西方近代科技和思想解放、加速西欧封建制度解体、促进资本主义发展和世界市场出现等角度总结伊比利亚半岛国家的远航的积极影响。

答案：(1)因素：传播宗教；追求黄金、香料、珠宝等。
(2)远航尝试：1487年葡萄牙航海家迪亚士远航非洲，发现好望角；1497年，葡萄牙航海家达·伽马到达印度；1492年在西班牙王室的支持下，哥伦布到达西印度群岛，发现美洲；1519～1522年，西班牙王室支持下的麦哲伦船队完成了环球航行。积极影响：促进了世界范围内不同种族、不同文明的融合，使世界日益成为一个密不可分的整体；推动了西方近代科技文化和思想解放运动的兴起和发展；加速了西欧封建制度的解体，促进了资本主义的发展；从此，以西欧为中心的世界市场的雏形开始出现；促进了西欧由传统社会向近代社会的转变。

关注微信公众号“教辅资料站”获取更多学习资料

课时加餐拔高练

课后加餐练

1. 选A　根据“图中的人们身体畸形，似妖似兽，丑恶可怕”并结合所学内容可知当时世界各地处于相对孤立的状态，相互之间了解的少，由此导致这种情形的出现，故选A项；图中人物的形象主要是由于相互之间的不了解，而且对东方人的丑化属于主观原因，不是客观原因，故排除B项；“遥远国度的畸形人”和“人类未进化完毕”的说法不符合实际，故排除C、D两项。
2. 选C　材料中“即使哥伦布没有发现美洲大陆……在以后的几十年中其他人也会这么做”这个观点强调了新航路开辟的必然性，随着资本主义的产生和发展，新航路开辟就成了历史的必然，故选C项。
3. 选B　迪亚士航海是从1487年到1488年，排除A项；达·伽马于1497年7月8日受葡萄牙国王派遣，率船从里斯本出发，寻找通向印度的海上航路，于1498年5月20日到达印度，符合题意，故选B项；C、D两项是由西班牙王室资助的航海家，排除。
4. 选C　船队的船员来自十几个国家和地区，表明航海探险活动被多个国家的人所接受，航海活动具备了一定的社会基础，故C项正确。
5. 选A　图中“教皇分界线”的划定，是为了平息西、葡两国的争端。中世纪的教会拥有至高无上的权力，教权高于皇权，教皇出面调停两国争端并亲自划定分界线，这充分说明当时西、葡两国航海的成果得到了承认，故选A项。
6. 选C　新航路开辟后，世界由孤立走向整体，世界市场的雏形开始出现。A项错误，世界由分散走向整体才逐渐导致世界从封闭走向开放，故选C项。B、D两项不符合题意。
7. 选D　传统商路和国际贸易中心转移的表现是贸易中心由地中海转移到大西洋，材料没有体现，故A项错误；“欧洲传教士献上原产美洲的金鸡纳”不属于朝贡贸易，B项与材料不符，故B项错误；材料没有体现美洲社会遭到破坏，故C项错误；从原产美洲的金鸡纳被欧洲传教士进献给中国皇帝，可知反映了洲际间物种的交流，故D项正确。
8. 选D　根据“地理大发现”“探索时代”“大航海时代”可知，这些表述都是对新航路的开辟这一历史事件的历史解释，故D项正确；史料实证是指通过严格的检验获取可信史料，并据此努力重现历史真实的态度与方法，与材料强调历史解释不符，排除A项；时空观念是指将所认识的史事置于具体的时空条件下进行观察、分析的观念，与材料强调历史解释不符，排除B项；彰显家国情怀主要是属于历史价值观的培养，与强调历史解释不符，排除C项。
9. 选A　表格反映了不同国家物价上涨的倍数，说明当时各国出现了程度不同的通货膨胀，社会分化正在加速，故选A项；商业革命指的是商品的流通和市场的扩大，与价格上涨无关，排除B项；世界市场初步形成是在第一次工业革命以后，排除C项；经济水平决定物价的说法不符合实际，排除D项。
10. 选B　材料中西班牙手工业者减少或放弃低档商品的生产，说明手工业生产与广大民众走向脱离，这使手工业商品的市场日益狭小，从而不利于手工业的发展，也最终会导致西班牙经济衰落，故B项正确；材料中的现象与商品价格是否大涨无关，A项错误；材料信息体现不出贸易中心的转移，C项错误；材料中“高档商品”说明西班牙的高档商品销售较好，这是民众购买力提高的结果，D项错误。
11. **解析**：第(1)问，注意从世界市场、世界各地相互联系、欧洲、美洲这四个角度来回答。第(2)问，第一小问，概括材料信息即可；第二小问，结合材料中时间信息进行考虑，那时中国仍盛行自给自足的自然经济，西方对中国的丝绸、茶叶等需求量较大，对亚洲的贸易中西方国家处于入超地位。

答案：(1)改变：扩大了世界各地区之间的经济文化交流，促进了各地经济的发展和美洲的开发；以欧洲为中心的世界市场雏形出现；使世界由分散走向整体，开始形成一个互相影响、联系紧密的整体；促进了欧洲资本主义的发展；同时也给美洲的印第安人和非洲的黑人带来了巨大的灾难。

(2)流向：美洲→欧洲→亚洲；美洲→亚洲。原因：当时，中国仍然盛行的是自给自足的自然经济，欧洲商品在亚洲没有竞争力，而欧美又迫切需要亚洲(尤其是中国和印度)的商品。

课后拔高练

1. 选B　根据图中的“罗盘”和“世界地图”可以判断“新发现”指的是15世纪末16世纪初的新航路的开辟，罗马帝国的海外扩张是在公元1世纪，与题干时间不符，故A项错误；新航路的开辟打破了世界的隔绝状态，密切了世界各地的联系，故B项正确；人文主义思想的诞生指的是14～16世纪的文艺复兴，与题干时间和内容不符，故C项错误；英国海上霸权的确立指的是1588年打败西班牙的无敌舰队，与题干时间不符，故D项错误。
2. 选A　美洲新大陆的发现加强了“两个世界文明汇合”，也给殖民地带来深重的灾难，加剧了美洲殖民地和欧洲的差距，因而“黄金和白银的作用只是使两个大陆之间的距离更加遥远了”，故A项正确；“两个大陆”指的是美洲和欧洲，故B项错误；黄金和白银推动了世界市场的形成，而不是阻碍，故C项错误；最早发现美洲新大陆的是西班牙王室支持的哥伦布船队，该会议讨论的应该是西班牙人登陆美洲的意义，故D项错误。
3. 选B　“1500年，欧洲航海家卡布拉尔率远征队准备东去印度”，这条航线在当时被葡萄牙控制，葡萄牙殖民扩张的方向主要在亚洲和非洲，西班牙殖民扩张的方向主要在美洲，故A项错误，B项正确；17世纪荷兰在印度沿海建立殖民据点，不符合时间限制，故C项错误；17世纪初，英国积极进行殖民扩张，在印度建立了殖民据点，不符合时间限制，故D项错误。

第6课　殖民扩张与世界市场的拓展

课前自检自查练

①西班牙　②海上马车夫　③东印度公司　④好望角
⑤新阿姆斯特丹　⑥商业殖民　⑦海军　⑧无敌舰队
⑨印第安人　⑩资本原始积累　⑪世界市场

对点训练

1. 选B　荷兰商业立国，并不是占有广阔的殖民地，A项排除；荷兰的航海业发达，掌握着海上的商业霸权，故选B项；荷兰商船当时数量最多，反映的是现象，不是本质，排除C项；D项说的是英国，排除。
2. 选D　英国在1588年击溃西班牙的“无敌舰队”，18世纪中期发动对法战争并取得胜利，成为“日不落”殖民帝国，排除A、B、C三项；荷兰利用自身优势，积极开展商业贸易和海外殖民，商业贸易和海外殖民使荷兰积累了大量的财富，过上了富足的生活，故选D项。

关注微信公众号“教辅资料站”获取更多学习资料

3. 选C　17世纪主要殖民国家是荷兰，因此争夺殖民霸权的是英、法、荷三国，故答案选C项。
4. 选A　1588年英国海军击败西班牙“无敌舰队”，成为新的海上霸主，故选A项；1651年，英国颁布《航海条例》，展开与荷兰的商业竞争，时间不符，排除B项；1664年，英国夺取新阿姆斯特丹，把它改名为纽约，时间不符，排除C项；英国于1600年建立东印度公司，垄断了中英、印英之间的贸易，不符合题意，排除D项。
5. 选C　《航海条例》颁布于1651年，光荣革命发生于1688年，故A项错误；《航海条例》是贸易保护主义政策的产物，故B项错误；《航海条例》是英荷海上争霸的产物，故C项正确；《航海条例》并未使英国取得世界霸权，英国取得世界霸权是在打败法国后，故D项错误。
6. 选D　当时英国已经是资本主义国家，而法国仍然是封建国家，因此英国最终战胜法国是先进制度对落后制度的胜利，故答案为D项；A项与题意无关，排除；B项是其中原因之一，但不是主要原因，排除；英国成为工业国是工业革命后的情况，排除C项。
7. 选D　“三角贸易”航程的出发地是欧洲，殖民者由欧洲带着廉价的商品出发到非洲换取黑人奴隶，然后再由非洲把奴隶运到美洲去开矿，再把美洲的矿产资源运回欧洲，所以从非洲运往美洲的是奴隶，故答案选D项。
8. 选B　根据材料“失去整个……旧世界而未产生一个新世界”可以得出西方的征服活动给当地人民再度套上了枷锁，故B项正确。

学考基础合格练

1. 选C　材料反映的是17世纪初具有雄厚金融力量的国家，指的是荷兰，17世纪荷兰金融业发达，故选C项。
2. 选B　17世纪荷兰成为世界商业霸主，其途径是组建东印度公司参与殖民争夺，故A项错误，B项正确；炮舰政策是英国工业革命后奉行的政策，故C项错误；各国殖民活动均以武力为后盾，故不构成荷兰国际竞争的重要手段，故D项错误。
3. 选A　英国确立殖民霸主地位首先于1588年打败西班牙，17世纪打败了荷兰，18世纪打败了法国，最终确立“日不落帝国”殖民强国，故A项正确。
4. 选B　题干殖民地名称的变化反映了英国与荷兰之间的殖民争夺，与英国颁布《航海条例》引发的英荷战争有关，故B项正确。
5. 选A　16世纪是西欧资本主义原始积累的重要时期，西欧通过对美洲印第安人的残酷剥削积累财富，体现了资本原始积累的血腥性，故A项正确；材料体现不出矿山劳动时间长，故B项错误；根据材料无法推知印第安人的送丧仪式如何，故C项错误；印第安人多被折磨致死是表面现象，其实质是资本原始积累的血腥性，故D项错误。
6. 选C　材料中的关键信息是“人类发展的角度”“客观上的积极意义”，A、B两项只是局部的表现，D项本身表述不正确，故选C项。
7. **解析**：第(1)问，从地理位置、经济发展水平和采取有效措施等方面予以阐述。第(2)问由材料中“封建势力的巨大压力”“资本主义兴起”等信息，结合17、18世纪相关史实从新旧势力对立、世界政治中心转移、英国建立全球霸权等角度分析。

答案：(1)原因：荷兰处在大西洋航运中心，地理位置优越；17世纪时荷兰是欧洲经济最发达的地区之一；荷兰造船业发达，航海技术先进；荷兰积极开展海上贸易活动，建立商业性垄断贸易公司从事国际贸易；荷兰商业、金融业发达。

(2)主要特点：资本主义制度与封建制度对峙；英国通过打败西班牙、荷兰和法国，确立世界殖民霸权；通过殖民扩张，英国确立起世界殖民霸主地位；世界政治中心由东方转移到欧洲。

课时加餐拔高练

课后加餐练

1. 选C　“海上马车夫”是用来形容荷兰发达的海上贸易，反映了荷兰成为当时世界上头号贸易强国，故选C项。
2. 选A　依据“近五百年来”“世界霸权”“市场经济”等限定条件分析可知，这三个国家是荷兰、英国、美国，其中荷兰创立了公司制度、股份制度等现代商业金融制度，故选A项；B项不符合题意，排除；C、D两项分别指英国和美国，与题意不符，排除。
3. 选A　根据材料可知，荷兰衰落的一个重要原因是海军的废弛，故A项正确；由材料“18世纪初，荷兰的舰队只有12艘能作战”可知，荷兰的海军实力下降，B项排除；材料信息无法体现荷兰金融业发达，C项排除；材料信息没有涉及荷兰手工业，D项排除。
4. 选C　从“东印度公司的武装商船”的信息可以看出其目的主要在于从事殖民扩张，故C项正确；东印度公司是政府授予很多特权的股份公司，荷兰、英国都有这样的公司，故A、B两项错误；东印度公司主要从事对亚洲的殖民活动，故D项错误。
5. 选C　1652至1674年英荷两国之间爆发战争，三次战争后，荷兰丧失了海上霸主地位，失去了北美的殖民地。本题中“他们”是指英国与荷兰，故选C项。
6. 选B　《航海条例》的颁布是针对荷兰，注意题干中的“一切输入英国的货物”，答案为B项。
7. 选B　1763年英国通过七年战争击败了法国，取得了法国在美洲的殖民地，此时殖民地范围遍布全球，故自诩“日不落帝国”，1763年属于18世纪后半期，故B项正确；A项17世纪英国尚未挑战法国的霸权，故错误；C项和D项涉及的是19世纪，英国的工业革命进行并逐渐结束，此时是“日不落帝国”的巩固和发展阶段，而非开始成为，故错误。
8. 选C　材料数据反映了从1650年到1900年非洲人口长期停滞在一亿人左右，但这仅仅属于现象，不是材料主旨，故A项排除；欧洲殖民者主要在美洲对印第安人推行种族灭绝政策，与材料无关，故B项排除；由于欧洲殖民者进行黑奴贸易，导致非洲人口惨重损失，长期停滞，故C项正确；材料未涉及世界其它地区的人口数，不能说明非洲人口在世界总人口比重下降，而且非洲人口在世界总人口比重的问题也不是材料主旨，故D项排除。
9. 选D　贩卖的奴隶并不是各国的犯人，而是非洲土著黑人，故A项错误；奴隶并非海上航行时被囚禁在船舱的不服从者，故B项错误；奴隶贸易是对非洲人的侵害和压迫，不是解决非洲犯罪的主要措施，故C项错误；奴隶贸易中被贩卖的黑人没有社会地位和政治权利，也没有人权，故D项正确。
10. 选B　材料中“这一切标志着资本主义生产时代的曙光”的意思是欧洲的殖民掠夺和殖民扩张是其资本原始积累的重要来源，这大大促进了欧洲资本主义的发展，故答案选B。
11. **解析**：第(1)问，根据材料一中的分号分别总结每一句的要点作答即可。第(2)问，第一小问，根据材料二“英国就是在殖民贸易和工业革命相互促进的发展中，愈益富足起来”，得出促进了英国的工业革命；第二小问，结合当时背景可知，两国都建立了资本主义制度进行殖民扩张。

关注微信公众号“教辅资料站”获取更多学习资料

答案:(1)条件:开放的民族性格,先进的手工技术,宗教信仰自由,建立了资本主义制度,勇于制度创新,拥有商船和海军。

(2)主要意义:促进了英国的工业革命。相同点:都建立资本主义制度,都进行殖民扩张。

课后拔高练

1. 选D　拉丁美洲是西班牙和葡萄牙的殖民地,当时西班牙和葡萄牙是中央集权的封建国家,其落后的生产方式传播到拉丁美洲,成了拉丁美洲发展滞后的历史包袱,而北美地区被英国殖民统治,英国工场手工业发达,推动了北美的快速发展,故选D项;北美的印第安人也受到奴役,排除A项;材料"推翻了殖民统治,但拉美国家并没有像近邻美国那样独立后进入现代化的快车道"说明殖民统治不是原因,排除B项;北美也有非洲和欧洲移民,排除C项。
2. 选A　由材料可知16至18世纪欧洲通过向美洲贩运大量的奴隶完成资本的原始积累,黑奴贸易成为早期资本主义扩张的手段,故A项正确;19世纪末20世纪初伴随着资本主义世界市场的最终形成,世界殖民体系最终确立,这与表格时间不符,故B项错误;英国成为"日不落帝国"主要是指控制的殖民地遍布世界各地,不是从奴隶贸易的角度来称呼的,故C项错误;黑奴贸易是为了弥补美洲劳动力的不足,而不是因为开采白银的需要,故D项错误。
3. 选B　西班牙的殖民扩张范围是美洲,与爱尔兰、普鲁士等地区无关,故A项错误;17世纪荷兰海上贸易的发达,殖民活动范围遍及世界各地,故B项正确;拿破仑帝国企图军事征服英国计划失败,因此在其兴盛时期也没有控制爱尔兰,故C项错误;爱尔兰是英国领土的一部分,不是其殖民地,故D项错误。
4. 选D　茶叶的普及属于社会经济和文化现象,体现不出等级观念淡化这一结论,故A项错误;中英两国文化差异较大,对东方生活方式向往不会成为英国社会的普遍认识,故B项错误;随着18世纪中期英国工业革命的开始,贫富差距不是缩小,而是日益拉大,故C项错误;由于英国殖民扩张和工业革命,加大了对东方的贸易,使茶叶大量流入英国,导致茶叶价格下降,成为普通民众也可以消费的产品,因而出现材料中的变化,故D项正确。
5. 选B　美洲原住民遭到大量屠杀反映的是新航路开辟后,欧洲大量屠杀美洲土著居民印第安人,这是原因之一,但不是根本原因,故A项错误;据材料中"欧洲人、印欧混血人、非洲人、非欧混血人数量不断增加,并最终超过美洲原住民"特别是混血人的出现,反映的是欧洲长期不断征服美洲的结果,故B项正确;外来疾病导致美洲原住民大量死亡只是美洲人口减少的原因之一,不是根本原因,故C项错误;欧洲人在美洲大陆的分布越来越广泛是表现而不是原因,故D项错误。

第7课　第一次工业革命

课前自检自查练

[1]资本主义制度　[2]手工工场　[3]圈地运动
[4]生产技术　[5]珍妮机　[6]改良蒸汽机　[7]大机器工业
[8]蒸汽时代　[9]工厂　[10]工业资产阶级　[11]资产阶级
[12]自由竞争　[13]欧美资本主义　[14]世界工厂

对点训练

1. 选A　15世纪下半叶,由于毛纺织业的迅速发展,英国国内外对羊毛的需求量急剧增加,羊毛价格随之不断攀升,养羊业遂成为当时利润最为丰厚的经济部门之一,故A项正确。
2. 选A　"强盗——殖民经济"为资本主义发展提供了大量财富和海外殖民地市场,故A项正确;"强盗——殖民经济"无法体现生产技术的提高,故B项错误;材料与国内市场无关,故C项错误;材料与资本主义制度确立没有直接联系,故D项错误。
3. 选B　棉纺织业的机械化与工厂由沿河流转移到内地之间没有直接联系,A项排除;在工业革命初期,人们常常把工厂建在靠近河流的地方,利用水力带动机器。后来瓦特改良蒸汽机,解决了工业革命的动力问题,突破了自然条件的限制,B项符合题意;立体交通网络的出现是在第二次工业革命后,C项排除;工业化和城市化的推动不是工厂由沿河流转移到内地的直接原因,D项排除。
4. 选D　英国完成工业革命后,成为"世界工厂",1851年召开的万国博览会是英国第一次工业革命成就的展示,故D项正确。"光荣革命"是在1688年,故A项错误;君主立宪制完善是1832年的议会改革,故B项错误;"日不落"帝国建立是在18世纪中期,故C项错误。
5. 选D　英国动力织布机台数不断增加,反映的是生产力水平的提升,D项正确;材料没有体现出对世界的影响、国与国之间的交流以及城市化,A、B、C三项错误。
6. 选C　抓住题干信息"随着机器的日益增多,传统的手工工场无法适应机器生产的需要",这表明工业革命实际上就是用机器生产代替手工生产,即生产方式的革命,故C项正确。
7. 选C　大量民众被火车带进城市,这将极大地推进英国的城市化进程,故选C项。农村人口大量涌进城市,不会加速农村城镇化进程,不会促进农业快速发展,也不一定缩小城乡差距。故排除A、B、D三项。
8. 选C　工业革命后欧美国家通过资本主义生产方式把亚非拉卷入资本主义世界市场,故选C项;A项指通过殖民扩张,B项开始于新航路的开辟,D项是生产力发展的结果,均排除。

学考基础合格练

1. 选B　"如果瓦特早出生一百年,他和他的发明将会一起死亡"说明当时英国不具备市场需求,瓦特的蒸汽机没有用武之地,题干表述的是发明与社会状况之间的关系,故B项正确。
2. 选B　18世纪60年代,哈格里夫斯发明了珍妮纺纱机,之后其他部门也出现了发明和使用机器的热潮,工业革命由此开始,故B项正确,A项排除;机器制造业在工业革命后产生,排除C项;汽车制造业为第二次工业革命的产物,D项排除。
3. 选B　改良蒸汽机投入使用前,人们利用的动力主要是水力和风力,这些都受到自然条件的很大限制,故选B项。
4. 选D　材料数据反映了1841至1877年英国就业人口比重当中,工业比重上升,农业比重下降,结合所学知识可知,当时处于工业革命,这说明英国工业化进展迅速,故D项正确;就业人口比重变化不能直接说明国民经济结构日趋合理,故A项排除;材料数据并未反映农业生产机械化,故B项排除;材料未比较英国与其他国家,不能说明英国世界工厂地位日益凸显,故C项排除。
5. 选B　A、D两项与伦敦成为雾都无关,排除;B、C两项都与该现象有关,B项包含C项,更为全面,故答案为B项。
6. 选D　工业革命后,伴随着资本主义经济的发展,欧美工业化国家生产出数量巨大、种类繁多的产品,并以此为媒介,积极向海外扩张,寻求商品市场和原料产地,故D项正确。A项与经济活动无关,B项只是进一步刺激了国际贸易的增长,C项是经济手段的辅助和补充,均排除。

关注微信公众号"教辅资料站"获取更多学习资料

7. **解析**：第(1)问据材料一“在历史的转变中抢占了先机”，结合17～18世纪英国政治、经济方面的知识即可回答；第(2)问根据材料二“16～19世纪英国城市人口比例”、材料三煤烟给英国带来的环境污染进行概括；第(3)问在前两问的基础上，思考对我国现代化建设的启示。

答案：(1)英国率先完成了政治制度的近代化，君主立宪制得以确立和完善；英国率先开始工业革命，成为“世界工厂”。

(2)推动城市化进程；导致环境严重恶化；英国成为“世界工厂”。

(3)启示：以科技创新为动力，实现增长方式的转变，提高经济效益和竞争力，坚持可持续发展战略，妥善处理好经济发展与人口、资源、环境之间的关系。

课时加餐拔高练

课后加餐练

1. 选B　18世纪中期，英国成为世界殖民大国，为英国工业革命的发展积累了大量的资本，且广阔的殖民地刺激了英国市场不断扩大，成为工业革命的动力，故B项正确。
2. 选A　“珍妮纺纱机”是工业革命中发明的第一台机器，引发了发明机器的连锁反应，故选A项。
3. 选D　动力蒸汽机的出现带来了蒸汽机车，推动了交通运输业的发展，用机器制造机器标志着工业革命基本完成，故D项正确。
4. 选A　材料“让位给一个速度更快的、没有生命的工匠。梭子从织工的手指间掉落，落入到穿梭更快的铁指当中”体现了纺织业的生产方式发生了改变，纺织业得到发展，故选A项。
5. 选C　根据“到19世纪30年代后，煤就可以自己运输自己了”可知用煤来运煤，可以推测是用铁路来运输，故C项正确。
6. 选D　材料主要阐述了在19世纪中期欧洲技工学校与工人学院依照学生性别与课程特点开设课程、招收学生的现象，由“读、写、算术、平板缝纫等课程”“气象学、地质学、陶瓷制作、电学等课程”等信息可得出19世纪中期随着工业化进程的加快，强化了性别分工，故D项符合题意，A、B、C三项材料没有体现。
7. 选D　工业革命改变了英国的经济地理状况和人口结构，使劳动力从农村涌向城市，加快了城市化进程，故选D项。
8. 选C　铁路为工业文明的产物，1870～1900年欧美亚非四洲铁路里程日益增长，体现了工业成果不断在世界扩展，故C项正确；从铁路里程无法体现美国对世界市场的主导作用，A项排除；非洲铁路里程增长速度较快，尚未接触工业文明的表述明显错误，B项排除；从图表可知，四洲铁路长度发展极不均衡，D项排除。
9. 选D　“19世纪蒸汽时代”是指工业革命时期，工业革命使资产阶级实力大增，从而使资本主义具有了征服本国乃至全世界的封建主义的实力，其统治地位得以确立，故选D项。
10. 选A　促进人们思想解放与材料中“不止是技术上的”“思想日益增强”相符，故A项正确；带来技术突飞猛进与材料中“不止是技术上的”“思想日益增强”不符，故B项错误；增强改造自然能力与题干中作者观点不符，故C项错误；材料中没有涉及科学奖项设立，故D项错误。
11. **解析**：第(1)问，依据材料“马拉的货车，将煤运到运河或者海边”“利用蒸汽机做动力的火车在新建成的铁路上行驶”“用机车牵引比用马力牵引可节省经费百分之三十”“议会相继通过了五十四项各式各样的铁路条例”结合所学从运输的需要、蒸汽机车的发明与使用、生产成本低、政府支持等方面分析指出英国工业革命时期铁路建设迅速发展的原因。第(2)问，依据材料“铁路运输首次实现大规模、低成本、高速度的陆上货物配送，深入大陆与国家的偏远内地”“铁路衔接上以蒸汽为动力的海运路线，跨洲的大宗货运走陆路和海路从此一样容易，贸易的流动不再受大自然左右”并结合所学从提升商贸数量和流通速度、密切生产、流通和消费的关系、拓宽市场、推动世界一体化进程等角度概括作答欧洲的铁路建设对市场形成的重要意义。

答案：(1)原因：运送物资的需要；蒸汽机车发明与使用；生产成本低；政府支持。

(2)意义：大幅度提升商贸数量和流通速度；有助于生产、流通和消费的密切联系；拓宽市场；助推世界一体化进程。

课后拔高练

1. 选A　材料“英国矿井里使用蒸汽唧筒抽水。1765年，修理过唧筒的瓦特发明了一种单动式蒸汽机”说明发明创造源自于劳动实践，故选A项；材料“修理过唧筒的瓦特发明了一种单动式蒸汽机”说明主要发明创造来源于劳动实践而不是科学理论，排除B项；材料“后在工厂主的合作和资助下，终于改进制成‘万能蒸汽机’”说明资金不是决定原因，排除C项；材料中瓦特和工厂主并不能说明各阶级广泛参与，排除D项。
2. 选B　这些观点分别从经济、政治、自然条件方面说明工业革命首先发生在英国的原因，都有一定的合理性，故A项错误；从传统上强调经济条件到后来注重政治制度和自然条件的作用，对工业革命首先在英国发生的认识越来越多元化，随着研究视角拓展而趋于全面，故B项正确；研究工业革命首先发生在英国的原因，自然要把重心放在英国方面，对欧洲其他国家的观察是次要因素，故C项错误；后期学者的研究只是研究视角的不同，不能以此否定传统观点，故D项错误。
3. 选D　由材料信息可知，1830～1835年和1790～1793年相比，英国国民总收入增加了两倍多，而1835年和1797年相比，工人实际工资则增长了不到一倍，甚至1797年比1755年工人实际工资有下降，说明工人实际收入与经济发展并不是同步增长，故A项错误；工业革命时期英国工人的工资收入有较大幅度的提升，说明劳动力并非廉价，故B项错误；工资收入增加必然促进工人生活的改善，故C项错误；工人的实际收入增长幅度远远低于国民总收入的增长幅度，必将拉大社会的贫富差距，故D项正确。
4. 选A　19世纪上半期，随着英国工业革命的进程加快，城市工厂产生大量环境污染，进而影响人口寿命，导致1816年以后死亡率上升，故A项正确；化学工业产生于19世纪晚期的第二次工业革命中，时间与材料不符，故B项错误；工业革命极大提高了社会生产力，增加了社会物质财富，不会出现人口膨胀食物短缺的问题，故C项错误；19世纪上半期，随着工业革命的开展，英国的医疗技术水平也不断上升，故D项错误。
5. 选A　根据“铁路有多种轨距”可以看出各地区之间的交通联系存在不便，这必然会阻碍全国成熟的统一市场的形成，故A项正确；材料反映铁路有多种轨距，未涉及经济增长，故B项错误；多种轨距的出现与科技水平无关，更无法体现出制造业的发展受到限制，故C项错误；多种轨距的出现与战争无关，而是由于美国国内铁路建设不平衡和国内市场没有统一，故D项错误。
6. 选C　资本主义生产方式开始于新航路开辟后的手工工场中，与材料中的时间不符，故A项错误；英国从18世纪后期开始了工业革命，并在19世纪中期完成，工场手工业已被取代，故B项错误；题干中“棉纺厂使用的原棉数量由200万磅增加到3.66亿磅，增长了180多倍”可见英国国内已经无法满足原料的需求，不得不依靠海外，故C项正确；伴随着工业革命的完成，农业商品化也相应地完成，与“迅速发展”不符，故D项错误。

关注微信公众号“教辅资料站”获取更多学习资料

第8课　第二次工业革命

课前自检自查练

①世界市场　②西门子　③汽车　④石油　⑤钢铁工业
⑥电气时代　⑦重化工业　⑧垄断组织　⑨资本
⑩国际分工　⑪民族资本主义

对点训练

1. 选B　两次工业革命交叉进行是德国和日本等一些新兴资本主义国家第二次工业革命的特征，并不普遍，A项错误；科学与技术紧密结合是第二次工业革命的重要特征，故B项正确；材料并未体现第二次工业革命电力的发明与广泛应用的特点，C项错误；材料并未体现第二次工业革命同时在几个国家进行的特点，D项错误。
2. 选D　结束这种古老“夜间”生活模式是电灯，而电灯的发明者是爱迪生，故答案选D项。莱特兄弟发明飞机，史蒂芬孙发明火车，瓦特发明改良蒸汽机，故A、B、C三项错误。
3. 选C　题干关键信息是“1870年至1900年世界产量”，此时正处于第二次工业革命时期，内燃机的创制、汽车、飞机等交通工具的发明，促进了石油的使用，故C项符合题意。
4. 选C　火车、轮船和飞机不能作为市内交通的主要工具，故排除A、B、D三项；第二次工业革命中，随着汽车的出现，逐渐取代了马车成为市内交通的主要工具，从而解决了城市内的马粪问题，故选C项。
5. 选A　由“90年代末，美国已有2 700座发电站，发电量已达到248亿千瓦时，……各项电器发明广泛应用于美国的工业、交通和公共事业部门”，可见美国电力已经广泛运用，故A项正确。
6. 选A　第二次科技革命产生了新兴行业如电力工业、石油工业等，工业布局进一步趋向集中，重工业突飞猛进。本题选A项，B、C、D三项说法与史实不符，均排除。
7. 选C　“它提炼的石油占全美95%”“它掌握了14家公司的所有权，控制了26家公司的多数股票”说明生产和资本高度集中，符合垄断组织的特点，故C项正确；工业革命前，资本主义处于手工工场阶段，规模较小，排除A项；第一次工业革命出现工厂，材料反映的是第二次工业革命出现了垄断组织，排除B项；第一次工业革命出现贸易自由化，材料反映的是第二次工业革命出现了垄断组织，排除D项。
8. 选D　“整体的世界经济的生产机体”完全形成也就是资本主义世界市场最终形成的时间，故答案为D项。

学考基础合格练

1. 选D　19世纪末是第二次工业革命时期，电力得到广泛应用，所以应选择在电力充足的地区，故选D项。A、B、C三项错误。
2. 选C　工厂制出现在第一次工业革命时期，当时以商品输出为主，盛行自由放任的经济政策，故A、D两项错误。垄断组织出现在第二次工业革命时期，推动世界市场最终形成，故B项错误，C项为正确选项。
3. 选D　珍妮机、蒸汽机和骡机都是第一次工业革命的成果，故排除A、B、C三项；内燃机的发明促使了汽车和飞机的发明，它的能源系统主要以石油为主，故选D项。
4. 选C　工厂制度是第一次工业革命的特点，主要是指采用机器大生产，不符合题意，故A项错误；世界市场的形成在此时的表现主要为对外殖民扩张与掠夺，故B项错误；根据图片反映的信息“大鱼吃小鱼，小鱼吃虾米”和“兼并和组合”可知是生产和资本的高度集中——垄断组织的出现，故C项正确；殖民体系体现的是资本主义国家对殖民地、半殖民地的掠夺，与题意不符，故D项错误。
5. 选C　“19世纪最后30年”指的是1870年以后，此时正处于第二次工业革命时期，所以列强瓜分世界的主要手段应为资本输出，故选C项；原始积累是指殖民扩张时代，商品输出是在第一次工业革命时期，均与题意时间不符，故排除A、B两项；国家垄断是经济发展形态，而非瓜分世界的手段，故排除D项。
6. 选D　19世纪末20世纪初，世界基本被瓜分完毕，资本主义的世界殖民体系最终建立，这标志着资本主义世界市场的最终形成。资本主义世界殖民体系与世界市场的最终形成标志着资本主义世界体系的最终建立，故选D项。
7. **解析**：第(1)问通过“汽车、有轨电车、飞机”等即可判断。第(2)问应考虑其动力来源。第(3)问应结合教材相关知识进行分析。

   答案：(1)第二次工业革命。

   (2)先决发明：发电机、内燃机。

   (3)在资本主义原始积累时期：通过殖民活动和奴隶贸易将两者联系起来。在工业革命时期：通过商品和资本输出把两者联系起来。

课时加餐拔高练

课后加餐练

1. 选D　英国在19世纪仍是世界霸主，经济实力急剧衰落的叙述不符合史实，故排除A项；美、德等国经济发展速度加快是第二次工业革命作用下的产物，不属于前提，故排除B项；自然科学研究出现重大进展是第二次工业革命科学与技术开始紧密结合特点的成因，故排除C项；工业革命首先发生于英国，其前提条件是英国代议制的确立，由此推断第二次工业革命几乎同时发生的政治前提是19世纪六七十年代资本主义制度的普遍确立，故选D项。
2. 选B　材料体现的是交流电问世后，受到传统技术和观念的抵制，被爱迪生攻击，故B项正确。
3. 选B　珍妮纺纱机、汽船和蒸汽机车是第一次工业革命成果，属于“发明是个人对机会作出响应的结果”。电灯是第二次工业革命成果，科学与技术紧密结合，属于“发明是事先安排好的，实际上是定制的”，故B项符合题意。
4. 选D　第二次工业革命中，内燃机创制并应用在交通运输领域，出现汽车、飞机、远洋轮船，带动了石油开采和化工产业的发展。
5. 选C　轮船和火车是第一次工业革命时期的交通工具，故A、B两项错误；结合图示中的时间限制第二次工业革命时期和速度变化可以判断虚线表示的交通工具应是汽车，故C项正确；飞机虽产生于第二次工业革命时期，但是速度明显与题干虚线不符，故D项错误。
6. 选A　两次工业革命都是生产技术的革新，都促进了生产力的提高、生产关系的调整，都涌现了诸多的发明，排除B、C、D三项；第一次工业革命中的成果大都是工匠和技师的发明，第二次工业革命实现了科学与技术的真正结合，A项符合题意。
7. 选D　材料中“银行通过提供由大批储户和投资者的资产汇集而成的资本，满足了这些金融需求”说明此时通过银行，实现了资本的集中，即垄断组织的出现，是属于第二次工业革命时期。A、B、C三项均与第二次工业革命时间不符，故排除；19世纪末20世纪初第二次工业革命结束，故D项正确。

关注微信公众号“教辅资料站”获取更多学习资料

8. 选C　美国福特工厂的流水线生产，极大地提高了生产效率，但严重扼杀了工人的主观能动性，使工人成为机器的奴隶，反映了工业发展对人文精神产生了冲击，故C项正确；流水线生产可以减少劳动力的使用，不会造成自由劳动力不足，排除A项；材料反映的是流水线生产损害了工人的健康，B项不符合材料主旨，排除；材料信息无法体现强化劳动强度弥补了技术革新的不足，排除D项。

9. 选A　英、法、美、德工业生产总和在世界工业生产中所占比例有所下降，说明第二次工业革命并不仅仅局限于发达国家，其他国家在工业革命的影响下工业生产也有提高，第二次工业革命向纵深发展，故A项正确；美、德等后起资本主义国家积极利用第二次工业革命的成果，使社会生产力获得极大的飞跃，B项错误；材料没有比较不同国家的发展速度，不能得出欧美列强间经济发展不平衡，C项错误；两次工业革命成果的利用使这些国家经济不断发展，D项错误。

10. 选B　1900年世界只有部分地区的国家进入了资本主义社会，故A项错误；1900年随着第二次工业革命后资本主义在全球的扩张，世界市场最终形成，世界完全形成一个整体，因此第一次可以提及“世界文明”，故B项正确；英语国家取得了对整个世界的统治说法错误，故C项错误；世界各地联系加强，但语言和文化差异仍然存在，故D项错误。

11. **解析**：第(1)问，根据材料“工厂主制定了严格的规章制度，并且通过罚款、解雇和体罚等强制措施迫使工人服从，从而保证了工厂的纪律。”得出加强了规章制度的建设，推动了工厂管理制度的建立；根据材料“他们还运用复式簿记的方式实现了对生产成本和企业利润的核算；通过对产品质量的把关，确立了对生产过程的监督，”得出强化了对生产过程的管理，促进了产品质量与生产效率的提高；根据材料“通过制定恰当的销售方案，促进了市场的开发”得出重新制定销售方案，促进了市场的开发。第(2)问，第一小问，根据材料“第二次工业革命促成的大工业，不但规模大，而且所用的资金很多，设备更是全新的。它们必须依靠股份公司，还需要联合，需要成立新的经济联合体”得出第二次工业革命中形成的大工业生产，要求建立新的经济联合体；根据材料“……垄断企业通常是用吞并、兼并、收买等方式而形成的。……吞并者大多是资金雄厚、管理先进、经营得体的企业，在兼并之后它必定以先进的方式改造那些落后部分”得出资本集中，推动了企业兼并的加剧。第二小问，根据材料“同时，垄断组织有条件设立科研部门，将科研与生产直接结合起来，把科研成果迅速转化为生产力”得出有利于现代经济中将科研与生产直接结合模式的形成；并运用经营和管理方面的知识，说明垄断组织对现代经济模式所产生的影响。

答案：(1)加强了规章制度的建设，推动了工厂管理制度的建立；强化了对生产过程的管理，促进了产品质量与生产效率的提高；注重制定销售方案，促进了市场的开发。
(2)原因：第二次工业革命中形成的大工业生产，要求建立新的经济联合体；资本集中，推动了企业兼并的加剧。
影响：有利于先进的现代经济管理模式的形成与发展；有利于现代经济中将科研与生产直接结合模式的形成。

课后拔高练

1. 选A　据材料“大众休闲文化”“戏院”“喜剧和音乐剧”“足球等大型体育赛事”，可得出随着第二次工业革命的进行，城市的精神生活日益丰富，城市化进展显著，故A项正确；第二次工业革命使得贫富差距进一步扩大，而不是逐渐消除，故B项错误；工业化开始启动于第一次工业革命，故C项错误；欧美工人福利得到保障，开始于二战后福利社会制度的建立，故D项错误。

2. 选B　19世纪70年代到20世纪初，欧美大多数国家正进行第二次工业革命，社会生产力进一步发展，故A项错误；这一时期，以英、美、法、德为代表的欧美国家生产力持续快速发展，但其工业生产总和在世界工业生产中所占比例却不断降低，这说明世界其他国家的工业化也在不断发展，故B项正确；图表只是给出英、美、法、德四国的工业生产总和在世界工业生产中所占比例的变化情况，没有其他国家的相关信息，故无法得出C项结论；D项表述正确，但是无法从表中信息得出，故排除。

3. 选C　海外市场主导着科技发明的说法错误，故A项错误；材料只是叙述德国的科技专利，未涉及其他国家，因此不能得出科技实力上遥遥领先于他国，故B项错误；根据材料中从1850年到1870年德国统一，到1900专利授予书目激增，说明统一的政府有利于推动科技的发展，故C项正确；引进技术发明不属于专利，故D项错误。

第三单元　近代中国经济结构的变动与资本主义的曲折发展

第9课　近代中国经济结构的变动

课前自检自查练

1纺　2织　3商品化　4商品经济　5内忧外患
6封建制度　7张之洞　8自强　9安庆内军械所
10求富　11轮船招商局　12北洋　13京师同文馆
14资本主义　15封建经济　16外商企业　17洋务派
1819世纪六七十年代　19发昌机器厂　20继昌隆缫丝厂
21使用机器　22雇佣工人

对点训练

1. 选D　“解体”指的是男耕女织的自然经济解体，即封建农业和手工业逐渐分离并日益商品化，故答案是D项。大批洋货涌入中国不能体现自然经济逐渐解体的含义，故排除A项。B、C两项的说法本身错误，故排除。

2. 选A　作为沿海通商口岸，近代上海对外进出口贸易持续增长，反映了中国与资本主义世界市场联系愈加密切，故A项符合题意；图表中无法体现上海与广州的贸易对比，排除B项；图表无法体现民族资本主义的发展概况，排除C项；图表为进出口贸易总额，进口与出口值并不明确，无法看出中国半殖民地化的趋势，排除D项。

3. 选A　“近代企业”中“近代”的本质含义是用机器制造机器，洋务运动中开始创办了一批近代工业，开启了中国近代化的开端，故选A项。

4. 选B　张之洞创办的汉阳铁厂，是当时中国第一家钢铁联合企业，中国钢铁工业蹒跚起步。因此张之洞拍摄该照片的目的是展现近代化运动的成就，故答案为B项；那时的洋务派官员没有环境污染的概念，排除A项；1894年7月甲午中日战争尚未爆发，排除C项；张之洞一直主张“中体西用”思想，排除D项。

5. 选B　从时间1872年到1875年可以看出中国此时正在进行洋务运动，题干中“他们每3个月要学习14天《孝经》和圣谕”可以看出清政府派遣留学生的宗旨是维护清朝专制统治，故B项正确。

关注微信公众号“教辅资料站”获取更多学习资料

6. 选C　使用机器引进科技，是洋务派的有心之举而非无心插柳，故A项错误；洋务运动只是在一定程度上抵制外国资本主义扩张，故B项错误；洋务运动客观上刺激了民族资本主义的产生，并且民族资本主义此后不断发展，故C项正确；维护清朝的统治是洋务派的主观目的，而非无心之举，故D项错误。
7. 选D　上海、广州等沿海城市是我国受外来侵略比较早的地区，由于外来经济侵略较早，所以自然经济解体较早，商品经济发展较好，有利于民族资本主义的产生与发展，故答案选D项。
8. 选D　洋务派的军用工业主要由政府出资，不讲究利润，生产的军用产品直接调拨到各个军队，不在市场上流通；而民族企业追求利润，产品直接投放到市场上，与市场紧密联系。故应选D项。

学考基础合格练

1. 选A　鸦片战争之后，由于外国资本主义经济入侵，导致中国小农经济的解体，故A项正确。
2. 选B　鸦片战争后，中国的茶和丝通过通商口岸大量出口，扩大了茶和丝的国外市场，农民和市场的联系日益密切，有利于打破自给自足的自然经济，促进经济发展，故选B项；中国的关税在《南京条约》签订后，总体是下降的，故A项排除；鸦片战争之前，中国在对外贸易中是贸易顺差，丝茶的大量出口是减小了贸易顺差，故C项排除；丝茶的大量出口使中国被卷入资本主义世界市场，不属于客观进步作用，D项排除。
3. 选C　洋务派主张学习西方科技以维护清朝统治，因此漫画中的“洋玩意”指的是西方近代科技，故选C项。
4. 选D　安庆内军械所、福州船政局、江南制造总局的目的均在“自强”，故A、B、C三项错误；轮船招商局属于民用企业，目的在于“求富”，故D项正确。
5. 选B　注意抓住题干中的两个主要信息，一是人物陈启源，二是时间1872年。根据所学可知，材料反映的是民族工业的兴起，B项正确。
6. 选A　19世纪六七十年代中国民族资本主义企业与明代“机房”相比，最大的不同点是生产方式的不同，近代中国的民族工业采用大机器生产，属于近代化工业，故选A项。
7. **解析**：第(1)问，结合诗歌和时代背景来分析经济变动，要注意材料中的时间限定——“1840年后”，从经济结构变动、自然经济加速解体、农产品的商品化程度加强等角度分析。第(2)问，按照“把侵略同侵略带来的社会变化区分开来”的思路，对西方扩张所带来的破坏性与建设性的双重作用进行辩证分析。

答案：(1)自然经济加速解体；农产品商品化，受到世界市场的影响；农业经济与商品经济的关系发生变化。

(2)给中华民族带来灾难，但使原有经济结构遭到破坏，社会经济出现新成分；洋务企业、民族资本主义企业创办，民族工业兴起；中国经济被卷入世界市场。

课时加餐拔高练

课后加餐练

1. 选A　中国家庭棉纺织业的“纺”与“织”分离，说明当时中国家庭购买洋纱来织布，反映了当时中国的家庭织布业仍为手工方式，故A项正确；“西方商品完全占据中国市场”说法过于绝对，故B项错误；材料只反映了“纺”与“织”分离，没有反映耕织结合的农业模式已经解体，故C项错误；材料无法体现中国农产品商品化程度，故D项错误。
2. 选B　从图中数据分析，进口税率降低将会使更多的外国商品进入中国，使中国的棉纺织业发展更为艰难，中国也将进一步被卷入资本主义世界市场，中国自给自足的自然经济解体，这一切使中国传统的经济结构发生变化，故选B项。
3. 选C　注意题干的要求“从人类文明演进的角度看”。外国资本主义的入侵，另一方面也传播了先进技术与文化，客观上推动了中国近代化进程。故选C项。
4. 选C　洋务运动中创办了一系列企业，前期以“自强”为口号，创办了安庆内军械所、江南制造总局、福州船政局等军事企业，后期在发展军事企业的同时，以“求富”为口号，创办轮船招商局、汉阳铁厂、湖北织布局等民用企业，故A、D两项错误，C项正确；发昌机器厂是1866年由方举赞、孙英德创办于上海的私人经营的近代工业企业，故B项错误。
5. 选C　依据材料及图片信息可知，开平煤矿是洋务派创办的民用企业，发行股票招募股银，因此洋务企业受西方经营方式影响，故答案为C项；开平煤矿是民用企业，A项排除；政府放宽了兴办实业的限制是在甲午中日战争后，B项排除；材料仅是开平煤矿发行了股票，并不能体现煤矿业获得了稳健快速发展，D项排除。
6. 选C　“只准华商附股搭办，不准另行设局”意在强调封建政府压制、限制民族资本主义的发展，故选C项。
7. 选D　“投资小、见效快”可考虑轻工业，“19世纪70年代前后”应在东南沿海地区，故D项正确。
8. 选D　材料反映的民族企业缺乏竞争力的原因中，资金、投资方式、劳动力素质均不是主要原因，由于外国的严格限制，中国企业长期缺乏核心技术的局面是难以改变的，这是出现上述不正常现象的主要原因，故答案选D项。
9. 选C　当时民族工业要受到清政府和英国政府的双重制约，这体现了半殖民地半封建的社会性质，故C项正确；当时中国的近代外交政策是被迫的对外开放，故A项错误；上海发昌机器厂是中国民族资本家创办的企业，故B项错误；列强不希望中国的民族工业强大，故D项错误。
10. 选C　外资企业、洋务企业和民族资本主义企业都是近代企业，都采用机器生产，故选C项。洋务企业是国家经营的封建企业，产品不完全投放市场，故A、B、D三项错误。
11. **解析**：第(1)问第一小问，从图表“总计(包)”的纵向一栏可以总结出生丝出口数量逐年增多的特点，从表格的出口地点来总结广州生丝出口数量减少，上海生丝出口数量增多的特点。第二小问，从导致这两个特点的原因出发，结合鸦片战争后的史实加以归纳。第(2)问以近代化为切入点考查鸦片战争的影响，可从鸦片战争的政治和经济两个方面的影响来论述。第(3)问第一小问，可结合工业革命后西方国家的侵略和清政府在第二次鸦片战争中失败这一时代背景分析，另外还需明确开启中国近代化大门的是洋务运动。第二小问，结合洋务运动的内容进行分析。

答案：(1)情况：生丝出口量逐年增长；生丝由广州出口转向上海出口。原因：五口通商(上海开埠)；上海具有区位优势。

(2)说明：鸦片战争后，中国逐渐沦为半殖民地半封建社会，政治上丧权辱国，经济上被迫卷入资本主义世界市场(被迫签订不平等条约，开埠通商)。

(3)背景：工业革命的扩展和鸦片战争的影响；洋务运动的兴起。特点：主要发展重工业；设备、技术等严重依赖国外。

关注微信公众号“教辅资料站”获取更多学习资料

课后拔高练

1. 选B　“19世纪六七十年代，外国人将自己的名字租借给中国人经办新式企业的做法”中的外国人的名字代表外国人的身份，在中国近代受领事裁判权的影响，往往意味着特权，成为民族工业创立之初的护身符，故选B项；“民间设厂高潮”这一特定的历史时期在甲午战争后才开始出现，与题干时间不符，排除A项；“外国人将自己的名字租借给中国人”不是外国资本运作的结果，排除C项；“外国人将自己的名字租借给中国人经办新式企业”与对外贸易没有直接的联系，排除D项。
2. 选A　材料反映出开平煤矿的出口税由每吨1两以上减为1钱，土煤的利润有了大幅度提高，这必将减少开平煤矿的负担，刺激洋务派积极兴办矿业，故A项正确；材料反映的是土煤的出口税的变化，没有涉及开平煤矿的管理水平，故B项错误；洋务运动时，中国半殖民地半封建化的程度加深，该举措并未摆脱列强对煤矿业的控制，故C项错误；煤矿业的稳健发展需要政府政策、管理水平和技术人才等多方面的支持，材料反映的只是出口税的减免，故D项错误。
3. 选B　材料中提到“协造”，福州船政局应该是从官办转为官督商办，也就是协办，并没有转为商办，故A项错误；福州船政局所造之船由“派拨各省，并不索取原价分文”到此后造船材料费用“由用船一方拨付，采取‘协造’方式”反映了经费来源的变化，目的在于缓解经费压力，故B项正确；从1879年以前“所造之船均‘派拨各省’”到后来“费用由用船一方拨付”，说明所造之船自始至终没有投入市场，故C项错误；材料仅涉及福州船政局的造船业，不能由此推断近代轮船制造业的状况，故D项错误。
4. 选C　中国关税主权开始丧失于鸦片战争后，但材料并未涉及关税主权，故A项错误；19世纪中期以后的中国，自然经济仍然占据主导地位，没有被商品经济所取代，故B项错误；材料反映出外国商品输出已经深入到中国偏远农村，民众使用洋货的现象日益增多，与世界市场联系日趋密切，故C项正确；材料只是讲述中国市场的洋货增多，无法推断中国是否主动开放市场，故D项错误。
5. 选C　甲午中日战争前中国的洋务运动只是对军队进行初步的西式改革，并没有全部完成，故A项错误；集权制度不一定带来有效作战指挥，也不属于军备优势，而且之前两次鸦片战争也是集权制度，但结果还是失败，故B项错误；甲午中日战争前的洋务运动中，兴办军事工业，筹划海防，建立了三支近代海军，推动军事近代化的努力收到较大成效，属于军备优势，故C项正确；甲午中日战争前中国并没有获得广泛的外部援助，而是受到外部的侵略，故D项错误。

第10课　中国民族资本主义的曲折发展

课前自检自查练

①输出资本　②扩大税源　③办厂热潮　④内地
⑤民族资产阶级　⑥民族资本主义　⑦发展实业
⑧反帝爱国运动　⑨欧洲列强　⑩纺织业　⑪张謇
⑫欧洲列强　⑬国民经济建设运动　⑭战时体制
⑮中美友好通商航海条约　⑯官僚资本　⑰苛捐杂税
⑱滥发纸币

对点训练

1. 选C　甲午战争后，民族危机空前严重，张謇力图实现以实业所得来资助教育，用教育来改进实业，凭实业发展而救国的目标，故C项正确；材料体现了主张发展民族工业，未体现停办官营军事企业，故A项错误；张謇认为改变国弱民贫的局面“不在于商”，并且也没有体现“垄断”意思，故B项错误；材料体现的是实业救国，没有提及“民主共和”，故D项错误。
2. 选A　“1899至1911年，新增私人资本总额9 350万银元，厂矿企业410家”表明民族工业得到了初步发展，主要得益于政府放宽民间设厂限制，A项正确；B项是民族工业产生的原因，排除；C项是在一战期间，排除；D项是在20世纪30年代，排除。
3. 选D　华侨竞相回国投资办厂属于主观因素，不属于政治前提，故A项错误；B、C两项是民族资本主义发展的原因，但不是政治前提。只有D项符合题意，故选D项。
4. 选C　从统计图中可以看出1913～1919年民族工业结构不合理，轻工业发展较快，重工业发展缓慢，故选C项。A项“协调发展”说法错误，排除；B、D两项图中没有体现，均排除。
5. 选A　当时中国仍处于半殖民地半封建社会，这是导致中国民族工业的发展“没有前途”的根源，故选A项。
6. 选C　时间信息是“自国民政府成立(1927年)至今，不过十年”即1927年～1936年。国民政府统治前期，推行“国民经济建设运动”，鼓励发展工业、农业和交通运输业，故答案为C项。
7. 选A　从材料时间看，此时处于抗日战争时期，官营企业数量虽少，但所占的资本总额远远高于民营企业，结合所学可知这是服务于持久抗战的需要，这一状况不利于民营企业的迅速发展，故A项正确，B项错误；官营企业并不能完全抵制列强的经济侵略，故C项错误；在当时全国全力抗战的背景下，很难建立起完整的国民经济体系，故D项错误。
8. 选A　材料反映了货币贬值、通货膨胀的现象，解放战争时期国民政府滥发纸币，导致通货膨胀，故选A项；材料是解放战争时期的现象，与日本人的掠夺政策无关，B项排除；材料反映的是通货膨胀，不是物资供应紧张，C项排除；材料与资本主义经济危机的影响无关，D项排除。

学考基础合格练

1. 选C　甲午战争后，清政府割地赔款，为解决财政困难，清政府放宽了对民间设厂的限制，于是，社会上出现了兴办实业的热潮，民族资本主义获得了初步发展，故选C项。
2. 选C　张謇考中清末状元后，毅然放弃做官，他提出“实业救国”的口号，回到家乡南通创办了大生纱厂，故C项正确。
3. 选D　一战期间，欧洲列强忙于战争，暂时放松对华经济侵略，中国民族工业出现了“短暂的春天”，一战结束后列强卷土重来，导致春天“短暂”，据此可知，列强侵华是阻碍民族工业发展的最主要因素，故答案为D项；A项不是主要原因，排除；B项是五四运动的导火线，排除；民国初年推行了良好的经济政策，C项排除。
4. 选B　材料反映的是政府对经济的重视，没有体现出工商业和交通业的发展速度，排除A、C两项；从表格中可以看出，民国初期经济法规类别的条数比较多，这反映出当时民国政府比较重视经济，故选B项；材料中“银行金融类”的条数为7，无法反映出金融不受重视，排除D项。
5. 选C　南京国民政府开展提倡国货运动，必然伴随抵制洋货，这不利于扩大中国对外贸易，故A项错误；提倡国货与工业体系的形成之间没有必然联系，故B项错误；提倡国货运动，抵制洋货，有利于促进民族工业的发展，故C项正确；提倡国货与调整国民经济结构之间也没有直接关系，故D项错误。
6. 选B　官僚资产阶级利用国家政权的力量垄断经济，从而攫取巨额利润。从材料中“几位大官，乘国家之危急，挟政治上之势力”，可以判断应为官僚资产阶级，故选B项。

关注微信公众号“教辅资料站”获取更多学习资料

7. **解析**：第(1)问应先将民国元年到民国八年换算成公元纪年，即1912～1919年，由此得出这是一战前后，再结合表格中的数据和所学知识，可以得出这一时期，我国民族资本主义得到了短暂的发展，其原因可以结合教材从内、外两个方面来说明。第(2)问根据时间可以判断出属于国民政府统治的前期(1927～1936年)，再根据统计图可以看出这一阶段中国民族工业得到了较快发展，其原因依据教材知识来说明。

答案：(1)状况：民国元年到民国八年，中国民族资本主义得到了短暂发展。原因：辛亥革命的推动；一战期间，欧洲列强暂时放松了对中国的经济侵略；群众性反帝爱国运动的推动；一战后，欧洲列强卷土重来。

(2)状况：国民政府统治前期，中国民族工业中的轻工业得到较快发展。原因：国民政府实行“国民经济建设运动”；民族资本家的爱国行动。

课时加餐拔高练

课后加餐练

1. 选C　根据时间提示及材料内容可知，在甲午中日战争后，为扩大税源，清政府放宽了对民间办厂的限制，这一措施推动了民族资本主义的初步发展。A、B、D三项与材料内容不符，均排除。故选C项。
2. 选C　材料中没有涉及“鼓励绅商从政以巩固统治”的内容，故A项错误；材料中只说到以赏赐爵位的方式奖励实业，没有涉及“使商人活动合法化”的内容，故B项错误；清政府奖励实业的政策，有利于促进实业的发展，从而“刺激传统理财方式的更新”，故C项正确；材料中虽然“规定对所办实业开办资金达到一定数量者赏赐子、男等爵位”，但并不能说明必然“导致资本高度集中”，故D项错误。
3. 选A　材料反映了20世纪初会计学、企业管理等应用经济学倍受关注，而会计学、企业管理等为企业经营服务，这反映了当时中国人实业救国的思潮，故A项正确；1898年维新变法已经失败，故B项排除；会计学、企业管理等有利于企业参与市场，不能说明民族经济缺乏市场意识，故C项排除；材料主旨不是反映近代教育问题，故D项排除。
4. 选A　一战时期，西方列强无暇顾及中国，放松了对华经济侵略，客观上推动了‘替代型’的工业即民族资本主义的快速发展，A项符合题意；爱国运动并非主要原因，B项排除；此时西方从中国大量进口物资以满足战争需要，并非实行封锁，C项排除；“‘替代型’的工业逐渐发展起来”说明国内自然经济抵制作用不大，D项排除。
5. 选D　张謇企业的发展受到限制，其根源是近代半殖民地半封建的社会性质，故D项正确。
6. 选D　表格内容反映出不同的地方所创办的工厂数量的差别还是非常大的，江苏、直隶、浙江、广东等地方的工厂数量很多，而其他地方则非常少，所以上述表格反映出民族工业地区分布不平衡，故选D项。
7. 选B　第一次世界大战之后列强卷土重来，中国的一些本土企业加强了联合，用以抵制外国商品的倾销，故B项正确。
8. 选B　1920年至1936年中的后十年是国民政府统治前期，此时国民政府开展“国民经济建设运动”使民族经济快速发展，故选B项。
9. 选C　官僚资本是国民党政权代表的利益集团，不可能出现国民政府抑制官僚资本的情况，故A项错误；国民经济建设运动出现在国民政府统治的前期1927～1936年，故B项错误；1937年全民族抗战爆发以后，为了集中财力抵抗侵略，国民政府实行战时体制，故C项正确；因为实行战时经济管控体制，民族资本也在管控范围内，故D项错误。
10. 选D　结合材料中“官厅所施行之法律规章所不禁止之商务、制造、加工、科学、教育、宗教及慈善事业”的表述可以判断是《中美友好通商航海条约》，故D项正确；A、B、C三项条约中没有允许“在缔约彼方领土全境内”享有“商务、制造……及慈善事业”等特权内容，故排除。
11. **解析**：第(1)问，第一小问依据材料一“方举赞投资200元，在上海虹口创办了发昌机器厂”得出方举赞创办企业的优势，“困难”依据材料一“发昌机器厂自身的力量还很薄弱”“发昌机器厂受到外商排挤、日趋衰落”归纳出困难。第二小问“优势”依据材料二“张謇考取状元，但他未贪恋官场，而是选择了实业救国之路”得出答案；困难依据材料二“他未贪恋官场，而是选择了实业救国之路”“农民根本不知道工厂是怎么回事”得出社会因素和观念的干扰。第(2)问，本题属于开放型试题，依据材料二张謇从商之路和所学，从创办实业的思想起源、创办中遇到的困难以及创办企业过程中精神品格阐述作答。

答案：(1)方举赞：优势：方举赞本身经营手工作坊，有一定的技术基础和经验；地处上海，便于学习和引进外国先进技术和设备，具有很好的交通和市场条件。困难：资金投入较少，发展慢；没有自己的核心技术，受制于外国；力量薄弱，竞争不过外商。

张謇：优势：状元出身，社会地位高，可以更容易获得社会政治资源；国家政策调整，发展环境有所改善。困难：传统社会因素干扰阻碍，是发展中不小的阻力；弃官从商，与重农抑商的传统相悖，对企业发展有较大风险。

(2)认识：张謇状元出身，却放弃了大好前程，怀着“实业救国”的理想，以身许国，投入到兴办实业的浪潮中，这种精神是中华民族的宝贵精神财富；在遇到困难时，张謇不退缩，因地制宜地引导处理，这种办事风格值得每个遇到困难的人学习。(言之成理，即可。)

课后拔高练

1. 选B　当时川沙县部分名人大多参与了工商业。这说明当时出现了士与工商合一的趋势，冲击了传统强调士农工商分立的社会结构，故选B项；材料“创设朱丽记花米行”说明从事工商业，与科举取士无关，排除A项；材料反映部分士人参与工商业说明儒家的义利观念受到冲击而非被抛弃，排除C项；材料只是提及部分名人从事新式工业，不能反映整个经济状况，且无法说明新式工业在经济中居于主导，排除D项。
2. 选D　维新变法运动开始于1898年，与材料时间不符，故A项错误；1895年甲午战争清军惨败，洋务运动破产，洋务派创办的官督商办企业也受到影响，并且无法判断材料中企业是否为官督商办企业，故B项错误；1895年《马关条约》签订后，允许列强在华投资设厂，拓展了列强在华资本输出的途径，列强加大了对华资本输出，故C项错误；甲午战争清政府战败，需要赔偿日本巨额战争赔款，清政府为扩大税源，解决财政危机，放宽对民间设厂的限制，民间出现办厂热潮，故D项正确。
3. 选D　材料中说的是国民政府将“日伪纺织企业”合并，成立“国有的中纺公司”，与民族企业的困境无关，故A项错误；材料中国民政府“将日伪纺织企业合并，成立了国有的中纺公司”，并未涉及对民族资本主义的轻纺工业的统制政策，故B项错误；民族资本主义工业开始衰落是在抗日战争时期，国民党官僚阶层借抗战控制经济命脉，压榨民族企业，民族资本日益萎缩，故C项错误；依据材料“抗战胜利后，国民政府将日伪纺织企业合并，成立了国有的中纺公司”“即便有人承购，事实上仍需由政府予以维持，等于仍由政府自行拨款接办”可知，政府在经济中主导地位加强，故D项正确。

关注微信公众号“教辅资料站”获取更多学习资料

4. 选D　1927～1936年民族资本主义发展较快，图案上也没有体现火柴工业举步维艰的信息，故A项错误；辛亥革命以来的提倡国货运动就已经采用了这种营销方式，因此在1932年不属于新的营销方式，故B项错误；甲午战争后实业救国思潮开始兴起，这与题干时间不符，故C项错误；根据材料时间“1932年”和“十九路军”可知此时“一·二八”事变已经发生，再结合图案“抗敌”、“挽回利权”等文字可知是反对日本攻打中国上海，因而推动了全国抗日救亡运动高涨，故D项正确。
5. 选B　材料只是论及企业专利，并不能说明建立了系统完善的经济法制体系，故A项错误；依据材料中“北京政府规定专利保护期限最高为5年，申请30年的专利权时，未获批准”说明政府鼓励企业自由竞争，故B项正确；材料中没有反映官营商业信息，故C项错误；据所学可知，“经济法规得以完全遵照执行”说法绝对，不符合实际，故D项错误。

第四单元　中国特色社会主义建设的道路

第11课　经济建设的发展和曲折

课前自检自查练

1帝国主义　2农业国　3重工业　4农业
5资本主义工商业　6飞机　7社会主义工业化
8集体化　9公私合营　10社会主义　11主要矛盾
12工业国　13多快好省　14高指标　15核算
16经济发展　17巩固　18提高　191962　201965
21文化大革命　22全面整顿

对点训练

1. 选B　根据材料可知，美国《时代》周刊认为新中国的经济成就“最大的成功是制止了通货膨胀”，说明新中国恢复国民经济的工作取得了成就，故B项正确。
2. 选D　迄今，我国尚未实现社会主义工业化，故A项排除；图片中未涉及可持续发展战略，故B项排除；C项的表述与建国初期，我国重工业基础薄弱的现状不符，故排除；图片中“一五”计划期间，工人们在荒芜的土地上开展重工业建设的场景体现了工人投身于大规模工业化建设的热情，故选D项。
3. 选C　从“改变了近千年来小农经济……的历史性变革”可以看出是过渡时期对农业实行改造，建立农业合作社，土地从私有变为公有。对农业的改造有力地支持了新中国的工业建设，奠定了物质基础，故C项正确。
4. 选D　1956年的中共八大认为，在社会主义基本制度建立后，我国主要矛盾是落后的生产力与先进生产关系之间的矛盾，因此主要任务是发展生产力，这一判断正确认识了当时中国社会的主要矛盾，故答案为D项；1956年底三大改造完成，排除A项；中共八大是对我国社会主义道路的一次成功探索，排除B项；人民公社体制在1958年开始确立，排除C项。
5. 选D　抓住题干的关键信息，1958年、共产主义、全民供给制，可以推断是20世纪50年代末因“左”倾错误导致的人民公社化运动，超越了历史发展的阶段，故答案选D项。
6. 选B　三大改造的完成标志着社会主义制度的基本建立，没有造成国民经济比例严重失调，故排除A项；“用大搞群众运动的办法去抓经济建设，造成了国民经济比例严重失调”指的是“大跃进”运动，故选B项；人民公社化运动主要是对生产关系的变革使生产关系超越了生产力水平，不属于大搞群众运动，故排除C项；“文化大革命”不是大搞群众运动抓经济建设，故排除D项。
7. 选D　材料反映的是1960年提出的八字方针，八字方针的内容是“调整、巩固、充实、提高”，因此周恩来总理又加上的两个字是“充实”，故D项正确。
8. 选C　1975年，邓小平主持中央日常工作，明确提出全面整顿的思想，使国民经济呈现迅速回升状态。

学考基础合格练

1. 选C　“一化”即是社会主义工业化。在1953年制定的过渡时期总路线，提出在一个较长的时间内逐步实现社会主义的工业化，并逐步对农业、手工业和资本主义工商业进行社会主义改造，故选C项。
2. 选B　A项的时间为1950～1952年；C项的时间为1956年底；D项的时间为1958年，均与“1957年”不符；1953～1957年，我国实施第一个五年计划，取得了丰硕成果，与题干时间及其他信息相符，故选B项。
3. 选B　1956年，三大改造基本完成，但非公有制经济仍然占据一定的比例，故A项错误；1956年底三大改造后，公有制经济已经占据主导地位，社会主义制度在中国基本建立，故选B项；改革开放以来，我国多种所有制经济共同发展，排除C项；社会主义建设从“一五”计划开始起步，排除D项。
4. 选B　1956年中共八大确立了社会主义初级阶段的主要任务是集中力量发展社会生产力，实现国家的工业化，以满足人民日益增长的物质文化需要，即把我国尽快地从落后的农业国变为先进的工业国，故B项正确。A项是1949年至1956年的任务，排除；C项不是中共八大的内容，排除；D项是在1978年，与题干时间不符，排除。
5. 选C　1958年我国开始“大跃进”和“人民公社化”运动，结合变化图，农业总产值不断下降，故C项正确。
6. 选A　依据材料信息“1963年”“《人民日报》”“调整、企业、国民经济、困难、农业生产”并结合所学知识进行判断，这反映的是1962年政府大力调整国民经济，重点是调整国民经济的比例关系，纠正之前的“左”倾错误，以实现国民经济的协调发展，故A项正确。
7. **解析**：第(1)问，第一小问“时期与人物”，根据材料一“三亩地，一头牛，老婆孩子热炕头儿”进行概括；第二小问“形态”，根据材料一可以归纳。第(2)问，第一小问“部门”，根据图示中主要成就来回答相应部门；第二小问“意义”，根据所学知识回答即可。第(3)问，第一小问“时期与梦想”，根据材料三“人有多大胆，地有多高产”等关键信息归纳；第二小问“问题”，结合所学，从夸大人的主观能动性和忽视客观经济规律方面归纳。

答案：(1)时期及人物：中国古代农民的梦想。形态：小农经济。
(2)部门：交通运输、机械制造(汽车制造，重型机器制造)、钢铁生产。意义：改变了中国工业落后的面貌，奠定了中国工业化的初步基础。
(3)时期及梦想：“大跃进”时期(或说20世纪50年代中后期)快速改变中国落后的面貌，实现共产主义的梦想。问题：片面强调人的主观能动性，忽视客观经济规律。

课时加餐拔高练

课后加餐练

1. 选C　历史的目的是具有阶段性的，1949年在没收官僚资本后采取“不打烂旧机构”的措施就是为了发展生产恢复国民经济。当恢复经济的任务完成后，社会改造和社会革命的任务就提上议事日程，故答案选C项。
2. 选A　材料信息表明国家把绝大部分投资都放在发展重工业方面，说明“一五”计划优先发展重工业，A项符合题意。B项与材料不符；C、D两项材料没有反映。

关注微信公众号“教辅资料站”获取更多学习资料

3. 选C　从四枚邮票的内容可知，这是对农业、手工业和资本主义工商业的社会主义改造，其本质是对生产资料私有制的社会变革，故C项正确。
4. 选D　粮食计划收购政策，严禁私商自行经营粮食，是配合1953年开始的三大改造，有利于形成计划经济体制，故D项正确。
5. 选D　“解放”“红旗”体现出政治色彩，1956年中国处于计划经济体制下，故D项正确；社会建设急于求成倾向是1958年，排除A项；材料并不能说明优先发展重工业，B项错误；材料也没有直接说明工业化的基础得以巩固，C项错误。
6. 选A　从互助组、初级社、高级社到人民公社，实现了从农业合作化到人民公社的转变，生产资料从私有制转变为公有制，且公有化的程度越来越高，A项正确；农民作为劳动者，在生产中的地位没有变化，B项错误；人民公社实行平均主义的分配原则，C项错误；人民公社化超越了生产力发展水平，不是成功的探索，D项错误。
7. 选B　“地的产是人的胆决定的”的言论是“大跃进”时期“左”倾错误的典型表现，故选B项。
8. 选A　根据“二五”计划最后并无定稿，可知此时是1957或1958年前后，由于“大跃进”的兴起，导致计划数字不断大幅调整变化，最后并无定稿，故A项正确。
9. 选B　材料中1961年中共中央取消农村部分供给制和公共食堂说明中共中央在进行农村经济政策的调整，纠正农村工作中“左”的错误，故B项正确。
10. 选A　无论是新中国建立后禁止集市贸易，还是1962年到1965年恢复集市贸易，都是国家经济管理方式的调整，故A项正确；新中国建立后禁止集市贸易，不符合经济发展的规律，不是对社会主义建设道路的有益探索，排除B项；新中国建立后禁止集市贸易，和1962年到1965年恢复集市贸易，都没有克服经济建设中的困难，排除C项；1962年到1965年恢复集市贸易，体现国家对经济减少了控制，而不是加强控制，排除D项。
11. **解析**：第(1)问，第一小问，据材料一“我国完成战后的经济恢复”从国民经济恢复工作的完成的角度回答。第二小问，结合所学知识从“一五”计划为社会主义工业化奠定初步基础的角度概括。第(2)问，第一小问，据材料二“1952、1957年中国主要产品产量简表”通过数据的纵横比较并结合所学知识从重工业、轻工业、农业的发展特点等方面归纳。第二小问，结合所学知识从苏联模式的影响、建设经验的欠缺等方面分析。第(3)问，第一小问，据材料三“我们建设社会主义的信心越发增强了”并结合所学知识从乐观自信的角度回答。第二小问，结合1956年的国内政治、经济形势从社会主义制度建立、中共八大等方面简析。

答案：(1)前提：国民经济恢复工作的完成。作用：“一五”计划超额完成，我国开始改变工业落后面貌；为社会主义工业化奠定初步基础。

(2)状况：重工业发展迅速，轻工业发展相对缓慢，农业生产发展滞后。原因：受苏联(斯大林)模式的影响；社会主义建设经验的欠缺。

(3)心态：乐观自信。因素：社会主义制度基本建立和中共八大的召开。

课后拔高练

1. 选D　据材料“1954年1月到4月，中国科学院图书馆上海分馆俄文书刊借阅总数为1953年同期的5倍”并结合所学我国正在开展以苏联援助为特色的“一五”计划可知，其意在改变我国工业化基础薄弱的状况，表明工业化建设需求迫切，故选D项；材料只是反映借鉴俄国，谈不上与国际前沿接轨，排除A项；科教兴国始于1995年，与材料时间不符，排除B项；材料“俄文书刊借阅总数为1953年同期的5倍”反映的是学习苏联经验，排除C项。
2. 选D　“1953年创作的年画”体现了积极参与国家建设的内容，故选D项；“年画”是风俗画，不属于文人画，排除A项；“1953年”社会主义尚未完全建立，1956年三大改造完成后才确立社会主义制度，排除B项；“双百”方针提出于1956年，与题干时间不符，排除C项。
3. 选D　1957年“一五”计划的完成初步改变了我国工业落后的面貌，与材料时间“1953年”不符，故A项错误；中国古代就已经开始开采矿产，“开始”说法有误，故B项错误；1965年国民经济调整任务基本完成，与材料时间不符，故C项错误；1953年我国开始实行第一个五年计划，优先发展重工业，对矿产资源需求极大，漫画反映了大规模经济建设对矿产资源的需求，故D项正确。
4. 选B　1953年至1956年过渡时期的总路线体现了社会主义建设以工业化为中心，材料只是提及建设社会主义，无法体现以工业化为中心，故A项错误；由材料“1956年”可知三大改造完成后，要充分调动各方面力量全面建设社会主义，由材料“奶奶的尺”“阿姨的尺”可知女性成为国家建设的重要力量，故B项正确；1958年掀起人民公社化运动，与材料时间不符，故C项错误；漫画中只是提及“奶奶”和“阿姨”的作用，无法体现城乡差别，故D项错误。
5. 选C　人民公社化道路出现在1958年以后，与材料1950年时间不符合，故A项错误；宣传画只能说明当时农村已经使用机械，但不能推断农业机械化的普及程度，故B项错误；农村已经使用机械，从铁犁牛耕到机械生产，农业生产方式将发生巨大变化，故C项正确；农村掀起社会主义改造是在1953年以后，与材料1950年时间不符，故D项错误。
6. 选A　“一五”计划采取集中力量优先发展重工业的方针，导致我国住宅建设占基本建设投资额的比重不断减少，其他非生产性建设投资也开始受到抑制，故A项正确；“一五”计划优先发展重工业，“住宅建设占基本建设投资额的比重不断减少，其他非生产性建设投资也开始受到抑制”，说明这一时期国民经济结构还不能做到平衡发展，故B项错误；基本建设投资种类很多，如厂矿建设、桥梁建设投资等，因此住宅建设投资比重下降，不代表整个基本建设投资规模被大力压缩，故C项错误；“一五”计划优先发展重工业，导致城市人口大量增加，城市化进程加快，故D项错误。
7. **解析**：第一小问特征，由材料“1950年，政务院确立改造海关的基本方针，海关税则必需保护国家生产，必需保护国内生产品与外国商品竞争”得出完全自主；由材料“在海关税率方面，根据国家经济情况和国内需要予以调整”得出税率灵活，根据国家需要调整。第二小问意义，由材料“必需保护国家生产，必需保护国内生产品与外国商品竞争”得出维护国家关税主权；由材料“中国对外贸易出现了70余年来未有的出超”得出有利于结束外贸入超的局面；由材料“使其较能适合于发展国内生产保护国内工业的要求”得出保护了本国民族经济，有利于国民经济的恢复与发展。

答案：特征：完全自主；税率灵活，根据国家需要调整。

意义：维护国家关税主权；有利于结束外贸入超的局面；保护了本国民族经济，有利于国民经济的恢复与发展。

关注微信公众号“教辅资料站”获取更多学习资料

第12课　从计划经济到市场经济

课前自检自查练

[1]真理标准　[2]实事求是　[3]现代化建设　[4]改革开放
[5]家庭承包　[6]村民委员会　[7]自主权　[8]企业活力
[9]自主经营　[10]按劳分配　[11]竞争　[12]社会主义
[13]南方谈话　[14]市场经济　[15]生产力　[16]小康社会

对点训练

1. 选C　根据材料“明年”“建国三十周年”可知此次会议召开的时间是建国二十九周年时，即1978年。中共七大召开于1945年，中共八大召开于1956年，中共十一届三中全会召开于1978年，中共十二大召开于1982年，故排除A、B、D三项，故选C项。
2. 选D　十一届三中全会中决定实行改革开放政策，此会议之后我国农村实行家庭联产承包责任制的改革，故D项正确。
3. 选D　材料反映了个体经济在城市的恢复和发展，说明当时对个体经济的认可，故D项正确；城市经济体制改革全面开始于1984年，故A项错误；仅凭材料信息并不能说明中国已从法律上明确私人工商业的地位，故B项错误；1952年底国民经济已经得到恢复发展，故C项错误。
4. 选C　材料所述内容是对企业的改革，而此时企业改革的中心环节是增强企业活力，故C项正确。
5. 选A　从示意图可知，当时商品销售出现多种途径，出现多种社会经济成分，这说明经济体制改革给社会经济带来了一定活力，A项符合题意；由示意图可知，当时公有制企业零售总额占多数，说明经济体制并没有出现剧变，B项排除；仅凭零售总额的构成比例，无法得出商品市场繁华和民众生活改善的情况，C、D两项排除。
6. 选B　1992年1月至2月，邓小平先后赴武昌、深圳、珠海和上海视察，沿途发表了重要谈话，为中共十四大提出建设社会主义市场经济体制奠定基础，标志着中国改革开放进入新的阶段，故B项符合题意，A项排除；社会主义市场经济体制在中共十四大提出，C项排除；中共十四届三中全会把党的十四大确定的经济体制改革的目标和原则加以系统化、具体化，不符合题意，D项排除。
7. 选B　根据材料信息“1992年”并结合所学知识可知，1992年中国明确了经济体制改革目标，导致了公务员下海创业，故B项正确；加入了世界贸易组织是2001年，故A项排除；对外开放战略是1978年中共十一届三中全会提出的，故C项排除；材料没有涉及政治体制改革，故D项排除。
8. 选D　中共“八大”正确地分析了社会主义改造基本完成以后，国内的主要矛盾的变化，但是当时我国确立的是计划经济体制，排除A项；中共十二大提出“建设有中国特色社会主义”的重大命题，开创社会主义现代化建设新局面，排除B项；中共“十三大”第一次系统地阐明了关于社会主义初级阶段的理论，明确概括了党在社会主义初级阶段的基本路线，排除C项；中共“十四大”明确经济体制改革的目标是建立社会主义市场经济体制，故选D项。

学考基础合格练

1. 选B　漫画的寓意是农民都有属于自己的田地耕种，这是基于家庭联产承包责任制的推行，得益于中共十一届三中全会，故选B项。
2. 选D　从题干信息“20世纪80年代”“分地，耕者有其责”可知是农村实行家庭联产承包责任制，故选D项。
3. 选D　个体工商业属于私营经济，改革开放后允许它的发展说明单一所有制经济结构已被突破，故选D项。
4. 选B　1984年，城市经济体制改革全面展开，以增强企业活力为中心环节，题干中“放开”“奖金”“厂长负责制”正是这一史实的体现，答案为B项。
5. 选C　1992年，中共十四大确立了我国经济体制改革的总目标是建立社会主义市场经济体制，故C项符合题意。
6. 选B　粮票的使用是计划经济的产物，粮票的废除是市场经济发展的结果，而从计划经济到市场经济的变化属于经济管理体制的变化，故选B项。
7. **解析**：第(1)问，第一小问，据材料一的表格可知所有制的结构由私有制占主导地位向公有制占主导地位转变；第二小问，结合所学知识得出三大改造把生产资料私有制变为社会主义公有制；第三小问，三大改造把生产资料私有制变为社会主义公有制，使得社会主义制度基本确立。第(2)问，第一小问，由材料二可知由单一公有制经济转变成以公有制经济为主体、多种所有制经济共同发展；第二小问，结合所学知识从企业发展、人们工作的积极性、经济发展等方面来作答。

答案：(1)变化：由私有制为主转变为公有制占主导地位。原因：三大改造的完成。影响：社会主义制度基本建立。
(2)变化：由单一公有制经济转变成以公有制经济为主体、多种所有制经济共同发展。积极作用：调动各方面的生产积极性，增强了企业活力，推动经济快速发展。

课时加餐拔高练

课后加餐练

1. 选B　A项出现于新中国成立初期，时间不符，故A项错误；B项符合宣传中共十一届三中全会精神的标语，故B项正确；C项出现于1958年“大跃进”时期，时间不符，故C项错误；D项出现于1992年中共十四大召开之后，时间不符，故D项错误。
2. 选B　材料的关键信息是“20世纪80年代”，图片反映的是农民丰收的场景，可知这是农村实行家庭联产承包责任制，农民获得生产、经营的自主权，调动了农民的积极性，促进了农业的发展，B项符合题意；家庭联产承包责任制是以土地公有制为前提的，排除A项；材料没体现文艺创作的繁荣，排除C项；图片反映的是农民丰收的场景，排除D项。
3. 选A　提高农产品价格有利于调动农民的生产积极性，故A项正确；此时已经开始农村经济体制改革，1984年开始城市经济体制改革，尚未打破旧体制的束缚，故B项错误；材料未涉及农民生产自主权扩大的问题，故C项错误；材料中粮食价格为政府提价而非市场定价，故D项错误。
4. 选A　随着家庭承包责任制的普遍推行，1983年，中央决定，撤销国家政权在农村的基层单位人民公社，建立乡、镇政府，与材料中“实行政社分开建立乡政府”相符，故A项正确。B、C、D三项不符合题意，排除。
5. 选B　1992年我国提出建立社会主义市场经济的目标，21世纪初市场经济体制才建立，故A项错误；1978年至1984年我国粮食产量与油料产量大幅度增长，说明1978年农村推行家庭联产承包责任制后产生的明显成效，故B项正确；1984年才开始城市经济体制改革，材料中农业发展数据取自1984年之前，故C项错误；材料中并未体现1978年至1984年间城乡经济进行大量交流，故D项错误。
6. 选A　解答本题要注意题干的时间“1984年”。1984年国有企业改革的中心环节是增强企业活力，故选A项。

关注微信公众号“教辅资料站”获取更多学习资料

7. 选C　依据材料的时间“1985年”可以看出此时计划经济体制并没有完全崩溃，A项错误；社会主义市场经济体制的初步确立是在21世纪初，B项错误；依据材料“允许企业按市场价格销售‘计划外’产品”可以看出企业的经营自主权在扩大，C项正确；依据题干材料可知企业按市场价格销售“计划外”的产品符合国家规定，D项错误。
8. 选D　题干两幅图片分别体现了20世纪60年代和20世纪90年代人们社会生活的状况，从“光有钱买不了东西”到“握点钱不知买啥东西”反映改革开放以后经济的发展，人民物质生活的丰富，故D项正确。
9. 选A　中国建立社会主义市场经济的本质目的是解放和发展生产力。
10. 选D　材料中中共十四大报告“社会主义制度的自我完善和发展”说明与社会主义市场经济有关，故选择D项。
11. **解析**：第(1)问，由材料一中的“有三名女工正在同旁边桌上的另外三名女工聊天。在我逗留的几分钟里只有一个女工干了活”可得出职工缺乏生产积极性；由“重庆炼钢厂发现了一台140多年前的机器。这家年产30万吨原钢的工厂，使用的机械设备全都是20世纪50年代以前的”可得出设备陈旧；由“上海内燃机研究所的31名技师，平均年龄是56岁”可得出缺乏技术人员；由“没有一个女工说得清楚她们的生产定额是多少”结合所学可知，当时的企业存在政企不分，企业缺少自主权等问题。第(2)问，由材料二中的“昔日国企资本百分之百国有，今日国企90%以上实行股份制，还有外资介入”可得出是所有制形式；由“昔日国企经营为完成国家计划，今日国企经营为追求利润最大化”可得出是经营目的；由“昔日国企利润全部归属国有，今日国企已数年不向国家交利润；即便最近上缴，也是微乎其微”可得出是利润归属；由“昔日国企没有分配自主权，今日国企具有完全分配自主权，不受国家约束”可得出是分配权。第(3)问，可以从材料一中体现的问题解决角度和材料二中的国企改革的表现角度来思考，从思想意识、目标、技术以及企业员工的积极性等角度来分析。

答案：(1)不足之处：职工缺乏生产积极性；设备陈旧；缺乏技术人员；政企不分，企业缺少自主权等。

(2)表现：所有制形式；经营目的；利润归属；分配权。

(3)措施：进一步解放思想；建立现代企业制度；增强创新意识；培养技术人才；增加科技含量；调动企业职工的生产积极性等。

课后拔高练

1. 选A　由材料“1979～1981年，中国减少粮食播种面积5 000万亩，有计划地扩大了经济作物的种植面积，在有条件的地方还开始逐步退耕还林还牧，鼓励农村在经济合理原则下举办社队企业”可知，国家在贯彻落实家庭联产承包责任制的基础上，对农村经济结构的调整，故选A项；1979～1981年中国实行以公有制为主导的计划经济体制，私营企业发展与材料不符，排除B项；“完善了”表述过于绝对，材料时间只是刚实行的几年，1982年关于农村工作的一号文件进一步稳固和完善家庭联产承包责任制，排除C项；社会主义市场经济体制初步建立于21世纪初期，与题干时间不符，排除D项。
2. 选A　家庭联产承包责任制的实行，极大地解放了农村生产力，中国乡镇企业的发展有助于安置农村剩余劳动力，因此农业劳动力大量转移到农业以外的其他行业，故A项正确；材料只反映出农村乡镇企业的发展，与城乡一体化无关，故B项错误；21世纪初社会主义市场经济体制初步建立，不符合时间限制，故C项错误；材料只体现出工业整体的发展，没有涉及工业内部结构的变化，故D项错误。
3. 选C　据材料“城镇居民须与国营粮店建立供给和消费关系”，可得出计划经济控制“粮油关系”，因此取消“粮油关系”目的是实现从计划经济到市场经济的转变，这与消除城乡区域差别无关，故A项错误；取消“粮油关系”的目的与增加城乡居民收入无关，故B项错误；取消“粮油关系”的目的是在粮油供给和消费关系方面完善市场经济体制，故C项正确；取消“粮油关系”的目的与开启农产品商品化无关，故D项错误。
4. 选C　根据材料信息“计划与市场相结合成为世界经济体制优化的普遍趋势”可知，该报告主张将国家干预经济和市场经济结合起来，故A项错误；材料涉及的是计划与市场的关系，并未提及经济全球化，故B项错误；该报告提出计划与市场相结合成为世界经济体制优化的普遍趋势，意味着要在计划与市场的关系上有所突破，引入市场经济作为资源配置的方式和手段，故C项正确；现代西方经济体制的实质是垄断资本主义私有制，这在材料中没有反映，故D项错误。
5. 选A　1978年农村开始推行以家庭承包经营为主要形式的责任制，农民拥有了土地的使用权，生产积极性提高，因而出现了材料中的增产现象，故A项正确；1980年与1975年相比，当时中国农业生产技术没有革命性的改变，故B项错误；1980年，农村经济体制改革正在全国推广，并没有完成，故C项错误；1980年国家尚未取消对农副产品的统销政策，彻底取消统购统销政策是在1992年，故D项错误。

第13课　对外开放格局的初步形成

课前自检自查练

[1]深圳　[2]海南省　[3]经济管理　[4]市场调节
[5]外商投资　[6]外向型　[7]上海　[8]长江　[9]高新技术
[10]知识密集　[11]国际行情　[12]长江沿岸城市
[13]经济特区　[14]沿海开放区

对点训练

1. 选B　率先实行农业改革的是安徽省和四川省，故A项错误；1980年，中国开放了广东省的深圳、珠海、汕头和福建省的厦门为经济特区，故B项正确；开始设立沿海经济开放区是在开放经济特区之后的1985年，并非广东省“先行一步”的表现，故C项错误；开放沿海城市是在经济特区设立之后的1984年，故D项错误。
2. 选B　香港、澳门特别行政区是“一国两制”的产物，实行的是资本主义制度，而深圳经济特区实行的是社会主义制度，所以两者最主要的区别是政治制度的区别，故选B项。
3. 选D　1988年，中共中央、国务院批准设立海南省，划定海南岛为经济特区，故D项正确。
4. 选C　材料中的“开放整个海岸，意味着实际开放了半个中国”表明中国的对外开放进入了开放沿海港口城市的阶段，以及“它是35年来”可知这是指建国35年即1984年开放14个沿海港口城市的事件，故C项正确；A、B、D三项均为无关项，排除。
5. 选C　珠江三角洲的城市数在1980年以后增加迅速，这与国家政策密不可分。1980年，我国建立四个经济特区，其中深圳、珠海均位于珠江三角洲，1985年，整个珠江三角洲被开辟为沿海经济开放区，故C项正确。
6. 选B　根据材料“1984年被列入沿海开放城市”“20世纪90年代初成为改革开放重点”并结合所学知识可知，这个是指上海，故B项正确；A、C、D三项是开放的经济特区，均与题意不符，排除。

关注微信公众号“教辅资料站”获取更多学习资料

7. 选D　20世纪90年代以来经济全球化不断加快，故A项排除；社会主义市场经济体制是1992年中共十四大上提出的，至21世纪初初步建立，故B项排除；中国加入世贸组织是2001年，故C项排除；1978年十一届三中全会以来，随着对外开放格局的形成和发展完善，中国对外贸易总额不断增加，故D项正确。
8. 选C　1980年确定在广东省深圳、珠海、汕头和福建省的厦门设置经济特区，后来我国对外开放的地区逐渐扩大，开放广州、上海等14个沿海港口城市，增设海南经济特区，设立浦东开发区，现在对外开放区已经从沿海地区向内地发展，形成了“经济特区—沿海开放城市—沿海经济开放区—内地”这样一个多层次、有重点、点线面结合的全方位对外开放新格局。故C项正确。

学考基础合格练

1. 选B　1979年春，邓小平在与广东、福建两省领导谈话时指出可以在广东和福建划出一块地方来，建立特区，对两省的对外经济活动实行特殊政策和灵活措施，这个重大决策对加速我国现代化建设有重要意义，故答案选B项。
2. 选A　深圳、珠海等地是第一批经济特区，它们的特殊性体现在突破了计划经济体制，开始实行特殊的经济政策，故答案选A项；此时中国的改革和开放还没有进入市场经济体制阶段，故B项错误；经济特区不能实行特殊的对外关系，故C项错误；D项与史实不符合。
3. 选B　示意图强调了1980～1988年我国进出口总额的变化，即对外开放取得的成就。1980年设立经济特区，故排除A项；开放14个沿海港口城市是在1984年，正是示意图中进出口总额迅速增长的原因，故选B项；开发上海浦东地区是在1990年，加入世贸组织是在2001年，时间均不符合题意，故排除C、D两项。
4. 选C　根据所学知识可知，厦漳泉三角地区属于对外开放格局中的沿海经济开放区，故C项正确。
5. 选D　1990年4月，中共中央、国务院从深化改革、扩大开放的长远战略着眼，作出开放上海浦东地区的决策。浦东的开发和开放，成为中国进一步对外开放的重要标志，故D项正确。
6. 选D　题干所述是我国对外开放格局，“全方位”指对全世界所有国家开放，无论是发达国家，还是发展中国家，无论是资本主义国家，还是社会主义国家，故选D项。
7. **解析**：第(1)问，注意结合材料一从国际、国内两个方面分析原因，内容和立足点同样从材料中概括。第(2)问第一小问，我国对外开放的基本格局就是“经济特区—沿海开放城市—沿海经济开放区—内地”；第二小问，关键是对“经济运行环境”的理解，充分利用图片中所提示的年代进行解答。

答案：(1)原因：闭关自守导致中国长期停滞落后；当今世界是个开放的世界，中国的发展和现代化建设离不开世界。内容：吸收外国资金，引进先进技术。立足点：对外开放须建立在自力更生的基础上。

(2)格局：逐渐形成“经济特区—沿海开放城市—沿海经济开放区—内地”的格局。最大优势是市场经济体制初步形成。

课时加餐拔高练

课后加餐练

1. 选A　1980年国家正式将“出口特区”定名为“经济特区”，深圳、珠海、汕头、厦门成为我国第一批经济特区，故A项正确；B、C、D三项不符合题意，均排除。
2. 选A　1980年深圳经济特区设立，在国家对外开放政策的推动下，深圳迅速从一个边陲小镇发展为一座现代化城市，从材料中人口数据的变化来看，说明深圳常住人口的增长适应了外向型经济的需要，故答案为A项；人口出生率的提高没有史实依据，故B项排除；人口增长与经济结构变化、社会老龄化进程没有直接关系，故排除C、D两项。
3. 选A　根据材料中“时间就是金钱，效率就是生命”的信息可以得出该口号体现了开放之初深圳特区积极创新，倡导实干的精神，故A项正确。
4. 选B　开放的“港口城市”并不是完全等同于经济特区，只是继续了原来经济特区成功的一个方面，如招商引资等。故选B项正确。
5. 选C　材料列举的各项法律为我国在对外开放过程中与外商合资、经营等活动提供了规范，使之制度化、法律化，表明政府推进对外开放的决心，有利于对外开放引进外资，故C项正确；中国融入世界经济体系指的是2001年加入世贸组织，排除A项；1992年中共十四大提出了经济体制改革的目标是建立社会主义市场经济体制，到21世纪初，我国初步建立了社会主义市场经济体制，排除B项；中外合资经营企业、外资企业、中外合作经营企业不属于公有制企业，故D项错误。
6. 选B　1985年2月沿海经济开放区的开辟，推动了对外开放的进程，使我国对外开放进一步深化，故B项正确；我国城市经济体制改革开始于1984年10月中共十二届三中全会之后，1985年2月开辟沿海经济开放区之时我国城市经济体制改革已经展开，故A项错误；在沿海地区发展外向型经济的战略提出时间是1987年，不是1985年沿海经济开放区的开辟，故C项错误；我国对外开放格局初步形成的时间是20世纪90年代初，不是1985年，故D项错误。
7. 选B　1978年中共十一届三中全会之后我国陆续实行改革开放，1979年经济特区的设立和农村家庭联产承包责任制的成功实行，成为改革开放的“不可逆转”政策，故B项正确；沿海经济开放区是1985年开始实行，故A项错误；经济体制改革之时人民公社化体制并没有完全撤销，故C项错误；城市经济体制改革开始于1984年，全面展开不符合1985年史实，故D项错误。
8. 选C　深圳、珠海、汕头、厦门是改革开放的排头兵，故A项错误；材料说的是改革开放，并非经济体制改革，故B项错误；根据材料中“1992年”，可知1992年邓小平南方谈话，深刻回答长期束缚人们思想的许多重大认识问题，把改革开放和现代化建设推进到新阶段，故C项正确；材料未体现简政放权，故D项错误。
9. 选C　根据材料中的关键信息“上海”“带动周边”“点轴开发”等，可判断是浦东的开发开放，故选C项；A项太笼统，B、D两项不符合“以点带面”“点轴开发”模式，均排除。
10. 选C　材料无法体现以出口创汇为主要目标的经济活动，无法得出基本形成外向型经济的信息，故A项错误；材料反映的是我国对外贸易和引进外资的情况，不能说明在全球化中的地位提高，故B项错误；材料反映我国对外贸易和引进外资的数额不断增长，说明对外开放步伐加快，故C项正确；材料反映的是对外开放的情况，不是市场经济体制，故D项错误。

关注微信公众号“教辅资料站”获取更多学习资料

11. **解析**：第(1)问，第一小问，根据材料一“那时候我去广西火车站坐车，车站上就挂着大幅标语，写着坚决抵制来自广东的资本主义倾向”“当时很多人认为搞改革开放是资本主义的东西”“一开始，特区的建设只是作为一个试点，当时珠海景山路的左边是特区，右边就不是了，它的区域最开始只有8平方公里，后来扩大到10平方公里，最后才慢慢扩展到整个珠海”等信息从遇到阻力、不认同设立经济特区、珠海经济特区范围很小等方面回答问题即可；第二小问，结合所学知识可从经济特区作为新生事物被人们接受需要一个过程方面思考作答。第(2)问，第一小问，根据材料二“1985年2月，中共中央、国务院决定把长江三角洲、珠江三角洲和闽南厦门、漳州、泉州三角地区开辟为沿海经济开放区”“1988年3月，国务院进一步扩大了长江、珠江三角洲和闽南三角洲地区经济开放区的范围，并把辽东半岛、山东半岛、环渤海地区的一些市、县和沿海开放城市的所辖县列为沿海经济开放区”等信息并结合所学知识可从“经济特区—沿海开放城市—沿海经济开放区—内地”逐步推进，初步形成了多层次、有重点、点面结合的对外开放格局方面作答即可；第二小问，结合所学知识可从中外经济交流、推动本国经济发展等方面思考作答。

答案：(1)问题：珠海经济特区的设立在当时遇到了不少阻力，很多人并不认同设立经济特区的做法；最初的珠海经济特区范围很小。认识：经济特区作为新生事物被人们接受需要一个过程。

(2)历程：“经济特区—沿海开放城市—沿海经济开放区—内地”逐步推进，初步形成了多层次、有重点、点面结合的对外开放格局。影响：为进一步拓展我国同世界各国的经济技术交流与合作，加快我国经济发展，创造了良好的条件。

课后拔高练

1. 选D　土地改革是在解放战争时期和新中国成立初期，时间上与题干不符，故A项错误；农业合作化是在1953～1956年社会主义改造时期，时间上与题干不符，故B项错误；包产到户最早开始于1978年11月的安徽省凤阳县小岗村，之后在安徽、四川等省的一些地方推进，故C项错误；1979年4月，广东省领导向中央汇报“让广东先走一步，放手干”，之后，中共中央、国务院批准广东、福建省委的报告，决定对这两个省的对外经济活动实行特殊政策和灵活措施，给予更多的自主权，故D项正确。
2. 选B　家庭联产承包责任制是从安徽开始的，与广东和福建省不符，故A项错误；1978年十一届三中全会后，确立了改革开放的方针，确定以广东和福建两省为基础建立经济特区对外开放，故B项正确；建立社会主义市场经济体制的目标是在十四大确定的，直到21世纪初，我国初步建立了社会主义市场经济体制，与材料中的时间不符，故C项错误；国有企业改革全面开始于1984年，故D项错误。

第五单元　中国近现代社会生活的变迁

第14课　物质生活与习俗的变迁

课前自检自查练

[1]洋装　[2]中山装　[3]建筑样式　[4]断发易服
[5]反清革命　[6]简约文明　[7]票证　[8]小康　[9]多样化
[10]菜篮子工程　[11]安居工程　[12]休闲娱乐

对点训练

1. 选A　中国传统婚姻服饰是红色，而白色婚纱是西式服饰，说明当时通商口岸开放使西方文化大量传入，故选A项；白色婚纱代表西方文化，对中国文化有一定冲击，但不是同化政策，故排除B项；材料并不能说明对于国人白色婚纱比红盖头更具吸引力，实际上，当时传统婚俗更加被民众接受，故排除C项；穿白色婚纱并非资产阶级特权，故排除D项。
2. 选C　题干说的是人力车，而不是汽车，故A项排除；1879年正处于中国国门被打开之初，社情民意主要还是传统的价值观念，上述规定应该与主要的民意是一致的，故B项排除；“人力车”是当时的新生事物，而“严守男女之大防”是我国封建政府一直以来的价值观，所以面对新生事物“人力车”，才会出现旧的传统观念用在新事物上，故C项正确；上述规定体现的是传统旧观念，所以不是顺应历史发展趋势的规定，故D项排除。
3. 选A　考古发现的致远舰上的餐盘标有英语，说明军舰官兵的生活受西方影响，故A项正确；这一餐盘不是普通市民的生活用品，故排除B项；从致远舰上发现的餐盘不能反映当时通商口岸的状况，故排除C项；D项中的“全盘西化”说法绝对，排除。
4. 选A　这些现象是随着辛亥革命的兴起，清王朝的覆灭而出现的，所以推动该变化发生的主要因素是政治变革，而非经济、教育和科技的进步，故选A项，排除B、C、D三项。
5. 选B　材料反映的是城乡差别，而非东西冲突，故A项错误；近代城市化进程中，乡村进一步败落，与城市之间出现巨大鸿沟，故“过了护城河，有退化一千年的感觉”，B项正确；中华文明延续于城市和乡间，故排除C项；材料没有涉及新文化运动的影响问题，故排除D项。
6. 选A　各地报纸的报道都是新风俗的体现，说明人民政权注重社会风俗的改良，注重树立新风俗，故A项正确；材料没有涉及政治变革和习俗变革的关系，故B项错误；农村速成识字与新中国的扫盲教育有关，宣传新婚姻法等都是改良社会风俗的体现，而不是传统习俗带有意识形态色彩，故C项错误；材料没有体现春节习俗的新旧交织的特点，故D项错误。
7. 选C　题干要求选择的是根本原因，根本原因应是从经济角度分析归纳，故C项正确。A、B、D三项属于次要原因，不符合题意，故排除。

学考基础合格练

1. 选A　根据材料中“园小而曲折，然楼阁几案皆有夷气”可知，中国近代的建筑吸收了西洋风格，中国近代建筑呈现出中西融合的特征，故A项正确。
2. 选C　歌词反映的是幼女缠足之后的痛苦，由此可知，此歌词意在提倡废除缠足，故C项正确。
3. 选C　长袍马褂是中国传统服饰，西装是西式服饰，没有体现中西合璧特色，故排除A、B两项；中山装是孙中山结合中国传统服装和西式服装创造出的一种新式服装，故C项正确；唐装出现的时间不是清末民初，故排除D项。
4. 选D　A项中“完全接受”，B项中“公开赞成”，C项中“无法融合”的说法均太绝对，未能体现材料主旨，排除，故D项正确。
5. 选C　20世纪50年代，中苏关系友好，妇女的着装因而也受到了苏联的影响，故C项正确。
6. 选A　改革开放以来，由于人民生活水平逐步提高，休闲娱乐成为人们日常生活的一部分，故A项正确。

关注微信公众号“教辅资料站”获取更多学习资料

7. **解析**：第(1)问，依据材料中人们对电灯和自来水由恐惧到接受的过程可知，清末民初社会观念的“变化”是从维持中国旧俗、恐惧排斥新事物，到认同西方先进文明、接受追求新潮。第(2)问，由材料一信息可知，人们对待西方物质文明，通过实践体会其优越性，从而逐步认识接受；由材料二信息“中国传统的社会生活则充满着陈旧愚俗，不符合时代潮流，非改革不可。以致在民国初形成了这样一种社会心理：认为谁接受西方的社会生活习俗，谁就是文明、开化，属于新派人物”得出，人们对清朝及传统旧俗的不满；在辛亥革命推动下，民主共和、平等自由观念逐渐深入人心；进步人士的提倡，社会心理的认同等。

答案：(1)变化：从维持中国旧俗、恐惧排斥新事物，到认同西方先进文明、接受追求新潮。

(2)原因：材料一：对待西方物质文明，通过实践体会其优越性，从而逐步认识接受。材料二：对清朝及传统旧俗的不满；在辛亥革命推动下，民主共和、平等自由观念逐渐深入人心；进步人士的提倡，社会心理的认同等。

课时加餐拔高练

课后加餐练

1. 选B　由题干关键信息“渐仿洋装”可看出，中国服饰的变化受到了西方的影响，故选B项。
2. 选C　随着近代中国的被迫开放，西方工业文明传入，中国社会生活发生了变化，材料实际上反映了近代中国社会发生变化的外部原因，故C项正确。
3. 选B　材料体现不出社会价值观的更新，故A项错误；成衣机器出售反映出西方的缝纫机在中国市场上开始流通，这说明西方文明开始改变中国的社会生活，故B项正确；中国传统的自然经济开始解体是在鸦片战争后，且材料体现不出耕织分离，故C项错误；此时中国服装业还未实现西方化，故D项错误。
4. 选B　根据材料中“改良婚礼”“男女同是新国民”等信息，抓住题干中的时间限定“最早”分析，可知是民国时期倡导文明婚礼，男女平等思想的体现，故B项正确。
5. 选B　由材料“天下兴亡，匹夫有责”到“天下兴亡，匹妇有责”，说明在中国近代革命及思想解放过程中同样注重女性力量，反映了近代女权意识逐渐增强，故B项正确；1915年新文化运动宣扬“民主”“科学”，才推动民主科学观念深入人心，故A项排除；材料中“天下兴亡，匹夫有责”到“天下兴亡，匹妇有责”，只能说明对女性的重视，不能体现社会生活的现代时尚，故C项排除；1915年新文化运动冲击封建儒家思想，之后，逐渐地才使封建正统思想瓦解，这与材料中的时间不符，故D项排除。
6. 选D　材料既反映了女子思想的解放，也可以看出旧的婚姻观习俗依然存在，故D项正确。
7. 选A　根据材料“北京、上海、广州的一些戏楼、茶馆出现男女杂处合坐”结合所学知识可知，中国女人的行为从受到限制到可以男女杂处合坐，体现了近代中国的思想解放，女性地位的提高，故A项正确；材料说的是部分地区，各地风俗趋向一致的说法过于绝对，故B项排除；民主思想的广泛传播与材料无关，故C项排除；娱乐场所繁荣兴盛的说法不符合材料主旨，材料强调的是女性地位的提高，故D项排除。
8. 选A　由题干表明国家法令对人们的服饰有很大的影响，故A项正确；材料看不出各阶层都追求，也不是强调个性自由，也没有体现出中山装的特征，故排除B、C、D三项。
9. 选C　这些流行语所反映的是改革开放后中国社会的变化，所涵盖内容很多，包括政治、经济、思想、体育等多个方面，体现了改革开放以来中国全方位的变化，故C项正确。
10. 选B　由调查结果前三位看，现代“嫁妆”档次很高，有房子、车子，还有票子。这说明随着社会经济的发展，人们更注重嫁妆的实用性，将嫁妆与改善自己的生活质量密切联系，故选B项；送“嫁妆”本身就受传统婚俗观的影响，而且送“嫁妆”不属于商业行为，材料也无法反映女性的政治地位情况，故排除A、C、D三项。
11. **解析**：第(1)问，“变化”主要根据材料中“不遵规制”“暴富起来的商人穿上锦袍”等信息分析概括；“原因”主要结合鸦片战争后西方文明对中国的冲击以及社会经济发展等史实分析。第(2)问，由材料中“民国后的社会舆论”等信息分析西装在民国后流行的主要原因；由材料中“保护民族工业”“颇让那些穷学生为难”“有的人则到旧货市场上去买旧西装”等信息概括制约流行的因素。第(3)问，材料中“不遵规制”“传统帝国时期通过服装便可辨认身份的特征已经彻底消失了”等信息主要反映出等级化到平民化，西装的流行反映出“西化”的趋势。

答案：(1)变化：服饰逐渐从身份的象征变成了财富的象征。原因：西方文明的冲击；社会经济的发展。

(2)原因：民国政府的推动；相对开放的社会风气或舆论。因素：保护民族工业的愿望；经济条件的制约。

(3)趋势：从等级化到平民化；明显“西化”。

课后拔高练

1. 选D　据材料官府否定的发式只是“与道教人物刘海蟾的发式相似”，可得出与道教的地位被否认无关，故A项错误；材料只反映出“新式学堂学生”“城市青年”发式的变化，并不能代表社会潮流，故B项错误；材料官府反对的是“在发辫四围留短发，覆于额头”这一发式的变化，与反对政治革新无关，故C项错误；1903年随着革命思潮的发展，发式的变化被赋予政治意义，带来“新式学堂学生”“城市青年”发式的变化，故D项正确。
2. 选B　新文化运动兴起的标志是1915年陈独秀在上海创办《青年杂志》，时间上与材料不符，故A项错误；依据材料“思想日新，舍补脑之外另无精神思想也”可知追求新思想成为社会时尚，故B项正确；材料只是提及广告的宣传，并不代表改良社会风俗已经成为国民共识，故C项错误；材料只是广告宣传而已，谈不上推进文明，况且在近代中国半殖民地半封建社会条件下，文明的推进有待于经济的发展和思想的解放，广告的作用十分有限，故D项错误。
3. 选B　材料反映了20世纪30年代上海的婚礼仪式，无法获知这些婚礼的配偶是否是出于自愿，所以不能说明民众实现了婚姻自主，故A项错误；“喜字纱灯”“蓝袍黑褂”是中国婚礼的习俗，而“演奏钢琴曲”“头披白纱，手持鲜花”则是受西方婚礼仪式的影响，说明当时的婚礼仪式具有中西习俗融合的特征，故B项正确；材料只是讲述婚礼的形式和规模，没有提及当时的择偶标准，因此不能说明门当户对观念已颠覆，故C项错误；社会习俗的变迁受到政治、经济、思想文化等多方面的影响，材料中的集体婚礼虽由政府组织举办，但不能扩大为政府主导社会习俗演变，故D项错误。
4. 选D　明清时期科举制度一味追求八股取士，束缚了思想，早就丧失了当初的活力，故A项错误；由“新学国民及留学生多剪去辫发，以为不如此则形式上有缺点”可知其同新式教育与传统科举是不相融的，故B项错误；新学之人认为发式只是一种形式上的区别，新旧学的根本区别在教育的内容上，故C项错误；由“称自由讲民权者，实不敌其功名心也”可知，虽然新学追求民权，但并无报效国家的有效方式，只能服从封建选拔人才的方式，故D项正确。

关注微信公众号“教辅资料站”获取更多学习资料

第15课　交通和通讯工具的进步

课前自检自查练

[1]吴淞口　[2]唐山　[3]兰新　[4]上海　[5]轮船招商局　[6]高档旅游　[7]冯如　[8]丹麦　[9]台湾　[10]崇明　[11]互联网

对点训练

1. 选C　由材料信息“19世纪六七十年代”“江苏……到上海”，可判断是轮船招商局的轮船，故选C项；汽车在中国开始出现的时间是20世纪初，故排除A项；铁路在19世纪70年代才在中国出现，故排除B项；军舰是军事专用，不可能用于商业运营，故排除D项。
2. 选A　“只有一节车厢”说明车厢不分男女贵贱，这种新式交通冲击了当时国人的道德传统和行为规范，促进了人们生活观念的转变，故A项正确；近代中国交通工具传统与近代并存，“完全改变了人们的出行方式”说法过于绝对，故排除B项；近代中国社会经济落后，不可能消除中外交通事业的差距，故排除C项；近代中国处于半殖民地半封建社会，传统社会观念依然存在，没有实现自由平等的政治诉求，故排除D项。
3. 选C　电车不需要燃烧燃料，故排除A项；诗中“长虫似的一条”，说明交通工具形体瘦长，“精窄的两道，算是轨”，说明有轨道才能前进，故排除B、D两项；“呼吸是火焰”，说明需要燃烧燃料，火车烟囱冒烟正像是呼吸的状态，故C项正确。
4. 选C　1920年，国民政府的中国航空公司开辟了北京至天津的航线，这是中国最早的民航线路。
5. 选B　根据材料“1879年”“为了加快沟通军情”并结合所学知识可知，材料中的通讯工具是指电报，故B项正确；驿站和邮政传递信息的速度比较慢，故A、C两项排除；1900年，中国第一部市内电话在南京问世，故D项排除。
6. 选A　依据材料可知，此项发明手里拿着就能使用，可以使位于不同地点的人们相互之间可以听到对方的声音，符合这一特点的近代通讯工具是电话，故A项正确；电报不能使人听到对方的声音，故B项错误；电影不符合“人手而能用”的特点，也不能使位于不同地点的人们相互之间可以听到对方的声音，故C项错误；互联网是现代发明，不是近代发明，故D项错误。
7. 选D　互联网不仅集电话、广播和电视三者的功能和优势于一体，还具有高度互动、迅捷便利、费用低廉的优势，故选D项。

学考基础合格练

1. 选A　从材料中的“天下商民称便”可以判断B、C两项错误；从火轮船的传入这一史实来看，中国并没有禁绝外来事物，D项错误。故答案选A项。
2. 选A　1876年，英商在未征得清政府同意的情况下，采取欺骗手段在上海擅自修建了淞沪铁路(从吴淞到上海)，全长15公里，这是中国最早办理客货运输业务的第一条铁路。后来清政府用28万两白银将其赎回，全部被清政府赎回拆除了，故A项正确。
3. 选B　20世纪30年代上海地区刊登的汽车广告说明上海地区的交通已经迈向了近代化，故B项正确；A项错在“趋同化”，C项错在“普及化”，均排除；此时汽车制造还没有实现国产化，故D项错误。
4. 选D　当时历史发展的潮流是资本主义的近代工业文明，新式交通的引入和发展推动了中国工业文明的近代化，故选D项。
5. 选B　依据材料中“甲午中日战争期间”可以推断出当时使用通讯工具主要是有线电报，故答案选B项。A项是古代通讯方式，C项传输比较慢，D项无线电报此时还没有产生，均排除。
6. 选C　图片人物穿的是传统服装长袍马褂，故A项错误；图片没有反映建筑物情况，故B项错误；图片人物在接电话，反映的是通讯工具的变化，故C项正确；图片没有体现婚礼，故D项错误。
7. **解析**：第(1)问根据材料可知是为了运输煤炭。第(2)问结合材料和所学知识从政治、经济、思想、铁路优越性等方面回答。第(3)问铁路由兴起、受挫到不断发展更新，说明先进生产力的发展是不可阻挡的潮流等。

   答案：(1)目的：解决煤炭运输的问题。

   (2)原因：西方工业革命的推动；先进的中国人为改变落后面貌和挽救民族危亡而做出的探索与努力；社会发展的客观需求；铁路运输速度快、运力大、费用低，有利于国民经济的发展。

   (3)认识：铁路交通运输的发展历程是曲折的，先进生产力代表社会发展方向，不可阻挡；在引进西方先进技术的同时应加大自主创新。

课时加餐拔高练

课后加餐练

1. 选B　黄包车是两轮在后，不是一轮在前，一轮在后，故A项错误；自行车是一轮在前，一轮在后，故B项正确；汽车是四个轮子，故C项错误；电车是以电力作为动力，不符合材料意思，故D项错误。
2. 选C　根据图示材料信息“当‘火轮车’通过时，人们纷纷涌来，争相乘坐”可知铁路火车影响人们生活，故C项正确；A、B两项与史实不符，排除；D项不符合材料信息，排除。
3. 选C　根据表格信息可知，外国资本直接投资经营和清政府向外国借款修建的铁路比例大，可见中国铁路修筑权和经营权被西方列强控制，故C项正确；辛亥革命发生在1911年，故排除A项；材料反映的是列强控制了近代中国铁路的修筑权，与民族工业初步发展不符，故排除B项；材料没有涉及清政府将铁路收归国有，故排除D项。
4. 选A　由竹枝词的内容推测该文明成果是通讯工具有线电报，故A项正确。
5. 选D　从材料信息“以乘汽车为豪”“少年男女同乘一车”可以看出汽车的出现引发了社会习俗的变化，冲击了传统观念，故选D项；A项中的“主要出行工具”，C项中“奢侈风气”材料没有体现，B项没有体现材料中心思想，均不符合题意，排除。
6. 选B　长期以来，中国东部地区经济发展水平要高于内地，因此近代中国铁路主要分布在东部地区，这种分布不平衡取决于中国经济发展的不平衡，故B项正确。
7. 选A　材料中潼关因铁路的开通而使经济走向繁荣，这是交通发展促进当地开发的体现，故A项正确；材料体现了国民党对内地的建设，但并不能说明是“开始”，故B项错误；材料不能说明工业布局的问题，故C项错误；国民经济建设运动开始于1935年，故D项错误。
8. 选A　材料“如今渐渐让位于必须与周边省份乃至于全国各地打通交流的途径”表明，四川加强了与周边地区的沟通与联系，主要是因为近代交通的发展，故A项正确；电话在当时并不普及，电视在当时的中国并没有出现，排除B、D两项；C项不符合题意，排除C项。

关注微信公众号“教辅资料站”获取更多学习资料

9. 选C　19世纪中期还没有出现无线电报技术，故A项错误；无线电报技术是19世纪末发明的，但当时没有传到中国，故B项错误；无线电报通讯方式在中国出现于1906年，故C项正确，D项错误。

10. 选C　自行车变迁与科学水平提高没有直接关系，故A项错误；自行车在中国的发展过程与信息传递没有直接关系，故B项错误；从1868年中国首次出现自行车到20世纪后半期中国成为自行车王国，再到近代中国共享单车行业发展，这种变化反映了近代以来社会交通和观念的变化，故C项正确；材料描述的是中国自行车使用情况的发展变迁，与技术革命无关，故D项错误。

11. **解析**：第(1)问，第一小问，根据“驰道和栈道的修建，是秦汉时期规模宏大的筑路工程。……隋唐两代水陆交通都很发达”“辽宋夏金时期的主要陆上运输工具是名目繁多的各种车辆，……宋朝将指南针应用到海船上，航海技术大大提高”“元朝继续开挖运河。京杭运河全线通航。大都成为全国乃至世界交通中心。明清时期，我国古代交通由盛而衰”可知我国古代的交通运输以陆路为主，水路交通和海上航运也很发达，但发展并不平衡；各种车、船等交通工具比较发达；交通技术一度领先世界；航海事业在明朝中期以后走向衰落；第二小问，交通运输业的发展从政治上来讲有利于巩固封建统治，从经济上来说有利于促进经济发展，从社会发展的角度来说便利了人们的出行。第(2)问，根据“从19世纪70年代起，中国近代交通运输业逐渐发展，以内河航运最为突出”并结合材料一内容可知，近代中国与古代中国在交通运输方面都注重内河航运，交通运输工具备受关注；不同点在于古代中国的交通运输都是以传统方式为主，而近代交通在交通工具上大力发展了轮船等近代交通运输工具；结合所学内容可知，导致近代中国交通变革的因素主要是随着中国近代逐渐被卷入世界市场，西方工业文明逐渐传入中国，中国的有识之士也极力倡导引进西方近代科技，加之社会经济的发展，思想的解放等，都促进了近代交通运输业的发展。

答案：(1)基本特征：以陆路为主，陆路、河道、海路并举但发展不平衡；交通运输工具较发达；交通技术一度领先世界；航海事业呈现明显的阶段性，明中期以后走向衰落。影响：巩固了封建统治；推动了经济贸易的发展；便利了人们的出行等。

(2)同：都注重内河航运；交通运输工具都备受关注。异：古代中国在道路交通和运输工具方面以传统方式为主，近代中国充分运用科技革命的成果，大力发展轮船等近代交通运输工具。因素：西方工业文明的传入；有识之士倡导引进西方近代科技；社会经济发展的需要；近代中国思想解放潮流的影响。

课后拔高练

选D　顾恺之潜心研究绘画理论，提出“以形写神”，画人物要注重表现人的精神气质，而图片中描绘的是当年张园门前的景象，属于写实画作，不是写意，故A项错误；图中人物有不少很传统的打扮，国民共识夸大其词，故B项错误；图中仅见马车、黄包车，而“清朝末年”的最新成果已经有汽车、飞机，故C项错误；“清朝末年”中国的社会生活总体上呈现新旧杂陈，与图中的人物服饰、西式马车等相符，故D项正确。

第16课　大众传媒的变迁

课前自检自查练

①万国公报　②维新派　③共产党　④人民日报
⑤新闻价值　⑥定军山　⑦工农生活　⑧北京电视台
⑨1994　⑩第四媒介　⑪三维动态　⑫生活方式

对点训练

1. 选C　据材料信息“见闻历历备于此”“费去十文买一纸”可以判断为报纸。

2. 选C　“公车上书”是举子联名上书的政治运动，不属于“新方式”，著书出版也不属于“新方式”，A、B两项错误；报刊是西方文明影响下的产物，C项正确；D项是维新人士的政治实践。故排除。

3. 选D　材料所述表明晚清时期的中国已经将对杰出女性的理解由贤妻、孝女转为了爱国、从政，反映了中国女报起着舆论导向的作用，这是在向国民传达一种全新的观念，故D项正确。

4. 选B　《定军山》是京剧，同时又是中国人自己摄制的第一部电影，反映出中西合璧的特点，故B项正确。《定军山》拍摄于1905年，故排除A、C两项。1927年世界电影开始进入有声时代，故排除D项。

5. 选C　“《南昌起义》《平原游击队》《钢铁战士》等电影”都是以战争和革命题材为主，“《北大荒》”反映1958年十万转业官兵投身北大荒建设的艰辛历程，体现出工农生活题材，故C项正确。

6. 选A　1958年5月1日，北京电视台(中央电视台的前身)开始试播说明新中国电视事业的诞生，故A项正确。

7. 选D　互联网具有网上购物的功能，极大地方便了人们的生产、生活需要，故选D项。A、B、C三项与材料无直接联系，故排除。

学考基础合格练

1. 选D　1833年在广州创办的《东西洋考每月统记传》是中国境内创办的第一份中文报刊。

2. 选D　材料反映的是报刊的报道新闻、传递信息、传播知识等功能已被认知，得到民众认同，故答案为D项；A项中的“不受限制”说法绝对，排除；B项中的“普遍提高”说法错误，排除；C项对材料信息概括不全面，排除。

3. 选B　《红色中华》创办于革命根据地，《解放日报》是在延安创办的，《中央日报》属于国民党的报刊。国共第二次合作开始后，中国共产党与国民党当局商定，在南京公开发行中国共产党党报《新华日报》，故B项正确。

4. 选A　“movie”翻译为电影，1905年中国人自己拍摄了电影《定军山》，标志着中国电影事业起步，故A项正确。

5. 选A　新中国成立以后，工农生活和革命战争题材纷纷被搬上银幕，成为电影主题，故A项正确。

6. 选C　注意题干的限定条件“自身原因”，互联网集其他三种媒介的优势于一体，从而发展非常迅速，故答案选C项。

7. **解析**：第(1)问可从当时中国政治、经济、思想方面的情况分析。第(2)问，根据材料二中的信息“喜康、梁议论新颖”“讨论政治问题与社会问题”“长沙之湘学会……天足会、禁烟会等”“维新运动，顿呈活跃之观”“杂志亦风起云涌”和所学知识分析概括。

答案：(1)背景：甲午中日战争以后，列强掀起瓜分中国的狂潮，中国民族危机严重(或中国社会的半殖民地半封建化程度大大加深)；变革图强成为有识之士的共识，“实业救国”“设厂自救”的呼声高涨；资产阶级维新思想的进一步发展，维新变法运动的逐步展开。

(2)积极影响：宣传了维新变法思想；开阔了知识分子的眼界；提高了他们参与政治的热情；推动了各种学会和组织的建立；促进了国人办报热潮的形成。

关注微信公众号“教辅资料站”获取更多学习资料

课时加餐拔高练

课后加餐练

1. 选D　A项只体现宗教一栏的变化，不全面，故A项错误；B项只体现世俗消息一栏的变化，不全面，故B项错误；C项只体现科技一栏的变化，不全面，故C项错误；D项比较全面地反映了表格内容，故D项正确。
2. 选B　选项中“政治变革备受关注”，与材料“其中政论性报刊占88%，就连素为商业性报纸的《申报》也要经常发表与政治相关的文章”相符，故B项正确。
3. 选C　题干中体现了秀才不出门也能知道世界大事，说明近代报纸加速了社会新闻的传播。
4. 选D　材料强调的是报刊中的广告信息而非报刊的时政新闻功能，故A项错误；材料强调的是《申报》广告而非报刊业的竞争方式，故B项错误；材料强调的是报刊的发展而非民众的心态，故C项错误；由材料“29版登有广告，总数多达540条，许多广告占了版面1/4以上，甚至占了半版或全版”可知广告使得商品信息的流通更加便捷、及时化，故D项正确。
5. 选B　A、D两项表述太绝对化，排除；当时电影属于无声电影，C项不符合史实；故答案选B项。
6. 选C　电视出现于20世纪20年代中期，故A项错误；广播虽然产生比较早，但是其并不能“真如身临其境，亲眼得见一样”，故B项错误；19世纪末期电影产生，20世纪初电影在中国诞生，故C项正确；互联网出现于1969年，故D项错误。
7. 选A　1937年中日战争全面爆发，材料中国民政府的规定旨在强化对思想的引导，使电影为抗战服务，故A项正确；促进电影产业发展不是材料的主旨，故B项错误；加强对经济的控制与材料中的规定无关，故C项错误；材料是国民党的措施，同巩固抗日统一战线无关，故D项错误。
8. 选A　材料中“逐渐向个体表达回归，往往讲述‘大时代的小故事’”，反映了改革开放的时代变迁，顺应了社会发展的趋势，故A项正确；材料变化无法说明传统道德的回归，故B项错误；新技术手段的运用主要是在20世纪90年代特别是21世纪，故C项错误；20世纪80年代经济体制改革才刚刚起步，消费市场也刚刚起步，故D项错误。
9. 选B　“文学发展受制于电视艺术的普及”说法过于绝对，故A项错误；材料反映了电视剧《射雕英雄传》热播促进了金庸小说的大量出版，这说明电视艺术影响文学的走向，故B项正确；材料主旨并不是说明文学和电视艺术都是现实的反映，而是说明电视艺术影响文学，故C项错误；文学产生时间远远早于电视，故D项错误。
10. 选D　互联网加强了世界各地的联系，极大地缩小了全球空间距离，故A项错误；互联网诞生于1969年，在20世纪90年代发展成为全球信息网，故B项错误；互联网与报纸、广播、电视被称为“四大媒介”，故C项错误；互联网作为信息传播媒介能够迅速传播信息，高度互动，双向传受，故D项正确。
11. **解析**：第(1)问，联系所学可知，以京剧为题材的中国人自己拍摄的第一部电影是《定军山》，拍摄时间是1905年；联系所学可知，京剧艺术比较全面地反映了我国古代戏曲的精华，是中华文化的国粹之一。第(2)问，根据材料中的“1931年日本军国主义发动对中国东北的军事侵略后，一批表现抵抗侵略的救亡电影应运而生”“民族的厚重感和国家的历史感以及电影故事的感染力交织在一起，使一部家庭伦理片跃升为一首经典的民族电影史诗”等信息，从民族危机、抗战升华了中国的民族主义情绪、电影艺术的感染力等方面来回答。第(3)问，从材料可以看出，电影有利于展示传统文化，丰富人们的精神生活，满足人们的精神文化消费需求，树立正确的价值观念和爱国主义精神。

答案：(1)《定军山》，1905年。地位：比较全面地反映了我国古代戏曲的精华，是中华文化的国粹之一。

(2)原因：民族危机，抗战升华了中国的民族主义情绪，电影艺术的感染力。

(3)影响：展示传统文化的精髓，传承民族文化精华；丰富生活，满足大众的精神生活需求；寓教于乐，服务大众，引领潮流，树立正确的价值观念和爱国主义精神。

课后拔高练

1. 选D　中国人最早创办的报刊是《昭文新报》，不是《万国公报》，故A项错误；晚清知识分子通过报刊实现了言论自由与史实不符，因为封建专制的言禁传统扼杀了言论自由，故B项错误；知识界的宣传呼吁没有使得清政府革除陋习，只能说推动了陋习的革除，革除陋习是在民国成立后，故C项错误；禁缠足、兴女学、介绍外国妇女方面的文章逐渐增多，表明知识界逐渐重视妇女问题，故D项正确。
2. 选D　材料中“规定所有公告和公告性新闻均由新华通讯社统一发布”强调国家统一的重要性，并没有建立宣传网络的意思，故A项错误；材料没有体现信息传播业的结构性调整，故B项错误；通报国际国内形势不需要规定只有新华社才能报道，故C项错误；新中国成立之初，当务之急是巩固统一，安定人心，避免其他媒体混淆视听，而统一的新闻制度可以规避这些问题，故D项正确。
3. 选C　材料不涉及中外电影的制作水平，排除A项；仅从外国片与国产片的放映比例，无法判断出京津民众对外来事物的态度和上海民众的社会心态，故排除B、D两项；根据材料可知，上海比北京和天津的国产片放映比例高，再根据中国的电影制作中心是在上海，由此可判断正是由于中国电影拷贝流通税费过重，限制了上海的国产片向京津的流通，故C项正确。

第六单元　世界资本主义经济政策的调整

第17课　空前严重的资本主义世界经济危机

课前自检自查练

①纽约　②基本矛盾　③股票　④华尔街　⑤下跌　⑥世界性　⑦社会危机　⑧国际市场　⑨殖民地和半殖民地　⑩自由放任　⑪强力

对点训练

1. 选C　国家干预经济是美国罗斯福新政的特点，故A项排除；当时随着生产力的发展，供给与需求之间矛盾更加尖锐，故B项错误；从材料中可以看出，20世纪二三十年代，美国股票经纪人迅速增长，这反映出当时美国资本市场的投机氛围浓厚，从而引发了1929～1933年经济危机，故C项正确；1929～1933年经济危机造成经济萧条，故D项排除。
2. 选D　材料“当美国人还陶醉在繁荣的美梦中”说明当时政局稳定、没有自然灾害，也没有体现环境污染的信息，排除A、B、C三项；1929年10月24日纽约股票出现暴跌，大危机由此开始，故D项正确。
3. 选C　“慢性病”说明周期长，故C项正确；范围、破坏性和政治危机均与材料中信息不符，故排除A、B、D三项。
4. 选D　1929～1932年美国经济危机导致了大量人口失业，社会矛盾尖锐，危及资产阶级统治秩序，因此出现了材料中销售暴动和内乱保险的现象，故D项正确；A、B两项在材料中无法体现，故排除；材料并不能体现英国放弃自由主义政策，故C项错误。
5. 选C　调高关税属于贸易保护的表现，不利于世界经济良性发展，故选C项。

关注微信公众号“教辅资料站”获取更多学习资料

6. 选B　“玫瑰花”应该要精心地培育才能艳丽多姿，而题干中说“它就会枯萎”，正是说明了胡佛没有对其进行精心培育，胡佛在危机爆发后一直推行“自由放任”政策，故B项正确。

7. 选D　1929年经济危机爆发后，胡佛固守传统的“自由放任”政策，危机不断恶化，举国上下怨声载道，出现“胡佛村”“胡佛毯”“胡佛车”“胡佛旗”等一些新词，反映出美国人民对总统的不干预政策强烈不满，故答案为D项。

学考基础合格练

1. 选C　题干所述的是1929年的经济危机爆发时股价下跌，股市崩溃导致股票持有者财富缩水的情形。故选C项。

2. 选C　由材料信息“美国有5 500家银行倒闭，13万多家企业破产，对外贸易缩减了70%，失业人数达到1 700万”可知，这场经济危机的破坏性非常强，故C项正确。

3. 选B　图片反映了美国生产过剩的现象。而经济危机发生的直接原因是生产与销售之间的矛盾，图片的内容是为应付危机而采取的措施之一，故B项正确。

4. 选D　19世纪末20世纪初资本主义世界市场最终形成，世界市场是连接各国经济的纽带，也是传播经济危机的重要途径，世界市场形成导致美国经济危机迅速波及资本主义世界各国，故D项正确；二战后美国确立了资本主义世界经济霸权，与材料时间不符，故A项错误；B项是资本主义经济危机爆发的根本原因，不是波及其他资本主义国家的原因，不符合题干的要求，排除；C项是1929年大危机的特点，排除。

5. 选C　由“建立工农共和国”的口号可知，经济危机引发了人们对资本主义制度的不满，一些人要求改变资本主义制度。这说明经济危机引发了政治危机，故选C项。

6. 选C　胡佛反对国家对经济的干预，固执地执行自由放任主义经济政策，故C项正确，D项排除；重商主义产生并流行于15世纪至17世纪中叶的西欧，故A项排除；美国是资本主义国家，不会采用社会主义市场经济理论，故B项排除。

7. **解析**：第(1)问，依据图片信息提取出答案，结合所学知识回答原因。第(2)问，分析材料信息可知，经济大危机爆发后，主要资本主义国家实行贸易保护主义，激化了资本主义国家之间的矛盾，从而得出二者之间的因果关系。

答案：(1)状况：1929年资本主义世界经济危机首先在美国爆发，纽约股市崩溃，美国经济一片萧条，银行倒闭，企业破产，人们绝望。经济危机引发政治危机，阶级矛盾尖锐，资本主义民主政治摇摇欲坠。原因：经济危机的打击。

(2)问题：资本主义国家之间的矛盾进一步激化，并出现了法西斯势力上台并产生对外侵略扩张的势头。关系：因果关系。

课时加餐拔高练

课后加餐练

1. 选C　工人工资收入远远低于生产增长水平，导致工人贫穷，购买力较低，出现国内生产相对过剩的现象，进而引发经济危机，故C项正确；资本主义社会固有的基本矛盾为生产资料私人占有与生产社会化的矛盾，与题意不符，故A项排除；题干无法体现美国经济虚假繁荣，故B项排除；自由放任的经济政策在题干中未体现，故D项排除。

2. 选D　根据“分期付款使用比例柱状图”显示的数据可知，美国的大部分产品分期付款的比例基本上都在百分之七十以上，这种超前消费现象，提前预支了未来社会的购买力，经济运行风险不断增加，故D项符合题意；材料未体现大众消费结构趋于合理，A项排除；分期付款购物不能说明人民生活水平显著提高，B项排除；由于资本主义制度的基本矛盾的存在，生产销售矛盾不可能日益缓和，C项排除。

3. 选D　1929～1933年资本主义世界经济危机首先爆发于金融领域，故D项符合题意。

4. 选B　题干所描述的是1929年经济危机时的社会现状：股市崩溃引起连锁反应；企业大量破产；工人大量失业。故答案为B项。

5. 选A　表格显示经济危机涉及的国家较多，说明影响范围广，从工业下降、外贸缩减以及失业人数等数据信息可以看出经济危机破坏性大，故A项正确；材料中世界受到影响，说明不是只发生在资本主义国家，故B项错误；法国在经济危机中外贸减少了50%左右，说明对其破坏也是很大的，并不是破坏性小，故C项错误；材料中分析的是经济危机的表现，不是原因，故D项错误。

6. 选C　这一现象不是奥运会自身的弊端带来的，故排除A项；第二次工业革命极大地推动了交通通讯的发展，故排除B项；1932年属于资本主义世界空前严重的经济危机期间，大萧条背景下世界经济萎缩，因此导致材料中的现象出现，故答案为C项；罗斯福新政从1933年开始，不符合材料时间，排除D项。

7. 选D　1929～1933年的经济大危机首先沉重打击了北美、西欧、日本，这是因为这些国家和地区是资本主义世界市场的中心；其次波及了中国、印度、西亚、拉美，这是因为这些国家和地区是资本主义国家的殖民地或半殖民地，居于资本主义世界市场的边缘，这是由对世界市场依赖程度决定的，故D项正确；“政治经济上能否独立”“是否拥有完整的工业体系”和“是否拥有完善的应对措施”都不是决定因素，故A、B、C三项错误。

8. 选D　根据材料“1931年”并结合所学可知，此时西方正爆发大规模经济危机(1929～1933年)，“认真地思考并坦率地议论着西方的社会制度也许会失败和不再起作用的可能性”表明西方的政治制度遭到了人们的质疑，结合所学，当时出现严重的政治危机，法西斯主义和工人运动兴起，故D项正确。

9. 选A　1929年，华尔街证券市场不断下跌，出现“熊市”，纽约数家主要银行组成“救市基金”，希望力挽狂澜，但大厦将倾，独木难支，股市崩盘，进而引发世界经济大危机。股市危机源于市场虚假繁荣，反映了自由放任模式下资本主义经济的盲目性及无序性，需要政府加强对经济的调控引导，故A项正确；此时政府仍坚持自由放任政策，故B项排除；股市危机最终引发经济大危机，故C项排除；此时新政尚未实施，故D项排除。

10. 选D　从材料上来看，胡佛政府通过提高关税，加紧在国际市场上的争夺，这将会导致彼此之间的矛盾和摩擦日趋尖锐，故答案为D项；提高关税不能做到阻止危机蔓延的作用，故排除A项；这一措施没有取得成效，没有起到促进美国经济发展的作用，故排除B项；胡佛政府仍然坚持自由放任政策，并没有放弃，故排除C项。

11. **解析**：第(1)问，观察漫画，体会经济危机的背景，从中分析出造成“山姆大叔”如此窘境的原因；根据所学知识可知，1929～1933年的世界经济危机的实质是生产相对过剩危机。第(2)问，据材料表格中数据归纳概括即可。第(3)问，材料中“竭力说服企业界的领袖们，自愿地不降低工资和物价，他要求联邦储备银行为企业界借款提供方便”“国会对公共工程也增加了拨款”得出胡佛反危机的措施。

答案：(1)原因：1929～1933年的世界经济危机。实质：生产相对过剩危机。

(2)现象：经济危机破坏性强；危机中美国和德国受害最大；世界市场已经形成等。

(3)措施：扶植企业，稳定工资和物价；兴办公共工程，增加就业。

关注微信公众号“教辅资料站”获取更多学习资料

课后拔高练

1. 选C　美国工人最低工资标准是在1933年罗斯福新政中订立的，不符合时间限制，故A项错误；材料只反映出美国部分行业工人周工资变化，与产业结构的调整无关，故B项错误；材料反映出美国部分行业工人周工资不断下降，劳资矛盾加剧，经济危机不断加深，故C项正确；材料只反映出美国部分行业工人周工资变化，与政府财政支出的变化无关，故D项错误。
2. 选D　材料反映的是经济危机爆发后，各国纷纷开拓国际市场，“保持农产品的生产和消费之间的某种平衡”是调整农业的措施，与题干不符，故A项错误；提高关税，实行贸易保护，主要是抵御外来商品进入本国市场，不符合题意，故B项错误；“废止不公平竞争惯例使各产业生产能力得到充分利用”是恢复工业的措施，故C项错误；实行美元贬值，刺激出口，有利于国际市场的开发，故D项正确。
3. 选C　如果美国重现经济繁荣，那么人们会因忙于工作而减少去电影院的次数，故A项错误；经济危机中人们大批失业，精神不振，故B项错误；“轻歌曼舞的幻想型影片备受欢迎”说明人们在电影院寻找精神上的慰藉，故C项正确；现代主义艺术特点是反传统和个性化，而题干没有体现，故D项错误。
4. 选A　据材料“少数企业中工人可以领取养老金，享受带薪休假”可以说明工人从经济发展成果中获取的很少，故A项正确；依据题干中“美国的企业普遍使用流水线等先进生产管理方式，提高了劳动生产率”说明科技对经济发展发挥巨大作用，故B项错误；1929年以前，供给与需求已经出现了矛盾，故C项错误；“国家干预促进了经济发展”是在罗斯福新政实行后才开始实施的，故D项错误。

第18课　罗斯福新政

课前自检自查练

①社会危机　②金本位制　③联邦储备委员会
④全国工业复兴法　⑤企业关系　⑥农业调整署
⑦减耕减产　⑧以工代赈　⑨全国劳工关系法
⑩国民收入　⑪社会矛盾　⑫国家干预经济发展

对点训练

1. 选C　面对经济危机，胡佛的反危机措施没有使美国摆脱经济危机，说明反危机措施失败，故C项正确；A项不符合美国史实，故排除A项；国家干预经济是罗斯福新政的特点，使美国基本摆脱了危机，故B项排除；胡佛认为新政府面对经济危机也是没有办法的，这是不信任新政府的态度，故D项排除。
2. 选B　罗斯福是在美国处于经济大危机的情况下上任的，面对经济危机，罗斯福采取国家干预经济的措施，故B项正确。
3. 选A　材料“要求国会授予我应付危机的那种唯一最后手段——广泛的行政权”反映了罗斯福新政的特点，罗斯福新政首先在金融领域整顿银行业，故A项正确；工农业领域的新政在银行业之后，故B项错误；举办救济和公共工程、建立社会保障体系也在整顿银行业之后，故C、D两项排除。
4. 选D　缩减①为农业，突破口②为金融业，增加就业③为社会救济和以工代赈，劳资关系④为工业，即是《全国工业复兴法》，故D项正确。
5. 选A　材料反映的是美国农产品严重过剩，价格很低，在新政中，罗斯福政府为了稳定农产品价格，要求农民减耕减产，故A项正确；B、C两项不符合史实，排除；D项是工业方面的措施，与题意不符，排除。
6. 选D　田纳西水利工程是罗斯福新政时期实行“以工代赈”的措施，主要是针对经济危机失业严重的问题，故D项正确；田纳西水利工程主要是解决失业问题，故A项错误；调整工业生产和农业生产不符合材料信息，B、C两项错误。
7. 选C　罗斯福新政的背景是资本主义经济危机，胡佛政府继续坚持自由放任政策，导致危机更为严重，罗斯福就职后实践了凯恩斯主义，开创国家干预经济的道路，挽救了危机，所以罗斯福受到全美国人的爱戴，故C项正确。
8. 选C　根据材料信息“新政”“让政府获得迅速发展”“美国”可以判断这指的是罗斯福新政，罗斯福新政使得美国从原先奉行自由主义经济政策走向国家干预，故C项准确，也符合“分水岭”的表述；其余三项不符合题意。均排除。

学考基础合格练

1. 选A　注意时间“1932年”，这是罗斯福接受竞选提名时的演说词，当时的形势是经济危机不断恶化，故A项正确。其余三项时间不符，均排除。
2. 选A　以工代赈就是让工人重新就业，不再对失业工人进行单纯的救济，这符合兴办公共工程的目的，故A项正确；兴办公共工程的目的是给工人提供就业机会，B、C、D三项内容均与此无关，均排除。
3. 选B　罗斯福的农业措施与诚信无关，故排除A项；政府对银行存款进行担保，体现了金融诚信，故选B项；兴办公共工程主要是社会救济方面，没有涉及诚信，故排除C项；实行美元贬值、刺激出口是对外贸易不诚信的表现，故排除D项。
4. 选C　《全国工业复兴法》是政府对工业进行计划性指导的法令，通过国家干预，调整企业关系和劳资关系，而不是借鉴苏联经验，实行计划经济，故A项错误；B项属于社会福利方面的改革，排除；该法通过国家干预，调整企业关系和劳资关系，缓和社会矛盾，故C项正确；D项属于整顿财政金融方面的措施。
5. 选D　贸易保护在当时就引发各个国家之间的贸易冲突，在当今世界经济全球化的趋势下，贸易保护主义更是阻碍了全球化的发展，故选D项。
6. 选A　罗斯福“新政”开创的途径即大力发展非法西斯式的、走所谓“福利国家”道路的国家垄断资本主义，故选A项。
7. **解析**：第(1)问，根据对社会保障的理解，从材料中获取有效信息来回答。第(2)问，以国家立法的形式将社会保障定为一种制度，有利于社会的长期稳定。第(3)问，为开放性试题，不论选哪种观点，只要理由充分即可。

答案：(1)内容：“以工代赈”；劳工组织有与资方谈判的权利，工人可自由参加工会；规定最高工时和最低工资限额；禁用童工。原因：缓和社会矛盾，稳定社会秩序；促进经济恢复。

(2)国家立法。

(3)同意第一种观点：“以工代赈”、发放失业救助金、实行紧急救助等措施都是在危机发生后紧急状态下采取的临时性措施。

同意第二种观点：先后颁布了一系列法令，实行改革养老金制度和失业保险制度等都是在维护资产阶级民主制的前提下进行的长期性制度建设。

关注微信公众号“教辅资料站”获取更多学习资料

课时加餐拔高练

课后加餐练

1. 选D　根据材料中“应对危机的唯一手段”及富兰克林·罗斯福首次总统就职演说的信息，可以判断当时处于20世纪30年代经济大危机期间，罗斯福当选总统，准备推行新政，故选D项。
2. 选D　放弃金本位制，使美元贬值以刺激出口，目的是增强美国在世界市场的竞争力，故答案选D项。
3. 选B　经济危机的根本原因是生产社会化与生产资料私人占有之间的矛盾导致供求关系失衡，因此缓解经济危机的核心是调整生产并非整顿银行业，故A项错误；面对1929～1933年的经济大危机，罗斯福上台之后进行了新政，其中最为核心的措施是对工业的调整，颁布了《全国工业复兴法》，极大地缓解了经济危机，故B项正确；C、D两项都是从增加消费和社会保障的角度缓解经济危机，不是从调整生产的角度缓解经济危机的核心措施，均排除。
4. 选D　政府的举动，从应对经济危机的角度看，是为了缓解农产品供需矛盾，故D项正确。
5. 选A　1933年到1938年，罗斯福采取国家干预的政策，对经济的干预导致大量政府管理机构的建立，使得联邦政府雇员人数显著增加，故A项正确。
6. 选D　罗斯福新政期间，联邦政府进行了一系列社会立法，建立了一系列社会保障体系，如：为老人、残疾人、失业者和儿童提供社会保障；保障工人的基本权利，提高了工人的政治地位等，这和材料所描述的基本一致，故D项正确。
7. 选C　从材料中的“政府给演员支付工资”“也曾雇佣研究人员”等信息可以看出，这一做法通过政府提供工作岗位减少失业人口，体现了以工代赈思想，故答案为C项；材料信息不能反映“充分就业”，故排除A项；材料中的做法不属于福利制度，故排除B项；新政的主要任务是通过国家干预，实现生产和销售的相对平衡，材料信息与此无关，故排除D项。
8. 选C　罗斯福新政的实质是在维护资本主义制度的前提下，采用国家干预经济的手段实现经济的复兴和社会的安定，故A项错误；根据题干中的信息“在自由放任的资本主义和社会主义之间走了一条中间道路”，最准确的表述为调整了政府和市场的关系，故B项错误；根据前面的分析，故C项正确；计划不属于社会主义的专利，故D项错误。
9. 选D　20世纪30年代，美国实行罗斯福新政，其体制创新最突出的特点是政府加强对经济的干预，故D项正确。
10. 选D　开创了国家干预经济新模式是罗斯福新政的影响，但不符合材料的主旨，故A项错误；罗斯福新政中工人阶级利益一定程度上得到了保障，罗斯福新政本质上是维护资产阶级利益，是维护资本主义制度，而不是工人阶级利益，故B项错误；罗斯福新政借鉴了苏联的计划经济的成分，不能说是借鉴了苏联的计划经济体制，故C项错误；据材料分析可知，新政使人们从惊恐中走出来，恢复了对资本主义制度的信心，可得出新政稳定了美国资本主义制度，故D项正确。
11. **解析**：第(1)问，不同主张，可从社会救济的责任承担者和救济对象等方面分析，责任承担者，根据“(胡佛)主张救济主要应由地方政府和社区、私人慈善团体进行”“罗斯福认为，(联邦)政府对于全体公民的福利负有一种终极的责任”得出胡佛主张救济主要应由地方政府、社区和私人慈善团体而不是由联邦政府来进行，罗斯福认为联邦政府负有社会救济的责任。救济对象，根据“(胡佛)救济重点在照顾处于困境中的大工业资产者、金融家和大农场主”“(罗斯福)‘所有的人’，都有权‘享受充分保障不必在经济上担心老、病、事故和失业的权利’”“为那些愿意工作的人提供工作和为不幸的人提供救济，那么，那些并非由于自己的过错而遭遇困难的人就有一种要求政府予以援助的权利”概括得出胡佛认为救济的重点应是大资产者、金融家和大农场主，罗斯福认为救济应面对所有人，尤其是面临困难和不幸的人。第(2)问，措施，根据“美国政府各项救济工作的支出总额达到了180亿美元”，并结合所学，概括得出举办救济，以工代赈，建立社会保障体系。评价，结合所学，可从减轻弱势群体的贫困和痛苦，缓解失业压力、促进维护社会稳定、摆脱危机等方面分析积极影响，从造成财政赤字方面分析其消极影响。

   答案：(1)不同主张：责任承担者：胡佛主张救济主要应由地方政府、社区和私人慈善团体而不是由联邦政府来进行，罗斯福认为联邦政府负有社会救济的责任。救济对象：胡佛认为救济的重点应是大资产者、金融家和大农场主；罗斯福认为救济应面对所有人，尤其是面临困难和不幸的人。

   (2)措施：举办救济；以工代赈；建立社会保障体系。评价：减轻了弱势群体的贫困和痛苦，缓解了失业压力，有助于维护社会稳定(或有助于维护美国的民主制度)；有助于早日摆脱危机；造成了美国连年的财政赤字。

课后拔高练

1. 选B　新政措施之一的“蓝鹰运动”是为了实现工业的复兴，联邦银行是对金融领域进行管理的机构，故A项错误；全国工业复兴署是领导工业复兴的机构，故B项正确；农业调整署是领导农业复兴的机构，故C项错误；紧急救济署是领导社会救济的机构，故D项错误。
2. 选B　自由资本主义进入垄断阶段是在第二次工业革命时期，故A项错误；罗斯福新政在不触动资本主义制度的前提下，对美国经济制度进行了深刻改造，开创了国家干预经济发展的新模式，国家垄断资本主义开始出现，故B项正确；自由主义市场经济盛行是在两次工业革命时期，罗斯福新政是使资本主义告别“自由放任”政策占统治地位的时代，故C项错误；“滞胀”型危机发生于20世纪70年代的资本主义国家经济危机之后，时间上与题干不符，故D项错误。
3. 选B　材料中“规定凡年满65岁的退休人员……获得一定数额的养老金”说明法案对工人退休后的生活保障有明确的规定，这反映出社会保障制度已经建立，故选B项；A、D两项是对工业生产的调节，C项是对农业生产的调节，均排除。

第19课　战后资本主义的新变化

课前自检自查练

①国家干预　②黄金时期　③滞胀　④混合经济
⑤福利国家　⑥社会稳定　⑦国家财政　⑧消费需求
⑨经济竞争力　⑩资源配置　⑪新兴工业
⑫信息技术革命　⑬10年

对点训练

1. 选B　如图显示美国占据世界经济近一半的比例，西欧和日本的经济开始起步，应该是二战以后经济恢复时期，最为接近的时间是20世纪50年代，故B项正确。
2. 选C　题干中的时间是“1961～1971”，此时期由于各国应用凯恩斯主义的国家干预经济理论，进入了资本主义发展的“黄金时期”，故选C项。

关注微信公众号“教辅资料站”获取更多学习资料

3. 选 B　20 世纪 70 年代西方国家出现了“滞胀”危机，凯恩斯主义倡导的国家对经济的干预受到了挑战，撒切尔夫人当选首相后，实行改革，最终使英国走出了“滞胀”危机，故 B 项正确；撒切尔夫人的改革反对凯恩斯主义，故 A 项错误；沉重的福利开支使英国财政不堪重负，但削减福利开支，不会导致英国财政不堪重负，故 C 项错误；保障底层民众的生活水平属于福利开支，但撒切尔夫人削减福利开支，不利于保障底层民众的生活水平，故 D 项错误。

4. 选 C　二战后西方资本主义国家实行“福利国家”制度，其主要目的在于缓和社会矛盾，稳定统治秩序，故 C 项正确；扩大资本市场与实行“福利国家”制度无关，故 A 项错误；实行“福利国家”制度并不能增加社会财富，故 B 项错误；“福利国家”制度容易助长人的惰性，不利于调动劳动积极性，故 D 项错误。

5. 选 B　英国大力推行社会福利政策，体现了政府加强对经济的干预，不是自由放任政策，故 A 项错误，B 项正确；英国社会福利政策加大了政府的财政负担，故 C 项错误；社会福利政策有利于缓和社会矛盾，巩固资本主义制度，故 D 项错误。

6. 选 C　结合材料“明日无酒找政府”“西欧各国储蓄率明显低于其他发达国家”和时间 20 世纪七八十年代可知反映的是西方“福利国家”制度使人们重视享乐，缺少奋斗的动力，故 C 项正确；材料未体现经济危机影响人们的消费心理，故 A 项错误；混合经济是将政府干预与市场经济相结合的国有制与私有制并存的经济形态，与人们消费心理无关，故 B 项错误；新经济是在经济全球化的形势下的一种以知识经济为基础、以信息技术为主导的新的经济增长模式，与材料中现象无关，故 D 项错误。

7. 选 B　材料数据反映了 1947～1988 年，美国第一产业就业人数不断下降，第二产业就业人数不断增长，尤其是第三产业就业人数增长尤为明显，这说明此阶段美国产业结构不断调整，促进了经济发展，故 B 项正确；进入二十世纪八十年代，国家干预经济渐趋衰落，故 A 项错误；二十世纪八十年代，里根主义缓解了经济危机影响，不是消除，故 C 项错误；“新经济”出现于 20 世纪九十年代，与材料时间不符，故 D 项错误。

8. 选 D　克林顿时期，美国进入“新经济”时代，“新经济”是一种基于知识经济为基础、以信息技术为主导的经济增长模式，其基本特征是高新技术化和全球化，故选 D 项。A、C 两项是传统产业，B 项是第三产业，均排除。

学考基础合格练

1. 选 B　从第二次世界大战结束到 20 世纪 70 年代初期，西方资本主义国家普遍奉行国家干预的经济政策，实行国家对经济的宏观调控，国家垄断资本主义迅速发展，出现了经济发展的“黄金时期”，故 B 项正确。

2. 选 A　由材料信息“国家机构和私人机构共同……控制”可知，该经济形式应是国家干预和市场经济相结合的经济模式，属于混合经济，故 A 项正确，排除 B、C 两项；小农经济是以家庭为单位、生产资料个体所有制为基础，完全或主要依靠自己劳动，满足自身消费为主的小规模农业经济，排除 D 项。

3. 选 C　二战后，资本主义国家推行社会福利政策，有利于缓和社会矛盾，促进了社会和谐，故 C 项正确；强化国家机器并不是社会福利政策的主要影响，故 A 项排除；社会福利政策只能缓和社会矛盾，不可能使阶级矛盾基本消除，故 B 项排除；社会福利政策也不可能消除社会不公现象，故 D 项排除。

4. 选 D　福利开支压力巨大、财政赤字巨大是福利国家制度带来的消极影响，不是材料反映的实质问题，排除 A、B 两项；20 世纪 70 年代，大规模推行国有企业的私有化，发展混合经济，而不是大力发展私有企业，排除 C 项；20 世纪 70 年代，西方国家减少对经济的干预，削减福利开支，大规模推行国有企业的私有化，故 D 项正确。

5. 选 D　材料主要反映的是三大产业之间的比例关系，不能看出国家是否对经济进行了干预，也看不出经济发展速度，故 A 项错误；材料中没有体现国家福利政策，故 B 项错误；材料反映的时间是 20 世纪 70 年代，新经济出现的时间是 20 世纪 90 年代，故 C 项错误；从表格中可以看出联邦德国和美国 70 年代第三产业都超过了第一产业和第二产业，说明战后这两个国家都大力发展第三产业，使社会经济结构发生了重大的改变，故 D 项正确。

6. 选 D　凯恩斯主义认为，低通货膨胀率和低失业率不会同时并存，而“新经济”打破传统经济运行机制，实现低通货膨胀率、低失业率和高经济增长并存，故 D 项正确。

7. **解析**：第(1)问，从材料一中可以看出其已覆盖养老、医疗等多个领域，从材料二中社会保险支出的比重即可得出另一特点是高财政支出。第(2)问，注意运用辩证的观点进行分析。

答案：(1)特点：覆盖面广，低收入阶层受惠多；高财政支出。

(2)认识：缓和了社会矛盾，改善了低收入阶层的生活，解决了他们的温饱问题；但同时导致国家财政不堪重负，助长了人们的惰性，滋长依赖情绪，降低企业和社会的劳动生产率。

课时加餐拔高练

课后加餐练

1. 选 B　从材料“政府用他的手掌管着美国经济汽车的方向盘”中可以看出，国家在干预经济方面的力度大大增强，故 B 项正确。

2. 选 C　“滞”即经济增长停滞或下降，“胀”即物价持续猛涨，通货膨胀严重，而这两种现象同时存在即为“滞胀”，故 C 项正确。

3. 选 A　美国在 20 世纪 70 年代面临着经济“滞胀”，增速放缓，通货膨胀严重，因此取消规章制度是克服凯恩斯主义带来的弊端，让市场发挥更大作用，有利于促进经济发展，故 A 项正确。

4. 选 C　从“国营”“市场经济”这些信息可以看出现代资本主义经济中既有国家干预也有自由竞争，故 C 项正确。

5. 选 D　罗斯福新政加强国家对经济的干预，20 世纪 70 年代资本主义国家又减少对经济的干预，均是针对经济发展中出现的问题进行的调整，其目的都是保证经济秩序的正常运行，故 D 项正确。A、C 两项不是“根本出发点”，均排除；这些措施是为了解决经济危机，而不是解决社会危机，排除 B 项。

6. 选 A　二战后，福利国家制度使低收入阶层的生活得到了基本保障，缓解了社会矛盾，有利于社会稳定，故 A 项正确；B 项是 20 世纪 30 年代罗斯福新政的措施，排除；材料中的现象与第三产业和互联网无关，故 C、D 两项排除。

7. 选 B　从材料信息“最穷的与最富的……差距可以缩小到 3 倍”可知材料认为福利政策可以缩小贫富差距，最终保持社会稳定，实现社会公平，故 B 项正确；A 项内容是直接影响，排除；C、D 两项与材料主旨不符，排除。

8. 选 C　材料中制造业总产值迅速增长，但制造业产值占国内生产总值的百分比却不断减少，说明美国国民经济中制造业比重不断降低，第三产业迅速发展，故 C 项正确。

关注微信公众号“教辅资料站”获取更多学习资料

9. 选A　白领是指有较高教育背景和工作经验的人士，是西方社会对企业中不需做大量体力劳动的工作人员的通称。依据材料可知1995年，白领工人百分比上升，蓝领工人的百分比则大幅度下降，结合所学可知导致该现象的根本原因是第三次科技革命，故A项正确；生产力大幅度提高的原因也是第三次科技革命，故B项错误；产业结构的变化也是第三次科技革命引起的，故C项错误；知识经济的快速发展不是根本原因，故D项错误。

10. 选C　美国联邦政府对经济控制的减少是在20世纪70年代左右，进入90年代，干预没有进一步减少，故A项错误；国家垄断资本主义是二战后初期经济发展的原因，故B项错误；进入90年代，随着以知识经济和信息技术为代表的新经济模式的发展，美国出现经济增长与低通货膨胀率、低失业率并存的经济繁荣现象，故C项正确；社会福利制度的发展完善与失业率的下降并没有直接的关系，故D项错误。

11. **解析**：第(1)问第一小问，结合所学知识从经济大危机的角度指出“资本主义社会的暂时疾病”；第二小问，结合所学知识从国家干预经济为特征的国家垄断资本主义的角度说明罗斯福的“试验性疗法”使得美国的经济制度发生了怎样的转变。第(2)问第一小问，根据材料二“(英国)……国有化法案……法国……推进科技进步和全民教育事业……发展高科技产业和支持科学研究活动……美国总统杜鲁门正式提出……计划”并结合所学知识从国有化、政府直接投资、经济进行计划指导等方面概括二战后初期欧美国家发展经济的方式；第二小问，结合所学知识从凯恩斯主义的角度指出这一时期西方资本主义国家经济政策的理论来源。第(3)问第一小问，根据材料三“撒切尔主义。它首先对付结构性经济危机，重新倡导资本主义自由经营和私人首创精神”并结合所学知识从经济“滞胀”的角度指出当时英国结构性经济危机的具体表现；第二小问，据材料“一反传统的经济政策”“重新倡导资本主义自由经营和私人首创精神”结合所学知识从减少国家对经济的干预、发展“混合经济”、缩减福利国家规模等方面回答。

答案：(1)疾病：经济大危机。转变：由以“自由放任”政策为主，转变到以国家干预经济为特征的国家垄断资本主义。

(2)方式：英国实行国有化，建立国营经济；法国通过政府直接投资的方式拉动国内市场；美国对经济进行计划指导。理论来源：凯恩斯主义。

(3)表现：经济发展停滞；通货膨胀(或答经济“滞胀”)。措施：减少国家对经济的干预；发展“混合经济”；缩减福利国家规模。

课后拔高练

1. 选A　“20世纪70年代中后期，法国国内生产总值年平均增长率由2.6%下降到1.3%，物价上涨了1倍”是属于70年代资本主义经济的“滞胀”现象，这种现象是二战后国家干预经济的结果之一，“推行包括国有化在内的一系列措施”是国家干预方式的继续，不会取得成果，故选A项；70年代资本主义经济的“滞胀”现象之一是通货膨胀，采取国有化措施属于传统的方法，无法解决这个问题，并且物价也不会下降，排除B项；70年代资本主义经济的“滞胀”现象对一般的方法都没有明显的效果，通货膨胀会继续，排除C项；“推行包括国有化在内的一系列措施”也有推行自由主义的内涵，同样不能摆脱这一现象，更不会放弃经济自由，排除D项。

2. 选A　根据“20世纪70年代初，美国联邦政府机构臃肿，财政支出庞大”并结合所学可知美国自二战后推行的以国家干预经济为特征的国家垄断资本主义的不利影响凸显，因此提出“使权力和资源开始从华盛顿流回到州和地方”，试图减少联邦对经济的干预，故A项正确；尼克松声称把权力下放到州和地方，主要是为了解决财政不足的问题，权力下放只是减少国家干预经济的一种手段，而非目的，故B项错误；材料中虽提到“回到全体人民手中”，但这是为了解决政府的财政危机，况且此时联邦政府“财政支出庞大”，扩大福利政策的覆盖范围会加重联邦政府财政负担，故C项错误；战后资本主义国家在不同程度上干预经济，美国联邦政府只是减少了国家对经济的干预，并不是恢复自由放任传统，故D项错误。

3. 选A　从表格中美国的服务业由55.1到64.7，日本由42.3到48.4，德国由39.6到45.0可以看出第三产业均对各国有贡献，故A项正确；美国的农业由7.2到2.9，日本由26.0到3.6，德国由10.7到3.3，说明各国农业所占比重下降，但无法说明农业衰退，故B项错误；第三次科技革命后，第三产业兴起并带动经济的飞速发展，与产业结构严重失衡不符，故C项错误；由表格中德国的工业由49.7到51.7，比第三产业45.0要高，与工业发展滞后不符，故D项错误。

4. 选C　法国和美国都是资本主义发展充分的国家，因此两国的经济结构无根本差异，故A项错误；法国的机器落后不能代表欧洲衰落，且20世纪初，美国的崛起就已显露端倪，故B项错误；材料中工业设备的使用年限及“在农业领域中，通常一名美国农民的产出是法国农民的3倍多”说明当时美国的发展已经远远超过法国，资本主义国家间的差距比较明显，故C项正确；经济一体化在材料中没有体现，故D项错误。

第七单元　苏联的社会主义建设

第20课　从“战时共产主义”到“斯大林模式”

课前自检自查练

[1]余粮收集制　[2]国有化　[3]自由贸易　[4]共产主义　[5]物质　[6]经济　[7]粮食税　[8]租让　[9]货币流通　[10]1922　[11]重工业　[12]公有制　[13]农业集体化　[14]工业化　[15]轻工业　[16]苏联解体

对点训练

1. 选B　根据“1918年9月”并结合所学内容可知此时苏俄为了保证军事胜利实行了战时共产主义政策，而非大力发展军事工业，余粮收集制是战时共产主义政策的重要内容，故A项错误，B项正确；对农民征收粮食税和开始工业化建设均开始于1921年以后，与题干时间不符，故C、D两项错误。

2. 选A　1920年苏俄正在实行战时共产主义政策，政府取消自由贸易，故A项正确；国营企业的经营自主权扩大是赫鲁晓夫改革时期的措施，故B项错误；私营企业纷纷涌现是新经济政策时期的现象，故C项错误；苏联农业集体化运动是在斯大林时期，故D项错误。

3. 选C　苏俄新经济政策在农业方面的措施是征收固定粮食税，故C项正确；实行余粮征集制是战时共产主义政策农业方面的措施，故A项错误；苏俄确立的土地所有制是公有制，故B项错误；斯大林时期推行全盘集体化，故D项错误。

关注微信公众号“教辅资料站”获取更多学习资料

4. 选C　新经济政策并非全面对外开放和自由发展工商业，而是在政府的引导下有限地利用市场和商品货币关系来发展社会主义经济，故A、B两项错误，C项正确；D项说法错误。

5. 选C　材料反映了列宁的新经济政策利用商品和货币关系发展经济，故C项正确；十月革命胜利在1917年，不符合题干时间，故A项错误；战时共产主义政策排斥商品经济，故B项错误；工业化和农业集体化属于斯大林时期政策，也不是利用商品经济，故D项错误。

6. 选A　苏联从1928年开始进入工业化建设时期，西方国家认为苏联是幻想和乌托邦，但苏联经济建设取得巨大成就的现实却反驳了西方国家的这种说法，故A项正确；B项说法未能体现两幅画内容的对比，故排除；漫画主旨是对西方国家进行讽刺，没有体现抨击修正主义思潮，故排除C项；西方国家对苏联的遏制是在二战结束以后，与题干时间不符，故排除D项。

7. 选C　表格内容主要反映了乌克兰地区的粮食产量和征粮量，没有反映发展重工业政策的优劣，故排除A项；苏联当时实行计划经济体制，实际上并未受到西方经济危机的影响，故排除B项；从1930年到1932年，乌克兰地区在粮食产量严重下降的情况下征粮量没有明显下降，说明农民为当时苏联的工业化作出了巨大贡献，故选C项；新经济政策的实行是在20年代前期，与表格时间不符，故排除D项。

8. 选D　计划经济与市场经济相结合是混合经济模式，不符合材料信息，故A项错误；多种所有制并存发展是新经济政策的特点，故B项错误；扩大国营企业的管理权力是赫鲁晓夫改革的内容，故C项错误；“每一双皮鞋或每一件内衣，都要由中央调配”“计划就是法令”，这是计划经济的特点，故D项正确。

学考基础合格练

1. 选A　据材料“十月革命后，新生的苏维埃政权仍处于危急中”和“一切为了前线，一切为了战胜敌人”可知当时苏俄处于国内战争时期，实行“战时共产主义”政策，故A项正确。

2. 选A　“战时共产主义”政策是1919年苏俄在内外交困的情况下为了最大限度地集中国家的人力物力财力渡过难关的一种临时性政策，它取消了一切商品贸易活动，故A项正确。

3. 选D　新经济政策中，不仅没有对资本主义进行社会主义改造，而且在一定限度内恢复有利于国计民生的资本主义，发展商品生产，这也是和“战时共产主义”政策相比最大的不同，故D项正确。

4. 选B　为了引进美国的资本和技术，苏俄在新经济政策中实行资本家经营部分企业，允许私有化存在，故B项正确。

5. 选A　斯大林时期苏联经济体制的主要特点是高度集中的计划经济，故A项正确。

6. 选C　20世纪30年代，苏联经济实力迅速增长，到1937年，苏联的工业产量已居欧洲第一位、世界第二位，而此时美国正在经受经济危机的沉重打击，故出现了大量美国人申请向苏联移民的现象，故C项正确。

7. **解析**：第(1)问，根据材料一信息可以回答第一小问；结合所学知识可以回答第二小问。第(2)问，根据材料信息“直接过渡到社会主义”提示，可得出两者过渡方式的改变；再结合所学知识，可从所有制结构、计划与市场关系两方面比较两者的变化。

答案：(1)变化：由排斥商品经济到依靠市场和商品货币关系发展生产力。调整：以粮食税代替余粮收集制。

(2)改变：改变了新经济政策间接向社会主义过渡的路线，实行直接过渡；改变了多种所有制并存的所有制形式，实行单一的公有制；改变了计划和市场调节并存的模式，实行高度集中的经济体制。

课时加餐拔高练

课后加餐练

1. 选A　依据材料“1919年3月”“日用必需品由国家统一分配”信息可知，当时苏俄正在实行战时共产主义政策，取消了商品贸易，日用必需品实行国家统一配给制，故A项正确。

2. 选A　据材料可知这与苏俄内战时期(1918～1921)战时共产主义政策有关，列宁这番话主要针对余粮收集制的实行，故A项正确；固定粮食税的实行是新经济政策时期的一项农业政策，不是内战时期，故B项错误；农业集体化的实行是斯大林时期的农业政策，故C项错误；土地国有化的实行是俄国十月社会主义革命胜利后的农业政策，故D项错误。

3. 选A　新经济政策特点是利用市场和商品货币关系来发展壮大社会主义经济，逐步向社会主义过渡，故A项正确。

4. 选C　由材料“1921年，面对严重的经济危机”，结合所学，当时俄国面临严重的经济危机，苏俄实行了新经济政策，主张利用商品货币关系发展经济，故排除A项，选择C项；B、D两项是斯大林体制的特点，排除。

5. 选D　题干中提到“工业品的相应价格却高出战前水平的一倍”，说明这一时期苏联的工业急需发展，故D项正确。

6. 选D　材料反映苏联重工业企业既有外资，也有国内的自主建设，没有提到苏联重工业发展缺少基本的技术基础，也没有涉及苏联打破了集中计划管理，故A、B两项排除；材料中苏联的钾矿有外资企业，也有国内的自主建设企业，但是由此不能得出苏联在工业化初期依赖外资建设重工业的结论，故C项排除；1928年，苏联企业允许外资企业的存在，说明苏联在工业化初期采用了新经济政策的某些做法，故D项正确。

7. 选B　根据材料“1927年到1933年”“技术学院”并结合所学，得出斯大林执政期间，推行工业化，片面发展重工业，培养工业技术人才，故B项正确。

8. 选B　材料中苏联实现工业化的手段是把分散的小农户变为以公共耕种为基础的联合起来的大农庄即实行农业集体化政策，建立集体农庄，极力压低农产品价格，为工业发展提供资金，片面发展重工业，造成农业生产的落后，故B项正确。

9. 选C　表格显示钢、煤炭的涨幅在326%和368%，而棉纺织品和谷物涨幅只有40%左右，说明苏联注重工业化发展，新工业化模式成为经济发展重要途径，故C项正确；农业集体化主要是满足工业化发展需要，不是解决了粮食供应问题，故A项错误；苏联工业化不是协调发展，故B项错误；苏联农民生活水平的提升与否在表格中无从体现，故D项错误。

10. 选D　A项与“非共产主义的政治家和知识分子”不符合，排除；材料中莫斯科“计划”指的是经济方面，故B项排除；新兴独立国家是二战后出现的，故C项排除；20世纪30年代，一些西方国家的政治家和知识分子借鉴苏联的经验来挽救经济危机，从而推动了西方国家向宏观调控的现代经济过渡，故D项正确。

关注微信公众号“教辅资料站”获取更多学习资料

11. 选B　赫鲁晓夫时期企业自主权过大，故A项错误；斯大林通过优先发展重工业让苏联迅速实现了工业化，但也导致轻工业和农业的滞后，从而制约了苏联经济的可持续发展，故B项正确；斯大林模式忽视了农业和轻工业，故C、D两项错误。

12. **解析**：第(1)问，根据材料一信息分析即可。第(2)问，根据材料二、三信息并结合所学知识可知，苏联发展经济的方针是优先发展重工业，“积极作用”从促进经济发展和为日后反法西斯战争奠定物质基础等方面回答。第(3)问，“因素”根据材料四信息归纳即可，“认识”言之成理即可。

答案：(1)政策：战时共产主义政策(余粮收集制)；新经济政策(粮食税)。

(2)方针：优先发展重工业(工业化)。积极作用：经济迅速增长(成为工业强国)；为粉碎法西斯奠定物质基础。

(3)因素：劳动力和能源日益匮乏；计划经济的弊端；国民经济比例不协调(片面发展重工业)；忽略市场需求。认识：重视工业化；工农业协调发展。

课后拔高练

1. 选B　俄国苏维埃政权建立于十月革命后，二月革命时期还没有建立，故A项错误；1918年夏到1920年底的苏俄国内战争时期，受到战争的破坏，苏俄经济进入停滞状态，故B项正确；农业集体化时期，在斯大林模式的指导下，苏联经济整体上呈现快速发展的趋势，特别是重工业有显著的发展，与材料“经济进入停滞状态”不符，故C项错误；德军入侵是在1941年6月22日以后，不符合时间限制，故D项错误。

2. 选B　1929～1933年世界经济危机主要发生在资本主义及其殖民地半殖民地国家，苏联没有发生经济危机，故A项错误；1928年，苏联开始实施第一个五年计划时，美国经济正处于“柯立芝繁荣”时期，所以苏联“一五”计划“未受到美国人的关注”，而到1932年，苏联“一五”计划提前完成，而此时美国正经历着经济大危机，因而受到美国人的关注，故B项正确；苏联农业集体化为解决工业化急需的粮食、原料、资金等创造了便利条件，但没有促进农业生产力的发展，不会吸引美国人的注意，故C项错误；美国是资本主义私有制，它不会关注苏联公有制的优越性，故D项错误。

3. 选A　从1930年、1931年苏联的粮食产量与出口量分析，国家为了积累资金，从农民身上拿走太多，说明人民为国家工业化建设作出了巨大贡献，故A项正确；苏联农业长期处于落后状态，故B项错误；20世纪二三十年代，苏联通过实施两个五年计划，迅速成为工业强国，故C项错误；材料强调的是苏联人民为国家工业化建设作出的贡献，D项不能全面体现材料主旨，故排除。

4. 选B　材料中没有体现恢复经济任务的完成，故A项错误；根据材料中“不会再有因新经济政策而采取的新的退却”说明当时许多领导人对新经济政策持反对态度，认为这是“扼杀社会主义因素而复活资本主义”只能是在特殊时期实行的特殊政策，故B项正确；据材料可以看出他们反对新经济政策，因此不可能认为它是建设社会主义的正确道路，故C项错误；新经济政策代替了战时共产主义政策，故D项错误。

第21课　二战后苏联的经济改革

课前自检自查练

[1]农业集体化　[2]收购制　[3]玉米　[4]管理权　[5]物质利益　[6]集中领导　[7]军事　[8]1975　[9]指导性　[10]所有制　[11]租赁制　[12]重工业

对点训练

1. 选C　戈尔巴乔夫改革背离了科学社会主义方向，不是赫鲁晓夫，故A项错误；赫鲁晓夫改革扩大地方和企业的经营管理权，这符合国情，不是“蛮干”，故B项错误；赫鲁晓夫不顾苏联的实际强行推广种植玉米运动，因此被称为“蛮干家”，故C项正确；赫鲁晓夫没有摆脱“斯大林模式”的束缚，故D项错误。

2. 选C　苏联赫鲁晓夫改革并未突破计划经济体制，故A项错误；玉米种植面积的扩大没有带来玉米产量的持续增长，由于自然条件的限制，赫鲁晓夫扩种玉米的改革措施失败，故B项错误；由于气候、土壤等自然条件的限制，赫鲁晓夫扩大玉米种植面积的措施却并未使玉米产量持续提高，他的改革措施严重脱离了实际，忽视了客观规律，所以赫鲁晓夫的改革缺乏实事求是的精神，故C项正确；新经济体制实施的时间是勃列日涅夫时期，与材料时间不符，故D项错误。

3. 选C　赫鲁晓夫的改革最终是失败的，但是在教条主义盛行、思想僵化的时期，在一定程度上冲破了传统观念的束缚，并取得一定成效，故C项正确。

4. 选B　根据1971年时间点可知，属于勃列日涅夫改革时期，结合材料“商品货币关系在我国具有新的、社会主义的内容”可知政府主张减少对企业的行政干预，注意运用价值规律，由此可知，苏联政府试图推进经济领域的改革，故B项正确；勃列日涅夫并未从根本上改变斯大林体制，没有打破原有的所有制结构，故A、D两项排除；材料没有体现出对新经济政策的态度，故C项排除。

5. 选A　依据表中数据的变化可知，勃列日涅夫推行的改革收到一定效果，故A项正确；勃列日涅夫改革仍是对原有体制的小修小补，并未突破斯大林体制，故B项排除；材料中没有体现出人民生活水平的变化，故C项排除；D项反映的是20世纪30年代的史实，时间不符，排除。

6. 选B　“新经济体制”冲击了斯大林模式，并不是“突破”，故A项错误；斯大林模式是高度集中的计划经济模式，而“新经济体制”扩大企业自主权，减少计划指令，势必会冲击斯大林模式，故B项正确；戈尔巴乔夫改革改变了此前苏联改革的方向，而不是勃列日涅夫，故C项错误；“新经济体制”减少行政命令对经济的管控，有利于经济的恢复与发展，故D项错误。

7. 选D　由材料中漫画内容“改革”“多党制、私有化”等内容，结合史实判断可知漫画反映了苏联的戈尔巴乔夫改革，这一改革导致苏联全面解体，故选D项；苏联戈尔巴乔夫改革最终没有缓解苏联的政治经济危机，导致了苏联解体，故排除A项；苏联斯大林时期形成了计划经济体制，非戈尔巴乔夫改革的影响，故排除B项；苏联勃列日涅夫时期确立了世界军事霸权，非戈尔巴乔夫改革的影响，故排除C项。

8. 选D　优先解决农业生产中的问题是赫鲁晓夫的做法，故A项错误；进行军备竞赛是勃列日涅夫的做法，故B项错误；调整所有制结构，发展个体经济是戈尔巴乔夫的做法，故C项错误；他们改革的共同点是都力图缓解计划经济造成的弊端，故D项正确。

学考基础合格练

1. 选A　20世纪50年代中期，斯大林模式日益僵化，弊端日益暴露，因此苏联开始对斯大林模式进行改革，故A项正确；战后社会主义力量的壮大与苏联改革没有直接联系，故B项错误；苏共二十大打破对斯大林的个人崇拜，这并不是“主要原因”，故C项错误；斯大林的逝世显然不是苏联开始对斯大林模式进行改革的主要原因，故D项错误。

关注微信公众号“教辅资料站”获取更多学习资料

2. 选 D　根据所学知识可知，对斯大林模式的弊端缺乏科学认识，没有从根本上突破这一模式的束缚是赫鲁晓夫改革未能成功的根本原因，故 D 项正确。
3. 选 C　根据题干材料可知，勃列日涅夫改革只是对斯大林模式的小修小补，没有从根本上触动其模式，故 C 项正确。
4. 选 C　这两次改革都未突破斯大林模式的限制，并没有根本改变经济体制，最终改革失败，故 C 项正确；赫鲁晓夫的改革重点是农业，勃列日涅夫的改革重点放在工业方面，A、B 两项都只体现其中一次改革失败的原因，表述不全面，故排除；D 项仅反映了赫鲁晓夫改革失败的主要原因，不符合“共同原因”，故 D 项排除。
5. 选 D　斯大林于 1953 年去世，故 A 项错误；赫鲁晓夫改革把经济改革的重点放在农业方面，一定程度上承认企业和个人的物质利益，但并未承认市场对经济的调节作用，故 B 项错误；勃列日涅夫改革加强对经济的集中领导，运用经济手段，刺激企业改进经营管理，也没有承认市场对经济的调节作用，故 C 项错误；戈尔巴乔夫改革的重点，是用经济管理方法代替原来的行政命令，实际上承认了市场对经济的调节作用，故 D 项正确。
6. 选 C　戈尔巴乔夫改革一开始是对经济领域进行改革，但是经济领域困难重重，所以戈尔巴乔夫改革转向了政治领域，而赫鲁晓夫、勃列日涅夫的改革仅仅局限于经济领域，故 C 项正确。
7. **解析**：第(1)问，应注意赫鲁晓夫和勃列日涅夫上台的时间，再结合材料一图示指出赫鲁晓夫和勃列日涅夫经济改革的作用。第(2)问，应围绕戈尔巴乔夫改革最终导致苏联解体分析。

   答案：(1)作用：在一段时期内有一定的效果，但长期而言都不可避免地陷入了失败的境地，都没有从根本上解决苏联经济存在的问题。

   (2)解决：戈尔巴乔夫对苏联经济体制和政治体制进行了根本性的变革和改造。结果：经济体制改革陷入困境，政治体制改革使国内局势失控，导致苏联解体。

课时加餐拔高练

课后加餐练

1. 选 C　赫鲁晓夫上台前苏联处于斯大林体制时期，农业生产管理体制较松散，故 A 项排除；当时农业集体化使农民生产劳动积极性不高，故 B 项排除；斯大林体制时期农产品收购价格过低，不是过高，故 C 项符合题意；斯大林体制优先发展重工业，农业发展不能满足人民生活需求，故 D 项排除。
2. 选 C　苏联领导人赫鲁晓夫在 1962 年古巴导弹危机中最终被迫撤走部署在古巴的导弹。赫鲁晓夫开苏联改革的先河，冲击了斯大林模式，并不是一直是斯大林政策的忠实拥护者，故 A 项错误；赫鲁晓夫时期中苏关系恶化，苏联单方面撕毁协议，撤走专家，故 B 项错误；把重工业发展到了新的高度的应是指勃列日涅夫在工业方面改革，注重发展重工业，特别是军事工业，故 D 项错误；由于斯大林时期片面发展重工业，忽视农业，导致农业生产长期徘徊不前，为了扭转这种局面，赫鲁晓夫以农业为突破口，开始了经济领域的改革，故 C 项正确。
3. 选 C　赫鲁晓夫改革时期实行下放企业管理权，承认企业和个人的物质利益，促使企业和工人积极性大幅度提高，与材料相符，故 C 项正确；赫鲁晓夫改革没有涉及个人副业问题，而材料强调赫鲁晓夫改革承认企业和个人的物质利益，排除 A 项；B 项是勃列日涅夫改革的措施，与材料不符，排除 B 项；戈尔巴乔夫改革承认企业是独立的商品生产者，与材料不符，排除 D 项。
4. 选 C　赫鲁晓夫的经济改革和李鸿章参与的洋务运动都取得了一定的成果，并不是没有推动社会发展进程，故排除 A 项；赫鲁晓夫对斯大林体制进行了一定的改革，所以他并不是缺乏勇于改革的精神，故排除 B 项；根据“不能彻底摒弃历史遗产”“大清朝这座破屋的裱糊匠”可知赫鲁晓夫和李鸿章共同的局限性在于没有彻底改变旧体制，故选 C 项；赫鲁晓夫和李鸿章的失败的局限性在于他们没有彻底改革旧制度，而不是必然要失败的命运，故排除 D 项。
5. 选 C　现代企业制度是以产权清晰、权责明确、政企分开、管理科学为条件的新型企业制度，而 20 世纪 70 年代初的苏联仍实行计划经济体制，故 A 项错误；苏联改革的前提条件是坚持社会主义制度，故 B 项错误；材料中苏联的改革措施扩大了国营企业的经营自主权，故 C 项正确；新经济政策的特点是利用市场和货币关系，苏联的改革措施并未引入市场货币关系，故 D 项错误。
6. 选 A　1956～1964 年处于赫鲁晓夫改革期间，其后的勃列日涅夫改革在一定程度上推动了苏联的经济发展，特别是军事实力达到了与美国匹敌的水平，说明这一时期的经济体制改革取得一定成效，故答案为 A 项；赫鲁晓夫和勃列日涅夫改革均没有摆脱斯大林模式的弊端，不能体现出社会主义优越性，故排除 B 项；这一时期美国并非一直深陷经济危机，故排除 C 项；这些现象是美苏争霸在经济领域的体现，故排除 D 项。
7. 选 B　勃列日涅夫时期着重于研究军事等重工业，造成农业和工业之间的比例失调，故 B 项正确。
8. 选 C　该法律使苏联将有一半的国有工业企业转化成私人企业，这必然会削弱社会主义国有经济的经济基础，从而不利于巩固社会主义经济基础，故 C 项正确；赫鲁晓夫改革时就开始打破了计划经济体制的束缚，故 A 项错误；列宁时期就尝试过推行国家资本主义，故 B 项错误；材料体现苏联接受了市场经济模式，但不能说明是“全盘接受”，因为还有一半的工业企业属于国家所有，故 D 项错误。
9. 选 B　结合材料中“戈尔巴乔夫……民主、公开性”的信息，可知是戈尔巴乔夫背离科学社会主义方向的改革，故 B 项正确。
10. 选 B　新经济政策取得成功的重要原因是适应了当时的生产力水平，二战后对斯大林模式的改革也是因为该模式的单一公有制形式和高度集中的计划经济体制的弊端，因此从苏联先后实施的不同经济政策及其结果可以得出的结论是要使生产关系适应生产力的发展，故答案为 B 项。
11. **解析**：第(1)问，据材料一“在国家计划范围内，为了劳动者的利益利用价值规律和商品货币关系”“根据劳动的质和量付给报酬的原则”“允许多元化的社会主义所有制形式存在”等信息，结合所学分析即可。第(2)问，据材料二“以公有制为主体是‘经济垄断’”“实行私有化”“《国营企业法》的目的，就是使苏联企业成为自治的、民主的和财政上独立的生产者”“只有实行私有化，建立‘真正的市场经济’，才能‘恢复社会公正’”等信息，并结合所学分析即可。第(3)问，结合所学，从改革的方向、措施等角度回答。

    答案：(1)特征：一定程度上恢复国家资本主义，实行“按劳分配”和自由贸易政策；建立起多种形式的所有制形式，充分利用商品和货币关系，恢复和发展经济。

关注微信公众号“教辅资料站”获取更多学习资料

(2)评价:打破以公有制为主体的“经济垄断”,发展多种形式的所有制;通过立法的形式,使国营企业成为独立的生产者,把企业推向市场,这都是必要的。但实行完全私有化,建立所谓“真正的市场经济”,破坏了社会主义经济基础,是导致苏联解体的原因之一。

(3)原因:列宁改革结合本国实际情况,改革措施配套,坚持社会主义方向;戈尔巴乔夫改革不顾苏联实际情况,改革缺乏相应的配套措施,且背离了社会主义方向。

课后拔高练

1. 选A　由材料得出1970年煤钢的生产目标基本实现,但肉、蔬菜与瓜类关系民生的产量远未达到预期,可知斯大林模式下轻工业、重工业比例失衡,凸显了经济发展存在的问题,故选A项;材料强调的是经济发展指标而非经济政策,排除B项;赫鲁晓夫改革时期将重点放在农业,而勃列日涅夫改革将重点放在工业上,排除C项;1970年正值勃列日涅夫改革时期,苏联人民群众对美好生活的需求没有改变,排除D项。
2. 选A　材料反映出七年经济计划仍然优先发展重工业,未能摆脱斯大林模式的影响,故A项正确;苏联应对马歇尔计划的举措是成立经济互助委员会,而且马歇尔计划在1951年已经结束,故B项错误;1959年仍然实行高度集中的计划经济,不同于新经济政策利用资本主义、商品货币关系,故C项错误;材料只反映出苏联工业化战略,与管理体制的变化无关,故D项错误。
3. 选C　万隆会议召开,亚非国家联合反对西方国家殖民主义,与材料对斯大林的评价无关,故A项错误;1959年越南战争爆发,反映出殖民国家对越南的侵略,与材料对斯大林的评价无关,故B项错误;1956年苏共“二十大”召开,赫鲁晓夫开始对斯大林时期进行了批判,引起思想的混乱,材料中中共关注“能否正确地认识和对待斯大林的错误”,故C项正确;朝鲜战争停战与材料对斯大林的评价无直接关系,故D项错误。
4. 选A　根据材料“由以前每年发放一次物质报酬改为按季度或按月发放”“农民可以像工人一样每月领取工资”可知,赫鲁晓夫在一定程度上承认了个人的物质利益,有利于调动农民的生产积极性,故A项正确;这一措施只是在原有经济体制上进行小修小补,没有改变高度集中的计划经济体制,故B项错误;这一措施旨在调动农民的生产积极性,并不能起到消除城乡之间的差别的作用,故C项错误;苏联在斯大林时期已经建成了集体农庄,走上了集体化道路,故D项错误。
5. 选D　回忆录虽是亲闻、亲见、亲历的第一手资料,也会因作者时间久,记忆不清或个人利害得失,出现有意无意的疏漏、讹误,不一定能够准确记述作者的事迹,故A项错误;同样作为历史资料,回忆录和相关研究著作各有优劣,可相互印证,不能直接断定可信度的高低,故B项错误;根据材料“因其内容的复杂性,不同年代版本的内容均有所不同”可知,不同版本对内容会有所取舍或修改,但并非版本越新越接近历史真相,故C项错误;根据材料“不同年代版本的内容均有所不同”可知,受政治环境影响,时代对历史叙述有一定的影响,故D项正确。

第八单元　世界经济的全球化趋势

第22课　战后资本主义世界经济体系的形成

课前自检自查练

[1]世界秩序　[2]英镑　[3]货币体系　[4]1944　[5]国际货币金融会议　[6]布雷顿森林协定　[7]国际货币　[8]国际汇率　[9]国际合作　[10]欧洲　[11]全球性　[12]美元　[13]经济命脉　[14]标准　[15]协调与合作　[16]关税与贸易总协定　[17]自由贸易　[18]国际货币基金组织　[19]制度化

对点训练

1. 选D　第二次世界大战之后,美国在经济实力和综合国力上是整个资本主义世界中的佼佼者,因此才能掌控资本主义世界经济体系,故选D项。
2. 选C　根据题干时间“1944年”可知,此时第二次世界大战尚未结束,美苏两国仍处于同盟状态,并没有破裂,美国也并没有准备实行“冷战”政策,故A、B两项排除;根据材料“固定卢布汇价、交流经济情报等规定”可知,此规定有可能涉及苏联的经济安全,国家利益受到损害,故C项正确;美苏争霸始于20世纪50年代后期,与材料时间不符,D项排除。
3. 选B　国际货币基金组织主要任务是稳定国际汇率,消除妨碍世界贸易的外汇管制,与材料不符,故A项错误;世界银行成立初期的宗旨是致力于战后欧洲的经济复兴,后来转向全球性的发展援助,所以中国可以向此组织申请贷款发展农业、教育,故B项正确;关贸总协定的宗旨是降低关税,减少贸易壁垒,与材料不符,故C项错误;联合国致力于促进各国在国际法、国际安全、经济发展、社会进步、人权及实现世界和平方面的合作,与材料无关,故D项错误。
4. 选A　根据上述材料可知该组织是国际组织且是为了维护金融秩序,符合国际货币基金组织的宗旨,故A项正确;世界银行的宗旨最初是战后经济的恢复后来转为世界性的发展援助与金融秩序的关系相对较小,故B项错误;亚太经济合作组织,主要是一个区域性的组织致力于亚太地区的经济技术合作和多边贸易与国际性的金融关系较小,故C项错误;世界贸易组织主要致力于贸易合作而非金融秩序,故D项错误。
5. 选C　二战后,形成布雷顿森林体系,美元获得了和黄金挂钩的特殊地位,成为资本主义各国在国际贸易中的主要支付手段和储备货币,故C项正确;英国经济实力严重衰退,是布雷顿森林体系形成的一个原因,不能直接说明资本主义各国在国际贸易中使用美元作为结算手段的原因,故排除A项;关税与贸易总协定是二战后形成的国际贸易体系,与“使用美元作为结算手段”无关,故排除B项;国际货币基金组织宗旨是保持国际汇率的稳定,与使用美元作为结算手段无关,故排除D项。
6. 选B　A、C两项说法不符合史实,故排除;美元与黄金从第二次世界大战后初期的“挂钩”到20世纪70年代以来的“脱钩”主要是伴随着西欧和日本的崛起,美国的经济霸主地位受到冲击,故B项正确;材料仅仅说明美元的主导地位的变化,没有涉及美国与其同盟国关系破裂,故D项错误。
7. 选B　材料信息“战后初期国际社会为实现自由贸易,消除关税壁垒”说明该措施与国际贸易有关,故选B项。
8. 选B　二战后初期,建立了以美元为中心的“布雷顿森林体系”,成立了关贸总协定,这是二战前世界经济发展中从未有过的现象,是建立起制度性协调机制的表现,故选B项。

学考基础合格练

1. 选B　材料中美国停止兑换黄金的义务,是在经济受到重大冲击的基础上,当时没有力量垄断资本主义世界经济,故A项错误;布雷顿森林体系规定美元和黄金挂钩,美国宣布停止兑换黄金,说明已经无力维持布雷顿森林体系,故B项正确;日欧经济的冲击不是主要原因,而是美国自身出了问题,故C项错误;停止兑换黄金,实际上破坏了布雷顿森林体系,维持不了世界金融秩序的稳定,故D项错误。

关注微信公众号“教辅资料站”获取更多学习资料

2. 选 C　由所学知识可知，世界银行为成员国提供长期贷款和技术援助，故 C 项正确。
3. 选 B　希腊债务危机需要短期的资金救助，世界银行为成员国提供长期贷款，故 A 项错误；国际货币基金组织对在国际收支出现暂时困难的成员国提供短期贷款，故 B 项正确；C、D 两项与稳定金融秩序无关，排除。
4. 选 B　布雷顿森林体系是以美元和黄金为基础的金汇兑本位制，其实质是建立一种以美元为中心的国际货币体系，基本内容包括美元与黄金挂钩、国际货币基金组织会员国的货币与美元保持固定汇率，故选 B 项。
5. 选 A　根据“取消国际贸易中的歧视待遇，以促进自由贸易”并联系“第二次世界大战后”，可知其为关贸总协定，故 A 项正确。
6. 选 D　国际货币基金组织、国际复兴开发银行和“关贸总协定”这三大经济支柱，调整了世界经济贸易和金融，是世界经济朝着体系化和制度化方向发展的反映，故 D 项正确。
7. **解析**：第(1)问，根据材料中的时间和图片信息答出国际性体系，联系 1929～1933 年经济危机的教训和二战前后世界各国力量的消长进行分析。第(2)问，第一小问，根据材料信息“一个准国际组织”“一般禁止数量限制原则的例外”“没有具有法律约束力的强制手段”概括出不足；第二小问，结合关贸总协定的性质答出关贸总协定的历史地位。

   答案：(1)体系：布雷顿森林体系。背景：20 世纪 30 年代世界经济危机和第二次世界大战后初期，国际经济萎缩，各国货币竞相贬值，动荡不定；第二次世界大战后，各国的经济政治实力发生了重大变化，美国经济实力膨胀，成为世界最大的债权国；英国的衰退使英镑为中心的世界货币体系难以维系；国际共识要求建立有利于世界经济发展的机制。

   (2)不足：一个临时性的多边组织；规则不严密；不具有法律约束力。地位：是第二次世界大战后世界上出现的第一个以法律形式调整国际贸易与贸易关系的规则和程序，建立起缔约方之间权利及义务关系的体制。

课时加餐拔高练

课后加餐练

1. 选 B　布雷顿森林会议时期，美国经济实力强大，英国实力削弱，材料“他们是有钱袋子，但是我们有的是脑瓜子”反映了英美两国经济实力差距悬殊，故 B 项正确；材料内容并不能说明英国对自己的方案缺乏自信，故 A 项错误；材料没有将美国的方案和英国的方案进行比较，不能说明哪一个更好，故 C 项错误；材料主旨并不是说明美英均提出国际贸易体系方案，而是强调英美两国经济实力的差距，况且布雷顿森林会议上不会提出“贸易”体系方案，故 D 项错误。
2. 选 A　材料中的援助战略主要是针对基础建设和环境等长期发展问题，结合所学知识，世界银行的宗旨是促进国家经济的恢复和发展，为成员国提供长期贷款和技术援助，故 A 项正确。
3. 选 A　世界银行的重要事项都需会员投票决定，投票权的大小与会员认购的股金成正比，谁认缴的股金多，谁的投票权就大，故 A 项正确。
4. 选 B　稳定国际汇率是国际货币基金组织的宗旨，与提升人民币地位，人民币成为“可自由使用货币”的举动相一致，故 B 项正确。
5. 选 A　从图一到图二的历史变迁反映了以美元为中心的资本主义世界货币体系的建立，国际货币关系从无序到有序，故 A 项正确。
6. 选 C　根据题干提示说明美元和黄金保值，之所以这样是因为 1944 年布雷顿森林会议确定了美元“等同黄金”的特殊地位。故选 C 项。
7. 选 D　材料通过图表的形式展示了“1955～2007 年”日元与美元汇率的变化，其中“1955～1971 年”汇率基本保持稳定，“1971 年”后汇率发生了较大的波动，而“1955～1971 年”正与布雷顿森林体系存在时间基本一致，故 D 项正确；“二战后初期日美经济发展同步”说法不符合史实，故 A 项排除；材料中没有涉及日本经济的发展情况，与题意不符，故 B 项排除；“世界经济三足鼎立的局面形成”在图表中看不出来，故 C 项排除。
8. 选 C　关贸总协定是多边国际协定和组织，不是为了维护某个国家的经济安全，故 A 项错误；知识经济出现于 20 世纪 80 年代，故 B 项错误；关贸总协定成立的目的是促进贸易自由化，故 C 项正确；关贸总协定是多边国际协定和组织，D 项说法不准确，故 D 项错误。
9. 选 D　第二次世界大战结束后，为解决世界贸易紊乱的现象，美国主导下的关贸总协定建立，意在消除贸易壁垒，加强各国经济联系，故选 D 项。
10. 选 D　联合国、国际货币基金组织、关贸总协定等一系列国际组织出现，它适应了经济全球化发展趋势，反映了世界经济体系化和制度化的发展方向，故选 D 项。
11. **解析**：第(1)问从二战前的金融状态和战后的国际关系还有美国以及美元在战后资本主义体系中的地位进行分析得出布雷顿森林体系产生的历史背景及特征。第(2)问，联系所学答出布雷顿森林体系的内容，并从其对美国和世界的影响加以理解。第(3)问，联系所学概括出关贸总协定的内容，从对美国和世界经济发展和世界经济体系的制度化和体系化等方面答出影响。

    答案：(1)历史背景：第二次世界大战前国际金融领域处于一种无序状态；第二次世界大战后各国经济政治实力发生重大变化；美国对外经济扩张企图掌握世界经济霸权。特征：是以美元为中心的资本主义世界货币体系。

    (2)内容：建立以美元为中心的世界货币体系。理解：确立美国经济霸主地位；促进世界贸易的发展。

    (3)主要内容：互惠互利，削减关税，取消贸易歧视。影响：促进美国经济发展以及世界经济全球化；是战后世界经济朝体系化和制度化方向发展的反映。

课后拔高练

1. 选 C　中国加入亚太经合组织是在 1991 年，时间不符，故 A 项错误；将天津设为沿海开放城市是在 1984 年，且与京津塘高速得到世界银行贷款关系不是很大，故 B 项错误；中国能够得到世界银行贷款，是因为 1980 年，中国恢复世界银行的成员国地位，故 C 项正确；中国成功加入世贸组织是在 2001 年，时间不符，故 D 项错误。
2. 选 A　根据材料可知美国凭借其经济实力加强对世界金融的控制，确立布雷顿森林体系就是这种意图的表现，故 A 项正确；北大西洋公约组织是对付苏联的冷战，属于军事层面，故 B 项错误；1947 年以美国为首签署了关贸总协定，反对贸易保护主义，故 C 项错误；对欧洲经济援助是马歇尔计划，也是冷战的组成部分，与美国保持这种优势(世界经济霸主)的“关系模式”无关，故 D 项错误。
3. 选 C　从材料中世界银行 1968 年与 1981 年的贷款项目与贷款总额对比可知，20 世纪 80 年代以来世界政治经济发生了巨大变化，结合所学知识可知，世界银行的宗旨之一是为发展中国家提供贷款或帮助，故选 C 项；A 项与史实不符；B 项不是导致题干所述变化的原因；世界贸易组织成立于 1995 年，与材料时间不符，排除 D 项。

关注微信公众号“教辅资料站”获取更多学习资料

第 23 课　世界经济的区域集团化

课前自检自查练

[1]文化传统　[2]两极格局　[3]煤钢共同体条约　[4]1993　[5]欧元　[6]经济政治　[7]经济　[8]北美自由贸易协定　[9]自由流通　[10]发展中国家　[11]汉城宣言　[12]经济技术合作

对点训练

1. 选 A　“起了根本变化的世界”是指美苏两极格局形势的形成，“欧洲的联合是绝对必要的”说明在两极格局的艰难形势下要求得生存就必须加强联合，故 A 项正确；西欧共同文化心理认同是西欧联合的文化基础，不符合题意，故 B 项错误；实现欧洲统一的梦想不是材料中联合的主要因素，故 C 项错误；西欧经济发展水平相近属于经济因素，不是材料中政治因素，故 D 项错误。
2. 选 C　《欧洲经济共同体条约》文本使用了各成员国不同的技术，体现出欧洲国家联合的特征，故 C 项正确；材料中的各国技术并不一定是最先进技术，故 A 项错误；材料中使用技术并不代表各国经济水平的不同，故 B 项错误；材料并不是说明文本制作工序的复杂性，故 D 项错误。
3. 选 B　西欧国家减持美元是因为有了可以替代的国际货币，欧元 2002 年正式流通，成为欧元区重要的国际货币，故 B 项正确。
4. 选 B　“一个大块头”是指美国，“两个小个子”是指加拿大和墨西哥，然而一个大块头，“带着”两个小个子中的“带着”就是北美自由贸易区是由美国主导的意思，故 B 项正确。
5. 选 A　北美自由贸易区是第一个由发达国家和发展中国家组成的自由贸易区，在区域一体化组织模式上具有创新价值，故 A 项正确；北美自由贸易区的成员国墨西哥、加拿大、美国都是资本主义国家，故 B 项错误；北美自由贸易区是贸易领域，没有实现政治一体化，故 C 项错误；北美自由贸易区在实现商品、劳务、资本自由流通方面并不具有创新价值，故 D 项错误。
6. 选 D　北美自由贸易区是北美美国、加拿大和墨西哥三国的经济合作组织，故 A 项错误；上海合作组织是中国和俄罗斯以及中亚等国共同成立的区域合作组织，故 B 项错误；世界贸易组织是国际贸易组织，不符合材料信息，故 C 项错误；亚太经合组织地跨亚洲、大洋洲、北美洲和南美洲四大洲，是当今规模最大的区域性经济集团，故 D 项正确。
7. 选 D　根据漫画“APEC”“trade”，说明亚太经合组织要打破贸易壁垒，反对贸易保护，体现了亚太经济合作组织减少贸易壁垒以便优势互补，故 D 项正确；材料反映的是亚太经合组织打破贸易壁垒，无法体现“扩大经济合作范围”，故排除 A 项；材料无法体现“提升整体实力应对外部挑战”，故排除 B 项；根据“trade”可知，亚太经合组织意在减少贸易壁垒，并非打破地域障碍，故 C 项错误。

学考基础合格练

1. 选 C　1951 年欧洲煤钢共同体成立，1967 年欧洲共同体成立，1993 年欧盟成立，1999 年欧元问世，由此可知排序正确的是煤钢共同体、欧洲共同体、欧盟、欧元，故选 C 项。
2. 选 B　西欧一体化的主要表现就是欧共体的建立以及之后的欧盟的建立。因此英国脱欧，对西欧一体化产生了一定的负面影响，故 B 项正确；即使英国脱欧，欧盟也是世界多极化的重要一极，并不会对其产生太大影响，故排除 A 项；贸易自由化、政治民主化并不会因英国脱离欧盟而产生太大的改变，故排除 C、D 两项。
3. 选 C　通过仔细阅读材料并结合所学知识不难发现，材料中的“大国主导、减免关税的不同步性、国家间实力差距较大”等字眼符合北美自由贸易区的基本特征，所以笔记内容所反映的组织只能是 C 项。
4. 选 D　北美自由贸易区的成员国包括发展中国家墨西哥和发达国家美国、加拿大，组成的国家在发展水平上存在较大差异，给成员国之间的合作带来一些问题，故答案为 D 项。北美自由贸易区的合作内容包括取消关税和其他贸易壁垒，实现商品、劳务、资本的自由流通，不是合作程度低的原因，故排除 A 项；成员国的规模和数量不能决定合作程度，故排除 B 项；北美自由贸易区成立于 1994 年，欧盟成立于 1993 年，故排除 C 项。
5. 选 D　北大西洋公约组织是美国与西欧、北美主要发达国家建立的军事集团组织，故排除 A 项；北美自由贸易区由美、加、墨三国组成自由贸易区，排除 B 项；欧洲联盟是由欧洲国家组成的一个集政治实体和经济实体于一身、在世界上具有重要影响的区域一体化组织，故排除 C 项；1991 年 11 月，中国以主权国家身份，中国台北和香港以地区经济体名义正式加入亚太经合组织，故选 D 项。
6. 选 C　根据图片的标志可以判断为亚太经济合作组织，其成员之间并没有实行统一的关税，也不具备政治性质，故 A、B 两项错误；成员之间强调灵活多样的合作方式，不具有强制性，这种合作方式被称为“APEC 方式”，故 C 项正确；安全先行原则是上海合作组织的特征之一，与亚太经济合作组织不符，故 D 项错误。
7. **解析**：第(1)问，第一小问，可结合材料一中建立“欧洲联盟”的信息进行回答；第二小问，可从“依赖美国……有害无益”的信息解答。第(2)问，应结合材料二中各分号前后的信息从国家类型、合作程度、合作方式等方面概括。
   答案：(1)主张：欧洲联合，实现欧洲一体化。依据：第二次世界大战后欧洲失去国际中心地位，受到美国的控制。
   (2)特点：合作不受经济发展水平和社会制度的制约；合作的程度、范围越来越大；合作方式呈现多样性。

课时加餐拔高练

课后加餐练

1. 选 D　材料中的“煤钢生产的联营将可以改变这一地区长期生产武器使它自己成为牺牲品这一命运，”所反映的本质问题是法国主张建立煤钢联营的目的就是在于吸取多年战争的教训，消除欧洲的战争隐患，故选 D 项。
2. 选 C　由图中的旗帜和“EURO”判断这是欧洲联合的象征，体现了欧盟的发展历程，即欧洲一体化的反映。故选 C 项。
3. 选 D　欧洲联合并不是成为统一的欧洲国家，而是区域集团化组织，故 A 项错误；封建神学在欧洲占统治地位是在欧洲中世纪，时间上与题干不符，故 B 项错误；确立欧盟法制规范的是《欧洲联盟条约》，而罗马法是罗马奴隶制社会实行的法律，故 C 项错误；依据材料“12 是完美和丰饶的象征……罗马的 12 铜表法”，说明欧洲各国在历史上有过共同的文化，故 D 项正确。
4. 选 B　欧洲联盟的性质是政治经济一体化组织，它合作程度最高，合作领域最广泛，合作成效最显著，故 B 项正确。
5. 选 B　1992 年，美国、加拿大和墨西哥签订了《北美自由贸易协定》，逐步实现了三国商品、劳务、资本等的自由流通，推动了美国与加拿大贸易的发展，增加了美国国内就业机会，故 B 项正确；A、C 两项均属于美国的内部因素，与加拿大无关，排除；材料反映了美加经济合作产生的影响，故 D 项错误。

关注微信公众号“教辅资料站”获取更多学习资料

6. 选 B　欧共体是发达国家的经济一体化组织，与题意不符，故 A 项错误；北美自由贸易区由发达国家美国、加拿大和发展中国家墨西哥组成，符合题意，故 B 项正确；联合国不是经济集团，故 C 项错误；布雷顿森林体系是第二次世界大战后以美国为首的资本主义货币体系，并非经济集团，故 D 项错误。

7. 选 D　从图片推土机身上“北美自由贸易协定”可以看出是区域经济合作存在问题。图片反映墨西哥农业受到冲击，说明区域经济合作的公平性受到质疑，故 D 项正确。

8. 选 B　注意材料中的关键信息“较为稳定的经济联系”并联系所学知识可知，区域性经济集团的组成主要是因为各国的经济依赖程度进一步加深，故选 B 项。

9. 选 D　与 TPP 相比之下，APEC 会议是建立在协商一致基础上的，成果不具有法律约束力，TPP 作为一项多边关系的自由贸易协定，具有法律上的强制性，与 APEC 具有明显的不同特征，因此，“软机制”在这里指的是自主自愿，故 D 项正确；TPP 也有一定的灵活性，故 A 项错误；TPP 协议具有排外性，被称“经济北约”，与 APEC 的开放性有所不同，但不能解释“软机制”的概念，故 B 项错误；平等互利是 APEC 的原则，但与“软机制”的概念无关，故 C 项错误。

10. 选 D　APEC 使成员经济体平均实施关税降低，推动了区域内贸易额和区域总贸易额提升，这说明 APEC 的成立促进了亚太地区经济发展，故 D 项正确；APEC 成员经济体平均实施关税降低，但不等于成员国间贸易壁垒消除，故 A 项错误；APEC 的成立推动了经济一体化，并非经济一体化推动了 APEC 的成立，故 B 项错误；材料并未表明其他经济组织对 APEC 的态度，故 C 项错误。

11. **解析**：第(1)问依据材料一逐句总结，并结合所学知识可从政治、经济、文化等方面进行分析。第(2)问第一小问，从材料二加入欧盟的国家，结合苏联解体、欧盟发展的史实，可总结欧盟扩大的背景；第二小问，从材料二“多样性的联合，将会使我们变得更加强大，更好地解决彼此间的共同问题。多样性的联合，也会使我们更有效率地为整个欧洲的安全和繁荣而努力工作”，可知欧洲实现“多样性的联合”的主要意义。

答案：(1)政治上：吸取历史教训；美苏的强大及冷战；法德逐渐实现和解。经济上：西欧国家经济联系密切；经济发展水平相近。文化上：近代以来相似的文化传统。

(2)背景：苏东剧变、两极格局的解体(冷战的结束)；欧洲一体化的推动。意义：增强欧盟的实力；有利于欧洲问题的解决；有利于欧洲的安全和繁荣。

课后拔高练

1. 选 B　马歇尔计划 1947 年启动，1951 年结束，与材料时间不符，故 A 项错误；由材料“20 世纪 60～70 年代，法国、联邦德国和意大利北部”可知 1967 年欧共体成立后，欧洲实行的共同农业政策等经济一体化政策推动了欧洲农村经济的发展，故 B 项正确；二战后，西欧主要资本主义国家确立了福利制度并不断发展完善，材料强调的是欧洲农村经济的发展，并不是福利制度，故 C 项错误；布雷顿森林体系是货币金融体系，与农村机械化没有直接关系，且布雷顿森林体系瓦解于 1973 年，与材料时间不符，故 D 项错误。

2. 选 A　马歇尔计划“敦促欧洲方面首先拟定一项联合性质的计划”，可见美国对欧政策有利于欧洲一体化，促进煤钢联营的建立，故 A 项正确；马歇尔计划是美国主导的，其目的是援助和控制西欧，没有体现欧美平等的伙伴关系，故 B 项错误；材料主要提及马歇尔计划对欧洲联合的作用，与导致欧洲对峙无关，故 C 项错误；柏林危机导致德国分裂，其根源在于美苏的对抗，与马歇尔计划无关，故 D 项错误。

3. 选 B　表格中国际组织出现的主要因素是新兴独立国家为了应对其在旧的国际经济秩序中的不利局面，发达国家资源紧缺不是主要因素，故 A 项错误；面对西方国家的冲击，新兴独立国家加强彼此经济合作，纷纷建立一些国际组织，以应对不利的国际经济秩序，故 B 项正确；经济全球化一开始就出现在生产领域，而不是二战后，故 C 项错误；表格中石油输出国组织是全球化的经济组织，不是区域经济集团，故 D 项错误。

第 24 课　世界经济的全球化趋势

课前自检自查练

[1]工业革命　[2]交通运输　[3]两极格局　[4]市场
[5]跨国公司　[6]资金　[7]技术　[8]挑战　[9]世界经济
[10]规范化　[11]贸易自由化　[12]发展中国家　[13]缔约国
[14]社会主义市场经济　[15]世界贸易

对点训练

1. 选 A　20 世纪 90 年代，两极格局的瓦解为经济全球化扫清了障碍，绝大多数国家都实行了市场经济体制，推动了世界经济向全球化发展，故 A 项正确。

2. 选 D　材料中“以世界为工厂，以国家为车间”反映的是经济全球化带来的影响，即经济全球化加速了国际分工，使生产和销售向全球化发展，故选 D 项。

3. 选 B　从漫画中可以看出发达国家和发展中国家的距离越拉越远，也就是经济全球化下世界经济发展不平衡加剧，故 B 项正确。

4. 选 C　关贸总协定和世贸组织的宗旨都是要促进贸易自由化，但是关贸总协定是临时性多边贸易，而世贸组织标志着世界贸易进一步走向规范化，多边贸易秩序相对强化，故本题选 C 项。

5. 选 A　材料表明世贸组织通过世界贸易组织协定，对各成员方都具有法律的约束力，故 A 项正确；B 项“消除”表述绝对化，排除；材料未体现世贸组织推动了世界经济格局的变动，故 C 项错误；材料与是否是经济全球化形成的标志无关，故排除 D 项。

6. 选 C　由材料“中国政府加快了进入世贸组织的谈判”可知 20 世纪 90 年代为顺应世界经济全球化的趋势，中国谋求加入世界贸易组织，故 C 项正确；材料体现的是经济组织，故 A、B 两项错误；世界贸易组织是经济全球化的反映，不是区域集团化趋势，故 D 项错误。

7. 选 D　面临的挑战即面临的风险，A、B、C 三项都是入世带来的机遇，只有 D 项是面临的风险，故 D 项正确。

学考基础合格练

1. 选 A　材料中“自由化、网络化、融合化和多边化”反映了当今世界各国之间的经济联系日益紧密，经济全球化趋势愈加明显，故选 A 项。

2. 选 A　从图片中的符号“$”可知“飞行的小人”指美元，再结合文字“去利润最高的地方”“这些家伙出境从来都不办签证”可知，漫画反映的是资本的世界流动，其加强了世界联系，而实现资本全球流动的是跨国公司，故 A 项正确，漫画中信息不能反映全球人员往来实现自由，排除 D 项；B 项夸大了资本自由流动的影响，排除；跨境资本流动具有逐利性，但不等于社会上盛行唯利是图思想，可排除 C 项。

3. 选 D　经济全球化是世界经济发展的趋势，更是一把双刃剑，我们要顺应潮流，趋利避害，故 D 项正确。

4. 选 A　材料反映了全球贸易体系、汇兑体系以及资本流动影响发展中国家发展，进而密切了世界各地的联系，表明经济全球化的进一步发展，故 A 项正确。

5. 选 C　从材料中“世贸组织……抑制……强权政治”并结合所学内容可以分析出，世贸组织在决策过程中采取了“完全协商一致”方式，故 C 项正确；A、B 两项不可能抑制国际经济贸易关系中的强权政治，排除；D 项不符合不同国家不同发展程度的现状，排除。

关注微信公众号“教辅资料站”获取更多学习资料

6. 选D　战后国际经济组织的成立，使得世界经济朝着规范化和法制化的方向发展，促进了世界经济的有序发展，故D项正确。

7. **解析**：第(1)问，根据材料“关贸总协定是调整缔约国对外贸易和国际经济贸易关系方面的相互权利、义务的国际多边协定”结合所学，即可归纳出GATT的宗旨。第(2)问，第一小问，根据材料中“一个依赖于技术和现代化的中国决不能落后于如此迅速的全球化步伐”可以概括出鲁杰罗演讲的核心观点，即综合实力日益增长的现代化的中国必然会融入世界的全球化趋势中。第二小问，分析中国加入WTO的理由，应从中国的发展离不开世界，世界的发展离不开中国两个角度阐述。

答案：(1)宗旨：减少关税与贸易障碍，取消歧视性待遇，促进自由贸易。

(2)核心观点：中国应加入WTO。理由：有利于中国经济改革，推动经济结构调整及产业升级；有利于扩大就业和提高人民生活水平；有利于扩大出口，利用外资；有利于实施“走出去”战略，参加国际竞争与合作；有利于参与国际经贸规则的制定，分享多边贸易体制和经济全球化成果；有利于促进世界经济发展。

课时加餐拔高练

课后加餐练

1. 选C　根据材料信息从“世界是圆的”到“世界是平的”可得出后者旨在强调的是经济全球化，故C项正确。

2. 选D　材料说明世界正迅速融为一个统一的经济体，随着世界经济一体化趋势的进一步发展，世界经济的依赖性将会增强，各国经济将更加密不可分，故D项正确；两极格局的瓦解并未消除各国的矛盾，故A项错误；材料主要体现的是经济全球化趋势，不是世界政治多极化趋势，也不是美国经济迅速衰退并趋于停滞，故B、C两项错误。

3. 选B　题中“非经济福音的全球化”“世界性的生产和交换活动中产生的经济利益，却没有在全球合理分配”说明经济全球化不利于世界经济均衡发展，故B项正确。A、C两项只是材料反映的一个方面信息，D项材料中没有提及该信息，故排除A、C、D三项。

4. 选C　材料主要反映了发达国家与发展中国家的经济相互影响，A、B两项不符合题意；经济全球化使各地的联系日益密切，故C项正确；经济全球化实际上拉大了发展中国家与发达国家的贫富差距，故D项排除。

5. 选D　应对全球变暖等国际社会共同关心的问题，各国应采取可持续发展战略，故D项正确。

6. 选C　英国卡梅伦政府的“脱欧”公投和美国特朗普政府对中国输美产品加征关税，均表明在全球化背景下发达国家出现了对国际合作持消极态度的反全球化现象，故答案为C项；经济全球化的最大受益者是发达国家，故排除A项；中国作为发展中国家，经济全球化既是机遇，也是挑战，故排除B项；这一变化与国际格局无关，故排除D项。

7. 选B　材料中所提及的两个协定，指的分别是布雷顿森林协定和关贸总协定，它们的建立反映了战后世界经济向体系化、制度化方向发展，是一种制度化的经济协调机制，故B项正确。

8. 选A　材料体现的是世界市场的逐步形成过程，也就是全球化逐渐从无序发展到有序，最终建立了包括全球各国家和地区的世界贸易组织，故A项正确；贸易自由化并不是一帆风顺的，中间有贸易保护主义等，故B项错误；工业革命推动了资本主义世界经济体系的形成，故C项错误；世界贸易组织的建立标志着规范化和法制化的世界贸易体系开始建立，不是标志着经济全球化形成，故D项错误。

9. 选D　从材料中“只有在多边体制中才能找到”可以看出中国加入世界贸易组织，其成功加入的时间是2001年，故D项正确。

10. 选B　“中国经济实力和综合国力不断增加，地位举足轻重”“发展中的中国有着广阔的市场和无限的商机”均是在强调“世界需要中国”，而不是“中国需要世界”，故排除A、C两项；中国深化对外开放，但是并不是严重依赖国际市场，故D项排除；“可以直接参与21世纪国际贸易规则的决策过程，摆脱被动接受规则的不利状况”表明了“中国需要世界”，故B项正确。

11. **解析**：第(1)问，第一小问材料一中明确指出“在全球化的过程中……机会将越来越平等……全球各地之间变得越来越相互依赖……达到平衡”，可见之所以说“世界是平的”原因主要是经济全球化不断发展，世界日益成为一个整体。第二小问需要结合所学知识可知，第二次工业革命推动世界范围内工业生产的空前发展，拥有强大实力的垄断公司致力于频繁的跨国贸易和资本输出，交通运输工具的变革和通讯工具的创新加速商业信息的传播与交流，使得人们的联系大为方便。第(2)问，第一小问主要涉及经济全球化带来的诸多问题，根据材料二中所涉及的信息点，主要表现有全球经济发展不平衡、发展不可持续等；第二小问作答时综合材料与所学知识整理出相应对策即可：推行可持续发展战略；建立公正、合理的国际政治经济新秩序；开展广泛的国际合作。

答案：(1)原因：经济全球化不断发展，世界日益成为一个整体。因素：第二次工业革命推动世界范围内工业生产的空前发展；拥有强大实力的垄断公司致力于频繁的跨国贸易和资本输出；交通运输工具的变革和通讯工具的创新加速商业信息的传播与交流，使得人们的联系大为方便。

(2)表现：全球发展不平衡，发展不可持续。方案：推行可持续发展战略；建立公正、合理的国际政治经济新秩序；开展广泛的国际合作。

课后拔高练

1. 选A　材料中“民族国家发展和科技进步达到前所未有的程度”是利，材料中“全球化也会使某些国家遭到不公正对待并远远落在后面”是弊，故A项正确；批评反全球化思潮与材料中“同时全球化也会使某些国家遭到不公正对待并远远落在后面”的客观现实不符，故B项错误；材料中该学者是辩证看待，并不是单纯强调消极作用，故C项错误；材料中是辩证看待全球化带来的影响，并没有涉及应对策略，故D项错误。

2. 选A　俄罗斯加入八国集团和中国、巴西、印度等加入二十国集团，反映出新兴国家在国际舞台上的作用越来越大，世界政治格局的多极化趋势愈益明显，目标从协调经济政策以解决世界经济难题到寻求合作以促进国际金融稳定和经济持续增长反映出原有的世界经济秩序已不适应世界经济形势的发展，应建立新的世界经济秩序，故A项正确；二战后初期建立的布雷顿森林体系和关贸总协定说明经济全球化已经深入到贸易和金融领域，故B项错误；题干说的是从七国集团到八国集团再到二十国集团，其中俄罗斯加入八国集团不属于亚非拉国家进入世界体系，故C项错误；区域经济集团是指地理毗邻的国家组建的经济合作组织，题干中的八国集团和二十国集团均不符合区域经济集团的这一特征，故D项错误。

3. 选B　材料中“将特定和有限度的‘经济全球化’省略为‘全球化’”合乎逻辑，故A项错误；“把‘经济全球化’省略为‘全球化’”是说明全球化的主要表现是在经济方面，故B项正确；全球化的意图是经济上的，无法实现政治全球化，故C项错误；全球化主要是经济方面的，“经济全球化”省略为“全球化”，没有彰显全球化的经济意义，故D项错误。

关注微信公众号“教辅资料站”获取更多学习资料

第二部分　阶段检测

单元质量检测卷(一)

1. 选B　根据题干中“官方颁布的月令体著作……表明动植物的生长情况，然后要求人们按照时令合理安排采集渔猎活动和农业生产”，可知先秦政府重视农业发展，故选B项；题干只是提及月令知识的规范，未提及自然科学的长足进步，排除A项；争霸战争出现在春秋时期，题干未涉及，排除C项；耕作技术取得重大突破是在春秋战国时期，题干未涉及，排除D项。
2. 选C　从材料中“个体性质”“自垦田”，可知以家庭为单位的小农经济发展，故选C项；材料仅涉及“自垦田”有所发展，不能得出井田制已完全瓦解的结论，排除A项；材料提及牛耕的推广，但无法体现牛耕“已经普遍使用”，排除B项；材料仅有农业个体一种经营形式，不能体现个体生产成为主体，排除D项。
3. 选C　由图片信息可知，铁犁牛耕的耕作方式是精耕细作传统农业的体现，故选C项；人地矛盾出现在明清时期，排除A项；田庄采用集体耕作的方式，排除B项；明清时期出现的资本主义萌芽具有雇佣关系，排除D项。
4. 选D　作者通过各种途径搜集生产的技术经验，强调经验的重要性，排除A项；材料体现贾思勰对农业的重视，排除B项；材料未涉及农书与农业的关系，排除C项。故D项正确。
5. 选A　材料说明南方人口密度有所增长，这有利于提供劳动力从而促进南方社会经济的发展，故选A项；南宋时期，经济重心已经南移，排除B项；表格并没有提及土地兼并和集中的问题，排除C项；人口的增加有利于农业经济的发展，排除D项。
6. 选D　由题干材料可知，桑、麻、棉是必须种植的，明朝政府的这一规定强化了男耕女织的自然经济，明初实行这一政策主要是为了发展农业生产，故D项正确。
7. 选A　从“种植面积迅速扩大，逐步成为主导性的农作物品种”，可知增加了粮食收入，可以养活更多人口，故选A项；“16世纪中叶”是明代中后期，排除B项；“玉米、番薯、马铃薯”是农作物，不属于农业技术层面，排除C项；“16世纪中叶开始”，随着西方殖民者的东来，统治政策逐渐走向封闭，不再开放，排除D项。
8. 选A　根据材料“郑之刀，宋之斤，鲁之削，吴(越)之剑”可知，手工业地域特色明显，故选A项；材料未涉及不同地区经济发展水平比较，排除B项；材料未涉及手工业经营方式，排除C项；材料未涉及不同地区经济竞争，排除D项。
9. 选B　材料“此境人皆以种蓝、染绀(织物染料作物)为业”说明汉代民间纺织业有一定规模，故选B项；中国古代农业以粮食种植为主，这一地区手工业发展，不种植粮食，不能说农业地位下降，排除A项；“发达”说法不准确，可以说商品经济有一定程度的发展，排除C项；“开始”说法错误，由一个材料不能得出D项的结论，排除D项。
10. 选C　由材料“家家纺织，赖此营生”可知，桑蚕业和棉纺织业成为当地农民重要生活来源，故选C项；明清时期，江南地区的粮食作物生产有一定的发展，排除A项；由材料“家家纺织”可知，这是小农经济下的家庭手工业形态，不是专业的手工工场，排除B项；材料中只提到了“家家纺织”，没有涉及分工是否明确，排除D项。
11. 选B　材料不能体现矿冶业对经济发展带来的影响，故A项错误；材料“明万历年间”“矿头并无地产，完全靠经营矿冶”“矿夫则多为‘处州流民，少不下百，多则至千’”说明雇佣关系已经产生，故B项正确；材料不能反映资本主义萌芽发展的速度，故C项错误；材料不存在官营与私营手工业的关系问题，故D项错误。
12. 选B　西周时期由“质人”管理市场，并有制发买卖的契券，这便有利于规范商业行为，故选B项；契约精神是指商品交易中自然达成的契约精神，这与材料无关，排除A项；重农抑商政策是从战国时期开始推行的，排除C项；材料未体现货币作为商品交易的媒介，排除D项。
13. 选D　材料仅体现范蠡认为商品滞留与囤积的主张，未体现国家对食物的监察，排除A项；食物作为一项商品也属于交易范畴，B项不符合史实，排除B项；材料未体现用法律规范市场秩序，排除C项；材料“容易腐败变质的食用货物不要滞留，更不要囤积待贵”说明范蠡主张商品不要滞留与囤积，说明商品贸易应该注重时效性，故选D项。
14. 选C　据材料“汉朝招募了大批商人到西域各国经商”，可知有利于西域经济的繁荣，据材料“置西域都护府管辖西域，扼制匈奴的侵扰”，可知有利于维持西域秩序，故选C项；西汉政府设置西域都护府的主要目的是加强对西域的控制并非攫取经济利益，排除A项；“汉朝招募了大批商人到西域各国经商”有利于商业发展，不是抑商政策，排除B项；据材料“置西域都护府管辖西域”，可知没有将西域纳入郡国体制，排除D项。
15. 选A　根据材料“商业信用大发展，领域遍及消费、流通以及生产”可知，宋代商业信用发展，这客观上有利于商品经济发展，商品流通的速度加快，故选A项，排除B项；根据材料“商业信用大发展，领域遍及消费、流通以及生产”可知，宋代商业信用发展，货币的作用提高，排除C项；根据材料“充当信用中介物的‘交引’‘券’‘契约文书’大量涌现”可知，货币中介多样化，排除D项。
16. 选D　宋朝城市人口比例最高，人口向城市集聚是商品经济发展的结果，也会推动农产品商品化，故选D项；材料仅体现宋朝城市人口比例最高，但城市人口比例高不会直接导致城市生活环境的恶化，排除A项；材料仅体现宋朝城市人口比例最高，不能直接体现农村劳动力的缺乏，排除B项；材料仅体现宋朝城市人口比例最高，是商品经济发展的表现之一，宋朝坊市界限的打破是商品经济发展的另一表现，两者之间不构成因果关系，排除C项。
17. 选B　由材料“广告宣称‘将油漆试验，便见颜色与众不同’，并提醒消费者‘认门首红字高牌为记’”，可知通过广告语积极参与商业竞争，故选B项；材料强调广告业发展的本质而非繁荣发展的现象，排除A项；材料强调私营手工业的激烈竞争而非地位的改变，排除C项；资本主义萌芽出现于明中后期，排除D项。
18. 选C　不同市镇经济的特点各不相同，说明明朝的市镇经济有明显的区域化分工，故选C项；市镇经济的发展是建立在农业不断发展的基础上的，而且经济作物的不断增多也是农业发展的表现，排除A项；材料只展示了不同市镇经济的发展特色，而没有具体说明各地的生产方式如何，排除B项；棉纺织业的发展只是众多市镇的一个特色，材料没有比较丝织业和棉纺织业的比例，所以不能得出以棉纺织业为主，排除D项。

关注微信公众号“教辅资料站”获取更多学习资料

19. 选A　题干“西周晚期的一些青铜器的铭文中出现土地交换和土地买卖的记录”，并结合所学知识，推知当时已出现土地私有化，故选A项；题干反映的是经济问题，不是政治问题，排除B项；题干未反映青铜铸造工艺的精美，排除C项；井田制是一种土地国有制，不允许土地买卖，排除D项。

20. 选B　题干未提及打击贵族势力的措施，如废除世卿世禄制、实行军功爵制等，故A项错误；“招揽三晋农民归附秦国耕种，免除他们三代的徭役，不服兵役；开垦山坡、洼湿之地，十年不收赋税”，是为了增强秦国实力，实现富国强兵，故B项正确；商鞅是法家思想家，反对儒家仁政思想，故C项错误；题干提及的是招揽三晋农民来耕地，非侵占三晋领土，故D项错误。

21. 选C　汉高祖所采取的抑商政策是为了“稳定统治秩序”，商人具有较大的流动性，在统治者看来会成为社会不稳定的因素，会威胁到封建专制统治，故选C项；重农抑商政策在此之前已经确立，A项错误；材料无从体现官商勾结现象，故B项错误；汉高祖建立汉朝后，奉行黄老之学，与民休息，D项错误。

22. 选A　材料表明重农抑商政策在重视农业发展的同时重官商，遏制农民经商，打击富商大贾，抑制中小商贩，这有利于官营工商业的发展，故选A项；材料反映重农抑商政策在社会经济方面的影响，与专制统治无关，排除B项；材料表明的是政府在经济领域采取的措施，未呈现社会经济发展状况，排除C项；材料仅表明政府重视农业，未反映农业经济的发展状况，排除D项。

23. 选D　材料反映的是唐代不允许民间随意宰杀马牛驴，主要原因是利用马牛驴辅助农业生产，体现了统治者对社会生产的重视，故选D项；材料反映的是对牲畜的管理，没有体现重视农业轻视商业，排除A项；材料体现的是政府对牲畜的管理，没有涉及地方事务管理严格，排除B项；材料涉及的是对民间宰杀牲畜的纠察，不能反映刑罚严苛且涉及领域广泛，排除C项。

24. 选C　海禁政策是严格限制民间的对外贸易，洪武年间，对海禁严厉申谕，说明洪武年间民间对外贸易依然持续，故选C项；海禁政策是严禁民间对外贸易，并没有排除官方贸易，排除A项；闭关锁国已经形成是在清朝，排除B项；君主专制不断加强符合史实，但不符合题意，排除D项。

25. 选D　海禁政策禁止民间出海及对外贸易，故选D项；海禁不是杜绝官方贸易，排除A项；不是禁止所有船只，官方除外，排除B项；朝贡贸易一直进行，排除C项。

26. **解析**：第(1)问，据材料一“我国古代是一个以农立国的社会，历代都把发展农业当作头等大事”，得出农业在国民经济中占主导地位，农业税是国家财政收入的重要来源；据材料一“使干旱的关中平原旱涝保收，为战国时期秦国的强盛和统一六国奠定了经济基础”“因为有了太湖湮港，太湖平原成为我国主要的粮食产区和蚕丝品生产地”并结合所学，得出中国水旱灾害频发，严重影响农业生产，水利灌溉是保证农业生产和提高农业产量的重要因素。第(2)问，第一小问，据材料一“始建于春秋时期”，得出起源较早，据材料二“自粗耕进于精耕”“小农制的长处，则在以人尽其劳，使地尽其力”，得出小农经营，精耕细作，结合所学，分析得出自给自足，铁犁牛耕；第二小问，据材料一“尤其是重视兴建水利工程”，得出大量水利工程的修建，据材料一“历代都把发展农业当作头等大事”，得出政府对农业的重视，据材料二“中国农夫的技能，在小农制中，总可算首屈一指了”并结合所学得出，生产工具和生产技术的不断改进和进步。

答案：(1)原因：农业在国民经济中占主导地位，农业税是国家财政收入的重要来源；中国水旱灾害频发，严重影响农业生产，水利灌溉是保证农业生产和提高农业产量的重要因素。

(2)特征：起源较早；小农经营；自给自足；铁犁牛耕；精耕细作。有利因素：生产工具和生产技术的不断改进和进步；大量水利工程的修建；政府对农业的重视。

27. **解析**：第(1)问，根据材料信息，从盐业发展时间、扬州优越的地理位置、商品经济的促进和政府政策的支持等角度分析，分别得出盐业历史悠久、水运交通发达、商品经济发展、政府重视等原因。第(2)问，依据材料二“兴建园林、会馆、书院、码头等，因而留下了丰富的文化遗产”“表现出强烈的社会责任感和救世济民的抱负”“他们敬重风雅、善交名儒硕士、吟诗作画的文化风尚”信息，可以得出内涵是丰富的文化遗产，强烈的社会责任感，救世济民的抱负，儒雅的文化风尚。第(3)问，迁移运用所学明清时期商业发展的影响，从积极和消极两个角度回答。

答案：(1)原因：盐业历史悠久、水运交通发达、商品经济发展、政府重视。

(2)积极内涵：丰富的文化遗产；强烈的社会责任感；救世济民的抱负；儒雅的文化风尚。

(3)积极影响：促进诚信经营，改善社会风尚；消极影响：固守传统观念，阻碍经济转型。

28. **解析**：第(1)问，依据材料一按照顺序归纳：粮食产量增长；经济作物大量种植；农产品商品化程度提高；家庭手工业日益市场化；手工业专业市镇大量兴起。第(2)问，第一小问国内因素，据材料二“部分开放海禁后，海外贸易蓬勃发展。中国精美的丝绸和瓷器”得出，明政府开放海禁，中国手工业品精美畅销。第二小问表现，从材料二中按照顺序归纳：白银成为主要货币；商人资本雄厚；长途贩运发展较快；商业资本转向生产领域。第(3)问，结合材料从政治、经济和文化三个方面进行归纳。

答案：(1)变化：粮食产量增长；经济作物大量种植；农产品商品化程度提高；家庭手工业日益市场化；手工业专业市镇大量兴起。

(2)国内因素：中国手工业品精美畅销；明政府开放海禁。表现：白银成为主要货币；商人资本雄厚；长途贩运发展较快；商业资本转向生产领域。

(3)说明：市民阶层崛起，阶级结构变动；资本主义萌芽产生；贱商观念开始改变。

单元质量检测卷(二)

1. 选D　《马可·波罗游记》对日本的描写虽然影响较大，但脱离现实，并不真实可信，排除A、B两项；《马可·波罗游记》对日本的描写不能说是毫无根据，就是有些夸大，对欧洲人到东方探险是有诱惑的，排除C项；欧洲人相信《马可·波罗游记》对日本的描写，他们渴望到东方寻求黄金，《马可·波罗游记》对日本的描写脱离现实，但影响较大，故选D项。

2. 选B　B项表述与题目中“世界许多地区的植物种子被带回欧洲，经培育改良成为欧洲人的食物原料，如玉米、土豆等。欧洲人也将欧洲的一些植物种子带到殖民地进行培育生产，最终成为殖民地人民的重要食材”相符，故选B项；A项表述不符合事实，排除A项；题目中并未体现推动新旧大陆的发展问题，排除C项；“新旧大陆经济互补”表述不准确，排除D项。

关注微信公众号“教辅资料站”获取更多学习资料

3. 选C　材料“总数不多，是样品”表明达·伽马航行到印度是为了追求丰厚的商业利润，故选C项；“加强经济文化交流”，属于客观效果，不是主观动机，排除A项；达·伽马到达印度，占领印度市场，最终目的还是获得商业利润，排除B项；殖民的目的不是控制当地的政治，排除D项。

4. 选B　迪亚士到达好望角，与材料中“新大陆”不符，故A项错误；哥伦布远航寻找印度，发现新大陆以为是印度，与材料中“将他遇到的原住民称为印度人(Indians)，他其实不知道自己发现了新大陆”相符，故B项正确；麦哲伦船队完成环球航行，故C项错误；达·伽马真正到达印度，与材料中“新大陆”不符，故D项错误。

5. 选D　迪亚士到达好望角，故A项错误；发现美洲的是哥伦布，故B项错误；直达印度的是达·伽马，故C项错误；从材料“费尔南多·麦哲伦死于此地”并结合所学知识可知，1519～1521年麦哲伦船队环球航行，故D项正确。

6. 选A　殖民扩张是世界各民族历史逐渐融合的主要途径，故A项正确；B、C、D三项不是主要途径，均排除。

7. 选A　抓住题干中文字“1500～1557年英国物价指数变化”和图示可知，英国物价不断攀升，并结合新航路开辟后，黄金白银大量涌入欧洲，使得物价上涨，故选A项；商业革命是指新航路开辟后商路和商业贸易中心由意大利转移到大西洋沿岸等，排除B项；工业革命发生于18世纪60年代到1840年前后，排除C项；交通革命会使得成本下降从而降低物价，排除D项。

8. 选D　“海上马车夫”“日不落帝国”分别指的是荷兰和英国，故D项正确。

9. 选D　A、B、C三项在材料中未涉及，均排除；材料中“通过向全社会融资的方式，成功地将社会分散的财富变成远航的资本”“世界上第一个股票交易所”表明商业模式发生变化，故D项正确。

10. 选B　英荷战争的导火线是1651年英国颁布《航海条例》，故A项错误；由题干中“在政府授权下，英国……每年的掳获平均可达20万英镑”，可知这些财富是重要的资本原始积累，故B项正确；促成欧洲商贸中心转移的是新航路的开辟，故C项错误；题干未提及英国社会矛盾的缓和，故D项错误。

11. 选B　英西战争发生于1588年，原因是英国经常截击西班牙从美洲运送金银的船只，故A项错误；题干提及的是英国通过的《航海条例》，遭到荷兰的强烈反对，双方爆发战争，故B项正确；17世纪下半叶，英、法之间在北美和印度的矛盾渐趋尖锐，英国发动对法国的战争，故C项错误；材料与葡萄牙无关，故D项错误。

12. 选D　纽约名称的变化反映了英国取代荷兰，确立了世界商业和殖民霸权，体现出工业资本的强大，故A项错误；资本输出的兴起开始于第二次工业革命后，不符合时间限制，故B项错误；两国在当时都确立了资本主义制度，故C项错误；纽约名称的变化反映了英国取代荷兰，反映出殖民霸权的角逐，故D项正确。

13. 选A　“茶叶已经在英国各饭店和咖啡店等公共场所大量销售”，而茶叶主要来自东方，可见世界市场得到开拓，故A项正确；“并已成为国家税收的对象”不能体现“主要”，故B项错误；“饮茶之风逐渐遍及英国”不能体现茶叶贸易中心在英国，故C项错误；“17世纪中叶”工业革命尚未发生，故D项错误。

14. 选A　随着新航路的开辟，欧洲殖民者抢占殖民地，大量印第安人由于被屠杀、奴役或染上殖民者带来的疾病而死去，从而造成拉丁美洲人口锐减，故A项正确；奴隶贸易的盛行是殖民者为了弥补美洲劳动力不足而贩卖非洲黑人形成的，故B项错误；第二次工业革命开始于19世纪中后期，故C项错误；工业革命开始于18世纪60年代，故D项错误。

15. 选A　由题干中“在1760年到1800年之间，生活彻底地改变了……这个时代被疯狂地追求发明”，结合工业革命的知识，可知这应该是英国，故A项正确；法国此时未展开工业革命，故B项错误；德国和美国的工业革命均在19世纪初，故C、D两项错误。

16. 选B　材料“被称为第一个现代意义上的工厂”表明工厂制的正式诞生，故选B项；“动力革命”主要指代瓦特对蒸汽机的改良应用，排除A项；水力受自然条件局限，大多建立于河流旁边，不利于城市化的发展，排除C项；产业结构是指农业、工业和服务业在一国经济结构中所占的比重，排除D项。

17. 选A　时至18世纪中期，整个世界只有英国开始了工业革命，材料中英国这些技术防护措施很明显有利于防止先进技术和设备外流从而有益于其工业技术领先地位的保持，故选A项；这些措施阻碍了其他国家工业革命进程，而不是英国，排除B项；防止先进技术和设备外流并不能提高新技术开发的积极性，排除C项；这些措施本身只能对工业技术的迅速传播造成阻碍，排除D项。

18. 选C　由材料“1780～1851年英国从北美洲进口棉花数量呈逐年增长趋势”可知，工业革命的开展促使英国棉花需求量的扩大，故选C项；1783年英国承认美国独立，排除A项；工业革命完成于19世纪中后期，排除B项；世界市场形成于19世纪末20世纪初，排除D项。

19. 选A　18世纪60年代到19世纪中期英国进行工业革命，城市化得到发展，与材料中“1801～1851”相符，故选A项；第二次工业革命开始于19世纪晚期，与材料中“1851”不符，排除B项；这一时期英国城市化主要是受工业革命的影响，排除C项；“英国城市人口”是英国国内，未涉及世界市场，排除D项。

20. 选C　材料强调的是人们时间观念的增强而非交通业的发展，故A项错误；材料强调的是人们的休闲时间而非财富收入增加，故B项错误；由材料可知，工厂制度使人们的时间观念增强，故C项正确；材料强调的是英国人的休闲时间而非生活方式，故D项错误。

21. 选D　题干表明工业革命使人们对贫困者的日渐冷漠，缺乏人文关怀，故选D项；题干中的措施不一定使生产合理化，排除A项；题干中的措施使得社会贫富差距拉大，但这不是题干的主旨，排除B项；该措施不是社会观念的进步，而是社会观念的倒退，排除C项。

22. 选B　材料图片描绘了放大的水滴中存在很多生物，结合“对大量机器进入人们生活的反思”，可知是技术进步带来生态的破坏，故选B项；材料表明的是威廉·希斯的看法不是社会共识，排除A项；材料是威廉·希斯的看法不是大众，排除C项；材料水滴中的大量生物表明是生态破坏而不是贫富分化，排除D项。

23. 选D　法拉第的电磁感应理论是电力广泛应用的理论基础，故选D项；新通讯手段的发明与无线电技术有关，排除A项；新交通工具的创制与内燃机有关，排除B项；化学工业的建立与电磁感应理论无关，排除C项。

24. 选B　征服黑夜，即电灯的发明，故选B项；火车的发明，体现的是蒸汽动力革命、交通革命，排除A项；电报发明解决的是信息的远距离快速传输问题，排除C项；电脑的发明与应用普及，是信息时代的象征，排除D项。

25. 选B　随着世界贸易的增长，铁路线长度增长，世界船舶总吨位增长，世界各地区间联系加强，故选B项；材料强调的是世界经济的发展状况，没有涉及具体的国家，排除A项；世界各地获得同等发展机会过于绝对，排除C项；1870～1913年间是第二次工业革命期间，蒸汽机是第一次工业革命的发明，排除D项。

关注微信公众号“教辅资料站”获取更多学习资料

26. **解析**：第(1)问，第一小问，根据材料“丝绸之路在商朝就已存在”“迫于匈奴的军事压力”“汉武帝认为自己是天下共主、最高统治者”并结合所学知识进行概括；第二小问，主要考查丝绸之路的影响，考生从政治、经济和文化等角度切入即可。第(2)问，第一小问，根据材料和所学知识，从时代背景、交往的途径、方式、内容、结果等方面入手；第二小问，设问强调“世界意义”，可从全球文明的交流、经济的发展等方面阐述。

答案：(1)特点：出现时间早；逐渐形成；时间跨度大；带有政治、军事目的。影响：扩大了西汉在西域的政治影响；增加了政府财政收入；推动了西汉时期中外经济贸易的发展；增进了中外文化的交流与民族融合等。

(2)不同：新航路的开辟是欧洲商品经济大发展、商业危机等因素推动的结果，丝绸之路的形成则受政治因素影响较大；新航路通过海路连通全球，而丝绸之路则海陆兼有，但局限于欧亚非三大洲；新航路开辟的过程充斥着血腥和暴力，如掠夺各地的金银、劳动力、廉价原料等，而丝绸之路则呈现出和平友好往来的特点；新航路开辟促进了西欧资本的原始积累，但给亚非拉人民带来了灾难和贫穷，而丝绸之路使交往双方受益。世界意义：新航路开辟打破了世界各文明相对隔绝的状态，使世界成为一个整体，世界市场开始逐步形成。

27. **解析**：第(1)问，第一小问，根据“英国的棉纺织品……成为英国社会非常喜欢的东西”“完全崭新的工业，既没有毛纺织工业的特权，也没有其重重束缚”“阿克莱特请求国会”等信息及所学知识归纳作答；第二小问可列举飞梭、手摇纺纱机等发明。第(2)问，根据材料“商品、对商品贸易的需求、商品贸易的渠道与途径、商品贸易的规则”等并结合所学知识概括即可。

答案：(1)主要原因：需求的推动；属于新兴工业，束缚少，接受新技术快；利润高；政府的政策支持；发明家的技术革新。成果：飞梭；手摇纺纱机。

(2)表现：工业革命给世界市场提供了更加丰富的商品；各行业间和各国间生产的互补性扩大了对商品贸易的需求；交通运输业的革命为商品贸易提供了便利的运输条件；资本主义殖民体系形成，亚非拉国家成为欧美列强的殖民地和半殖民地，开拓了商品贸易的渠道；国际经济交流基本准则的确立，完善了商品贸易的规则。

28. **解析**：第(1)问，第一小问，结合材料一中“他们的工作有其自身的尊严和回报”“瓦特和博尔顿的大型发动机工厂”等可以得出追求人的地位平等，重视技术创新；第二小问，结合第一次工业革命的意义(生产力、生产组织、城市化、自由主义、世界市场等角度)来回答。第(2)问，结合第二次工业革命的内容及其对世界市场的影响来回答。第(3)问，结合材料信息和前面几个小问的答案来回答即可。

答案：(1)追求：追求人的地位平等；重视技术创新。

说明：生产力发生了革命性的变化，把人类社会推进到“蒸汽时代”；生产组织形式发生了革命性变化，工厂制确立；城市化和工业资本主义经济的发展成为时代潮流；资本主义国家的经济政策发生革命性变化，自由主义成为主要的经济政策；资本主义国家对外侵略扩张的主要目的发生革命性变化，商品输出成为其对外扩张的主要目的；世界市场进一步拓展，世界各地的联系进一步加强。

(2)原因：第二次工业革命促进了新动力和新能源(或电力、石油)的使用，提高了劳动生产率，新兴产业兴起；第二次工业革命对交通和通讯技术的革新，促进资本和人员在全球的流动，密切了世界各地的联系。

(3)作用：不断改变着人们的价值观，提升人们的精神追求；为世界各地联系的加强提供了技术支撑，促进了世界市场的形成。

单元质量检测卷(三)

1. 选B　通过题干中所述现象“商人们在上海买到生丝的同时即在伦敦市场将其出售”，可知这种交易方式主要得益于近代科技的发展与进步，如轮船等，故选B项；中国生丝质量的提高不是主要原因，排除A项；中国民族资本主义初步发展是在19世纪末期，排除C项；在19世纪70年代，中国仍然是自给自足的自然经济占据主导地位，排除D项。

2. 选A　由图表信息可知，内地和沿海地区洋布价格差价很小，说明此时中国内地对外来商品所收内地税较低，有利于洋布与土布在价格上的竞争，这便利了洋布抢占内地市场份额，故选A项；此时中国近代民族工业刚刚兴起，排除B项；中国关税主权在1842年的《南京条约》签订后已经遭到破坏，排除C项；材料反映的内容是内地和沿海地区洋布价格差价，没有展示中国与外国的经济联系，排除D项。

3. 选A　依据材料可知，郭嵩焘认为应该打破官府在矿业开采上的垄断，允许民众办理，这在客观上有利于民族工业的发展，故A项正确；矿业由官办还是商办与是否健康发展没有必然关系，排除B项；材料体现的是郭嵩焘的认识，并未体现政府的态度，排除C项；洋务运动的核心思想是中体西用，学习西方近代科技，发展民族工业并未突破这一思想，排除D项。

4. 选C　据材料“普遍实行雇佣劳动”“加班作业，亦加给工资”可知，1865年后的洋务企业经营具有资本主义因素，故选C项；材料只涉及给工人工资，并未涉及保障工人的权益，排除A项；材料虽然说明了实行雇佣劳动，按照技术高低定工资，这并不能说明已经脱离了落后因素的影响，排除B项；材料没有涉及是否主动引进西方先进技术，排除D项。

5. 选D　根据材料“1873年首航日本神户、长崎，开创了中国商轮驶入国际航线的历史”可知，它标志着中国近代航运业诞生，故选D项；鸦片战争后自然经济开始解体，与材料所述时间不符，排除A项；据材料“‘伊敦号’是轮船招商局初创时从英国购置”可知，当时中国没有造船工业，排除B项；轮船招商局是洋务运动时期的民用工业，属于经济近代化，排除C项。

6. 选A　由材料“专为美国商人经营的船坞加工、打制船坞零件”可知，建厂之初仍属于传统手工业，故选A项；19世纪六七十年代列强对华经济侵略的主要方式是商品输出，排除B项；实业救国思潮是19世纪末出现的，排除C项；清政府放宽对民间设厂的限制是在甲午战后，排除D项。

7. 选D　据材料“珠江三角洲一带机器缫丝业起步于十九世纪七十年代……继之而起者，多至百数十家”可知，新式企业起到引领作用，故选D项；广州在清朝闭关政策实行时期就是对外贸易窗口，排除A项；外国资本输入的刺激是间接作用，排除B项；清政府鼓励民间设厂是甲午中日战争以后，排除C项。

8. 选C　洋务运动失败的标志是1895年甲午中日战争的失败，与题目中的时间不相符，故A项错误；材料并未涉及政府，故B项错误；根据材料“粤人十之八九”“两江闽浙，十之二三”“河洛之北，万不得一”可知，近代工业的发展不平衡，故C项正确；材料并未涉及列强的干涉，故D项错误。

9. 选B　甲午战后清政府为了扩大税源，放宽了民间设厂的限制，其政策带有被迫性，故A项错误；甲午战后，民族危机深重，实业的目的是“救国”，故B项正确；积极投身实业、身为状元的张謇毅然冲破传统观念，可知当时国人价值观念仍保守，故C项错误；实业救国的背景是甲午战后中国民族危机不断加深，自然经济的逐步解体只是其中一个原因，故D项错误。

关注微信公众号“教辅资料站”获取更多学习资料

10. 选 B　江南制造总局属于洋务企业，故 A 项错误；根据材料“汉阳铁厂和大冶铁矿合并……生产有很大起色”“江南制造总局扫除官场习气，注重质量，制造的轮船被誉为长江各轮之冠”可知，洋务企业通过变革，都重新焕发出了生机，故 B 项正确；材料反映的是洋务企业，故 C、D 两项错误。

11. 选 C　甲午战后，为支付战争赔款和改善财政状况，清政府放宽了民间设厂的限制，设立商部，奖励工商业的发展，这说明清政府为民族工业的发展提供有利条件，故选 C 项；材料的主旨是清政府采取一系列发展经济的措施，没有放弃“重农抑商”的政策，排除 A 项；材料没有看出民族工业获得进一步发展，排除 B 项；民族资本主义是获得初步发展而不是制约，排除 D 项。

12. 选 C　根据材料信息，可以看出大生纱厂发行股票，有官方给予张謇官股，有张謇自己招集商股，这反映了社会资金的资本化，故选 C 项；大生纱厂是民族企业，结合材料可以看出大生纱厂是官方支持的民族企业，而不是限制民间办厂，排除 A 项；从材料看出大生纱厂有“官股”“商股”，排除 B 项；“一战”期间，欧洲列强暂时放松对华经济侵略，时间不符，排除 D 项。

13. 选 B　近代中国茶叶所占世界茶叶市场比重减少，主要原因是中国被卷入资本主义世界市场，华茶出口遭遇印度等地茶叶竞争，故选 B 项，排除 A 项；1929 年到 1933 年爆发世界性经济危机，与材料所述时间不符，排除 C 项；列强对中国的商品输出主要是工业品，与茶叶这种原料无关，排除 D 项。

14. 选 B　洋务运动的诱导应为 19 世纪 60～70 年代，故 A 项错误；甲午战后，清政府放宽设厂限制，民族工业得到了初步发展，故 B 项正确；辛亥革命应为 1912 年后，故 C 项错误；D 项是一战期间，故 D 项错误。

15. 选 D　在清末新政中，清政府颁布了一系列工商业规章和奖励实业办法，这些章程和做法，都有利于民族工商业的发展，故选 D 项；在 20 世纪初期，资产阶级革命没有处于高涨时期，排除 A 项；清末新政的主导者是清政府，不是资产阶级，排除 B 项；列强暂时放松对中国经济的侵略是在一战期间，与示意图的时间不符，排除 C 项。

16. 选 B　根据材料信息“发展实业”“简化民间企业的注册手续”“对新办企业实行保息政策”等可知，这些举措有利于推动民族资本主义的发展，顺应了中国经济的近代化潮流，故选 B 项；实业救国思想在 19 世纪末期已经产生，A 项错误；民族工业的初步发展是在 19 世纪末，C 项错误；抵制列强经济侵略的是民族资本主义的发展，而非北洋政府的这些举措，D 项错误。

17. 选 C　南洋兄弟烟草公司开始选派留学生出国留学，其要求与希望“心系祖国，中西兼顾，新旧知识交融，以期成为完全之才；学习余暇，调查国外商业发展，随时报告，使我国商业有长足进步”反映出当时民族企业已意识到实业人才的重要性，故选 C 项；我国著名的民族企业——南洋兄弟烟草公司开始选派留学生出国留学，说明实业救国已成为资产阶级的共识，排除 A 项；我国教育的近代化始于洋务运动，排除 B 项；材料“我国著名的民族企业——南洋兄弟烟草公司开始选派留学生出国留学”反映了企业热衷于培养实业人才，排除 D 项。

18. 选 C　由材料“对需要限制进口的货物提高关税，以保护本国工业和抑制消费，对某些工业原料降低税率并废除过境税、常关税”可知，这些措施有利于发展民族资本主义，促进国民经济的发展，故选 C 项；新中国成立后实现了关税主权的独立，排除 A 项；官僚资本的膨胀是在抗日战争时期，排除 B 项；材料强调国内市场而非中外贸易，排除 D 项。

19. 选 D　据材料“1928 年至 1937 年，是近代中国史上经济增长较快的时期之一”并结合所学可知，当时世界发生的经济危机对中国的影响是客观原因，故选 D 项；国家主义是强调国家的整体利益不是客观原因，排除 A 项；自由主义是政府不干预经济，国民党没有推行自由主义，排除 B 项；开展了国民经济建设运动有利于发展经济，但属于主观原因，排除 C 项。

20. 选 B　由示意图可知，民族资本比例位居第一位，应该是南京国民政府前期（1927～1936）政府实行“国民经济建设运动”，鼓励发展工农业、交通运输业，民族资本获得显著发展，故选 B 项；洋务运动时期还没有产生官僚资本，且占据首位的是外国资本，排除 A 项；全面抗战时期，官僚资本迅速膨胀，挤压民族资本，排除 C 项；解放战争时期，民族资本陷入绝境，排除 D 项。

21. 选 B　南京国民政府统治时期，实行国民经济建设运动，促进了工业发展，特别是重工业得到一定发展，为后来的抗日战争奠定了基础，故选 B 项；材料仅仅说明工业化得到一定发展，并不是实现了工业化，排除 A 项；这一时期官僚资本得到发展，排除 C 项；材料中仅仅是引进西方技术，促进本国工业发展，但是不可能抵制了西方列强的经济侵略，排除 D 项。

22. 选 A　专卖制度的发展，有利于官僚资本的膨胀，故 A 项正确；压制了民族资本是目的，但是不是主要目的，故 B 项错误；官僚资本的膨胀不利于振兴民族经济，故 C 项错误；在国统区，打击不了日本企业，故 D 项错误。

23. 选 C　1945 年 9 月，抗日战争已经胜利，故 A 项错误；材料中没有涉及民族工业，故 B 项错误；据材料“国民政府行政院通过决议，要求全部敌伪纺织厂由国营中国纺织建设公司经营”得出，官僚资本主义迅速膨胀，故 C 项正确；材料说的是官僚资本主义经营全部敌伪纺织厂，故 D 项错误。

24. 选 C　《中美友好通商航海条约》于 1946 年签订，故 A 项错误；《中美友好通商航海条约》签订，美国商品大量涌入中国，对中国民族工业造成很大冲击，故 B 项错误；1946 年全面内战爆发后，国民党为了在内战中取得美国更大的支持和援助，于同年 11 月签署该条约，故 C 项正确；《中美友好通商航海条约》与台湾问题无直接关联，故 D 项错误。

25. 选 D　1947 年解放军展开战略反攻，故 A 项错误；1945 年日本已经战败，无条件投降，故 B 项错误；1946 年，国共内战爆发，故 C 项错误；根据材料“1949 年 5 月……工业界危机严重，已临破产边缘……”可知，解放战争时期，民族工业发展的困局主要是由于国民政府发动内战、官僚资本挤压和亲美政策等政治腐败导致，故 D 项正确。

26. **解析**：第（1）问，根据材料一“在我国先秦时期两部著作……都不同程度地提到了煤炭”，得出历史悠久；根据材料一“彼时在战争中，可以利用煤炭燃烧时产生的浓烟，以烟幕制胜”，得出主要用于战争；根据材料一“《山海经》……把煤炭称为‘石涅’，这个名字与煤的特征较为接近。此书明确指出煤炭赋存地赋存方位以及与某些植被的关系”，得出掌握了初步的煤炭地质知识；根据材料一“在矿业管理上……说明已有专门的管理人员”，得出有专门的矿业管理人员；根据材料二“ 中国古代的煤炭技术曾长期领先于世界”，得出长期领先于世界；根据材料二“以手工操作为主要特征的中国古代煤炭技术”，得出以手工操作为主。第（2）问，第一小问不同，根据材料二“为了满足近代工业用煤的需要”，得出满足近代工业需要；根据材料二“洋务派于 19 世纪 70 年代开始引进西方的采煤技术”，得出采用西方采煤技术；根据材料二“兴办新式煤矿”，得出实行近代工厂制；根据材料二“使用机器的煤矿”，得出使用机器生产。第二小问因素，根据材料并结合所学，从政治、经济、思想文化观念等方面作答。

关注微信公众号“教辅资料站”获取更多学习资料

答案:(1)特点:历史悠久;主要用于军事;掌握了初步的煤炭地质知识;以手工操作为主;有专门的矿业管理人员;长期领先世界。

(2)不同:使用机器生产代替手工生产;采用近代工厂制;引用西方采煤技术;主要满足工业的需求。因素:西方列强的侵略;经济实力的落后;技术人员的缺乏;管理体制的落后;崇本抑末政策的影响。

27. **解析**:第(1)问,第一小问结合材料"草市……成为新的固定的贸易场所""宋代政府也同样承认这一事实,而不加以任何的干预""由于近郊草市的发展而成为重要的商业都市""因是江防重地"等信息进行概括;第二小问从宋代城市布局、城市化进程、商业发展及政府财政等角度进行分析。第(2)问,第一小问紧扣材料二中的"容易获得外国的资助,外国人及其企业……主要分布在这些港口和租借地""越来越多的条约口岸成为中国金融、工业和人口集中之地"等信息进行概括;第二小问从宋代和近代中国城市经济发展的地理条件、政府的政策等方面分析作答,言之成理即可。

答案:(1)原因:草市的迅速崛起;沿江沿海等优越的地理位置;宋代商业环境相对宽松。影响:市镇经济繁荣,有利于城市布局的调整;增加了宋代政府的财政收入;加速了城市化进程和城乡之间的经济交流。

(2)特点:沿海地区和条约口岸的城市发展相对较快;城市发展的西化色彩日渐浓厚。评述:宋代和近代中国城市大多建立在交通要道、战略要地或沿海、沿江地区,这说明优越的地理条件对城市发展的重要影响;政府的商业政策直接影响城市化进程;宋代以后南方城市发展速度相对较快。

28. **解析**:第(1)问,从材料一的表格和材料二的数据,得出国营资本膨胀,民营资本萎缩。第(2)问,据材料三"战后美国商品大量倾销中国,民营企业无法与其竞争……内战爆发后,国民政府加紧了对中共解放区的经济封锁,实行严格的禁运政策,限制物资出境,在销售市场日益萎缩的情况下,几乎所有民营企业的发展和生存都遇到了极大的困难……由于物价暴涨,一般资本家卖出成品后所得现金往往买不回相应数量的原材料",得出美国商品的倾销,国民政府的禁运与封锁,内战的破坏,恶性通货膨胀,加上政府的苛捐杂税等。第(3)问,据材料和所学知识,得出两者的关系是相互的,国民政府的反动统治导致了民营经济的发展困难,民营经济的发展困难加剧了国民政府的统治危机。

答案:(1)现象:战后国营资本(国家资本)膨胀扩充;而民营资本(民间资本)却日益萎缩。(或国营资本在国民经济中的比重不断增长;民营资本在国民经济中的比重不断下降。)

(2)原因:国家(国营)资本的膨胀与垄断;美国商品的倾销;国民政府的禁运与封锁;恶性通货膨胀的影响;内战的破坏;国民政府的苛捐杂税(或国民政府的反动统治);民营企业自身局限。

(3)关系:国民政府的反动统治导致了民营经济的发展困难;民营经济的发展困难加剧了国民政府的统治危机。

单元质量检测卷(四)

1. 选A　据材料"上海曾依据米、面、油等货物价格实行工人报酬同步波动的'折实工资制度',类似的举措也用于银行的储蓄业务"可知,其旨在保障人民群众的利益,故选A项;材料强调的是政府对人民群众利益的保障,与囤积物资无关,排除B项;材料只是涉及工人工资和银行储蓄业务,不能说明确立起新型的经济体制,排除C项;材料所述"折实工资制度"及"类似的举措也用于银行的储蓄业务"并不能说明生产恢复到什么程度,排除D项。

2. 选B　这些工业基本上都集中在东北地区,而且当时的钢铁产量获得巨大发展,结合当时国际国内环境特征可知,这是为了巩固国防需要而呈现出来的特点,故选B项;材料不能直接反映出苏联援助的特点,排除A项;"一五计划"在1953年才开始,排除C项;合理的工业布局是指我国中西部地区也新建了钢铁、煤炭、电力等工业设施,材料未涉及这方面,排除D项。

3. 选A　为发展工业尤其是重工业所需的高额资本投入严重不足的情况下,实行计划经济,是从实际出发的结果,有利于巩固国防,故选A项;农业生产服务于工业化,排除B项;国家优先发展重工业,虽造成农轻重比例失调,但却是实事求是的结果,是巩固国家政权的需要,材料没有强调国民经济比例失衡问题,排除C项;国家战略是根据国情制定的,材料强调国家战略的出台,而选项强调国家战略的影响,排除D项。

4. 选B　题干中提及"一五"计划建设的150个项目涵盖了重化轻工业等,可见"一五"计划奠定了工业化的初步基础,故选B项;推动了"一边倒"外交方针形成的是《共同纲领》和美苏冷战的形势,排除A项;C项中的"彻底改变"一词不妥,排除;"一五"计划是确立了社会主义的计划经济体系,目前我国的经济体系是社会主义市场经济体系,指向不明确,排除D项。

5. 选B　根据材料时间,可知是"一五"计划期间,材料中"重型机器厂""哈尔滨亚麻纺织厂"说明经济建设的进行,故选B项;"一五"期间优先发展重工业,不是轻重工业均衡发展,排除A项;材料中工厂主要集中于东北地区,材料并未涉及工业布局,排除C项;计划经济体制是1956年底初步确立,排除D项。

6. 选B　1956年,我国成功地完成了三大改造,公有制成为经济形态的唯一形式,不会出现招聘、招工等类似的语言,这属于生产关系领域的变革,故选B项;三大改造属于生产关系领域的变革,工业化属于生产力领域的变革,排除A项;城市化进程与题干无关,排除C项;在1956年,三大改造完成后,人民的生活水平有所提高,但与招工、招聘等词语消失无关,排除D项。

7. 选C　1956年中共八大在探索我国建设社会主义道路方面取得的重要成果是正确分析了我国国内主要矛盾,这是探索建设社会主义道路的良好开端,故C项正确;"一五"计划时期是指1953～1957年,故A项排除;B项是1953年过渡时期总路线制定的,排除;D项是1960年提出的,排除。

8. 选C　社会主义探索时期指的是1956～1966年,这一时期"走弯路"的突出表现是1958年的大跃进运动和人民公社化运动,故C项正确;三大改造的完成、中共八大的召开以及八字方针的提出都是正确的,不是弯路,故A、B、D三项错误。

9. 选B　材料"端碗举筷吃上席,公社食堂赛天宫"说明,当时存在"一大二公"的"左"倾错误,故选B项;社会主义改造时期,实行的是农业合作社,与"公社食堂赛天宫"不符,排除A项;材料"公社食堂赛天宫"是1958年开展的人民公社化运动,排除C项;家庭联产承包责任制,以家庭为单位进行生产,与"公社食堂赛天宫"不符,排除D项。

10. 选A　由材料可知,面对经济的严重困难,中共中央希望通过代用食品解决温饱问题,故选A项;十一届三中全会后国民生活才有所改善,排除B项;"大跃进"违背了经济发展客观规律,是导致国民经济困难的原因,排除C项;人民公社化运动超越了经济发展水平,是导致国民经济困难的原因,排除D项。

关注微信公众号"教辅资料站"获取更多学习资料

11. 选A　由材料信息“1963年”“收购牌价提高”“农村地区福利费”等可知，这与“八字”方针的贯彻落实有关，故A项正确；“八字”方针是对“左”倾错误的纠正，故B、C两项错误；D项不符合史实，排除。

12. 选B　在1957～1966年间，党领导全国人民探索社会主义建设道路。这期间既有“大跃进”和人民公社化运动这样的严重失误，但是，仍然取得了社会主义建设的重大成就，因此，这段时间中我们的社会主义建设是正确与错误、成就与挫折交织，故答案为B项。

13. 选D　天朝惊梦是指太平天国运动；自强梦碎是指洋务运动；专制梦醒是指辛亥革命；建国梦成是指新中国成立；富强梦启航是指改革开放，故D项正确。

14. 选A　图片是安徽小岗村农民按下“包产到户”契约的红手印，是我国农村改革的开端，此后农村普遍实行了家庭联产承包责任制，故选A项；材料反映的是农村生产关系的变革，与创建经济特区和城市经济体制改革无关，排除B、D两项；农业合作化是建国初期，我国农民通过各种互助合作的形式，把以生产资料私有制为基础的个体农业经济改造为以生产资料公有制为基础的农业合作经济的过程，排除C项。

15. 选C　由材料内容可知，1984年柳传志、张瑞敏、李经纬、王石等人开办了私人公司，这是因为1984年城市经济体制改革开始后，所有制结构发生变化，允许公有制为主体多种所有制并存，故选C项；材料中柳传志、张瑞敏、李经纬、王石等人创办的是私人公司，与国有企业改革无关，排除A项；材料中柳传志、张瑞敏、李经纬、王石等人创办私人公司属于国内经济结构的变化，与对外开放无关，排除B项；材料中柳传志、张瑞敏、李经纬、王石等人创办私人公司，是经济体制改革的表现，与计划经济的弊端无关，排除D项。

16. 选C　“文革”期间实行“左”倾指导的经济政策导致全国集市数量总体呈下降趋势，改革开放后随着政治、经济、思想、组织路线的拨乱反正，集市数量不断增多，故选C项；十一届三中全会召开标志着改革开放开始，20世纪80年代属于改革开放初期，城市经济体制改革刚刚起步，排除A项；该阶段中国仍旧实行高度集中的政治经济体制，但开始对农村和城市经济体制进行改革，排除B项；“文革”期间及两年徘徊期受到“左”倾错误的影响，十一届三中全会召开后实现思想路线的拨乱反正，排除D项。

17. 选D　据材料“公有制经济、私有经济、三资企业”，可知多种所有制经济并存，改革开放后实行公有制经济为主，多种所有制经济共同发展，故选D项；新民主主义革命时期，没收帝国主义企业，排除A项；过渡时期，没收外资企业，排除B项；“文革”时期已建立计划经济体制，实行全民公有制，排除C项。

18. 选D　邓小平在南方谈话中指出“社会主义要赢得与资本主义相比较的优势，就必须大胆吸收和借鉴人类社会创造的一切文明成果”，打破了对计划经济的崇拜，中共十四大明确提出建立社会主义市场经济体制，故选D项；进行农村经济体制改革是1978年十一届三中全会中提出的，排除A项；城市经济体制改革在1984年全面展开，排除B项；1992年南方谈话揭示了社会主义的本质，而非大力引进西方先进技术，排除C项。

19. 选B　社会主义市场经济体制与资本主义市场经济体制都主张企业参与市场竞争，发挥市场对经济的推动作用，故选B项；社会主义市场经济体制以公有制为主体，不同于资本主义市场经济体制，排除A项；社会主义市场经济体制是在改革开放政策的推动下逐渐形成的，不具有自发特点，排除C项；社会主义市场经济体制实行以按劳分配为主体、多种分配方式并存的分配制度，不同于资本主义市场经济体制，排除D项。

20. 选D　1978年以后农村开始实行生产责任制，故A项错误；城市扩大企业自主权是在1984年全面展开，故B项错误；对外开放正式确立的标志是1978年十一届三中全会的召开，故C项错误；1980年5月，经济特区建设启动，对外开放开始了第一阶段，故D项正确。

21. 选B　如果从地域的角度来看，两次开放均是从东南沿海至内地的过程，故选B项；“鸦片战争之后的开放”是被动融入世界的过程，排除A项；“鸦片战争之后的开放”使中国陷入了半殖民地半封建社会的深渊，排除C项；“1979年以后的开放”体现了中国主动适应世界的需求，排除D项。

22. 选D　据材料深圳有两辆彩车参加了游行，时间就是金钱，效率就是生命，可知经济特区具有实干的精神，故选D项；十一届三中全会的召开，拉开了经济体制改革的序幕，排除A项；材料强调的是经济特区的实干精神，而非市场经济制度改革，排除B项；经济特区主要是政策、管理方式特殊而非走资本主义道路，排除C项。

23. 选B　根据材料可知，国家在20世纪90年代出台国家重大战略，故选B项；我国的经济技术开放区早在20世纪80年代就已经出现，排除A项；对外开放格局初步形成于20世纪80年代初，排除C项；社会主义市场经济体系形成于20世纪末21世纪初，排除D项。

24. 选A　中国货物出口总额和进口总额在2002年后之所以大幅增长，是因为2001年中国加入了世贸组织，故A项正确；对外贸易规模的不断扩大是表现，不是原因，故B项错误；改革开放战略提出是在1978年十一届三中全会上，故C项错误；题干提及的21世纪中国进出口的大幅增加，D项属于材料中的特点而非原因，故排除。

25. 选D　材料中的中国工业制成品成为世界出口主要部分，源于中国改革开放的实施，改革开放加快中国的工业化进程，故选D项；材料没有涉及欧美发达国家制造业发展状况，排除A项；材料没有反映出中国轻重工业比例，无法推断工业产业结构，排除B项；材料没有反映出中国工业制造量在全球的比例，排除C项。

26. **解析**：第(1)问，第一小问，根据材料中反映的工业和农业总产值变化走向归纳工业和农业的发展趋势即可；第二小问，根据材料信息“1952年”“第一个五年计划”“苏联援助”等并结合所学知识，从这一时期中国的政治、经济建设等方面回答。第(2)问，第一小问，根据材料信息“国有企业……占了城市就业人口工业产值的70%”“由中央政府官员决定的”“浪费和效益低下”“遇到了阻力”等回答即可；第二小问，根据设问限定信息“20世纪90年代”并结合所学知识，从“南方谈话”推动改革深入发展、提出经济体制改革目标、要求建立现代企业制度等方面回答。

关注微信公众号“教辅资料站”获取更多学习资料

答案:(1)趋势:农业平稳发展中有所下降,工业发展较为迅速,尤其是1957年后发展迅猛。因素:社会主义改造及社会主义制度的基本确立;1958年开始的人民公社化运动和"大跃进"运动;苏联的援助;五年计划的执行。

(2)问题:国有企业比重过大;高度集中的经济体制存在弊端;改革阻力大。措施:邓小平"南方谈话"推动改革的深入发展;中共十四大提出经济体制改革的目标是建立社会主义市场经济体制;中共十四届三中全会提出建立现代企业制度;中共十五大就社会主义初级阶段的所有制结构和公有制实现形式问题做出改革。

27. **解析**:第(1)问,第一小问,根据"家庭联产承包责任制在中国农业改革过程中极其重要,从长远角度看,农民重新获得的经济自由对发展农村经济的意义要重大得多"并结合所学内容可知,使农民重获"经济自由"的措施指的是废除人民公社体制,实行家庭联产承包责任制;第二小问,可从提高农民生产积极性、解放农村生产力、改变农村社会面貌和推动经济体制改革等方面进行总结概括。第(2)问,根据"拥有相同的地理优势的城市并不止这四个,但它们对中国社会主义经济过于重要,试验中的任何闪失都有可能会对社会主义经济造成毁灭性的打击"可知,选择首批四个经济特区的原因是由于其经济地理优势和为了降低改革试验的风险。根据"经过30年的改革,中国的经济特区得到稳步成长,从中国经济的外围逐渐向核心渗透"可知,经济特区起到了推动对外开放、促进市场转型的作用。第(3)问,根据材料一、二的内容可知,我国的经济体制改革由农村的家庭联产承包责任制到城市的经济体制改革,由改革开放的试点城市到逐渐深入,体现出了从边缘到中心,自下而上,从外围向核心,农村推动城市,开放推动改革,先试点后推广等特点。

答案:(1)措施:废除人民公社旧体制;实行家庭联产承包责任制。含义:使农民获得了生产经营自主权。影响:解放和发展了农村的生产力,提高了农民的生产积极性,改变了农村的社会面貌。推动城市经济体制改革的开展。

(2)原因:经济地理优势、降低试验风险。作用:推动对外开放、促进市场转型。

(3)特点:从边缘到中心;自下而上;从外围向核心;农村推动城市;开放推动改革;先试点后推广。

28. **解析**:第(1)问,第一小问,根据材料中的"优越便利的地理位置""自汉以来,各国……朝贡的船只到了广州"等信息并结合所学知识提炼答案;第二小问,根据"就地贩卖""置办国需随汛回国""日益频繁的对外交往"等信息并结合"闭关锁国"政策加以说明。第(2)问,第一小问,根据"外贸古港""综合实力和开放的均衡性"等信息并结合所学知识予以分析;第二小问,根据材料并结合所学知识加以概括。

答案:(1)历史条件:优越的地理位置;"海上丝绸之路"的促进;日益频繁的朝贡贸易的推动。影响:促进对外贸易和中外文化交流,一定程度上冲击了"闭关锁国"政策。

(2)有利条件:古代和近代对外开放以及对外贸易的优越基础;有着综合实力和开放的均衡性;1984年,成为国家沿海开放城市。突出特点:部分开放城市国际竞争力不强;区域发展和对外开放水平不平衡。

单元质量检测卷(五)

1. 选C　材料"特出西洋名酒为饷"和"西洋玻璃杯、洋皂"说明物质生活受到西方的影响,故选C项;材料反映的是社会生活不是经济结构,排除A项;材料"王韬虽收入不多"不能说明百姓生活水平的提高,排除B项;材料"王韬虽收入不多,但也购买一些西洋玻璃杯、洋皂用来赠送亲朋好友"表明不是实用性消费观念盛行,排除D项。

2. 选B　A项"取代"表述过于绝对化,故A项错误;由材料图片可知既有花轿又有人力车,这说明新旧出行方式并存,故B项正确;材料反映的是抢亲的场景,不能体现普通民众服饰的变化,故C项错误;材料中并未涉及西方生活观念,故D项错误。

3. 选C　材料中市民的恐惧来源于新事物而非战争,故A项错误;仅以电灯和自来水等不能得出设施完善,故B项错误;电灯和自来水等是工业革命的产物,遭到了近代上海市民的疑惧,故C项正确;材料体现的是上海对西方文明的疑惧而非善于学习和接纳,故D项错误。

4. 选C　材料强调的是学习西方的体育内容,而非强调中国的传统体育,排除A项;材料主要讲述学校体育运动,而未涉及全民健身,排除B项;"码"是西方计量单位,"中西大学堂"体现了西学对中国的影响,故选C项;材料主要围绕体育运动展开,未涉及美德等方面,排除D项。

5. 选C　由材料"双方互相平等;夫死可嫁,亦可离婚"可知,传统的婚姻习俗受到民主思想的影响而追求平等,故选C项;报纸产生于19世纪中期,排除A项;"已经成为时代风尚"不符合1903年社会史实,排除B项;材料强调的是传统习俗的变化而非女性社会地位的改变,排除D项。

6. 选C　材料未突出政局更替,并且也未反映出习俗有明显的变化,故A项错误;根据"争奈人多足似弓"可知,废止缠足法令成效并不显著,故B项错误;根据"争奈人多足似弓""几时强迫变颓风"可知,废止缠足,革新传统陋习进程艰难,故C项正确;材料主要反映近代社会习俗的变迁艰难,未突出民族资本主义发展,故D项错误。

7. 选C　早在辛亥革命前的1911年,晚清政府就已颁布了允许臣民自由剪发的法令,故A项错误;仅仅根据社会对剪辫的态度不能推断是否民主共和观念深入人心,故B项错误;1912年随着民国政府成立和清政府的覆亡,社会习俗随之发生重大变化,故C项正确;仅仅剪辫陋习的基本割除,并不能推断所有的封建陋习都开始丧失了赖以生存的社会土壤,故D项错误。

8. 选D　材料体现民国社会习俗从国家层面逐步革新,故A项错误;服饰的西化和中西并存体现了社会风俗的近代化而非崇洋媚外,故B项错误;材料提及参议院的服饰的特征不代表整个社会普遍接受西式服饰,故C项错误;材料反映了近代服饰发生重大变化,故D项正确。

9. 选B　"完全"说法太绝对且与材料中订婚在农村盛行说法不符,故A项错误;材料"很多地方仍存在把订婚作为结婚的前置程序,在农村尤盛"说明当时婚姻等风俗习惯的改变仍然困难重重,故B项正确;材料中没有体现出婚姻仪式的变化,故C项错误;材料"1934年4月8日中央苏区颁行"只能表明中央苏区倡导婚姻自主,故D项错误。

10. 选C　抓住题干中的时间20世纪80年代和图片中男女交谊舞,并结合改革开放思想、衣着的开放,可知服饰受到欧美影响,故选C项;苏式服装受到中国人民欢迎是在建国初期中苏关系友好时期,排除A项;由材料看不出男女青年反对包办婚姻,排除B项;握手开始成为常见的社交礼节是在辛亥革命后,排除D项。

关注微信公众号"教辅资料站"获取更多学习资料

11. 选C　由材料“京城内外附近居民，咸思（乘火车）到津一阔眼界，其中以旗人妇女为最多”可知，近代交通工具的传入影响人们的出行观念，故选C项；科技进步加速社会阶层融合与分化，排除A项；由材料“华客即持照纷纷上车，并有妇女小孩”可知，近代交通工具的传入一定程度上影响女性地位提高，但不是根本原因，排除B项；材料未涉及淞沪京津地区与全国其他地区的比较，排除D项。

12. 选B　材料无法体现出清政府一直重视铁路修筑，故A项错误；根据图示“中国政府借款修筑占46%”“外国资本直接投资占31%”可知，1895年后十余年间，帝国主义列强争夺中国铁路建筑权益，中国铁路的修筑权大部分被列强占据，故B项正确；材料反映的是近代铁路投资构成示意图，无法从中得知其对经济发展的推动作用，故C项错误；材料反映的是1896～1911年中国铁路建设有了一定的发展，并没有涉及“严重制约”的因素，故D项错误。

13. 选D　封建迷信是社会进步的阻碍因素之一，但不是主要原因，故A项错误；官员的喜好对行业发展起到促进或延缓作用，但不是决定作用，故B项错误；材料只是反映了铁路的发展表现，不能代表中国交通近代化的整体趋势，故C项错误；材料说明，随着时代的变迁，交通的发展，人们的观念也随之变化，故D项正确。

14. 选D　中华人民共和国成立时没有出现高速列车和磁悬浮列车，故A项错误；社会主义改造的完成是生产关系的变革，不是生产力的进步，故B项错误；图三和图四是改革开放取得的重大成就，但不是根本原因，故C项错误；图三和图四出现的根本原因是生产力的进步，社会经济的发展，故D项正确。

15. 选D　近代以来，西学东渐，海关试办邮政既适应了社会生活变化的需要，又推动了中国近代社会经济的发展，故选D项；材料是海关试办邮政而不是关税，排除A项；“建立”的说法不对，可以说中国近代邮政由此发端，排除B项；材料是试办邮政而不是中国近代外交，排除C项。

16. 选B　由材料信息“官订暗码，个中托嘱最温存”可见与电报有关，故答案为B项。

17. 选D　有线电报与材料中“更于各马路间设立此器”不符，故A、B两项错误；材料中“更于各马路间设立此器”不等于电讯网络，故C项错误；材料中“皆有此器以通消息，更于各马路间设立此器”表明这一物品是电话，“以便通报火灾及报捕等要事”反映了电话可以传递信息，故D项正确。

18. 选D　材料是第二次工业革命以后，电话传入中国，反映了社会生活习俗的变迁，故选D项；材料中的画与诗反映的是新生事物电话进入人们的生活，与妇女的社会地位无关，排除A项；电话传入中国但并未普及，民众生活方式发生根本变化的说法错误，排除B项；材料没有反映传统伦理的变化，且近代中国传统伦理观念彻底颠覆的说法错误，排除C项。

19. 选A　根据材料中《昭文新报》刊登的内容，可知关注社会生活的许多方面，故A项正确；材料中并未说明其推动维新运动的目的且时间不符，故B项错误；材料中并未体现其价值和与其他报纸的比较，故C项错误；《昭文新报》创办于汉口，并未体现出殖民色彩，故D项错误。

20. 选D　《民报》主要宣传资产阶级用革命手段来推翻清政府的主张，不是宣扬艺术，故A项错误；《民报》是资产阶级同盟会的机关报，不属于娱乐性质，故B项错误；《民报》主要宣传资产阶级的革命理论，不属于通俗性质，故C项错误；《民报》是资产阶级革命派的机关报，主要宣传资产阶级的革命理论，属于政论性质的报刊，故D项正确。

21. 选B　漫画中体现压制舆论，但是体现不了是“革命”舆论，故A项错误；媒体被挡住，反映新闻媒体面临恶劣的环境，故B项正确；漫画不能体现“有效监督”，故C项错误；材料也体现不了是1909年“开始”，故D项错误。

22. 选A　根据材料可以看出，出版业要勇于担当时代使命，故选A项；材料没有体现要紧跟时代步伐，排除B项；材料体现不出当时的出版业是社会最重要的行业，排除C项；材料没有体现出版业要坚持行业自信，排除D项。

23. 选B　电影有利于摒弃落后观念符合史实，但不符合材料的主旨，故A项错误；据材料“并要求观影者不乱拍掌、入座脱帽、宁静少谈，不碍他人等事项”可以得出，电影有利于规范公共秩序，故B项正确；材料强调的是电影有利于规范公共秩序，而不是改变消费观念，故C项错误；电影有利于移风易俗，但不是主导移风易俗，故D项错误。

24. 选C　据材料抗战时期海外传播的中国抗战电影的片名《热血忠魂》《八百壮士》《精神总动员》可知，这是在向国际宣传中国人民的积极抗战，这有利于树立国民政府的正面形象，故选C项；抗战电影在海外的传播与反法西斯同盟的建立没有关系，排除A项；材料与国内军民的抗战意志没有关系，排除B项；国民政府的主要目的是希望以影视宣传来获得美苏对中国积极抗战的认可和支持，并非国民政府与美苏关系更为密切，排除D项。

25. 选B　根据材料中“丰富的知识和狭窄的思路”可知，网络对人们的影响是双向的，故B项符合题意。

26. **解析**：第(1)问，第一小问特点，根据材料一“讲求含蓄，注重伦理”得出，注重伦理；根据材料一“不强调服装与人体各部位保持一致，更不注重用服装表现人体的曲线”得出，追求自然舒适；根据材料一“从夏商时期开始……拉入了‘礼’制范畴……赵武灵王引进胡服……孝文帝……鲜卑拓跋族与旧有文化的纽带……大唐时代……自信地接纳四方远近外来服饰文化……满清统治者……维护满族服饰文化的独自系统性，并……改造汉服饰文化”得出，体现了地域间的不断融合、不断的发展变革、每个阶段的时代特色。第二小问原因，根据材料一“中国古代服饰讲求含蓄，注重伦理”得出，受到儒道思想的影响；根据材料一“赵武灵王引进胡服……孝文帝……割断鲜卑拓跋族与旧有文化的纽带”得出，民族间融合；根据材料一“大唐时代……接纳四方远近外来服饰文化”得出，受唐开放思想和对外交流的影响；根据材料一“满清统治者……竭力维护满族服饰文化的独自系统性，并……改造汉服饰文化”得出，受统治者政策推动。第(2)问，第一小问原因，根据材料二“要求废除满式的官服顶戴，以新礼服代替旧式官服”得出，政府政策的推动；根据材料二“不分级别高低，凡任职的官员，一概统一着装”得出，西方民主平等理念传入；根据材料二“上海作为中国首批对外开放的商埠，国际移民的大量涌入”得出，大量西方移民的到来；根据材料“有的则在中国传统的基础上引进西方样式并加以改进”得出，中西文化的交融。第二小问影响，根据材料二“要求废除满式的官服顶戴，以新礼服代替旧式官服”得出，推动政治变革，以及中国服饰和社会生活的近代化；根据材料二“从事西式服装制作的裁缝产生了”得出，促进服装制作业的专业化；根据材料二“不分级别高低，凡任职的官员，一概统一着装……近代上海的服饰文化呈现出了多元化现象”得出，解放了人们的思想，传播了民主平等理念。

关注微信公众号“教辅资料站”获取更多学习资料

答案：(1)特点：等级性(伦理性)；时代性；多元融合；多样性；追求自然舒适；不断变革。原因：民族融合；对外交流；政治统治的需要(政策推动)；儒道思想的影响；统一的多民族国家的巩固和发展。

(2)原因：西方民主平等思想的传入；政府推动变革；大量西方人的到来；资本主义经济的发展；一系列政治运动的推动；先进人士的倡导；对外交流密切。影响：推动审美观念的变化；促进思想解放(便于民主平等思想的传播)；推动政治变革；推动社会生活的近代化；促进服装制作业的专业化发展。

27. **解析**：第(1)问，根据材料“都使得汉代的人民得以免除固陋的地方之见，他们的见闻比较广阔，知识易于传达”得出，有助于开阔人民的视野，传播知识；根据材料“汉代的官吏士大夫阶级的人多半走过很多的地方，对于‘天下’知道得较清楚，对于统一的信念也较深”得出，对于官吏来说有利于增强统一观念；对于国家来说，重视对外交往，有利于经济文化交流。第(2)问，结合材料提供的时间阶段，从晚清时期、民国时期和新中国成立后说明，重点说明发展的原因、概况和影响。

答案：(1)影响：对于国家：有利于经济的发展和文化交流；对于人民：有助于开阔视野，普及知识；对于官吏：增强统一观念。

(2)发展历程：晚清时期，随着近代工业的发展，清政府主动发展铁路事业，官办铁路，借债筑路，中国出现了第一个铁路建设的高潮。清末新政时期，修路从完全官办到允许民办，吸收民间资本修路。中国当时处于半殖民地半封建社会，西方列强大肆掠夺中国的铁路利权，中国丧失部分路权。辛亥革命之后，在孙中山的倡导下，民间筑路热情高涨。北洋政府为了获取列强的支持，取缔民办铁路，借债筑路，导致铁路事业进入低潮。南京国民政府时期，开展国民经济建设运动，采取中外合资筑路政策，中国出现了第二个铁路建设高潮。1937年之后，由于战乱，铁路事业落入低谷。新中国成立后，中国实现了民族独立，收回铁路路权。经济上实行计划经济体制，国家大力开展铁路建设。总之，中国的铁路发展是在政府主导之下进行的，路权也经历了从受列强控制到完全独立自主的过程。

28. **解析**：第(1)问，第一小问，根据材料一“还出现了官方禁令下民间发行的‘小报’”得出，非法到合法；根据材料一“明清时期，政府允许民间自设报房，人员构成及运作方式与现代报社机构类似，刊发的内容需官方审核，真实性更高、更可靠”得出，技术、管理等更具专业化；内容更真实等。第二小问积极作用，根据材料一“一定程度上表达了民众的意见和需求，呈现出古代向近代过渡中的微弱新变”得出，反映民众诉求，推动民间报业市场化，促进商品经济发展，报业呈现出由传统向近代嬗进的趋势，根据所学得出，加快信息交流与传播，开阔国人视野等。第(2)问，根据材料二“19世纪末，国内出现第一次民间办报高潮”得出，内忧外患，维新变法，根据所学得出，民族工业发展，资产阶级力量壮大；根据材料二“不少兼载新闻评论和译文的时事性政治刊物”得出，西方民主思想传播等。第(3)问，根据材料三“与传统媒体相比，自媒体具有个体性、自由性、多元性、平等性、便捷性等特点”得出，推动传统媒体的不断变革，讯息来源和传播方式更加多元便捷，根据所学得出，为经济发展提供新的增长点，改变着人们的生活方式和价值观念。

答案：(1)变化：非法到合法；技术、管理等更具专业化；内容更真实。作用：反映民众诉求；推动民间报业市场化，促进商品经济发展；加快信息交流与传播，开阔国人视野；报业呈现出由传统向近代嬗进的趋势。

(2)历史背景：维新变法；内忧外患；民族工业发展，资产阶级力量壮大；西方民主思想传播。

(3)意义：推动传统媒体的不断变革；讯息来源和传播方式更加多元便捷；为经济发展提供新的增长点；改变着人们的生活方式和价值观念。

单元质量检测卷(六)

1. 选B　材料“123个工人家庭中60个都有汽车，而这60个家庭里面有26家住房相当简陋，其中21个家庭甚至连洗澡盆也没有”反映了美国的经济繁荣之下，暗藏隐忧，故选B项；通货膨胀的显著特点是物价飞涨，排除A项；美国是一战最大的受益国，排除C项；部分居民家庭消费，不能反映美国的工业结构状况，排除D项。

2. 选A　20世纪20年代由于美国政府采取自由放任经济政策，生产的盲目扩张与市场需求之间严重脱节，引发经济大危机，当时美国总统胡佛固守自由放任的经济政策，结果危机迟迟得不到化解，故选A项；经济危机造成大批的劳动力失业，排除B项；题干反映的问题与推行贸易保护主义无关，排除C项；题干没有体现国家对农产品结构的调整，排除D项。

3. 选B　1931年和1932年纽约记录和报道饿死人的现象并非出于天灾，而是因为经济危机，故A项错误；生产相对过剩引发了经济危机，经济危机期间失业人数激增，人民生活水平下降，出现了饿死人的现象，故B项正确；此时美国处于经济危机期间，并未进行产业结构调整，故C项错误；这一时期农产品生产过剩，粮食价格下跌，故D项错误。

4. 选A　“20世纪30年代，美国漫画界开始塑造强大、不可战胜的英雄形象”，这是由于经济危机导致艺术内容反映大众逃避现实的倾向，故选A项；美国推行霸权主义是在二战后，排除B项；20世纪30年代美国处在经济危机中，排除C项；英雄漫画反映人的心理需求，不是科技发展带来的，排除D项。

5. 选B　材料反映的是德意建立法西斯国家，英法美联合，可知经济危机导致民主程度不同的国家形成不同的集团，国际关系格局改变，故选B项；材料没有涉及国家干预经济的内容，排除A项；材料中德意形成法西斯集团，不能说明世界经济向制度化方向发展，排除C项；材料反映的是西方资本主义国家形成不同的经济团体，没有体现法西斯的侵略扩张引发二战，排除D项。

6. 选A　题中的技师认为接受救济“糟蹋我的自尊心”，说明以工代赈的必要性，故选A项；失业工人生活困难不得不选择接受救济不等于抵制政府干预，排除B项；材料体现失业工人对救济政策的态度不等于经济危机下民众的恐慌心态，排除C项；失业工人不得不接受救济说明一定程度上能够缓解其生活状况，排除D项。

7. 选B　由材料“政府在追加了约3亿美元的信贷资金”可知，政府对经济进行干预，故A项错误；由材料“以前没有一位总统认为这是政府的责任，因此我们必须开辟一条新的道路”可知，面对经济危机，胡佛开始寻求突破传统经济的新方法，故B项正确；C项表述不符合史实，故C项错误；材料强调的是美国政府应对危机的举措而非对经济危机的认识，故D项错误。

关注微信公众号“教辅资料站”获取更多学习资料

8. 选A　美国联邦政府对各州在公路修筑方面的年底补贴以及“胡佛水坝”的工程，属于社会救济和以工代赈，体现了政府对经济的干预，表明打破自由放任政策，排除B项，A项正确；经济危机发生的根源是资本主义社会基本矛盾，不能根除，排除C项；材料主旨为以工代赈，体现了政府对经济的干预，未涉及所有民众的态度，排除D项。

9. 选D　沙尘暴引发了经济危机不符合历史事实，排除A项；B项说法明显错误，排除；罗斯福成立民间资源保护队，通过开展植树造林的活动可以为失业人员提供工作，实质是以工代赈，解决经济危机，C项错误；材料表明环境问题严重，结合所学知识可知，当时面临经济危机，故D项正确。

10. 选C　在经济危机下总统的权力扩大，与材料相符，故选C项；罗斯福新政是资产阶级民主的新应用，并非专制，排除A项；材料“国会出台了一系列紧急立法”“联邦最高法院”表明仍然是三权分立，排除B项；“经济形势危急的情况”不等于经济崩溃，排除D项。

11. 选B　美国大萧条时期，工业生产陷入生产相对过剩和恶性竞争的现状，农业生产出现产量相对过剩和价格严重偏低的状况。金融企业的信用与保障严重破产，民生方面失业严重、基本的社会保障不到位，故选B项；农业并不存在秩序失衡问题，排除A项；民生领域并不存在着过剩问题，排除C项；民生问题同样不存在着信用问题，排除D项。

12. 选A　罗斯福就任美国总统后，首先应该结束混乱状态，稳定经济秩序，故选A项；结束混乱状态，稳定经济秩序后，罗斯福新政的一些措施开始调节劳资矛盾，稳定社会秩序，排除B项；强化制度建设，巩固改革成果是在新政取得一定成效时的任务，排除C项；整顿金融秩序，恢复银行信用是为了结束混乱状态，稳定经济秩序而采取的具体措施，排除D项。

13. 选C　在罗斯福金融改革中，废除金本位制度是一个最重要的内容，其目的在于通过刺激出口、提升经济竞争力来摆脱经济危机的影响，故选C项；美元霸权地位的确立是在布雷顿森林体系确立之后，与题干提及的时间不符，排除A项；废除金本位制度的目的在于缓解经济危机的影响，不是防止通货膨胀，排除B项；题干涉及的是罗斯福新政中“废除金本位制度”的内容，与劳资矛盾无关，排除D项。

14. 选A　社会救济与以工代赈可以救济失业人群和提供工作机会，有利于解决“有3 400万成年男女没有任何收入”的问题，故选A项；调整工业生产是恢复工业不是解决“失业人数”，排除B项；整顿财政金融体系是恢复金融系统不能解决失业，排除C项；减少农业产量是发展农业的措施，排除D项。

15. 选B　《紧急银行法》主要是有关金融方面的法律，排除A项；由材料信息可知，这部被废除的法律中有关于工人与资方谈判的内容，选项中的几部法律只有《全国工业复兴法》给工人有集体谈判的权利，故选B项；《社会保险法》是有关社会保障体系方面的法律，排除C项；《公平劳动标准法》虽然也有保护工人权利的规定，但是这部法律是在1938年颁布的，与题干时间不符，排除D项。

16. 选A　根据材料可知，罗斯福新政大大加强了联邦政府在国家运行中的地位和作用，即实现了政府对经济运行的大规模干预，故选A项；罗斯福新政并没有破坏美国的三权分立的体制，排除B项；材料称赞的是罗斯福总统对总统作用的应用而非新政本身的成功性，排除C项；材料中并没有对自由放任政策的相关提及，排除D项。

17. 选C　据材料“1932年，罗斯福竞选基金的25%来自银行家和经纪人的捐助，1936年……下降到4%”可知，资本家对罗斯福支持减少，说明新政一定程度上损害资本家的利益，故选C项；资本家支持率下降不是所有人的支持率，排除A项；罗斯福新政维护资产阶级的利益，排除B项；国家干预是国家对经济的干预，这在材料中没有体现，排除D项。

18. 选D　题干论述的是罗斯福新政的政策“是应急性的、试验性的”，没有论述其成功的“偶然性”，故A项错误；题干论述的是罗斯福新政措施“都不是事前计划好的”，说明其措施不具有系统性，故B项错误；题干论述的是罗斯福新政的政策“是应急性的、试验性的”，没有论述其政策具有“脱离理论的盲目性”，故C项错误；题干中罗斯福新政“都不是事前计划好的，都是应急性的、试验性的”，说明其取得成功是因为基于现实实际的灵活性，故D项正确。

19. 选D　美国本土远离二战主战场，且其在战争中大发战争财，因此国家投资比例小的原因在于其私人资本被冲击较小，D项正确；A项“重创”不符合史实；B项“制约”错误；C项不符合二战后国家资本主义的史实。

20. 选D　据材料“1983年3月，英国政府宣布把货币供应量的增长率从1980年的7%～11%，下降到1984年的4%～8%，并在四年内把政府的公共开支降低4%，严格控制财政赤字。”可知，英国政府减少了国家对经济的干预，调整了经济的增长模式，故选D项；英国政府减少了国家对经济的干预而不是放弃了对经济的干预，排除A项；材料说的是减少货币供应量，而不是货币贬值来刺激经济，排除B项；材料中没有涉及增税，排除C项。

21. 选D　保护国民免于大规模的失业说明国家必须承担起避免国民失业以保障其经济安全的职能，故选D项；保护国民就业是表面现象，其本质是保障国家的经济安全，排除A项；提供人身安全与材料信息不符，排除B项；实行福利制度是国家缓和社会矛盾的措施，不能直接体现国家职能，排除C项。

22. 选D　第三次科技革命推动科技进步，欧美国家脑力劳动者人数需求迅速增加，故选D项；二战后第三产业发展，产业结构升级，与脑力劳动者增加无关，排除A项；“中产阶级出现”为材料的现象而非原因，排除B项；大众教育普及是直接原因而非主要原因，排除C项。

23. 选B　据材料可知福利支出增加，这加重了国家财政负担，故选B项；材料强调的是福利成为国家财政的负担，而非促进了国民经济发展，排除A项；社会福利过高容易滋生懒汉，排除C项；材料强调的是福利成为国家负担，而不是强调扩大社会消费，排除D项。

24. 选B　美国提出了“星球大战计划”和“信息高速公路”计划，日本确立了“科学技术立国”战略，欧共体制定了“尤里卡计划”，这些计划都是依靠国家力量才能实现的，这些计划也推动了发达国家经济的转型，故选B项；这些计划都是各国自己提出来的，排除A项；材料中没有关于军备竞赛的任何信息，排除C项；材料中没有关于互联网的任何信息，排除D项。

25. 选D　美国已进入知识经济时代是在20世纪90年代，不符合时间限制，故A项错误；材料中产业结构的变化与贫富差距问题无关，故B项错误；这种现象没有改变资本主义私有制，经济危机仍然会周期性爆发，故C项错误；材料现象反映出第三产业的兴起，开拓了新的市场，有利于经济的长期稳定发展，故D项正确。

关注微信公众号“教辅资料站”获取更多学习资料

26. **解析**：第(1)问，第一小问，据材料一“1929～1932年英国的农产品价格下降约34%”得出，农产品价格下降；由材料一“农产品市场呈现滞胀状态”得出，农业市场滞胀；从材料一“很多地区的农耕土地在销售以及租赁方面都没有市场”得出，土地租售困难。第二小问，据材料一“1931年英国农产品进口量比1927～1929年增长了17%”并结合所学1929～1933年经济危机，得出世界性经济危机影响。第三小问，据材料一“英国国内的农产品也出现了过度生产的情况”，并结合所学可知，工业革命后普遍推行自由放任政策，得出长期奉行自由主义。第(2)问，第一小问，由材料二“英国颁布《园艺产品法案》”得出，加强农业立法；据材料二“规定对一些受外国倾销影响较为严重的无核小水果以及马铃薯征收关税”得出，限制农产品进口；从材料二“实行生产性农业补贴”得出，实行农业补贴；据材料二“授权农业生产者可以组建委员会对某类农产品的生产和销售进行控制”得出，建立农业机构(委员会)；据材料二“加大农业研究与教育的推广”得出，进行农业研究与教育。第二小问，从材料二“英国颁布《园艺产品法案》……英国政府在20世纪30年代，颁布了一系列法令，实行生产性农业补贴，授权农业生产者”分析得出国家干预。第三小问，据材料二“授权农业生产者可以组建委员会对某类农产品的生产和销售进行控制”分析得出，有利于推动经济运行机制的调整；由材料二“实行生产性农业补贴”和“加大农业研究与教育的推广”得出，促进经济恢复与发展；从材料二“受外国倾销影响较为严重的无核小水果以及马铃薯征收关税”分析得出，会加剧国际竞争与矛盾。

答案：(1)困境：农产品价格下降；农业市场滞胀；土地租售困难。背景：世界性经济危机影响。政策：长期奉行自由主义。

(2)措施：加强农业立法；限制农产品进口；实行农业补贴；建立农业机构(委员会)；进行农业研究与教育。特点：国家干预。影响：推动经济运行机制的调整；促进经济恢复与发展；加剧国际竞争与矛盾。

27. **解析**：第(1)问，第一小问，由材料一“团体和机构有600多个，先后设立的各种实验区有1 000多处”得出，参与者众多，波及范围广；由材料一“乡村建设运动对农村问题的关注由点到面，基本上都包含政治改革、文化教育、科技改良和推广、卫生保健、组织合作社、移风易俗、自卫保安等内容”得出，运动由点到面，涉及内容丰富；由材料一“最终成效不大”得出，成效有限。第二小问，由材料一“20世纪30年代”时间信息，结合所学，得出日本逐步扩大侵略，农村经济长期凋敝，政府发起国民经济建设运动，有识之士的提倡。第(2)问，由材料二“通过了《土壤保持与作物调配法》《农业信贷法》《农场抵押法》《农作物贷款法》等法律，以加强对农民的政策支持”得出，连续通过法律手段干预农业；由材料二“动用政府力量，引导农业生产者与农产品加工者之间签订市场协议，使他们在最低限度价格、供求总量等方面达成协议”得出，政府为减耕减产的农民提供补贴；由材料二“《农业信贷法》《农场抵押法》《农作物贷款法》等法律”得出，加强国家对农业的信贷扶持与资助；由材料二“农民们自己组织起来，联合起来进行努力”得出，培养农民的合作意识；由材料二“建立农业‘常平仓’制度，即政府储备粮食以调节粮价”得出，建立农业“常平仓”制度，即政府储备粮食以调节粮价。第(3)问，由材料一“乡村建设运动对农村问题的关注由点到面，基本上都包含政治改革、文化教育、科技改良和推广、卫生保健、组织合作社、移风易俗、自卫保安等内容”得出，乡村振兴关系到农业的发展和社会的稳定；由材料一“最终成效不大”得出，必须制定切实可行的政策以振兴乡村；由材料二“动用政府力量，引导农业生产者与农产品加工者之间签订市场协议，使他们在最低限度价格、供求总量等方面达成协议”得出，逐步推进乡村建设；由材料二“通过了《土壤保持与作物调配法》《农业信贷法》《农场抵押法》《农作物贷款法》等法律”得出，以法律手段为乡村建设创造条件；由材料二“从1932年至1939年，美国农业基本恢复起来，农民的处境得到根本性的好转”得出，采取多种措施以振兴乡村。

答案：(1)特点：参与者众多；波及范围广；运动由点到面；涉及内容丰富；成效有限。背景：日本逐步扩大侵略；农村经济长期凋敝；政府发起国民经济建设运动；有识之士的提倡。

(2)措施：连续通过法律手段干预农业；政府为减耕减产的农民提供补贴(或控制生产)；加强国家对农业的信贷扶持与资助；培养农民的合作意识；建立农业“常平仓”制度，即政府储备粮食以调节粮价。

(3)认识：乡村振兴关系到农业的发展和社会的稳定；必须制定切实可行的政策以振兴乡村；逐步推进乡村建设；以法律手段为乡村建设创造条件；采取多种措施以振兴乡村。

28. **解析**：第(1)问，通过材料一“1933年，在罗斯福的倡议下国会通过了联邦紧急救济法案”可得，通过紧急救济法；通过材料一“拨款5亿美元补助各州进行劳动救济和失业救济”可得，政府拨款，发放救济金；通过“二战后美国联邦政府举办的社会保障事业发展很快”可得，通过社会保障法。第(2)问，根据二战后，西方国家的各种新变化及各种新举措，可以得出廉租房制度形成的条件有战后西欧经济恢复、“福利国家”的发展、普遍奉行国家干预。第(3)问，通过西方国家实行社会保障制度的背景，从积极、消极两个方面分析出影响。

答案：(1)做法：通过紧急救济法；政府拨款，发放救济金；通过社会保障法。

(2)条件：战后西欧经济恢复；“福利国家”的发展；普遍奉行国家干预。

(3)影响：一方面使穷人(低收入家庭)受惠不少；缓和社会矛盾，稳定社会秩序；巩固资本主义统治；另一方面也使财政不堪重负，不利于调动劳动积极性。

单元质量检测卷(七)

1. 选C　1918～1921年苏俄推行战时共产主义政策，实行余粮收集和食物配给，导致人们生活困难，故选C项；苏俄新经济政策是1921年开始的，排除A项；国内战争在1920年已经结束，排除B项；材料“农业总产量”下降和“日常生活用品”缺乏都是国内经济状况，其主要原因不是西方国家的封锁，排除D项。
2. 选B　材料中反映的是农场的数量的增多，不是生产力水平的提高，故A项错误；材料中农业的发展有利于为工业提供原料，故B项正确；农业集体化是斯大林时期推行的，故C项错误；发展国营农场并不能调动农民个体的积极性，故D项错误。
3. 选A　1921年2月苏俄推行战时共产主义政策，发放实物工资和取消国家银行属于该政策的一部分，故选A项；实行战时共产主义政策一定程度上取消了自由贸易而非货币的短缺，排除B项；材料现象引发了国内经济危机，排除C项；该现象源于战时共产主义政策，排除D项。

关注微信公众号“教辅资料站”获取更多学习资料

4. 选C　由材料“苏俄(联)原来破败不堪、奄奄一息的经济，很快恢复了起来，人民生活也迅速得到了提高”可知，新经济政策促使苏联经济的恢复和发展，故选C项；新经济政策允许土地私有制，排除A项；斯大林模式实施计划经济，优先发展工业，排除B项；赫鲁晓夫改革时期扩大谷物生产，排除D项。

5. 选A　据材料“是作为世界经济的一员生存在资本主义国家体系中”，可知承认市场的作用，一定程度上恢复资本主义，对部分企业实行租让制或租借制，故选A项；通过指令计划管理经济是计划经济排斥市场，排除B项；扩大集体农庄和国营农场自主权是坚持以计划经济为前提，排除C项；加强对经济的集中领导是计划经济的表现，排除D项。

6. 选C　新经济政策的重要内容之一就是恢复货币流通和商品交换，故选C项；实行余粮收集制属于战时共产主义政策而非新经济政策的内容，排除A项；对中小企业全部实行国有化同样是战时共产主义政策而非新经济政策的内容，排除B项；大力推行农业集体化的苏联领导人是列宁的继任者斯大林，排除D项。

7. 选B　根据材料“建立工业化所需的社会组织形式……几年内消灭了私有制和个体农民”，可知公有制有利于提升国家的动员能力，故选B项；高度集中的计划经济体制，限制了人员的自由流动，城乡差别明显，排除A项；斯大林模式对农民索取过多，严重挫伤农民的生产积极性，排除C项；斯大林模式单一的公有制，以及高度集中的计划经济，严重束缚了社会生产力的发展，排除D项。

8. 选B　在1929～1933年，资本主义世界爆发了严重的经济危机，在该时期，大量的西方专家和技术人员被邀请到苏联，为苏联的工业化建设提供了急需的技术支持，这说明“经济建设需要抓住良机”这一论断，故选B项；题干反映了在经济危机期间，大量技术人员来到苏联，但不能说明当时世界实现了劳务的自由流动，排除A项；题干只是反映了外国专家来苏联的情况，不能推出美国转移过剩产能，排除C项；在20世纪30年代，苏联实行斯大林模式，没有实现其经济体制的转型，排除D项。

9. 选D　苏联发展工业化的资本只能依靠农业，而个体化的农业生产显然不能满足计划性的工业化的资金和原料需求，所以，苏联实行农业集体化，通过计划生产来满足工业化的需求，故D项正确；材料的核心意思是“不得不依靠农产品和原料出口来换取外汇”，无法得出“合理地利用了世界经济形势”的结论，排除A项；出口农产品和原料并不能得出“农业成就斐然”的结论，故B项错误；C项说法错误。

10. 选C　题干反映出苏俄(联)政府从余粮收集制到粮食税再到集体农庄，农业政策在近十年左右作了三次调整而适应形势需要，故选C项；固定的粮食税下，农民生产积极性高，排除A项；斯大林模式实行优先发展重工业政策，忽视农业发展，排除B项；苏俄(联)政策的调整是形势必然，排除D项。

11. 选D　1930年斯大林模式正在形成，优先发展重工业，用行政命令管理经济导致民生萧条，故选D项；苏联的计划经济跟世界市场联系很少，受到危机影响不大，排除A项；“模式僵化与衰退”是在20世纪50年代以后，排除B项；“取消自由贸易”是1918年开始实施的战时共产主义政策，排除C项。

12. 选D　斯大林时期的苏联实现了社会主义工业化，赢得了卫国战争的胜利，苏联成为一个世界大国，2003年，俄罗斯民意调查结果显示，高达57%的人对斯大林在俄罗斯的作用是肯定的，只有34%的人持否定态度，说明了俄罗斯民众对国家振兴的期望，故选D项；斯大林模式在20世纪30年代的苏联起到了重要作用，随着历史的不断发展，这种模式的种种弊端日益暴露，排除A项；20世纪30年代人们崇拜斯大林，随着时代的变迁，人们的观念已经发生了变化，排除B项；斯大林时代的苏联工业化建设取得巨大成就符合史实，但不太符合题意，排除C项。

13. 选A　20世纪20年代～50年代经济年平均增长率受到新经济政策、斯大林模式的影响，故A项正确；三次经济改革始于1953年赫鲁晓夫改革，故B项错误；斯大林执政时期推动苏联工业化的发展，故C项错误；20世纪30年代～50年代经济年平均增长率呈下降趋势，故D项错误。

14. 选B　据材料“取消了面包和面粉的配售制，后来，又陆续取消了其他食品和所有工业品的配售制”可知，苏联为人们提供的生活工业品增多，故选B项；苏联优先发展重工业，经济比例失调，排除A项；材料“苏联取消了面包和面粉的配售制”只是涉及国内，排除C项；材料“陆续取消”说明不是快速发展，排除D项。

15. 选B　战时共产主义政策实行于1918～1921年，故A项错误；赫鲁晓夫改革时期在一定程度上承认企业和个人的物质利益，有利于调动生产者的积极性，故B项正确；新经济政策在斯大林上台后逐渐被取消，故C项错误；戈尔巴乔夫于1985年开始进行改革，故D项错误。

16. 选C　赫鲁晓夫改革并未实现突破，故A项错误；赫鲁晓夫的垦荒政策也造成严重的环境恶化，并不完全符合苏联实际，故B项错误；斯大林模式下农业问题突出，垦荒政策是解决粮食问题的途径之一，是苏联特殊国情的产物，故C项正确；材料只涉及赫鲁晓夫改革，无法推断改革成效最突出，故D项错误。

17. 选D　D项与“赋予更大程度的自主权，并激励他们提高效率和利润，以求放松集中化的经济管制”相符，故选D项；赫鲁晓夫改革未能突破斯大林体制，排除A、B两项；C项与史实不符，排除。

18. 选D　建设社会主义的口号在此之前已经提出，因此不具有开创性，故A项错误；赫鲁晓夫时期美苏争霸苏联处于守势，故B项错误；“加速发展战略”是在戈尔巴乔夫改革时期提出的，故C项错误；材料中赫鲁晓夫和勃列日涅夫的口号说明当时对苏联高度集中的计划经济体制的弊端认识不充分，故D项正确。

19. 选C　材料反映的是勃列日涅夫时期重视发展重工业，并未体现出指令性计划的减少，故A项错误；材料中是计划经济，不是商品经济发展，故B项错误；材料反映了苏联的重工业发展而轻工业落后的局面，体现了计划经济体制下的国民经济结构的比例失调问题，故C项正确；勃列日涅夫时期仍实行公有制，故D项错误。

20. 选A　勃列日涅夫后苏联在美苏争霸中处于守势，原因就在于军备竞赛消耗了大量资源，苏联实力下降承担不起更多的义务与承诺，故选A项；材料没有体现第三世界的崛起问题，排除B项；材料没有涉及世界政治多极化趋势问题，排除C项；材料“降低了对第三世界的义务、减少对东欧盟国的承诺”体现的是苏联的霸权衰落，排除D项。

关注微信公众号“教辅资料站”获取更多学习资料

21. 选D　“1970年”处于勃列日涅夫执政时期，此时处于经济大发展时期，在美苏争霸中处于攻势，故A项错误；斯大林之后的前两次改革并未突破斯大林模式，故B项错误；“加速器”是指致力于经济大发展，比如发展核武器，故C项错误；“踩刹车”是指前两次改革始终未突破斯大林模式，故D项正确。

22. 选B　戈尔巴乔夫上台后首先从经济上进行改革，制定“加速发展战略”，故B项正确，A、C、D三项错误。

23. 选D　战时共产主义政策和新经济政策是列宁时期的经济政策，故A、C两项错误；1964年，赫鲁晓夫改革告终，而材料中“这个超级大国灭亡”是1991年，故B项错误；戈尔巴乔夫把改革的重点转向政治领域，最终导致国内局势的失控和苏联的解体，故D项正确。

24. 选D　背离社会主义道路是指经济上实行私有制、政治上实行多党制等，在材料中没有体现，故A项错误；材料主要涉及众多的经济计划，未体现政治改革的信息，故B项错误；戈尔巴乔夫经济改革，还并未使苏联进入失控的局面，故C项错误；根据材料“苏共中央曾先后推出12套经济改革计划……改革计划的混乱使地方层面根本无法落实”，可知反映的是戈尔巴乔夫经济改革中盲目性的一面，故D项正确。

25. 选C　赫鲁晓夫的改革在1964年结束，故A项错误；材料反映的是20世纪80年代苏联极权体制丧失了民众支持，勃列日涅夫的改革没有突破原有经济体制的框架不能全面体现勃列日涅夫的改革对苏联极权体制的影响，故B项错误；从材料中20世纪80年代苏联极权体制衰落，可知苏联进行改革势在必行，故C项正确；斯大林模式长期得不到纠正，是苏联解体的根本原因，故D项错误。

26. **解析**：第(1)问，第一小问，据材料一“1862年和1864年，美国国会通过了两项建筑横贯大陆的铁路方案”得出，制定了铁路发展方案；据材料一“为鼓励私营公司向铁路投资，联邦政府实行了补贴制度”“还给予铁路公司特殊的银行信贷便利，允许享有长期或短期的免税特权”得出，完善了与发展铁路相关的金融与奖励制度，据材料一“在19世纪最后30年，美国全境铺设了四条铁路干线。1865年，美国有铁路35 000里，到1900年增加到25.9万里，约占全世界铁路长度的一半”得出，铁路干线里程大幅度提高。第二小问，从19世纪美国的政治、经济及国家政策等角度回答。第(2)问，从性质、资金来源、政府作用上等角度回答。第(3)问，从加强各地经济联系，促进沿线社会经济发展，促进新技术的发明与运用，推动科技创新，带动相关产业的发展，发挥辐射作用，推动区域间经济协同发展等角度回答。

答案：(1)表现：制定了铁路发展方案，完善了与发展铁路相关的金融与奖励制度，铁路干线里程大幅度提高。原因：工业革命，资本主义迅速发展；南北战争，维护了联邦体制，国家统一；政府的重视与鼓励政策；私人资本的壮大。

(2)差异：从性质上，美国属于私营，苏联属于国有；从资金来源上，美国通过银行信贷，苏联是国家财政拨款；从政府作用上，美国政府制定方案、提供保障，而苏联政府通过计划来指导铁路建设。

(3)意义：加强各地经济联系，促进沿线社会经济发展；促进新技术的发明与运用，推动科技创新，带动相关产业的发展；发挥辐射作用，推动区域间经济协同发展。

27. **解析**：第(1)问，第一小问，据材料一“此种新经济政策，其精神与余所主张之民生主义，不谋而合”得出，新经济政策与民生主义原则一致；第二小问，结合所学知识，得出推动三大政策的出台，有利于实现国共合作。第(2)问，第一小问，据材料二“新经济政策并不是一开始就是完整的政策体系”得出，没有形成完整系统性的政策，据材料二“以斯大林等人为代表的一派对新经济政策总体上持否定的态度，把它看成是发展资本主义的政策，年年不忘限制以致取消新经济政策”得出，对恢复商品市场关系结果有不同认识；第二小问，结合所学知识，得出战时共产主义政策引发严重的政治经济危机，恢复和稳定政治形势的需要。第(3)问，第一小问，据材料三“尽管它实施后也收到了相当显著的经济实绩，当时终未能在苏俄社会成规模地引入市场因素”得出，取得了很大的成效，但未形成成熟的市场经济体制；据材料三“但是这一代人对改革缺乏理解，并由于战略、政策乃至作风上的失当所带来的动荡，使改革不可能继续下去”得出，没有改变长期僵化的模式，改革最终失败；第二小问，结合所学知识，得出经济模式的探索要形成科学理论，经济政策的调整需要结合国情和实际。

答案：(1)认识：新经济政策与民生主义原则一致。影响：推动了三大政策的出台；有利于国共合作的实现。

(2)原因：没有形成完整和系统性的政策；对恢复商品市场关系结果的不同认识。必要性：战时共产主义政策引发严重的政治经济危机；恢复和稳定政治形势的需要。

(3)影响：取得了积极的成效；未能形成成熟的市场经济体制；没有改变长期僵化的经济模式。启示：经济模式的探索要形成科学理论；经济政策的调整需要结合国情和实际。

28. **解析**：第(1)问，第一小问，据材料一“普鲁士的……＋美国的技术和托拉斯组织＋……＝社会主义”得出，建设社会主义，应学习和借鉴资本主义的先进成果；第二小问，据材料一“列宁曾提出”并结合所学，得出新经济政策。第(2)问，据材料二“优先发展轻工业，用轻工业赚回来的资金建设重工业”得出，布哈林主张先轻后重，据材料二中“苏联就会在用新技术武装起来的资本主义包围面前处于手无寸铁的状况”并结合所学得出，斯大林主张优先发展重工业；据材料二“他主张本国节约”得出，布哈林主张本国节约，据材料二“从农业吸收的资金占用于发展工业所需资金的三分之一以上”得出，斯大林主张农业服务于工业。第(3)问，据材料三中“浅尝辄止、半途而废”得出，改革不彻底，据材料三“左右摇摆、朝三暮四”得出，没有明确目标，据材料三“改革要有目标、有步骤、循序渐进地进行”并结合所学得出，放弃党的领导，背离社会主义方向，严重的国内民族矛盾等。

答案：(1)深意：建设社会主义，应学习和借鉴资本主义的先进成果。表现：新经济政策(利用市场和商品货币关系发展社会主义经济)。

(2)主张：布哈林主张先轻后重；斯大林主张优先发展重工业。布哈林主张本国节约；斯大林主张农业服务于工业。

(3)原因：改革不彻底；没有明确目标；放弃党的领导；背离社会主义方向；严重的国内民族矛盾等。

关注微信公众号“教辅资料站”获取更多学习资料

单元质量检测卷(八)

1. 选C　政府加强对经济的干预是在战前就采取的措施，故A项错误；建立“福利国家”是为了解决贫富差距过大问题，故B项错误；“世界资本主义退到了民族国家经济及相关帝国的避难所里”表明世界经济的混乱，无序状态，为此，战后建立以美国为主导的布雷顿森林体系和关贸总协定，故C项正确；发展“混合经济”是为了解决经济“滞胀”问题，故D项错误。
2. 选B　二战后美国的经济实力最强，美国提出按照黄金外汇储备决定投票权，而英国在二战后经济实力下降，所以提出“按照每国一票的方式决定各国投票份额”，二者的主张体现了各自的利益诉求，故选B项；材料中是针对国际货币基金组织的控制权问题的争议，并未加剧欧洲的局势紧张，排除A项；美国并未成为世界霸主，排除C项；材料反映的是布雷顿森林体系的内容，不是为其奠定基础，排除D项。
3. 选C　布雷顿森林体系的基本特征是美元主导。A项中美元与黄金挂钩没有完全体现出美元的地位，故A项错误；B项属于该体系的积极影响，故B项错误；C项反映出美元在新的国际货币金融体系中的主导地位，故C项正确；D项是这一体系得以建立的条件之一，故D项错误。
4. 选D　欧洲联盟是一个区域性政治经济组织而不是国际经济组织，故A项错误；关贸总协定的宗旨是通过削减关税和其他贸易壁垒，促进国际贸易自由化而不是“复兴与建设”，故B项错误；国际货币基金组织的主要任务是稳定国际汇率，消除妨碍世界贸易的外汇管制而不是“复兴与建设”，故C项错误；世界银行的宗旨是向成员国提供贷款，以促进该国的经济恢复和发展，与材料组织的宗旨一致，故D项正确。
5. 选A　该经济体系包含以金融为中心的布雷顿森林体系以及世界贸易体系的关贸总协定，两个组织的显著特征是美国占据主导，故A项正确；B项与史实不符，故B项错误；当时的背景是美苏冷战对峙，故C项错误；D项与史实不符，故D项错误。
6. 选D　从材料协议的规定可知，布雷顿森林体系的双挂钩的原则被打破，表明布雷顿森林体系走向瓦解，故选D项；布雷顿森林体系解体后，美元仍然是主要国际货币，而且材料并未体现美元在国际中的地位，排除A项；材料反映了布雷顿森林体系中1盎司黄金等于35美元的固定标准变了而无法体现西方国家出现金融危机，排除B项；材料反映的是美元贬值，黄金的价格上升，排除C项。
7. 选D　1945年，雅尔塔体系以美国和苏联两极为中心，在全球范围内进行争夺霸权的冷战，故A项错误；1948年，美苏两极对峙下，市场经济的原则并未得到普遍的认同，故B项错误；马歇尔计划是第二次世界大战结束后美国对被战争破坏的西欧各国进行经济援助、协助重建的计划，故C项错误；1947年，签署“关贸总协定”，推动自由贸易，建立了以美国为中心的国际贸易体系，故D项正确。
8. 选C　资本主义世界市场最终形成是在第二次工业革命，故A项错误；当今世界没有建立起国际政治经济新秩序，故B项错误；从材料中国际性经济组织的建立可知，二战后形成了资本主义世界经济体系，故C项正确；经济区域集团化是地区经济的合作，与材料中国际性经济组织不符，故D项错误。
9. 选C　《欧洲煤钢共同体条约》是把法国、意大利、荷兰、比利时、卢森堡和联邦德国的煤和铁置于同一运营机构，被誉为“欧洲的出生证”，是欧洲走向联合的开始，所以这里的“欧洲”的内在含义应该是联合的欧洲，故选C项；《欧洲煤钢共同体条约》的签署有利于欧洲的和平、稳定和发展，这是欧洲走向联合的影响，排除A、D两项；材料未体现欧洲各国的地位如何，排除B项。
10. 选A　欧元的诞生是欧洲一体化深入的表现，有利于欧洲经济的发展，而且欧元具有欧洲身份的象征，从而加强了民众的认同感，故选A项；欧元使欧洲经济一体化进程加快，而不是政治一体化，排除B项；货币是国家主权的重要象征，欧元的诞生是欧盟各国出让部分国家主权的结果，不能说欧洲实现主权统一，排除C项；材料没有涉及西欧摆脱美国控制问题，并且西欧摆脱了美国的控制说法错误(军事上依赖美国等)，排除D项。
11. 选C　根据漫画可知，英国脱欧增加欧盟内部不稳定性，故选C项；在两极格局下，加入欧盟符合英国国家利益，对英国来说有利有弊，排除A项；欧洲的联合符合经济全球化历史发展潮流，排除B项；英国脱欧破坏了欧洲一体化进程，英国的退出会让欧盟内部的分离力量增强，可能有解体的危险，但不是必然，排除D项。
12. 选C　由材料中“所有三国的国境对过境的陆上运输车辆完全开放”，可知这应该指的是美国、加拿大和墨西哥组成的北美自由贸易区，故选C项；欧洲共同体涉及欧洲二十多个国家，而不仅仅是三国之间的约定，排除A项；东南亚国家联盟涉及东南亚10个国家，没有完全的陆上运输通道，排除B项；亚太经济合作组织是环太平洋各国经济联合组织，排除D项。
13. 选C　材料论述了该组织八年来的成果，未涉及贫富差距问题，故A项错误；北美自由贸易区是由美国倡议，三国共同组建的一个区域性贸易组织，且材料仅论述了该组织八年来的成果，故B项错误；材料“区内贸易翻了一番，三国之间每天的贸易量就有17亿多美元”表明，北美自由贸易区八年来在推动了区内经贸发展方面成果显著，故C项正确；材料不能体现是否与区域外国家贸易，故D项错误。
14. 选B　从地理范围上判断是亚太经合组织，故选B项；关贸总协定不是仅仅涉及以上这些区域，排除A项；上海合作组织没有美国、澳大利亚等等，排除C项；北美自由贸易区仅仅是美加墨三国，排除D项。
15. 选B　亚太经合组织没有消除成员国间的贸易壁垒，故A项错误；亚太经合组织作为区域组织，促进了亚太地区经济技术合作，故B项正确；亚太经合组织是区域合作组织，不属于世界贸易合作组织，故C项错误；亚太经合组织各成员国的地位是平等的，故D项错误。
16. 选B　根据图片可知，美苏之外的英法等国家试图摆脱美苏两极格局的控制，“自己组队”，结合所学19世纪五六十年代欧共体不断发展，实力增强，由此可知，这是基于区域经济合作不断发展的结果，故选B项；东西方阵营对峙局面的形成是19世纪50年代，排除A项；资本主义世界经济体系的建立是在19世纪末20世纪初，排除C项；欧共体最初只是经济组织不是政治组织，排除D项。
17. 选C　从20世纪60年代起，区域经济一体化组织不断增多，这一趋势表明经济合作发展已经成为共识，故C项正确；A项中经济全球化“高潮到来”的说法错误；世界区域经济一体化组织不断增多，一定程度上说明世界经济发展速度越来越快，但材料强调的是“经济合作发展”，故B项排除；从材料中看不出来政治格局变化与经济秩序的关系，故D项错误。
18. 选D　跨国公司在全球范围内投资体现资本在全球自由流动，不等同于跨国公司垄断世界经济，故A项错误；材料未提及跨国公司的国别，故B项错误；当今世界各国贸易仍旧存在贸易壁垒，故C项错误；跨国公司推动资本在全球自由流动，从而推动全球化发展，故D项正确。

关注微信公众号“教辅资料站”获取更多学习资料

19. 选C　垄断组织产生于19世纪末到20世纪初，国际货币基金组织于二战后初期成立，国际复兴开发银行于二战后初期成立，与材料中“20世纪末期以来”不符，故A、B、D三项错误；1995年，世界贸易组织成立，宗旨是促进全球贸易的自由化，故C项正确。

20. 选B　材料“禁止成员国采用倾销或补贴等手段扰乱正常贸易的行为”是为了保障市场交易的公平，与市场开放无关，故A项错误，B项正确；材料强调公平贸易，与非歧视性无关，故C项错误；材料强调公平贸易，与自主自愿无关，故D项错误。

21. 选C　材料说明经济全球化会损害部分国家的经济主权，故选C项；据材料“使民族国家推行本国政策的能力受到削弱”分析不会带来友好合作，排除A项；损害国家的经济主权不能说明缓和各国之间的矛盾，排除B项；材料主要说明损害部分国家的经济主权的现象而不是现象的结果，排除D项。

22. 选C　题干中最发达国家与最贫穷国家的差距由1965年的19倍扩大到1995年的38倍，说明了当今世界中，发达国家和贫穷国家的经济发展水平的失衡，故选C项；其他三项在材料中均没有体现，故排除。

23. 选C　材料反映了1992年后我国进口关税税率大幅降低，未涉及这一时期经济发展情况，故A项错误；世贸组织成立于1995年，而中国从1992年就开始降低关税，并且材料也无法体现世贸组织对贸易小国的重视，故B项错误；1992年后我国进口关税税率大幅降低，表明我国积极主动融入世界经济全球化，故C项正确；发达国家有技术、市场等绝对优势，中国是发展中国家，拥有劳动力等优势，故D项错误。

24. 选D　中国财经报公布的2016年金砖五国数据显示，人口总量、GDP总量、互联网零售额，均在世界范围内占重要地位，力量对比变化明显，故选D项；其他国家不能简单等同于发达国家，排除A项；多极化主要指的是综合国力强、对国际事务影响大的国家或国家集团，金砖国家主要侧重于经济领域，排除B项；金砖五国在地域上并不毗邻，不属于区域集团，排除C项。

25. 选C　由材料信息“资源与环境问题、战争与和平问题等……如果不能得到很好的解决，将威胁到全人类的生存和发展”，可知全球要携手解决这些重大问题才能生存和发展，故选C项；题干中只提及了全球化进程中的问题，未提及其积极影响，排除A项；题干中提及的是这些问题不得到解决，“将威胁”而不是“已威胁”人类生存，排除B项；题干中强调的是经济全球化进程中的问题要人类携手解决，不只是告知其趋势而已，排除D项。

26. **解析**：第(1)问，第一小问，根据材料信息“明清社会经济”“资本主义萌芽”等并联系所学知识归纳；第二小问，根据材料“当流水一样滚滚而来的白银流入中国后，运出去的却是丝绸、瓷器、茶叶、蔗糖”“白银在明朝中期以后的大量输入”“资本主义萌芽”“枯萎”“整个民族在经济上沦为西方的附庸”等和所学知识分析。第(2)问，根据材料信息“保障国际货币体系的稳定”“结束了混乱的国际金融秩序”和所学战后世界金融体系形成的影响进行分析。

答案：(1)原因：新航路开辟后，世界逐渐成为一个整体，欧洲从美洲等地攫取大量金银；中国农产品和传统的手工业产品物美价廉；西方对中国丝绸、瓷器、茶叶、蔗糖等商品的大量需求。影响：传统手工业继续发展，社会贫富差距扩大，资本主义萌芽枯萎，整个民族在经济上逐渐沦为西方的附庸。

(2)共同作用：结束了战前货币金融领域的混乱局面，维持了战后世界货币体系的正常运转；促进各国国内经济的发展和世界贸易的发展；促进生产和资本的国际化，从而推动了全球化的发展。

27. **解析**：第(1)问，第一小问，根据材料一“北美自由贸易区在区域一体化组织模式上具有创新价值”得出，在区域一体化组织模式上具有创新价值；根据“由于成员国经济发展差别悬殊”得出，成员国经济发展差别悬殊；根据“北美自由贸易区不存在超国家因素机构的统一立法和司法”得出，不存在超国家因素机构。第二小问，根据“北美自由贸易区的成功运作表明，南北关系应是一种双赢而不是一种零和的关系”得出，促进了美国、加拿大和墨西哥的经济发展，实现了经济互补，加强了本区域经济的优势。第(2)问，第一小问，根据“中国经济和世界经济高度关联”“深度融入世界经济体系”并结合所学，得出经济全球化和经济区域集团化深入发展；根据“中国将一以贯之地坚持对外开放的基本国策，构建全方位开放新格局”得出，中国改革开放进入新阶段。第二小问，根据材料一“南北关系应是一种双赢而不是一种零和的关系”和材料二“推动沿线各国实现经济政策协调，共同打造开放、包容、均衡、普惠的区域经济合作架构”得出，合作共赢。

答案：(1)特点：成员国经济发展差别悬殊；不存在超国家因素机构；在区域一体化组织模式上具有创新价值。影响：对美国、加拿大和墨西哥的经济发展起积极作用；三国间相互弥补了各自经济发展中的不足，使其长处得到充分发挥，从而加强了本区域经济的优势。

(2)背景：经济全球化和经济区域集团化深入发展；中国改革开放进入新阶段。理念：合作共赢。

28. **解析**：第(1)问，从材料一“强国通过海上战争控制航路，击溃竞争对手商船船队寻求贸易垄断，建立主导性的全球贸易网络”“强国以殖民方式在全球进行原材料掠夺和市场扩张”“世界各国间逐渐走向全球性相互依赖，国家间处理彼此关系的行为方式也发生了变化……美国靠贸易就能致富”概括出答案。第(2)问，从材料二“新型合作的出现，通信技术的进展”“1995年世贸组织建立”并结合所学知识，从科技发展、两极格局的瓦解、跨国公司、市场经济理念、世贸组织、区域经济集团化和交通方面的发展等方面分析出答案。第(3)问，第一小问，根据所学知识可知，全球化对发展中国家既是机遇又是挑战，既有利于吸收引进发达国家的资金和技术，又由于经济基础差，技术水平低，在经济全球化中处于劣势和被动地位。第二小问，根据所学知识可知，经济全球化的实质是发达国家主导的资本在全球范围内的新一轮扩张。

答案：(1)特征：第一阶段：强国通过海上战争控制航路，寻求贸易垄断；第二阶段：强国以殖民方式在全球进行原材料掠夺和市场扩张；第三阶段：世界各国间逐渐走向全球性相互依赖、强国靠贸易致富。机构：关贸总协定。

(2)因素：两极格局瓦解；跨国公司的推动；市场经济理念被绝大多数国家认可；世贸组织的建立；第三次科技革命进行；区域经济集团化等。

(3)认识：全球化对发展中国家既是机遇又是挑战，既有利于吸收引进发达国家的资金和技术，又由于经济基础差，技术水平低，在经济全球化中处于劣势和被动地位。实质：发达国家主导的资本在全球范围内的新一轮扩张。

关注微信公众号“教辅资料站”获取更多学习资料

责任编辑 周建图 李 莉 刘一苇
美术编辑 李 欣
封面设计 欣 羽

45 分钟
课时作业与单元测试

45FENZHONG KESHIZUOYEYUDANYUANCESHI LISHI

丛书科目

语文 数学 英语 物理 化学 生物 历史 地理 思想政治

同学们，你想了解丛书的更多信息吗？详情请登录 http://www.dfjc100.com

※ 各科配有教师用书及教学课件光盘 (word 文档可自主编辑)，英语配有原声磁带 / MP3 光盘。

左手骄子之路练习题，右手阿凡题答疑

扫码下载APP

拍照搜题，秒回解析，火箭速度提升学习效率

随时随地老师在线答疑，看得懂，学得会，听得见

积累错题本，问题不过夜，养成学习好习惯

ISBN 978-7-202-12737-7

9 787202 127377 01>

定价：46.00 元

手机扫一扫
获取配套学习资源

关注微信公众号“教辅资料站”获取更多学习资料