东方杰创®
DONGFANG JIECHUANG
让 学习更快乐，人生更精彩

骄子之路®
the Road to Pride
主　编：邓保沧

45分钟

课时作业与单元测试

活页
可拆开使用

教辅资料站

电子教辅　试卷练习
知识总结　备课资源

扫码关注获取更多学习资料

提升＝基础＋能力＋方法
课时作业　基础自测·知能提升
阶段检测　梯度练习·评估达标
答案与解析　全解全析·点拨精准

历史

必修2·YL

河北人民出版社

东方杰创®
DONGFANG JIECHUANG
让 学习更快乐，人生更精彩

骄子之路®
the Road to Pride
主　编：邓保沧

45分钟 课时作业与单元测试

活页
可拆开使用

提升＝基础＋能力＋方法
课时作业　基础自测·知能提升
阶段检测　梯度练习·评估达标
答案与解析　全解全析·点拨精准

历史
必修2·YL

微信公众号
教辅资料站

河北人民出版社
石家庄

关注微信公众号“教辅资料站”获取更多学习资料

图书在版编目（CIP）数据

45分钟课时作业与单元测试：YL版．历史．2 ： 必修／邓保沧主编． －石家庄： 河北人民出版社， 2013.7（2019.10重印）
ISBN 978-7-202-08021-4

Ⅰ．①4… Ⅱ．①邓… Ⅲ．①中学历史课－高中－习题集
Ⅳ．①G634

中国版本图书馆CIP数据核字（2013）第194804号

编　委：张　力　周　杰　姜文勇
王晓磊　陈　青　李晨晖

书　　名　45分钟课时作业与单元测试　历史　必修2　YL
主　　编　邓保沧

责任编辑　周建图　赵黎黎
美术编辑　李　欣
封面设计　欣　羽

出版发行　河北人民出版社（石家庄市友谊北大街330号）
印　　刷　河北伦洋印业有限公司
开　　本　880毫米×1230毫米　1/16
印　　张　10
字　　数　320 000
版　　次　2013年7月第1版　2019年10月第6次印刷
书　　号　ISBN 978-7-202-08021-4
定　　价　43.00元

版权所有　翻印必究

微信公众号
教辅资料站

关注微信公众号“教辅资料站”获取更多学习资料



目录 CONTENTS

第一部分　课时作业

第一单元　中国古代的农耕经济 …… 1

第 1 课　精耕细作农业生产模式的形成 …… 1

第 2 课　中国古代的土地制度 …… 5

第 3 课　区域经济和重心的南移 …… 9

第 4 课　农耕时代的手工业 …… 13

第 5 课　农耕时代的商业与城市 …… 17

第 6 课　近代前夜的发展与迟滞 …… 21

第二单元　工业文明的崛起和对中国的冲击 …… 25

第 7 课　新航路的开辟 …… 25

第 8 课　欧洲的殖民扩张与掠夺 …… 29

第 9 课　改变世界的工业革命 …… 33

第 10 课　近代中国社会经济结构的变动 …… 37

第 11 课　民国时期民族工业的曲折发展 …… 41

第 12 课　新潮冲击下的社会生活 …… 45

第 13 课　交通与通讯的变化 …… 49

第三单元　各国经济体制的创新和调整 …… 53

第 14 课　社会主义经济体制的建立 …… 53

第 15 课　大萧条与罗斯福新政 …… 57

第 16 课　战后资本主义经济的调整 …… 61

第 17 课　苏联的经济改革 …… 65

第四单元　中国社会主义建设发展道路的探索 …… 69

第 18 课　中国社会主义经济建设的曲折发展 …… 69

第 19 课　经济体制改革 …… 73

第 20 课　对外开放格局的形成 …… 77

第 21 课　经济腾飞与生活巨变 …… 81

第 22 课　综合探究：调查改革以来发生在日常生活中的新变化（略） …… 84

教辅资料站

关注微信公众号“教辅资料站”获取更多学习资料



目录 CONTENTS

第五单元　经济全球化的趋势 …… 85

第 23 课　战后资本主义世界经济体系的形成 …… 85

第 24 课　欧洲的经济区域一体化 …… 89

第 25 课　亚洲和美洲的经济区域集团化 …… 93

第 26 课　经济全球化的趋势 …… 97

第 27 课　综合探究：中国如何应对全球化的挑战（略） …… 100

第二部分　阶段检测

阶段测试一（第一单元　中国古代的农耕经济） …… 101

阶段测试二（第二单元　工业文明的崛起和对中国的冲击） …… 105

阶段测试三（第三单元　各国经济体制的创新和调整） …… 109

阶段测试四（第四单元　中国社会主义建设发展道路的探索） …… 113

阶段测试五（第五单元　经济全球化的趋势） …… 117

本册综合测评 …… 121

第三部分　答案与解析

答案与解析 …… 126～156

提示：全书包括课时作业、阶段检测、答案与解析三部分，共计 160 页。

（根据教师教学情况不同，课时作业部分可在书中作答，也可撕下使用。）

微信公众号
教辅资料站

关注微信公众号“教辅资料站”获取更多学习资料

学习札记

第一单元　中国古代的农耕经济

第1课　精耕细作农业生产模式的形成

课前预习　抓双基　KEQIANYUXIZHUASHUANGJI　夯基固本判一判

自主预习 ZIZHU

一、农业的起源

1. 起源

原始农业经历了从采集经济向_____的发展。

2. 产生

大约一万年前，农耕经济在_____和_____出现。

3. 地域差别

我国是世界上最早培植_____和水稻的国家之一，北方以粟麦生产为主，南方以_____生产为代表，并在各自的扩展、传播中相互交融。

4. 结构特点

以_____为主、家畜饲养业为辅是中国古代农业经济的重要特点。猪、马、牛、羊、鸡、狗等“六畜”常与“_____”相提并论。

二、从耒耜到曲辕犁

1. 耕作工具的不断改进

(1)工具材质的变迁

①原始的农具主要是石斧、木耒、骨耜等，进入文明时代_____、_____仍是重要工具。

②_____时期，铁农具逐渐代替了石制、骨制农具。

(2)耕犁的发展

春秋后期，_____开始出现。_____代，长江下游地区出现了曲辕犁，标志着中国传统步犁的基本定型。

2. 灌溉工具的发明与改进

古代的灌溉工具主要有_____、_____等。

三、水利设施的逐渐完善

1. 著名水利工程

(1)内地：大禹治水的传说反映了上古先民兴修水利的艰难历程。春秋、秦汉时期兴修了著名的_____、_____、郑国渠、漕渠、_____等水利工程。从汉代起，政府经常组织大规模的治河工程。

(2)边疆：西域地区兴建的_____，是非常具有地方特色的灌溉工程。

2. 水利经验的积累

中国古代农学著作中包含了大量的关于水利建设的内容。

四、从千耦其耘到个体农耕

1. 商周时期

多采用大规模_____方式进行农业生产，称作“千耦其耘”。

2. 春秋以后：_____经济发展起来。

(1)经营方式：以_____为单位经营农业，同时以_____作为补充，形成“_____”的特点。

(2)作用及影响

①积极方面：在一般情况下，可以使农民勉强_____，自耕农生活比较稳定，生产积极性较高。

②消极方面：很难扩大再生产，阻碍了社会分工和_____的发展。

③自耕农的地位：自耕农是国家_____的主要承担者。

正误判断 ZHENGWU

1. 我国是世界上最早培植出粟和小麦的国家。（　）
2. 小农经济的“自给自足”性指的是古代农民生活的丰衣足食。（　）
3. 唐代曲辕犁的发明，标志着中国传统步犁的基本定型。（　）
4. 都江堰是西汉时期在四川地区修建的著名水利工程。（　）
5. 铁犁牛耕的出现是小农经济产生的根本原因。（　）

关注微信公众号“教辅资料站”获取更多学习资料

学习札记

课堂达标 点对点 KETANGDABIAODIANDUIDIAN 基础达标练能力

对点训练 DUIDIAN

知识点一　农业的起源

1.《淮南子·修务训》云："神农乃始教民播百谷，相土地，宜燥湿肥硗高下，尝百草之滋味，水泉之甘苦，令民知所辟就，当此之时，一日而遇七十毒。"材料说明（　）
A. 中国农业历史悠久
B. 神农最早发现百谷
C. "播百谷，相土地"就是垄作法
D. 中国原始农业和医药学同时产生

2. 以下农作物，最早由中国培植的是（　）
A. 玉米　　B. 马铃薯
C. 水稻　　D. 番茄

知识点二　从耒耜到曲辕犁

3.《中国经济史》在评述古代中国农业生产技术发展时说："耕用牛犁，使用铁器，是农业耕作技术的革命性突破，是划时代的进步。"这一"革命性突破"发生在（　）
A. 西周　　B. 春秋战国
C. 唐代　　D. 宋代

4.（2018·天津和平区高三一模）《耒耜经》记载："进之则箭下，入土也深；退之则箭上，入土也浅。……江东之田器尽于是。"这一农具（　）
A. 由西域传入
B. 属水力灌溉工具
C. 在东汉时普遍使用
D. 在当时的江南地区广泛使用

5.（2018·安徽屯溪一中高一期中）某《竹枝词》云："脚痛腰酸晓夜忙，田头车岸响浪浪。高田车进低田出，只愿高洼不做荒。"这首词描写的灌溉工具是（　）
A. 耧车　　B. 翻车
C. 筒车　　D. 风力水车

知识点三　水利设施的逐渐完善

6.（2018·浙江绿色评价联盟）地方志是对一个地方的记载和记述。《华阳国志》载："灌溉三郡，开稻田，于是沃野千里，号为陆海，旱则引水浸润，雨则杜塞水门。"据此可知，"华阳国"位于今天的（　）
A. 四川　　B. 陕西
C. 河南　　D. 山东

7. 下列有关坎儿井的说法，不正确的是（　）
A. 主要分布在我国的新疆地区
B. 唐朝时开始兴建
C. 是富有地方特色的水利灌溉工程
D. 在干旱地区利用地下水进行灌溉的杰作

知识点四　从千耦其耘到个体农耕

8. 西周时"一人跖（踏）耒而耕，不过十亩"；战国时"一夫挟五口，治田百亩"。引起这一变化的根本原因是（　）
A. 公田变为私田　　B. 国家走向统一
C. 铁犁牛耕的推广　　D. 封建制度的确立

9. 古代俗语说，"养牛为种田，养猪为过年，养鸡为换油盐针线"。此俗语反映了（　）
A. 古代农民生活的极端贫困
B. 古代农民的市场意识强
C. 小农生产的自给自足
D. 小农经济脆弱性

综合训练 ZONGHE

10. 阅读材料，完成下列要求。

材料一：（王景）迁庐江太守。先是，百姓不知牛耕，致地力有余而食常不足。郡界有楚相孙叔敖所起芍陂稻田。景乃驱率吏民，修起芜废，教用犁耕，由是垦辟倍多，境内丰给。是岁，年疫。京师及三州大旱，诏勿收兖、豫、徐州田租、刍稿（汉代的一种税收），其以见谷赈给贫人。

——《后汉书》卷七十六、卷三

材料二：《野老歌》

老农家贫在山住，耕种山田三四亩。
苗疏税多不得食，输入官仓化为土。
岁暮锄犁傍空室，呼儿登山收橡实。
西江贾客珠百斛，船中养犬长食肉。

材料三：自耕农是封建国家直接剥削的对象。为了保证赋税、徭役的供应，封建国家历来关注这一阶层的存在。"稳定小农"是封建王朝长治久安的良策，每一个新王朝建立时，对此尤为关注。

——《明清徽州农村社会与佃仆制》

（1）根据材料一，并结合所学知识，概括中国农业经济的特征。
（2）依据材料二，概括《野老歌》反映的社会现象。
（3）结合材料二、材料三，分析自耕农在我国古代社会经济中的地位。

微信公众号 教辅资料站
关注微信公众号"教辅资料站"获取更多学习资料

学习札记

课后提能 再巩固 KEHOUTINENGZAIGONGGU 知识巩固提能力

时间：45 分钟　满分：100 分

一、选择题(本题共 12 小题，每小题 4 分，共 48 分)

1. 著名史学家苏秉琦先生曾指出，中国农业的起源具有“满天星斗”的特点，以下选项中最能印证该观点的是　(　)
A. 在北京人遗址中已发现采集和猎取食物的遗迹
B. 在湖南玉蟾岩遗址、陕西半坡遗址、浙江河姆渡遗址等地都发现了人工栽培水稻的遗存
C. 除了黍、粟、水稻外，起源于战国时期的粮食作物还有稷、大豆等
D. 在浙江余姚河姆渡的考古发掘中，发现大量稻谷的遗存

2. (2019·山东济宁高三模拟)《管子》一书中记载，春秋时期齐国已用铁农具耕种土地。但据考古发现，在长江流域春秋晚期吴国墓葬中发现的农具和手工业工具，均为青铜制造。在中原地区洛阳王城、郑州碧沙岗和山西侯马等地春秋中晚期以至战国之际的遗址中，还普遍存在石、骨、蚌器的生产工具。由此可见春秋时期　(　)
A. 长江流域的经济发展水平已超过中原地区
B. 中国经济重心仍在关中平原
C. 中原地区的战乱严重影响了该地经济发展
D. 铁制工具仍然没有普遍使用

3. (2018·宁夏银川高三一模)黄河中下游地区是中国原始农业的起源地，到战国末期，黄河已有“浊河”之称，西汉时，黄河更是“河水高于地上”，下游地区水患频繁，引发土壤沙化和盐碱化。导致黄河流域生态环境恶化的根源在于　(　)
A. 争霸战争频繁　　B. 生产工具的改进
C. 少数民族南下　　D. 人口的大量迁移

4. 据史料记载：“中国古代举行婚礼大多在秋冬之交。(夏小正)言二月，殆因农业经济社会交易物品，必在秋收冬藏之际。农忙既毕，女家始肯令之适人。”这说明　(　)
A. 小农经济限定了人们生活规律
B. 古代举办婚礼都在秋收后
C. 古代妇女的经济地位有所提高
D. 女人是农耕的主要劳动力

5. 司马迁在《史记·河渠书》中记载：“蜀守冰凿离碓，辟沫水之害，穿二江成都之中。此渠皆可行舟，有余则用溉浸，百姓飨其利。”上述材料描述的水利工程是　(　)
A. 郑国渠　　B. 漕渠
C. 都江堰　　D. 白渠

6. (2018·广西来宾、河池高三二模)有古代中国民谣说：“一家十五口，七嘴八舌头，我要烙烙饼，他要喝稀粥，人多乱，狗多窜，媳妇多了不做饭。”此民谣反映出　(　)
A. 农民从事手工业收益高
B. 古代农村商品化不断提高
C. 小农经济具有思想基础
D. 土地兼并不利于改善民生

7. 下面关于中国古代农业的基本特点的叙述，正确的是　(　)
①总的特点是独立发展，自成体系，为农业型社会奠基　②铁犁牛耕是我国传统农业的主要耕作方式　③从生产技术看，讲究精耕细作的农业生产技术堪称世界之最　④从生产目的看，是典型的自给自足的自然经济模式
A. ①②③　　B. ①③④
C. ①②③④　　D. ②③④

8. (2018·四川成都外国语学院高一期中)《吕氏春秋》说：“冬至后五旬七日昌生。昌者，百草之先生也，于是始耕。”《氾胜之书》说：“凡耕之本，在于趣时，和土，务粪泽，早锄早获。”材料反映了古代农业　(　)
A. 注重农业时令　　B. 尊重自然规律
C. 重视历法指导　　D. 强调精耕细作

9. 据史载，西汉时期，政府在灾荒年减免家贫少者的田租，或假部分山林川泽苑囿给贫民，或假犁牛贷种食给贫民。如《汉书》载，绥和二年(前 7 年)诏：“其令水所伤县邑及他郡灾害什四以上，民贫不满十万，皆无出今年租赋。”西汉政府对灾民实施救济的根本原因是　(　)
A. 实行对小农经济的扶持政策
B. 避免因流民问题而引发农民起义
C. 小农经济支撑着王朝的生存和发展
D. 实行“轻徭薄赋、与民休息”的政策

10. “在最小的空间内用最简单的耕作方式养活尽可能多的人是中国的终极目标，为此，他们将土地分成小块，劳动者把全部精力都投入到比他的房子大不了多少倍的那块土地上面。”这段材料最主要反映了　(　)
A. 精耕细作的必要性　　B. 井田制的瓦解
C. 人口膨胀的压力　　D. 小农经济的脆弱性

关注微信公众号“教辅资料站”获取更多学习资料

学习札记

11. 唐代诗人王维在《丁寓田家有赠》一诗中写道："晨鸡鸣邻里，群动从所务。农夫行饷田，闺妾起缝素。"对其解读错误的是　（　）

A. 农业和家庭手工业相结合

B. 以家庭为生产单位

C. 男女分工明确

D. 田园生活自然悠闲

12. **(2018·江西赣州十四县高一联考)** 俞森《荒政丛书》卷五记载："一妇每日纺棉三两，月可得布二匹，数月之织，可供数口之用，其余或换钱易粟，或纳税完官。"材料表明古代中国　（　）

A. 重农抑商政策已有所改变

B. 农业是财政收入的主要来源

C. 已显露近代化的曙光

D. 小农经济并非完全封闭

二、非选择题(本题共2小题，第13题26分，第14题26分，共52分)

13. (26分)阅读材料，完成下列要求。

材料一：今铁官之数曰：一女必有一针、一刀，若其事立；耕者必有一耒、一耜、一铫，若其事立；行服连轺辇者，必有一斤、一锯、一锥、一凿，若其事立；不尔而成事者，天下无有。

——[战国]《管子·海王》

材料二："今使乌获、藉蓄(大力士)从后而牵牛尾，尾绝而不从者，逆也。若指之桑条以贯其鼻，则五尺童子牵而周四海者，顺也。"

——《淮南子·主术训》

材料三：《吕氏春秋》："凡农之道，厚(候)之为宝。"

《农书·粪田之宜》："用粪犹用药也。"

《吕氏春秋·上农》："时至而作，竭时而止。"

《齐民要术》："麦黄种麻，麻黄种麦。"

(1)材料一表明了铁器在哪些范围的应用？说明了什么问题？(8分)

(2)材料二反映了农业生产技术哪方面的进步？有什么作用？(12分)

(3)材料三体现了我国精耕细作的农业，具体表现在哪些方面？(6分)

14. (26分)阅读材料，完成下列要求。

材料一：必须社会地控制自然力，善于利用它，并依人手的劳作，大规模地占有它或驯服它。这种必要在产业史上，有最决定的作用。

——《资本论》第一卷

材料二：唐朝初年，北方中原地区"自伊洛以东，暨乎海岱，灌莽巨泽，苍茫千里，人烟断绝，鸡犬不闻，道路萧条，进退艰阻。"

材料三：水部郎中、员外郎掌天下川渎、陂池之政令，以导达沟洫，堰决河渠。凡舟楫、灌溉之利，咸总而举之。

——《唐六典》卷七

(1)战国、西汉时期的中国统治者在"控制自然力"方面，是非常重视水利工程建设的。根据材料一，结合所学知识各举一例并说明其历史作用。(8分)

(2)农业灌溉工具的创制和改进充分体现了古代劳动人民的勤劳与智慧。根据材料一，曹魏、唐朝时期出现了哪些农业灌溉工具？(8分)

(3)根据材料二、三，分析指出唐朝前期水利工程兴修的原因。(10分)

微信公众号 教辅资料站

关注微信公众号"教辅资料站"获取更多学习资料

学习札记

第2课　中国古代的土地制度

课前预习 抓双基 KEQIANYUXIZHUASHUANGJI 夯基固本判一判

自主预习 ZIZHUYUXI

一、废井田，开阡陌

1. 井田制的出现：商周时期，阶级分化严重，土地公有制遭到破坏，_____出现。

2. 井田制的内容

(1)土地名义上为_____，由周王将全国土地分封给各级贵族。

(2)井田制中有“公田”和“私田”之分，“公田”实际上为_____占有；“私田”是村社成员的_____，只有使用权，没有所有权。

3. 井田制的实质：土地_____(实际上是周王土地私有)。

4. 瓦解过程

(1)开始瓦解：_____时期，井田制开始瓦解。

表现：春秋时期诸侯国的_____加速了井田制的瓦解。代表性的改革有_____国的“相地而衰征”；鲁国的“_____”。这些改革实际上使土地_____合法化。

(2)最终瓦解：战国时期，秦国的商鞅变法正式从_____上废除了井田制，肯定了土地私有制。

二、多种形式的土地私有制

1. 时间：_____时期，贵族占有土地的_____已经崩溃，代之而起的是多种形式的土地私有制。

2. 形式

(1)君主私有土地：由宫廷掌握，其收入主要用于君主的私人开支。

(2)_____私有土地：自耕农个人支配使用的小块土地。

(3)地主私有土地：地主的土地有多种来源，其中最主要的途径是_____。

3. 均田制

(1)时间：公元485年，_____。

(2)原因：_____严重影响了国家的赋税收入，引起社会动荡不安。

(3)目的：限制土地的高度集中，保护_____经济。

(4)内容：按性别、年龄把国家控制的土地分配给农民。这些土地的主要部分只准使用，不准_____。受田农民必须向国家缴纳_____，并服徭役和兵役。

(5)宋初，实行“田制不立”“_____”的政策，使土地兼并非常激烈。

(6)到明清时期，_____经济繁荣，通过土地买卖广占田地的现象日益普遍。

三、租佃关系日趋普遍化

1. 概念：地主的土地出租给别人耕种，收取地租作为收益，称为租佃土地经营方式。地主与佃农之间形成了_____关系。

2. 发展历程

(1)产生：早在_____时期，租佃方式就已产生。到汉代，已比较普遍。

(2)发展：宋代，租佃经营成为仅次于_____形式的重要经营方式。

(3)进一步发展：明清时期，租佃关系进一步发展，出租土地变得更加有利可图。

3. 影响：佃农对地主的_____相对削弱，生产积极性得到提高，有利于农业的稳步发展。

正误判断 ZHENGWUPANDUAN

1. 井田制是奴隶社会的土地国有制。　(　)
2. 春秋战国时期的变法改革，客观上加速了井田制的瓦解。　(　)
3. 封建政府的“均田”、“限田”措施反映了封建国家与地主之间的矛盾。　(　)
4. 租佃关系最早在春秋早期产生。(战国时期)　(　)
5. 宋代“不抑兼并”的政策，加剧了土地兼并，使租佃经营成为仅次于自耕农形式的重要经营方式。　(　)

关注微信公众号“教辅资料站”获取更多学习资料

学习札记

课堂达标点对点 KETANGDABIAODIANDUIDIAN 基础达标练能力

对点训练 DUIDIAN

知识点一　废井田，开阡陌

1. 孔子审订的《诗经》中有“普天之下，莫非王土”的语句，反映出当时的主要土地制度是（　）
A. 井田制　　B. 均田制
C. 氏族公社所有制　　D. 农民土地所有制

2. 《诗经·小雅》中说：“有渰萋萋，兴雨祁祁。雨我公田，遂及我私。”这直接反映了（　）
A. 生产技术的进步
B. 土地公有制瓦解
C. 出现了土地私有
D. 土地兼并现象严重

3. 春秋时期，鲁国实行初税亩的目的是（　）
A. 增加国家赋税收入
B. 确立贵族土地私有制
C. 增加地主租税收入
D. 确立国家土地私有制

4. 商鞅变法中“改帝王之制，除井田，民得卖买”措施的最重要意义是（　）
A. 从法律上确立了土地私有制
B. 增强了秦国的经济实力
C. 打破了原来的土地疆界和灌溉系统
D. 扩大了农民的占田份额

知识点二　多种形式的土地私有制

5. 土地是人类赖以生产生存的主要生产资料，在我国漫长的封建社会历史上占主导地位的土地所有制是（　）
A. 小农土地所有制
B. 地主土地所有制
C. 封建政府土地所有制
D. 庄园制

6. 北魏均田制实行后，文献中出现了“庄园”一词，指被圈占的成片土地。唐代均田制实行后，“庄园”一词的使用更普遍。这反映了均田制实行后（　）
A. 井田制得以恢复
B. 不存在土地私有现象
C. 仍存在土地集中现象
D. 庄园由中央集中管理

7. 南宋士大夫袁采在其家训《袁氏世训》中强调：“人有田园山地，界至不可不分明。”这从根本上反映出宋代（　）
A. 政府重视对土地兼并的抑制
B. 封建土地私有制进一步发展
C. 土地商品化的趋势非常严重
D. 租佃关系占据主导地位

知识点三　租佃关系日趋普遍化

8. (2019·甘肃兰州一中模拟)明清时期永佃制盛行，佃农在不拖欠地租的条件下，有权“不限年月”“永远耕种”。地租率相对稳定，农民获得相对独立的、长期的土地使用权，地主则失去了和土地的直接联系。这一现象（　）
A. 减少了政府的财政收入
B. 瓦解了地主土地所有制
C. 加速了土地所有权与经营权的分离
D. 说明农民摆脱了封建人身依附关系

9. 明洪武二十八年规定，凡洪武二十七年以后新垦的田地，“不论多寡，俱不起科”“若有司增科扰害者罪之”。这些措施（　）
A. 鼓励垦荒，扩大播种面积
B. 可以促进农产品的商品化
C. 能有效抑制土地兼并
D. 降低赋税，减轻农民负担

综合训练 ZONGHE

10. 阅读材料，完成下列要求。

材料一：

私田	私田	私田
私田	公田	私田
私田	私田	私田

材料二：



废井田　开阡陌



围剿公田

材料三：诸男夫十五以上，受露田四十亩，妇人二十亩，奴婢依良。丁牛一头受田三十亩，限四牛。……所授之田率倍之，三易之田再倍之，以供耕作及还受之盈缩。诸民年及课则受田，老免及身没则还田。奴婢、牛随有无以还受。

——《魏书·食货志》

(1)材料一反映的是哪一种土地制度？其性质是什么？

(2)材料二反映了土地制度发生了怎样的变化？这一变化对社会产生什么影响？

(3)概括材料三所反映的土地制度的实行情况，并说明能否达到其目的。

关注微信公众号“教辅资料站”获取更多学习资料

学习札记

课后提能 再巩固　KEHOUTINENGZAIGONGGU　知识巩固提能力

时间：45 分钟　满分：100 分

一、选择题(本题共 12 小题，每小题 4 分，共 48 分)

1.《周礼》曾这样记述西周时期的某项土地制度，“乃经土地而井牧其田野，九夫为井，四井为邑，四邑为丘，四丘为甸，四甸为县，四县为都，以任地事而令贡赋。”下列有关材料中土地制度的表述，正确的是　(　)

A. 属于奴隶制土地国有制
B. 受封者要向皇帝缴纳贡赋
C. 农民在土地上集体耕作
D. 土地可以自由买卖和转让

2.《礼记·王制》记载“田里不鬻(yù，卖)”。这种土地制度存在于　(　)

A. 夏商时期至西周时期
B. 夏商时期到秦朝时期
C. 春秋时期到战国时期
D. 战国时期到秦汉时期

3. 商鞅变法规定：私自移动田界，将被处以“赎耐”之刑(强制剔去须鬓，以羞辱之)。此规定的目的是　(　)

A. 维护井田制　　B. 重农抑商
C. 保护私有财产　　D. 限制土地兼并

4. 下图为汉代画像砖中的农事图。此图可以用来说明当时　(　)



A. 个体农户的生产劳作状态
B. 精耕细作农业的不断发展
C. 土地公有制下的集体劳作
D. 大地主田庄上的生产情形

5. **(2018·福建东山二中期中)**造成古代中国封建社会出现“有力者无田可耕，有田者无力可耕”现象的根本原因是　(　)

A. 贵族、官僚及豪强霸占良田
B. 封建土地制度的存在
C. 政府采取不抑兼并的政策
D. 地权和劳动者的分离

6. **(2019·辽宁本溪一中月考)**《东华续录》记载了乾隆五十一年毕沅的一份奏折：“豫省连岁不登，凡有恒产之家，往往变卖糊口。近更有于青黄不接之时，将转瞬成熟麦地贱价准卖。山西等处富户，闻风赴豫，举放利债，借此准折地亩。贫民已经失业，虽遇丰稔之年，亦无凭借。”材料所述现象　(　)

A. 导致租佃关系迅速发展
B. 增加了政府的财政收入
C. 维护了社会的稳定局面
D. 迫使政府推行均田制度

7. **(2018·黑龙江试验中学高一期中)**宋代，有田产的“主户”只占民户总数 20%左右，其余大都是四处租种土地的“客户”。导致这种状况的重要因素是　(　)

A. 经济严重衰退　　B. 土地政策调整
C. 坊市制度崩溃　　D. 政府管理失控

8. **(2018·黑龙江双鸭山一中高一期中)**宋代法律规定，在田产交易前，买主需要通过中人验证卖主的土地所有权凭证；订立土地买卖契约时，要明确写明买卖田产的四至、亩数、价钱及交易年月；立契付钱后买卖双方还须把契约送至官府验证、盖印。这反映了宋代　(　)

A. 土地交易受到严格限制
B. 政府实行不抑兼并的政策
C. 政府重视土地所有权的转移
D. 商业环境相对宽松

9. 自宋代始，租佃经营已成为仅次于自耕农形式的重要经营方式。造成这种局面的主要原因是　(　)

A. 农民乐于接受这种经营方式
B. 土地兼并造成大量农民失去土地
C. 封建人身依附关系的彻底废除
D. 商品经济的发展

10.(宋神宗)土豪大姓，诸色人就耕淮南，开垦荒闲土地归官庄者，岁收谷麦两熟，欲只理一熟。如稻田又种麦，仍只理稻，其麦佃户得收(《宋会要辑稿》食货六三)这表明政府意在　(　)

A. 增加财政收入
B. 提高土地的有效利用率
C. 增加粮食产量
D. 提高佃农生产的积极性

11. 明朝时“田中事，田主一切不问，皆佃农任之”，地主与佃农之间，“交租之外，两不相问”。此种现象反映出当时　(　)

A. 地主与佃农间存在雇佣关系
B. 土地所有权与经营权没有分离
C. 佃农有较大的生产自主权
D. 租佃制抑制了佃农的生产积极性

12. 农民是农业生产的主力，中国古代农民分为自耕农和佃农。下列对此表述正确的是　(　)

①自耕农承担田租、兵役、徭役等负担　②佃农向地主交纳地租等负担　③自耕农拥有自己的土

关注微信公众号“教辅资料站”获取更多学习资料

学习札记

地，佃农没有自己的土地　④都有小生产者意识，都是落后阶级

A. ①②③　　B. ①②④

C. ②③④　　D. ①②③④

二、非选择题(本题共2小题，第13题26分，第14题26分，共52分)

13. (26分)阅读材料，完成下列要求。

材料一：

年份	全国耕地面积	全国人口	全国征收的麦米豆谷
洪武十四年(1381年)	3 667 715顷	58 873 305口	26 105 251石
洪武二十六年(1393年)	8 507 623顷	60 545 812口	32 789 800石
净增数	4 839 908顷	1 672 507口	6 684 549石

材料二：元季丧乱，版籍多亡，田赋无准。明太祖即帝位，遣周铸等百六十四人，核浙西田亩，定期赋税。复命户部核实天下土田。而两浙富民畏避徭役，大率以田产寄地户，谓之铁脚诡……又以中原田多芜，命省臣议，计民授田……北方近城地多不治，召民耕，人给十五亩，蔬地二亩，免租三年。

——《明史·食货志》

材料三：国初兵荒之后，民无定居，耕稼尽废，粮饷匮乏。初命诸将屯兵于龙江等处，后设各卫所，创制屯田，以都司统摄……军士三分守城，七分屯种。

——《明会典》

(1)材料一反映了什么现象？(6分)

(2)从材料二、材料三中，找出出现上述现象的原因。(8分)

(3)应怎样评价朱元璋上述措施的作用？这些措施能否消除封建土地所有制的弊端？(12分)

14. (26分)阅读材料，完成下列要求。

材料一：北魏到隋唐，均田制绵延了300多年，保存了大量的国有小农，但这一制度到唐中叶已经崩溃。宋代不立田制，国家不再干涉土地财产关系的变化，结果是租佃关系盛行，成为主导的土地经营形式。宋代佃户人身自由，法律上也和主人有基本的平等地位……地租形式主要是分成租和定额租。分成租随整个产量的多少而波动，所以地主还对土地的经营加以干预。而定额租则佃农可完全自主经营……有人估计，宋代的亩产量比唐代要提高1.5倍。

——马克垚《世界文明史》

材料二：鱼鳞册始行于洪武二十年。……量度田亩方圆，次以字号，悉书主名，及田之丈尺，编类为册，状如鱼鳞，号曰“鱼鳞图册”。先是，诏天下编黄册以户为主，详具旧管、新收、开除、实在之数为四柱式。而鱼鳞图册以土田为主，诸原坂、坟衍、下湿、沃瘠、沙卤之别毕具。鱼鳞册为经，土田之讼质焉。黄册为纬，赋役之法定焉。

——钱穆《国史大纲》

材料三：据史载：“(明末清初)吾邑地产木棉，行于浙西诸郡，纺织成布，衣被天下，而民间赋税，公私之费，亦赖以济，故种植之广，与粳稻等。”“……妪晨抱棉纱入市，易木棉花以归，机杼轧轧，有通宵不寐者。田家收获，输官偿外，未卒岁，室庐已空矣。其衣食全恃此。”故一旦商贩阻塞，棉花和棉布滞销，农民经济的运转就会出现危机。

(1)根据材料一并结合所学知识，指出北魏到宋朝农民身份的变化及其主要原因。(10分)

(2)根据材料二分析明代黄册、鱼鳞图册的历史作用。(6分)

(3)根据上述材料并结合所学知识，指出自宋至明中国古代农业生产关系的变化趋势及影响。(10分)

微信公众号
教辅资料站

关注微信公众号“教辅资料站”获取更多学习资料

学习札记

第3课　区域经济和重心的南移

课前预习 抓双基 KEQIANYUXIZHUASHUANGJI 夯基固本判一判

自主预习 ZIZHUXUEXI

一、四大经济区的形成

1. 四大经济区的划分

司马迁根据汉代经济分布的特点，将全国划分为四大经济区：_____、山西、_____和龙门碣石以北。

2. 各经济区的基本特征

(1)山东、山西：属于黄河流域，是传统的农业区，长期居于全国经济_____的地位。

(2)江南：西汉时江南大部分地区人口稀少，生产技术落后，与山东、山西相比，经济实力差距较大。

(3)龙门碣石以北：气候寒冷、土地贫瘠，是传统的_____或半农半牧区。西汉时塞内一度被辟为农业区，但经济实力有限。

3. 中国古代地区经济发展的特点

呈现出_____和经济实力发展不平衡的特点。

二、中原人口的大量外迁

1. 第一次南迁高潮

_____之际，黄河流域的农业生态环境迅速恶化，中原人口纷纷南迁。

2. 第二次南迁高潮

_____安史之乱，使黄河流域再次遭到严重破坏，北方人口大量涌入长江流域及其以南地区。

3. 第三次南迁高潮

_____之际，靖康之变造成北方动荡，中原人口大举南迁。

三、中国古代经济重心的南移

1. 原因

(1)中原人口的南迁为南方地区补充了大量劳动力，也带来了较为先进的_____和技术。

(2)南方社会环境相对_____。

(3)南方本来就蕴涵着发展农耕经济的巨大潜力。

2. 过程

(1)初步开发：经过孙吴、东晋和南朝的开发，江南地区初步形成了_____、水陆互补的作物体系。南方的耕地面积和产量大幅度提高，同时手工业和商业也发展起来，出现了像建康(今江苏南京)这样的人口上百万的大城市。

(2)加速发展：中唐以后，南方无论是农业、手工业，还是商业、都会，都在继续加速发展，逐渐超过了北方。

(3)超过北方：北宋立国主要依靠东南的财富力量，宋朝都城南迁后，更致力于南方的经济建设，经济上_____的局面完全确立，南方正式成为中国古代的经济重心。

3. 影响

(1)经济重心的南移带来了_____重心的南移，自南宋起江浙地区已成为人才密布区。

(2)随着疆域的不断扩展，区域经济发展的_____日益突出；经济重心的南移凸显了区域经济发展的_____和互补的需求，成为中国古代农耕经济的一大特点。

正误判断 ZHENGWUPANDUAN

1. 司马迁根据汉代经济分布特点，将全国划分为山东、山西、江南、江北四大经济区。(　　)
2. 两晋之际出现了中国历史上中原人口的第一次南迁高潮。(　　)
3. 北方战乱是中原人口大量南迁的主要原因之一。(　　)
4. 经济重心南移也带来了文化重心的南移。(　　)
5. 经济重心南移凸显了区域经济发展的不平衡和互补的需求。(　　)

课堂达标 点对点 KETANGDABIAODIANDUIDIAN 基础达标练能力

对点训练 DUIDIANXUNLIAN

知识点一　四大经济区的形成

1. 司马迁所说的山东、山西经济区，其地理范围主要是指(　　)
   A. 今山东省和山西省　　B. 黄河流域
   C. 江淮地区　　D. 华北地区
2. 战国秦汉时期，关中地区成为全国农业中心，其主要原因不包括(　　)
   A. 自然条件优越，便于发展农业生产
   B. 统治者的重视，促进农业经济发展
   C. 水利设施的兴修与完善
   D. 关中地区社会稳定，没有战乱发生

知识点二　中原人口的大量外迁

3. 西晋时期，我国历史上出现第一次人口南迁的高潮，其主要原因是(　　)
   A. 少数民族内迁中原
   B. 汉族统治阶级内乱
   C. 黄河流域的生态环境恶化
   D. 南方自然条件诱人

关注微信公众号“教辅资料站”获取更多学习资料

学习札记

4. 唐人张籍在《永嘉行》中写道："北人避胡多在南，南人至今能晋语。"这表明　（　）

①北民南迁是由天灾所致　②北民南迁是为了躲避北方少数民族　③北民南迁有利于民族融合　④北民南迁推广了先进技术

A. ①②　　B. ②③

C. ①③　　D. ②④

5. 据记载，南宋都城临安人开酒馆也往往仿效汴京的旧俗，在门前张挂驴子灯。更有趣的是，北方人在吃笼饼、蒸饼的时候习惯于先去掉皮，原本是因为北方风尘比较大，但南方人也跟着学，去了皮才吃。材料表明宋朝时期北方人南迁　（　）

①传播了先进的生产技术　②带来了新的风俗习惯　③实现了经济重心南移　④促进了南北文化的融合

A. ②③　　B. ①②④

C. ③④　　D. ②④

6. 下面是嘉峪关魏晋鲜卑贵族墓出土的反映鲜卑族日常生活的壁画《采桑图》和《制陶图》。这可以用来说明当时　（　）



图一《采桑图》



图二《制陶图》

A. 贵族生活奢侈豪华

B. 佛教传入影响壁画风格

C. 河西走廊商贸繁荣

D. 北方少数民族逐渐汉化

知识点三　中国古代经济重心的南移

7.《隋书·地理志》记载，全国有郡190，县1 255，户8 907 546，口46 019 956。若按九州划分，则扬州虽只占州数九分之一，但却拥有郡44，县312，户932 033，以致扬州一州在全国郡数上占23.16%，在县数上占24.86%，在户数上占10.46%。这表明　（　）

A. 扬州成为政治和商业中心

B. 南方人口数量已超过北方

C. 经济重心转移到江浙地区

D. 扬州在全国占有重要地位

8. 观察下表，表中的数据反映出宋代　（　）

宋政府全国岁入统计表（单位：贯）

		岁入数
北宋	真宗天禧末	3 600余万
	仁宗嘉祐年间	3 680余万
	神宗熙宁年间	5 060余万
南宋宁宗时		6 000余万

A. 经济重心转移到南方

B. 封建剥削不断加重

C. 国家统一促进经济发展

D. 人口总数不断增加

综合训练 ZONGHE

9. 阅读材料，完成下列要求。

材料一："关中之民，好稼穑……农桑衣食之本甚备。"

——《汉书》

"漕转关东粟以维中都官。"

——《史记》

（注释：西汉中央政府每年要从山东运大量粮食到京师，支付官吏的俸禄和供应官奴的口粮）

材料二：朝廷在故都（东京开封）时，实仰东南财赋，而吴中又为东南根柢。语曰："苏湖熟，天下足。"

——《陆游集》

（1）据材料一分析，黄河流域经济在当时处于什么地位？

（2）材料二反映南方经济有哪些发展？

（3）上述材料反映我国古代经济发展出现了什么重大变化？

微信公众号 教辅资料站

关注微信公众号"教辅资料站"获取更多学习资料

学习札记

课后提能 再巩固　KEHOUTINENGZAIGONGGU　知识巩固提能力

时间：45 分钟　满分：100 分

一、选择题(本题共 12 小题，每小题 4 分，共 48 分)

1. “骏马秋风塞北，杏花春雨江南。”两汉时期，塞北(龙门碣石以北)和江南地区都是我国重要的经济区。在当时四大经济区中，长期居于全国经济重心的是　(　)
A. 山西、江南　　B. 山东、江南
C. 龙门碣石以北、江南　　D. 山东、山西

2. 胡人多衣皮，而中原地区的人多衣布。出现上述现象的根本原因是　(　)
A. 风俗习惯的差异
B. 经济形态的差异
C. 统治政策的差异
D. 传统审美观念的差异

3. 秦汉时代，南方的郡面积都比北方的大得多。例如，秦朝北方的河东、上党、太原等五郡才相当于今山西省，而南方的长沙郡就相当于今半个湖南省。这一现象出现的主要原因是秦汉时期　(　)
A. 北方地区开发的程度更高
B. 南方地区的经济地位更重要
C. 南方驰道等交通设施更完善
D. 北方地区实行郡国并存制度

4. 关中地区曾是我国古代政治和经济中心。后来，由于资源枯竭和环境恶化而丧失其重要地位。中国的统治中心迁离此区域是在　(　)
A. 汉末三国的战乱时期
B. 唐朝前期盛世局面结束时
C. 唐朝灭亡后的战乱时期
D. 朱元璋在长江流域建都时

5. 西汉时，长安附近的三辅一带，人口都特别稠密，共有 240 多万。到东汉时，原本富饶的关中，人口锐减至 50 余万。北方诸州中，人口都出现了锐减，而南方诸州人口都有不同程度的增长。据此可推演出的公式是　(　)
A. 自然环境＋人口＝经济发展
B. 地理位置＋人口＝经济发展
C. 商业政策＋人口＝社会稳定
D. 社会稳定＋人口＝经济发展

6.《晋书·食货志》记载：“(中原)大疾疫，兼以饥馑，百姓又为寇贼所杀，流尸满河，白骨蔽野。”据此材料并结合所学知识可知，中国历史上中原人口南迁第一次高潮的原因有　(　)
①中原地区社会动乱　②在中原地区出现饥荒和瘟疫　③少数民族内迁　④统治阶级内乱
A. ①②③④　　B. ①②③
C. ①③④　　D. ①②④

7. 读《战国城市分布图》，从中可获得的信息不包括　(　)

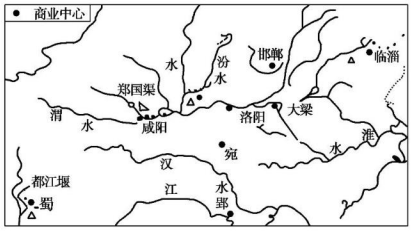

A. 黄河中下游分布着许多城市
B. 河运与城市发展密切相关
C. 城市大都是某一区域的重要中心
D. 有的城市出现称作“市井”的商业区

8. 从隋朝大运河到元代大运河的路线变化说明　(　)

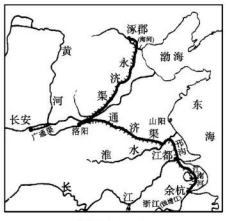

隋朝大运河


元代大运河

A. 西部地区日渐落后
B. 经济重心逐步东移南移
C. 北方地区不断衰落
D. 东部南部成为政治中心

9. 隋唐时期我国城市的发展明显具有从西向东、由北向南的趋势，东南地区的城市数量越来越多。这反映了　(　)
A. 经济重心南移速度加快
B. 南方手工业大大发展
C. 南方交通发展超越北方
D. 南方成为经济重心

10.《宋史·食货志》载：“南渡后，水田之利，富于中原，故水利大兴。”《后乐集》载，两浙一带，“所在围田遍满，昔之曰江曰湖，今皆田也”，水稻种植遍及南方各地。材料反映的实质是　(　)
A. 江南普遍种植水稻，水稻种植面积有所增加
B. 围湖造田，破坏了生态平衡
C. 南方兴修大量水利工程，促进了粮食产量的提高
D. 经济重心南移已经完成

关注微信公众号“教辅资料站”获取更多学习资料

学习札记

11. 开封市附近的朱仙镇是北宋著名的商业名镇，贾鲁河穿镇而过，水路转淮河可远达扬州，北宋每年大概有600万石粮食经水路走朱仙镇进入汴京。这表明北宋时期（　　）

A. 经济重心开始南移
B. 北方出现经济衰退
C. 水运占有重要地位
D. 长途贩运日益兴盛

12. 明朝思想家王夫之在其著作《读通鉴论》中称，唐朝后期出现了“立国于西北而植根于东南”的局面，其含义为（　　）

A. 政治中心与经济中心分离
B. 经济重心南移改变政治格局
C. 大运河改变南北经济格局
D. 西北边防与东南海防的并重

二、非选择题（本题共2小题，第13题26分，第14题26分，共52分）

13.（26分）阅读材料，完成下列要求。

材料一：安史之乱后，有魏生者……因避乱，将妻入岭南。天宝末，禄山作乱，中原鼎沸，衣冠（喻指官僚地位）南走真如，辗转流寓于楚州安宜县（真如、安宜均在今江苏境内）。

——《太平广记》卷四零三、四零四

材料二：安史之乱后，东周（洛阳）之地，入陷贼中，宫室焚烧，十不存一。中州畿内（指洛阳附近），不满千户，东至郑（今郑州）、汴（今开封），达于徐方（今徐州），北自革怀（今河南沁阳一带），经于相土（相州），人烟断绝，千里萧条。

——《旧唐书·郭子仪传》

材料三：下表是唐江南九州户数表（单位：户）。

州名	苏州	鄂州	洪州	饶州	吉州	衡州	邵州	泉州	汉州
开元户数	68 093	19 190	55 404	14 062	34 381	13 513	12 330	30 754	477
元和户数	100 808	38 618	91 129	46 116	41 025	18 047	18 000	35 571	889

——《元和郡县图志》

（元和：唐宪宗年号，806～820年）

（1）分别概括材料一、二、三所反映的历史现象。（12分）

（2）据材料和所学知识，分析导致材料三中历史现象的原因。（6分）

（3）材料三中的历史现象对当时及以后的中国历史有何影响？（8分）

14.（26分）阅读材料，完成下列要求。

材料一：汉朝长江流域仍是“……地广人稀，饭稻羹鱼，或火耕而水褥”……从东晋到宋朝的几百年间，北方战乱频繁，人口大量南徙，使南方人口明显增加，移民纷纷在丘陵地区、山区开荒种地，从而促进了长江流域的开发。

——李文澜《唐代长江中游水患与生态环境诸问题的历史启示》

材料二：在长江流域早期开发中，畲田开发是一种典型形式。“畲田，峡中刀耕火种之地也，春初砍山，众木尽蹶。至当种时，伺有雨候，则前一夕火之，借其灰以粪。明日雨作，乘热土下种，即苗盛倍收。”至今这种耕作方式在我国四川、云南等长江流域地区仍有所见。

——转引《长江流域水患研究》

材料三：下表为汉代至清末江淮地区较大水灾统计表。

朝代	西汉	唐	明	清
每百年次数	15.2	23.4	75.7	262.9

（1）据材料一并结合所学知识，分析长江流域开发的进程和原因。（12分）

（2）结合材料二、三，分析长江流域开发中存在的问题及原因。（6分）

（3）运用有关知识谈谈你对古代长江流域开发的认识。（8分）

微信公众号 教辅资料站

关注微信公众号“教辅资料站”获取更多学习资料

学习札记

第4课　农耕时代的手工业

课前预习　抓双基　KEQIANYUXIZHUASHUANGJI　夯基固本判一判

自主预习 ZIZHU

一、金属冶炼技术的进步

1. 青铜冶炼技术

(1)从二里头文化时期到春秋末期是我国的_____时代。

(2)_____时期，我国的青铜铸造技艺相当成熟，不仅数量多、种类齐备，而且工艺精湛，器物造型生动。

2. 冶铁炼钢技术：_____时期，人们发明了冶炼生铁和钢的技术。铁器的广泛应用，大大推动了生产力的发展。

3. 冶炼燃料

(1)早在汉代，人们就开始用_____做燃料冶铁，_____时已相当普遍。

(2)南宋末年，我国开始用_____冶铁，明朝流行开来。

二、衣被天下

1. 丝织技术：我国是世界上首先发明丝织技术的国家。

(1)早在上古时代，人们就学会了养蚕缫丝。

(2)_____以后，丝织工艺突飞猛进。

(3)汉代丝绸远销欧洲，使中国获得了“_____”的称号。

(4)_____代发明了缂丝技艺。

2. 棉纺织技术

(1)_____以来，边疆地区种植的棉花迅速向内地传播。

(2)元代_____全面革新棉纺织技术，发明了脚踏三锭纺车，能同时纺出三根纱。江苏的松江在元明时期成为全国的棉纺织业中心。

(3)_____后期，棉布取代丝、麻、毛，成为人们的主要衣料。

三、从烧陶到制瓷

1. 陶器(原始社会)

(1)陶器是新石器时代手工业中最重要的成就。

(2)中国古代先民创造了闻名于世的陶器工艺，如彩陶、_____和白陶等。

2. 制瓷技术

(1)东汉晚期和_____时期，人们先后烧制出成熟的青瓷和白瓷。

(2)隋唐时期，陶瓷工艺臻于成熟。_____制瓷业成为一个独立的生产部门。

(3)宋代_____成为“瓷都”。

(4)_____代开始进入彩瓷生产时期。

(5)明清时期创造出更丰富多样的制瓷工艺、瓷器与丝绸一起成为对外出口的大宗产品。

四、官私手工业的消长

1. 家庭手工业

(1)特点：家庭手工业与_____结合，其产品多供自己消费和交纳赋税，很少进入市场。

(2)评价：家庭手工业对稳定小农经济起到一定作用，但技术落后、生产分散，妨碍了市场发育。

2. 官营手工业

(1)发展历程

①_____时期，手工业由官府统一经营管理。

②唐宋时期出现了_____，从征役制到雇募制，是生产关系上的一大进步。

③到_____代前期为止，官营手工业一直占据着古代手工业的主导地位。

(2)特点

①官府统一经营管理，工匠职业世袭。

②资金雄厚、规模经营、分工与合作细密有利于手工业技艺的提高，官营手工业代表当时生产技艺的最高水平。

(3)局限：原料由官府提供，产品由官府调拨，采取_____工匠服役的手段，引起了工匠的不满。

3. 私营手工业

(1)发展历程

①_____时期，私营手工业产生。

②明代中叶之后，_____在许多行业中超过官营手工业，占据主导地位。

(2)经营方式的变化

①唐宋以来，商品经济繁荣，私营手工业的产品大量进入市场。

②到明中后期，私营手工业孕育出了_____的关系。

正误判断 ZHENGWU

1. 中国古代素以手工业发达著称，处于世界领先地位。(　)
2. 战国时期，人们发明了冶炼生铁和钢的技术。(　)
3. 棉布取代丝、麻、毛成为广大民众的主要衣料是在宋元时期。(　)
4. 在唐代人们最早烧制出了青瓷和白瓷。(　)
5. 春秋战国时期，私营工商业勃然兴起。(　)

关注微信公众号“教辅资料站”获取更多学习资料

学习札记

课堂达标 点对点 KETANGDABIAODIANDUIDIAN 基础达标练能力

对点训练 DUIDIAN

知识点一　金属冶炼技术的进步

1. 古书说："国之大事，在祀与戎"从下面的几幅青铜器皿图片可以看出，当时我国的青铜器主要用于（　）


四羊方尊


三角援戈


人面纹方鼎


乐府钟

A. 农具和酒器　　B. 礼器和兵器
C. 礼器和农具　　D. 兵器和农具

2. **(2019·江苏扬州邗江中学高一测试)** 有学者认为"三千年前中国最好的名片是青铜器，两千年前是丝绸，一千年前是瓷器。"下列关于中国古代手工业成就的表述正确的是（　）
A. 夏朝青铜铸造技术已相当成熟，后母戊鼎代表了当时的高超工艺成就
B. 冶铁技术的出现不晚于春秋时期
C. 唐代丝织技术先进，私营手工业代表当时的最高水平
D. 宋代白瓷开始出现，为彩瓷的发展奠定了基础

知识点二　衣被天下

3. 下图是1972年湖南长沙马王堆1号汉墓出土的一件素纱禅衣。它衣长128厘米，袖长190厘米，重量仅49克。这反映出（　）



A. 汉代毛纺织业取得重大进展
B. 汉代丝织业工艺水平高超
C. 棉织品是当时人们的主要衣料
D. 它吸收了花鸟画中的写实风格，图案生动活泼

4. **(2019·江苏扬州邗江中学高一测试)** 某摄制组拍摄一部有关我国古代农民起义的电视剧，剧中大部分农民都身着棉衣。此部电视剧反映的背景最可能出现于（　）
A. 汉朝　　B. 隋唐时期
C. 秦朝　　D. 明朝后期

知识点三　从烧陶到制瓷

5. **(2019·浙江选考)** 一说"china"的发音源出唐朝时期的昌南(今景德镇)。唐朝昌南除出产青瓷之外，名列前茅的瓷器还有（　）
A. 粉彩瓷　　B. 黑瓷
C. 青花瓷　　D. 白瓷

6. **(2018·黑龙江双鸭山一中高一期中)** 史书中关于"共计一坯工力，过手七十二，方克成器"的记载。这直接反映了景德镇制瓷业（　）
A. 机器生产形成并发展
B. 规模大，分工极细
C. 与传统官办手工工厂相比发生了质的变化
D. 形成了雇佣和被雇佣的劳资关系

知识点四　官私手工业的消长

7. **(2018·江西南昌十中高一期中)** 《国语·晋语》中说："公食贡，大夫食邑，士食田，庶人食力，工商食官。"该材料说明了（　）
A. 商周时期手工业被官府垄断
B. 民营手工业得到迅速发展
C. 家庭手工业是主要经营形态
D. 手工业开始成为独立生产部门

8. "乡村纺织，尤尚精敏，农暇之时，所出布匹，日以万计。以织助耕，女红有力焉"。材料主要表明（　）
A. 家庭手工业有了较大发展
B. 自然经济受到了明显冲击
C. 重农抑商的观念有所淡化
D. 社会生产中出现雇佣关系

9. 明朝中期，苏州东城"比屋皆工织作"，杭州城东北"机杼之声，比户相闻"。这反映了苏杭地区丝织业（　）
A. 民营作坊兴盛
B. 已采用大机器生产
C. 实行工官制度
D. 出现资本主义生产关系萌芽

综合训练 ZONGHE

10. 阅读材料，完成下列要求。

材料一："庶人食力，工商食官。"

——《国语·晋语》

天子之六工，曰土工，金工，石工，木工，兽工，革工，典制六材。

——《礼记·曲礼》

(官府工匠)相语以事，相示以功，相陈以巧，相高以知。

——《管子·小匡》

材料二：长期以来官营作坊的工匠主要来自官奴婢、刑徒和征调来无偿服役的民间工匠。在强制劳动、囚徒式管理下，工匠常常怠工、逃亡和起义。

明初，瓷都景德镇有官窑58座，资金充足，设备先进，民窑不过20座。但官窑管理腐败，成本高昂，很快衰弱下去。

材料三：工匠之子，莫不继事。

——《荀子·儒效》

工之子恒为工。

——《国语·齐语》

工商皆为家传其业以求利。

——《唐六典》

(1)依据材料一、二分析古代官营手工业有哪些优势和劣势。

(2)根据材料三，分析中国古代手工业技术的传承特点以及造成这一特点的根本原因。

关注微信公众号"教辅资料站"获取更多学习资料

学习札记

课后提能 再巩固 KEHOUTINENGZAIGONGGU 知识巩固提能力

时间：45 分钟　满分：100 分

一、选择题(本题共 12 小题，每小题 4 分，共 48 分)

1. (2017・江苏卷)《国语》讲“祀，国之大节”。有学者认为，青铜器在商周时期被视为“政治的权力”。可推断，商周时期青铜器主要用作　(　)
A. 农具　　B. 礼器
C. 食具　　D. 货币

2. 春秋时期，中国创造了世界冶炼史上的奇迹，能够在一千多度的高温下将液态铁浇铸成形，杂质少，质地硬脆。这标志着当时的人们发明了冶炼　(　)
A. 青铜的技术　　B. 生铁的技术
C. 熟铁的技术　　D. 钢的技术

3. (2019・四川南充一中高三模拟)唐朝诗人孟郊在《织妇辞》中曾有“如何织纨素，自著蓝缕衣”的诗句，而韦应物的《杂体五首》中有“舞罢复裁新，岂思劳者苦”的句子。对比这两句诗，可看出　(　)
A. 丝织业不够发达，产量较少
B. 当时的丝织品主要供上层社会消费
C. 丝织品主要出口地中海等欧洲地区
D. 丝织品为织者自己所用

4. (2018・贵州省贵阳一中高三模拟)热播节目《国家宝藏》介绍了乾隆打造的集中国瓷器之大成的瓷母——各种釉彩大瓶，它集高温低温色釉和釉下彩釉上彩于一体，其烧造工艺繁复至极，至今无法复制。瓷母的问世，突出表明了　(　)
A. 中国古代官营手工业技艺始终领先
B. 中央集权制度利于手工业技艺传承
C. 皇权专制下国家具有强大动员能力
D. 小农经济为古代科技提供物质基础

5. 下图是 2012 年在香港拍卖到两亿多港币的中国宋代葵花洗。这件瓷器盘口状如六瓣葵花，胎质细洁，釉呈天青色。结合所学知识，下述说法正确的是　(　)



A. 该瓷器采用了典型的青花瓷工艺
B. 拍卖至天价，定为民窑烧制
C. 釉色为天青，是白瓷的成熟代表
D. 该瓷器可能是北宋汝窑出品

6. 唐代李肇所著《国史补》：“内丘白瓷瓯，端溪紫石砚，天下无贵贱通用之。”此材料提供的信息有　(　)
①唐代手工业发达，形成各具特色的手工业生产中心　②唐代生产的瓷器只有白瓷　③唐代瓷器已经得到广泛使用　④唐代陶瓷工艺已经臻于成熟
A. ①②③④　　B. ①③④
C. ②③④　　D. ①②③

7. (2018・四川成都外国语学院高一期中)《考工记》中提到：“兵车之轮六尺有六寸，田车之轮六尺有三寸，乘车之轮六尺有六寸。六尺有六寸之轮，轵崇(车轴端)三尺有三寸也。加轸(车厢底部的横木)与幹(车厢与车轴间的木块)焉，四尺也。人长八尺，登下以为节(即方便上下车)。”这表明在当时手工业生产过程中　(　)
A. 社会发展推动了行业内部分工
B. 为满足市场需求采取定制生产
C. 冶铁技术进步促进了工艺发展
D. 采用标准化生产并兼顾人性化

8. (2019・山西榆社中学高三模拟)《秦律杂抄》中有一条律文写道：“非岁功及无命书，敢为它器，工师及丞赀(罚)各二甲。”据此可推断当时　(　)
A. 注重统一手工产品规范
B. 官营作坊生产不能自主
C. 官营作坊资金来源广泛
D. 手工产品基本投放市场

9. (2018・江西赣州十四县高一联考)造纸业在唐代达到新水平，宣州产的宣纸，洁白柔软，为书画家所钟爱；浙东产的藤纸，坚固耐用，颇受欢迎；益州产的麻纸，美观精致，多用于官府文书。这反映了　(　)
A. 南方文化水平的提升
B. 手工业的地区特色明显
C. 官营手工业技术先进
D. 社会需求决定生产样式

10. 元朝时期对手工业者实行“匠户制度”，工匠必须长期为官府服役，户籍编入专门的“匠籍”，子孙不得改行，明朝中期这一制度遭到破坏，清初正式废除了这一制度。匠户制度的废除　(　)
A. 使大批工匠失去了生存的根基
B. 使工匠在政治上获得独立地位
C. 使官营手工业的优势完全丧失
D. 大大促进了民营手工业的发展

11. 元朝人曾作《木棉歌》：“秋阳收尽枝头露，烘绽青囊翻白絮，田妇携筐采得归，浑作机中布。大儿来觅襦，小儿来觅裤。半拟偿私债，半拟输官赋。”下列描述与材料不相符的是　(　)
A. 农户种棉日益普遍
B. 农民负担沉重的债务和赋税
C. 男耕女织的自然经济
D. 家庭手工业超过官营手工业

关注微信公众号“教辅资料站”获取更多学习资料

学习札记

12. 明朝中后期，瓷器的生产多采用“官搭民烧”的办法；在制瓷中心景德镇有“形器走天下”之说。这充分说明了（　　）

A. 私营手工业超过官营手工业
B. “重农抑商”政策的松动
C. 景德镇出现了资本主义萌芽
D. 景德镇瓷器天下无双

二、非选择题（本题共2小题，第13题26分，第14题26分，共52分）

13.（26分）阅读材料，完成下列要求。

材料一：神农耕而作陶。

——[北宋]李昉《太平御览》卷八三三引《周书》

材料二：西陵氏之女嫘祖为帝元妃，始教民育蚕，治丝茧以供衣服，而天下无皴瘃之患，后世礼为先蚕。

——[南宋]朱熹《通鉴纲目·前编》上

材料三：灌钢法：（綦母怀文）又造宿铁刀，其法烧生铁精以重柔铤，数宿则成刚（钢）。以柔铁为刀脊，浴以五牲之溺，淬以五牲之脂，斩甲过三十札。今襄国冶家所铸宿（铁）柔铤，乃其遗法，作刀犹甚快利，不能截三十札也。

——[唐]李百药《北齐书》卷四九《綦母怀文传》

材料四：是月也，命工师令百工，审五库之量，金铁、皮革筋、角齿、羽箭干、脂胶丹漆，无或不良，百工咸理，临工日号，无悖于时，无或作为淫巧，以荡上心。

——[战国]吕不韦《吕氏春秋·季春纪》

材料五：论百工，审时事，辨功苦，尚完利，便备用，使雕琢、文采不敢专造于家，工师之事也。

——[战国]荀况《荀子·王制》

（1）依据材料一、二回答中国古代手工业萌芽之初的概况。（6分）

（2）依据材料三、四，概括中国古代手工业发展情况。（8分）

（3）依据材料四、五结合所学知识，归纳中国古代手工业的特点。试以材料五中词句说明周时官营手工业管理情况。（12分）

14.（26分）阅读材料，完成下列要求。

材料一：（元朝）国家初定中夏，制作有程，仍俑（纠集）天下之工，聚之京师，分类置局……匠以籍为定，世承其业，其子女……婚嫁皆由政府控制。

——《元史》

材料二：明代名隶官籍的民匠中，班匠（定期到官府服役者）百二十三万，构占工匠总数的百分之八十，其余为坐匠。……1485年，工部奏准，轮班匠可以以银代役，后又规定一律以银代役。

——《中国史纲要》

材料三：（入清以后）“原匠子孙逃故无遗”，止存户籍。1645年，顺治帝“免直省（直隶）京班匠，并除其匠籍”。……康熙以后，最后废除了匠籍。

——《中国古代史》

（1）根据材料一分析，元朝手工业管理制度的特点是什么？这种管理模式会造成什么弊端？（12分）

（2）材料二、三与材料一相比，有何进步和影响？（8分）

（3）据所学知识分析，这种进步出现的原因是什么？（6分）

关注微信公众号“教辅资料站”获取更多学习资料

学习札记

第5课　农耕时代的商业与城市

课前预习 抓双基 KEQIANYUXIZHUASHUANGJI 夯基固本判一判

自主预习 ZIZHUXUEXI

一、商业的发展

1. 商朝

_____商人和最早的货币已经产生。

2. 周朝

实行“_____”政策。

3. 春秋战国时期

_____逐渐取代官商成为商人的主体，随着商业的繁荣，形成了许多著名都会。

4. 隋唐时期

西域以及阿拉伯、波斯商人来往经商频繁。陆上和_____丝绸之路空前繁荣。

5. 宋元时期

宋代出现世界上最早的_____，集镇、夜市兴盛。元代更广泛流通纸币。

6. 明清时期

商业市镇兴起，_____经济占据主要地位，农产品大量进入市场，白银在流通中广泛使用。形成_____、晋商、宁绍商人、闽商等大商帮。

二、城市的繁荣

1. 政治中心的商业发展

(1)周秦至唐朝：县治以上的城市设“市”，市与_____隔开。这时期，城市主要是_____、军事重镇。

(2)宋代

①空间范围扩展：_____界限不复存在，市分散于街巷，形成街市。城郭和乡村，也允许置市贸易。

②时间不再限定：出现了夜市、晓市、草市等。

③城市功能变化：商业活动不再受官府的监控，城市的_____功能大大增强。

2. 经济城市的兴起

(1)唐宋时期：沿海港口城市走向繁荣，除早已发展起来的_____之外，泉州、扬州、登州等繁盛一时，各港口城市“_____”云集。

(2)明清时期：兴起了一大批以经济功能为主的工商业市镇。

三、“重农抑商”

1. 形成原因

商业的不稳定性及商人_____等特点，与战国时期强调耕战，加强中央集权的取向发生矛盾。

2. 推行过程

(1)_____时期：“重农抑商”思想兴起。

(2)西汉时期：_____规定商人不得“衣丝乘车，重租税以困辱之”，严禁商人购置土地。

(3)中唐以来：“重农抑商”政策有了某种_____，商人地位得以提高。

(4)明清时期：经常以各种方式对商人进行盘剥。

3. 影响

(1)战国秦汉时期对发展农业，稳定社会发挥过积极作用。

(2)明清时期，严重阻碍了_____因素的成长，成为中国被甩在世界工业文明潮流之后的因素之一。

正误判断 ZHENGWUPANDUAN

1. 周朝实行“工商食官”政策，商人被政府统一管理，为政府服务。(　　)
2. 区域性的商帮早在宋代就已大量出现。(　　)
3. 宋代坊市制度被打破，商品经济进一步发展。(　　)
4. “重农抑商”政策早在商周时期就成为政府的主导经济思想。(　　)
5. 明清时期的抑商政策完全遏制了民间商品经济的发展，阻碍了新经济因素的成长。(　　)

课堂达标 点对点 KETANGDABIAODIANDUIDIAN 基础达标练能力

对点训练 DUIDIANXUNLIAN

知识点一　商业的发展

1. **(2018·四川成都外国语学院高一期中)**春秋战国时期，商人频频交结王侯，各诸侯国君也非常重视商人阶层。如郑国国君与商人“世有盟誓”；晋国“绛之富商，能金玉其车，交错其服，能行诸侯之贿”。材料表明各诸侯国君重视与商人阶层关系的主要目的是(　　)

A. 实行宽松商业政策
B. 成就霸业政治的需要
C. 改变社会斗富逐利之风
D. 重建官营商业制度

2. **(2019·江西赣州高三模拟)**南宋初年，朝廷设立会子务负责发行“官会子”。会子面值以铜钱数量来标示，但基本上不可兑换成现钱，“输官亦许用之，庶公私皆便。”南宋会子得以流通的主要原因是(　　)

关注微信公众号“教辅资料站”获取更多学习资料

学习札记

A. 由国家信用提供担保
B. 纸币使用具有历史基础
C. 得到工商业者的支持
D. 政府采用强制手段推行

3. “凡有麻雀能飞到的地方，都有山西商人”这句话说明山西商人（　　）
A. 能像麻雀一样飞　　B. 活动范围广
C. 像麻雀一样灵活　　D. 具有麻雀的特性

知识点二　城市的繁荣

4. **(2018·黑龙江试验中学高一期中)** 宋敏求《长安志》说：“（长安城）棋布栉比，街衢绳直，自古帝京未之有也。”也有人感慨长安城是“六街鼓歇行人绝，九衢茫茫空有月”。这一现象反映出唐都长安（　　）
A. 城市布局整齐　　B. 城市规模过大
C. 城市功能单一　　D. 经济政策抑商

5. **(2019·河北安平中学月考)** 宋《梦粱录》载“杭都旧俗，自初一日至端午日，家家买桃、柳、葵、蒲叶、伏道，又并市茭、粽、五色米团、时果、五色瘟纸，当门供养。自隔宿及五更，沿门唱卖声，满街不绝。”这主要反映了宋朝（　　）
A. 迷信色彩的风俗沿革
B. 商业环境的相对宽松
C. 城市职能的发展完善
D. 坊市制下的商业发展

6. 宁波辖区内有三七市镇、二六市村（乡）等城镇，从城镇的形成来看，下列有关推断最有可能的是（　　）
A. 由草市逐渐发展而来
B. 由工商业市镇逐渐发展而来
C. 由夜市逐渐发展而来
D. 因特色农业经济逐渐发展而来

知识点三　“重农抑商”

7. 《吕氏春秋·上农》中记载：“民舍本而事末则不令，不令则不可以守，不可以战。”材料表明古代中国“抑商”的主要原因是（　　）
A. “事末”不利于国家安全
B. “重农”便于对百姓管理
C. “事末”会阻碍粮食生产
D. “重农”可维系安土重迁

8. **(2018·江西南昌十中高一期中)** 西汉初年，“豪强大家，得管山海之利，采铁石鼓铸，煮海为盐，一家聚众，或至千余人”。针对这种现象，西汉政府采取的措施是（　　）
A. 官营专卖　　B. 轻徭薄赋
C. 重视商业　　D. 劝课农桑

9. 据史料记载，明神宗派出大批税监到各地横征暴敛，几乎是“无物不税，无处不税，无人不税”，造成“商贾断绝，城邑罢市”；清朝“关津有过路之税，镇集有落脚之税”，正税之外，还有各种名目的苛捐杂税。上述情况在当时最主要的消极影响是（　　）
A. 影响了中外贸易的发展
B. 制约了农产品的商品化
C. 助长了土地兼并的现象
D. 阻碍了资本主义萌芽的成长

综合训练 ZONGHE

10. 阅读材料，完成下列要求。

材料一： 孙春阳在万历年间（1573～1619年）弃儒经商，他的商业信誉极好，明朝灭亡后，“有持万历间所发之钱券，往易货物，肆中人立付之，不迟疑”。

——选自《明清史散论》

材料二： 在繁花似锦的明代商业文化的背后，隐藏着不容忽视的虚假性。——如往酒中掺水，甚至妄称所卖的酒是陶渊明埋下的千年古酒，在鸡的肚中塞沙，往猪肉和鸡肉中注水，伪造古董和家谱等。

——选自《明清史散论》

材料三： 地方商帮在经营活动中，总结出许多谚语，例如“宁叫赔折腰，不让客吃亏”“售货无诀窍，信誉第一条”。

——选自《明清晋商的经营文化》

(1) 请你为上述材料确定一个较为恰当的历史主题。
(2) 指出上述材料反映了当时哪两种不同商业经营现象，并从经济文化方面简要分析其原因。
(3) 明清时期商帮出现的背景是什么？
(4) 依据以上材料，谈谈你对商业经营活动及其理念的认识。

关注微信公众号“教辅资料站”获取更多学习资料

学习札记

课后提能　再巩固　KEHOUTINENGZAIGONGGU　知识巩固提能力

时间：45 分钟　满分：100 分

一、选择题(本题共 12 小题，每小题 4 分，共 48 分)

1. 古代货币的形成与发展与古代商业的发展密不可分。下图由图一到图二的变化，充分说明了（　　）



图一 金属货币——圆形方孔钱　　图二 纸币——“交子”

A. 古代抑商政策的结束
B. 商帮出现后的垄断
C. 纸币方便携带，完全取代了金属货币
D. 商品经济的繁荣

2. **(2019·浙江选考)**“草市迎江货，津桥税海商”记录了唐朝民间商贸的景况。下列项中对其解读错误的是（　　）
A. 草市的作用已十分显著
B. 草市逐渐成为相对集中的地方商业中心
C. 草市已成为海外贸易的重要形式
D. 草市大多集中在水运方便的地方

3. **(2019·山东济宁高三模拟)**南宋时，明州(今宁波)港呈现出“城外千帆海舶风”“船舶往来，物货丰衍”的繁荣景象，当时有人称“贩海之商，无非豪富之民，江淮闽浙处处有之”。这说明当时（　　）
A. 经济重心开始南移　　B. 重农抑商政策弱化
C. 海上丝路贸易兴盛　　D. 民间长途贩运发达

4. 被誉为“山西紫禁城”和“华夏第一宅”的王家大院，包含三大建筑群，共有大小院落 123 座，房屋1 118间，面积共 45 000 平方米。类似王家“以商贾兴”的商人群体的出现，是明清时期商业活动的一大特色。下列说法有误的是（　　）
A. 明清时期晋商和徽商是最著名的商帮
B. 商帮主要指相同行业商人结成的商人群体
C. 商帮的出现与商品经济发展密不可分
D. 商帮以会馆、公所为联络、计议之所

5. **(2018·东北三省三校高三联考)**据《唐六典》载，长安城共有 114 坊，东市和西市各占 2 坊，每处坊、市皆有围墙。此外 110 坊以朱雀大街为界由万年县、长安县分半统辖。东西市共 4 坊中，亦有坊墙与其他居民区坊院隔开。正北面为唐朝中央机构所在地。这种布局体现了（　　）
A. 规模宏大的商业功能
B. 分化管理便于控制的理念
C. 儒家思想的政治追求
D. 政治以及军事中心的价值

6. **(2018·江西赣州十四县高一联考)**宋太宗时期，东京开始出现侵街现象，临街摆摊、坊中开铺屡屡发生，致使京城街巷狭小。宋真宗咸平五年，因街坊侵街现象严重，“诏开封府街司约远近置籍立表，令民自今无复侵占”。然而诏令有如一纸空文，权豪大户侵街现象仍是屡禁不止。这一现象说明（　　）
A. 草市墟市的繁盛促进城市功能的完善
B. 商品经济的发展冲击着城市管理制度
C. 中国古代城市管理制度上的欠缺和疏漏
D. 豪强地主势力的发展冲击着市坊制度

7. “我有一只小毛驴，我从来也不骑。有一天我心血来潮，骑着去赶集。我手里拿着小皮鞭，我心里正得意。不知怎么哗啦啦啦啦，我摔了一身泥。”儿歌中的“集”在宋代应属于（　　）
A. 城市　　B. 都市
C. 草市　　D. 夜市

8. 《齐民要术》自序：“盖神农为未耜，以利天下。尧命四子，敬授民时，舜命后稷，食为政首。……殷周之盛，《诗》《书》所述，要在安民，富而教之。”这段话主要强调（　　）
A. 儒家对农业的重视　　B. 改进生产工具的意义
C. 历法与农业的关系　　D. 农业技术的重要性

9. 甘蔗种植是清代赣南商品农业中重要的产业。同治《南康县志》载闽粤籍客户“嘉道以来，种植繁多，蔚与禾稼，核其岁入，几与闽粤争利广矣。”而在同一县志上却记载“若懋迁有无，虽十倍之利，宁弃弗顾，弃农作商，康人绝少。”以上史料不能表明（　　）
A. 重本抑末已内化为农民的思想观念
B. 甘蔗等经济作物的大量种植促进了商品经济的发展
C. 商品经济的发展冲击了重农抑商思想
D. 县志中商品经济的发展与当地人重农抑末思想相矛盾

10. **(2019·北京卷)**据《梦溪笔谈》记载，张咏任崇阳知县时，因“民不务耕织”而唯以植茶获利，遂下令将茶树全部砍掉，改种桑麻。有人入市买菜，他怒斥：“汝村民皆有土田，何不自种而费钱买菜?”这反映出，宋代（　　）
A. 官府垄断茶利，商业环境恶劣
B. 农副产品较少，货币使用率低
C. 地方官员固守重农抑商的思想
D. 商人社会地位较以往愈加低下

11. 春秋时期，齐国管仲主张“轻关市之征”；战国时期，秦国商鞅主张“市利之租必重”。两者主张不同的主要原因是（　　）

关注微信公众号“教辅资料站”获取更多学习资料

学习札记

A. 宗族利益不同　　B. 治国思想不同
C. 两国传统不同　　D. 直接目的不同

12. **(2019·全国卷Ⅱ)**研究表明，明代大商人的资本一般为白银数十万两，多者上百万两。到清代中期，大商人的资本一般在一百万两以上，甚至多达千万两。这表明清代中期　　(　　)
A. 商人的地位发生根本性改变
B. 重农抑商政策明显松弛
C. 商业活动的规模进一步扩大
D. 白银开始成为流通货币

二、非选择题(本题共2小题，第13题26分，第14题26分，共52分)

13. (26分)阅读材料，完成下列要求。

材料一：(明清时期)商业资本十分活跃，积累了百万乃至千万资金。全国各地出现了许多大小商人，他们在各地设会馆、公所、组织商帮。如山西商、徽商、江右商等。他们从事各种转贩活动……清代，山西票号商、两淮盐商、广东行商，富甲天下，山西庄氏号称数千万两。

——《简明中国经济史》

材料二：牙行是我国古代从事贸易中介的商业组织。明朝规定："选有资产的人户充任，官府颁发'牙帖'"。领帖者需交"帖费"和税银，统称牙税。明朝《长沙府志》记载："湘潭牙行获利逾千金"。明末清初，长沙城外的市镇成为商品集中收购的市场，牙人开始充当收购的中介人，牙行数量剧增，如粮食行、盐行、铁行等。牙行兴盛又带动了店铺的增加，1772年，城外各市镇共有门摊189家。

(1)材料一反映明清时期商业进一步发展的表现有哪些？(10分)

(2)材料二中牙行的兴盛反映了什么现象？牙行的兴盛对我国古代经济发展有怎样的推动作用？(16分)

14. (26分)阅读材料，完成下列要求。

材料一：宋人陈亮说："商藉农而立，农赖商而行。"

材料二：(雍正帝说)户口日繁，而土地止有此数，非率天下农民竭力耕耘，兼收倍获，欲家室盈宁，必不可得……朕观四民(士、农、工、商)之业，士之外，农为最贵。凡士工商贾，皆赖食于农……市肆之中多一工作之人，即田亩之中少一耕稼之人。

——光绪《大清会典事例》

材料三：1381年明政府规定："商贾止衣绢、布。农家有一人为商贾者，亦不得衣绸、纱。"1521年还规定："商贾、技艺之家器皿不许用银。"

——《明史·舆服志》

材料四：清代沿袭明制设置的钞关，大有增加……清代税关对商户缴税亦极为苛重，全国又缺乏统一税率，以致各关税吏敢于巧立名目，动辄以商人违反规定为由，没收财货……李仁龙奏称，关税害商，有单书之弊、盘货之弊、包揽之弊、关牙之弊、量船之弊等五弊。

——彭雨新主编《中国封建社会经济史》

(1)陈亮的观点是否正确？说明了什么？(6分)

(2)从材料二看，雍正帝提倡什么政策？依据是什么？(12分)

(3)根据材料三、四，概括明清时期重农抑商政策主要表现在哪些方面。(8分)

关注微信公众号"教辅资料站"获取更多学习资料

学习札记

第6课　近代前夜的发展与迟滞

课前预习 抓双基 KEQIANYUXIZHUASHUANGJI 夯基固本判一判

自主预习 ZIZHU

一、农耕经济高度发展

1. 农业

(1)农业生产技术处于世界领先地位。

(2)粮食产量提高：_____扩种，产量提高，_____、蕃薯等高产作物引进、推广。

(3)广泛植棉，民众_____结构发生重大变化。

2. 手工业：明中叶以来，_____已经取代了官营手工业，占据主导地位。

3. 商业：商品流通扩大，_____广泛使用，商业资本异常活跃。明中后期，在运河沿线、_____等地区一大批商业市镇兴起。

4. 国力的强盛：耕地面积扩大，人口增长；中国国内生产总值占世界生产总值的比重的年增长率远远高于整个欧洲地区。世界白银产量的一半流入_____，中国是当时世界经济和贸易的中心地区之一。

二、资本主义萌芽

1. 原因：社会生产力和商品经济的发展。

2. 产生：_____以后，在一些经济发达地区出现了新的工场手工业经营形式。

3. 表现

(1)苏州的工匠分“匠有常主”和临时工两种，已形成了_____。

(2)江西_____制瓷业分工极细，出现了民营手工工场。

4. 地位：发展缓慢，只是在江南等局部发达地区的一些生产部门中稀疏出现，其力量远不足以分解封建生产方式，_____在全国范围内仍占主导地位。

5. 阻碍因素

(1)耕织结合，_____的经济结构在全国范围仍居主导地位。

(2)官府的沉重剥削，导致农民极端贫困，_____极其低下。

(3)明清帝国的专制统治，如“_____”、矿禁等。

(4)限制经营、强制摊派、低价征购等“_____”政策的打击。

三、近代前夜的危机

1. 海禁政策

(1)原因：①_____势力的东来。统治者担心东南沿海人民与西方势力结合，会危害统治秩序。

②政府的狂妄自大，思想愚昧。

③根本原因：自给自足的_____经济占据统治地位。

(2)含义：严格_____对外贸易活动。

(3)影响：使中国日渐脱离世界发展大势，失去了利用国际贸易的优势开辟_____、刺激资本扩张、推进工业化的契机。

2. 结论：中西国力兴衰的易位大体定局，中国社会陷入深重的危机之中。

正误判断 ZHENGWU

1. 明中叶以来，私营手工业取代官办工场、作坊，占据了主导地位。(　　)
2. 明清时期，在江南地区兴起了大量工商业市镇。(　　)
3. 明朝中后期，资本主义萌芽在江南的纺织业中出现。(　　)
4. 明清时期的“海禁”政策阻碍了新的经济因素的成长。(　　)
5. 明清时期的“海禁”政策是“重农抑商”政策在对外关系上的体现。(　　)

课堂达标 点对点 KETANGDABIAODIANDUIDIAN 基础达标练能力

对点训练 DUIDIAN

知识点一　农耕经济高度发展

1. **(2019·浙江余姚高一质检)**有学者统计，中国1685年人口约为1亿，1767年约为2亿，1790年约为3亿，此间人口增长的重要因素来自新的作物从新大陆直接或间接传入中国。“新作物”最有可能是(　　)

A. 玉米和马铃薯　　B. 小麦和水稻

C. 马铃薯和小麦　　D. 水稻和玉米

2. **(2019·四川南充一中高三模拟)**有史书记载：明朝时期，浙江的棉纺织业出现“商贾从旁郡贩棉花列肆吾土，则小民以纺织所成，或纱或布，顷晨入市，易棉花而归，仍治而纺织之，明旦复持以易”。这段材料反映的本质问题是(　　)

A. 私营手工业占到主导地位

B. 商品经济已经渗透浙江农村

关注微信公众号“教辅资料站”获取更多学习资料

学习札记

C. 政府的抑商政策趋于松弛
D. 当地资本主义萌芽开始出现

3. (2019·四川南充一中高三模拟)此一时期，北方生产的棉花，水运卖至南方；南方织成的布，水运卖至北方。江苏松江的织造很有名，所需棉花多赖北方供给；安徽芜湖的浆染很有名，所用的原料则来自福建。这种情况的特点是什么？应该是哪个时期的现象　(　)
A. 运河贯通南北，应是唐代
B. 经济甚为繁荣，应是宋代
C. 商品区域分工，应是明代
D. 商业城市初兴，应是清代

知识点二　资本主义萌芽

4. 从经济的角度看，明清时期中国已经处于“近代的前夜”了。下面能说明这一结论的是　(　)
A. 租佃制经营方式的推广
B. 制瓷、矿冶等手工业技术均有较大进步
C. 苏州丝织业“小户听大户呼织”“计日受值”
D. 世界白银的一半流入中国，市面上大量使用白银

5. 据史书记载：万历年间，浙江嘉兴府崇德县石门镇有油坊二十家，“坊须数十人，间日而作。镇民少，辄募旁邑民为佣。其就募者，类赤身亡赖——二十家合之八百余人。一夕作，佣值二铢而赢”。该材料可以说明　(　)
A. 官营手工业丧失了主导地位
B. 万历年间已出现资本主义萌芽
C. 民营手工业中出现细密分工
D. 封建政府鼓励发展民营手工业

6. (2018·安徽屯溪一中高一期中)清初曾规定“一户所领之织机不得愈百张，以抑兼并，过则有罚”。反映的实质问题是　(　)
A. 清代机户生产能力有限
B. 清政府鼓励发展小型机户
C. 制度影响新经济因素成长
D. 清政府加强市场宏观调控

知识点三　近代前夜的危机

7. (2018·江西南昌十中高一期中)明朝曾有官员指出：“寇与商是同人，市通则寇转为商，市禁则商转为寇，始之禁禁商，后之禁禁寇，禁之愈严而寇愈盛……”对此理解正确的是　(　)
A. 寇与商都是日本人
B. 海禁加剧了寇患
C. 海禁的积极作用明显
D. 应加强海禁政策

8. 清朝实行“海禁”和“闭关锁国”政策给中国带来的最严重后果是　(　)
A. 禁止国人出海贸易，妨碍了海外市场开拓
B. 限制外商来华贸易，阻碍了中外经济交流
C. 避免受到外界影响，维护了封建专制统治
D. 长期与世隔绝，使中国落后于世界潮流

9. “明代‘海禁’政策的出台并不是单独出现的，而是与朝贡贸易一起出台的，并构成了明代天朝礼治天下的基本内容。明代‘海禁’政策的出台与发展很大程度上是消极地抗倭。”这表明明朝“海禁”政策的出台　(　)
A. 是明代朝贡贸易发展的必然结果
B. 是明代天朝礼治天下的要求
C. 受国际和国内形势发展的影响
D. 是明代资本主义萌芽发展的结果

综合训练 ZONGHE

10. 阅读材料，完成下列要求。

材料一：《苏州风俗考》记载的明代苏州纺织业情况是：“郡城之东皆习机业……工匠各有专能，匠有常主(机户)，计日受值……若机房工作减，此辈衣食无所矣。”

材料二：《吴县志》记载清代苏州情况是：“各账房除自行设机督织外，大都以经纬交与织工，各就织工居处雇匠织造，谓之机户。”

《清稗类钞》记载：“(账房)散放丝经，给予机户，按绸匹计工资。”

《风麓小志》记载：“小机户无甚资本，往往恃账房为生。”

材料三：《康熙松江府志》记载：“农暇之时，(松江)所出布匹，日以万计，以织助耕，女红有力焉。”

材料四：清雍正帝说：“农为天下之本务，而工贾皆其末也……唯在平日留心劝导，使民知本业为贵。”

(1)材料一反映出苏州纺织业的哪些社会现象？这些现象表明的本质是什么？

(2)材料二同材料一相比，有何异同之处？

(3)材料三反映出的现象与材料一、二反映出的现象是否相同？为什么？它对材料一、二反映出的社会现象会造成什么影响？

(4)材料四的观点对前面材料所反映出的历史现象会产生什么作用？

关注微信公众号“教辅资料站”获取更多学习资料

学习札记

课后提能 再巩固　KEHOUTINENGZAIGONGGU　知识巩固提能力

时间：45 分钟　满分：100 分

一、选择题(本题共 12 小题，每小题 4 分，共 48 分)

1. 明朝中后期，在江南地区出现了众多农民有目的的“迁业(改变原先从事的职业)”现象。据记载，在江、浙等地，大批劳动力由种田流入植棉、栽桑，纺纱织布，“尽逐绫绸之利”。农民“迁业”现象产生的主要影响是　(　)
A. 封建自然经济日益解体
B. 国家“重商”政策的确立
C. 农村经济结构发生改变
D. 手工业逐步成为主导产业

2. 清朝康熙皇帝在圣谕中说：“江浙百姓全赖湖广米粟。”同时，“松之为郡，售布于秋，日十万焉”，无锡“一岁所交易，不下数十百万。”这反映了　(　)
A. 粮食产量的提高　　B. 纺织规模扩大
C. 经济重心南移　　D. 商品经济发展

3. **(2018·山西太原高三二模)** 据测算，清顺治十八年，全国耕地总面积为 733 万顷，乾隆十八年已增至 993 万顷，嘉庆十六年又增至 1 051 万顷；从乾隆至道光年间，种植玉米的地区已扩展至 20 省 354 府州县。这些现象反映了　(　)
A. 清朝政府大力扶持垦荒
B. 中西经济交流日趋频繁
C. 传统农业转型动力不足
D. 种植结构发生根本变化

4. **(2018·湖南永州高三三模)** 史载，明代苏州孙春阳的南货铺“天下闻名……其为铺也，如州县署，亦有六房：曰南北货房、海货房、腌腊房、酱货房、蜜饯房、蜡烛房。售者由柜上给钱取一票，自往各房发货，而管总者掌其纲。一日一小结，一年一大结”。这反映出　(　)
A. 商铺受政府的直接监管
B. 商店经营管理比较完善
C. 商帮注重血缘亲族关系
D. 商人严格遵守道德规范

5. **(2018·四川成都外国语学院高一期中)** 苏州出土了一块明清时期的碑刻，记载了一起商标侵权案，“近有无耻之徒，假冒本堂牌记，或换字同音，混似射利，粘呈牌记，叩求示禁。”对材料理解较为合理的是　(　)
A. 出现资本主义萌芽　　B. 商品经济发达
C. 商业法律十分完备　　D. 劳资矛盾尖锐

6. 古代中国社会“凡民曰四，一曰士，二曰农，三曰工，四曰商”。明清之际，江南等地出现了“士商相混”的现象。这说明　(　)
A. 礼教束缚解除，传统观念转变
B. 启蒙思想产生，平等观念深入人心
C. 商品经济发展，等级观念淡化
D. 商人地位提高，传统社会结构解体

7. 史学家傅斯年认为，“历史研究应坚持有一分材料说一分话”。表中摘编自明清相关史志资料，显示了明清时期江南经济的主要变化。根据傅斯年的观点，此表可以证明　(　)

松江府	“壤地广袤不过百里而遥，农亩之人非能有加于他郡邑也。所由供百万之赋……全赖此(棉织)一机一杼”。
苏州府	“郡城之东，皆习机业。……计日受值”；盛泽镇“俱以蚕桑为业”。
嘉兴府	王江泾镇“多织绸，收丝缣之利，居者可七千余家……”
湖州府	“俗皆织绢”；“惟湖以蚕……官赋私负咸取足焉”；南浔镇“烟火万家”。

①商品经济发达　②纺织业在经济中占主导地位
③市镇经济繁荣　④资本主义萌芽产生
A. ①②　　B. ②④
C. ①③　　D. ③④

8. **(2018·天津和平区高三一模)** 1776 年亚当·斯密在《国富论》中说道：“中国向来是世界上最富的国家，也是土地最肥沃，耕作最精细，人民最多而且最勤勉的国家。然而，许久以来，它似乎就停滞了。今日关于中国……的报告，与 500 年前出游该国的马可·波罗的记叙比较，几乎没有什么区别……中国的财富就已完全达到了该国法律制度允许的发展程度。”亚当·斯密认为中国经济停滞的根源是　(　)
A. 农耕经济的落后　　B. 西方国家的侵略
C. 封建专制制度的束缚　　D. 沉重的人口压力

9. **(2018·天津十二重点高中高三联考)** 在福建抗倭的名将谭纶(1520～1577)说：“闽人滨海而居，非往来海中则不得食，自通番禁严，而附近海洋渔贩，一切不通，故民贫而盗愈起。”这表明谭纶主张　(　)
A. 实行闭关政策　　B. 开放海禁政策
C. 发展福建海洋渔业　　D. 采取抗倭安民政策

10. **(2018·江西九校高三联考)** 2018 年春节联欢晚会，展示了一幅国宝级名画——《丝路山水地图》，又名《蒙古山水地图》(下图为局部图)，该画绘于绢本之上，幅宽 0.59 米、全长 30.12 米，是一幅绘制于明朝嘉靖三年至嘉靖十八年(1524～1539)之间的皇家地图，它描绘了东起嘉峪关西至天方城(今沙特麦加)的辽阔地域范围，共画出了 211 个地理坐标，许多丝路上的重要城市在图上都有清晰的标注。对此以下说法最有可能的是　(　)

关注微信公众号“教辅资料站”获取更多学习资料

学习札记



A. 对海上丝绸之路已有较为准确的认识
B. 地图体现中国古代文人画的风格
C. 地图绘制技术体现“西学东渐”
D. 明朝实行海禁，陆上贸易有所发展

11. 明隆庆初年，“抚臣涂泽民用鉴前辙，为因势利导之举，请开市舶，易私贩而为公贩，易只通东西二洋，不得往日本倭国，亦禁不得以硝黄、铜、铁违禁之物夹带出海。奉旨允行，凡三十载，幸大盗不作，而海宇宴如。”这说明当时　（　）
A. 官府废止明初以来“海禁”
B. 官府有条件地开放“海禁”
C. 巡抚掌握对外贸易决策权
D. 官方朝贡贸易体系已瓦解

12. 明代以及清代有些时期，曾经短暂地实行所谓对外开放，但是限禁极为严格。如雍正时期虽曾一度“开闽省洋禁”“允许浙江一体贸易”，然而到乾隆二十二年（1757年）就又宣布关闭江浙闽三海关，限制外商只准在粤海关一口贸易。这种“开放”实质上　（　）
A. 完全开放民间贸易
B. 具有官方垄断的性质
C. 是商品经济发展的反映
D. 体现了重商主义政策

二、非选择题（本题共2小题，第13题26分，第14题26分，共52分）

13. （26分）历史学家李洵认为：“明代江南地区的‘士大夫’是16世纪以来中国历史上有特点的社会势力。他们凭借着江南地区发达的经济文化有利条件，通过各种途径获取政治上的功名，然后扩展经济实力，引领当时的社会风潮，在江南社会中扮演着极其重要的角色。”阅读材料，完成下列要求。

材料一：士大夫家多以纺绩求利。其俗勤啬好殖，以故富庶。……如华亭相（徐阶）在位，多蓄织妇，岁计所积，与市为贾。

——[明]于慎行《谷山笔麈》卷四

材料二：江南役重甲天下……祖父以役累中落。……启中举，尽免其役，家业复振。……（植蚕）与市为贾，骤富焉，市人多效之。

——《徐光启文集》卷十一

材料三：（松江）嘉、隆以来，豪门贵室，导奢导淫，博带儒冠，长奸长傲，日有奇闻叠出，岁多新事百端。……伦教荡然，纲常已矣。

——[明]范濂《云间据目抄》卷二

材料四：前明吾乡（苏州）富家甚多，席费千钱而不为丰，长夜流酒而不知醉。……有邻望，亦有田三十万亩，童仆三千人……而好讼致穷。

——[清]钱泳《登楼杂记》

（1）据材料一、材料二，概括江南士大夫致富的主要途径。（8分）
（2）据材料三、材料四，士大夫的活动引起了江南社会风气的哪些变化？（8分）
（3）有学者认为，明代江南士大夫既是资本主义萌芽的促进者，又是其阻碍者。请依据以上材料并结合所学知识阐释学者的观点。（10分）

14. （26分）**（2018·河南郑州高一期末）**阅读材料，完成下列要求。

材料一：宋代和国用关系较大的，倒还要推海路的贸易。太祖开宝四年，于广州置市舶司，后来又于杭、明州置司。元祐时，又置于泉州和密州的板桥。其法：海船载货来的，先十税其一，而香药和宝货两种货物，则必领卖给官，由官再发卖，其出海的商人，则雍熙中曾诏旨两浙市舶司，请给官券，违者没入其宝货。

材料二：对于海外的贸易，则元朝较宋朝，更为注意。市舶司共有七所，世祖初定江南时，沿海地方，到外洋去贸易的，其货都十分取一，出去的时候和回来的时候，所到的地方所买得的货物，都要由市舶司查验。至元二十年，始定抽分之法……其所获之息，以十分为率，官取其七，所易之人得其三而禁止人民到外国去买卖。

材料三：清朝的开海禁，是在公元1685年，于澳门、漳州、定海、云台山四处，都设立税关。公元1757年，只许在澳门一处……税则上、有名目的东西浮收的税要比正额加几倍，无名目的东西就更加横征暴敛没个遮拦。当时外国商人不准和人民以及普通商人直接买卖，一切货物却要卖给“公行”，再由公行卖给普通商人；1659年规定当时的外商，不做买卖不准到广东，做买卖的期限一年只有四十天，必须住在公行所代备的商馆里。要进禀帖，必须托公行代递，不得和官府直接接触。

——以上材料皆出自吕思勉《中国通史》

（1）根据材料一和材料二并结合所学知识，概括宋元时期对外贸易的共同点。（10分）
（2）根据材料三并结合所学知识，概括清朝海禁政策的特点。如何评价清朝的海禁政策。（16分）

关注微信公众号“教辅资料站”获取更多学习资料

学习札记

第二单元　工业文明的崛起和对中国的冲击

第7课　新航路的开辟

课前预习 抓双基 KEQIANYUXIZHUASHUANGJI 夯基固本判一判

自主预习 ZIZHU

一、东方的诱惑

1. 利益驱动

(1)_____的发展，使欧洲人渴望得到更多的贵重金属和来自东方的贵重商品。

(2)西欧的贵族和商人渴望另辟一条抵达东方的商路，发财致富。

2. 王权支持

各国君主依仗武力，强化_____、积极扩张。

3. 宗教扩张

_____为了传教，不惜使用武力进行“圣战”。

4. 技术进步

欧洲人在_____和航海技术方面的进步，为远洋航行创造了条件。

二、开辟新航路

1. 葡萄牙王室支持的探险活动

(1)1487年，_____率领三艘轻便帆船抵达非洲最南端的海角。

(2)1497～1498年，_____率船队从葡萄牙出发，绕非洲海岸到达印度，开通了东西方之间最短的海上航路。

2. 西班牙王室支持的探险活动

(1)1492年，_____率领三艘帆船抵达美洲。后来，又进行了三次西航。

(2)1519年，_____率领的船队历时三年，完成了人类历史上的第一次环球航行。

三、世界市场的初步形成

1. 新航路开辟对欧洲的影响

(1)各大洲之间建立了直接的商业联系，_____形成世界市场。

(2)欧洲的主要商路和国际贸易中心从地中海沿岸转移到_____沿岸。

(3)欧洲的资本原始积累速度大大加快。

2. 对美洲的影响

美洲的传统社会遭到灭顶之灾。但是，美洲金银矿的开采和种植园经济为欧洲的_____作出了重要贡献。

3. 对非洲的影响

新航路开辟后，非洲成为猎获黑人奴隶的场所。

4. 对亚洲的影响

欧洲殖民者最初只能在亚洲侵占一些大陆沿岸据点和岛屿，欧洲人用美洲的白银购买亚洲的商品。_____的大量流入也刺激了亚洲经济的发展。

5. 对整个世界的影响

自哥伦布时代起，全球逐渐形成了以_____为中心的世界经济体系，人类也由此从各民族分散孤立地发展开始走向整体世界。

正误判断 ZHENGWU

1. 最早进行新航路开辟的殖民国家是西班牙和英国。(　　)
2. 迪亚士开辟了一条绕过非洲到达印度的新航路。(　　)
3. 新航路开辟后，欧洲的主要商路和国际贸易中心从地中海沿岸转移到大西洋沿岸。(　　)
4. 新航路开辟后，最早进行黑人奴隶贸易的国家是葡萄牙。(　　)
5. 自哥伦布时代起，全球逐渐形成了以欧洲为中心的世界经济体系。(　　)

课堂达标 点对点 KETANGDABIAODIANDUIDIAN 基础达标练能力

对点训练 DUIDIAN

知识点一　东方的诱惑

1. **(2018·河南淇县一中期中)**“继哥伦布而起的探索新世界的西班牙冒险家，似乎都具有同一动机。……当这班冒险家到达一个未曾被发现的海岸时，首先调查的就是那里有没有金矿可以发现”该材料说明(　　)

A. 新航路开辟促进世界市场开始形成

B. 新航路开辟引发了价格革命

C. 新航路开辟改变了欧洲贸易的中心

D. 对财富的追求是新航路开辟的动力之一

2.《马可·波罗游记》一书中记载：“东方是金瓦盖顶，金砖铺地，门窗都是黄金装饰的，连河道里都有滚动的矿石，东方简直是一个灿烂辉煌的黄金世界，冒险家的乐园。”这最有可能产生的社会影响是(　　)

关注微信公众号“教辅资料站”获取更多学习资料

学习札记

A. 直接促成新航路的开辟
B. 为新航路的开辟提供了必要条件
C. 促使英国发动鸦片战争
D. 刺激了欧洲人到东方的“寻金热”

3. “我们废除了印第安人中间的盲目崇拜和其他令人憎恶的东西之后，上帝保佑了我们的努力，我们给男人、妇女和所有征服后出生的孩子施洗礼，要不然他们的灵魂可能已下到地狱。”材料说明了新航路开辟的（　　）
A. 经济因素　　B. 社会因素
C. 宗教因素　　D. 技术因素

知识点二　开辟新航路

4. 2009年10月，中国散货轮“德新海”号在印度洋塞舌尔群岛遭遇索马里海盗袭击，有人研究发现这一地区在15世纪末也曾出现过一个著名的“海盗”，他是（　　）
A. 迪亚士　　B. 达·伽马
C. 哥伦布　　D. 麦哲伦

5. 18世纪法国某地理学家如此评论地理大发现：一个极大的错误导致了一次极其伟大的发现。此处“伟大的发现”是指（　　）
A. 在葡萄牙王室支持下美洲新大陆的发现
B. 15世纪末至16世纪初哥伦布船队到达美洲
C. 达·伽马船队开辟到达印度的航线
D. 麦哲伦船队的环球航行

6. 1492年，哥伦布船队经过3个月的远洋航行，于同年10月12日到达美洲。此后，达·伽马于1498年开通了到印度的新航线，麦哲伦船队于1519～1522年实现了环球航行。这说明哥伦布发现美洲（　　）
A. 具有世界性历史意义
B. 加速了美洲的开发发展
C. 是一种殖民掠夺活动
D. 促进了欧洲经济的发展

知识点三　世界市场的初步形成

7. **(2018·山东曲阜师大附中期中)** 阅读并分析下图，其中导致英国麦价快速上涨的主要原因是（　　）

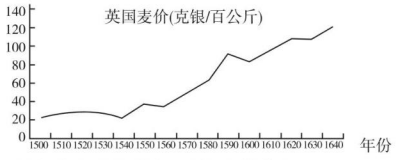

A. 新航路开辟所带来的“价格革命”
B. 国际市场对英国小麦的过度依赖
C. 英国在殖民争夺中取得初步胜利
D. 英国在与荷兰的贸易竞争中获利

8. “三角航程”持续了数百年，给非洲和美洲人民带来了巨大的灾难，但在客观上促进了世界市场的形成，主要是因为（　　）
A. 开始连通欧、亚、非三大洲的贸易
B. 刺激了美洲奴隶制种植园经济的畸形发展
C. 欧洲的剩余资本得以大量输出
D. 进一步促进世界各地的商品流通

9. **(2018·江西横峰、余干中学联考)** 15～17世纪，由欧洲通往印度新航路的发现、美洲的发现、环球航行的成功以及其他航海探险活动，圆满地解决了这个问题，使人类对地球的认识产生飞跃。这些事件的影响不包括（　　）
A. 世界开始成为整体　　B. 欧洲出现价格革命
C. 欧洲出现商业革命　　D. 欧洲封建统治加强

综合训练 ZONGHE

10. 阅读材料，完成下列要求。

材料一：葡萄牙人在非洲海岸、印度和整个远东寻找的是黄金；黄金一词是驱使西班牙人横渡大西洋到美洲去的咒语；黄金是白人刚踏上一个新发现的海岸时所要的第一件东西。

——恩格斯《论封建制度的瓦解和民族国家的产生》

材料二：两位陛下（指西班牙国王和王后）决定派我——克里斯托夫·哥伦布前往印度，以熟悉它的国土、人民和君主，了解它们的风俗习惯并带回如何能使它们皈依我国神圣宗教的经验，但不走通常的东行陆路，而走向西的海路。这条路，据我们所知，迄今尚无人走过。

——哥伦布《航海日志》

(1) 据材料一、二，分析新航路开辟的原因是什么。
(2) 结合所学知识，分析材料二中哥伦布为什么“不走通常的东行陆路，而走向西的海路”。
(3) 结合所学知识及以上材料，你怎样评价新航路开辟中的航海家？

关注微信公众号“教辅资料站”获取更多学习资料

学习札记

课后提能 再巩固 KEHOUTINENGZAIGONGGU 知识巩固提能力

时间:45 分钟　满分:100 分

一、选择题(本题共 12 小题,每小题 4 分,共 48 分)

1. 新航路开辟前,人类文明尚未超出地域的发展,不同区域文明之间的交流少,相互影响小。造成这一状况的主要原因是 (　　)
A. 人类对世界尚缺乏整体的了解
B. 不同文明的交往存在观念差异
C. 人类技术水平难以克服地理障碍
D. 缺少富有冒险精神的伟大航海家

2. 哥伦布说:"黄金是一切商品中最宝贵的,谁占有黄金,谁就能获得他在世上所需要的一切,同时也就取得把灵魂从炼狱中拯救出来,并使灵魂重享天堂之乐的手段。"这反映出 15 世纪的欧洲 (　　)
A. 东西方贸易开通　　B. 商品经济发展
C. 价格革命开始　　D. 出现了商业革命

3. 迪亚士认为,"(海上探险)是为了像所有的男子汉都欲做到的那样,为上帝和陛下服务,将光明带给那些尚处于黑暗中的人们。"该材料表明新航路的开辟者要传播 (　　)
A. 资本主义生产方式
B. 文艺复兴的人文思想
C. 基督教的教义
D. 启蒙运动的理性主义

4. 一位美国历史学家这样总结道:"在欧洲的海外扩张中最重要的人物不是哥伦布、达·伽马、麦哲伦,而是那些拥有资本的企业家们。"对这一观点最恰当的解释是 (　　)
A. 否认了航海家们的贡献
B. 企业家为航海活动提供了物质支持
C. 凸显了企业家的作用
D. 资本的发展和需求是海外扩张的根本原因

5. 葡萄牙国王曼努埃尔为庆祝某一事件,给自己加封了一个新头衔"几内亚之主,及对埃塞俄比亚、阿拉伯半岛、波斯和印度的征服、航海与贸易之主宰。"这一事件是 (　　)
A. 达·伽马船队抵达印度海岸
B. 哥伦布船队达到美洲大陆
C. 麦哲伦船队完成环球航行
D. 葡萄牙成为"海上马车夫"

6. 他(哥伦布)的抱负和思想"不仅反映出中世纪的衰落,也反映出理性主义和资本主义新时代的兴起"。但是,这对于印第安人则意味着 (　　)
A. "开启了可怕损失的历史"
B. "世界的发现和人的发现"
C. "开启欧洲人扩张与征服的英雄历史"
D. "大西洋变成了一座桥梁,一个启程之地"

7. "公元 1500 年前后,当西方进行海外扩张时,这种传统的地区自治便开始让位于全球统一。各个种族不再互相隔绝,因为成千上万的人自愿或不自愿地移居到新的大陆。"这段话表明 1500 年前后的世界 (　　)
A. 人口迁移都是被迫的
B. 各地联系逐步加强
C. 隔绝状态完全被打破
D. 逐渐走向政治一体化

8. 自上世纪 20 年代以来,在美洲大陆上,哥伦布纪念日便是纪念欧洲与美洲首次碰撞后,产生新的混血种族及其文化的节日,并被人们称为"种族之日"。这里纪念的是 (　　)
A. 发现新大陆的英雄
B. 开启美洲历史的新篇
C. 世界开始走向整体
D. 文明的交流与碰撞

9. 一位研究欧洲新航路开辟的历史学家说"早期地理大发现的进行是在中世纪的种种动机和设想的伴随下,独自开始的"。但其结果却超出了这种"动机"和"设想",主要表现在 (　　)
A. 实现了宗教扩张的目标
B. 促进了资本主义发展
C. 获得了巨额的财富
D. 到达了印度和中国

10. 观察下表,从近代化的角度看,此现象对西班牙和葡萄牙的影响是 (　　)

	1521～1544 年间每年平均	1545～1560 年间每年平均
西班牙、葡萄牙从美洲掠夺黄金	2 900 公斤	5 500 公斤
西班牙、葡萄牙从美洲掠夺白银	30 700 公斤	246 000 公斤

A. 确立世界霸主地位
B. 冲击旧的生产关系
C. 资本主义迅速发展
D. 实现了资本原始积累

11. **(2018·四川眉山一中期中)**16 世纪末西班牙物价飞涨,一般生活用品上涨了 4 倍多,粮食上涨了 5 倍多,在欧洲其他地区物价也上涨了 2 倍左右。这一现象导致了 (　　)
A. 西班牙成为世界霸主
B. 资产阶级实力上升
C. 封建主力量得到加强
D. 欧洲普遍陷入贫困

12. **(2019·康杰中学模拟)**有学者认为,明末以来,美洲的豆类、番茄、玉米、甘薯、辣椒等作物向中国、东南亚的广大地区传播,以其丰厚的产出和充足的营养支撑着众多的人口,打破了传统的粮

关注微信公众号"教辅资料站"获取更多学习资料

学习札记

食结构，引起“餐桌革命”。“餐桌革命”出现的主要原因是　　（　　）

A. 世界市场的形成　　B. 工业革命的开展

C. “商业革命”的影响　　D. 亚洲人口的膨胀

二、非选择题（本题共2小题，第13题26分，第14题26分，共52分）

13.（26分）阅读材料，完成下列要求。

材料一：授予我大西洋海军上将头衔，委任我为所发现和到达以及在我之后所发现所到达的一切岛屿与陆地的终身总督，我的长子将继承我的一切衔位并世代相传。

材料二：我可以向陛下承认，我不相信世上还有比他们更好的人，还有比此地更美丽的土地……他们可能成为很好的奴仆和驯服工具，陛下可以把他们当做自己的顺民，对其可随心所欲。这些人将来一定会变成基督教徒，一定能按西班牙王国的良好风俗加以驯化……构筑炮楼并把它作为力量的象征，这种做法是明智的，因为陛下属地如此遥远，印第安人也需要明了陛下的能力，这样他们就会更加崇拜我们的陛下，乖乖俯首听命。

——哥伦布到达美洲后写给西班牙国王的信

材料三：创世以来的最大事件，除造物主的降生和死亡之外，那就是发现了印度大陆。

材料四：当年哥伦布面对的毕竟是一块被人类以不同的方式使用着的土地，异样的文明在那片古老的土地上悠然滋长。假如当年哥伦布果真找到了通向印度的航路，步马可·波罗的后尘，从水路抵达了印度、中国、日本，难道也要赋予他“发现者”和推进“人类文明”的盛誉？在我看来，哥伦布应该是第一位将欧洲与美洲大陆以海上通道的方式联通起来的人，哥伦布吹响的是殖民者的进军号。

——《发现者还是殖民开拓者》

（1）根据材料一，判断哥伦布进行大西洋探险的真实目的是什么？（4分）

（2）根据材料二，判断哥伦布明确提出了一个征服美洲的什么战略？（4分）

（3）材料三和材料四各是如何评价哥伦布的美洲之行的？（6分）

（4）针对材料三、四对哥伦布的不同评价，你赞同谁的观点？请作出判断并说明理由。如果谁的观点也不赞同，不妨说说你的观点。（12分）

14.（26分）**（2018·全国卷Ⅰ）**阅读材料，完成下列要求。

材料：英国作家笛福创作的小说《鲁滨逊漂流记》出版于1719年，其中许多情节反映了世界近代早期的重大历史现象。小说梗概如下：

鲁滨逊出生于英国一个生活优裕的商人家庭，渴望航海冒险。他在巴西开办了种植园，看到当地缺少劳动力，转而去非洲贩卖黑奴。在一次航海途中，鲁滨逊遇险漂流到一座荒岛上。他凭借自己的智慧和力量，制造工具，种植谷物，驯养动物，经过十多年，生活居然“过得很富裕”。宗教信仰是支撑鲁滨逊的重要力量，且是“在没有别人的帮助和教导下，通过自己阅读《圣经》无师自通的”。后来，鲁滨逊救出一个濒临被杀的“野人”，岛上居民也有所增加，整个小岛都是他的个人财产。鲁滨逊获救回国后，还去“视察”过他的领地。

结合世界近代史的所学知识，从上述梗概中提取一个情节，指出它所反映的近代早期重大历史现象，并概述和评价该历史现象。（要求：简要写出所提取的小说情节及历史现象，对历史现象的概述和评价准确全面。）

关注微信公众号“教辅资料站”获取更多学习资料

学习札记

第8课　欧洲的殖民扩张与掠夺

课前预习　抓双基　KEQIANYUXIZHUASHUANGJI　夯基固本判一判

自主预习　ZIZHU

一、葡、西的早期殖民活动

1. 葡萄牙

(1)时间:16世纪。

(2)区域:从欧洲经非洲沿海到_____的海上贸易路线。

(3)方式:侵占军事据点、垄断_____、建立商站、进行欺诈性贸易。

2. 西班牙

(1)时间:16世纪。

(2)区域:在中、南美洲建立了一个庞大的殖民帝国。

(3)方式:掠夺金银,建立农业大庄园,发展_____经济。

二、"海上马车夫"

1. 崛起

(1)16世纪时,荷兰是欧洲经济最发达的地区之一。

(2)17世纪上半叶是荷兰海上贸易的黄金时代,取代了西班牙和葡萄牙成为世界头号贸易强国,有"_____"之称。

2. 方式

(1)殖民扩张与_____紧密联系,其贸易范围包括西北欧的海域贸易,以及对亚洲的远洋贸易和对西方新大陆的贸易。

(2)组建大型商业公司:_____。

三、英国殖民帝国的崛起

1. 方式

(1)海盗掠夺:英国的海盗掠夺行为得到了政府的鼓励,以至英国被称为"_____"。

(2)商业战争:17世纪,英国为了夺取贸易优势和更多的殖民地,进行了一系列商业战争。

(3)英国在殖民地的商业活动和掠夺,成为英国资本原始积累的重要来源。

(4)罪恶的_____贸易,是英国对外贸易的重要组成部分。

2. 结果

到_____下半叶,英国确立了海上霸主的地位,并且成为最大的殖民帝国。

3. 殖民扩张与掠夺的影响

(1)推动了_____的扩展。

(2)世界市场的格局也发生重大变化,到18世纪,大西洋_____突飞猛进,成为世界贸易的重心,促进了欧洲尤其是英国制造业的发展。

正误判断　ZHENGWU

1. 16世纪,西班牙凭借武力垄断了从欧洲经非洲沿海到亚洲的海上贸易路线。(　)
2. 16世纪上半叶,荷兰成为头号贸易强国,被称为"海上马车夫"。(　)
3. 组建大型商业公司是荷兰人在国际竞争中的重要手段。(　)
4. 被称为"海盗国家"的殖民国家是西班牙。(　)
5. 大西洋三角贸易指的是欧洲、西非和美洲之间的贸易。(　)

课堂达标　点对点　KETANGDABIAODIANDUIDIAN　基础达标练能力

对点训练　DUIDIAN

知识点一　葡、西的早期殖民活动

1. 15世纪中期到17世纪中期,被西方史学家称为"扩张的时代",主要原因是(　)
   A. 欧洲产生了资本主义萌芽
   B. 新航路开辟后,欧洲殖民者开始殖民霸权的角逐
   C. 东西方国家都进行了大规模的航海活动
   D. 狂热的宗教传播和宗教征服

2. 欧洲是世界上最早对外殖民的地区,第一个来到东方殖民,最后一个离开东方的国家是(　)
   A. 葡萄牙　　B. 西班牙
   C. 英国　　D. 荷兰

3. 1524年,西班牙人说:"以前我们在世界的边缘,现在在它的中央了,这给我们的命运带来了前所未有的改变。"对此理解正确的是(　)
   A. 西班牙已经成为世界商贸中心
   B. 西班牙走上发展资本主义的道路
   C. 西班牙成为殖民大帝国,掠得巨额财富
   D. 荷兰打败西班牙,掌握世界殖民霸权

关注微信公众号"教辅资料站"获取更多学习资料

学习札记

知识点二　“海上马车夫”

4. 17世纪前期，“欧洲的扩张在最初的伊比利亚阶段之后，因合股公司的激增而大大加强……这些新组织是经济动员和经济渗透的最有效的工具。”这种新的经济组织使　（　）
A. 荷兰一直长期领先于世界
B. 英国确立了海上霸主的地位
C. 中国开始陷入半殖民地半封建社会
D. 荷兰建立了遍布世界的商业殖民帝国

5. **(2018·黑龙江试验中学高一期中)** 十七世纪中期，它的造船业占当时世界的首位，商船吨位占欧洲总吨位的四分之三，在全盛时期曾得意洋洋地宣称：“挪威是他们的森林；莱茵河岸和加龙河岸是他们的葡萄园……。”材料中说的国家是　（　）
A. 西班牙　　B. 葡萄牙
C. 英国　　D. 荷兰

知识点三　英国殖民帝国的崛起

6. **(2018·南宁检测)** 对比下面两图分析，英国版图变化的主要原因是　（　）



图一 1429年英国版图



图二 1763年英国版图

A. 英国率先完成工业革命
B. 英国王权不断得到加强
C. 英国取得殖民霸主地位
D. 英国主导世界市场运行

7. 1663年英国颁布《主要产物法令》，其中规定：凡在欧洲各地出产或制造的物品，都必须先输送到英国，再用英国船从英国海港启程，才可以转运到美洲殖民地。此规定的主要目的在于　（　）
A. 加强与欧洲各国的联系
B. 打破西班牙贸易垄断
C. 获取垄断性的贸易利润
D. 遏制荷兰商业的发展

8. 英国历史学家J. R. 格林说：“七年战争是世界历史上的转折点，也是我国历史上的一个转折点。”对此理解正确的是　（　）
A. 英国获得法属北美殖民地，确立了其世界殖民霸主地位
B. 英国打败了西班牙“无敌舰队”，推动其商业资本发展
C. 工业革命的发生与发展，是这次战争胜利的重要基础
D. 战争胜利促成了“光荣革命”及君主立宪制的初步建立

9. 白种人主要分布在欧洲，但是到了近代，在北美洲、大洋洲，白种人成了当地的主要居民。造成这种现象的最主要原因是　（　）
A. 欧洲的殖民扩张　　B. 土著居民的减少
C. 种族之间通婚　　D. 战争难民涌入

综合训练 ZONGHE

10. 阅读材料，完成下列要求。

材料一：荷兰人由于缺少强大的王权和充足的人力资源，十分自然地选择了依靠商业贸易来积累财富，同时也积累着足以让自己强盛起来的竞争技巧和商业体制。

材料二：1558年伊丽莎白一世继承王位的时候……在一个刚刚被重新发现的世界面前，谁能抢到先机，接受新的思想，谁更快地打破旧有的价值观念，谁就会更快地变得富有和强大。

——《大国崛起》(解说词)

(1)依据材料一和所学知识，指出荷兰“强盛起来”的途径和结果。

(2)英国人凭借什么敢于对抗已经在海洋上驰骋了近百年的西班牙？

(3)你认为成为一个大国，需要具备什么条件？结合材料二，回答英国的异军突起给你什么启示。

关注微信公众号“教辅资料站”获取更多学习资料

学习札记

课后提能 再巩固　KEHOUTINENGZAIGONGGU　知识巩固提能力

时间：45 分钟　满分：100 分

一、选择题(本题共 12 小题，每小题 4 分，共 48 分)

1. 新航路开辟后，仅 1545～1560 年间，西班牙每年从新大陆就运回黄金 5 500 千克，白银 246 000 千克。在这次世界范围内的财富大转移过程中，西班牙和葡萄牙成为无可争辩的运输队，新崛起的荷兰、英国成为这次财富大转移的最终受益者。西、葡两国被喻为“运输队”是因为　(　)
A. 西、葡两国率先开辟新航路，垄断通往新大陆的航道
B. “海上马车夫”尚未崛起，西、葡两国运力大
C. 财富流入英、荷，为英、荷提供了资本原始积累
D. 西班牙的“无敌舰队”讨伐英国，遭到惨败

2. 1603 年，一位旅居西班牙的法国人说：“我在这里听到一个谚语：本地除白银外，所有东西都价格高昂。”之所以出现这一谚语，主要是因为西班牙(　)
A. 贵族阶层生活奢靡　B. 工商业发展迅速
C. 对殖民地疯狂掠夺　D. 矿产资源十分丰富

3. 17 世纪，当非洲、美洲、亚洲很多国家和地区正遭受掠夺和灾难之时，荷兰已通过创办养老院、孤儿院和救济院，举办医院，实行日常消费品低税政策等，过着富足的生活。荷兰这种兴盛局面出现的重要基础是　(　)
A. 成为“日不落”的殖民帝国
B. 击溃西班牙的“无敌舰队”
C. 发动对法战争并取得胜利
D. 开展商业贸易和海外殖民

4. 有经济史学家估算，16～18 世纪，荷兰与英国人均 GDP 年增长率均高于同时代的其他国家。这一时期荷、英经济的高增长均得益于　(　)
①资本主义世界市场的发展　②世界工厂地位的确立　③资本主义世界体系的建立　④海外殖民掠夺
A. ①②　B. ②③
C. ③④　D. ①④

5. “荷兰作为一个占统治地位的商业国家走向衰落的历史，就是一部商业资本从属于工业资本的历史。”对马克思的这段话理解正确的是　(　)
①文中的“工业资本”是指机器大工业确立后的工业资本　②导致荷兰衰落的直接因素是三次英荷战争的失败　③荷兰是一个专营海上转运贸易的商业国，工业基础薄弱，这是其成败的主要原因　④英国是工业相对发达的国家，其打败荷兰证明了工业资本对商业资本的优势
A. ①②③　B. ②③④
C. ①②④　D. ①②③④

6. 17 世纪上半叶，欧洲国家纷纷到亚洲进行殖民活动，引发了亚洲海上贸易格局的变化。对此，表述正确的是　(　)
A. 荷兰通过设立据点控制东亚海上商路
B. 英国打败法国垄断了对印度的贸易
C. 欧洲殖民扩张迫使中国放弃海禁政策
D. 世界贸易中心转移到西太平洋沿岸

7. **(2018·全国卷Ⅱ)**下图可以用来说明，奴隶贸易　(　)

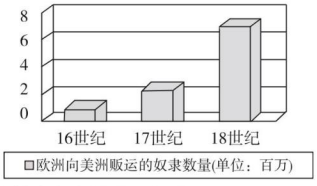

A. 是早期资本主义扩张的手段
B. 促成世界殖民体系最终确立
C. 导致“日不落帝国”的产生
D. 因白银开采的需要达到极盛

8. **(2019·吕梁检测)**下表反映了 1500～1800 年间欧洲主要国家商船抵达亚洲的数量。结合所学知识和表格信息可以得出的结论是　(　)

国家	数量(艘)		
	1500～1599 年	1600～1700 年	1701～1800 年
葡萄牙	705	371	196
荷兰	65	1 770	2 950
英格兰	—	811	1 865
欧洲合计	770	3 161	6 661

A. 16 世纪以来荷兰抵达亚洲的商船数量最多，被称为“海上的马车夫”
B. 17 到 18 世纪荷兰抵达亚洲的商船数量增长率高于英格兰
C. 18 世纪葡萄牙抵达亚洲的商船数量减少，转而致力于开辟新航路
D. 18 世纪英格兰抵达亚洲的商船数量增长迅速，有成为海上霸主之势

9. 经过两个世纪的争夺，英国最终战胜了法国，在 18 世纪中期成为世界上最大的殖民国家，这场争夺从实质上反映了　(　)
A. 先进国家对落后国家的胜利
B. 先进制度对落后制度的胜利
C. 英国“大陆均势”政策的胜利
D. 工业国对农业国的胜利

10. 马克思说过，只要英国人“把机器用于一个有煤有铁的国家的交通上”“就无法阻止这个国家去制造这些机器了”。对于这段话的最准确的理解是　(　)
A. 殖民活动在客观上传播了新的生产方式
B. 殖民活动的目的主要是帮助殖民地进行建设
C. 殖民活动在历史上的主要作用是建设性的
D. 殖民地国家应重视交通业的发展

关注微信公众号“教辅资料站”获取更多学习资料

学习札记

11. 很久以来，糖在欧洲只是作为药用并被视为一种舶来奢侈品，直到美洲被发现后，欧洲人在加勒比海地区大量种植甘蔗并加工制糖，这种情况才得以改变。由此推断在下表中，英国人均糖消费量与欧洲其他国家相比，呈现明显差异的主要原因是　　（　　）

人均糖消费量（磅）

区域 年份	欧洲（除英国外）	英国
1680	0.85	4
1750	1.90	10
1800	1.98	18

A. 新航路开辟之初英国率先进行殖民掠夺活动
B. 圈地运动促使了英国资本主义经济迅速发展
C. 英国逐步控制了海上霸权从而占据贸易优势
D. 率先完成工业革命促使英国生产力飞速提高

12. **（2018·江西赣州一中期末）**消费价格指数是反映消费品价格变动趋势和程度的相对数，价格越高，价格指数越大。下表是英国历史上消费品价格指数变化情况，形成表中价格指数变化的主要原因是　　（　　）

年份	1475	1521	1555	1558	1559	1595	1597
价格指数	100	167	270	370	400	515	685

A. 生产萎缩使产品供应越来越少
B. 贵族追求享受大量购买奢侈品
C. 殖民掠夺使金银输入越来越多
D. 工业革命在英国已经展开

二、非选择题（本题共 2 小题，第 13 题 26 分，第 14 题 26 分，共 52 分）

13. （26 分）阅读材料，完成下列要求。

从图一到图二，反映了新航路开辟前后国际贸易的变局。

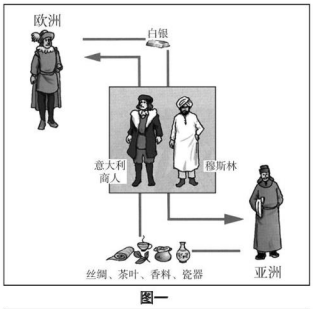

图一

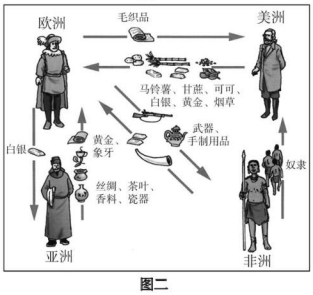

图二

（1）依据材料，概括新航路开辟前后国际贸易发生了哪些明显的变化。（14 分）

（2）材料中的变化给世界格局带来了怎样的影响？（12 分）

14. （26 分）**（2018·江西重点中学模拟）**阅读材料，回答下列问题。

材料：英国东印度公司创立于 1600 年，最初的正式全名是“伦敦商人在东印度贸易的公司”。它是由一群有创业心和有影响力的商人所组成。这些商人在 1600 年 12 月 31 日获得了英国皇家给予他们的对东印度的 15 年的贸易专利特许。

1698 年，东印度公司在加尔各答设立了贸易总部，把印度的粮食和工业原料，源源不断地运回英国，从中获取丰厚利润。随着公司实力增强，它在印度疯狂进行殖民掠夺，除了抢劫孟加拉国库外，还垄断鸦片、食盐和烟草贸易。1763 年法军被英国打败，其在印度的势力仅限于本地治里、马希等几个没有武装的贸易点，而东印度公司凭借训练有素的雇佣军（公司训练，由欧洲军官指挥，表面上是印度封建王公所拥有，实际上是为英国人服务的）从基地出发，不受任何其它殖民强国的影响，保障其从孟加拉到加尔各答的利益。与此同时，当地统治者依然反抗东印度公司的统治。公司通过武力压迫、挑拨离间、提供保护等手段有效地控制印度各公国的反抗，印度最终成为英国的殖民地，从世界上最繁荣富庶的地区之一，变成了一个被西方人鄙视的“落后国家”。

从 18 世纪 60 年代起，东印度公司开始走下坡路，1813 年，东印度公司对印度的贸易垄断权被取消，同年，英国政府又取消了它对中国的贸易垄断权，东印度公司走向了破产的道路。1858 年，东印度公司被英国政府正式取消。

——材料摘编自《百度百科：东印度公司》

（1）根据材料及所学知识，说明英国东印度公司兴起的背景及其对外侵略的特点。（12 分）

（2）根据材料及所学知识，概括英国东印度公司的性质，并评价该公司的兴衰历程。（14 分）

关注微信公众号“教辅资料站”获取更多学习资料

学习札记

第9课　改变世界的工业革命

课前预习 抓双基 KEQIANYUXIZHUASHUANGJI 夯基固本判一判

自主预习 ZIZHU

一、蒸汽时代的到来

1. 背景

(1)英国社会稳定,人口、资本自由流动,_____兴旺。

(2)随着海内外市场的不断扩张,各行业掀起技术革新热潮。

2. 过程

(1)_____首先出现了技术革新的连锁反应。飞梭的发明,提高了织布速度。18世纪60年代,织工_____和理发匠阿克莱特先后发明了手摇纺纱机(珍妮机)和_____,接着又出现了水力织布机等纺织机械。

(2)冶金、采矿等行业也出现一系列重大技术发明。

(3)瓦特改进的"_____",使人类进入到"蒸汽时代"。

(4)蒸汽机的使用,带动_____革命:①_____制成了火车机车、欧美掀起兴修铁路的热潮,人类迎来"铁路时代"。②以蒸汽为动力的_____的问世,加强了洲际之间的联系。

3. 影响

(1)生产力飞速提高,城市化进程加快,英国成为"_____"。

(2)欧美国家纷纷在政府主导下开展工业革命,纺织业和铁路业成为两个领先的部门。

二、进入电气时代

1. 开始时间:19世纪70年代到20世纪初。

2. 突出特点:_____成为技术进步最重要的推动力,一些重大发明直接来自科学家的实验室。

3. 主要成就

(1)电力的广泛应用,不仅从根本上改变了工业生产的面貌,还直接改变了人类的生活。世界开始进入"_____"。

(2)_____的发明与应用也是这一时期的重要成就。

(3)这一时期,新兴的_____取得显著发展。

4. 影响

一批新的工业部门兴起,旧的工业部门由于生产技术的改造而得到了飞跃发展、_____成为整个工业的主导。

三、工业时代的经济组织

1. 工业时代的经济组织

_____制度成为最普遍的生产组织形式。

2. 企业经营方式的变迁

(1)在工业时代早期:_____占多数,企业主既是资本所有者,又是企业经营管理者。

(2)第二次工业革命后:大企业时代到来。大企业往往由高级专业人才进行管理,开始将所有权与_____分离。

四、世界市场的最终形成

1. 时间:19世纪末20世纪初。

2. 主要表现

(1)19世纪最后30年,国际贸易额增长了3倍。

(2)_____输出,即对外投资规模不断扩大。

(3)欧美工业国可以从全世界范围内获取原材料和初级产品并倾销工业品或进行投资,它们中的一国发生经济危机会波及他国甚至影响全世界。

3. 世界市场的特点

以_____工业国为主导。

4. 形成途径

欧美工业国经常动用武力逼迫一些落后国家满足他们通商投资的要求,甚至直接实行殖民统治。

正误判断 ZHENGWU

1. 工业革命开始于18世纪中期英国的棉纺织业。(　　)
2. 瓦特改进的"万能蒸汽机"的应用标志着工业革命的完成。(　　)
3. 电力的广泛应用是第二次工业革命的一项标志性成就。(　　)
4. 第一次工业革命中,重工业成为整个工业的主导。(　　)
5. 19世纪末20世纪初,以欧美工业国为主导的统一的世界市场最终形成。(　　)

关注微信公众号"教辅资料站"获取更多学习资料

学习札记

课堂达标点对点 KETANGDABIAODIANDUIDIAN 基础达标练能力

对点训练 DUIDIAN

知识点一　蒸汽时代的到来

1.(2019·全国卷Ⅰ)工业革命前,英国矿井里使用蒸汽唧筒抽水。1765年,修理过唧筒的瓦特发明了一种单动式蒸汽机,后在工厂主的合作和资助下,终于改进制成"万能蒸汽机",并广泛使用到工业领域。该过程表明,第一次工业革命期间生产领域的主要发明创造　(　)

A. 源自于劳动实践
B. 依赖于科学理论的突破
C. 取决于资金保障
D. 得益于各阶层广泛参与

2.(2019·浙江选考)阅读下列示意图,结合所学判断,对此解读正确的是　(　)

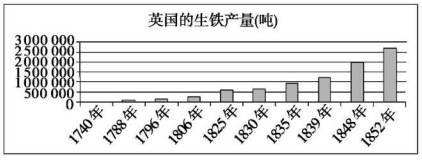

A. 生铁产量的增加与蒸汽机的广泛应用密不可分
B. 生铁产量的不断增加催生了大工厂制度
C. 电力的广泛使用推动了生铁产量的增加
D. 生铁产量的变化改变了英国产业结构和世界市场格局

3. 英国18世纪人口死亡率明显下降,但1816年以后死亡率上升。1831～1841年,工厂集中的伯明翰每千人死亡率由14.6上升到27.2,利物浦由21上升到34.8。导致上述情况发生的重要原因是　(　)

A. 城市环境极其恶化　　B. 化学工业污染严重
C. 人口膨胀食物短缺　　D. 医疗技术水平下降

知识点二　进入电气时代

4. 美国物理学家约瑟夫·亨利曾说:"19世纪历史的显著特点是,将抽象的理论应用于实用技术,让物质世界的内在力量为智慧所控制,成为文明人的驯服工具。"下列各项,与此观点相吻合的是　(　)

A. 西门子制成发电机
B. 哈格里夫斯发明珍妮纺纱机
C. 达尔文提出进化论
D. 史蒂芬孙发明蒸汽机车

5.(2018·安徽屯溪一中高一期中)《全球通史》记载:"工业研究的实验室,装备着昂贵的仪器,配备着对指定问题进行着系统研究的训练有素的科学家,它们取代了孤独的发明者的阁楼和作坊。"该描述现象下的发明成就是　(　)

A. 珍妮机　　B. 蒸汽机
C. 轮船　　D. 发电机

6.(2018·天津河西区高三一模)成立于1903年的福特汽车公司于1913年便开始使用标准化、专业化分工和流水线生产,从而使汽车普及并成为美国人重要的交通工具。福特汽车公司的成功主要得益于　(　)

A. 蒸汽机的发明
B. 内燃机的发明
C. "互联网+"时代的到来
D. 第二次工业革命的创新

知识点三　工业时代的经济组织

7. 亚当·斯密在《国富论》(1776年)中曾有如下描述:"一个人抽出金属丝,另一个人拉直,第三个人切断,第四个人削尖,第五个人打磨顶部做出头……用这种方法,做一枚别针的工序被分为18个单独的操作程序。"这主要反映了　(　)

A. 万能蒸汽机极大提高了社会生产力
B. 工厂制度下对劳动过程的合理组织
C. 工人独立完成生产的能力大幅下降
D. 手工工场中生产的复杂化和低效率

8. 铁路大王范·比尔特,石油大王洛克菲勒,钢铁大王卡内基,金融大王摩根及汽车大王福特,这些名震一时的美国富豪家族的崛起与下列哪一事件有关　(　)

A. 手工工场兴起　　B. 工厂制度建立
C. 垄断组织形成　　D. 股份公司出现

知识点四　世界市场的最终形成

9.(2018·江西南昌十中高一期中)下列关于资本主义世界市场初步形成的表述,错误的是　(　)

A. 工业革命是根本推动力,殖民扩张是基本手段
B. 打破了殖民地半殖民地落后的经济结构,客观上传播了先进的生产方式
C. 为资产阶级攫取更广阔的市场和更丰富的原料提供了便利
D. 以欧亚国家为主导,进一步打破了各大洲之间的相对孤立状态

综合训练 ZONGHE

10. 阅读材料,完成下列要求。

材料一:1765年机械师詹姆斯·瓦特改进了纽可门的蒸汽机,使之效率大为提高。1769年他获得第一个专利。随后,瓦特又不断改进,试制成功新一代的蒸汽机。

材料二:衣冠楚楚的绅士和淑女与衣衫褴褛的下层民众同挤一列火车,还得到处给人让路。保守人士惊呼,铁路会带来某种"平民化的危险"。民主人士拍手称赞:"我看到这列火车真高兴,我想封建制度是永远一去不返了。"

材料三:1835年法国思想家托克维尔对英国工业城市曼彻斯特评论道:"从这污秽的阴沟里泛出了人类最伟大的工业溪流,肥沃了整个世界,从这肮脏的下水道中流出了纯正的金子。人性在这里获得了最为充分的发展,也达到了最为野蛮的状态;文明在这儿创造了奇迹,而文明人在这儿却几乎变成了野蛮人。"

(1)根据材料一分析,蒸汽机出现之前,人类使用的动力主要有哪些?蒸汽机的出现带来什么影响?

(2)根据材料二分析,铁路运输的产生与发展产生了哪些重要影响?

(3)根据材料三并结合工业革命的有关知识,谈谈你对这段话的理解。

关注微信公众号"教辅资料站"获取更多学习资料

学习札记

课后提能　再巩固　KEHOUTINENGZAIGONGGU　知识巩固提能力

时间：45 分钟　满分：100 分

一、选择题(本题共 12 小题，每小题 4 分，共 48 分)

1. 15 世纪，英国的商人对农村中凡是能够取得收入的产业包括耕地、牧场、园林、码头、磨坊等都感兴趣。在年景好时，土地收益比经商所得低不了多少。到 17 世纪商业资金的主要投向则是商业、海上探险与殖民地开拓以及工矿企业。这反映了 17 世纪英国　(　)
A. 农业已经衰落
B. 商人成为了英国资产阶级的领导力量
C. 商业资金有利于英国的社会转型
D. 英国开始具备资本主义发展的条件

2. 下图是 18 世纪七八十年代输入英国的原棉重量变化示意图，导致这种变化的主要原因是　(　)

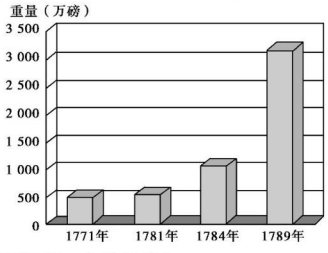

A. 英国纺织工人数量增加
B. 第二次工业革命的来临
C. 棉纺织领域的发明创造
D. 工人手工纺纱速度提高

3. **(2018·江苏卷)**近代的机器与其说是需要的结果，不如说是被迫无奈时有意的发明产物。因为棉布紧俏发明了新式纺纱机和织布机，因为机械动力不足而改良了蒸汽机。这表明，工业革命时期的技术革新　(　)
A. 源于人们生活中的无意发现
B. 着力解决生产中的迫切问题
C. 推动垄断组织的产生与发展
D. 体现科学与技术的密切结合

4. **(2019·四川成都实验中学高三模拟)**英国工业革命从哈格里夫斯的珍妮纺纱机到卡特莱特的水力织布机、再到瓦特的改良蒸汽机，经历了“纺纱—织布—动力”的机器发明和应用的递进阶段。这种“递进”反映出　(　)
A. 科学理论的突破　　B. 思想文化的进步
C. 政府措施的激励　　D. 工业革命的深化

5. 19 世纪早期法国思想家傅立叶说：“任何一个劳动者都由于个人利益而与群众处于斗争状态，对群众不怀好意。医生希望自己的同胞患寒热病，律师则希望每个家庭都发生诉讼；……在文明制度的经济体系中，每一个人都这样处在蓄意与群众斗争的状态中。”这种现象表明　(　)
A. 社会转型中人们精神的扭曲
B. 经济危机中社会秩序的混乱
C. 工业革命加剧人们私利观念
D. 资本家对剩余价值无限追求

6. 从 18 世纪起，欧洲主要国家因为“纺织机器、采矿、炼铁设备和交通工具的改造或发明”，所以“19 世纪的人口大量集中到城市，并且产生各种新问题”。这段叙述从“因为”到“所以”之间，至少要增加哪一段论述，才能使前因后果关系完整　(　)
A. 新型工厂制度的产生
B. 自由放任的经济政策兴起
C. 马克思阶级斗争理论的影响
D. 传统精密制造业吸引投资意愿

7. **(2017·全国卷Ⅰ)**综合下表可知，在工业革命期间，英国　(　)

英国国民总收入变化表

年份	约 1770	约 1790～1793	约 1830～1835
数额（百万英镑）	140	175	360

英国工人实际工资变化表(即按实际购买力计算的工资，1851 年为 100。)

年份	1755	1797	1835
指数	42.74	42.48	78.69

A. 工人实际收入与经济发展同步增长
B. 经济快速发展依赖于廉价的劳动力
C. 工人生活整体上没有改善
D. 社会贫富差距进一步拉大

8. 欧洲资本主义的发生与发展大致经历了资本原始积累、自由资本主义和垄断资本主义三个阶段，每个阶段的对外经济扩张方式各有侧重，以下能对应的是　(　)
A. 商品输出→资本输出→早期殖民
B. 早期殖民→资本输出→商品输出
C. 早期殖民→商品输出→资本输出
D. 商品输出→早期殖民→资本输出

9. 据学者估计，在 1750～1800 年间，“已开发世界”(欧美地区)的人均国民生产总值与“第三世界”国家大致相当；但到 1880 年代，“已开发世界”国家的人均收入大约是后者的两倍，1913 年，更达到三倍。造成这一变化的主要原因是　(　)
A. 两次工业革命的推动
B. 西方列强的殖民掠夺
C. 欧美资本主义的确立
D. 世界市场的最终形成

10. **(2018·黑龙江试验中学高一期中)**“这些新工业部门中的大企业具有较高的劳动生产率，他们在竞争中往往居于十分有利的地位，使中小企业被他们排挤和吞并，这些新技术和新部门的出现又进一步加剧了企业间的兼并现象，促使生产和资本的进一步集中。”材料反映的本质问题是　(　)

关注微信公众号“教辅资料站”获取更多学习资料

学习札记

A. 新工业部门发展迅速
B. 生产竞争日趋激烈
C. 垄断组织的不断扩大
D. 工厂规模不断膨胀

11. **(2018·浙江余姚高一期中)**第二次工业革命推动了世界一体化的进程。其主要内容有　(　)
①自由主义原则的确立　②物资和物种交流
③人口迁徙与种族融合　④各种文化的交流与撞击
A. ②③④　　B. ①③④
C. ①②④　　D. ①②③④

12. **(2018·山东聊城高三二模)**读1800～1914年部分国家城市人口占总人口比例变化表

	1800年	1914年
英国	40%	80%
法国	25%	45%
德国	25%	60%

推动上表中城市人口占比变化的主要因素是(　)
A. 自由放任政策日益盛行
B. 工厂规模扩大并逐渐集中
C. 交通运输条件明显改善
D. 城乡之间的差别日益扩大

二、非选择题(本题共2小题,第13题26分,第14题26分,共52分)

13. (26分)在史学研究中,人们对同一历史事件由于不同的史观,如革命史观、唯物史观、全球史观、欧洲中心史观等,就会产生不同的认识,关于工业革命起因的研究即为一例。阅读材料,完成下列要求。

材料一:欧洲不是靠自身的经济力量而兴起的,当然也不能归因于欧洲的理性、制度、创业精神、技术、地理——简言之,种族的"特殊性"(例外论)。我们将会看到,欧洲……分沾了亚洲的生产、市场和贸易的好处——简言之,从亚洲在世界经济中的支配地位中谋取好处。欧洲从亚洲的背上往上爬,然后暂时站到了亚洲的肩膀上。

——弗兰克《白银资本》

材料二:"生态缓解"这一概念,在波梅兰茨的用法中,指的是英国从新大陆(美洲)获得大量"土地密集(Land intensive)"的产品(如糖和棉花),从而缓解了英国自身的人口对土地的压力。……食品、燃料、纤维和建筑材料——均要占用土地来生产。当纺织机械的革命新增加了对于棉花纤维的需求后,必相应减少了食品、燃料和建筑材料所能占用的土地(假定棉花由英国本土生产),从而提高了食品和燃料的价格。当食品和燃料的价格高于工资后(这的确在18世纪欧洲的大部分地区发生了),纺织业的技术革新也无法使工业革命持续下去,因为此时更多的土地和人力必须投入到马尔萨斯的四项必需品的生产中去,可见,孤立的技术革新无法形成持续的工业革命。美洲新大陆提供的"生态缓解"是英国工业革命的关键因素。

——崔之元《生态缓解、奴隶制与英国工业革命》

材料三:持续的工业进步背后是欧洲特有的文化条件的结果。……工业革命从根本上说主要是一种社会文化现象,而不是纯粹的技术现象。这已经变得一目了然了。人们注意到,最先工业化的国家是那些与英国的文化和社会最相似的国家。

——奇波拉《工业革命前欧洲的社会与经济》

(1)根据材料一,指出欧洲经济力量兴起的因素。"欧洲从亚洲的背上往上爬"又是通过什么途径?(10分)
(2)概括材料二中美洲大陆的"生态缓解"为英国工业革命提供的有利条件。(6分)
(3)根据材料三并结合所学知识,指出英国哪些社会现象促进了工业革命的发生。(6分)
(4)材料一、二主要体现了哪种史观?这种史观在认识工业革命的起因上有何特点?(4分)

14. (26分)阅读材料,完成下列要求。

材料一:现代世界的南北分裂、贫富悬殊,其历史根源可追溯到大约公元1500年之后的几个世纪。在这几个世纪,西方探险家和资产阶级奔走于世界各地,把相互隔绝的区域紧密联系在一起,逐渐形成了一个世界性的市场。世界市场的形成,极大地促进了人类文明的进步与发展……为获取资源与市场,工业文明的先导国家以枪炮打开了地球上一切民族和国家的大门,迫使一切后进民族走向工业化之路。

材料二:火车、轮船、电报等新式交通工具和电讯器材的出现,把世界各地的生产、流通和消费紧紧联结在一起。1869年苏伊士运河通航,使欧洲到印度的航路缩短了4 000英里。1914年竣工的巴拿马运河则使旧金山到利物浦的航程近了5 666英里。轮船的不断更新使航速大大提高,欧美航程从42天缩短为5天,从伦敦到加尔各答由3个月减为18天。此外跨洲铁路的修建,加强了洲际联系。有线电报、电话和无线电报的普及,使世界通讯网络得以形成。

(1)根据材料一及所学,概述世界市场的形成过程。(10分)
(2)材料一中"世界市场的形成,极大地促进了人类文明的进步与发展",你同意其观点吗?请说明理由。(8分)
(3)根据材料二,简要概括促成资本主义世界市场最终形成的主要科技进步成果。(8分)

关注微信公众号"教辅资料站"获取更多学习资料

学习札记

第10课　近代中国社会经济结构的变动

课前预习　抓双基　KEQIANYUXIZHUASHUANGJI　夯基固本判一判

自主预习　ZIZHU

一、经济结构的变化

1. 传统经济结构：小农经济占统治地位，特点是_____、自给自足。

2. 小农经济的逐渐解体

(1)原因：_____后，外国商品的大量涌入。

(2)表现

①农民和_____纷纷破产。

②农产品大量出口，减少了自给成分。

3. 影响

(1)中国逐渐依附于世界_____，沦为列强的商品市场和原料产地。

(2)改变中国的社会结构：_____阶层兴起。

二、洋务运动与官办企业

1. 兴起：19世纪50～60年代，清政府内部的有识之士发起旨在“_____”“_____”的洋务运动。

2. 概况

(1)1861年，曾国藩创办了中国第一家官办的军用企业——_____。

(2)1862年，中国人自行设计制造的第一台实用蒸汽机在安庆内军械所问世，标志着中国_____的起步。

(3)1865年，_____在上海创办的江南制造总局，是当时国内规模最大的一所官办军用企业。

(4)在19世纪_____年代，洋务派提出了“富强于富”的口号，开始创办民用工业。

(5)1881年投产的开平煤矿是中国第一个使用机械开采的煤矿。

3. 评价

(1)存在许多问题，未能真正达到“自强”“求富”的目的。

(2)对中国的早期_____起到了推动作用。

三、民族工业的出现和艰难发展

1. 出现

(1)时间：19世纪_____年代前后。

(2)原因：_____和洋务企业的刺激。

(3)代表：_____、广东继昌隆缫丝厂、天津贻来牟机器磨坊。

2. 初步发展

(1)时间：甲午战争后至20世纪初。

(2)原因

①清政府放宽对民间设厂的限制，并设立_____、奖励工商。

②社会上兴起_____的热潮，涌现出张謇、_____等实业家。

③中国人掀起_____运动，引发振兴实业的高潮。

3. 特点

(1)主要集中在轻工业领域，如棉纺织业。

(2)步履维艰，发展艰难。

①原因：列强利用资金、技术优势和_____进行压制；清政府高额征税，敲诈勒索。

②结果：民族工业依赖于外国资本主义和_____才能发展。

正误判断　ZHENGWU

1. 鸦片战争后，在外国商品的冲击下，传统的经济结构发生了变化，小农经济完全解体。(　　)
2. 洋务运动的目的是“自强”“求富”。(　　)
3. 19世纪70年代前后，在中国传统资本主义萌芽的基础上，中国民族资本主义产生。(　　)
4. 甲午战争后，清政府放宽了对民间设厂的限制，中国民族资本主义迎来了发展的春天。(　　)
5. 20世纪初，中国人民掀起了收回利权运动，引发了振兴实业的又一个高潮。(　　)

课堂达标　点对点　KETANGDABIAODIANDUIDIAN　基础达标练能力

对点训练　DUIDIAN

知识点一　经济结构的变化

1. **(2018·新疆乌鲁木齐高三二模)**下表为1840年前、1894年国产粮食商品量、值估计，这从侧面反映出(　　)

	国产粮食商品量		国产粮食商品值
	亿斤	占产量(%)	万两
1840年前	233.0	10.0	15 533.3
1894年	372.5	15.8	37 250.0

A. 农业生产有了长足进步

B. 农产品商品化程度不断提高

C. 自然经济逐步走向解体

D. 社会经济结构发生巨大变化

2. **(2018·江西赣州十四县高一联考)**光绪年间的一本书描绘当时的上海“百货阗(充满)集”“西人所购者，以丝茶为大宗”“其售于华者，呢、布、羽毛等物，销亦不细(销售量也不少)”。这反映出(　　)

A. 中国“闭关锁国”局面开始被打破

B. 民族工业集中于上海

C. 中国卷入了资本主义世界市场

D. 上海成为国际大都会

关注微信公众号“教辅资料站”获取更多学习资料

学习札记

知识点二　洋务运动与官办企业

3. 近代中国，面对西方工业文明冲击，有识之士意识到，在机器竞争时代，“多机器则强，少机器则弱”。于是纷纷兴办实业，中国工业化开始艰难起步。起步的标志是（　　）
A. 鸦片战争　　B. 太平天国运动
C. 洋务运动　　D. 辛亥革命

4. 2013年《财富》杂志关于中国企业社会责任百强榜发布，中国远洋控股股份有限公司再度蝉联榜首。回顾历史，早在1861年安庆内军械所一类企业的创办在当时所承担的“社会责任”是（　　）
A. 学习西方政治体制，镇压国内农民起义
B. 首倡在中国发展资本主义以维护清朝的封建统治
C. 利用西方先进生产技术强兵富国以维护清朝的封建统治
D. 破除对民间设厂的限制，开实业救国之先河

5. “中国内江外流之利，几被洋人占尽，且海防有轮船不能逐渐布置，必须劝民自置，无事可以运官粮客货，有事可以裁援兵军火，解商民之困，而作自强之气。”出于这种考虑，洋务派决定（　　）
A. 创办军事企业　　B. 创办民用企业
C. 派遣留学生出国　　D. 创办近代海军

6. **(2018·湖南十四校高三联考)** 1879年以前，福州船政局所造之船均“派拨各省，并不索取原价分文”；此后造船所用材料费由用船方拟付，采取“协造”方式生产。这种变化反映了（　　）
A. 军用工业由官办转为商办
B. 洋务企业遇到了经费问题
C. 军工产品市场化趋势明显
D. 近代轮船制造业走出困境

知识点三　民族工业的出现和艰难发展

7. **(2018·新疆高三二模)** 1866年由铁匠方举赞和孙英德合作创办的发昌机器厂，实际是为外商船坞打造修配船用零件的打铁作坊；至1890年，该机器厂已拥有车床10多台，可容纳200名工人。这家工厂迅速发展的主要原因是（　　）
A. 清政府的鼓励和支持
B. 工人技术水平的提高
C. 国外消费市场的扩大
D. 生产经营方式的转变

8. **(2018·浙江余姚高一期中)** 发昌机器厂、继昌隆缫丝厂、大生纱厂、保兴面粉厂等企业（　　）
A. 都是中小地主投资兴办的企业
B. 都是私人建立的资本主义企业
C. 都是洋务派的官办企业
D. 都是近代民族工业初步发展的表现

9. 下图反映了民族资产阶级的两面性，决定其两面性的根本因素是（　　）



A. 由封建地主、商人转化而来
B. 半殖民地半封建社会历史条件决定
C. 民族资产阶级资金少、力量薄弱
D. 在中外反动势力的夹缝中发展

综合训练 ZONGHE

10. 阅读材料，完成下列要求。

材料一：《马关条约》“允许日本在中国通商口岸开设工厂”。

材料二：“……多设织布、纺绸等局，广为制造……”
——1895年清政府发布的上谕

材料三：1895年，大生纱厂正式在通州城西的唐家闸陶朱坝破土动工，次年大生纱厂建成。……1907年，又在崇明久隆镇（今属启东市）创办大生二厂……随着资本的不断积累，张謇又在唐家闸创办了广生油厂、复新面粉厂、资生冶厂等，逐渐形成唐家闸镇工业区，同时，为了便于器材、机器和货物的运输，在唐家闸西面沿江兴建了港口——天生港，以后，天生港又兴建了发电厂……使天生港逐步成为当时南通的主要长江港口。……南通成为我国早期的民族资本主义工业基地之一。
——《张謇1895》

(1) 根据材料一、二，分析民族资本主义初步发展的原因有哪些。
(2) 根据材料三，分析张謇把企业设在哪里。主要投资的都是什么行业？
(3) 依据材料和所学知识，分析中国近代的民族工业面临着怎样的尴尬境地，使得其发展缓慢。

关注微信公众号“教辅资料站”获取更多学习资料

学习札记

课后提能　再巩固　KEHOUTINENGZAIGONGGU　知识巩固提能力

时间：45 分钟　满分：100 分

一、选择题(本题共 12 小题，每小题 4 分，共 48 分)

1. **(2018·四川成都外国语学院高一期中)**马克思曾经说过："依靠武力迫使清政府签订的《南京条约》，在促进英国对华出口贸易方面，没有发生丝毫影响"。影响这种出口贸易障碍的主要原因是　(　　)
A. 英国工业生产产量不足
B. 中国传统社会经济结构
C. 中国通商口岸数量过少
D. 英国的产品有质量问题

2. 鸦片战争前后，江南的经济重心从苏州渐移到上海，地方人士慨叹苏州曩时列肆如栉，货物填溢，楼阁相望，"今则轮船迅驶，北自京畿、南达海徼者又不在苏而在沪矣。"导致苏州和上海地位更替的最重要的经济因素是　(　　)
A. 苏州传统棉纺织业的衰落
B.《南京条约》签订后上海开埠通商
C. 运河贸易被海运彻底取代
D. 太平天国运动沉重打击苏州经济

3. 19 世纪 60 年代，江浙地区出现了"蚕事乍毕丝事起，乡农卖丝争赴市……番舶来银百万计，中国商人皆若狂……遂使家家置纺车，无复有心种菽粟"的现象。它反映出　(　　)
A. 资本输出成为列强侵华的主要手段
B. 开埠通商促进了江浙地区民族工业的发展
C. 中国对外贸易由入超变为出超
D. 市场扩大刺激了江浙地区丝织业发展

4. **(2018·宁夏银川一中高三一模)**轮船招商局最初由旧式沙船商人出身的朱其昂主持，招股困难重重，而买办唐廷枢、徐润接手以后，短时间内即招足 100 万股本；上海织布局在郑观应入局之前后，其局面之不同也与之同类。这说明　(　　)
A. 洋务运动一定程度推动了中国近代化
B. 民族资产阶级兴起于近代官办企业
C. 买办阶层一定程度上代表先进生产力
D. 实业救国已成为近代民族思想主流

5. **(2018·天津河西区高三一模)**同治十三年，李鸿章在《筹议海防折》中写道："臣近于直之南境磁州山中议开煤铁，饬津、沪机器局委员购洋器、雇洋匠，以资倡导，因为铸造军器要需，亦欲渐开风气以利民用也。"下列行动符合其思想主张的是　(　　)
A. 兴办汉阳铁厂　　B. 设立发昌机器厂
C. 筹建北洋水师　　D. 创办江南制造总局

6. 读下图，下列对该图解读正确的是　(　　)



1872~1894年中国境内近代工业统计图

A. 外国人在华开设工厂合法化
B. 民族资本力量相对弱小
C. 民族工业发展得到政府大力支持
D. 中国自然经济完全解体

7. **(2019·全国卷Ⅰ)**表　川沙县部分名人简历表

黄彬	国学生，干练有才，上海招商局创办时，章程皆其手订。
朱纯祖	监生，幼时孤苦伶仃，学习米业，中年创设朱丽记花米行。
姚光第	南邑生员，感于地方贫瘠日甚，就其家设机器轧棉厂。

上表是 19 世纪末 20 世纪初毗邻上海的川沙县部分名人的简历，说明当时国内　(　　)
A. 科举取士转向选拔实务人才
B. 传统社会结构受到冲击
C. 儒家的义利观念被抛弃
D. 新式工业在经济中居于主导

8. 一位英国人说过，中国多织一匹布，英国就会少销一匹，因而"机器不宜进中国"。这段话反映的本质问题是　(　　)
A. 中英纺织品贸易矛盾
B. 中英机器进出口矛盾
C. 中英争夺商品销售市场
D. 中英贸易入超激化矛盾

9. **(2019·安徽马鞍山高三质检)**据统计，1904～1908 年，政府登记在册的近代中国公司有 227 家，到 1912 年，运作的中国公司已有 20 749 家。其中绝大部分是小型或中型企业，只有 750 家公司雇工超过 100 人。材料主要表明　(　　)
A. 民族企业在前行中仍有不足
B. 外国资本制约民族工业发展
C. 新政成为民族工业发展主因
D. 近代工业先天不足后天畸形

10. 下图反映了 19 世纪 60～80 年代中国棉布、棉纱进口的变化，能够对这一变化做出合理解释的是　(　　)

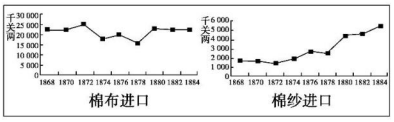

A. 民族工业的产生与发展
B. 列强暂时放松经济侵略
C. 自然经济的顽强抵抗
D. 中国沦为世界市场的附庸

11. 1907 年，张謇在崇明建成大生分厂，并向商部申请了"二十年内、百里之内不准别家纺纱厂"的特权。据此可知　(　　)

关注微信公众号"教辅资料站"获取更多学习资料

学习札记

A. 大生纱厂将迎来“短暂春天”
B. 大生集团存在潜在危机
C. 政府试图缓解民族工业困境
D. 张謇投身实业热情高涨

12. 中国近代某企业“仅有丝车一百零四部，各项机械均自意、法等国。……斯时运用缫丝机械尚无相当人才，乃延意麦登斯为工程师，指导常务且所有产品需运往国外市场。自光绪八年到十三年，营业失败。”该企业出现这种结局的主要原因在于（　　）
A. 深受各级官吏的盘剥压榨
B. 过分依赖外国资本主义
C. 忽视了对国内市场的开拓
D. 规模较小，技术力量薄弱

二、非选择题（本题共2小题，第13题26分，第14题26分，共52分）

13.（26分）阅读材料，完成下列要求。

材料一：中国的经济优势历史悠久，但它对三个方面的侵蚀无能为力。首先，外国供销商能利用鸦片市场。其次，他们能找到中国进口商品的替代品——制造自己的瓷器和丝绸，种植自己的大黄，在别的地方如印度和斯里兰卡种植茶叶。最后，他们用工业机械化来超过中国的生产。所有这些变化都是在19世纪发生的。从长期来看，这些变化中的最后一项意义最为重大。因为中国无法实现生产的机械化。

——贾尔南德兹·阿迈斯托《世界：一部历史》

材料二：从影响方面来看，19世纪西方的冲击在促使传统中国向近代中国转型上所起的作用，肯定比16、17世纪欧洲探险家和传教士的到来所起的作用更为巨大。

——徐中约《中国近代史》

（1）根据材料一，概述19世纪中国失去“经济优势”的原因。（13分）

（2）根据材料二并结合所学知识，概括“19世纪西方的冲击”对中国经济转型所产生的影响。（13分）

14.（26分）阅读材料，完成下列要求。

材料一：表一　民族资本与外企资本对照表

厂名	类别	资金（银两）
祥生船厂	英资	八十万两
耶松船厂	英资	七十五万两
黄埔船坞公司	英资	一百五十六万两
均昌船厂	民资	四万七千两

表二　民族资本企业与洋务派企业对照表

类别	个数	总资本	平均资本
洋务企业	19个	一千六百二十万元	八十五万元
民资企业	54个	四百八十万元	九万元

材料二：1896年，张之洞上奏说：“洋商见我工商竞用新法，深中其忌，百计阻抑，勒价停市。上年江浙、湖北等省，缫丝、纺纱各厂，无不亏折，有歇业者，有抵押与洋商者。”

材料三：陈启沅的继昌隆缫丝厂被官府和地方势力视为异端，1881年，南海知县曾下令封闭，致使陈启沅被迫迁厂于澳门。李福明因拒绝官府关于撤销北京机器磨坊的命令，于1895年被捕交刑部“照例治罪，以儆习顽”。

（1）三则材料反映了什么问题？对民族资本主义的发展和民族资产阶级造成了什么影响？（10分）

（2）民族资本主义产生后有一定的发展，主要原因有哪些？（16分）

关注微信公众号“教辅资料站”获取更多学习资料

学习札记

第11课　民国时期民族工业的曲折发展

课前预习 抓双基 KEQIANYUXIZHUASHUANGJI 夯基固本判一判

自主预习 ZIZHU

一、中国民族工业的“黄金时期”

1. 时间：_____至1937年抗日战争爆发。

2. 成因

(1)政治因素

①民国建立：民族资产阶级_____地位提高，激发了他们振兴实业的热情。政府实行有利于发展经济的政策，要求所有公共机关的日用消耗品一律专购_____。

②南京国民政府成立：推行有利于国民经济发展的政策，如扶植民间轻工业，统一_____、关税自主等。

(2)外部环境：_____期间，欧洲各国对华的商品输出减少。

(3)群众运动：群众性的_____斗争，有力地促进了民族工业的发展。

3. 主要表现

(1)纺织业、面粉业、卷烟业等轻工业发展迅速。

(2)重工业和_____工业也获得一定程度的发展，_____被称为中国化学工业的代表人物。

(3)1927年后的十年间：民族工业得到更快发展。

二、侵华日军对中国民族经济的破坏

1. 日寇意图

把沦陷区变成军事和工业基地，提出所谓“_____”，意在将沦陷区经济完全纳入日本的战时经济体系之中。

2. 侵略方式

(1)工矿业：主要采取“军事管理”“_____”等方式进行掠夺与控制。

(2)金融与贸易：日本控制和垄断了沦陷区的金融和内外贸易。

(3)各类物资：实行严格的管制，便利了日本掠夺，极大地限制了中国民族工业的生存空间。

(4)劳动力：将大批工人、农民和被俘士兵送到伪满洲国和日本从事繁重的劳动。

三、民族资本的困境

1. 帝国主义挤压

第一次世界大战后，外国资本利用_____竞争等方法给中国民族工业的发展造成很大压力。

2. 官僚资本压迫

(1)形成与发展

①抗战开始前，国民政府实行了一些_____的措施。政治腐败势力把部分国家资本占据为官僚资本。

②到抗战中后期，官僚资本的势力不断扩大。

(2)重要手段

①推行“_____”政策，统购统销及专卖制度，使官僚资本家攫取大量财富。

②以资金入股的方式渗透到民族工业中去。

正误判断 ZHENGWU

1. 民国建立至1937年抗日战争爆发前，中国进入民族工业发展的“黄金时期”。(　　)
2. 一战期间所有资本主义列强放松了对中国的经济侵略，为民族工业的发展提供了契机。(　　)
3. 日本对沦陷区工矿业的掠夺与控制主要是采取“军事管理”“委托经营”等方式。(　　)
4. 抗日战争中后期，官僚资本家推行“经济统制”政策，使民族工业遭受重大损失。(　　)
5. 中国民族资本主义的特点是先天不足，后天畸形。(　　)

课堂达标 点对点 KETANGDABIAODIANDUIDIAN 基础达标练能力

对点训练 DUIDIAN

知识点一　中国民族工业的“黄金时期”

1. **(2019·江西赣州高三模拟)**下表是1913～1920年中国国内工业品和原料价格指数表(以1913年为100)。表中的数据变化反映出(　　)

	批发物价		上海粉麦价		天津布花价		汉口纱花价	
	工业品	农产品	绿兵船粉	汉口货小麦	14磅粗布	西河棉花	棉纱	棉花
1913	100.0	100.0	100.0	100.0	100.0	100.0	100.0	100.0
1915	131.8	100.3	120.6	120.3	108.3	79.0	—	—
1917	130.0	103.0	116.3	102.1	116.9	118.6	—	—
1919	137.7	112.5	105.3	83.9	171.0	130.8	159.2	115.4
1920	168.0	125.8	131.6	92.1	169.0	139.9	159.9	109.9

A. 传统自然经济顽强抵抗着外来经济侵略
B. 中国被进一步卷入到资本主义世界市场
C. 西方国家暂时放松了对中国的经济侵略
D. 中国近代民族工业此时得到了较快发展

2. 陈旭麓《近代中国社会的新陈代谢》中提到：“中国近代产业工人的人数，辛亥革命前不过50万～60万人，1919年五四运动前夕即达到了200万人。”透过产业工人人数的变化，可以窥见(　　)

关注微信公众号“教辅资料站”获取更多学习资料

学习札记

A. 清末洋务运动的足迹
B. 民国初年实业推进的步伐
C. 一战时期世界局势的动荡
D. 20世纪初期工人的觉醒

3. **(2018·天津十二重点中学高三联考)**孙德常等人著的《天津近代经济史》中记载："1909年开设于芥园的北洋火柴公司，1919年扩充资本30万元，增设分厂于南开马场道，总的产量达到15 000箱。原华昌火柴公司于1917年与北京的丹凤火柴公司合并，改名丹华，在天津设分厂，资本为25万元。"对材料信息解读正确的是　(　)
A. 列强加紧对华资本输出
B. 中国近代火柴工业发源于天津
C. 政府放宽对民间设厂的限制
D. 一战为民族工业的发展提供了机遇

4. **(2019·陕西安康高三质检)**1928～1931年，汉口注册商标中较著名的商标有汉口第一纺织股份有限公司使用的禄字、五福、寿字、狮球、金鼎；震寰纺织股份有限公司使用的福全牌、福纶牌；民生纱厂使用的天字、地字九福。这说明当时　(　)
A. 近代企业迎合社会大众心理
B. 中国民族工业的短暂发展
C. 中国近代轻工业发展较快
D. 民族企业重视知识产权保护

5. **(2018·河南天一大联考)**1930年国民政府颁布《国家进口关税税则》，将进口税的最高税率比1929年提高了近一倍，1933年国民政府再次提高进口税率，比1930年的最高税则提高50%以上。这说明国民政府　(　)
A. 为实现关税自主做准备
B. 注重保护国内民族工业
C. 旨在改变政府财政困难
D. 积极抵制日本侵略战争

知识点二　侵华日军对中国民族经济的破坏

6. 1943年6月7日，上海某报刊登《商业利润与大众生活》："限制利润，为统制经济主□(注：原文无法辨识)所要求的一个条件；安定民生，为战时经济政策所要求的一个条件。因此，上述两种条件的配合，乃是其绝对的必要性。"文章宣传了当时在上海、武汉等地推行的经济统制政策，这种政策　(　)
A. 利于日本掠夺中国战略资源
B. 加速了官僚资本的急剧膨胀
C. 利于市场繁荣和民生的改善
D. 限制利润符合节制资本思想

知识点三　民族资本的困境

7. 读下表对该表解读正确的是　(　)

1937～1942年西北工业发展情况表

年代	工厂	占全国比重	资本	占全国比重	工人	占全国比重
1937	19家	0.48%	305.2万元	0.82%	5 787	1.26%
1942	546家	20.56%	16 931万元	8.8%	33 074	13.7%

A. 西北成为我国近代工业重心
B. 国民政府主动调整工业布局
C. 中国近代工业布局趋于平衡
D. 抗日战争促进了西北民族工业的发展

8. **(2018·浙江余姚高一期中)**1947年，上海《大公报》连载了漫画《三毛流浪记》，三毛对当时中国市场上到处充斥着某国商品感到疑惑不解，这种外国商品来自　(　)
A. 日本　　B. 英国
C. 美国　　D. 苏联

9. **(2018·江西赣州十四县高一联考)**1948年10月30日，《大公报》写道，上海一家西药房门前的挤购行列中，甲客突然回头问乙客："你预备买什么？"乙想了一下，反问："你要买什么？"甲告诉他："有什么买什么。"此报道客观上反映了　(　)
A. 上海民众得疾病者众多
B. 政府放开了药品的管制
C. 通货膨胀下的抢购风潮
D. 美国物品在中国的畅销

综合训练 ZONGHE

10. 阅读材料，完成下列要求。

材料一：中国近代史有向下沉沦的一面，这就是帝国主义侵略；但又有上升的一面，这就是中国资本主义的发展……代表着先进的生产关系，促进了生产力的发展，它是历史的进步。

——《历史研究》

材料二：中国民族资本主义是在中国社会半殖民地化过程中产生、发展起来的……这在政治上直接表现为民族资产阶级的革命性和软弱性。但总体来说，中国民族资本主义工业是一种革命的和进步的经济因素，其产生、发展有利于近代中国社会的进步。

(1)据材料一，为什么说中国资本主义的发展代表着中国上升的一面？

(2)如何理解材料二中民族工业"产生、发展有利于近代中国社会的进步"？

关注微信公众号"教辅资料站"获取更多学习资料

学习札记

课后提能　再巩固　KEHOUTINENGZAIGONGGU　知识巩固提能力

时间：45 分钟　满分：100 分

一、选择题(本题共 12 小题，每小题 4 分，共 48 分)

1.《剑桥中华民国史》载，(辛亥)革命后 10 年，在(20 世纪)20 年代初，民族资本主义就开足了马力……但这一城市经济和社会的巨大进步，更多地产生于第一次世界大战所造成的经济奇迹，而较少地受惠于一场早已被军人接管了的革命。对材料理解正确的是　(　)

A. 辛亥革命促进了民族资本主义经济的发展
B. 一战是造成“经济奇迹”出现的主要原因
C. 中国民族资本主义经济发展的程度非常高
D. 辛亥革命对民族资本主义的发展毫无益处

2.**(2018·河南省高三适应性考试)**一战期间列强对华输出棉纱量持续减少，而日本却迅速增加，开始超过英国，跃居首位。这反映了　(　)

A. 列强均放松了对中国的侵略
B. 日本的经济实力已超过英国
C. 日本乘机扩大对华经济侵略
D. 日本在侵华中始终获利最大

3.**(2018·四川成都外国语学院高一期中)**张謇说：“二十年来，所见诸企业之失败，盖不可以卒数，推原其故，则由创立之始，以至于业务进行，在皆伏有致败之衅，则无法律之导之故也。……无公司法，则无以集厚资，而巨业为之不举；无破产法，则无维信用，而私权于以重丧。”据此，他认为民族工业进程迟缓的主要原因是　(　)

A. 缺乏必要的法律保障
B. 受中外反动势力双重压迫
C. 官僚资本的经济垄断
D. 缺乏充足货币资本的支持

4. 近代以来，1895 年张謇在南通创办大生纱厂，数年的惨淡经营，大生纱厂逐渐壮大，资本不断增加，到 1911 年为止，该厂获利 370 多万两白银，1917 年～1921 年连续获利 560 多万两白银。可好景不长，1922 年后，大生纱厂开始走下坡，1923 年秋，大生纱厂因无款购棉花一度停工。这一现象说明了　(　)

A. 思想解放是实现近代化的先决条件
B. 中国民族工业发展先天不足、后天畸形
C. 封建专制统治是近代化的主要障碍
D. 民族独立是实现近代化的前提

5.**(2018·黑龙江试验中学高一期中)**1927～1936 年中国民族工业经历了一段较快的发展期。1936 年国民生产总值年增长 8.86%，增长速度创历史最高纪录。这一时期民族工业发展的原因是　(　)

A. 全面抗战的需要
B. 国民政府推出鼓励发展经济的措施
C. 国共合作的推动
D. 西方列强完全放弃对华的经济侵略

6. 下图为 1919 年昆明天香烟庄生产的“天香”牌卷烟商标，在包装上较醒目的语句是“吸此烟有四益”，“一适口、二省钱、三爱国、四卫生”。由此反映　(　)



①中国的社会生活受到西方文明的影响　②资本家为了获取利润进行的宣传　③实业救国思潮的推动　④人民生活水平普遍提高

A. ①③④　　B. ②③④
C. ①②④　　D. ①②③

7. 1929 年，全国火柴同业联合会致国民政府请愿书中提出请求：增加外国火柴进口税、减免铁道运输收费等。这表明国民政府时期　(　)

A. 轻工业发展困难重重
B. 政府不关心国民经济发展
C. 不平等条约制约民族工业的发展
D. 民营企业面临官僚资本的挤压

8. 罗荣渠在《现代化新论》中说：“1933 年《申报月刊》发行‘中国现代化问题’特辑专号，征文中(26 篇文章)认为中国现代化应走资本主义道路的观点非常少，绝大多数人主张走受节制的资本主义或非资本主义道路。”产生上述认识主要是因为当时　(　)

A. 南京国民政府政策倡导
B. 资本主义在中国发展举步维艰
C. 西方经济危机危害严重
D. 马克思主义在中国被广为接受

9.**(2018·武汉外国语学校高三一模)**

单位：个

行业 / 地区	机器	冶炼	电器	化学	纺织	其他	合计
重庆区	159	17	23	120	62	48	429
川中区	16	23	3	100	31	14	187
桂林区	17	4	8	8	23	7	67
昆明区	11	6	7	25	18	13	80
贵阳区	6	1	0	7	1	3	18

上表为 20 世纪 30 年代末 40 年代初中国各行业内迁工厂数及其分布表。这说明西南地区　(　)

A. 社会经济结构有所改变
B. 出现部门协调发展的格局
C. 躲过了日军的武装侵扰
D. 找到了工业近代化的捷径

10. 1944 年，我国科技人员在大后方注册的专利共 431 件，比此前 20 年全国的总和增长了 157%，其中机器、电器、交通工具、化学药品类居多。形成这一现象的主要原因是　(　)

A. 科技人员的内迁　　B. 军工企业的激增
C. 民营工业的发展　　D. 战时需求的刺激

关注微信公众号“教辅资料站”获取更多学习资料

学习札记

11.（2018·江西赣州十四县高一联考）下图是青岛瑞蚨祥绸缎店利润额折线图。下列分析正确的是（　　）

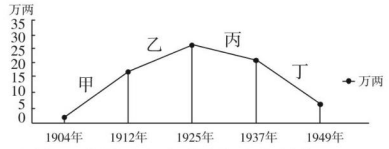

A. 甲段上升是因为受到洋务企业刺激
B. 乙段上升是因为列强停止对华商品输出
C. 丙段下降是由于政府限制民间设厂
D. 丁段下降是由于受到内外势力双重打压

12. 河北唐山的启新洋灰公司，是旧中国最大的民营水泥工业，1934年前最高年产量达到27万吨。但自1934年后产量不断下降。1947年仅为16万吨，1948年跌至13万吨，并被征军用。综合分析上述材料，1934年后，启新洋灰公司经营艰难每况愈下的外部原因有（　　）
①资金少，技术力量弱，产品竞争能力差　②官僚资本的强制掠夺　③日本侵略者野蛮的经济掠夺　④美国的经济侵略　⑤国民党发动内战，经济环境恶化
A. ①②③④⑤　　B. ②③④⑤
C. ③④⑤　　D. ①②③④

二、非选择题（本题共2小题，第13题26分，第14题26分，共52分）

13.（26分）（2018·四川成都外国语学院高一期中）近代以来，中国经济经历了从小农经济向近代经济的转变。阅读下列材料，回答问题。

材料一：精耕细作的密集型农业，传统技术发展到了极其完美的水平，中国的经济好像已陷入了一种“高水平平衡的陷阱”之中。西方的干预对中国经济体制的运转，产生了深刻的冲击。在过去，由于明清两代政府抑制贸易和航海事业，中国的经济变成了内向型的。在19世纪中期的战争和叛乱危机中，新活力的诸种因素正在聚集。1860年以后，对外贸易急剧增长，中国建立起它最初的现代企业。

——《剑桥中华民国史》

材料二：面对“三千年未有之大变局”，清政府开展了“自强”运动，……这场变革“仿效西法”，虽取得一时成就，但“徒袭人之皮毛，而未顾己之命脉”，“自强”的目的并没有达到。……“革命”后民族资本主义就开足了马力。但是这一城市经济和社会的巨大进步，更多地产生于第一次世界大战所造成的经济奇迹，而较少地受惠于一场早已被军人接管了的革命。在半殖民地的中国，资产阶级革命的逻辑受制于外部的国际关系的演变。

——《剑桥中华民国史》

材料三：著名的实业家宋棐卿1932年成立了“东亚毛呢纺织有限公司”，决心走实业救国之路。……1935年4月，筹建新厂，设备齐全，机器先进，使“东亚”成为天津民族工业中的佼佼者。1937年“七七”事变后，“东亚”在夹缝中挣扎了8年，多次陷于困境。到1948年，“东亚”已是奄奄一息了。

——《百年巨商》

（1）根据材料一，指出造成近代中国经济落后的主要原因有哪些。（6分）
（2）根据材料二并结合所学知识，回答清政府开展的这场“自强”运动在经济领域取得了哪些成效。据材料二，指出“革命”后民族资本主义开足马力的因素有哪些。（8分）
（3）根据材料三并结合所学知识，指出“东亚”企业在30年代得以快速发展的因素有哪些。1937年后该企业渐趋衰败的最主要原因是什么？（8分）
（4）综合上述材料，你认为应如何应对社会经济发展的潮流？（4分）

14.（26分）阅读材料，完成下列要求。

材料一：由光绪二十九年至宣统三年，为中国政府奖励工业最力之时代……此时中国之实业，如红日初升，前途希望正复无穷。此时期中之重要提倡事业，如光绪三十一年袁世凯在天津设工艺总局，商部在京师设劝工陈列所，及奏设各省高等实业学堂；光绪三十二年商部奏订奖给商勋章程，鼓励制造新器，学部考验游学生设工商科进士学位；光绪三十三年农工商部奏定华商办理实业爵赏章程，办1 000万元以上之实业者赏男爵，2 000万元以上者赏子爵；宣统二年端方在南京举行南洋劝业会，皆为60年内仅见之盛举。

——陈真、姚洛合编《中国近代工业史资料》

材料二：民国政府公布《农商部奖励实业办法》（1917年）：（1）每年能将国货运往外国销至10万元以上，而营业时期继续已逾3年者，给予一等奖章；（2）设立工厂资本在5万元以上，营业确有成效者，给予二等奖章；（3）发明有实用之物品或器械，给予三等奖章；（4）以中国资本发起开矿、放垦、渔牧等实业，及提倡设立实业学校者得体察情形，分别给予奖状；（5）商会农会能实心提倡商务或农业，著有成绩者，得体察情形，分别给予奖章。

——摘编自《新编实业法令》

比较材料一、二，提取两项有关奖励实业的信息，并结合所学知识予以说明。

关注微信公众号“教辅资料站”获取更多学习资料

学习札记

第12课　新潮冲击下的社会生活

课前预习　抓双基　KEQIANYUXIZHUASHUANGJI　夯基固本判一判

自主预习 ZIZHU

一、“断发易服”

1. 服饰的变化

(1)原因

①鸦片战争前后，西式服饰传入中国。

②清政府对_____服饰实行改革。

③民国政府颁布_____的形制。

(2)特点

①先_____仿效，后政府改革。

②长袍马褂与_____并行不悖。

(3)影响

①人们根据各自的生活方式，审美情趣和经济能力，随心所欲地选择服饰。

②促成中国服饰的改良，_____和旗袍的出现，就是中西合璧的产物。

2. “断发”和不缠足运动

(1)特点：“断发”和不缠足运动具有鲜明的_____色彩。

(2)断发：1910年，清政府颁布准许自由剪发的法令。辛亥革命之后，_____政府发出《剪辫通令》，结辫陋习至此革除。

(3)不缠足运动

①原因：西方民主平等思想的影响。

②进程：维新人士发起_____运动，成立了“不缠足会”，不缠足运动轰轰烈烈地开展起来。

二、报刊与电影

1. 报刊

(1)出现：19世纪中国出现近代报刊。

(2)发展

①_____爆发后，各报刊用大量篇幅及时报道时局和战况，民众开始有了“新闻”的观念。

②1872年创刊的《_____》是近代中国出版时间最长、影响最大的报纸之一。

③1884年创办的《点石斋画报》，开新闻画报之先河。

(3)高涨

①_____中，报纸成为宣传政治纲领和开展政治斗争的武器。

②_____运动以后，阅读报刊成为民众生活的重要内容。

2. 电影

(1)_____，电影传入中国，迅速成为民间喜闻乐见的新式娱乐活动。

(2)1905年京剧短片《_____》是中国人第一次尝试拍摄的影片。

(3)1913年《难夫难妻》是中国第一部故事影片。

(4)1931年中国第一部_____《歌女红牡丹》摄制完成。

3. 作用：及时传播时事信息，娱乐生活，促进了科学知识的普及，开阔了人们的视野。

三、移风易俗

1. 礼仪的革新

(1)中国古代形成了一套体现贵贱尊卑的等级森严的日常礼仪。

(2)民国之初，中华民国临时政府宣布废除跪拜、作揖等礼节，代之以鞠躬、_____。

(3)礼仪的简化，显示出_____、自由等文明精神。

2. 婚姻变革

(1)新文化运动和_____洪流，推动了近代婚姻的变革过程。

(2)婚姻风俗的变革主要发生在通商口岸的知识层以及官宦人家。

3. 丧葬礼仪：19世纪中期，西方文明、卫生、简洁的丧葬礼仪引起了国人注目。

4. 认识

(1)反映近代社会物质文明的进步。

(2)折射出_____精神和民主意识。

(3)有些还成为妇女解放的重要标志。

(4)发展极端_____，农村相对闭塞和贫穷。

正误判断 ZHENGWU

1. 中山装和改良旗袍是中西合璧的产物。　(　)
2. “断发”和不缠足运动具有鲜明的政治色彩。　(　)
3. 中国人第一次尝试拍摄电影开始于1913年的《难夫难妻》。　(　)
4. 新文化运动和国民革命洪流，使新式婚俗成为婚姻习俗的主流。　(　)
5. 中国近代社会生活变迁表现出极大的不平衡性。　(　)

关注微信公众号“教辅资料站”获取更多学习资料

学习札记

课堂达标 点对点 KETANGDABIAODIANDUIDIAN 基础达标练能力

对点训练 DUIDIAN

知识点一　“断发易服”

1. 中山装由孙中山创制，是由日本的学生装改进而成的，南京国民政府建立后……依据“四维”内容而确定中山装前襟有4个口袋，依据五权分立而确定前襟有5个扣子，依据三民主义的涵义而确定袖口为3个扣子。据此，以下各项表述中正确的应该是（　　）
A. 服饰属于意识形态　　B. 服饰体现国家意志
C. 服饰变化受政治影响　　D. 服饰是西化的产物

2. 1905年，端方等出洋考察宪政官员回国“奏请官员剪发之折，两宫深滋不悦”。1910年清政府下达了一道谕旨，“凡我臣民，均准自由剪发”。清廷前后态度的变化反映出（　　）
A. 近代化发展是大势所趋
B. 民主共和观念深入人心
C. 传统的习俗理念被颠覆
D. 民众心理发生本质变化

3. **(2018·浙江绿色评价联盟)** 据当时媒体报道，“江南之新学国民及留学生多剪去辫发”，参加乡试时只好装假辫子入场考试。胡适回忆，“还有一些激烈的同学往往强迫有辫子的同学剪去辫子”。同时，“军界中人纷纷截落发辫者不可胜数”。结合所学知识判断，“当时”是指（　　）
A. 鸦片战争时期　　B. 戊戌变法时期
C. 20世界初叶　　D. 民国初年

知识点二　报刊与电影

4. **(2018·山西太原高三二模)** 1868年，美籍传教士林乐知创办《万国公报》，到1896年前后，发行量高达38 400份。光绪皇帝和洋务派大臣每期必读；孙中山不但是其忠实读者，还主动投稿；康有为、梁启超以其为精神支柱和理论依据。这表明（　　）
A. 西方思想受到各界普遍欢迎
B. 民族危机刺激国人了解西方
C. 中美两国文化交流日益密切
D. 社会精英主张学习西方制度

5. 1909年《大公报》上的一篇文章称“第一是开眼界，可以当作游历，看看欧美各国的风土人情——真如同身历其境，亲眼得见一样——时常看看，岂不比听戏强的多么？”这里所说的使人们“开眼界”的应该是（　　）
A. 电影　　B. 广播
C. 电话　　D. 电视

6. 1905年，中国人自己摄制的第一部无声电影首映成功，它就是（　　）


A.《歌女红牡丹》


B.《定军山》



C.《风云儿女》


D.《渔光曲》

知识点三　移风易俗

7. **(2018·浙江余姚高一期中)** 1918年，李大钊在《新青年》上撰文：我前岁在北京过年，刚过新年，又过旧年，看见贺年的人，有的鞠躬，有的拜跪，有的脱帽，有的作揖，有的在门首悬挂国旗，有的张贴春联。对这则材料中的信息理解不正确的是（　　）
A. 辛亥革命对传统习俗产生了冲击
B. 社会习俗的改变是一个缓慢的过程
C. 新旧杂陈是该时期社会习俗的特点
D. 新的社会风尚成为社会主流

8. **(2018·江苏南京、盐城市一模)** 19世纪末，熊希龄在长沙成立了“延年会”，其《章程》规定：“会员严格遵守作息时间，每天都要做操，不搞无谓的社交应酬，婚丧嫁娶要从简办理，反对起居无节，酒食征逐等等。”对此理解正确的是（　　）
A. “延年会”是资产阶级革命政党
B. 顺应了新文化运动的新要求
C. 体现了“移风易俗”的时代需求
D. 彻底清除了腐朽的生活方式

9. **(2018·江西赣州十四县高一联考)** 1900年，蔡元培之妻逝世，多人登门说媒。蔡元培贴出“征婚启事”：第一，不缠足。第二，识字。第三，丈夫死后，妻子可以改嫁。第四，意见不合，可以离婚。这则“启事”使说媒的人顿时退避三舍。这反映出当时（　　）
A. 婚俗观念发生彻底转变
B. 新文化运动的影响显现
C. 新思想传播的阻力较大
D. 近代报刊方便信息传播

综合训练 ZONGHE

10. 阅读材料，完成下列要求。

材料一：今则万国交通，一切趋于尚同，而吾以一国衣服独异，则情意不亲，邦交不结矣。且今物质修明，尤尚机器，辫发长垂，行动摇舞，误缠机器，可以立死，今为机器之世，多机器则强，少机器则弱，辫发与机器，不相容者也。且兵争之世，执戈跨马，辫尤不便，其势不能不去之。……且垂辫既易污衣，而蓄发尤增多垢，衣污则观瞻不美，沐难则卫生非宜，梳刮则费时甚多。若在外国，为外人指笑，儿童牵弄，既缘国弱，尤遭戏侮，斥为豚尾，出入不便，去之无损，留之反劳。

——摘自康有为《请断发易服改元折》

材料二：辛亥年间，不是只有清室的遗老遗少，或者张勋那样的愿意向旧王朝顶礼膜拜的人才继续留辫的。好多人将发辫盘在头顶，或藏在帽子里，还有人干脆一如既往，将辫子自自然然地垂在脑后。清末政坛的风云人物张謇倒是把辫子剪了，可是他却郑重地将剪下的辫子珍藏起来。

——摘自《上海研究资料》

(1)据材料一概括康有为请求断发的理由。康有为请求断发的目的是什么？
(2)材料二反映了什么实质问题？
(3)结合所学知识，分析清末断发运动出现的原因。

关注微信公众号“教辅资料站”获取更多学习资料

学习札记

课后提能　再巩固　KEHOUTINENGZAIGONGGU　知识巩固提能力

时间：45 分钟　满分：100 分

一、选择题(本题共 12 小题，每小题 4 分，共 48 分)

1. **(2018·江西赣州十四县高一联考)**民国初年颁布《服制》规定官员不分级别，统一着装；“共和国无阶级之分，受治于同一之法律……虽以大总统之地位，犹必谨守法律，不能恃势以凌人。一旦罢职，即与齐民无异”。这主要体现了　(　)
A. 自由思想　　B. 民主思想
C. 平等思想　　D. 共和思想

2. 吕思勉在《中国通史》“衣食”篇中提出，“以中西的服饰相较，大体上，自以中国的服饰为较适宜。现在的崇尚西装，不过一时的风气罢了。”材料表明作者的观点是　(　)
A. 西装必将风行全国
B. 传统服饰有强大生命力
C. 中西服饰各有特点
D. 列强侵略引起服饰变化

3. 清末有官员惊叹：“国之典章莫重于章服，而今之章服之紊亦已甚矣。以职员所涉历，车于陆，舟于水，皆洋式也；酒于觥，肉于俎，皆洋食也；楼其冠，洋其履，德、法其衣裳，皆洋工也。”这一惊叹表明当时　(　)
A. 西方生活方式影响深刻
B. 儒家传统观念受到冲击
C. 欧风美雨挟来文明开化
D. 国人衣食住行全盘西化

4. **(2019·浙江选考)**观察下面两图(绘制时间：1924 年)。结合所学，判断下列项中表述正确的是　(　)




①20 世纪上半叶男装流行长袍马褂　②知识女性着装宽松肥大　③男性着装凸显等级身份　④女性服饰趋向短袍窄袖
A. ①④　　B. ②③
C. ①②④　　D. ②③④

5. 右侧漫画《发辫之将来》从本质上表明，当时社会上一部分人　(　)
A. 盲目崇尚西洋风尚
B. 刻意保存传统精华
C. 旧有观念根深蒂固
D. 主动破除国人陋俗



6. 1909 年发行的《图画日报》描绘了当时上海人看电影的情景。当时的票价还比较低，是普通民众可以接受的。以下叙述你认为没有正确反映当时情况的是　(　)
A. “电光影戏即电影，票价只卖二十文”
B. “活灵活现景物真，观众面露诧异情”
C. “交头接耳说紫禁，争看清帝丢皇位”
D. “电影初创寂无声，旁有吹吹打打人”

7. **(2019·河北安平中学月考)**1934 年，鲁迅评论文坛“京海之争”时指出：“北京是明清的帝都，上海乃各国之租界，帝都多官，租界多商，所以文人之在京者近官，沿海者近商，近官者在使官得名，近商者在使商获利，……而官之鄙商，固亦中国旧习，就更使‘海派’在‘京派’的眼中跌落了。”围绕“京海之争”，下列说法正确的是　(　)
A. 海派文化是中西文化碰撞、交融的产物
B. 海派抨击了京派的崇洋意识和市侩心理
C. 京派的立场反映了重农抑商观念的消失
D. “京海之争”体现出南北文化交流融合

8. **(2019·福建上杭一中期中)**20 世纪初，出现了元旦、革命先烈纪念日(3 月 29 日)、国耻日(5 月 9 日)等；20 世纪二三十年代，又有了国际妇女节、儿童节(4 月 4 日)、国际劳动节等。节庆日变化印证了　(　)
①近代中国发生社会转型　②国家政治体制出现更替　③国人民族民主意识觉醒　④民权平等主张得以实现
A. ①②③④　　B. ①②③
C. ①②④　　D. ③④

9. **(2018·广西来宾、河池高三二模)**民国成立第一天，上海《申报》上登了这样一则新闻：“新国成立，百度维新。余友喜，新君、新话连篇，呼其妻曰新娘子。妻不应，还呼之曰新相公，亦觉赧然无以应。余友忽发新思想，夫妇二人张新国旗，穿新冠服，新头新脑，在室中行新婚。”这在客观上可以反映　(　)
A. 民众仍具有浓厚保守思想
B. 社会习俗已完成了近代化
C. 民主共和观念已深入人心
D. 部分民众对新生政权的认同

10. **(2019·江苏卷)**清末《卖宁波脚带》：“宁波小脚啥好看，脚背高起一大段。如何脚带竟出名，四乡八镇销场远。明诏近来禁缠脚，脚带虽好用勿着。我劝卖脚带人早弃行，免使女子缠脚遭凌虐。”对材料理解正确的是　(　)
A. 观念变化已致脚带无人问津
B. 诏令颁布引发妇女普遍解放
C. 女子缠足当时仍然普遍存在
D. 废止缠足已成当时社会共识

11. 有中国近代竹枝词云：“寿头最怕请西餐，箸换刀叉顶不欢。”意即：寿宴上最忌讳使用西餐刀叉，影响寿宴喜庆的氛围。从文明史观看，这一现象本质上反映了　(　)

关注微信公众号“教辅资料站”获取更多学习资料

学习札记

A. 东西方文明的冲突
B. 近代中国人对西方饮食的抵制
C. 西餐已经普遍盛行
D. 近代中国饮食受传统思想影响

12. 近代中国社会风俗的变化呈现出严重的不平衡，主要因为（　　）
A. 列强侵略主要集中在东部沿海地区
B. 清政府对外开放的地域集中在东部
C. 中国各地经济的发展严重不平衡
D. 中国各地的风俗习惯严重不平衡

二、非选择题（本题共2小题，第13题26分，第14题26分，共52分）

13.（26分）法国学者布罗代尔曾这样说："社会各层次的衣、食、住方式绝不是无关紧要的。……整理、重视这些场景是饶有兴味的事。"阅读材料，完成下列要求。

材料一：英国画家阿罗姆描绘19世纪初期广州的街道景象是：街道上人群涌动，两边商铺雕梁画栋，旗幡飘扬，商铺二楼的窗户，使用的是澳门风格的百叶窗，店家都有凉棚、洋伞，商店类似南欧城市的"骑楼"风格。

——据李天纲著《大清帝国城市印象》

材料二：美国《纽约时报》记者N. S. D在1871年12月24日游历广州时，对广州城市的繁华惊叹不已："宽阔的珠江，清式和西式的阁楼、宝塔、博物馆、清真寺、大厦、仓库、商铺等等，这些建筑物看上去并没有分成街道，而是毫不间断地紧紧挨在一起。远处可见英国领事馆的小教堂，上面有钟楼和高高的十字架。"

——据郑曦原编《帝国的回忆：纽约时报晚清观察记》

材料三：1875年的广州商务报告称："……中国人已经普遍使用黄磷火柴，并且输入了几百万箱，现在用打火石取火的已经少见了。在使用煤油及其他矿物油以及煤油灯方面的情况也一样。同时欧洲的洋伞，几乎完全代替了中国纸伞。广州大量地仿制欧洲洋伞并运往其他口岸和内地销售。"

——摘自姚贤镐编《中国近代对外贸易史资料》

材料四：1906年广州出版的《赏奇画报》……其征订广告，就是画着一位身穿西装、带着西式小帽的先生，手拿"赏奇画报出世"的旗子作宣传。粤东烟草公司出品的伟人香烟，其封面也画上一位扎领带、穿西服的先生。

——摘自蒋建国著《广州消费文化与社会变迁》

（1）广州是中国近代化进程较早的城市，依据材料提取广州在社会生活方面近代化的相关信息。（不得照抄原文）（6分）

（2）广州近代社会生活体现了开放与兼容、重商与务实、开拓与创新的特点，请摘抄材料原文分别回答材料一中体现"重商"、材料二中体现"开放与兼容"和材料三中体现"创新与开拓"的内容。（6分）

（3）依据材料并结合所学知识，分析近代广州社会生活较早走向近代化的原因。（8分）

（4）某历史兴趣小组决定围绕上述材料开展研究性学习，请你为他们提供三种获取相关探究资料的方法。（6分）

14.（26分）阅读材料，完成下列要求。

材料一：19世纪以来，外报传入中国后，一些知识分子积极投身报界，引进"西学"，自办报刊。中国人自己办的报刊，在国内始于19世纪70年代。具有代表性的有艾小梅办的汉口《昭文新报》、王韬主编的香港《循环日报》、容闳等创办的上海《汇报》、上海官商合办的《新报》以及广州的《述报》《广报》等。这些报刊对西方先进科学技术和文化，广收博览，学习吸收洋为中用，以求自身发展。其版式、体例和印刷技术，都仿效外国报纸。

材料二：维新变法迎来了中国国人办报的一次高潮，据不完全统计，在1895年～1898年间，全国新出版的中国报刊约120种，其中80%左右为中国人自办。同时资产阶级改良派的领袖人物开始了办报活动。在北京创办的《中外纪闻》，在上海创办的《强学报》《时务报》，在澳门创办《知新报》，湖南维新派创办《湘学新报》《湘学报》和《湘报》等等，宣传变法图存。这些活动推动了维新运动的发展，促进了变法的实现。

——以上材料均摘自姚福申《中国编辑史》

（1）根据材料一，指出中国近代报刊的创办者及其基本内容。并说明19世纪70年代出现国人自办报刊的原因。（10分）

（2）材料二所述报刊的核心内容是什么？这些报刊的创办有什么特点？（10分）

（3）国人自办的近代报刊在当时有什么意义？（6分）

关注微信公众号"教辅资料站"获取更多学习资料

学习札记

第13课　交通与通讯的变化

课前预习　抓双基　KEQIANYUXIZHUASHUANGJI　夯基固本判一判

自主预习　ZIZHUYUXI

一、铁路，更多的铁路

1. 开始筑路

_____年，中国自建的第一条铁路——唐山开平至胥各庄铁路建成通车。

2. 保路救亡

(1)背景：_____以后，列强争夺在华铁路的修筑权。

(2)意识变化：修铁路成为中国人救亡图存的强烈愿望。

(3)主要成就：1909年，_____设计施工的京张铁路建成通车，成为中国铁路史上的里程碑。

3. 发展概况

到1911年，铁路大部分由外国修筑并控制。民国以后，各条商路修筑权收归_____，在近代史上，铁路建设始终未入正轨。

二、水运与航空

1. 水运

(1)兴起与发展：1872年，_____正式成立。到1900年前后，民间兴办的各种轮船航运公司有近百家。

(2)近代生存状况：始终在列强联手压价、竞争排挤中艰难求生。

2. 航空

(1)起步：_____年，附设在福建马尾造船厂的海军飞机工程处开始研制水上飞机。

(2)创办民航：1918年，北洋政府先后拟定以_____为中心的五大民航线路。

三、从驿传到邮政

1. 发展概况

(1)邮政

①晚清时期：_____以后，外国人在通商口岸地区设立“领事邮政代办所”。1896年，“_____”宣告成立。此后，清政府又设立邮传部，邮传正式脱离_____。

②民国期间：1913年，北洋政府宣布裁撤全部驿站。1920年，中国首次参加万国邮联大会。数年后，外国在华开办的“客邮”一律被撤销。

(2)电报电信：1877年福建巡抚在_____架设第一条电报线，成为中国自办电报的开端。

2. 历史意义

(1)新式交通促进了经济发展，改变了人们的通讯手段和出行方式，还一定程度地转变了人们的_____，也使人们的生活多姿多彩。

(2)交通近代化使中国同世界的联系大大增强。

正误判断　ZHENGWUPANDUAN

1. 中国自建的第一条铁路是京张铁路。　(　)
2. 1872年上海轮船招商局的成立，标志着中国新式航运业的诞生。　(　)
3. 中国的航空事业起源于中华民国时期。　(　)
4. 中国第一条电报线架设的目的是传递商业信息。　(　)
5. 新式交通和通讯手段的进步在一定程度上转变了人们的思想观念。　(　)

课堂达标　点对点　KETANGDABIAODIANDUIDIAN　基础达标练能力

对点训练　DUIDIANXUNLIAN

知识点一　铁路，更多的铁路

1. 铁路成为中国近代交通运输建设的重点，主要的因素有　(　)

①铁路速度快，运力大，费用低廉　②铁路是国民经济发展的动脉　③受工业革命的影响　④清政府从一开始就支持铁路建设

A. ①②③　　B. ②③④

C. ①②④　　D. ①②③④

2. 19世纪的蚌埠仅是个隶属于凤阳的偏远小镇，1911年津浦铁路修成后，蚌埠一跃成为皖北水陆交通的枢纽，成为著名的木竹集散中心。材料最能说明　(　)

A. 交通是推动近代化的重要因素

B. 当地资本主义经济得到快速发展

C. 蚌埠自然经济的迅速解体

D. 木竹市场的形成推动了近代化

3. 19世纪70年代，上海有人写了一首《咏火轮车》的竹枝词：“轮随铁路与周旋，飞往吴淞客亦仙。他省不知机器巧，艳传陆地可行船。”这首竹枝词不能反映的是　(　)

关注微信公众号“教辅资料站”获取更多学习资料

学习札记

A. 新旧交替时期的认知
B. 上海人的自豪感
C. 近代交通工具的快捷
D. 交通运输业发达

知识点二　水运与航空

4. 19世纪60年代，有人写道："火轮船自入中国以来，天下商民称便，以是知火轮船为中国必不能废之物。"这反映了当时中国（　）
A. 已有新式交通工具
B. 组建了近代海军
C. 商民反对轮船运输
D. 禁绝外来事物

5. 假如你生活在1910年的福州，要到厦门观光，为了方便和实惠，你选择的交通工具是（　）
A. 飞机　　B. 火车
C. 轮船　　D. 自行车

6. **(2019·浙江选考)**科学技术是推动时代进步的重要力量。从"马拉火车"的天下奇观到磁悬浮列车的运行，"行行复行行"的历史面貌下，其所反映的是（　）
①交通事业近代化的开始　②新式交通工具改变民众生活　③交通工具左右地区经济发展　④交通事业现代化的进程和社会的进步
A. ①③　　B. ①④
C. ②③　　D. ②④

7. 下列有关近代航空业的发展演变，正确的是（　）
①中国航空业真正起步于1918年　②北洋政府时期先后拟定以北京为中心的五大民航线路　③1918～1927年航空事业发展较快　④1949年，中国各航空公司总共拥有70架各种型号的飞机
A. ①②③④　　B. ②③④
C. ①③④　　D. ①②④

知识点三　从驿传到邮政

8. "举头铁索路行空，电器能收夺化工。从此不愁鱼雁少，音书万里一时通。"此诗赞扬的是中国近代哪一事业在人们日常生活中的作用（　）
A. 铁路运输　　B. 航海事业
C. 航空事业　　D. 有线电报

9. 光绪帝二十五年，盛宣怀疏言："入手而能用，著耳而得声，坐一室而可对百朋，隔颜色而可亲謦欬，此亘古未有之便宜。故创行未三十年，遍于各国。"上文所描述的新事物是（　）
A. 电报　　B. 电车
C. 邮局　　D. 电话

综合训练 ZONGHE

10. 阅读材料，完成下列要求。

材料一：甲午战争后，列强在中国疯狂掠夺铁路修筑权。到1911年，全国铁路总长9 292千米，其中半数以上由外国修筑并控制。

材料二：一些闭塞地区的经济因铁路活跃，一些古老的城镇因铁路而面貌一新……铁路在畅通经济、带动繁荣的同时还意味着信息的流通、知识的传播，意味着建立"铁路交通日常急需的各种生产过程"，所有这一切，无疑都有助于打破中国传统社会"自给自足的惰性"，推动现代化进程。

(1)根据材料一，分析说明中国近代铁路修建的特点。其后果是什么？

(2)结合所学知识及材料二，概括近代中国修建铁路的影响。

(3)根据以上材料及所学知识，谈谈你对近代中国修建铁路的看法。

关注微信公众号"教辅资料站"获取更多学习资料

学习札记

课后提能　再巩固　KEHOUTINENGZAIGONGGU　知识巩固提能力

时间：45 分钟　满分：100 分

一、选择题(本题共 12 小题，每小题 4 分，共 48 分)

1. 下图是吴淞铁路公司于 1876 年发行的“铁路火轮车”招贴画。据记载，当“火轮车”通车时，人们纷纷涌来，争相乘坐。图文材料说明　(　)



A. 近代交通工具首现中国
B. 国人观念发生彻底改变
C. 铁路火车影响人们生活
D. 广告公司广揽旅游业务

2. 黄遵宪(1848～1905)生活的时代，人们的衣食住行发生了很大的变化。他寄托情思的诗作《今离别》：“别肠转如轮，一刻既万州……送者未及返，君在天尽头……”所反映的是　(　)
A. 新式交通工具的传入改变了人们的生活方式
B. 西方建筑风格的传入丰富了中国近代居室的样式
C. 西装的传入推动了中国服饰的多样化
D. 西方餐饮的传入影响了中国的传统饮食

3. 下列有关近代中国交通的现象，体现出社会进步的是　(　)
A. “男女杂处，不以为嫌”
B. “如果华人马车从后面赶超洋人马车，即以违法处理”
C. “拉人力车的讨厌马车、汽车，赶马车的又讨厌汽车”
D. “华人之坐马车，大率无事之人居多，故马车若专为游观而发”

4. 随着汽车、火车、轮船在近代中国的出现，“乘客不分男女座，可怜坐下挤非常”这样的竹枝词也开始流行起来，这反映了　(　)
A. 新式交通工具的出现冲击了传统的伦理道德
B. 新式交通工具并没有改善人们的出行状况
C. 人们对新式交通工具的赞同与认可
D. 人们从没有停止过对交通工具改进的追求

5. 1880 年刘铭传奏请修建铁路，刘锡鸿等众多官员纷纷反对，列出的理由主要有：每造铁路“山川之神不安，即旱涝之灾易招”；仿西洋造火车，借英、法等国金钱，无由归还，“诸强邻遂相凌逼，几至亡国”。材料反映出近代中国铁路发展的阻碍因素包括　(　)
A. 资金短缺，技术落伍　B. 资金短缺，迷信思想
C. 迷信思想，体制落后　D. 技术落伍，体制落后

6. 清同治十三年(1872 年)，轮船招商局成立；19 世纪 70 年代中国出现了第一条铁路——淞沪铁路。从历史上看，这两件事共同的时代意义是　(　)
A. 迈出了中国近代化第一步
B. 推动了中国交通事业的近代化进程
C. 标志着中国南船北马运输时代的结束
D. 开启了中国自主发展交通事业的时代

7. 有轨电车初入上海之时，上海人都说电车乘不得，偶一不慎，就要触电，电车公司即在车旁标着“大众可座、稳快价廉”字样，以资号召，且妇女可出三等车资而坐头等座位。此后，上海市民逐渐接受了方便而价廉的电车。这段材料说明　(　)
A. 有轨电车最早进入上海
B. 妇女社会地位十分低下
C. 广告推动出行方式变化
D. 传统交通工具遭到抛弃

8. **(2018·湖南师大附中期末)**20 世纪 20 年代初，上海马路上，是各种交通工具最为混杂的年代，“每天要通过大量各式各样的车辆——汽车、卡车、电车、马车、自行车、人力车、独轮推车、手推车……”这一现象最能说明　(　)
A. 上海是当时中国最繁华的商业城市
B. 上海市区交通秩序混乱亟待改进
C. 西方交通工具取代了传统交通工具
D. 交通工具适应了不同阶层的需要

9. 20 世纪初，有人写了一组描写上海洋场风物的《望江南》词，其中一首写道：“申江好，电线疾雷霆。万里语言同面晤，重洋信息霎时听。机括竟无形。”这描写的是　(　)
A. 电报　B. 电车
C. 邮局　D. 电话

10. 下列对于我国近代邮政发展过程中有关事件的顺序排列，正确的是　(　)
①中国首次参加万国邮联大会　②清政府设立邮传部　③中国“大清邮政局”宣告成立　④外国在华“客邮”一律撤销
A. ①②③④　B. ③②①④
C. ②①③④　D. ③①②④

11. 洋务运动中随着近代航运事业的发展，产生如下结果：“以湖北一省而论……实因轮船畅行，民间衣食之途，尽为攘夺，江河船只顿减十之六七，失业之人不可胜计。而襄樊一带行店关闭，车户歇业，瘠苦情状，尤不堪寓目。”对此有人批评洋务运动是“刮天下贫民之利而归之于官也”。这段史料说明　(　)
A. 社会的转型发展往往伴随着部分群体的苦痛
B. 中国近代化过程中底层民众生活的困苦不堪
C. 近代航运企业夺利于民说明洋务运动的局限
D. 片面追求经济变革而不变革政治体制只能失败

关注微信公众号“教辅资料站”获取更多学习资料

学习札记

12. 1881年12月《花图新报》载："中国之设电线(电报)也，始于同治十二年，由上海达吴淞，长三十余里，接连海底电线。……至中国自设之电线，则于同治十三年，由福州城内通至制造局，长三十六里。其经费出自中国，操持仍属西国。后因台湾有事，力筹防御，电线公司请于闽督……光绪七年，将造电之物料，送至台湾。自台湾府城直达大高(地名)，约百里，皆电报局学生经办，无西人襄助。"从上述史料中，可得出的正确历史信息有　(　)

①中国最早传入有线电报的地区是上海　②中国最初架设电报时主要依赖国外技术　③中国自主创办的有线电报最早出现在台湾　④台湾架设电报线最早是出于军事目的

A. ①②③④　　B. ①②③

C. ②③④　　D. ①③④

二、非选择题(本题共2小题，第13题26分，第14题26分，共52分)

13. (26分)阅读材料，完成下列要求。

材料一：有事之际，军情瞬息变更，倘如西国办法有电线通报，径达各处海边，可以一刻千里，有内地火车铁路，屯兵于旁，闻警驰援，可以一日千数百里，则统帅尚不至于误事，而中国固急切办不到者也。今年台湾之役，臣与沈葆桢函商调兵月余而始定，及调轮船分起装送，又三月而始竣……故臣尝谓办洋务、制洋兵，若不变法而徒鹜空文，绝无实济，臣不敢明知而不言也。

——《张之洞全集·奏议》

材料二：今日不讲民生主义则已，欲讲民生主义，当先防异日大铁道公司之弊。欲免此弊，须使铁路归国家公有，以杀其势。此国有政策合与民生主义者一也。……路归国有，利在个人。路归国有，利在国家。在个人为私利，在国家为公利。……世界大势，是由水运而趋陆运。故欧美列邦，路线密若蛛网。近且有横贯欧亚之大计划。盖国势随路线而扩张，实业因交通而发展。历史具在，斑斑可考。我国幅员广阔，为统一计，沿边各路，方亟待次第兴办。……此国策可以促进实业、巩固边防。

——谭人凤《粤汉铁路说帖》

(1)材料一中，张之洞在奏折中提出了什么建议？其理由是什么？(10分)

(2)材料二中，谭人凤在发展铁路问题上提出了什么主张？其理由是什么？(10分)

(3)两则材料反映了当时中国的什么历史发展趋势？(6分)

14. (26分)阅读材料，完成下列要求。

材料一：安德森说："……前现代的帝国与王国竟能够轻易地维系他们对极度多样而异质并且经常是居住在不相连的领土上的臣民的长期统治。"各地人民效忠的通常不是一个现实国家，而是经由文字和经典从古代继承下来且已沉淀为集体无意识的伦常制度，它维系着一个抽象的国家观点。……交通落后成倍放大了国土的距离。当时中国国土面积比整个欧洲还大，路上走一年半载，未必能从京城到达最偏远的边疆，更别说全国的有效管理了。

——程巍《清末电报网与国家统一》

材料二：秦王朝将中央政府统一规划的交通建设视为执政要务之一，除了"决通川防，夷去险阻"之外，还由中央直接主持，"为驰道于天下，东穷燕齐，南极吴楚，江湖之上，濒海之观毕至"(《汉书·贾山传》)。……政务军务紧急时，还可以通过驿传系统提高信息传递的速度。赵充国自金城申请军事计划至汉宣帝批复后颁下，往返不过7天，驿递行速达到每天400千米以上。

——王子今《古代交通与秦汉文明》

材料三：1919年5月4日的北京学生运动能立即席卷全国……与电报快捷传递消息和社会动员的功能密不可分。电报，其重要性在于，在交通系统远不足以把全国连为一体时……电报系统至少可把全国连为一个时间共同体，这是后来全国同步的社会和思想运动的技术基础，而这样的全国运动训练了国民的现代国家共同体意识。

——程巍《清末电报网与国家统一》

(1)根据材料一，归纳安德森认为中国是"抽象的国家"的理由。根据材料二，概括秦汉王朝加强对"抽象的国家"控制的措施。(14分)

(2)近代中国人自办电报始于何时何地？根据材料二、材料三，与古代"驿骑传递"相比，近代通讯技术有哪些特点？(6分)

(3)根据以上材料，你认为交通和通讯事业的发展在我国历史上发挥了怎样的作用？(6分)

关注微信公众号"教辅资料站"获取更多学习资料

学习札记

第三单元　各国经济体制的创新和调整

第14课　社会主义经济体制的建立

课前预习 抓双基 KEQIANYUXIZHUASHUANGJI 夯基固本判一判

自主预习 ZIZHU

一、战时共产主义政策

1. 背景

(1)国外:俄国十月革命后,英、法、美、日等资本主义国家对苏俄进行了武装干涉。

(2)国内:_____爆发,苏俄面临着严峻的政治、经济形势。

2. 目的

(1)"一切为了前线"。

(2)布尔什维克党幻想以此直接过渡到纯粹的_____经济形式。

3. 内容

(1)实行_____,农民除保留口粮、种子粮和饲料粮外,其余粮食以极低的价格交售国家。

(2)普遍实行工业_____,将大中企业收归国有,对小企业实行监督。

(3)取消商品贸易,一切生活必需品都由国家集中分配。

(4)_____劳动,实行"不劳动者不得食"的原则。

4. 评价

(1)当时最大限度地集中了全国的人力、物力、财力,保证了_____斗争的胜利。

(2)许多措施超出战时需要的限度,但战争结束后,非但没有取消,反而进一步加强,带来很多消极影响。

二、新经济政策

1. 背景

国内战争胜利后,苏维埃政府亟须恢复国民经济,农民对_____政策日益不满。国家也没有能力直接领导和组织所有企业的生产。

2. 目的:为了解决国内的经济困难和_____。

3. 实施:_____年3月,俄共(布)十大决定实行新经济政策。

4. 内容

(1)农业:用固定的_____代替余粮征集制,纳税后剩下的粮食由农民自己支配。

(2)工业:关系到国家经济命脉的企业仍归国家所有,由国家经营;中小企业和国家暂时无力经营的企业,允许本国和外国的资本家经营;恢复_____。

(3)流通:由产品交换转为允许_____。

5. 意义

(1)是列宁建设社会主义进一步探索的结果,找到了过渡到社会主义的正确途径。

(2)使国民经济得到恢复和发展,苏维埃政权得到巩固。

三、斯大林时期的经济

1. 确立:经过_____和_____,实施国民经济发展五年计划,逐步取消了新经济政策,苏联确立了新的经济体制。

2. 表现

(1)经济体制:实行单一的_____;实行_____的经济管理体制;实行排斥市场的_____计划经济;主要以_____手段管理经济。

(2)政治体制:联共(布)以党代政,权力集中在少数人手中,民主与法制不健全。

3. 影响

(1)积极性:苏联社会主义经济取得了突出成就,形成了比较齐全的_____,基本实现了工业化。为日后战胜德国法西斯奠定了物质基础。

(2)局限性:片面发展重工业,使农业和_____长期处于落后状态;人民生活水平提高缓慢;为了积累资金,国家从农民身上拿走的东西太多,农民生产积极性不高;长期僵化地执行计划指令,压抑_____和企业的积极性;逐渐僵化。二战后社会主义国家大都照搬了这种体制,因此被称为"斯大林模式"。

正误判断 ZHENGWU

1. 战时共产主义政策是为了应对卫国战争的困难而实行的特殊措施。(　)
2. 战时共产主义政策下,取消商品贸易,实行实物配给制。(　)
3. 新经济政策是符合俄国国情的向社会主义过渡的正确途径。(　)
4. 通过工业化和农业集体化,实施国民经济发展的五年计划,到20世纪30年代初,苏联确立了高度集中的计划经济体制。(　)
5. 斯大林模式的特点之一是用行政命令代替市场经济管理。(　)

关注微信公众号"教辅资料站"获取更多学习资料

学习札记

课堂达标 点对点 KETANGDABIAODIANDUIDIAN 基础达标练能力

对点训练 DUIDIAN

知识点一　战时共产主义政策

1. 小说《静静的顿河》中的一位暴动士兵说："青天白日里就进行疯狂的抢劫！把我们家的粮食全搞走啦，连小石磨都抬走啦，法令上是说这样为劳动人民的吗？"士兵的话主要针对战时共产主义政策中的（　）
A. 余粮征集制　　B. 企业国有政策
C. 粮食税　　D. 劳动义务制

2. 如图从一个侧面反映了苏俄某一特定时期实施的经济政策。下列有关该政策的理解，正确的是（　）



列宁参加义务劳动

A. 巩固了新生的苏维埃政权
B. 恢复了货币流通和商品交换
C. 奠定了工业化的基础
D. 找到了向共产主义过渡的途径

3. "战时共产主义政策"之所以失败可以用"水能载舟，亦能覆舟"来概括。这说明"战时共产主义政策"（　）
A. 严重损害了人民的经济利益
B. 严重脱离了苏俄的国情
C. 有利于推翻沙皇的专制统治
D. 很好地保护了人民的利益

知识点二　新经济政策

4. **(2018·辽宁铁路实验中学期中)**列宁认为无产阶级应当有这样的胆识，"迫使共产主义的敌人来建设共产主义，用资本家捡来打我们的砖头建设共产主义！我们没有别的砖头，要迫使资产阶级专家在无产阶级的领导下来建设我们的大厦"。这一观点在实践中体现为（　）
A. 战时共产主义政策的实施
B. 新经济政策的实施
C. 国家工业化政策的推行
D. 农业集体化政策的推行

5. **(2019·北京海淀模拟)**苏俄曾经允许农民和小商人自由买卖，只有国民经济的主要控制力如银行、工厂、对外贸易和交通保持在国家手里。这些政策的实施（　）
A. 维护农民利益以巩固农村的革命政权
B. 充分利用商品价值规律以恢复发展经济
C. 集中一切力量支持红军在前线作战
D. 形成了计划经济和新型工业的发展模式

6. "新经济政策一执行……党的口号是'学会做生意'"。这里的"学会做生意"主要指（　）
A. 借助商品、市场和自由调节
B. 宏观调控与计划相结合
C. 恢复和发展私人企业
D. 实行粮食税制度

知识点三　斯大林时期的经济

7. 在斯大林模式下，全国是一个统一的"大工厂"，而企业只是这座"大工厂"中的一个"生产车间"……甚至"每一双皮鞋或每一件内衣都要由中央调配"。这表明斯大林模式（　）
A. 实行指导性的计划管理
B. 完全排斥市场调节
C. 优先发展重工业
D. 导致生活物资短缺

8. **(2018·辽宁铁路实验中学期中)**美国学者在《俄罗斯史》中写道："许多人认为，五年计划不过是斯大林的个人幻想，但在相对落后的国家要想实现工业化，五年计划或许并不是唯一的、也不是最好的办法，但它却是一条有效的捷径。"对这句话的正确理解是（　）
A. 计划经济体制的产生与斯大林没有任何直接关系
B. 计划经济的做法对于落后国家来说有一定的合理性
C. 计划经济是所有落后国家实现工业化的最佳途径
D. 计划经济的做法对苏联工业化没有发挥过积极作用

9. **(2018·江西赣州一中期末)**"实现了农业的集体化并建起新型的国营农场，从根本上改变了苏联农业的传统经营方式和组织结构……但是，暴风骤雨般的农业集体化为苏联的农业发展和农民的生活带来了许多负面的影响"。当时苏联进行"暴风骤雨般的农业集体化"是为了（　）
A. 满足战争需要
B. 协调国民经济的比例
C. 推动农业发展
D. 促进国家工业化建设

综合训练 ZONGHE

10. 阅读材料，完成下列要求。

材料一：1921年，苏俄以粮食税取代余粮收集制，决定巩固农民经济，对中农、力量单薄的农民以及扩大种植面积的农民减免税收。如按余粮收集制，1921～1922年应征收粮食4.23亿普特(1普特约为16.38千克)，改行粮食税后实际征收2.4亿普特。

材料二：实行国家资本主义是利用国家资本主义来组织大生产，目的是为了加速生产力的发展，更有效地同小资产阶级作斗争。除了国家资本主义以外，还出现了私人资本主义工商业。

——《新编苏联史》

材料三：1921年3月，通过了实行新经济政策的决议。……还有人吼道："列宁要把我们带到哪里去？"列宁做出了很好的回答："退一步，进两步。退是为了进，为了进必须退，不退就不能进。"

(1)结合材料一分析粮食税较余粮收集制的进步之处。
(2)根据材料二并结合所学知识，说说当时苏俄实行这种政策是否改变了社会性质。
(3)材料三中列宁是如何做到"退一步"的？"进两步"的主要含义是什么？

关注微信公众号"教辅资料站"获取更多学习资料

学习札记

课后提能　再巩固　KEHOUTINENGZAIGONGGU　知识巩固提能力

时间：45 分钟　满分：100 分

一、选择题(本题共 12 小题，每小题 4 分，共 48 分)

1. 黄仁宇评价苏俄(联)的某段历史认为："它没有预定的计划，只不过是仓皇应付非常态的各种措施。它如果有任何中心思想的话，也不过是起于动员时的群众心理。"这种看法反映了　(　)
A. 战时共产主义政策的仓促性
B. 新经济政策执行的必要性
C. 斯大林模式实施的片面性
D. 赫鲁晓夫改革的局限性

2. 在俄罗斯长篇小说《切温古尔》中有这样一段话："令人费解的是，红军来了，分了土地，却又把每一粒粮食收走了，你倒是自己去尝尝这样的土地的滋味吧！"如按上述材料进行情景解读，正确的是　(　)
①背景：新生的苏维埃政权陷于国内外反动势力的包围，形势非常不利。
②内容：苏维埃政府采取了余粮收集制，导致农民的不满。
③后果：促使苏维埃政府运用国家权力，推行农业集体化政策。
④结论：农民是落后生产力的代表，无产阶级的领导是其走上社会主义道路的前提。
A. ①②　　B. ①③
C. ②④　　D. ③④

3. 列宁在评价战时共产主义政策时说："当时所处的战争条件下，这种政策基本上是正确的。"当时这一"基本正确"的政策不包括　(　)
A. 实行余粮收集制
B. 大中小型企业全面国有化
C. 取消自由贸易
D. 实行按劳分配

4. 1921 年苏俄的粮食播种面积只有 9 030 万公顷，比 1920 年减少 690 万公顷，只及 1913 年的 85%。从中可以看出，此现象发生的主要原因是　(　)
A. 苏俄工业化发展，工业反哺农业所致
B. 国内战争使农业生产形势日益恶化
C. 新经济政策的推行，农业生产效率大大提高
D. 战时共产主义政策挫伤了农民生产的积极性

5. "耐泼曼"是 20 世纪初期苏俄的新名词，指"能雇佣劳力，并能保留他们的经营利润的农民和新商人"。这一名词的出现是由于　(　)
A. 国家工业化的推行
B. 新经济政策的实施
C. "战时共产主义"政策的实施
D. 农业集体化政策的推行

6. 在俄罗斯政论家尤里布尔金看来，改行新经济政策，就意味着放弃十月革命的思想和事业，意味着建设"民主的""多元市场的""社会取向"的资本主义。这一观点针对的是新经济政策　(　)
A. 完全恢复了资本主义的经济秩序
B. 将所有的国营企业私有化
C. 利用市场和商品货币恢复发展经济
D. 使国家经济全面转向资本主义

7. **(2019·辽宁本溪一中月考)**英国史学家霍布斯邦说："若无十九世纪资产阶级社会的解体在先，势无十月革命以及苏联的成立在后。"又说："发生于二十世纪三十年代的大萧条，使人们认为苏联的经济制度成为一条全球性的可行之路。"依据这样的陈述，下列最恰当的解释是　(　)
A. 资本主义得以挑战社会主义，最大的力量来自于本身的强大
B. 社会主义得以挑战资本主义，最大的力量来自于本身的强大
C. 资本主义得以挑战社会主义，最大的力量来自于对手的弱点
D. 社会主义得以挑战资本主义，最大的力量来自于对手的弱点

8. **(2018·广西柳州、北海高三模拟)**1922 年召开的热那亚会议是苏俄参加的第一个重要国际会议，苏俄利用这次会议灵活而坚定地宣扬自己的和平共处与经济合作的外交政策，突破了帝国主义的反苏俄阵线，在国际上产生重大影响。这表明苏俄　(　)
A. 积极挫败协约国的武装干涉
B. 坚决退出帝国主义战争
C. 为经济恢复创造良好的环境
D. 正在探索社会主义模式

9. **(2018·江西南昌高三二模)**数千名新经济人遭囚禁，或被赶出家门。到 1928 年底，1926 年注册的 40 万民营企业中，已有一半以上因不堪重税或警方行动而被关闭；到 1929 年底，存留的仅占十分之一。苏联上述做法是　(　)
A. 社会主义工业化的影响
B. 新经济政策实施的结果
C. 打击国内反动势力的措施
D. 应对世界经济危机的策略

10. **(2018·湖南衡阳高三二模)**斯大林在 1928 年《论工业化和粮食问题》的演说中说："农民不仅向国家缴纳普通税，而且他们在购买工业品时还要因为价格较高而多付一些钱，……为了保持并加快工业发展的现有速度，保证工业满足全国的需要，我们不得不暂时征收这种税。"下面对斯大林的演讲理解正确的是　(　)
A. 强调农业集体化是工业化的基础
B. 斯大林为其经济发展模式辩解
C. 农民对斯大林模式产生严重不满
D. 斯大林准备放弃计划经济体制

11. **(2018·宁夏银川一中高三一模)**1928 年，苏联通过了培养大量技术专家的决议，要求在生产中采用本国和外国的科学和技术的最高成就；1928～1929 学年度的苏联高等技术学校(工学院)的数量从 32 所增至 1929～1930 学年度的 96 所。这是由于苏联当时　(　)
A. 国家发展战略的需要
B. 经济体制调整的需要
C. 文化教育改革的需要
D. 外交政策转变的需要

关注微信公众号"教辅资料站"获取更多学习资料

学习札记

12.(2018·安徽宣城高三二调)1932～1933年,乌克兰发生粮荒,斯大林动用警察、国家安全机构强行征粮,致使乌克兰地区约400万人因缺粮而死亡。对此苏联政府不但不予以粮食援助,而是继续向该地区征粮。斯大林此举旨在　(　)

A. 备战反法西斯战争

B. 保证工业化的优先发展

C. 消除城乡之间差别

D. 推动农民走集体化之路

二、非选择题(本题共2小题,第13题26分,第14题26分,共52分)

13.(26分)阅读材料,完成下列要求。

材料一:长期的内战和干涉对有关的所有党派都是一场灾难。它使从波罗的海到太平洋沿岸的俄国农村的土地荒废,使俄国人民大批死于战祸、饥饿和疾病。同样严重的是新成立的苏联与西方世界之间的关系恶化。苏联领导人怀有的"被资本主义包围"的这种马克思主义的担心进一步加深,而西方政治家则对1919年建立的共产国际的无用的宣言过于认真。这种相互的不信任既深刻又持久,因此毒化了随后十年的国际关系。

——《全球通史》

材料二:注重实际的列宁认识到让步是不可避免的——因而于1921年采取了新经济政策,这一政策允许局部的恢复资本主义。尤其在农业和贸易方面。……对列宁来说,新经济政策并不意味着社会主义在俄国的结束,而是暂时的退却,"后退一步是为了前进两步"。

——《全球通史》

材料三:1922年4月,包括苏俄和德国在内的国际经济会议在意大利热那亚召开。根据列宁指示,苏俄代表团出席会议的基本任务是:在维护国家主权、坚持平等互利的基础上努力发展同资本主义国家的正常贸易和经济合作。会议期间,协约国拒绝了苏俄的建议。但苏德双方签订了《拉巴洛条约》。条约规定立即恢复两国的外交关系并按最惠国待遇的原则发展两国的经济关系等。

——《全球通史》

(1)依据材料一并结合所学知识,分析当时的苏俄面临着怎样的内外形势。造成这种状况的主要原因是什么?(8分)

(2)结合所学知识,如何理解材料二中新经济政策意味着"后退一步是为了前进两步"?(6分)

(3)结合材料一,概括说明材料二、三中列宁及布尔什维克党的内外政策对苏俄(苏联)的重大意义。(8分)

(4)材料二、三中列宁制定政策的依据是什么?(4分)

14.(26分)阅读材料,完成下列要求。

材料一:斯大林在论述苏联的工业化时说:"在资本主义国家,工业化通常是从轻工业开始的,由于轻工业同重工业比较起来,需要的投资少,资本周转快,获得利润也较容易。……共产党当然不能走这条路。党知道战争日益迫近,没有重工业就无法保卫国家,所以必须赶快发展重工业。"

——《斯大林选集》下卷

材料二:工业化,特别是重工业的发展,是计划的核心。在没有外国贷款的情况下进行工业化,农业部门成为重要的资金来源。

——[美]帕尔默·科尔顿《世界近现代史》

材料三:苏联工业化一开始时,农民不但要交纳直接税和间接税,还要低价出售农产品和高价买进工业品。……在苏联工业化短短的十几年内,曾发生两次较大的农业危机,农民对立情绪严重,主要消费品长期短缺,供给不足,苏联大约饿死1 000万人。

——《斯大林时期苏联工业化的理论和实践》

(1)依据材料一分析,西方国家的工业化途径是怎样的?为什么?(8分)

(2)依据材料一、二分析苏联的工业化途径有何不同?主要原因是什么?(8分)

(3)依据材料三,指出苏联工业化过程中出现的问题。(6分)

(4)苏联的工业化进程有什么经验教训?(4分)

关注微信公众号"教辅资料站"获取更多学习资料

学习札记

第15课　大萧条与罗斯福新政

课前预习 抓双基 KEQIANYUXIZHUASHUANGJI 夯基固本判一判

自主预习 ZIZHU

一、“黑色星期四”

1. 原因

(1)资本主义各国发展迅速,财富主要集中于少数资本家手中,普通大众的收入增长缓慢,使资本主义固有的_____与_____的矛盾更加突出。

(2)美国政府奉行_____经济政策使供给与需求的矛盾得不到缓解。

(3)人们对经济形势盲目乐观,_____过度。

2. 危机爆发

1929年10月24日,美国_____证券交易所股市崩溃。

3. 美国政府的最初措施

延续自由放任政策。

二、经济危机横扫资本主义世界

1. 危机扩展

迅速波及所有资本主义国家,影响了所有的经济部门。

2. 各国对策

纷纷采取以邻为壑、转嫁危机的办法,它们提高_____,实行_____贬值。

3. 影响

(1)世界经济进一步陷入混乱,国际关系也日趋恶化。

(2)使得人们对整个_____制度产生了怀疑。

三、罗斯福新政

1. 主要内容

(1)整顿_____,恢复银行正常的信贷活动,重建人们对银行的信心。

(2)调整工业生产,国会通过《_____》,力图消除生产过剩、恢复工业。法案还规定了_____和最高工时的标准,承认劳动者有组织起来与雇主集体谈判的权利。

(3)调节农业生产,政府采取各种措施减少耕地面积和农产品产量,收购剩余农产品以控制_____。

(4)实行社会救济和_____,兴办了许多公共工程,提供了大量的就业机会。

2. 成就

美国逐渐从经济危机的阴影中走出来,社会生产力在一定程度上得到恢复。广大的中下层民众也从新政中获得了一定的好处。

3. 意义

(1)开辟了一条新的发展道路,其核心内容是用_____的力量扩大消费,调整供给与需求的矛盾。

(2)新政式的调整后来被一些主要资本主义国家所借鉴。新政标志着资本主义进入了政府大规模干预经济的时代。

四、凯恩斯主义

1. 背景

1929～1933年经济危机的爆发促使人们进行反思,_____的经济理论开始受到人们的质疑。

2. 核心内容

政府必须放弃自由放任主义,_____和社会生活,成为“看得见的手”。

3. 影响

从根本上改变了传统经济学的观念。

正误判断 ZHENGWU

1. 导致资本主义经济危机爆发的根本原因是供需矛盾的尖锐。(　　)
2. 1929～1933年经济危机爆发后,胡佛政府放弃了自由放任政策,开始大规模国家干预经济。(　　)
3. 1929～1933年的经济危机引发政治危机,使资本主义制度面临巨大冲击。(　　)
4. 《全国工业复兴法》在一定程度上照顾了工人阶级的要求,有缓和社会矛盾的作用。(　　)
5. 凯恩斯主义是解决经济危机的一剂良药,从根本上解除了危机。(　　)

课堂达标 点对点 KETANGDABIAODIANDUIDIAN 基础达标练能力

对点训练 DUIDIAN

知识点一　“黑色星期四”

1. **(2018·河北保定高三一模)** 美国学者丹尼尔·贝尔指出:大众消费时代开始于20世纪20年代,技术革命加上市场的发展和分期付款购物法的传播,彻底打破了新教徒害怕负债的传统顾虑,最终导致消费社会的降临。由材料中可以得出美国　(　　)

A. 经济政策需要调整

B. 供求矛盾存在激化的危险

C. 宗教观念受到冲击

D. 科技进步拉动了民众消费

2. 1929年开始的经济危机首先表现为　(　　)

A. 金融危机　　B. 通货膨胀

C. 市场萧条　　D. 产品过剩

关注微信公众号“教辅资料站”获取更多学习资料

学习札记

知识点二　经济危机横扫资本主义世界

3. 1929～1933年经济危机的特点和影响有　(　)
①波及范围特别广　②持续时间特别长　③破坏性特别大　④加深了所有各国的社会危机　⑤加剧了世界形势的紧张
A. ①②③⑤　　B. ①②③④
C. ②③④⑤　　D. ①③④⑤

4. 经济大危机(1929～1933年)的一个重要影响是使地方性的经济民族主义得到发展。经济民族主义的中心思想就是经济活动要为国家的整体利益服务,在总崩溃的大潮流中,各国都采取了诸如更严格的进口限额和双边贸易协定等形式的自卫措施,以维护国家经济利益。美国在当时采取的政策中,具有经济民族主义色彩的是　(　)
A. 调整农业,扭转危局
B. 美元贬值,刺激出口
C. 以工代赈,扩大内需
D. 计划指导,政府干预

知识点三　罗斯福新政

5. "罗斯福上台后,短时间内就促使国会通过了一系列令人印象深刻的立法。胡佛政府领导下实行的援助农场主、小户人家和工业的小心翼翼的方案,被空前地扩大了,以致面目一新,无从辨认。"这段话的作者认为罗斯福新政　(　)
A. 使美国彻底克服了经济危机
B. 使市场经济变成了计划经济
C. 与胡佛政府的政策差别不大
D. 是对胡佛政府政策的大胆突破

6. 罗斯福就职演说(1933年3月):"我们最重大的首要任务,是使人民有工作可做……由政府本身直接募工,可以部分的完成这一任务。"罗斯福新政期间,为此而采取的重大举措是在　(　)
A. 整顿财政金融方面　　B. 工业方面
C. 农业方面　　D. 社会福利方面

7. **(2019·山西榆社中学高三模拟)**1933年,美国棉花丰收在望,而新成立的农业调整局、农业附属服务机构及其在各县的代理人却与成千上万的棉农签订了犁毁棉田的协议,同意犁毁棉田的棉农可以获得适当的补偿。美国政府推行"犁毁棉田"的主要目的是　(　)
A. 维护棉农的利益
B. 解决农民的失业问题
C. 稳定棉花的价格
D. 强调国家对农业的干预

8. 罗斯福新政的某项法案在国会讨论时,反对者声称,如果它被通过,子女就将不再赡养父母,工人也会辞工不干。有人甚至认为这个法案是从共产党的著作中抄来的。下列与之直接相关的新政措施是　(　)
A. 整顿财政金融
B. 加强工业计划指导
C. 成立农业调整署
D. 建立社会保障体系

知识点四　凯恩斯主义

9. "大国之谜,当然还有另外的答案,那就是体制创新。"20世纪30年代的美国所进行的体制创新最突出的特点是　(　)
A. 实行市场经济
B. 政府加强对经济的干预
C. 知识经济
D. 积极拓展海外市场

综合训练 ZONGHE

10. 阅读材料,完成下列要求。

材料一:由政府调节工业生产中的问题,各个工业企业制定本行业的公平经营规章,规定各企业的生产规模、产品价格、销售市场的分配……
——1933年《全国工业复兴法》

材料二:……农民负债累累,农产品价格已跌到历史最低点,猪肉三分一磅、牛肉五分一磅、一只肥羊卖不到一元钱。……农民收入锐减,很多人濒临破产。

材料三:从1935年到1942年,"工程进展署"花费了大约130多亿美元,雇佣了约850万工人,修建了……66.4万英里新道路……285个新机场等。
——《世界史·现代史编》

(1)材料一体现出美国罗斯福新政的内容是什么?其目的又是什么?
(2)为缓解材料二的问题,美国当时采取了哪些措施?
(3)根据材料三和所学知识,简述"以工代赈"有哪些作用。
(4)根据上述材料和所学知识,概括说明罗斯福新政的特点是什么。

关注微信公众号"教辅资料站"获取更多学习资料

学习札记

课后提能　再巩固　KEHOUTINENGZAIGONGGU　知识巩固提能力

时间：45 分钟　满分：100 分

一、选择题(本题共 12 小题，每小题 4 分，共 48 分)

1. (2019·山西模拟)罗斯福指出：1936 年全国 47%的家庭和个人的年均收入不足 1 000 美元，而1.5%的家庭的收入相当于这 47%的家庭的总收入；少数人暴富而多数人贫穷，民主制度国家的自由就不会是安全的。这表明“新政”的目的在于　(　)
A. 完善社会福利制度
B. 防止贫富差距过大
C. 维护资本主义政治制度
D. 推行以工代赈，增加就业

2. 1923～1929 年在任的美国总统柯立芝说：“既然只有富人才是有价值的，因此政府应该谨防多数人的意见。由于贫穷是罪恶的报应，政府便不应该向高尚的富人征税，以援助卑贱的穷人。由于富人最了解他们的利益所在，政府便不应该干预他们经营的企业。”对柯立芝上述观点的认识，不正确的是(　)
A. 维护资产阶级利益
B. 加剧贫富分化，激化社会矛盾
C. 压制民意，破坏民主制度
D. 为经济危机的爆发埋下伏笔

3. 1929 年 11 月 21 日，在华尔街股市崩盘后不久，胡佛总统召集美国主要的产业领袖到白宫开会，会上，胡佛宣布：“在以往的萧条中，政府采取的产业政策是对劳工市场立刻进行清算。我对这些政策和字眼都很反感，因为劳工不是商品，他代表了人类的家庭。此外，从经济学的观点看，由于(工资降低)人们突然间购买力的减少，这些行动只会加剧萧条，所以现在工资水平不应该下调、不应该减产、更不应该解雇工人。”这主要说明　(　)
A. 胡佛继续奉行自由主义的政策
B. 胡佛认为经济危机对美国的打击不是很严重
C. 胡佛对经济危机采取了干预的措施
D. 胡佛趁危机扩大了总统的权力

4. (2018·全国卷Ⅲ)

1929～1931 年美国部分行业工人周工资变化表(单位：%)

时间 / 类别	1929～1930 年	1930～1931 年
烟煤业	−12.3	−19.1
金属矿业	−6.6	−18.3
制造业	−7.2	−11.3

据表可知，当时美国　(　)
A. 最低工资标准失效　　B. 产业结构迅速调整
C. 经济危机不断加深　　D. 政府财政支出锐减

5. 罗斯福常对身边的新政派说：“你挑一个办法试试看嘛。失败了，就另换一个。总之，要搞点什么试试。”这表明　(　)
A. “新政”开展很顺利
B. “新政”实施缺乏规划
C. “新政”有章可循
D. “新政”是在摸索中进行的

6. 1930 年 6 月，美国国会通过了《斯穆特——霍利关税法》，修订了 1 125 种商品的进口税率，其中增加税率的商品有 890 种，有 50 种商品由过去的免税改为征税。在当时的形势下，美国的这种做法　(　)
A. 有力地刺激了美国产品的出口贸易
B. 加剧了全球贸易保护主义的盛行
C. 为摆脱经济危机提供了有效的模式
D. 加快了美国摆脱危机的进程

7. 1934 年 1 月 10 日，罗斯福总统宣布发行以国家有价证券为担保的 30 亿美元纸币，并使美元贬值 40.94%。导致 20 世纪 30 年代美元贬值的直接因素是　(　)
A. 经济危机
B. 政府强制推行《工业复兴法》
C. 政治危机
D. 政府调整财政金融政策

8. (2018·辽宁铁路实验中学期中)美国前总统胡佛在《国家工业复兴法》通过之后，评说：“这简直是法西斯！”他这句话主要是针对　(　)
A. 剥夺美国公民的自由竞争权力
B. 新政强制企业恢复生产
C. 政府干预经济调整工业生产
D. 对资本主义企业进行国有化改革

9. (2019·内蒙古集宁一中月考)历史学家评论罗斯福的“新政”是在资本主义经济肌体内部进行的一场“伤筋动骨”的大手术，把美国由地狱拉回人间。这场“大手术”指的是　(　)
A. 整顿财政金融体系，调整农业政策
B. 政府参与资本主义经济运行，大规模干预经济
C. 主张自由经营，反对国家政权干预资本家的经营
D. 加强对工业的计划指导，推行“以工代赈”

10. 有人认为，从 1933 年开始的“新政”，并没有使美国走出“大萧条”，美国人勒紧裤腰带又苦熬了七八年。美国真正的救星是二战，战时的军需充分吸收了美国剩余的劳动力，大量美军的出征又使美国从一半劳动力闲置走向劳动力短缺，乃至待在家里的妇女都被鼓励出来工作。下列对材料解读正确的有　(　)
①“新政”的作用是有限的　②二战的爆发完全消除了资本主义经济危机　③二战对美国经济的恢复起着重要作用　④二战使美国人口锐减，劳动力严重不足
A. ①②　　B. ①③④
C. ①②③　　D. ①③

11. 有学者将罗斯福的经济理论概括为：“私营企业(个人利润)经济不应消灭，应当保留。可是，这种经济的运营，并不总是有利于促进普遍福利。因此，只要是有必要，这种运营就必须由各州和联邦政府做出努力，加以改进和补充。”对上述这一概括性评语中的关键词理解错误的是　(　)

关注微信公众号“教辅资料站”获取更多学习资料

学习札记

A.“应当保留”指保持资本主义
B.“经济的运营”指市场经济机制
C.“改进和补充”指采用国家干预经济的办法
D.“普遍福利”指建立“福利国家”

12.凯恩斯说：“似乎没有强烈理由要实行国家资本主义，把社会大部分经济生活包括在政府权限之内。”对以上材料理解正确的是（　　）
A.主张国家干预经济，但也不完全排斥经济自由
B.强制推行国家资本主义
C.反对实行国家资本主义
D.主张完全的经济自由政策

二、非选择题（本题共2小题，第13题26分，第14题26分，共52分）

13.(26分)**(2019·黑龙江双鸭山一中高一月考)**阅读材料，回答问题。

材料一：1929年危机爆发三周后，胡佛要求国会通过降低所得税的法令，希望能减轻农民的负担……他相信面对灾难，联邦政府要有所作为，但联邦政府的作为应该是有限的。因为地方政府、企业和民众都是可以自救的，政府应该是最后一个介入者，也应该是最谨慎的介入者……胡佛拒绝利用大萧条让华盛顿变成一个庞大的官僚机构群，因为那将侵蚀美国的立国原则。……他坚定地认为任何政府的大规模干预行为都与美国制度的传统相抵触。

——摘编自李海青《不可不知的美国史》

材料二：这一法案（指《农业调整法》）在国会讨论时引起了激烈的争论。F·布里顿在众议院叫嚷：“国会审议的立法草案比苏俄现行的任何法律更加布尔什维克化。”

1936年，罗斯福在对前期“新政”作总结时指出：“我们美国正在打一场伟大而成功的战争。这不仅是一种反对匮乏、贫穷与经济不景气的战争，而且更是一种争取民主政治生存的战争。”

——摘编自郝承敦《西方向东方借鉴的发轫》

(1)根据材料一，概括胡佛经济政策的主要特点并分析其形成的原因。(12分)
(2)结合《农业调整法》内容，指出该法案在国会引起争议的原因。综上所述指出胡佛和罗斯福制定经济政策的根本出发点。(14分)

14.(26分)阅读材料，完成下列要求。

材料一：1929～1933年主要资本主义国家工业生产下降情况

美国	德国	英国	法国	日本
45.2%	40.6%	28.4%	16.5%	8.4%

材料二：美国1929～1937年失业率变化图

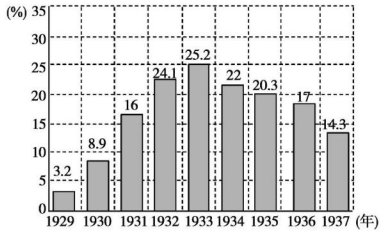

材料三：1929年，美国爆发了经济大危机，国民经济陷入绝境。……从1933年罗斯福上台开始，美国出台了《农业调整法》《全国工业复兴法》《联邦紧急救济法》等700多个法令，建立了全国工业复兴署、联邦紧急救济署等十几个委员会和管理局，国家支出达350亿美元……使经济在1933年夏1934年春开始小幅度回升，1936年和1937年出现明显的复兴迹象，1939年国民经济形势得到完全扭转。

(1)指出材料一反映的历史现象。(6分)
(2)依据材料二，分析美国失业率的变化。结合所学知识，美国政府采取的哪些具体举措导致了这一变化？(14分)
(3)根据材料三，概括罗斯福新政的最主要特点，并说明其运用手段主要有哪几种。(6分)

关注微信公众号“教辅资料站”获取更多学习资料

学习札记

第16课　战后资本主义经济的调整

课前预习 抓双基 KEQIANYUXIZHUASHUANGJI 夯基固本判一判

自主预习 ZIZHU

一、国家对经济的大力干预

1. 背景

(1)二战后，西方发达国家吸取20世纪30年代大危机的教训。

(2)普遍放弃自由放任政策、接受_____，采取国家干预经济的政策。

2. 方式

(1)实行国有化，建立_____。

(2)制定_____，指导经济发展。

(3)扩大_____、政府直接采购以及利用_____等财政政策调节社会生产。

3. 特点

在不同国家，政府对经济干预的重点不同。

4. 影响

(1)积极：用国家力量调节经济，一定程度上避免了私人资本生产的_____，保证了生产的社会性。

(2)消极：_____普遍存在着经营不善、效益低下的弊端。

二、“人民资本主义”和“经营者革命”

1. “人民资本主义”

(1)背景：随着生产力的发展和企业规模的扩大，_____成为发达国家经济的主体。

(2)含义：资本家和企业普通职工都拥有股票，股票呈现出_____的趋势。

(3)影响：缓和了社会矛盾，反映了资本_____的趋向，但企业的决定权仍然掌握在少数大股东手中。

2. “经营者革命”

(1)背景：企业生产_____的增加和生产过程日益复杂化的要求。

(2)含义：企业所有者退出经营第一线，由专门的_____和科技人员从事经营。

(3)影响：提高了企业管理水平。经营管理人员成为“_____”的重要组成部分。

三、福利国家的出现

1. 建立：战后，发达国家在生产力提高的基础上，建立起比较完善的_____制度。最早宣布建立福利制度的是_____。

2. 特点

(1)从单纯的救济发展成为公民的_____，得到立法和制度上的保证。

(2)种类繁多、覆盖面广，_____阶层受惠多。

(3)英国等福利制度相对发达的国家被称为“_____”。

3. 评价

(1)是国家进行国民收入再分配的一种形式，反映了_____社会化的趋势。

(2)使低收入者的生活得到基本保障，缓解了社会矛盾，也扩大了社会消费。

(3)使国家财政支出扩大，造成_____，降低了人们的工作积极性。

四、20世纪70年代的新变化

1. 原因

1973年“黄金时代”结束，发达国家出现经济“_____”现象。

2. 表现

_____国家对经济的干预，出售部分国有企业、削减社会福利开支。

正误判断 ZHENGWU

1. 二战后，资本主义国家普遍放弃自由放任的政策，利用国家权力对经济进行大力干预。（　）
2. 资本主义国家的国家干预是制定经济计划，实行计划经济。（　）
3. 股票分散化导致资本社会化趋向明显，使企业的决定权不再控制在少数大股东手中。（　）
4. “经营者革命”促进了“新中间阶层”的形成。（　）
5. 福利国家的出现，使社会福利覆盖面广，低收入阶层受惠多。（　）

课堂达标 点对点 KETANGDABIAODIANDUIDIAN 基础达标练能力

对点训练 DUIDIAN

知识点一　国家对经济的大力干预

1. 历史学家钱乘旦认为“美国是当代资本主义的集大成者”。以下能够说明此观点的是（　）
   A. 美国倡导并践行重商主义
   B. 美国把自由资本主义推向鼎盛时期
   C. 美国引领当代资本主义的新变化
   D. 美国成为世界唯一超级大国

2. 20世纪50年代，美国政府用于采购商品和支付劳务费用的总额超过了国民生产总值的1/5，并鼓励资本家按照政府的计划进行投资，这表明（　）
   A. 政府加强了对国民经济的宏观调控
   B. 美国开始走上了计划经济的道路
   C. 美国的黄金储备减少，美元贬值加剧
   D. 美国经济进入“滞胀”阶段

关注微信公众号“教辅资料站”获取更多学习资料

学习札记

3.(2018·安徽宣城高三二调)

	工业生产下降幅度(%)	失业人数最高点(万人)	物价变化(%)
1953～1954	9.1	393	－0.4
1957～1958	13.5	508	＋4.2
1960～1961	8.6	500	＋1.6
1969～1970	8.1	503	＋6.6

二战后美国经济危机出现新变化，根据上表，该变化是由于　(　)

A. 经济危机的危害程度降低
B. 国家干预经济政策的推行
C. 世界自由贸易体制的形成
D. 科技革命知识经济的兴起

知识点二　“人民资本主义”和“经营者革命”

4.(2018·辽宁铁路实验中学期中)哈佛商学院教授卡特原本两袖清风，后来成为西部最大的零售公司总经理，持有该公司100万美元的股票，成为最大的股东之一。这一现象在二战后的美国日益普遍，其造成的主要影响是　(　)

A. 促成专业经理人的出现，有利于中产阶级壮大
B. 提高企业管理水平，避免了生产无政府状态
C. 股权分散使资本家丧失企业决定权
D. 知识经济在国民经济中所占比率越来越高

5. 联合利华高级副总裁加文·尼斯说：“我们的员工持有公司的股份，因此他们与公司休戚相关。……这是我们从一家私人公司转变为一家公众公司的标志之一。”“公众公司”的出现体现了　(　)

A. 公司变成工人所有
B. 公司所有权的某种转变
C. 公司由职业经理人经营
D. 公司变为国有企业

6. 在20世纪80年代中期，美国的白领工人人数已占全国劳动力总数的一半以上，从事体力劳动的工人人数正在日益减少，而从事技术性、信息性和智力性工作的非生产性知识型人员的队伍却在不断地扩大。因此，可以推断美国　(　)

A. 知识型阶层将成为社会的主体
B. 非生产人数占劳动力的大多数
C. 人们逐渐摆脱繁重的体力劳动
D. 产业结构已发生了革命性变化

知识点三　福利国家的出现

7. 下图所示历史现象出现的最直接原因是　(　)

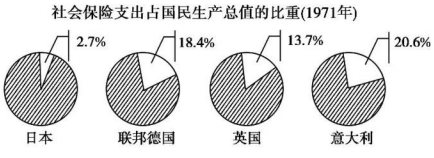

A. 凯恩斯主义的盛行　　B. 国家干预经济
C. 建立“福利国家”　　D. “新经济”的出现

8. 近年来，希腊等欧盟国家发生了严重的债务危机，在希腊政府被迫通过多项财政紧缩政策后，欧洲其他国家也纷纷采取缩减社会福利的措施，减少赤字，结果遭到民众和工会组织的强烈反对，各种罢工游行此起彼伏。这表明西方原有的福利政策　(　)

A. 加剧了社会各阶层的矛盾
B. 片面照顾高收入阶层利益
C. 缺乏政府政策的有力支持
D. 使一些国家财政赤字严重

知识点四　20世纪70年代的新变化

9. 在20世纪70年代，“(西方国家)决策者态度的变化被流行的学术观点所强化了。凯恩斯主义者们被疏远了，失去了他们对政策的影响力”。导致这一变化的主要原因是　(　)

A. 国家垄断资本主义的发展
B. 西方“福利国家”的发展
C. 经济危机和“滞胀”的出现
D. 第三产业和“新经济”出现

综合训练 ZONGHE

10. 阅读有关战后资本主义经济调整的材料，完成下列要求。

材料一：1938～1999年英国政府开支占GDP的百分比变化

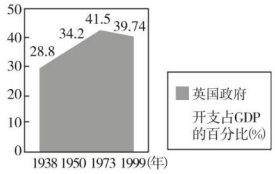

材料二：英国社会保障投入构成百分比

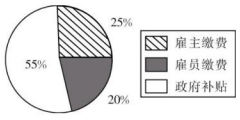

(1)1938～1999年英国政府开支占GDP的百分比的变化趋势是什么？发生这种变化的原因何在？

(2)英国社会保障投入构成中最主要的部分是什么？由此可以看出西方福利制度的什么性质？

(3)战后资本主义经济调整的最主要特点是什么？

关注微信公众号“教辅资料站”获取更多学习资料

学习札记

课后提能　再巩固　KEHOUTINENGZAIGONGGU　知识巩固提能力

时间：45 分钟　满分：100 分

一、选择题(本题共 12 小题，每小题 4 分，共 48 分)

1. 二战后，资本主义国家发展出现一些新的变化，下列说法中受罗斯福“新政”影响的是　(　)
①国家对经济的宏观调控成为一个重要的组成部分　②第三产业蓬勃发展　③“新经济”出现　④福利制度的发展
A. ②④　　B. ①③
C. ②③　　D. ①④

2. 第二次世界大战后，发达国家的经济被称为“国家垄断资本主义”。这表明　(　)
A. 垄断资本日益排挤中小企业
B. 国有企业占主导地位
C. 国家对经济的控制加强
D. 私人经济依附于国家

3. **(2018·湖北黄冈高三调研)**复旦大学中国经济研究中心主任张军说：“1929 年危机之后，政府的大财政都变成常态了……凯恩斯主义现在比较流行，已摧毁了很多国家潜在增长的能力，在这个意义上，这可能是个不幸的事情。”张军认为凯恩斯主义　(　)
A. 遭到众多国家的抵制
B. 刺激经济具有时效性
C. 对经济发展的危害性
D. 损害后发国家的利益

4. **(2018·东北三省三校高三联考)**1951 年 10 月，工党在大选中败北，保守党丘吉尔再次组阁后并没有废弃工党政府的施政措施，仅终止钢铁工业和国内运输业的国有化计划，并在国民保健方面减少一些政府开支，其原因是　(　)
A. 保障资产阶级民主制度
B. 英国已成为福利国家
C. 国家干预适应经济发展
D. 工党的改革卓有成效

5. 据统计，“1965 年，美国最大的 100 家工业公司中，家族控制的占 36%，经理控制的占 64%”。材料表明二战后西方资本主义发生的变化是　(　)
A. 二战后资本主义经济调整，政府干预下私人垄断受到打击
B. 企业生产科技含量增加和生产过程复杂，出现“经营者革命”
C. 生产力的发展，股票不再为少数资本家拥有
D. 经营管理人员的不断增加，“新中间阶层”出现

6. 今天的美国惠普公司不是惠普家族独家经营，也不是惠普家族独家拥有，它是由无数个受过专业训练的管理人才在经营，它是藏富于民的一种手段。这反映出第二次世界大战后资本主义经济的哪些变化　(　)
①“经营者革命”　②“人民资本主义”　③福利制度的建立　④实现企业国有化
A. ①②③　　B. ②③④
C. ①②　　D. ③④

7. **(2019·全国卷Ⅲ)**20 世纪 70 年代中后期，法国国内生产总值年平均增长率由 2.6%下降到 1.3%，物价上涨了 1 倍。1981 年，密特朗就任总统后，推行包括国有化在内的一系列措施，其结果　(　)
A. 加剧了经济恶化　　B. 实现了物价下降
C. 推动了通货紧缩　　D. 放弃了经济自由

8. **(2018·广东翠园中学期中)**二战后，西方发达资本主义国家建立了比较完善的社会福利制度。(英国)社会福利计划的各项开支占到了公共支出总额的 50%。……(瑞典)主要靠借债和赤字预算来维持社会福利的各项开支。……70%以上的美国人反对政府在福利救济方面花更多的钱。由此可知，关于福利制度的认识，以下说法正确的是　(　)
A. 根除了贫富分化
B. 是资本主义国家出现“滞胀”现象的根本原因
C. 解决了资本主义社会的基本矛盾
D. 扩大了政府财政支出，存在降低人们工作积极性等弊端

9. **(2019·广东惠阳中学模拟)**1980 年，英国撒切尔政府开始通过公房出售的方式改革原有的公房使用制度，并缩减社会住房开支。随后在 1988 年开始了把社会住房转让给住房协会的改革。其主要目的是　(　)
A. 全面放弃国家干预经济政策
B. 消除贫困现象促进社会公平
C. 尽力争取议会中工党的支持
D. 增强英国经济复苏发展活力

10. “据欧盟统计局统计，芬兰对工薪者征收的所得税，加上雇主为雇员缴纳的社会保险金，在 2001 年占到工薪者工作收入的 44.2%。……芬兰的各种税收加在一起，在 2001 年占到国民生产总值的 46%”。这则材料说明　(　)
A. 福利国家的高福利是建立在高税收基础之上的
B. 福利国家因财政负担加重而竞争力下降
C. 福利过度发展，会使人们懒惰成性，不利于社会的发展
D. 福利国家鉴于开支巨大，纷纷放弃福利制度

11. 1981 年 1 月里根就任总统后即着手社会保障制度的改革。……政府推动私营福利事业的发展，强调调动私营保险业的积极性，给予私人养老金计划以更多的税收优惠，并使更多的人参加个人退休储蓄账户。里根政府做出如此改革的直接原因是　(　)
A. 增加就业岗位　　B. 国家财政不堪重负
C. 社会矛盾尖锐　　D. 经济出现“滞胀”

12. 凯恩斯因有效解决了 20 世纪 30 年代的“大萧条”问题而被称为“战后繁荣之父”；而到了 70 年代“滞胀”出现后，他又被称为“战后滞胀病之母”。凯恩斯主义失灵从侧面说明了　(　)
A. 国家垄断资本主义政策并非万能
B. 计划经济和市场经济不可调和
C. 国家垄断资本主义是历史的倒退
D. 应不断加强对工业的计划指导

关注微信公众号“教辅资料站”获取更多学习资料

学习札记

二、非选择题(本题共2小题,第13题26分,第14题26分,共52分)

13.(26分)阅读材料,完成下列要求。

材料一:英法美能够率先开始工业化,主要原因是从它们的传统社会内部自发地产生了推动工业化的因素……现代私有制与充分自由化的市场为经济增长开辟了广阔天地,但是现代经济生活的自由放任带来日益严重的社会失控,这样市场上显示的生产过剩危机与发展中贫富差距增大,便形成了资本主义发展模式的基本结构性矛盾。这一矛盾导致本世纪(20世纪)初巨大的摆动即资本主义大危机,给所有国家都带来了强烈的影响……推动了对"古典"发展模式的修正。

——罗荣渠《现代化新论》

材料二:如果没有政府的介入,经济萧条可能永远无法结束,一般均衡永远无法重新达到。增雇一定量的劳动力服务于公共工程项目,它对总就业量的影响,在失业问题比较严重时,比几乎达到充分就业时要大得多。

——凯恩斯《就业、利息和货币通论》(1936年)

材料三:芝加哥学派的经济学家强调自由市场的重要性,认为政府对经济干预越少越好。对20世纪80年代,他们的主张被英美等国用以改造二战后的资本主义。英美等国政府通过私有化不断从经济领域撤出,但政府在经济领域中的作用依然重要,其首要责任从财富分配和保障平等转变为激励个人的独创精神及财富创造,同时又采取措施以弥补新政策的缺陷。

——丹尼尔·耶金《制高点》

(1)材料一中的"古典"发展模式最主要的特征是什么?(2分)

(2)材料二中的凯恩斯主义核心理论是什么?先于这一理论的创立,西方国家在实践中开始修正"古典"发展模式的标志是什么?据材料一、二,指出西方国家修正"古典"发展模式的主要原因。(12分)

(3)据材料三并结合所学知识,指出20世纪80年代西方国家是如何再一次调整发展模式的。根据材料三,概括其调整的主要原因。(8分)

(4)综合上述材料,就西方国家经济发展模式的调整简要谈谈你的体会。(4分)

14.(26分)近来,欧美国家的债务危机不断发展,引起人们对社会福利制度的重新思考。阅读材料,完成下列要求。

材料一:经济危机与社会福利制度

1933年,美国政府颁布《紧急救济拨款法》,实行"劳动福利政策",国家提供50亿美元的失业救济,组织失业者进行公路、堤坝、桥梁、公共建筑等公用事业的建设。1935年又颁布《社会保障法》,该法规定:"本法案旨在增进公共福利,通过建立一个联邦的老年救济金制度,使一些州得以为老人、盲人、受抚养的和残废儿童提供更为可靠的生活保障,为妇幼保健、公共卫生、和失业补助法的实行作出妥善的安排。"罗斯福政府对富人征收重税,提高了遗产税,征收赠予税,对数额巨大的个人净收入征收累进税,使国民收入得到了更为合理的分配。

材料二:福利制度与欧美债务危机

二战后,随着经济的发展,西方发达国家普遍建立了所谓"从摇篮到坟墓"的"福利国家"制度。在一定国家,如德国,失业工人享受的福利待遇甚至超过正常工作的低收入者,使得过多的公民宁愿领取社会福利金而不去工作。在希腊,公务员的未婚或离婚女儿,仍然可以在父母死后继续领取他们的退休金。很多国家的社会福利支出是其财政总支出中的最大项目,一般在30%以上,德国甚至达到71.49%。2010年社会福利在希腊政府总支出中的占比达41.6%。截至今年2月份,希腊的债务高达2 940亿欧元,人均负债2.67万欧元左右,债务危机空前加剧。20世纪70年代起,改革福利制度的呼声逐渐高涨,联邦德国总理科尔说:"我们太贵了,这些既得利益现在都需要打破。"

材料三:福利制度能走多久

80年代以来,西方国家纷纷改革福利制度,但步履维艰。每一次福利制度改革都会引发民众的抗议怒潮(如图),大规模的罢工和示威游行不断发生。为了迎合选民,争取选票,任何政党都不愿采取真正的增税收、降福利、消赤字的改革办法来实施根本的治国良策。



(1)依据材料,归纳美国社会保障制度的特点。结合有关背景知识,分析这些措施的时代意义。(10分)

(2)根据材料反映的问题,结合20世纪70年代经济形势的变化,谈谈改革福利制度的必要性。(9分)

(3)依据对材料的分析,你认为如何才能使福利制度走得更久?(7分)

关注微信公众号"教辅资料站"获取更多学习资料

学习札记

第17课　苏联的经济改革

课前预习 抓双基 KEQIANYUXIZHUASHUANGJI 夯基固本判一判

自主预习 ZIZHU

一、赫鲁晓夫改革

1. 背景

(1)第二次世界大战后，随着苏联建设的发展，_____的弊端日益暴露。

(2)苏联农业生产落后。

2. 措施

(1)农业方面

①用_____代替农产品义务交售制；允许集体农庄庄员拥有一定数量的自留地和饲养一定数量的牲畜。

②_____，扩大谷物生产。

③开展大规模种植玉米运动。

④将拖拉机等农机卖给集体农庄。

(2)工业方面

①将部分企业_____下放到加盟共和国。

②给予企业调整部分工资等权力。

③尝试推行“_____”。

3. 成果

一定程度上冲破了传统观念的束缚，取得了一定成效。

4. 失败原因

(1)改革在理论上没有突破，只是在维持原有经济体制基础上进行的局部改革。

(2)改革缺乏_____和一贯的战略方针和思路，具有很大的_____。

(3)赫鲁晓夫个人作风存在严重缺陷。

二、勃列日涅夫改革

1. 目的：纠正赫鲁晓夫时期的混乱。

2. 内容

(1)工业方面：推行新经济体制，注意运用_____，扩大企业的_____，收到了一定的效果。

(2)农业领域：扩大_____的自主权、降低农产品的收购计划指标、提高农产品价格、放松对个人副业的限制等政策。

3. 结果

(1)没有突破原有经济体制的框架。

(2)20世纪70年代，与美国军备竞赛加剧，使经济发展速度放缓。到20世纪80年代初，经济全面滑坡。

三、戈尔巴乔夫的经济改革

1. 背景

苏联社会陷入危机边缘。

2. 措施

对经济体制进行了根本性的变革，承认企业是独立的商品生产者，要求国家主要用经济方法管理经济，打破单一的_____形式，允许个体经济存在。

3. 结果

(1)“_____”的重点放在重工业上，使经济结构更加失调。

(2)改革决策缺乏具体可行的配套措施，改革效果不佳。

(3)陷入困境后，把改革的重点转向_____体制改革，国内局势逐渐失控，1991年苏联解体。

正误判断 ZHENGWU

1. 二战后，斯大林模式的弊端长期得不到纠正，使苏联经济出现重大问题。(　　)
2. 赫鲁晓夫改革突破了斯大林模式的束缚，但因为领导人的个人因素导致失败。(　　)
3. 勃列日涅夫改革推行新经济体制，注意运用价值规律，收获了一定效果。(　　)
4. 赫鲁晓夫和勃列日涅夫改革的重点都是在农业领域。(　　)
5. 戈尔巴乔夫改革提出“加速发展战略”，把重点放在重工业方面。(　　)

关注微信公众号“教辅资料站”获取更多学习资料

学习札记

课堂达标 点对点 KETANGDABIAODIANDUIDIAN 基础达标练能力

对点训练 DUIDIAN

知识点一　赫鲁晓夫改革

1. 赫鲁晓夫提出15年内在人均产品产量方面赶上和超过美国。由此可以得出的结论不包括（　　）
A. 赫鲁晓夫缺乏实事求是的作风
B. 在经济建设上急于冒进
C. 提出的目标不切合实际
D. 背离了社会主义方向

2. 口号是历史的浓缩，通过它们可以还原一段真实的历史。下列口号出现在赫鲁晓夫执政时期的是（　　）
A. “废除余粮征集制，拥护固定粮食税”
B. “谁不加入集体农庄，谁就是苏维埃政权的敌人”
C. “开垦、开垦、再开垦”
D. “建立人道的民主的社会主义”

3. **(2018·河北石家庄二中二模)** 赫鲁晓夫在苏共二十大会议期间批判斯大林，导致苏联人民尤其是年轻人开始怀疑社会主义道路，并对苏联共产党和社会主义的信念产生了动摇，这丝毫不亚于一颗原子弹的威力。苏共党内变故、社会主义阵营思想动乱、乃至被西方国家传播利用，都是它带来的恶果。由此可见（　　）
A. 改革不能超出经济领域
B. 苏联人的思想得到彻底解放
C. 意识形态稳定十分重要
D. 苏联完全摆脱了斯大林模式

4. 1952年到1964年，苏联政府收购谷物的平均价格指数提高了7.48倍，收购畜产品的价格指数提高了15.69倍。这是（　　）
A. 推行农业集体化导致的变化
B. 适应“加速发展战略”的需要
C. 应对世界农产品价格波动的措施
D. 调整农业政策的结果

知识点二　勃列日涅夫改革

5. 下列关于勃列日涅夫改革的表述，正确的是（　　）
A. 在社会主义国家中进行的最早
B. 没有摆脱斯大林模式的束缚
C. 只局限于农业领域
D. 没有取得任何成效

6. 勃列日涅夫时期，苏联几乎每两位科学家中就有一位在研究坦克、火炮和导弹，军工生产接近国民生产总值的40%。从长远来看，这一现象对苏联社会发展产生的最大影响是（　　）
A. 人民生活水平提高
B. 国民经济比例严重失调
C. 科技水平大大提高
D. 民用工业迅速发展

7. 20世纪60～70年代，勃列日涅夫经济改革成效不大的原因是（　　）
A. 过度信赖国际资本和国外市场
B. 没有突破高度集中的计划经济体制
C. 没有贯彻计划与市场相结合的方针
D. 民族与宗教矛盾等因素的影响

知识点三　戈尔巴乔夫的经济改革

8. 有学者这样描写前苏联一位领导人：“他摆弄这个国家，就像家庭主妇摆弄卷心菜一样。他以为只要把外面的烂叶子剥掉，就会有里边的好心子，他不停地剥下去，一直到剥光为止。”材料所描写的应是（　　）
A. 斯大林　　B. 赫鲁晓夫
C. 勃列日涅夫　　D. 戈尔巴乔夫

9. 20世纪80年代，苏联出现了种种危机，时任领导人的戈尔巴乔夫进行了经济改革，其主要手段是（　　）
A. 用经济管理代替行政命令
B. 实行自由放任的市场调节
C. 强化高度集中的经济体制
D. 鼓励个体小农经济的发展

综合训练 ZONGHE

10. 阅读材料，完成下列要求。

材料一： 1953年，斯大林逝世。不久，赫鲁晓夫(1894～1971年)当选苏共中央第一书记，开始对苏联内外政策进行调整。

材料二： 勃列日涅夫时期，苏联几乎每两位科学家中就有一位在研究坦克、火炮和导弹，军工生产差不多占国民生产的40%。由于军备竞赛和改革停滞，生产效率和经营水平与西方发达国家的差距越来越大，人民的生活水平长期得不到较大的提高。20世纪80年代上半期，苏联人均生活水平只相当于美国的1/3左右。广大人民群众的不满情绪越来越强烈，渴望改变现状的呼声日益高涨。

材料三： 苏联虽然号称“最发达的社会主义国家”，但主要消费品长期供应不足。经过七十多年建设，1985年苏联人均GNP为3 396美元，不仅落后于西方发达国家，而且还落后于亚洲、拉丁美洲一些国家。苏联人均收入为西方国家的三分之一左右，但由于苏联实行控制消费、高积累的政策，苏联人的生活水平与西方的差距更大。而且主要消费品长期短缺、供给不足，经常需要凭票供应，暗藏了通货膨胀的危险，人民生活水平从革命前的居欧洲第五位下降到在八十年代的居世界第八十八位。1985年人均住房面积仅15平米，为西方国家50%；每百户汽车拥有量为14辆，仅为西方国家的17.50%。

——《全球通史》

(1)结合材料一和材料二，说明勃列日涅夫的改革和赫鲁晓夫的改革的异同。

(2)材料三反映了苏联社会发展的什么问题？根本原因是什么？为解决上述问题，苏联进行过什么改革？结果如何？

关注微信公众号“教辅资料站”获取更多学习资料

学习札记

课后提能　再巩固　KEHOUTINENGZAIGONGGU　知识巩固提能力

时间：45 分钟　满分：100 分

一、选择题(本题共 12 小题，每小题 4 分，共 48 分)

1. [美国]史密斯作品《俄国人》中有三段描述："这里是工人的乐园，是世界上工人们混日子的最好地方，一个俄国青年……向我说，'他们不能把我们解雇'"。"即使在苏联本国生产的(某些)商品供应比较充裕时，俄国人也宁愿多出些钱购买进口货。""尽管排队是那样辛苦受罪，但是，一个俄国妇女一看到有人在那里站队，她的本能反应就是立即排了进去，甚至她不知道到底在卖什么！"对此理解正确的有　(　)

①苏联是工人的乐园，工人生产积极性极高　②苏联生产的产品质量较差　③苏联的生活消费品缺乏　④是高度集中的经济体制的结果

A. ①②③④　　B. ①②④

C. ①②③　　D. ②③④

2. 赫鲁晓夫上台后，首先对农村做了实际调查，对农业和粮食问题提出了一些新看法，在此基础上进行农业改革。下列结论不符合其调查结果的是　(　)

A. 农业生产管理过于集中

B. 农民对劳动生产的成果漠不关心

C. 农产品收购价格过高

D. 农业发展不能满足农民生活需求

3. **(2018·江苏卷)**1957 年，苏联进行工业体制改革，撤销汽车工业部，机器制造部等 7 个全联盟部，保留了航空工业部、无线电工业部等 6 个全联盟部，在地方设立了 105 个经济行政区，把被撤的全联盟部所管辖的企业移交给相应的经济行政区。上述举措的主要意图是　(　)

A. 从根本上突破斯大林模式

B. 摒弃优先发展重工业的政策

C. 适度扩大地方经济自主权

D. 削弱公有制经济的主导地位

4. 1953～1964 年，苏联的钢产量从 3 810 万吨增加为 8 500 万吨，煤产量从 3.2 亿吨增加为 5.5 亿吨，石油产量从 5 280 万吨增加为 2.23 亿吨，工人的生活得到改善，平均月工资从 1955 年的 76.2 卢布上升到 1965 年的 104.2 卢布。出现上述现象主要是因为当时的改革　(　)

A. 把农业作为经济改革的重点

B. 以发展工业尤其重工业为重点

C. 承认市场对经济的调节作用

D. 一定程度上冲击了"斯大林模式"

5. 有人评价赫鲁晓夫是"徘徊在新旧时代十字路口的一名代表人物，他的一只脚跨进了新时代，而另一只脚又由于历史的原因，仍然深陷在旧时代的泥淖之中而不能自拔"。下列选项能表明其"一只脚跨进了新时代"的是　(　)

A. 对工业管理体制进行改革，扩大地方权力

B. 大规模平反冤假错案，摆脱个人崇拜泥淖

C. 推行"新经济体制"，企业获得独立自主地位

D. 推行"加速发展战略"，以经济管理方式代替行政命令

6. 1964 年 10 月勃列日涅夫执政后，"在生产方面，企业有权根据下达的计划指标自行编制年度计划。在完成计划任务后，可以接受计划以外的加工订货任务，可以用自己的材料和废料生产计划以外的产品"。这一措施　(　)

A. 打破了传统经济体制的旧格局

B. 改变了职工吃企业"大锅饭"问题

C. 力图调动企业的主动性、创造性

D. 国家与企业经济关系得到根本调整

7. 如图是 20 世纪 60 年代到 80 年代苏联和美国工业产值的增长速度图，对此解读正确的是　(　)

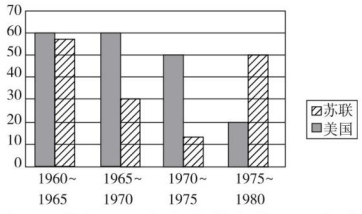

A. 苏联改革突破了斯大林模式使工业产值超过美国

B. 经济政策不同导致两国经济此消彼长

C. 扩军备战争夺霸权导致美国经济持续下滑

D. 经济多极化催生政治格局多极化

8. 1973 年，由于中东战争，石油价格大涨。这令苏联这个富油国获得了一大笔财富。也正是从 1973 年开始，苏联在历史上第一次成为粮食净进口国，并且一发不可收拾，对粮食的进口依赖越来越大。造成这种现象的原因是　(　)

A. 苏联丰富的石油储量使其外汇收入逐渐增加

B. 进口粮食消耗了大量的外汇，造成苏联农业萎缩，外汇短缺

C. 赫鲁晓夫执政，对斯大林模式进行调整未果

D. 勃列日涅夫执政时期没有更好地进行产业结构调整，贻误了苏联发展的最好时机

9. 勃列日涅夫改革推行新经济体制，在某些方面比赫鲁晓夫改革更加深入，这表现在　(　)

A. 充分发挥市场经济的调节作用

B. 打破单一的公有制形式

C. 突破了斯大林体制的框架

D. 一定程度上运用价值规律调节生产

关注微信公众号"教辅资料站"获取更多学习资料

学习札记

10. 1987年，戈尔巴乔夫说："改革就意味着……破除经济管理中的陈旧制度和思维上的教条主义的清规戒律。"这表明他的改革　（　）
A. 将以政治改革为突破口
B. 试图利用市场调节经济
C. 将放弃优先发展重工业
D. 宏观决策出现重大失误

11. **(2017·全国卷Ⅱ)**20世纪70年代至今，《赫鲁晓夫回忆录》多次出版，并被翻译成多种语言。因其内容的复杂性，不同年代版本的内容均有所不同。由此可知，此回忆录作为一种史料　（　）
A. 能够准确记述作者的事迹
B. 比相关研究著作的可信度更高
C. 版本越新越接近历史真相
D. 反映出时代对历史叙述的影响

12. 有人把苏联比喻成一列因铁轨到尽头无法继续前进的火车。不同的领导人对该状况的处理方式各异，斯大林下令把司机枪毙；赫鲁晓夫为他平反；勃列日涅夫把窗帘拉上并命人左右摇摆，造成列车行进假象；戈尔巴乔夫把窗帘拉开，把身子探出窗外大喊"前面没有铁轨了！"据此下列说法正确的是　（　）
A. "枪决"代表斯大林认为火车停止前进的责任在于司机
B. "平反"表明赫鲁晓夫反对斯大林模式
C. "拉上窗帘派人摇动"代表其改革给国人带来经济发展的错觉
D. "大喊"说明戈尔巴乔夫对苏联改革的无奈

二、非选择题(本题共2小题，第13题26分，第14题26分，共52分)

13. (26分)阅读材料，完成下列要求。

材料一：1956年一位乡村女教师写给赫鲁晓夫的信：……我们的人民还没有过上好日子，尽管十月革命后已经有39年……全国都感到粮食很紧张，实际上能正常供应的只有莫斯科。

——《苏共中央通报》，1989年第6期

材料二：苏联的发展速度在20世纪70年代期间逐渐放慢……苏联的工人、技师和科学家不愿意只是执行来自上面的命令而不在决策过程起作用。

——斯塔夫里阿诺斯《全球通史》

材料三：……(苏联的)单位GDP所需要的钢铁消耗高达美国的四倍，而单位产出的工业增加值却远低于西方国家。20世纪70年代和80年代，苏联在军事和空间方面的支出大约占其GDP的15%，接近美国的3倍，西欧的5倍。

——安格斯·麦迪森《世界千年经济史》

(1)材料一反映了苏联当时的什么情况？这种情况的直接原因是什么？(6分)
(2)20世纪70年代到80年代，苏联的经济几乎是零增长，结合材料二、三和所学知识分析其原因。这种状况最终导致了什么结果？(12分)
(3)从上述材料中你得到什么启示？(8分)

14. (26分)苏联解体十余年来，在俄罗斯社会和广大历史学家的意识中发生了许多重大变化，出现了一些对苏联重大历史事件和历史人物重新评价的新观点。阅读材料，完成下列要求。

材料一：吴恩远在《俄罗斯最新历史教科书关于苏联历史评价的一些新观点》中指出：斯大林确实放弃了新经济政策，但判断这个"放弃"正确与否，不能仅仅看他是否符合列宁的教导，而要看它是否合乎当时的实践。

2003年3月4日，亚历山大·季诺维耶夫(俄罗斯哲学家、社会学家和作家)在《苏维埃俄罗斯报》发文说："考虑到具体历史条件，考虑到人员等情况，斯大林为首的领导是按最佳方案行动的。环境本身迫使他们采取那样的行动。"他称斯大林为人类历史上最伟大的人物之一。

材料二：由俄罗斯教育部审定的《20世纪祖国史》中对赫鲁晓夫有这样的评价：赫鲁晓夫在苏联历史上的作用就像他的黑白两色大理石墓碑，具有两面性。

材料三：历史学家尤·叶梅利亚诺夫撰文写道："对斯大林作用的评价不应脱离当时的时代。那时候主要注重实际成就，不太注重为了经济增长付出多大代价这样的问题。当斯大林逝世之际，他给俄罗斯留下什么？俄罗斯当时是世界上数一数二的强国！那些指责斯大林的人(戈尔巴乔夫等)却用其双手毁灭了这个超级大国！"

(1)材料一、三主张应主要从哪些角度评价斯大林时期的重大历史事件？结合所学知识，从上述角度分析斯大林"放弃"新经济政策的合理性。(12分)
(2)结合所学知识说明"赫鲁晓夫在苏联历史上的作用具有两面性"。(6分)
(3)简述"戈尔巴乔夫等"是如何"用双手毁灭这个超级大国"的？(8分)

关注微信公众号"教辅资料站"获取更多学习资料

学习札记

第四单元　中国社会主义建设发展道路的探索

第18课　中国社会主义经济建设的曲折发展

课前预习 抓双基 KEQIANYUXIZHUASHUANGJI 夯基固本判一判

自主预习 ZIZHU

一、社会主义工业化的开端

1. 背景

(1)到1952年底,国民经济形势基本好转。

(2)1953年,中共中央在过渡时期总路线中提出了社会主义_____的主张。

2. 开始:_____年,国家开始实施"一五"计划。

3. 特点:优先发展_____,同时强调要处理好重工业、轻工业和_____之间的关系。

4. 成果

(1)到1957年底,我国新建了飞机制造、汽车制造、发电设备、冶金设备以及_____等工业部门。

(2)_____地区也新建了钢铁、煤炭、电力等工业设施。

5. 意义

初步建立了独立的工业体系,逐步形成了合理的_____。

二、社会主义三大改造

1. 目的

适应国家工业化的要求,早日建成_____。

2. 经过

(1)农业:1953年,全国普遍试办以_____、统一经营为特征的初级农业生产合作社;1955年,全国掀起了兴办_____的高潮。

(2)手工业:通过创办手工业合作社的方法进行改造。

(3)资本主义工商业

①新中国成立后,国家运用_____、统购包销和经销代销等形式,将其纳入国家资本主义轨道。

②1953年底,实行个别企业的_____。

③1956年,实行全行业的公私合营。

3. 结果及意义

_____年底,三大改造基本完成,社会主义计划经济在中国基本确立。为中国社会主义工业化的发展开辟了道路。

三、经济建设的成就与教训

1. 成就

(1)中共八大决策

①中国国内主要矛盾,已经是人民对于经济文化迅速发展的需要同当前的经济文化不能满足人民需要的状况之间的矛盾。

②当前的主要任务是把中国尽快地从落后的_____变为先进的_____。

(2)"八字方针":1960年冬,党中央提出"_____、巩固、充实、提高"的方针。

(3)建设成果:1956~1966年,经济建设取得了巨大的成就。

2. 失误与教训

(1)"大跃进"和人民公社化运动

①原因:毛泽东等中央领导人片面追求经济建设中的高速度。1958年,中共八大二次会议提出了_____。

②特点:"大跃进"以_____为中心;人民公社化运动的特点是"一大二公"。

③影响:使国民经济和_____遭到严重破坏。人民公社化运动不适合农村生产力的实际发展水平,严重挫伤了农民的生产积极性。

(2)"文化大革命"严重干扰和破坏了国民经济建设,导致人民生活水平长期在低水平线上徘徊。

正误判断 ZHENGWU

1. 新中国有计划的工业化建设开始于1953年。(　　)
2. "一五"计划的主要特点是发展生产力与改革生产关系并举。(　　)
3. 在社会主义改造中,我国对资本主义工商业的改造道路是走合作化道路。(　　)
4. "大跃进"运动使生产关系严重超越了中国当时的生产力发展水平,使国民经济遭到巨大破坏。(　　)
5. "八字"方针的重点是调整失衡的国民经济比例。(　　)

关注微信公众号"教辅资料站"获取更多学习资料

学习札记

课堂达标 点对点 KETANGDABIAODIANDUIDIAN 基础达标练能力

对点训练 DUIDIAN

知识点一　社会主义工业化的开端

1. 我们通常所说的“过渡时期总路线”中“过渡时期”是指（　　）
A. 从解放战争爆发到新中国成立
B. 从七届二中全会召开到新中国成立
C. 从新中国成立到社会主义改造基本完成
D. 从新中国成立到《中华人民共和国宪法》通过

2. 从1950年起，我国对煤炭、钢材、木材、水泥等8种主要物资实行计划供应，中央统一调拨。“一五”期间，统配物资由112种增至231种，部管物资由115种增至301种。这表明我国（　　）
A. 计划经济体制逐步形成
B. 物资供应不断丰富
C. 国民经济得到恢复发展
D. 出现严重经济困难

3. **(2019·全国卷Ⅰ)**据统计，1954年1月到4月，中国科学院图书馆上海分馆俄文书刊借阅总数为1953年同期的5倍，为1952年同期的50倍，东北各研究所俄文书刊借阅量也大幅增加。这表明当时（　　）
A. 科学研究已与国际前沿接轨
B. 科教兴国战略已展开
C. 对苏联经验的反思蔚然成风
D. 工业化建设需求迫切

知识点二　社会主义三大改造

4. **(2018·宁夏银川一中高三二模)**据统计，1949～1952年，山西忻县有8 253户农民出卖土地39 912亩，湖北、湖南、江西三省出卖土地的户数和亩数，1953年比1952年都增加5倍多。这一现象（　　）
A. 反映了土地改革过程的曲折性
B. 促使中国共产党加快农业合作化步伐
C. 体现了小农经济的稳固性
D. 说明农村城镇化的效果显著

5. “对于我，失去的是我个人的一些剥削所得，它比起国家第一个五年计划的投资总额是多么渺小……经过一个公私合营的过程……只要自己努力，完全可以成为光荣的社会主义社会的自食其力的劳动者。”这段话所反映的历史事件是（　　）
A. 对农业的社会主义改造
B. 对资本主义工商业的社会主义改造
C. 对手工业的社会主义改造
D. 对计划经济体制的改造

6. 1954年，毛泽东提出：“孤立的、分散的、守旧的、落后的个体经济限制着农村生产力的发展，它与社会主义工业化之间日益暴露出很大的矛盾。”为了解决这一矛盾，我国在农村实行了（　　）
A. 土地革命　　B. 农业合作化
C. 包干到户　　D. 人民公社化

知识点三　经济建设的成就与教训

7. 中共八大对国内主要矛盾的判断是（　　）
A. 人民和资产阶级的矛盾
B. 建立农业国和建立工业国之间的矛盾
C. 人民对于先进工业国的要求同落后的农业国的现实之间的矛盾
D. 实行计划经济和实行市场经济的矛盾

8. **(2018·浙江绿色评价联盟)**宣传画是党和国家宣传其方针政策的重要途径。下图所示宣传画反映出（　　）



①中共“八大”的正确线路　②严重泛滥的“左”倾错误　③国人超英赶美的迫切愿望　④人民公社化运动一哄而起
A. ①②　　B. ②③
C. ①③　　D. ②④

9. 20世纪60年代初，中共中央为纠正农村工作中的“左”倾错误而提出的八字方针的正确表述是（　　）
A. 调整、巩固、发展、提高
B. 调整、发展、充实、提高
C. 调整、巩固、充实、提高
D. 调整、提高、充实、巩固

综合训练 ZONGHE

10. 阅读材料，完成下列要求。

材料一：工业化的速度首先决定于重工业的发展，因此我们必须以发展重工业为大规模建设的重点。……首先保证重工业和国防工业的基本建设，特别是确保那些对国家起决定作用的，能迅速增强国家工业基础与国防力量的主要工程的完成。……以此来发展我国的五金、燃料、机械、电力工业与国防工业，使1957年的工业生产比1952年提高一倍到二倍半。

——《中共中央关于编制一九五三年计划及五年建设计划纲要的指示》

材料二：超过英国，不是十五年，也不是七年，只需两到三年，两年是可能的。这里主要是钢。

——《建国以来毛泽东文稿》第7册

(1)结合材料及所学知识分析，为什么“一五”计划制定了优先发展重工业的指导方针？
(2)结合所学知识，分析过渡时期总路线有什么特点。其实质是什么？
(3)“一五”计划取得重大成功的主要经验是什么？
(4)从材料二可以看出“大跃进”的实质是什么？

关注微信公众号“教辅资料站”获取更多学习资料

学习札记

课后提能 再巩固　KEHOUTINENGZAIGONGGU　知识巩固提能力

时间：45 分钟　满分：100 分

一、选择题(本题共 12 小题，每小题 4 分，共 48 分)

1. **(2019·天津卷)**毛泽东在一次会议上说："古代有封建的土地所有制，现在被我们废除了，或者即将被废除……在今后一个相当长的时期内，我们的农业和手工业，就其基本形态说来，还是和还将是分散的和个体的，即是说，同古代近似的。"这次会议是　(　)
A. 中共七大
B. 中共七届二中全会
C. 第一届全国人民代表大会
D. 中共八大

2. **(2018·天津河西区高三一模)**下表是新中国"一五"计划期间工业生产产量表(局部)。此表说明　(　)

项目	1952 年	1957 年	增长率%
原煤(万吨)	6 649	13 000	96
原油(万吨)	43.6	146	235
钢 (万吨)	135	535	296
生铁(万吨)	193	594	208
布(亿米)	38.3	50.5	32
纱(万吨)	65.6	84.4	28

A. "大跃进"运动取得了明显成效
B. 我国借鉴了苏联工业化模式
C. 农轻重工业比例严重失衡
D. 投资规模决定了主要能源的效益

3. **(2019·江苏卷)**第一个五年计划期间，"全国同时开展了一万多个工矿建设单位的施工……从而使我国的社会经济结构和国民经济面貌发生了重大变化"。对此"变化"表述正确的是　(　)
A. 初步完成了社会主义工业化
B. 开始改变我国工业落后面貌
C. 促进了我国国民经济迅速恢复
D. 实现了农轻重各部门协调发展

4. **(2019·山西榆社中学高三模拟)**1958 年 8 月，中央召开会议，认为 1958 年的粮食和棉花产量将创历史新高，中国的农业和粮食问题已经过关，应把工作重点由农业转到工业上来，决定将钢产量计划增加到 1957 年的两倍。对此理解准确的是，当时中央　(　)
A. 积极推动党的工作重心转移
B. 对经济形势的发展判断有误
C. 认为应根本上改革生产关系
D. 对国民经济进行了合理调整

5. 中共八大是我国建设社会主义道路的一次成功探索，是因为　(　)
①正确分析了中国社会的主要矛盾　②提出了社会主义改造的任务　③提出尽快使中国从落后的农业国变为先进工业国的任务　④提出多快好省地建设社会主义的总路线
A. ①③　　B. ②④
C. ①②　　D. ②③

6. 下图为中国 1952～1960 年工农业总产值变化图。对此分析符合史实的是　(　)

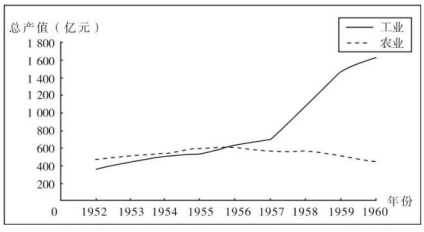

A. "过渡时期"农业总产值始终超过工业总产值
B. "三大改造"期间工业总产值均高于农业总产值
C. "一五"计划完成时工农业总产值都大幅提高
D. "大跃进"使工农业总产值增长呈现背离状态

7. 宣传画《好大的南瓜》所示主题与下列口号精神相近的是　(　)



A. 人有多大胆，地有多大产
B. 公共食堂好，吃饭不花钱
C. 联产承包制，走上富裕路
D. 自愿又互利，发展合作社

8. 下表反映了建国后某时期连续 4 年的经济建设情况，为此我国政府　(　)

年份	粮食产量(万吨)	国家职工人数(万人)	国家财政收支(亿元)
第 1 年	19 505	2 451	+6.0
第 2 年	20 000	4 532	−21.8
第 3 年	17 000	4 561	−65.8
第 4 年	14 350	5 044	−81.8

A. 优先发展重工业
B. 开展农业集体化运动
C. 调整城镇人口总量
D. 调整农村土地所有制

关注微信公众号"教辅资料站"获取更多学习资料

学习札记

9.（2018·江西赣州十四县高一联考）中共中央在某时期一份文件中规定：加强生产队的基本所有制，允许社员经营少量自留地和小规模的家庭副业，恢复农村集市；压缩城镇人口，减轻农民负担，充实农业劳动力。这些政策（　　）
A. 体现了“左”倾错误的影响
B. 改变了生产资料所有制的性质
C. 有利于国民经济的协调发展
D. 推动了农业合作化运动的开展

10.“高产卫星”是“大跃进”时期常用词。有人以《人民日报》为例做统计，“高产卫星”一词 1957 年未有文章使用，1958 年共 85 篇，1959 年共 15 篇，而 1960 年只有 1 篇，并且还是“陕西长安县的一个学习组说 1958 年种的‘三亩六分高产卫星田’不尊重‘庄稼生长的规律’了”。下列对“大跃进”的准确认识有（　　）
①“大跃进”只在农业领域展开　②“高产卫星”折射“大跃进”浮夸盛行　③1958 年“大跃进”快速推进　④1960 年基层对“大跃进”有所反思
A. ①②③　　B. ②③④
C. ①③④　　D. ①②④

11.（2018·天津和平区高三一模）1962 年刘少奇、邓小平、陈云等支持实行包产到户等多种农业生产责任制。这样做主要是为了（　　）
A. 增强小农经济抵御自然灾害的能力
B. 克服“大跃进”运动的弊端
C. 克服农业合作化运动的弊端
D. 克服人民公社化运动的弊端

12. 1968 年，成都军区军训部为购买一辆自行车给成都五金公司负责人写了一封信：“五金公司负责同志：战部需购自行车一辆请协助解决，此致。”这封信反映的时代背景是（　　）
A. 部门交流频繁，行政效率较高
B. 国家全力备战，民政服务军事
C. 经济体制僵化，生活物资紧缺
D. 阶级斗争为纲，取消商品流通

二、非选择题（本题共 2 小题，第 13 题 26 分，第 14 题 26 分，共 52 分）

13.（26 分）（2019·全国卷Ⅰ）阅读材料，回答问题。

材料：刘源张（1925～2014），全国劳动模范，中国工程院院士，被誉为“中国质量管理之父”。20 世纪 50 年代，留学美国的刘源张冲破美国政府阻挠回到祖国。回国后，他投入到工业化建设中，将所学的质量管理理论方法运用到生产实践，影响很大，被称为“工厂大夫”。1976 年后，他倡导并积极推动建立严格的全面质量管理制度，在第二汽车制造厂等企业所取得的经验，经国务院采纳在全国企业推广，产生重大影响。1989 年起他主持了“中国工业生产率管理理论和方法研究”项目，提出工业企业定额制定准则，在企业应用中取得较好的经济效益。他提出的有关质量管理的理论曾获奖。他参与了 2012 年国务院颁布的《质量发展纲要》的起草和定稿工作，该《纲要》明确规定：“推动建设质量强国”。

——摘编自方莉等《少壮常怀强国志　华巅犹抱济时心》等

（1）根据材料并结合所学知识，概括刘源张对中国现代化建设的贡献。（16 分）

（2）根据材料并结合所学知识，说明刘源张、李四光等先进人物体现的时代精神。（10 分）

14.（26 分）阅读材料，完成下列要求。

材料一：1956 年，我国基本上完成了对农业、手工业和资本主义工商业在生产资料私有制方面的社会主义改造。……我国的工业总产值（不包括手工业产值，下同），在五年计划的前三年共增加了 177 亿元，而 1956 年这一年就增加了 139 亿元。正是由于这种迅速的发展，1956 年的工业总产值达到了 586 亿元，超过了五年计划所要求的 1957 年的指标。从主要工业产品看，钢产量前三年共增加了 150 万吨，而 1956 年就增加了 161 万吨。……此外，如电力、煤炭、石油、化学肥料、水泥等重工业产品，1956 年的产量比前三年的年产量都有较多的增加。喷气式飞机、载重汽车、大型发电设备和单轴自动车床等重要新产品也都是在这一年制造成功的。

——摘自《1957 年政府工作报告》（周恩来）

材料二：农村人民公社化的实现，为生产力的更大发展开辟了广阔的道路，使我们在 1958 年和 1959 年取得了农业生产的连续大跃进，粮食两年增长 46%，棉花两年增长 47%。……充分发挥农村人民公社这种社会组织形式的优越性，动员全国农民和全国人民从各方面进行坚持不懈的斗争，我们就完全有可能继续保持农业生产和建设的跃进速度，也就完全有可能提早两年或者三年实现原定在十二年内实现的农业发展纲要。

——摘自《1960 年政府工作报告》（谭震林）

（1）根据材料一，归纳这一时期我国经济发展的特点。（8 分）

（2）材料二所制定的目标是否达到？原因何在？（10 分）

（3）综合以上材料，谈谈你对经济工作基本原则的认识。（8 分）

关注微信公众号“教辅资料站”获取更多学习资料

学习札记

第19课　经济体制改革

课前预习 抓双基 KEQIANYUXIZHUASHUANGJI 夯基固本判一判

自主预习 ZIZHU

一、农业家庭联产承包责任制

(一)中共十一届三中全会

1. 时间:1978年12月。

2. 内容:确立了_____的伟大决策;确立把党的工作重点转移到经济建设方面来的方针。

3. 实质:多方面地改变同生产力发展不适应的生产关系和上层建筑,发展_____。

4. 意义:揭开了中国经济体制改革的序幕。

(二)农业家庭联产承包责任制

1. 家庭联产承包责任制

(1)概念:是指在土地_____基础上,把土地长期承包给农户使用,农业集体生产变为分户_____、自负盈亏。

(2)意义:使农民获得了生产和经营的_____,极大地调动了农民群众的生产积极性。

2. 乡镇企业

(1)概念:乡镇企业是指农村集体或_____创办的各类企业。

(2)意义:进一步提高了农民的生活水平,有利于农业的现代化建设和农村经济的发展。

二、国有企业改革

1. 中心环节:_____。

2. 过程

(1)全面展开:_____年10月中共十二届三中全会通过了《中共中央关于经济体制改革的决定》,城市经济体制改革在全国全面展开。

(2)进一步深化:1992年,中共"十四大"确立进一步深化国有企业改革的目标——建立_____制度。

3. 意义

(1)增强了企业的竞争实力,逐渐形成一批有实力有活力的大企业集团。

(2)使_____资产大幅度增加,有利于国民经济的稳定和健康发展。

三、社会主义市场经济体制的确立

1. 过程

(1)1992年,中共_____大指出:经济体制改革的目标是建立社会主义市场经济体制。

(2)1993年,全国人大将_____第一次写进我国宪法。

(3)1997年,中共"十五大"指出:_____经济是社会主义市场经济的重要组成部分,对我国社会经济的发展起到了很大的促进作用。

(4)_____世纪初,我国已经基本形成了以公有制为主体,多种所有制经济共同发展的经济格局,社会主义市场经济体制初步建立。

2. 意义

(1)解放了中国的生产力,大大促进了中国经济的发展,加快了中国现代化发展的进程。

(2)使中国经济与世界经济真正接轨。

正误判断 ZHENGWU

1. 十一届三中全会做出了改革开放的伟大决策,中国开始进入社会主义建设的新时期。(　)
2. 家庭联产承包责任制使农民得到了属于自己的土地,极大地调动了农民的生产积极性。(　)
3. 城市经济体制改革的中心环节是增强企业活力,目标是要建立社会主义有计划的商品经济。(　)
4. 中共"十四大"明确了社会主义经济体制改革的目标是建立社会主义市场经济体制。(　)
5. 到21世纪初,中国已经初步建立了社会主义市场经济体制。(　)

课堂达标 点对点 KETANGDABIAODIANDUIDIAN 基础达标练能力

对点训练 DUIDIAN

知识点一　农业家庭联产承包责任制

1. **(2018·四川成都外国语学院高一期中)**"改革开放和社会主义现代化建设从这里拉开序幕,党的社会主义初级阶段的基本路线从这里开始形成……社会主义在遭受严重挫折之后开始在这里重新焕发生机"。材料中的"这里"是指(　)
A. 小岗村农民实行"大包干"
B. 农村乡镇企业异军突起
C. 十一届三中全会胜利召开
D. 深圳等经济特区建立

2. **(2018·甘肃天水一中高三二模)**媒体指出:当安徽、四川等部分地区的制度创新收益被中国的经济决策层和广大农民群众所深刻理解后,"包产到户"的制度变迁就转变成为中国农村整体而言的诱致性制度变迁。这表明中国农村经济体制变革(　)
A. 是在实践基础上逐步推进
B. 起源于自发的倡导和组织
C. 达成自上而下的完全一致
D. 突破了意识形态的顽固制约

3. 1979年,安徽一位基层干部给中央上书说:"责任田的办法是农民的一个创举,是适应当前农村生产力发展的必然趋势"、"一年多的实践证明,尽管有人责难它'糟了''错了',然而广大农民群众总认为'好了''对了'。"由此可知(　)

关注微信公众号"教辅资料站"获取更多学习资料

学习札记

①该干部否定农业生产的重要性　②该干部认为责任田有利于农业生产　③当时局部地区出现了包产到户　④家庭联产承包责任制得到普遍推广

A. ②③④　　B. ②③

C. ②④　　D. ①④

4. 十一届三中全会以后，家庭联产承包责任制之所以能在全国普遍推行，根本原因是（　）

A. 党作出了改革开放的决策

B. 满足了广大农民对土地的要求

C. 符合中国农村生产力发展水平的实际

D. 适应了我国人多地少的现实

知识点二　国有企业改革

5. **(2018·山西联考)**1979年5月，国务院宣布首都钢铁公司、天津自行车厂、上海柴油机厂等8家大型国企率先实行利润留成、开征固定资产税、提高折旧率和改进折旧费等改革措施。这些措施（　）

A. 增强了中央的监管力度

B. 推动了经济体制转型

C. 保障了国企的经济效益

D. 扩大了企业的自主权

6. 下图说明城市经济体制改革后（　）

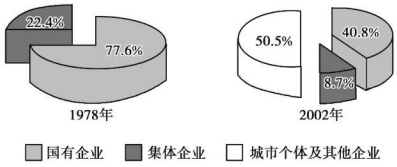

①国有企业、集体企业的比重明显下降　②城市个体及其他企业成分占有较大比重　③由单一公有制经济向公有制经济为主体的多种所有制经济转变　④国有企业改革已经完成

A. ①②③④　　B. ①②③

C. ②③④　　D. ①③④

知识点三　社会主义市场经济体制的确立

7. **(2018·新疆乌鲁木齐高三三诊)**有学者认为，中国改革开放40年是大转型的时代，一是现代化转型，一是体制转型。“体制转型”是指（　）

A. 分配方式向按劳分配为主体的多种分配方式转型

B. 经济形式向公有制为主体的多种经济形式的转型

C. 从粗放型经济增长方式向集约型增长方式的转型

D. 从计划经济体制向社会主义市场经济体制的转型

8. 1993年，作为我国人民生活中不可或缺的“第二货币”——粮票，在完成自己38年的神圣使命后“光荣退休”。这不仅意味着一个时代的结束，更象征着一个新时代的来临。“新时代”是指（　）

A. 向社会主义过渡时代

B. 人民公社化时代

C. 计划经济时代

D. 市场经济时代

9. **(2018·陕西渭南高三质检二)**1988年宪法修正案规定“国家允许私营经济在法律规定的范围内存在和发展”。1993年宪法修正案规定以“社会主义市场经济”取代计划经济；1999年宪法修正案确立了我国社会主义初级阶段的基本经济制度和分配制度。宪法修正案的发展（　）

A. 说明了经济体制改革成果得到了法律保护

B. 反映了新时期以宪法为核心的改革步伐加速

C. 体现了宪法成为治国的根本方针

D. 说明了我国市场经济体制的不断完善

综合训练 ZONGHE

10. 阅读材料，完成下列要求。

材料一：比如“1978年，中国首先从农村开始的改革开放，使农业得到了快速的发展，十几亿中国人从此摆脱了饥饿，摆脱了物质匮乏的阴影”“带领农民摆脱饥饿的小农经济模式”等，都明确指出是20世纪80年代初的联产承包体制让中国人摆脱了饥饿。

——《“最后一口烧饼”——对“联产承包责任制解决中国吃饱问题”的探讨》

材料二：由于企业还没有成为相对独立的、自负盈亏的经济实体，由于计划体制和价格体系不合理的原因，现在仍然存在着追求产值、产量，忽视品种、质量的现象。企业产品结构不能适应社会消费结构的变化和国际市场的需要……部分企业没有严格的经济责任制，经济核算不健全……

——《中共中央关于经济体制改革的决定》

(1)结合所学知识，分析材料一中“首先从农村开始的改革开放”的原因是什么。

(2)分析材料二中当时我国的国有企业存在哪些问题。

(3)20世纪80年代我国是如何处理这些问题的？

(4)结合材料一、二，你是如何认识改革与发展的关系的？

关注微信公众号“教辅资料站”获取更多学习资料

学习札记

课后提能　再巩固　KEHOUTINENGZAIGONGGU　知识巩固提能力

时间：45 分钟　满分：100 分

一、选择题(本题共 12 小题，每小题 4 分，共 48 分)

1.《人民日报》1978 年 7 月 1 日最新刊登了毛泽东在 1962 年发表的一份讲话："在社会主义建设上，我们还有很大的盲目性……就拿我来说，经济建设工作中间的许多问题，还不懂得……工业、商业，我就不大懂。对于农业，我懂得一点，但是也只是比较地懂，还是懂得不多……至于生产力方面，我的知识很少。"当时刊登这份讲话的真实用意是　(　)
A. 展现了毛泽东敢于自我批评的高尚品质
B. 打破个人崇拜，促进思想解放
C. 展示毛泽东的不足之处，为否定毛泽东做思想准备
D. 重新调整经济政策，实行改革开放

2. 改变"上工人喊人，下地人等人，干活人看人，收工人撵人"的劳动状态，激发农民生产积极性的措施是　(　)
A. 土地改革
B. 实施"一五"计划
C. 农业合作化运动
D. 实行家庭联产承包责任制

3. **(2018·山东聊城高三二模)**改革开放初期，一些研究经济特区的著作都有专门的一章或一节探讨特区姓"资"还是姓"社"的问题；中国第一批合资企业的申报书上，不但有邓小平的签字，还有十二位副总理的画圈。这种现象说明，当时　(　)
A. 特区推行外向型经济战略
B. 新旧体制与观念激烈交锋
C. 行政审批程序严格且繁琐
D. "两个凡是"仍占主导地位

4. **(2018·全国卷Ⅲ)**

中国乡镇企业行业分布表(单位：万个)

年份	农业	工业	建筑业	交通运输业	商、饮、服务业
1982	29.28	74.92	5.38	9.58	17.01
1988	23.28	773.52	95.58	372.55	623.23

表中的数据变化说明，这一时期我国　(　)
A. 农村剩余劳动力大量转移
B. 城乡一体化逐步实现
C. 社会主义市场经济体制已建立
D. 工业结构趋于合理

5. 下表是《1952～1986 年城市与农村的人均消费》(以时价元计)，由此可推知　(　)

年份	农村的消费	非农村的消费
1952	62	148
1957	79	205
1965	100	237
1978	132	313
1980	173	464
1982	212	500
1986	352	625

A. 新中国的经济一直持续快速发展
B. 国家对农村的投资远少于城市
C. 城市与农村的经济差距不断拉大
D. 农村经济体制改革的成效显著

6. 20 世纪 80 年代初期，大量知青和工人返回城市，为解决这部分人的就业问题，国家允许他们开办"个体企业"，同时规定"个体户雇工不得超过 7 人，企业主自己也必须从事劳动"。这说明　(　)
A. 城市经济改革已摆脱计划经济束缚
B. 公有制经济主体地位开始改变
C. 社会主义市场经济体制已开始建立
D. 单一公有制经济结构有所突破

7. 在浙江省温州市，1985 年全市登记发证的个体工商户超过 13 万，家庭作坊遍布全区。温州成为这一时期我国个体及其他非公有制经济发展最迅速、最具活力的城市。温州的发展主要得益于　(　)
A. 城市经济体制改革的推动
B. 家庭联产承包责任制的实行
C. 社会主义市场经济体制确立
D. 闽东南经济开放区的设置

8. **(2018·宁夏银川高三一模)**1986 年 11 月 14 日，邓小平会见了以纽约证券交易所董事长约翰·范尔霖为团长的纽约证券交易所代表团，将一张上海飞乐音响股份有限公司的股票赠给客人，这在国际社会引起极大轰动。此举实则体现了　(　)
A. 中美关系实现了历史性突破
B. 中国经济改革的市场化方向
C. 两极格局解体推动中美交往
D. 社会主义市场经济体制确立

9. 1992 年，我国公有制经济以外的其他经济成分增长较快，国家直接管理的农业、工业、外贸等出口产品计划指标减少 1/3，其中指令性计划指标减少近一半。这表明我国　(　)
A. 市场在国民经济中的地位增强
B. 总体上已经达到小康水平
C. 确立了社会主义市场经济体制
D. 实现与世界经济的全面接轨

10. **(2018·新疆高三二模)**20 世纪 90 年代以来，超越地域的专业性、综合性集体经济组织，以及多种形式的合作与联合开始在我国农村涌现出来，有流通领域的国营公司、代销社和新组建的各种专业公司与农户的联合，有国家设在农村的技术推广单位、农垦企业与农户的联合等等。这种现象的出现　(　)
A. 弥补了家庭联产承包责任制度的不足
B. 弱化了集体经济组织的经营管理方式
C. 促进了城乡一体化和乡镇企业的发展
D. 加快了农村土地经营所有权有偿转让

关注微信公众号"教辅资料站"获取更多学习资料

学习札记

11.（2018·四川成都外国语学院高一期中）下面柱状图是 1980～2006 年中国市场指数部分年份测试结果，其呈现的变化反映了　（　）

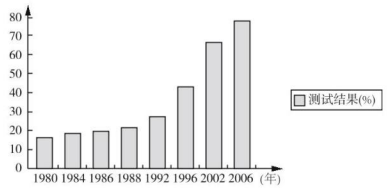

A. 南方谈话促使中国市场经济起步
B. 改革开放初期没有市场经济成分
C. 市场经济建立是改革深化的成果
D. 加入 WTO 后市场经济发生了质变

12. 20 世纪 50 年代中国共产党认为社会主义与市场经济水火不容，1982 年的中共“十二大”提出“计划为主，市场为辅”，1987 年的中共“十三大”提出“有计划的商品经济”，1992 年的中共“十四大”提出建立社会主义市场经济体制。这说明中国共产党在建设社会主义过程中　（　）
①摸着石头过河　②不是一帆风顺　③找到了正确的道路
A. ①②正确，③不正确
B. ①③正确，②不正确
C. ①②③都正确
D. ①②③都不正确

二、非选择题（本题共 2 小题，第 13 题 26 分，第 14 题 26 分，共 52 分）

13.（26 分）（2019·成都七中模拟）阅读材料，完成下列要求。

材料一：客家先民自中原河洛一带迁居南方，古有民谚“北有大槐树，南有石壁村”。罗香林教授认为除了其他零星的迁入或自各地以服官或经商而迁至的，历史上客家人曾经历五次大规模的迁徙运动。

第一次：受五胡乱华影响，自东晋始，大批中原人举族南迁至长江流域。

第二次：唐末的黄巢之乱，迫使客家先民继续南下，到达闽粤赣接合部，成为客家的第一批先民。

第三次：金人南下入主中原，宋高宗南渡，更多的移民集聚于此，与当地的土著和先期迁入其地的畲族先民交流融合，最终形成客家民系。

第四次：明末清初，客家内部人口激增，因资源有限，大批闽、粤客家人从客家大本营向外迁移，最远内迁至川、桂等地区，历史上的“湖广填四川”即发生在此时期。

第五次：清朝咸丰（1850～1861 年）以后……部分客家人分迁至广东南部、海南乃至海外，客家人走向世界。

——罗香林《客家研究导论》

材料二：1978 年至 1983 年，我国流动外出的农民总数不足 200 万人；而到 1987 年流动人口数量就猛增至 1 810 万人。进入 90 年代后，流动人口的增长更是势不可挡，其中 1995 年全国流动人口数量达到 7 073 万人，占全国总人口的比例进一步提高到 5.86%。人口流动的方向大多由内地省份向沿海省份流动。

——摘编自徐德莉《近代化视角下的中国农村人口流动》

（1）依据材料一及所学知识，分析清朝以前客家人南迁的主要原因，概括第五次迁徙中部分客家人迁往海外的历史背景。（12 分）
（2）依据所学知识，分析材料二中各时期人口流动现象出现的主要原因，并指出改革开放后人口流动与历史上客家迁徙相比发生了怎样的变化。（14 分）

14.（26 分）阅读材料，完成下列要求。

材料一：

产品名称	单位	按人口平均产量				各国为我国倍数		
		中国	苏联	美国	英国	苏联	美国	英国
原煤	千克	83.0	761.0	3 498.0	4 938.0	9.2	42.1	59.5
生铁	千克	1.7	84.4	244.5	165.9	49.6	143.8	97.6
钢	千克	0.9	95.3	376.3	255.2	105.9	418.1	283.6

——摘编自《我国的国民经济建设和人民生活》（1958 年中国统计出版社出版）

材料二：1953～2008 年国内生产总值增速

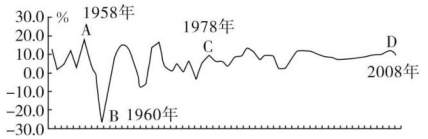

材料三：共产主义政权在东欧的消失、苏联的解体以及中华人民共和国日益转向市场经济，在实际上表明共产主义模式的普遍性的萎缩。

——杰里·本特利《新全球史》

（1）根据材料一，指出新中国成立初期工业化面临怎样的问题。为解决这一问题，我国采取了怎样的措施？（8 分）
（2）据材料二，概括 1953～2008 年中国经济发展的基本态势。说明图中 C 到 D 期间发展状况出现的主要政策性因素。（10 分）
（3）结合你对中国建立社会主义市场经济体制的认识，批驳材料三中“共产主义模式的普遍性的萎缩”这一观点。（8 分）

关注微信公众号“教辅资料站”获取更多学习资料

学习札记

第20课　对外开放格局的形成

课前预习 抓双基 KEQIANYUXIZHUASHUANGJI 夯基固本判一判

自主预习 ZIZHU

一、经济特区和经济开发区

1. 创办经济特区

(1)概况:1980年起,我国先后建立了_____、珠海、汕头、厦门和_____五个经济特区。

(2)定义:经济特区是指国家划出一定的范围,实行特殊的经济政策和_____的地区。

(3)主要目的:吸收和利用国外的_____、先进技术和管理经验,以促进经济的发展。

2. 设立沿海开放城市:1984年,我国开放_____、秦皇岛、天津、广州等14个沿海港口城市。

3. 开辟沿海经济开发区:包括闽南三角区、_____、珠江三角洲等。

4. 进一步对外开放

(1)1992年,开发上海_____成为经济建设的重点,同时也成为中国进一步对外开放的标志。

(2)从2004年以来,天津滨海新区的开发建设引起世人关注。

5. 对外开放新格局:形成了从经济特区到_____,再到内陆省会城市,从东部到中西部全方位、多层次的新格局。

6. 作用:有力推动了中国经济的发展,越来越适应经济和科技发展的全球化趋势。

二、加入世界贸易组织

1. 过程

(1)_____年7月,我国首次派出观察员,列席国际纺织贸易协议谈判会议。

(2)1986年7月,我国正式申请恢复在_____中的缔约国地位。

(3)_____年12月,中国成为世界贸易组织正式成员。

2. 意义

(1)是中国融入世界经济的必然选择和实现与世界经济全面接轨的契机,标志着世界大市场对中国的开放,总体上符合我国的根本长远利益。

(2)有力地推动全球经济的繁荣与发展,标志着我国_____进入了一个新的阶段。

正误判断 ZHENGWU

1. 社会主义建设新时期,中国对外开放的第一步是建立深圳等四个经济特区。(　)
2. 1992年开发上海浦东成为中国进一步对外开放的标志。(　)
3. 中国的对外开放既包括东部沿海地区,也包括内陆省份。(　)
4. 2001年中国加入世贸组织,标志着世界大市场对中国的开放。(　)
5. 到目前为止,中国对外开放已形成了全方位、多层次的新格局。(　)

课堂达标 点对点 KETANGDABIAODIANDUIDIAN 基础达标练能力

对点训练 DUIDIAN

知识点一　经济特区和经济开发区

1. 为解决广东居民偷渡到港澳的历史难题,时任广东省省长的习仲勋指出制止群众性外逃的根本措施是发展经济、提高群众生活水平。广东临近港澳,可以发挥这一优势,在对外开放上做点文章。此后,中共中央在广东首先尝试这一主张的措施是(　)

A. 创办经济特区

B. 开放沿海港口城市

C. 实行家庭联产承包责任制

D. 开辟沿海经济开放区

2. 1979年,党中央和国务院决定对广东、福建两省的对外经济活动实行特殊的优惠政策。这两省的特殊条件是(　)

A. 革命老区

B. 交通方便、自然条件优越

C. 物产丰富、人均产值高

D. 靠近港澳、华侨众多

关注微信公众号"教辅资料站"获取更多学习资料

学习札记

3. 有人把中国1979年所做的追赶世界、融入世界的决策称为打开了“第一扇窗”。“第一扇窗”比喻的是（　　）

A. 中共十一届三中全会召开

B. 在广东和福建设立经济特区

C. 兴办经济技术开发区

D. 社会主义市场经济体制确立

4. **(2019·浙江余姚高一质检)** 2016年9月在杭州举行G20峰会。作为长江三角洲经济开放区的一个城市——杭州对外开放始于（　　）

A. 1978年左右　　B. 1980年左右

C. 1985年左右　　D. 1990年左右

5. 过去上海有句谚语：“宁要浦西一张床，不要浦东一间房”。这种情形在浦东开发后得到彻底改观，浦东新区成为上海新兴高科技产业和现代工业基地。浦东的崛起主要得益于（　　）

A. 上海独特的地理优势

B. 民族区域自治政策

C. 改革开放政策

D. 中国加入世贸组织

6. 改革开放以来，我国初步形成了全方位、多层次、宽领域的对外开放格局。长江三角洲属于这一格局中的（　　）

A. 经济特区

B. 沿江开放港口城市

C. 沿海经济开放区

D. 经济技术开发区

知识点二　加入世界贸易组织

7. 中国加入世界贸易组织主要是顺应了当今世界经济发展的（　　）

A. 多极化趋势　　B. 全球化趋势

C. 区域集团化趋势　　D. 单极化趋势

8. 对于中国加入世贸组织，下列说法不正确的是（　　）

A. 中国由此进入了对外开放的一个新阶段

B. 中国是世贸组织前身“关贸总协定”的创始成员国之一

C. 加入世贸组织进一步推动了我国经济的发展

D. 加入世贸组织，对中国而言，机遇和挑战并存，因此，多数人反对加入世界贸易组织

9. 2001年11月，中国被正式批准加入世界贸易组织。这有利于中国（　　）

①扩大就业　②减少国际竞争　③更好地利用外资　④参与国际经贸规则的制定

A. ①②③　　B. ①②④

C. ①③④　　D. ②③④

综合训练 ZONGHE

10. 阅读材料，完成下列要求。

材料一：从特区可以引进技术，获得知识，学到管理，管理也是知识。特区成为开放的基地，不仅在经济方面、培养人才方面使我们得到好处，而且会扩大我国的对外影响。

——邓小平《办好经济特区，增加对外开放城市》（1984年2月24日）

材料二：浦东如果像深圳经济特区那样，早几年开发就好了。开发浦东，这个影响就大了，不只是浦东的问题，是关系上海发展的问题，是利用上海这个基地发展长江三角洲和长江流域的问题。

——邓小平《视察上海时的谈话》（1991年1月28日）

(1) 根据材料一，概括特区的设立对发展我国社会主义经济所起的积极作用。

(2) 根据材料二，指出20世纪90年代，我国进一步对外开放的重要标志。中央作出这一重大决策的目的何在？

关注微信公众号“教辅资料站”获取更多学习资料

学习札记

课后提能 再巩固 KEHOUTINENGZAIGONGGU 知识巩固提能力

时间：45 分钟　满分：100 分

一、选择题(本题共 12 小题，每小题 4 分，共 48 分)

1. 1981 年中共中央 27 号文件指出，经济特区的“特”字主要在于实行国家规定的特殊经济政策和特殊经济管理体制，它主要包括　(　)
①较大的经济管理权限　②独立的管理体制
③社会主义经济领导下的多种经济成分并存
④市场调节为主
A. ①②③　B. ①②④　C. ①③④　D. ②③④

2. **(2018·四川成都外国语学院高一期中)**1980 年，深圳蛇口工业园区主任袁庚提出“时间就是金钱，效率就是生命”的口号，立刻引起轰然大波，许多人议论“蛇口宣扬拜金主义”“袁庚要人钱还要人命”。1984 年该口号得到了邓小平的肯定和赞许，逐渐成为人们的共识和准则。这种变化主要反映了　(　)
A. 领导人的决策决定了社会意识
B. “左”倾思想仍占据社会主流
C. 认识的提高具有长期性、过程性
D. 社会主义市场经济理念被逐渐认同

3. 十一届三中全会以来，我国对外开放的格局逐步形成。20 世纪 80 年代，中国政府在下列两图所示地区采取的同步开放举措是　(　)

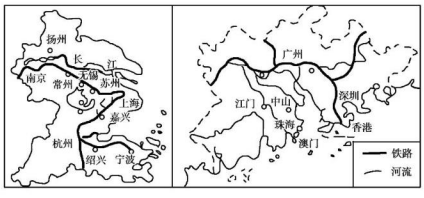

A. 设立经济特区　B. 设置特别行政区
C. 成立自由贸易区　D. 开辟经济开放区

4. 1985 年 1 月，国家决定把长江三角洲开辟为经济开发区，1988 年 4 月又决定扩大该开放区的范围。国家作出该决定的主要目的是　(　)
A. 建设对外开放的窗口和经济体制改革的试验田
B. 配合浦东开发的进程，发挥其龙头、辐射作用
C. 深化经济体制改革，树立外向型经济的排头兵
D. 深化对外开放，促进本地区经济发展并带动内地开发

5. “可以划出一个有明确地域界线的区域，实行类似特区的政策……引进先进技术和科技项目，开发新产品，兴办新企业。同时，促进老企业的技术改造，优化经济结构，带动各自腹地经济的发展……”材料中的“区域”是　(　)
A. 特别行政区　B. 民族自治区
C. 沿海经济开放区　D. 浦东新区

6. 1979 年 7 月，中国通过了《中外合资经营企业法》，80 年代相继颁布《涉外经济合同法》《外资企业法》和《中外合作经营企业法》等。这些文件的发布　(　)
A. 表明中国已经融入世界经济体系
B. 主要是为了发展市场经济
C. 增强了政府对外开放政策的可信度
D. 巩固了社会主义公有制经济

7. 邓小平在 1984 年的一次讲话中说：“我国是以社会主义经济为主体的。社会主义的经济基础很大，吸收几百亿、上千亿外资，冲击不了这个基础。”这一讲话解放了人们的思想，下列改革举措直接受惠于此的是　(　)
A. 实行家庭联产承包责任制
B. 决定在广东等地设立经济特区
C. 逐步兴办经济技术开发区
D. 在国有企业建立现代企业制度

8. 2011 年是中国加入世界贸易组织 10 周年。加入世界贸易组织为中国带来了许多发展机遇，主要表现在　(　)
①推动了中国对外开放的发展　②为“中国制造”走向世界提供了平台　③保障了中国的经济安全　④促使中国不断提高和完善自身的竞争力
A. ①②③　B. ②③④
C. ①③④　D. ①②④

9. 清政府开辟通商口岸与当今中国建立经济特区、加入世界贸易组织最主要的区别是　(　)
A. 外商在中国享有的权利
B. 关税税率
C. 开放的区域
D. 国家行使主权情况

10. 下图为改革开放以来中国产业结构的变化柱状图，发生这种变化的主要原因是　(　)

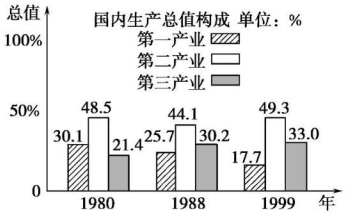

A. 农业基础地位的下降
B. 人口增长速度放缓
C. 改革开放与科技进步
D. 借鉴西方国家经验

11. 2009 年，中国多家商会在美国媒体投放了一则视频广告，运动鞋上写着“中国制造，结合美国运动科技”；家用冰箱上印着“中国制造，整合法国风尚”……。这一现象表明　(　)
A. 我国政府加强对经济的宏观调控
B. 我国国有企业所有制结构的变革
C. 我国政府谋求加入世界贸易组织
D. 我国企业主动去适应经济全球化

12. **(2019·福建上杭一中期中)**长三角和珠三角是中国经济最有活力的地方，而且长三角和珠三角城镇已经连成一片。京津冀却只有北京和天津经济

关注微信公众号“教辅资料站”获取更多学习资料

学习札记

比较发达，城镇并没有连成一片。从这一角度看，雄安新区的成立　　（　　）

A. 有利于南北方经济的均衡发展

B. 改变了中国延续千年的经济格局

C. 有利于京城资源的高效配置

D. 使首都专注于政治文化中心的功能

二、非选择题（本题共2小题，第13题26分，第14题26分，共52分）

13.（26分）近代以来，中国在变，世界在变，中国对世界的认识（即狭义的“世界观”）也在变。阅读材料，完成下列要求。

材料一：清朝乾隆皇帝致英王信：“咨尔国王（指英王），远在重洋，倾心向化，……天朝抚有四海……德威远被，万国来王，种种贵重之物，梯航毕集，无所不有。”

——摘自《清实录》

材料二：随着西学东渐，近代中国人逐渐认识到与外国交往的重要。在一系列战败之后，中国读书人逐渐被战胜者改变了思想方式，接受了以强弱分文野的新观念。这类因对抗性互动而产生的概念转移，急剧而彻底地改变了对西方的认知：从“夷务”到“洋务”再到“时务”，由贬义的“夷”到平等的“西”再到尊崇的“泰西”。说是天翻地覆的转变，也不为过。

——罗志田《走向世界的近代中国》

材料三：过去60年，中国对于世界的看法……是沿着一条螺旋轨迹不断向前迈进，由相对简单逐渐走向相对成熟。具体而言，中国“世界观”的发展与变化可以清晰地分为三个阶段：第一个阶段是上世纪50～60年代……对外部世界保持高度警戒；第二个阶段是70～80年代……加快走向对外开放；第三个阶段是世纪之交的前后10年……形成“和谐世界”理念。

——江涌《从对立到统一：中国世界观60年剧变》

（1）根据材料一，概括鸦片战争前清朝统治者的“世界观”，并结合具体史实，说明这一世界观对战争的影响。（4分）

（2）对比材料一，材料二中鸦片战争后中国人对于世界的认知发生了怎样的变化？结合所学知识，分析变化的原因。（8分）

（3）与材料二相比，材料三中第三阶段中国政府对外部世界的作法有什么区别？结合所学知识，说明第三阶段中国政府在“和谐世界”理念的指导下采取了哪些措施。（10分）

（4）综合上述材料，归纳近代以来中国“世界观”的变化轨迹。（4分）

14.（26分）阅读材料，完成下列要求。

材料一：汕头于1861年开埠，是近代中国最早对外开放的港口之一，曾被恩格斯誉为中国“唯一有一点商业意义的口岸”，有“百载商埠”的美誉，历来是粤东、赣东南、闽西南的商品集散地。1981年设立的汕头经济特区，是中国最早设立的四个经济特区之一。……汕头有遍布世界40多个国家和地区的海外华侨、华人和港澳台同胞340多万人，是全国著名侨乡。

——摘编自《汕头辉煌30年之特区风采》

材料二：汕头虽然位于海西经济区和珠三角经济区的连接点，坐拥李嘉诚等诸多海内外潮汕籍企业家优势，但30多年的发展，汕头却一直颇受“特区不特”的困扰。汕头的经济总量指标毫无优势可言，人均GDP不到全省一半，经济增长速度不够快。

——摘编自《汕头谋划摆脱“特区不特”困境》

材料三：汕头要再创特区新优势，必须加快重大战略平台建设，尤其是加快海湾新区规划建设，发展特色金融产业，形成华侨资本集聚区，构建全球华侨资产管理中心。还要在原来的华侨经济文化合作试验区方案基础上，申报建设自由贸易区，并积极融入海西经济区，构建与港、澳、台及国际合作开发新格局。

确保厦深铁路汕头段年底通车，打通、接通珠三角与海西经济区的通道；加快广梅汕高速铁路前期准备工作；加快汕湛、潮惠、揭惠三条高速公路建设；加快建设广澳港区防波堤和5万吨级、10万吨级码头。

促进产业园扩容增效，争取更多园区申报、列入省级国家级园区，着力将园区打造成为振兴发展的“核心引擎”。要重新调整工业园区产业布局，明确主导产业；统筹建设、整合建设新产业园区，集中成片、集约发展；培育壮大100家战略性新兴产业企业。

汕头提出，要守住社会稳定和生态保护两条底线，要协调、平衡好涉及民众的利益关系；既要加快经济发展，又要保住青山绿水，提高环保门槛，环评不过关的项目一律不上。

——摘编自《汕头谋划摆脱“特区不特”困境》

（1）根据材料一并结合所学知识，指出影响汕头成为近代中国最早对外开放港口之一的事件。1981年汕头被国家定为首批经济特区的条件有哪些？（12分）

（2）根据材料二，分析汕头“特区不特”的含义。（6分）

（3）根据材料三，概括汕头谋划摆脱“特区不特”困境的核心措施。（8分）

关注微信公众号“教辅资料站”获取更多学习资料

学习札记

第21课　经济腾飞与生活巨变

课前预习 抓双基 KEQIANYUXIZHUASHUANGJI 夯基固本判一判

自主预习 ZIZHU

一、从数据看沧桑巨变

1. GDP的巨大变化

(1)改革开放前，直到1978年，我国人均国民生产总值仍位列很多发展中国家之后。

(2)改革开放以来

①2001年，我国经济总量跃居世界第_____位，在发展中国家中排名第一。

②2006年，中国经济总量跃居世界第_____位，已经超过法国和英国。

2. 人民生活水平提高

(1)现实成就：伴随着经济发展，中国人民的生活水平开始向小康迈进。

(2)发展方向

①中共"_____大"提出了全面建设小康社会的奋斗目标。

②2007年，中国共产党"十七大"提出确保到_____年全面建成小康社会。

二、城市化进程加速

1. 20世纪晚期

(1)改革开放以来，城市数量迅速增加。

(2)城市化进程中出现了城市区域化倾向，形成城市群的雏形，目前已初具规模的有长江三角洲城市群，珠江三角洲城市群，_____等。

2. 进入21世纪

2002年政府提出实施积极的_____战略，逐步形成合理的城市体系。

三、中国进入互联网时代

1. 概况

1995年以来，中国因特网发展迅速。应用范围覆盖了社会生活的方方面面，构成信息社会的一个缩影。

2. 影响

(1)互联网打破常规的时间、空间界限，使信息知识更迅速、便利地传递和共享。

(2)改变着人们的生产、生活和学习、娱乐方式。

(3)潜移默化地改变了人们的_____以及人们认识世界的方法。

四、时尚中国

1. 思想观念

_____、市场意识、效率意识成为大多数中国人的行动指南。

2. 衣食住行

(1)"减肥"成为时尚。

(2)"自驾游"成为时尚。

(3)人们日益讲究穿戴。

(4)人们居住条件的改善，并由此引发了"_____"。

3. 语言

流行语言也发生了很大变化，既有新创造的词语，又有外来词汇。

正误判断 ZHENGWU

1. 到2001年，中国的经济总量在发展中国家排名第一。(　　)
2. 中共"十七大"提出了全面建设小康社会的奋斗目标。(　　)
3. 目前我国已初具规模的城市群有长江三角洲城市群、珠江三角洲城市群、北京城市群和成都城市群。(　　)
4. 自从20世纪80年代开始，我国逐渐进入互联网时代。(　　)
5. 改革开放以来，中国实现了经济腾飞和生活巨变。(　　)

课堂达标 点对点 KETANGDABIAODIANDUIDIAN 基础达标练能力

对点训练 DUIDIAN

知识点一　从数据看沧桑巨变

1. 某同学在研究性学习中，发现中国的GDP增长率在1957年、1979年和1993年均有显著增长。根据所学知识可知，这三个年份的GDP增长的共同因素是(　　)

A. 国家对生产关系进行调整

B. 生产力活跃，公有制经济加速发展

C. 国家政治制度发生变革

D. 国家产业结构出现重大调整

2. 历史变迁往往可以通过一些社会生活细节来反映。下列选项中能反映我国由计划经济向市场经济转变的是(　　)

A. 粮票→股票　　B. 大人→先生

C. 法币→人民币　　D. 臣民→公民

3. 阅读下面关于中国经济发展的图表，你能得出的信息有(　　)

关注微信公众号"教辅资料站"获取更多学习资料

学习札记

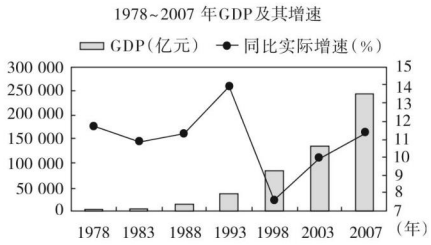



①GDP 同比增速持续加快　②综合国力大大增强
③人民生活明显改善　④农民收入持续增长
A. ①②③　　B. ②③④
C. ①③④　　D. ①②③④

知识点二　城市化进程加速

4. 改革开放加速了中国的城市化进程。1978 年我国的城市数量为 193 个，1997 年为 668 个，其中以中小城市的增长最为迅速。这主要是由于　（　）
A. 经济特区的设立
B. 乡镇企业的崛起与发展
C. 沿海港口城市的开放
D. 城市经济体制的改革

5. 下图 E~F 段的城市化进程明显加快的原因是（　）

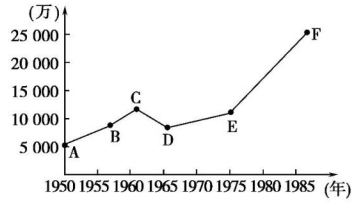

我国城镇人口的变化情况

A. 社会主义工业化初步实现
B. 社会主义市场经济体制的建立
C. 社会主义民主法制建设步入正轨
D. 改革开放政策的强力推动

6. 下列属于我国城镇化途径的是　（　）
①乡镇企业的发展　②农民进城务工经商　③大中城市数量不断增多　④城市出现区域化倾向
A. ②③④　　B. ①②
C. ①②③　　D. ①②③④

知识点三　中国进入互联网时代

7. 20 世纪大众传媒的飞速发展，极大地丰富了现代社会生活。推动互联网产生的主要条件是　（　）
A. 信息高速公路计划的实施
B. 计算机与通信技术的发展
C. 报纸、广播传媒的普及
D. 电视机的成功发明

8. 互联网对青少年的影响有两种完全不同的观念。依据这一媒体特征与影响，你认为　（　）
A. 网络作为信息载体能无限拓展青少年的知识
B. 使人们了解无限宽阔的世界发展和未来变化
C. 给青少年学生的健康精神事业带来危害，弊大于利
D. 可以上网获取知识，但要警惕网上的不良信息

知识点四　时尚中国

9. 下面分别是 20 世纪 50 年代和 60 年代中国女青年群体流行的服装图片。导致两个时期服饰流行样式变化的相同的原因是　（　）



20 世纪 50 年代流行的苏式女装“布拉吉”



20 世纪 60 年代流行的绿军装

A. 政治观念的影响　　B. 审美情趣的变化
C. 生活水平的提高　　D. 国际潮流的影响

综合训练 ZONGHE

10. 阅读材料，完成下列要求。

材料：“文化大革命”时期，“国防绿”“海军蓝”是中国城乡居民追求的色彩。那时期，穿一身“国防绿”、肩背军挎包成为青年男女尤其是大中专学生追求的一种时尚。20 世纪 80 年代，色彩鲜艳、款式时髦的服装逐步在大众中流行。毛皮大衣、羽绒服、西服、呢大衣等各种服装充分展现穿着者的风采与魅力。民众受西方现代文化的影响较大，中国服饰正式走向了多元化。

——摘编自陈志华、朱华《中国服饰史》

(1)结合史料，归纳中国民众的服饰发生了怎样的变化，并分析导致这种变化的主要因素。

(2)结合史料和所学知识，探究影响社会生活风尚的因素。

关注微信公众号“教辅资料站”获取更多学习资料

学习札记

课后提能　再巩固　KEHOUTINENGZAIGONGGU　知识巩固提能力

时间：45 分钟　满分：100 分

一、选择题(本题共 12 小题，每小题 4 分，共 48 分)

1. (2018·江西赣州十四县高一联考)歌曲不仅是一种重要的艺术形式，也是时代风貌的重要载体。“爷爷说那一年变化很大。报纸上天天讨论真理标准，安徽的农民偷着把地分啦！北京城开了一冬天的会，早春的雷声震撼了华夏”以上歌词最可能选自　(　)
A.《Again 1977》　B.《我生在 1978》
C.《恋曲 1990》　D.《相约 1998》

2. 结合下图，分析我国“十五”期间国内生产总值(GDP)与财政收入两者之间的关系。下列正确的选项有　(　)

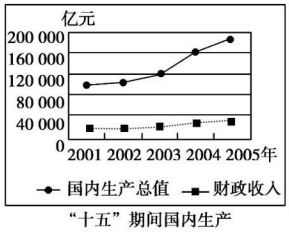

“十五”期间国内生产总值与财政收入状况

①每年 GDP 大于每年财政收入　②GDP 和财政收入增长幅度相同　③随着 GDP 的增长，财政收入也增长　④财政收入的增长幅度决定 GDP 的增长幅度
A. ①②　B. ①③
C. ②④　D. ③④

3. 修京九铁路是中华民族的一个“世纪梦”。20 世纪 90 年代，这个“梦”，仅用了 3 年时间就变成现实。其主要原因是　(　)
A. 国家财政已能提供充裕的资金
B. 改革开放后综合国力的迅速提高
C. 国家已具备自主设计施工的能力
D. 国家加快经济发展的迫切需要

4. 古语有“民以食为天”之说，古人还将饮食的“色、香、味、形”与治国相融合。新中国成立后有人研究饮食文化时认为：“20 世纪 60 年代讨饭吃；70 年代有饭吃；80 年代选饭吃；90 年代好饭吃。”下列史实与材料中所反映的现象出现有关的是　(　)
①“大跃进”　②人民公社化运动　③改革开放　④家庭联产承包责任制
A. ①②③④　B. ①②④
C. ①③④　D. ②③④

5. 据统计，我国城市职工每一家庭就业者负担的人口(包括就业者本人)1978 年为 2.06 人，1984 年降为 1.71 人。这一变化说明　(　)
A. 改革开放促进工业积累与消费平衡
B. 国家人口政策有效促进了家庭结构优化
C. 城市和农村劳动者的收入差距扩大
D. 市场经济体制下劳动者就业渠道多元化

6. 互联网方兴未艾，但它是一把双刃剑，下列各项属于弊的方面有　(　)
①人们可以上网批评时弊　②青少年上网成瘾　③互联网欺诈贸易　④人们利用互联网，迅速传递信息
A. ①③　B. ②③
C. ②④　D. ③④

7. “no zuo no die(不作死就不会死)”，近日被发现已成功被录入美国在线俚语词典 Urban Dictionary(城市词典)。在去年 4～6 月间国际金价下跌期间，不少中国大妈成为抢金主力，《华尔街日报》用汉语拼音的“Dama”(大妈)来形容大妈。最新出现的还有“you can you up(你行你上啊)”和配套“附赠”的“no can no BB(不行就别乱喷)”。最有可能促成该现象出现的原因是　(　)
A. 大众娱乐文化的推动
B. 中国文化软实力的增强
C. 美国文化的包容性
D. 互联网的日益普及

8. 用 QQ 聊天、发 E－mail、写 Blog(博客)已成为很多中国人的生活习惯。这表明　(　)
A. 邮电通讯事业获得了新发展
B. 广播影视成为民众文化生活的主体
C. 互联网改变了人们的生活与交往方式
D. 新技术、新观念深入人心

9. 关于“第四媒介”互联网的评价正确的是　(　)
①能传播文字、图像和声音，能模拟三维动态效果，具有很强的表现力　②可查询资料、浏览新闻，快速、广泛、准确获取相关信息　③可看电影、看电视、听音乐，可以通过电子邮件、聊天室等方式及时沟通　④互联网发展非常迅速，以至于削弱了传统媒介的地位
A. ①②　B. ①③
C. ①②③　D. ①④

10. 1955 年 11 月，国家正式印制使用的粮票，具有“第二货币”的美称。改革开放后，粮票被国家陆续收回销毁。这种粮票也变成了历史文物。粮票的废除说明　(　)
A. 粮食产量已自食有余
B. 经济管理体制的巨大转变
C. 已经建成了小康社会
D. 放松了对粮食生产的管制

11. 新中国成立以来，人们看时间的方式发生着变化，有这样的说法：20 世纪 50 年代看天上(太阳)，70 年代看墙上(挂钟)，80 年代看手上(手表)，90 年代看腰上(BP 机)，21 世纪看手机。这一变化主要反映了　(　)
A. 我国人民生活习惯发生了变化
B. 我国人民生活水平发生了变化
C. 我国的轻工业发展很快
D. 我国人民的消费观念发生了变化

关注微信公众号“教辅资料站”获取更多学习资料

学习札记

12. 吃货成了当今不少年轻人的自嘲用语。有人还专门绘制了《吃货眼中的中国》。读图，当今中国“吃”文化备受关注，是因为　　（　　）



①中国餐饮文化极其丰富　②经济发展，人民生活水平提高　③现代传媒技术的发展　④“吃”可以感受不同民族、地域的风情

A. ①②③④　　B. ①②③

C. ②③④　　D. ①③④

二、非选择题（本题共2小题，第13题26分，第14题26分，共52分）

13.（26分）目前，社会生活史日益成为历史研究的一种取向。一位学者对中国的一个村庄进行了长期的跟踪研究，为我们揭示了私人生活与社会变迁之间的深层联系。阅读材料，完成下列要求。

材料一：下岬村家庭结构变迁示意图

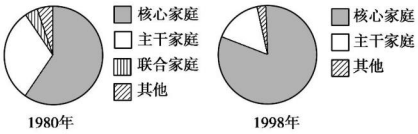

材料二：20世纪60、70年代，下岬村人从集体公社分得生活必需品，人们很少买新衣服，消费被压缩到最低限度。80年代以来，下岬村在衣食住行方面出现了翻天覆地的变化。1983至1990年，共建了102所新房，同时还扩建了121所房子，村民的“彩礼”也由自行车、缝纫机、手表、收音机等老“四大件”转变为电视机、录音机、洗衣机、摩托车等新“四大件”。

材料三：从下列两图可见，下岬村的居住格局也出现了变化：住宅空间日益私密，房间的称呼也日趋现代化，并且增添了新的设施。

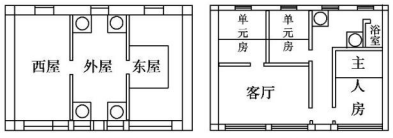

（1）材料一反映了下岬村的家庭结构出现了什么样的变化？（8分）

（2）从材料二来看，下岬村人的生活水平经历了怎样的转变？简述造成这一转变的体制性原因及其过程。（10分）

（3）为什么农村的住宅格局与城市日益趋同？（8分）

14.（26分）阅读材料，完成下列要求。

材料一：



城市化



互联网



时尚服装



时尚家居



A380客机

材料二：　　各时代的流行语

①“志愿军”“尼龙”“大鸣大放”“大跃进”“大炼钢铁”；②“上山下乡”“串联”“知青”“右派”“样板戏”；③“平反摘帽”“改革开放”“经济特区”“合资”“四化”；④“下海”“打工”“公关”“白领”“克隆”“知识经济”；⑤“入世”“WTO”“反恐”“黑客”“灌水”“斑竹”“伊妹儿”。

材料三：



水质的污染



交通堵塞



失业者

（1）根据材料一，说明人们的社会生活发生了哪些变化。发生这些变化的原因有哪些？（12分）

（2）判断材料二中的流行语各流行于什么年代。（6分）

（3）材料三反映了城市化进程中的什么问题？请给出你的解决办法。（8分）

第22课　综合探究：调查改革以来发生在日常生活中的新变化（略）

关注微信公众号“教辅资料站”获取更多学习资料

学习札记

第五单元　经济全球化的趋势

第23课　战后资本主义世界经济体系的形成

课前预习 抓双基 KEQIANYUXIZHUASHUANGJI 夯基固本判一判

自主预习 ZIZHU

一、布雷顿森林会议

1. 背景

(1)随着二战胜利之日的临近，有识之士主张建立有效的机制以稳定世界经济。

(2)二战冲击了_____的世界中心地位。

(3)实力的膨胀使美国企图按照自己的意志规划战后的“世界经济蓝图”，确立在世界经济中的霸权地位。

2. 召开：1944年夏，美、英、中等44国在美国的_____召开联合国货币金融会议。

3. 内容：会议通过了《布雷顿森林协定》，决定成立_____和国际复兴开发银行。

4. 影响：《布雷顿森林协定》的签订标志着布雷顿森林体系的建立。

二、以美元为主导的国际货币金融体系

1. 组织：_____年，国际货币基金组织(IMF)和国际复兴开发银行即世界银行(WB)正式成立。

2. 宗旨

(1)国际货币基金组织：_____，消除妨碍世界贸易的外汇管制，加强国际货币合作，通过提供_____缓解成员国国际收支不平衡。

(2)国际复兴开发银行：向成员国提供贷款，以促进该国的经济恢复和发展，推动并促进_____的均衡增长。

3. 特点

(1)两个组织的资金都来自成员国的认缴资金，并根据其数额决定_____的多少。

(2)美元与黄金直接挂钩，各会员国货币与_____挂钩，并保持固定的汇率和比价。

4. 评价

(1)积极：标志着以_____为中心的国际货币金融体系的建立。它在一定程度上稳定了世界_____秩序，促进了世界贸易，有利于世界经济的发展。

(2)消极：确立了美国在二战后相当长时间内左右世界经济的霸主地位，满足了美国_____的需要。

三、以美国为中心的国际贸易体系

1. 原因

(1)1929年资本主义世界_____，使人们认识到加强国际贸易协调与合作的必要。

(2)战后美国拥有强大的经济实力，积极倡导建立国际贸易组织，以有利于其_____。

2. 建立：1947年，美国、中国等23个国家签署《_____》，简称“关贸总协定”。

3. 宗旨：使各缔约国通过谈判削减关税，消除_____，实现贸易自由化、充分利用世界资源，促进经济发展。

4. 评价

(1)是一个有关关税和贸易政策的国际性多边协定，实际上一直起着国际经济组织的作用。

(2)确立了国际_____体制，形成了以美国为中心的国际贸易体系。

5. 战后资本主义世界经济体系的形成与影响

(1)形成：_____、国际货币基金组织和关贸总协定成为战后支撑世界经贸关系的三大支柱。

(2)影响

①顺应了经济_____的历史趋势，反映了第二次世界大战后世界经济向着_____、制度化的方向发展。

②在三大支柱中，美国拥有特殊地位。

正误判断 ZHENGWU

1. 第二次世界大战打破了以欧洲为中心的旧的世界经济体系。(　)
2. 国际货币基金组织的宗旨之一是向成员国提供长期贷款，以促进该国经济的恢复与发展。(　)
3. 世界银行的运行机制是根据成员国认缴资金的数额决定投票权的多少。(　)
4. 布雷顿森林体系在一定程度上稳定了世界金融货币秩序，有利于世界经济的发展。(　)
5. 《关税及贸易总协定》的目的是削减关税，消除贸易壁垒，实现贸易自由化。(　)

关注微信公众号“教辅资料站”获取更多学习资料

学习札记

课堂达标点对点 KETANGDABIAODIANDUIDIAN 基础达标练能力

对点训练 DUIDIAN

知识点一　布雷顿森林会议

1. 布雷顿森林体系确立的背景是（　　）
①二战后，欧洲失去了世界中心的地位，原有的经济格局发生了深刻变化　②德、意、日等战败国国内经济百废待举　③美国在国际贸易和金融方面确立了统治地位　④美国掌握着世界上最丰富的黄金储备
A. ①③　　B. ①④
C. ①②③　　D. ①②④

2. 二战后“金元帝国”实指一种货币体系，在该体系中居主导地位的国家的国旗是（　　）


A


B


C


D

3. 1929～1933年世界经济大危机期间，主要西方国家为了摆脱危机，打起了空前激烈的经济战，使原有的世界货币体系四分五裂，资本主义世界经济秩序陷入混乱。二战后为改变该混乱局面，国际社会采取的关键措施是（　　）
A. 实施马歇尔计划　　B. 建立北约组织
C. 签订关贸总协定　　D. 建立布雷顿森林体系

知识点二　以美元为主导的国际货币金融体系

4. 2010年海地发生地震后，世界银行宣布，向海地提供1亿美元的紧急援助，以帮助这个受地震重创的国家进行灾后重建。这说明（　　）
A. 世界银行的宗旨是促进世界经济的恢复和发展
B. 世界银行的贷款对象只有发展中国家
C. 世界银行是为协调国际货币关系而建立的
D. 世界银行是联合国的专门机构

5. 有位同学搜集到两枚徽章，图形如下图所示，其他同学看后给出的下列解释中正确的是（　　）



①这是两个国际金融组织的标志　②这两个组织今天已经不存在　③这两个组织的控制权曾长期由美国人掌握　④这两个组织是“布雷顿森林体系”的重要组成部分
A. ①②　　B. ①②③
C. ①③④　　D. ②③④

6. 60多年来，世界银行历届行长和国际货币基金组织历任总裁分别由美欧把持，这已成为一个“潜规则”。这一“潜规则”反映了（　　）
A. 美欧在世界经济格局中居主导地位
B. 世界经济格局多极化趋势受到遏制
C. 美国和西欧联合操纵世界经济秩序
D. 美欧在国际金融体系中有明确分工

7. 国际货币基金组织规定，重大事项均需获得85%以上的投票权才能通过。2009年11月该组织在华盛顿举行的会议上决定增加“金砖四国”（中国、印度、俄罗斯和巴西）在“新借款安排”中的出资份额，即从原来的800亿美元提升至1 000亿美元，这样四国在该组织中的投票权超过了15%，实际上拥有了对重大事项的集体否决权。这段材料表明（　　）
A. 该组织的控制权已经发生了转移
B. 该组织通过主要国家共同协商一致来决定重大事件
C. 金砖四国已经结成经济同盟
D. 该组织以认缴资金多少决定投票权的份额

知识点三　以美国为中心的国际贸易体系

8. 1947年，美国倡议成立了关贸总协定，其目的是（　　）
A. 控制更广阔的国际市场
B. 垄断国际贸易
C. 干涉各国的关税主权
D. 加强美国的力量

9. “关贸总协定前七轮谈判，大大降低了各缔约方的关税，促进了国际贸易的发展。但从20世纪70年代开始，特别是进入80年代以后，以政府补贴、双边数量限制、市场瓜分和各种非关税壁垒为特征的贸易保护主义重新抬头”。这表明（　　）
A. 关贸总协定未能推动贸易自由化进展
B. 法制化、规范化的贸易体制急需建立
C. 关贸总协定纵容了贸易保护主义
D. 世界各国普遍阻挠贸易自由化进程

综合训练 ZONGHE

10. 阅读材料，完成下列要求。
材料一：韩国金融危机时，韩元贬值一半以上，韩国政府向国际货币基金组织申请紧急贷款以稳定汇率，得到了其提供的195亿美元的巨额贷款，并按其方案进行了改革。经过短短的两年，韩国金融秩序稳定，经济迅速恢复。
材料二：从1947年到1995年，经数次多边谈判，发达国家的平均关税已从36%减到4.7%，发展中国家和地区的平均关税在同期也下降到13%，达成关税减让的商品达10万种。同期内，世界贸易总额增长了10倍以上。
(1)结合材料一思考，国际货币基金组织的成立有哪些作用？
(2)材料二中发达国家和发展中国家关税同期下降的政策性因素是什么？这种政策性因素对世界经济有何影响？

关注微信公众号“教辅资料站”获取更多学习资料

学习札记

课后提能　再巩固　KEHOUTINENGZAIGONGGU　知识巩固提能力

时间：45 分钟　满分：100 分

一、选择题(本题共 12 小题，每小题 4 分，共 48 分)

1. 第二次世界大战后，形成了以美元为中心的世界货币体系并确立美元的霸主地位，世界金融中心从英国转移到美国的标志是　(　)
A. 美国是唯一拥有核武器的国家
B. 雅尔塔体系的正式建立
C. 浮动汇率制取代了固定汇率制
D. “布雷顿森林体系”的形成

2. “通过使投资更好地用于生产事业的办法以协助会员国境内的复兴与建设，包括恢复受战争破坏的经济，使生产设施回复到和平时期的需要，以及鼓励欠发达国家生产设施与资源的开发”。上述材料应出自　(　)
A.《欧洲联盟条约》
B.《布雷顿森林协定》
C.《罗马条约》
D.《关税与贸易总协定》

3. 1959 年，美国总统艾森豪威尔指出，从美国国库中获得黄金比重最大的国家，恰恰是美国派出军队予以保护的国家，他们几乎要“吸干”山姆大叔。这反映了当时　(　)
A. 美国有意停止对欧洲的援助
B. 美国不愿意为北约承担更多责任
C. 军备竞赛拖垮了美国经济
D. 汇率制度不适应经济格局的变动

4. 下表反映了美国的官方黄金持有量和对外美元债务变化情况(单位：10 亿美元)，据此可知　(　)

年份	世界官方黄金持有量	美国官方黄金持有量	外国银行持有的未偿付的对美国的美元债权
1951	33.5	22.9	8.9
1968	38.7	10.9	38.5

A. 美国金融霸主地位发生根本动摇
B. 布雷顿森林体系开始瓦解
C. 世界对美元信心有所下降
D. 美元失去在国际货币中的中心地位

5. **(2018·山东曲阜师大附中期中)**1929 年后，世界主要资本主义国家纷纷提高关税，导致贸易体系混乱。二战后初期为改变这种局面，国际社会建立了　(　)
A. 欧盟　　B. 关税与贸易总协定
C. 北美自由贸易区　　D. 亚太经合组织

6. 对下图所示历史信息的解读，不正确的是　(　)



A. 美国通过控制世界银行达到稳定美元汇率的目的
B. 布雷顿森林体系确立了美元在世界货币体系中的中心地位
C. 美元地位的变化反映了美国在世界范围内霸权地位的变化
D. 反映了二战后欧洲主要国家实力的削弱和美国实力的增长

7. 二战后初期出现了一系列国际经济组织。下列组织的建立最能说明　(　)



国际货币基金组织



世界银行



关贸总协定

A. 以美国为主导的资本主义世界经济体系形成
B. 世界多极化趋势已经形成
C. 以美国为主导的世界贸易体系的形成
D. 经济本土化趋势日益加强

8. 由希腊债务危机引发的欧洲新一轮经济危机成为世界金融的热点。为稳定金融秩序，希腊可向哪一机构申请救助　(　)



A. 世界银行　　B. 国际货币基金组织
C. 关贸总协定　　D. 联合国

9. 法国总统戴高乐在 20 世纪 50 年代抱怨：美国拥有“过分的特权”，即只有他一家可以印制美元，用来收购法国和其他国家的企业。导致美国拥有“过分的特权”的原因是　(　)
A. 北大西洋公约组织的建立
B. 布雷顿森林体系的建立
C. 北美自由贸易区的建立
D. 美苏“冷战”的爆发

10.《关税及贸易总协定》规定：“缔约国领土的产品输入到另一缔约国时，在关于产品销售、兜售、购买、运输、分配或使用的全部法令、条例和规定方面，所受待遇应不低于相同的本国产品所享受的待遇。”这一规定促使　(　)
A. 世界完全形成一个自由贸易的环境
B. 发展中国家经济迅速超过发达国家
C. 发展中国家与发达国家获得对等的利益
D. 世界各国的平均关税大幅下降

11. 它的签订，至少体现了三方面的意义，首先，制定了国际贸易活动的“行为准则”，使国际贸易行为规范化、国际市场秩序化。其次，通过大幅度地削减关税和限制非关税壁垒，奠定了国际自由贸易

关注微信公众号“教辅资料站”获取更多学习资料

学习札记

的基础。最后，充当“国际商务法庭”，发挥贸易仲裁作用。“它”是指（　　）

A. 布雷顿森林体系　　B. 雅尔塔体系

C. 关贸总协定　　D. 世界银行

12. 有人曾形象地如此比喻：各国到世界市场来做生意，_____为这个市场建立了一个做生意的基本准则，_____解决了双方货币认可汇率问题。题中_____处依次是（　　）

A.《关税及贸易总协定》　国际货币基金组织

B.《关税及贸易总协定》　世界银行

C. 国际货币基金组织　《关税及贸易总协定》

D. 世界银行　《关税及贸易总协定》

二、非选择题（本题共2小题，第13题26分，第14题26分，共52分）

13.（26分）阅读材料，完成下列要求。

材料一：美国黄金储备总量在世界黄金储备总量中所占的比重表

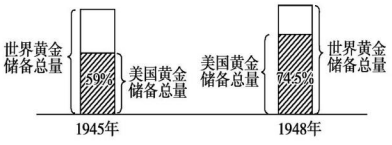

材料二：1944年7月，在美国的新罕布什尔州布雷顿森林召开有44个国家参加的联合国货币金融会议，通过了以怀特计划为基础的《联合国家货币金融会议的最后议定书》以及《国际货币基金组织协定》和《国际复兴开发银行协定》两个附件，总称为《布雷顿森林协定》。一个以美元为中心的世界货币体系（即“布雷顿森林体系”）建立起来。

材料三：如果我们想使和平的努力达到同我们战争的努力一样的水平，我们必须把和平的机构坚实地放在国际政治和经济合作的牢固基础之上。国际政治合作的基石是敦巴顿橡树园关于建立一个永久性的联合国的建议书。然而，只有我们今天面临的棘手的经济问题找到解决办法时，才能建立起友好的和建设性的国际关系。

——1945年美国总统罗斯福要求国会批准《布雷顿森林协定》的咨文

（1）材料一与材料二有何关系？（6分）

（2）据材料三，结合所学知识，《布雷顿森林协定》解决“棘手的经济问题”的具体方法是什么？（6分）

（3）材料三中罗斯福为什么要求国会批准《布雷顿森林协定》？（6分）

（4）二战后初期，支撑世界经贸关系的三大支柱是什么？（8分）

14.（26分）阅读材料，完成下列要求。

材料一：1930～1932年，由美国开始，各国采取了“以邻为壑”的态度，以关税的形式强化了经济的民族主义，致使那次危机具有长期性、普遍性和空前的破坏性。在危机爆发后，为了及早摆脱困境，各国纷纷出台五花八门的自保措施，力图将灾难转嫁他国……

——韩毅《美国30年代经济危机的历史反思》

材料二：一九九四年关贸总协定第二十八条附加第一款规定：各成员方“在互惠互利基础上进行谈判，以大幅度降低关税和进出口其他费用的一般水平，特别是降低那些使少量进口都受阻碍的高关税”。中国“入世”的首要义务就是要逐步将中国关税加权平均水平降到关贸总协定要求的发展中国家水平，并将最高关税一般地约束在百分之十五以下……此外，中国还承诺逐步取消非关税措施、取消被禁止的出口补贴。

——新华网

（1）根据材料一并结合所学知识，指出这一时期国际贸易的特点及原因，据此分析这一时期国际贸易政策对当时的国际关系产生的消极影响。（14分）

（2）结合材料二和所学知识回答，中国为什么承诺降低关税？这是否破坏了我国的关税自主权？你认为降低关税将对中国经济产生什么影响？（12分）

关注微信公众号“教辅资料站”获取更多学习资料

学习札记

第24课　欧洲的经济区域一体化

课前预习 抓双基 KEQIANYUXIZHUASHUANGJI 夯基固本判一判

自主预习 ZIZHU

一、欧洲共同体的建立与发展

1. 欧洲走向联合的原因

(1)社会背景:欧洲有着共同的文化遗产和_____、经济发展水平相近。

(2)历史教训:各国冲突和_____连绵不断,给欧洲人民造成了无穷的灾难。

(3)外部威胁:第二次世界大战后,欧洲各国受到来自_____、_____两个超级大国的控制和威胁。

(4)欧洲觉醒:西欧有识之士认识到,只有走联合发展的道路,才能重塑辉煌。

2. 欧洲共同体形成

(1)1952年,_____成立,标志着欧洲经济一体化的开始。

(2)_____年,欧洲共同体成立。

3. 欧共体经济一体化建设

(1)建立_____同盟。成员国之间逐步取消各种关税,实现贸易自由化,对外建立起共同的关税率。1968年,关税同盟建立。

(2)实行共同_____政策。共同体内农产品自由流通和统一农产品价格;出口或进口都首先面对成员国;建立共同农业基金,对共同农业政策实施共同财政支持。1968年,欧共体共同农业政策基本得到实施。

(3)建立欧洲_____体系,稳定成员国之间的汇率。

(4)建立_____。1985年,欧共体提出建立没有内部边界的统一大市场,实行人员、商品、资本、劳务的自由流通。_____年,欧洲统一大市场正式开始运作。

二、欧洲联盟初具规模

1. 欧盟的建立与发展

(1)1991年,欧共体成员国签订《_____》,将"欧共体"改名为"欧洲联盟"。同时提出建立共同的外交和安全政策,以及司法和内政事务的合作。

(2)_____年,欧盟正式成立。这是一个具有经济和政治双重性质的组织。欧洲一体化的内容扩大到政治、经济、军事各个方面。

(3)1995年,欧盟决定将欧洲单一货币定名为_____。_____年1月1日,欧元正式启用。欧洲一体化成为由欧洲公众参与推动的自下而上的进程。

(4)随着欧洲经济一体化的深入,欧盟经过几次扩大,到2007年,成员国增至27个。

2. 意义

(1)欧盟各国通过让出部分国家_____建立起共同的管理和协调机制,有利于欧洲地区的经济发展、和平与稳定。

(2)欧洲一体化反映了20世纪下半期经济区域化的趋势,它改变了世界格局,极大地提高了欧洲在国际上的地位。

正误判断 ZHENGWU

1. 标志着欧洲经济一体化开始的是欧洲煤钢共同体的成立。(　　)
2. 法、德的和解,为欧洲联合奠定了基础。(　　)
3. 欧盟的成立使欧洲超越了美国,成为资本主义世界的霸主。(　　)
4. 欧盟成员国都在使用统一的货币欧元。(　　)
5. 欧洲一体化符合欧洲的整体利益和欧洲各国的利益,因此从始至终都得到了欧洲各国的积极响应。(　　)

课堂达标 点对点 KETANGDABIAODIANDUIDIAN 基础达标练能力

对点训练 DUIDIAN

知识点一　欧洲共同体的建立与发展

1. 1946年9月19日,丘吉尔在演说中指出:"摧毁了纳粹政权之时……我向欧洲提出的建议可以概括为一句话:联合起来!"欧洲国家为此进行最初的实践是(　　)
   A. 建立北约　　B. 建立欧洲煤钢共同体
   C. 组建欧洲联盟　　D. 成立欧共体
2. 二战后,欧洲联合与合作的愿望比任何时候都强烈,这一愿望是建立在惨痛的历史教训基础之上的。历史教训是(　　)
   A. 欧洲有共同的文化遗产和心理认同感
   B. 自近代以来,欧洲各国冲突和战争连绵不断
   C. 西欧各国经济发展水平差异不大
   D. 二战后美苏两极对峙格局的形成

关注微信公众号"教辅资料站"获取更多学习资料

学习札记

3.《西方文明史》中写道："在人类积极向上的精神鼓舞下，在良好的经济发展趋势影响下，欧洲产生了一种轻快的充满生机的和富有创造性的文明……"文中所指的"文明"行为是　（　）
A. 接受马歇尔计划
B. 参加了经济互助委员会
C. 成立欧洲共同体
D. 加入北大西洋公约组织

4. 1958 年的一位德国商人宣称："无论是拿破仑的欧洲还是希特勒的欧洲，都不是最佳的解决办法。"他意在　（　）
A. 反对欧洲走向统一　　B. 反对武力统一欧洲
C. 反对欧洲对外扩张　　D. 反对美苏干涉欧洲

5. 1979 年，欧洲共同体 9 国国内生产总值超过了美国，出口贸易额是美国的 2 倍以上。同时，在关贸总协定多边贸易谈判中，敢于同任何一个大国或贸易集团抗衡。材料表明欧共体当时　（　）
A. 经济实力大大超越了美国
B. 已经成为一个经济政治实体
C. 成为世界经济格局中的重要力量
D. 直接推动了两极格局的解体

知识点二　欧洲联盟初具规模

6. 余秋雨在《蓝旗和孩子》中写到："到了布鲁塞尔就像提纲挈领，豁然开朗地看着欧洲如何企图在陈旧结构中脱胎换骨，挥别昨天。"他这里所说的"脱胎换骨"，指的应该是　（　）
A. 加入布雷顿森林体系
B. 接受关贸总协定
C. 要求摆脱美国的控制
D. 由经济联合向政治联合发展

7. **(2019·上海奉贤区调研)** 与"舒曼计划""欧共体""欧元""欧盟"等词汇直接相关的是　（　）
A. 西欧一体化　　B. 经济全球化
C. 贸易自由化　　D. 经济工业化

8. 两次世界大战使人们认识到民族主义有褊狭性。第二次世界大战后，西欧出现了新的趋势，实行一定的超国家机制。从欧共体发展而来的欧盟，拥有共同的货币(欧元)。欧洲一体化　（　）
①客观上弱化了民族国家的角色　②有利于促进区域合作，共同应对挑战　③体现了西欧社会发展的新趋势　④客观上强化了民族国家的主权
A. ①②④　　B. ②③④
C. ①②③　　D. ①②③④

9. 有关下图欧元的问世，理解正确的是　（　）



A. 欧元已经成为世界通用货币
B. 世界经济一体化已经实现
C. 欧洲已经实现国家一体化
D. 推动了欧洲一体化进程

综合训练 ZONGHE

10. 阅读材料，完成下列要求。
材料：
①1951 年，《欧洲煤钢共同体条约》签订。
②1957 年，欧洲经济共同体和欧洲原子能共同体成立。
③1967 年，欧洲共同体成立。
④1973 年，英国、丹麦和爱尔兰成为成员国，欧共体第一次扩大。
⑤1981 年，希腊成为成员国，欧共体第二次扩大。
⑥1986 年，西班牙、葡萄牙成为成员国，欧共体第三次扩大。
⑦1993 年，欧洲联盟的成立，实现了欧共体从经济实体向经济政治实体的过渡。
⑧2002 年，欧元正式在欧盟 12 国流通。
⑨2003 年，欧盟成员国扩大到 25 个。
⑩2009 年，首位"欧盟总统"和"欧盟外长"诞生，欧洲一体化发展到一个新高度。
史论：区域一体化浪潮不仅反映了经济全球化深入发展的新特点，而且反映了世界多极化曲折发展的新趋势。
(1)根据史料，探究欧洲一体化发展进程的特点。
(2)结合史料和所学知识，评析史料中的史论。

关注微信公众号"教辅资料站"获取更多学习资料

学习札记

课后提能 再巩固　KEHOUTINENGZAIGONGGU　知识巩固提能力

时间：45 分钟　满分：100 分

一、选择题(本题共 12 小题，每小题 4 分，共 48 分)

1. 1945 年以后，莫内、斯佩克和哈尔斯坦等“新一代欧洲人”决心创造能免蹈覆辙的新的经济结构。创造“新的经济结构”主要是指　(　)
A. 国家干预经济机制
B. “布雷顿森林体系”
C. 国际自由贸易体制
D. 欧洲一体化

2. **(2019·浙江选考)**有学者认为，二战后某条约的达成“是一种实用的而非意识形态的事业，它寻求加速经济恢复的新路径。……它是把德国融入欧洲各国阵营里的第一步。”这个条约旨在　(　)
A. 推行马歇尔计划
B. 建立欧洲经济共同体
C. 建立欧洲煤钢共同体
D. 建立双重性区域合作组织

3. 第二次世界大战后，经济区域合作组织相继成立。其中以“通过共同的商业政策，促进国际贸易限制的逐步废除”“汇集各国的资源以维护和增进和平与自由”为主要目标的是　(　)
A. 欧洲经济共同体　　B. 亚太经合组织
C. 北美自由贸易区　　D. 欧洲联盟

4. 钱乘旦认为：“西方现代化经过几百年的发展，其优势与弊端都已经十分清楚。二战后人们企图修补这个社会，修补在两个方向上进行，一是修补资本主义，二是修正民族国家。修正的方向是企图‘超越’民族国家，但并不是消灭民族国家。”下列符合这“两个方向”的是　(　)
A. 推行自由放任政策和建立欧洲共同体
B. 实行国家垄断资本主义和建立欧洲煤钢联营
C. 实行指令性计划模式和建立北美自由贸易区
D. 推行国家干预经济政策和建立亚太经济合作组织

5. **(2018·全国卷Ⅱ)**20 世纪 60～70 年代，法国、联邦德国和意大利北部原本落后的农村迅速实现了机械化，数百万农民成了相对富裕的农场主。这一变化的原因是　(　)
A. 马歇尔计划开始发挥作用
B. 欧洲经济一体化的推动
C. 西欧社会福利制度的确立
D. 布雷顿森林体系的瓦解

6. 20 世纪 70 年代初，英国首相希思认为，“整个资本主义世界正在刮起狂风”，在这种情况下，英国不能“听任自己陷于孤立”，否则，“前景的确将是黯淡的”。为此，英国　(　)
A. 主动和中国建立外交关系
B. 加快谋求加入欧共体的步伐
C. 投票支持中国重返联合国
D. 与美国等西方国家建立北约

7. 1987 年，英、法、意等 12 国签署了单一欧洲文件，一致同意制定共同的生产标准，消除资本流动的障碍，寻求统一的税率，相互承认别国颁发的专业和商业执照，遵守共同的劳动权利宪章。各国将共同创建一个“没有国界的欧洲”。该文件的签署　(　)
A. 启动了欧洲经济的多领域合作
B. 为欧盟成立奠定基础
C. 表明了欧洲政治一体化的实现
D. 为欧元发行扫清障碍

8. 一位欧洲著名学者指出：“我们已经很难从传统的观点来看欧洲是否算是统一。从形式上来看是没有，如果从实质内容来看，他们已经有了共同的认同。统一的国家要做的事，他们不已经在做了吗？而且做得比主权国家还好。”此学者的核心观点是　(　)
A. 建立政治、军事一体化的欧洲
B. 欧盟是超越主权国家的区域实体
C. 欧洲应主动适应经济全球化
D. 区域集团化是当今世界正确潮流

9. 随着欧共体的建立，欧洲步入一体化快车道，他们“在这辽阔的领域无论走到哪里，都会真正感到‘我在这里很自由自在，我也是这个国家的一个公民’”的梦想正逐渐变为现实。下列对欧洲一体化的理解，不准确的是　(　)
A. 具有主权让渡性　　B. 体现超国家权力
C. 具有联邦的功能　　D. 成员国权利共享

10. 欧元(EURO)被誉为“口袋里的欧洲”，对此的准确理解是　(　)
A. 欧元的诞生标志着欧洲经济一体化的完全实现
B. 欧元的诞生有利于欧洲经济稳定地发展
C. 欧元的使用使欧洲一体化成为欧洲公众参与推动的自下而上的进程
D. 说明欧元已经成为“欧洲单一货币”，政治上的统一指日可待

11. **(2018·江苏卷)**20 世纪 60 年代末，在世界贸易总额中，西欧国家仅欧共体六国所占比例就超过 39%，美国同期从 1957 年的20.9%下降到15.1%。在世界工业生产中。1951 年至 1970 年，西欧所占比例由 20.8%升至 28.6%，美国同期则由 48.6%降至 37.8%。据此可知，西欧经济的发展　(　)
A. 促进了布雷顿森林体系的建立
B. 强化了欧洲为主导的世界格局
C. 缓和了西欧国家与美国的矛盾
D. 推动了世界格局向多极化演进

关注微信公众号“教辅资料站”获取更多学习资料

学习札记

12. 面对2009年的金融危机，德国前外长费舍尔曾说："在这场全球危机结束时，欧洲只会变得更加无足轻重……欧洲不是在寻求更紧密的团结，而是正在这场危机中重新国家化，让自己回到过去。"这表明（　　）

A. 欧洲一体化进程受挫
B. 欧盟将失去世界一极的地位
C. 欧洲联盟正走向解体
D. 金融危机促使欧洲更加团结

二、非选择题（本题共2小题，第13题26分，第14题26分，共52分）

13.（26分）阅读材料，完成下列要求。

材料一：如果我们欧洲人不想在起了根本变化的世界上走下坡路的话……欧洲的联合是绝对必要的。

——联邦德国总理阿登纳

材料二：战后欧洲主要国家GDP增长情况图（单位：亿美元）

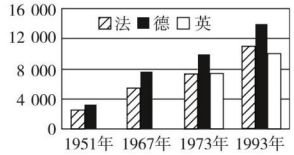

（1）为什么阿登纳说"欧洲的联合是绝对必要的"，结合二战后的国际形势，谈谈你的理解。（8分）

（2）根据上图，指出欧洲在走向联合的过程中，相关国家经济变化的概况。（8分）

（3）目前，欧洲在经济一体化方面已经取得了很大成效，正朝着努力使欧洲成为一种政治力量，一种社会、经济、文化力量的方向发展。欧洲的联合给当今世界带来什么启迪？（10分）

14.（26分）阅读材料，完成下列要求。

材料一：要使欧洲国家统一起来，必须结束长达百年之久法德之间的冲突……把法德的全部煤钢生产置于一个其他欧洲国家都可参加的高级联营机构的管制之下……这样结合起来的联营生产意味着将来在法德之间发生战争是不可能的，而且在物质上也不再可能。

——《舒曼计划》（1950年5月9日）

材料二：第三条……共同体的活动应包括：

（1）在各成员国之间取消商品进、出口的关税和定量限制，以及具有同等影响的一切其他措施。

（2）建立对待第三方国家的共同关税率和共同贸易政策。

（3）在各成员国之间，废除阻止人员、劳务和资本自由流动的各种障碍。

……

——《欧洲经济共同体条约》（1957年3月5日）

材料三：西欧……是美国非常强有力的竞争对手。……他们正在与我们竞争。在经济领导的问题上，他们在全世界同我们竞争得非常激烈。……同我们在第二次世界大战结束的时候相比，美国遇到了我们甚至连做梦也没有想到过的那种挑战。

——1971年美国总统尼克松的一次演说

材料四：



注：蓝色底黄色星，十二颗星代表欧洲十二个国家。



欧元

——人民教育出版社历史必修2

（1）根据材料一和所学知识，概括指出"长达百年之久法德之间的冲突"主要指哪些冲突？《舒曼计划》的主要目的和内容是什么？（9分）

（2）根据材料二，从内外两个方面归纳成立欧洲经济共同体的主要目标。（9分）

（3）结合所学知识回答，为什么材料三说美国遇到了"竞争"和"挑战"？（4分）

（4）说出材料四展示的会旗和货币所代表的国际组织名称，上述四则材料体现了欧洲怎样的历史发展趋势？（4分）

关注微信公众号"教辅资料站"获取更多学习资料

学习札记

第25课　亚洲和美洲的经济区域集团化

课前预习　抓双基　KEQIANYUXIZHUASHUANGJI　夯基固本判一判

自主预习 ZIZHU

一、东南亚国家联盟

1. 背景

(1)东南亚地区国家众多,民族和_____多样,冲突时有发生。

(2)独立后的东南亚国家认识到只有走向_____,才能与大国保持平等关系,促进区域和平、进步和繁荣。

2. 成立:_____年,印度尼西亚、马来西亚、菲律宾、新加坡和泰国在曼谷举外长会议,发表了《东南亚国家联盟成立宣言》,正式成立东盟。

3. 扩大

(1)1976年,东盟第一次首脑会议正式将_____列入合作范围,就_____制定具体原则,同时加强组织上的联系,标志着东盟进入新的发展阶段。

(2)1999年东南亚10个国家全部加入。

(3)2002年东盟_____正式启动。

4. 影响

(1)培养了"_____",增强了内部的凝聚力和团结意识。

(2)东盟政治经济方面的合作有力地促进了东盟各国社会经济的发展和地区的稳定,扩大了东盟在亚太乃至世界上的影响。

二、北美自由贸易区的出现

1. 背景

(1)20世纪50年代,世界经济全球化的发展迈上了一个新的台阶。

(2)_____的成熟,亚洲经济区域化也已起步。

(3)美国作为世界上唯一的超级大国,不能无视世界潮流,孤军奋战。

(4)加拿大和_____也需要应对世界经济全球化的挑战。

2. 成立

(1)1992年,美国、加拿大、墨西哥签订了_____,建立起北美自由贸易区域组织。

(2)_____年,北美自由贸易区正式成立。

3. 宗旨:取消贸易壁垒,进行公平竞争,促进合作,增加就业机会。

4. 影响

(1)三国间的经济交流大大加强,便于它们充分发挥优势,实现_____。

(2)为三国贸易的扩大带来了极大的便利,促进了经济的发展。

(3)_____的减免,使美、加产品大量涌入墨西哥,民族经济受到冲击。

三、亚太经合组织的建立

1. 背景

(1)20世纪七八十年代,亚洲及太平洋地区是世界上经济增长最快的地区,区域内各国经济联系密切。

(2)经济区域集团化趋势的推动。

2. 成立:1989年,_____等12个国家在堪培拉召开第一届部长会议,宣告了亚太经合组织建立。

3. 宗旨:保持经济的增长和发展;促进成员间经济的相互依存;加强开放的_____;减少区域贸易和投资壁垒,维护本地区人民的共同利益。

4. 特点

(1)各成员国之间差异性明显,但在经济结构上又有很强的互补性,经贸关系十分密切。

(2)遵循相互尊重和平等的原则、开放的_____、协商一致和_____的原则、以渐进的方式实施目标的原则,称为"_____"。

5. 影响

(1)使亚太地区在世界经济和政治格局中的地位与作用大大提高。

(2)在区域经济合作和一体化发展中走出了一条行之有效的新路,创造出了一个新的模式,引起了世界的广泛关注并产生了深远的影响。

正误判断 ZHENGWU

1. 东盟政治经济方面合作的加强,实现了东盟用一个声音说话。(　)
2. 北美自由贸易区是世界上第一个既有发达国家,也有发展中国家的自由贸易区。(　)
3. 亚太经合组织实行协商一致和自愿的原则。(　)
4. 亚太经合组织是一个经济、政治合作程度较高的区域政治经济集团。(　)
5. 经济区域集团化对世界经济全球化既有推动作用,也有阻碍作用。(　)

关注微信公众号"教辅资料站"获取更多学习资料

学习札记

课堂达标点对点 KETANGDABIAODIANDUIDIAN 基础达标练能力

对点训练 DUIDIAN

知识点一　东南亚国家联盟

1. 下列事件按时间先后顺序排列，正确的是（　）
①《东南亚国家联盟成立宣言》发表　②东盟自由贸易区正式启动　③《东南亚友好合作条约》签署
A. ①②③　　B. ③②①
C. ①③②　　D. ③①②

2. 1976年东盟进入一个新阶段，主要“新”在（　）
A. 由经济合作走向政治合作
B. 开始切实加强政治协调和经济合作
C. 加入的成员国增加
D. 东盟自由贸易区正式启动

3. 下列对“东盟意识”的理解，正确的是（　）
A. 东盟国家之间的竞争意识
B. 东盟国家之间的团结、凝聚意识
C. 解决领土之争的意识
D. 东盟国家的独立意识

知识点二　北美自由贸易区的出现

4. 美国倡议建立北美自由贸易区的最重要原因是（　）
A. 欧共体日益成熟，亚洲经济区域化起步，对美国构成了严峻挑战
B. 为了扩大出口市场
C. 便于利用墨西哥的资源和劳动力
D. 顺应经济全球化的潮流

5. 在建立北美区域经济组织中，加拿大追求的经济利益是（　）
A. 扩大出口市场
B. 扩大农产品出口市场，提高本国工业制成品的竞争力，转移夕阳工业
C. 吸引更多的资金和技术，增加就业机会
D. 改善本国偿还外债的能力

6. 有墨西哥国内人士说：“虽然北美自由贸易区没有解决一切问题，但如果没有北美自由贸易区，墨西哥现在的情况可能更糟糕。”下列表述符合这种观点的是（　）
A. 取消关税及贸易壁垒是墨西哥经济发展的基础
B. 加入北美自由贸易区对墨西哥经济有利
C. 美国和加拿大帮助墨西哥发展劳动密集型产业
D. 加入北美自由贸易区解决了墨西哥的社会问题

知识点三　亚太经合组织的建立

7. 历史探究小组在介绍某国际组织时说，“成员从南半球到北半球，从亚洲、大洋洲到南北美洲。其中，有历史悠久的文明古国，也有现代崛起的工业国家；有主权国家，也有地区；有的领土横贯大陆，有的是浩瀚大洋中的岛屿”。这一国际组织是（　）
A. 北美自由贸易区　　B. 亚太经合组织
C. 欧洲联盟　　D. 东南亚国家联盟

8. 亚太经合组织实行“APEC方式”的依据是（　）
A. 团结一致才能应对欧洲的挑战
B. 成员数目众多难以团结
C. 亚太地区地域广阔，各成员差异性强
D. 强制性措施遭到了发展中国家的反对

9. 阅读下列图表，下列选项中与图表所呈现的信息最吻合的是（　）

1998年越南加入亚太经合组织以来经济年均增长率	2006年对亚太经合组织成员的出口额占越南总出口额的比率	2006年亚太经合组织成员在越南的投资占外国总投资的比率
7%	70%	73%

A. 加强区域合作对越南经济发展的重要作用
B. 经济全球化对越南经济发展的巨大推动
C. 越南在亚太经合组织中的重要地位
D. 亚太经合组织对世界经济的贡献

综合训练 ZONGHE

10. 阅读材料，完成下列要求。

材料一：（本组织）决心实现他们经济的强大和同步发展并依据本条约的规定建立一个包含一种单一及稳定的货币的经济和货币联盟；决定在完善内部市场、加强团结和环境保护范围内，为了他们人民的目的，促进经济和社会进步，并实行确保其他领域进步同经济一体化相适应的政策；决心建立他们国家国民共同的公民身份；决心实行一项包括最终构建共同防务政策的共同外交和安全政策……通过本条约引入关于司法和国内事务的规定，在保障他们人民和国家安全的同时，重新肯定促进人员自由流动的目标……

——《马斯特里赫特条约》

材料二：（该组织）各种活动均建立在“相互尊重、平等互利、协商一致、自主自愿”的基础上，各成员拥有完全的经济和管理的决策权。……因为它不是立法式的或指令性的硬性规定，对成员不具强制性……在注重发展区域经济合作的基础上，尊重各成员的经济利益，力求与国际惯例、国际市场的体制接轨。同时，允许成员与非成员的经济合作。

材料三：从贸易区内部的实力来看，美国占有2/3的人口和90%的经济实力，加拿大则仅有7%的人口和8%的经济实力，墨西哥虽拥有近26%的人口，但经济实力则不到2%。美、加、墨三国按工业化程度和发展水平分属三个不同的层次：美国属于第一个层次，加拿大属于第二个层次，二者均是发达的工业化国家；墨西哥则是第三个层次，为新兴的工业化国家。

(1) 依据材料一、二分别分析欧盟、亚太经合组织的合作特点。

(2) 从材料三中可以看出美国在北美自由贸易区的地位如何？

关注微信公众号“教辅资料站”获取更多学习资料

学习札记

课后提能 再巩固　KEHOUTINENGZAIGONGGU　知识巩固提能力

时间：45 分钟　满分：100 分

一、选择题(本题共 12 小题，每小题 4 分，共 48 分)

1. “东南亚国家之间曾有激烈的领土矛盾，但最终仍然走到一起。”对此话理解不正确的是　(　)
A. 东南亚国家民族、宗教多样，相互冲突时有发生
B. 区域集团化是当今经济发展的趋势之一
C. 东南亚国家消除了矛盾，走向联合
D. 东南亚国家顺应了经济区域集团化趋势

2. 下表是 1987～1991 年东盟各国经济增长率(%)

国别	1987 年	1988 年	1989 年	1990 年	1991 年	平均增长率(%)
马来西亚	5.3	8.9	8.8	10.0	8.6	8.3
菲律宾	5.8	6.8	5.7	3.6	0.5	4.5
印度尼西亚	4.8	5.7	7.4	7.2	6.0	6.2
泰国	9.5	13.2	12.0	10.0	7.9	10.5
新加坡	9.4	11.1	9.2	8.3	7.0	9.0

上表最能说明的问题是　(　)
A. 东盟在 1987～1991 年是世界上经济增长速度最快的地区
B. 东盟在政治、经济方面的合作有力地促进了各国经济的发展
C. 在这一时期内东盟自由贸易区正式启动
D. 在这一时期中国—东盟自由贸易区正式启动

3. 下表为 1998～2002 年中国与欧盟、北美自由贸易区及东盟之间的贸易情况表，该表反映了　(　)

	双边贸易额占中国贸易总额比重(%)		
	欧盟	北美自由贸易区	东盟
1998 年	15.1	18.5	7.3
2000 年	14.6	15.7	8.3
2002 年	14.0	17.6	8.8

A. 我国对欧美国家出口贸易依赖性较强
B. 我国对外贸易完全依赖这三大贸易区
C. 我国同三大贸易区的贸易额比重不断上升
D. 东盟在我国对外贸易中地位越来越重要

4. 2010 年 1 月 7 日，在中国—东盟自由贸易区论坛开幕式上，中国与东盟国家领导人共同转动“金钥匙”，自由贸易区“合作大门”缓缓开启。这反映了　(　)
A. 关贸总协定开始适用于亚太地区
B. 中国和东盟实现了经济一体化
C. 区域集团化趋势加强
D. 市场竞争激烈化

5. 有人以“一个大块头，带着两个小个子”来形容北美自由贸易区，这说明　(　)
A. 加、墨两国均为发展中国家
B. 北美自由贸易区由美国所主导
C. 美国对加、墨进行经济掠夺
D. 实现三国合作是美国最终目标

6. 2017 年 1 月 1 日是《北美自由贸易协定》生效 32 周年的日子。有人说该协定是使墨西哥迅速进入发达国家俱乐部的灵丹妙药，也有人说它是可能给墨西哥经济带来灾难的“特洛伊木马”。对以上说法的认识正确的是　(　)
A. 墨西哥很快成为发达国家
B. 墨西哥不应加入《北美自由贸易协定》
C. 墨西哥加入北美自由贸易区有利有弊
D. 墨西哥加入北美自由贸易区意味着灾难

7. 20 世纪 90 年代初，沃尔玛最早踏上墨西哥这个中美大国的时候，就连销售爆米花这种小商品也是相当困难的事。到 2000 年，沃尔玛在墨西哥已开设了 520 家连锁店。出现这种变化的主要原因是　(　)
A. 墨西哥政府工作效率提高
B. 国际货币基金组织的推动
C. 北美自由贸易区的推动
D. 美国政府的强权和生产力水平的提高

8. 20 世纪 80 年代以来，世界经济区域集团化的发展进一步加速，亚太经济合作组织与北美自由贸易区相继问世。二者的共同之处在于　(　)
①在欧洲经济一体化加快的背景下建立　②由发达国家和发展中国家组成　③成员国具有相同的社会政治制度　④美国是这两个经济组织的重要成员国
A. ①②　　B. ②④
C. ①②④　　D. ①③④

9. 按惯例，参加 APEC 领导人非正式会议的首脑们都要身着东道主的传统服装，照上一张“全家福”。这主要展现出　(　)
A. 亚太经合组织内部合作水平不高
B. 承认各成员文化传统多样性
C. 亚太经合组织成员差异十分明显
D. 东南亚国家是本组织的核心

10. 下列当今世界几个代表性的区域经济组织中，承认多样性、强调灵活性和自主自愿的原则、单边行动和集体行动相结合的区域性经济组织是　(　)
A. 欧盟
B. 东盟
C. 石油输出国组织
D. 亚太经合组织

11. 有人说 21 世纪是“太平洋时代”，最能支持这一观点的是　(　)
A. 亚太区域的贸易增长和经济发展的潜力巨大
B. 两极格局的结束为太平洋地区的发展提供了机会
C. 东亚、东南亚地区的崛起成为世界经济发展的亮点
D. 环太平洋地区的大国对世界经济起到决定性作用

关注微信公众号“教辅资料站”获取更多学习资料

学习札记

12. 正确的历史推论是基于对史实的准确解读。下表中关于战后全球化进程的结论与史实不符的是（　　）

选项	史实	结论
A	第二次世界大战后，世界银行、国际货币基金组织、关贸总协定成立	世界经济向着体系化、制度化的方向发展
B	20世纪80、90年代，亚太经济合作组织、北美自由贸易区相继问世	经济区域集团化的发展进一步加速
C	1993年，欧盟正式成立	导致全球化进程中断
D	2001年，中国成为世贸组织正式成员	世界市场对中国开放

二、非选择题（本题共2小题，第13题32分，第14题20分，共52分）

13.（32分）阅读材料，完成下列要求。

材料一：东盟（东南亚国家联盟）成立于1967年8月，建立的宗旨是为了促进东南亚地区的和平、稳定和发展，不过当时只有包括印尼、马来西亚、菲律宾、新加坡和泰国在内的5个国家参加。但是到了1999年4月30日，随着柬埔寨的加入，东盟已经共有10个成员国。1992年1月，在新加坡进行的第4届东盟首脑会议上正式提出建立东盟自由贸易区（AFTA），其核心内容为关于共同有效关税优惠计划（CEPT），要求从1993年开始的15年内东盟各国降低关税和取消非关税壁垒，至2008年达到0～5%的平均关税水平。

材料二：东盟（东南亚国家联盟）示意图

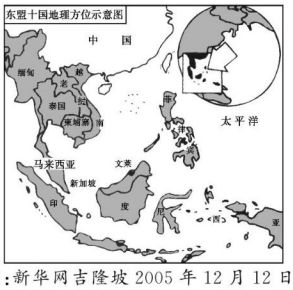

材料三：新华网吉隆坡2005年12月12日电（记者戚德良、康兴平）　中国国务院总理温家宝在吉隆坡会见了中外记者，并回答了他们对此次中国—东盟首脑会议的提问。他积极评价了此次首脑会议。他说：这次中国与东盟10＋1会议开得非常好。今年是中国与东盟对话合作第15个年头，中国与东盟的合作可以用十个字来概括："年年有成果，年年有进步。"

（1）根据材料一、二并结合所学知识，谈一谈东南亚十国为什么要组建东南亚国家联盟和东盟自由贸易区（AFTA）。（14分）

（2）结合所学知识分析，中国为什么要积极参与东盟地区的经济合作？为什么能与东盟取得如材料三中温家宝总理所说的"年年有进步"的成果？（18分）

14.（20分）阅读材料，完成下列要求。

材料一：谋求欧洲统一有相当远的历史渊源。然而在千余年的发展中，欧洲的政治家和统治者们虽不惜使用最强大的武力，却都失败了。经过两次世界大战的剧烈厮杀后，昔日称雄于世界的欧洲列强均已降为二等国、三等国。在东方，来自苏联和东欧盟国的威胁日益严重；西方，来自美国的经济渗透和政治控制不断加强。欧洲政治家清醒地认识到，如此下去，欧洲不再是欧洲人的欧洲。

材料二：亚太经合组织共有21个成员；其总人口达25亿，占世界人口的45%；国内生产总值之和超过19万亿美元，占世界的55%；贸易额占世界总量的47%以上。

材料三：2002年1月1日，欧元现金开始在市场流通，欧元区各国货币逐渐回收。到2002年7月1日，欧元区12国的3.4亿欧洲人使用统一的货币，这是欧洲一体化进程迈出的重要一步。

2001年10月21日，亚太经合组织（APEC）第九次领导人非正式会议在上海举行。在这次会议上，与会各成员领导人对亚太地区经济的中长期前景表示乐观，深入交换了意见，达成了广泛的共识。会议对亚太地区乃至世界经济的发展与繁荣产生积极的影响。

（1）依据材料一结合所学知识，分析欧洲共同体成立的原因。（6分）

（2）请简述亚太经合组织成立的背景并说出其性质。（6分）

（3）分析欧元区各国和APEC成员能开展有效经济合作的原因。（8分）

关注微信公众号"教辅资料站"获取更多学习资料

学习札记

第26课　经济全球化的趋势

课前预习 抓双基 KEQIANYUXIZHUASHUANGJI 夯基固本判一判

自主预习 ZIZHU

一、经济全球化迅速发展

1. 主要历程

(1)开始:随着_____的开辟,世界各个地区开始交流。

(2)加速:进入20世纪以后,特别是_____年代以来,全球化速度大大加快。

2. 加速原因

(1)_____的发展促使生产力水平迅速提高。

(2)新型交通和_____方式提供了技术手段。

(3)_____的结束,消除了发展障碍。

(4)绝大多数国家都实行了_____。

3. 突出表现

(1)国际贸易迅速发展。

(2)在生产领域,国际分工日趋成熟。

(3)_____数量增加,成为活跃在世界经济中的主体。

(4)在金融领域里,_____的交换和流动规模日益扩大,速度加快。

4. 积极影响

(1)加强了国家之间的相互依存,有效地利用和配置世界各地的资源。

(2)为各个国家提供了更多的发展机会。

(3)极大地丰富和方便了人们的日常生活。

二、问题与展望

1. 主要问题

(1)发达国家与发展中国家之间的贫富差距进一步扩大。如何保护和发展自己的_____,成为发展中国家必须面对的重大问题。

(2)加剧了世界经济的_____和风险性。

(3)世界各国经济相互依赖加深,经济危机一旦爆发,其传染性和破坏性都空前增强。

(4)一些发达国家对发展中国家的资源进行掠夺性开采,把利润高、污染重的企业迁至发展中国家,甚至将工业垃圾和有害物质向其他国家倾卸,严重破坏了自然环境,进一步引发全球性的_____危机。

(5)加剧了全球范围内文明和价值观的冲突。

2. 世界经济发展展望

(1)全球化这一历史趋势是无法改变的。

(2)只要建立起公正合理的国际经济新秩序,以及国际政治新秩序,对经济全球化因势利导、趋利避害,就能够达到世界各国的共同繁荣。

正误判断 ZHENGWU

1. 科学技术的发展,生产力的提高是推动经济全球化的根本动力。(　　)
2. 经济全球化的实质是以发达国家为主导的资本的新一轮扩张,对发展中国家弊大于利。(　　)
3. 经济全球化有利于发展中国家引进外国资本,解决本国经济发展中资金不足的问题。(　　)
4. 经济全球化会减少世界经济的投机性和风险性。(　　)
5. 当今逆全球化现象的出现,说明经济全球化弊大于利。(　　)

课堂达标 点对点 KETANGDABIAODIANDUIDIAN 基础达标练能力

对点训练 DUIDIAN

知识点一　经济全球化迅速发展

1. **(2018·山东曲阜师大附中期中)**下图漫画描绘了发达国家与发展中国家不平等的"赌局",它最能反映的是(　　)



不平等的"赌局"

A. 金融风险日渐削弱
B. 恐怖主义日益猖獗
C. 全球经济差距扩大
D. 两极格局对峙加剧

2. 有专家指出"跨国公司不仅跨国,还跨集团,力图在全球范围开展业务。它控制着国际直接投资的90%,世界生产的40%,出口总额的2/3和技术转让的1/3"。对此理解最准确的是(　　)
A. 跨国公司是经济全球化强有力的推动者
B. 跨国公司准备在全球开展业务
C. 经济全球化的实质是跨国公司相互兼并
D. 各国经济命脉正日益被跨国公司控制

关注微信公众号"教辅资料站"获取更多学习资料

学习札记

3. 有学者指出：在20世纪50年代兴起的经济全球化实际上只有“半球化”，只有到80、90年代经济全球化浪潮才真正具有全球性。导致经济全球化实际上只是“半球化”的主要原因是　（　）
A. 苏联解体所致　　B. 跨国公司推动
C. 两极格局存在　　D. 信息技术落后

4. **(2019·云南昆明高三质检)**“当代中国人若要在思想上安身立命，不得不面对两类强大的资源：一是传统，二是西方。在全球化的语境下，领悟古典命题的现代意义，使过去的智慧在今天的生活空间中依然有力地延伸，而古典新意的思维方式便成为我们认识自己，融入世界的一种可能性，或是一种艺术常识”。对材料最恰当的理解是　（　）
A. 领悟古典文化的现代意义是艺术常识
B. 融入全球化已是中国历史的发展趋势
C. 弘扬传统文化只能与现实意义相结合
D. 继承传统文化精华才能更好融入世界

5. 对下图时间轴所列事件，解读正确的是　（　）



A. 地理大发现是世界由分散走向整体的内在动力
B. 殖民扩张推动了经济全球化进程
C. 资本主义世界体系的形成推动了两次工业革命的进行
D. 世界贸易组织的建立标志着全球化形成

6. **(2019·山东青州模拟)**下图是2014年的一幅漫画《美国患上贸易保护依赖症》。该漫画表明　（　）



A. 国际贸易总体发展缓慢
B. 经济危机的破坏性增强
C. 世界贸易缺乏制度构建
D. 贸易壁垒危及自身利益

知识点二　问题与展望

7. **(2018·江苏卷)**西方学者弗里德曼认为，全球化包括不可阻挡的市场一体化，民族国家发展和科技进步达到前所未有的程度，同时全球化也会使某些国家遭到不公正对待并远远落在后面，从而在这些国家出现强烈的反作用。由此可知，该学者　（　）
A. 指出了全球化带来的利弊
B. 批评现存的反全球化思潮
C. 强调了全球化的消极作用
D. 提出了应对全球化的策略

8. 随着经济全球化的深入发展，反全球化运动也开始出现。1999年世界贸易组织西雅图会议期间，发生了震惊世界的反全球化示威。这反映了经济全球化　（　）
A. 不符合世界经济发展的潮流
B. 不利于各国经济的长远发展
C. 是一把双刃剑，利弊共存
D. 是发达国家资本的新一轮扩张

9. 在全球化的过程中，发展中国家经常处于劣势和被动的地位，其原因是　（　）
①经济底子薄　②科学技术水平低　③生产设备落后　④生产成本高　⑤资源缺乏
A. ①②③④⑤　　B. ②③④⑤
C. ①②③④　　D. ①③④⑤

综合训练 ZONGHE

10. 阅读材料，完成下列要求。

材料一：“到1986年时，第三世界国家的外债已经接近10 000亿美元，支付债务利息占去了其出口收入的四分之一到一半。为了支付债务利息，第三世界各国政府都减少了它们的社会支出和进口。但是由于工业国三分之一的出口目的地是第三世界，所以第三世界进口额的减少立即导致了第一世界失业人口的增加。……失业率的上升转而又引起对保护性关税的需求……这些经济问题驱散了第二次世界大战后的自信心和愉快。”

——斯塔夫里阿诺斯《全球通史》

材料二：“全球化是发达国家用来打开发展中国家市场的‘敲门砖’，是新殖民主义的一种形式，因此发展中国家应该团结起来，抵制全球化。”

——江学时《发展中国家怎么办——拉美国家的实践》

(1)材料一反映了经济全球化过程中出现的什么现象？经济全球化的实质是什么？
(2)根据以上材料，评价材料二的观点。

关注微信公众号“教辅资料站”获取更多学习资料

学习札记

课后提能　再巩固　KEHOUTINENGZAIGONGGU　知识巩固提能力

时间：45 分钟　满分：100 分

一、选择题(本题共 12 小题，每小题 4 分，共 48 分)

1. 进入 20 世纪以后，特别是 20 世纪 90 年代以来，经济领域的全球化速度大大加快，出现了崭新的局面。为此，美国未来学家约翰·奈斯比特在《全球杂谈》中指出："跨国界的计算机网络和信息高速公路的建立，使电视、电话、计算机联为一体，将整个世界变成了'地球村'。"经济全球化趋势大大加快的主要原因有哪些　(　)
①科技发展　②新型交通、通讯方式的出现　③市场经济的普遍确立　④跨国公司的推动
A. ①②③　　B. ②③④
C. ①②③④　　D. ①③④

2. **(2018·江西横峰、余干中学联考)**在新科技革命的影响下，以劳动和资本密集型为特征的"大烟囱工业""夕阳工业"比重逐渐下降，而电子、核能、激光、人工合成原料等"朝阳工业"则迅猛发展，这充分说明科技革命使　(　)
A. 政府对科技日益重视
B. 工业对国家经济发展的作用不断减弱
C. 工人的劳动条件和劳动手段不断改进
D. 社会经济结构发生重大变化

3. **(2019·广东阳春一中月考)**据保守估计，截止到 1998 年 11 月，在亚洲金融危机中被殃及的国家和地区，资产缩水 50%以上，其中有 7 000 多亿美元流入美国。在非洲，金融、能源、电信、交通等国民经济支柱产业大多廉价落入西方之手。在拉美，从 1990 年到 1996 年，西方跨国公司抢占了 57.3%的市场销售额。这说明　(　)
A. 发达国家是世界性金融危机频繁爆发的元凶
B. 经济全球化对发展中国家有百害而无一利
C. 发展中国家应在全球化竞争中寻找更好机遇
D. 经济全球化致世界经济发展不平衡明显加剧

4. 2016 年中国股市开市第一天上证指数暴跌 7%，触发熔断机制，并带动美股收跌，道琼斯指数取得 2008 年以来最差开局，标普 500 指数和纳斯达克指数取得 2001 年以来最差开局。同时，英股富时 100 指数收低 2.39%、法股 CAC 指数急跌 2.47%、德国 DAX 指数重挫 4.28%。上述现象反映了　(　)
A. 世界经济朝制度化、体系化方向发展
B. 世界经济全球化趋势不断发展
C. 中国股市震荡是全球股市大跌的源头
D. 世界经济区域集团化趋势不断发展

5. "据联合国公布的数据，1996 年发展中国家吸引外资达 2 850 亿美元，比上一年增长了 17.5%，而且投向发展中国家的国际私人资本在 6 年间增加了 6 倍。在流入发展中国家的国际资本构成中，国际私人资本已占 85%。"下列关于经济全球化影响的表述中，最符合材料意图的是　(　)
A. 外国资本在发展中国家占据主导地位
B. 有利于解决发展中国家资金短缺问题
C. 拉大了发达国家与发展中国家的差距
D. 发达资本主义国家占据着主导的地位

6. 有史学家指出："在全球化已成为不可逆转趋势的当代世界，发展中国家虽然取得了政治独立，但不可能按自己的主观愿望去选择一个世界。"该史学家实际是强调了　(　)
A. 全球化进程中发达国家居优势
B. 全球化进程只有利于发达国家
C. 发达国家仍控制着发展中国家
D. 发展中国家不可能实现现代化

7. 下表为世界"500 强"跨国公司数量变化表(单位：个)，由此能得到的最确切的信息是　(　)

年份 国家	1995	1999	2005	2009
美国	152	184	175	140
欧盟	158	157	157	152
日本	148	101	81	68
中国	2	6	15	34

A. 跨国公司是推动全球化的重要力量
B. 经济全球化是世界经济的发展趋势
C. 中国经济在世界上无足轻重
D. 发达资本主义国家主导经济全球化

8. 2010 年 10 月，世界贸易组织发布争端解决公告，裁定美国禁止进口中国禽肉违反了相关规则，损害了中方的合理利益。由此可见，世界贸易组织　(　)
A. 是发达国家控制世界市场的工具
B. 使公正合理的国际新秩序得以成立
C. 以维护发展中国家利益为最高宗旨
D. 在规范世界贸易方面起了重要作用

9. 下表是 1980、1996 年世界不同类型国家进出口依存度表。据此判断正确的是　(　)

国家类型 时间	高收入国家	中等收入国家	中低收入国家	低收入国家
1980 年	38%	43%	42%	30%
1996 年	40%	52%	52%	42%

A. 国际贸易总体发展缓慢
B. 经济全球化趋势加强
C. 区域经济集团化削弱
D. 各类国家经济发展水平差距缩小

关注微信公众号"教辅资料站"获取更多学习资料

学习札记

10. 下列数据引自《1994 年世界发展报告》：

发展中国家与发达国家人均国民生产总值比较表

年份 国家类别	1970 年	1992 年
32 个发展中国家	108 美元	279 美元
21 个发达国家	3 129 美元	22 185 美元

上表数据能直接反映出在全球化进程中存在的问题之一是　（　）

A. 国家间贫富差距越来越悬殊
B. 恐怖组织活动日益猖獗
C. 发展中国家环境日益恶化
D. 发达国家能源危机日趋严重

11. **(2019·陕西模拟)**下图反映了当前跨国公司各产业链的利润情况。形成图中抛物线的主要原因是　（　）

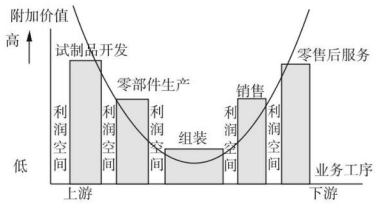

A. 资本主义世界市场的深入发展
B. 国际经济旧秩序带来的影响
C. 发达国家转移落后产业的结果
D. 世界多极化使国际竞争日趋激烈

12. 德国学者尤尔根·哈贝马斯说："随着经济的跨国化，特别是金融市场以及工业生产的跨国化，民族国家的政府今天越来越发现，为了保持国际竞争力，自己不得不忍受诸如失业率持续上涨，少数群体不断被边缘化这样的后果。"该观点　（　）

A. 论证经济全球化阻碍了民族国家强大
B. 认为经济全球化伴生一系列社会问题
C. 表明作者对经济全球化持反对的态度
D. 说明经济全球化有利于缓解民族矛盾

二、非选择题(本题共 2 小题，第 13 题 24 分，第 14 题 28 分，共 52 分)

13. (24 分)阅读材料，完成下列要求。

材料一：跨国公司为了实现利润最大化，有选择地向第三世界国家投资。贸易自由化所创造财富的 70%被发达国家获得，占世界人口 85%以上的 100 多个发展中国家只获得 30%。发展中国家的经济年增长速度每下降 3%，发达国家的经济增长速度就有可能下降 1%。发达国家占据着高层次的工业部门，而发展中国家拥有的工业部门的层次是比较低的。

材料二：据联合国跨国公司中心统计，目前世界上有 4 500 家跨国公司，这些跨国公司控制了全世界生产的 40%、贸易的 50%～60%、技术贸易的 60%～70%、对外直接投资的 90%、技术专利的 80%。

材料三：中国某家用电器集团已在海外发展了 60 多个经销商、3 600 多个经销点，在海外设立成品生产工厂 13 个，在中国建工业园 10 个，产品批量出口到世界十大经济区域。

材料四：许多学者发表著述，系统阐明全球化的理论。而在每一次世界经济组织召开会议的时候，都会有众多抗议者聚集在会场前举行示威活动，抗议经济全球化给发展中国家和生态环境带来的灾难。

(1)材料一反映了经济全球化的哪些特点？(9 分)
(2)结合材料一、材料二，说明发达国家主导经济全球化的原因。(6 分)
(3)综合以上材料，你认为发展中国家应如何应对经济全球化趋势？(9 分)

14. (28 分)阅读材料，完成下列要求。

材料一：学者托马斯·弗里德曼在其《世界是平的》一书中认为，全球化经历了 3 个伟大的时代。"全球化 1.0"主要是国家间融合和全球化，开始于 1492 年哥伦布发现"新大陆"之时，持续到 1800 年前后，是劳动力推动着这一阶段的全球化进程，这期间世界从大变为中等。"全球化 2.0"是公司之间的融合，从 1800 年一直到 2000 年，各种硬件的发明和革新成为这次全球化的主要推动力——从蒸汽船、铁路到电话和计算机的普及，这期间因大萧条和两次世界大战而被迫中断，这期间世界从中等变小。而在"全球化 3.0"中，个人成为了主角，肤色或东西方的文化差异不再是合作或竞争的障碍。软件的不断创新，网络的普及，让世界各地包括中国和印度的人们可以通过因特网轻松实现自己的社会分工，世界变平了，从小缩成了微小。

材料二：各民族的原始封闭状态由于日益完善的生产方式、交往以及因交往而自然形成的不同民族之间的分工消灭得越彻底，历史也就越是成为世界历史。世界史不是过去一直存在的；作为世界史的历史是结果。

(1)根据材料一，说明"全球化 3.0"阶段与前两个阶段在主体和推动力上的不同之处。出现这种不同的根本原因是什么？(16 分)
(2)运用材料一并结合所学知识，论证材料二的观点。(要求：观点明确，史论结合；逻辑严密，表述清楚；250 字左右)(12 分)

第 27 课　综合探究：中国如何应对全球化的挑战(略)

关注微信公众号"教辅资料站"获取更多学习资料

班级_____ 姓名_____ 考场号_____ 准考证号_____

密 封 线

阶段测试一

（第一单元　中国古代的农耕经济）

时间：90 分钟　满分：100 分

一、选择题（本大题共 24 小题，每小题 2 分，共 48 分）

1.（2019·全国卷Ⅱ）战国后期，秦国建造了一批大型水利工程，如郑国渠、都江堰等，一些至今仍在发挥作用。这些工程能够在秦国完成，主要是因为（　　）
A. 公田制度逐渐完善　B. 铁制生产工具普及
C. 交通运输网络通畅　D. 国家组织能力强大

2.（2019·江苏卷）据青铜器铭文，西周中后期，裘卫因经营手工业获得财富和地位，一位名叫矩的贵族用 13 块耕地，从裘卫那里换取了在王室仪式上穿戴的盛服和玉饰。这一记载反映了（　　）
A. 井田制度松动　B. 世袭制度解体
C. 抑商政策弱化　D. 礼乐制度崩坏

3.（2019·安徽马鞍山高三质检）下图为东汉画像砖中的《戈射收获图》。此图可以用来说明当时（　　）



A. 多元化的生产劳动状态
B. 小农经济为主要生产方式
C. 精耕细作技术不断发展
D. 土地公有制下的集体劳动

4.《荀子·王制》：“凡农之道，厚（候）之为宝。”《农书·粪田之宜》：“用粪犹用药也。”《吕氏春秋·上农》：“时至而作，竭时而止。”《齐民要术》：“麦黄种麻，麻黄种麦。”以上四则材料均反映了（　　）
A. 中国古代农业根据节气安排生产
B. 中国古代农业注重因地制宜
C. 中国古代农业精耕细作的特点
D. 中国古代农业发展尊重自然规律

5. 南宋杭州富阳县“重于粪桑，轻于壅田”，称“备田不耕，一枝桑必争护”。粮食生产“仅支半岁，半岁所食，悉仰商贩”。由此可知（　　）
A. 南宋杭州不适于农业生产
B. 土地集中导致缺粮问题
C. 当地的市场意识相对深厚
D. 工商业阻碍种植业发展

6.（2019·全国卷Ⅲ）乾隆时江南地主“所居在城或他州异县，地亩山场皆委之佃户”。苏州甚至出现“土著安业者田不满百亩，余皆佃农也。上田半归于郡城之富户”。由此可知，当时江南（　　）
A. 土地所有权变更极为频繁
B. 农业生产利润微不足道
C. 个体农耕为主要生产形式
D. 农业中商品化生产普遍

7.《中国历代政治得失》中提到，明朝如某户有田百亩，卖去二十亩，则造册曰：“旧管百亩，今卖，当开除户下田二十亩，被买者新收二十亩，而此户实在则止八十亩。”如此造册的直接原因是（　　）
A. 赋税制度改革　B. 土地兼并严重
C. 户籍制度的完善　D. 专制集权的强化

8.（2019·北京卷）在中国新疆乌鲁木齐南山矿区以及俄罗斯阿尔泰山北麓等地，出土了公元前 7～前 5 世纪楚国生产的凤鸟纹刺绣丝绸。据此可以判断（　　）
A. 东周时期丝织品做工精良，远播西域地区
B. 楚国是中西交通起点，楚文化有明显西域特征
C. 汉代丝路开通之前，中原与西域没有交往
D. 东周时期楚国与西域交流广泛，生活方式趋同

9.（2019·江苏卷）有学者认为，“传统上人们对贫穷抱有道德中立的认知”，但明朝晚期，“人们越来越怀疑贫穷是短视和懒惰的结果”。这种现象出现的主要原因是（　　）
A. 新兴资产阶级追求财富和物质享受
B. 商品经济发展导致社会价值观变化
C. 贫富分化和道德沦丧现象日益严重
D. 反正统思想成为当时社会主流思想

10.（2018·全国卷Ⅰ）北宋前中期，在今四川井研县一带山谷中，密布着成百上千个采用新制盐技术的竹筒井，井主所雇工匠大多来自“他州别县”，以“佣身赁力”为生，受雇期间，若对工作条件或待遇不满意，辄另谋高就。这反映出当时（　　）
A. 民营手工业得到发展
B. 手工业者社会地位高
C. 雇佣劳动已经普及
D. 盐业专卖制度解体

11.（2018·黑龙江双鸭山一中高一期中）宋应星在《天工开物》中记载的花楼机，结构复杂而精密，专门织造精细的丝织品。但当时的手工生产并没有出现向机器生产转变的迹象。对“没有出现向机器生产转变”的合理解释应该是（　　）
A. 生产革新缺乏足够的市场需求推动
B. 明清工匠缺乏技术的积累
C. 手工生产产品质量欠佳
D. 官营手工业占据主体地位

关注微信公众号“教辅资料站”获取更多学习资料

12. **(2018·北京市西城区高三一模)**下图为唐宋时期政府钱币与实物收入数量统计图。据此推断，这一时期经济发展的主要趋向是 （ ）

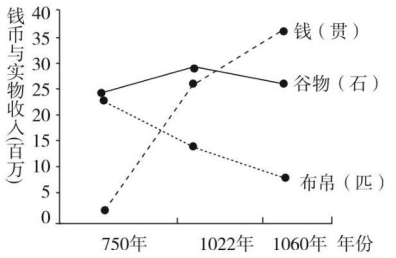

A. 官营手工业渐衰落
B. 经济重心逐步南移
C. 商品经济较快发展
D. 自然经济趋于解体

13. **(2018·河南天一大联考)**宋代政府在物品采购上建立了“书市买牌”制度，即官府将要采购的物品和价格书写在牌上，公之于市，有愿意交易的商人就和官府到市场买处按牌交易。这说明宋代 （ ）
A. 注重市场秩序的规范
B. 抑商政策已完全崩溃
C. 官营手工业严重衰落
D. 民间手工业成为主导

14. **(2019·全国卷Ⅰ)**汉武帝时，朝廷制作出许多一尺见方的白鹿皮，称为“皮币”，定价为40万钱一张。诸侯王参加献礼时，必须购皮币用来置放礼物，而当时一个“千户侯”一年的租税收入约为20万钱。朝廷这种做法 （ ）
A. 加强了货币管理
B. 确立了思想上的统一
C. 削弱了诸侯实力
D. 实现了对地方的控制

15. **(2018·北京丰台区高三一模)**美国历史学家斯塔夫里阿诺斯指出：“宋朝时期发生了一场名副其实的商业革命。”下列描述与此相符的是 （ ）
A. 近坊灯火如昼明，十里东风吹市声
B. 崆峒西极过昆仑，驼马由来拥国门
C. 风云独享三百年，信义生得晋商人
D. 十三行畔搬洋货，如看波斯进宝图

16. 隋唐时期每个行业的行会有共同的行规和行神。行会的首要任务是协调与其他行业尤其是与官府之间的关系，如交纳税收、组织应役等，行会不限制行内成员的经营方式。材料说明行会的主要作用是 （ ）
A. 限制了行业内部存在的不良竞争
B. 推动了政府抑制工商业政策的实施
C. 确保本行业在手工业中的领先地位
D. 发挥了政府管理私营手工业的职能

17. 黄崇德是16世纪一位典型徽商。最初他只是经营棉布、粮食等，后获得政府许可，转而从事利润更大的食盐贸易，积累了巨额财富，用于购田置地。这说明当时 （ ）
①农产品大量进入商品流通领域 ②农本思想依然占主导地位 ③政府放弃了对食盐贸易的控制 ④商人社会地位显著提高
A. ①② B. ②③
C. ②④ D. ①④

18. 古书记载，南宋杭州城“自大内和宁门外，新路南北，早间珠玉珍异及花果时新、海鲜、野味、奇器、天下所无者，悉集于此，以致朝天门、清河坊、官巷……食物店铺，人烟浩穰。其夜市……扑卖奇巧器皿、百色物件，与日间无异。”这反映了当时该城 （ ）
A. 商业活动只在白天进行
B. 商业活动受时间和空间限制较小
C. 售卖的商品种类单一
D. 售卖的商品主要满足皇室需要

19. **(2019·全国卷Ⅰ)**明中后期，大运河流经的东昌府是山东最重要的棉花产区，所产棉花多由江淮商人坐地收揽，沿运河运至江南，而后返销棉布。这一现象产生的主要因素是 （ ）
A. 交通方式的变革 B. 土地制度的调整
C. 货币制度的改变 D. 地区经济的差异

20. 皇天后土，土地神在宋代以前是各个地域的保护神，地位崇高，城隍只是一个具体城池的保护神，但宋代之后土地神却成了城隍的下属。这一变化反映了 （ ）
A. 统治者对神祇利用的变化
B. 宋代之前是农业社会，宋代之后是商业社会
C. 商品经济发展，城市经济和文化功能增强
D. 城市的政治、军事功能增强

21. **(2018·新疆乌鲁木齐高三三诊)**洪武二十四年(1391年)规定：凡在内府役作的工匠，“量其劳力，日给钞贯。”这一规定客观上推动了 （ ）
A. 民间手工业迅速发展
B. 小农经济的巩固
C. 激发工匠生产积极性
D. 商品经济的发展

22. **(2018·北京卷)**明中叶以来，松江府(今上海一带)所辖市镇数量如下表所示，据此表可以得出 （ ）

时间	松江市镇数量
1550年以前	59
1551～1722年	113
1723～1861年	167
1862～1911年	369

关注微信公众号“教辅资料站”获取更多学习资料

①市镇数量增长体现出商人地位上升　②明清时期松江地区工商业发展较快　③市镇增多与近代开放通商口岸有关　④清政府与民国政府都重视商业发展

A. ①④　　B. ②③

C. ②④　　D. ①③

23. 有学者认为，18世纪中后期的西方“选择了海洋”中国“选择了陆地”。“选择了陆地”是指　（　　）

A. 中国重视塞防忽视海防

B. 中国积极培育国内市场

C. 中国奉行“闭关锁国”政策

D. 中国大力发展陆路交通

24. 学者陈旭麓在《近代中国社会的新陈代谢》中指出“以保守的对策来对付进取的政策，这种中西之间的态势就是鸦片战争后一系列变化的基础和原因。……中国在世界民族之林中所处的被动局面，不是开始于鸦片战争，而是从郑和航海（1405～1433年）以来已见端倪了。”对该观点认识正确的是　（　　）

A. 郑和航海时期的中国已经落后于西方

B. 西方进取从根本上加速了明清社会的转型

C. 鸦片战争之前的中国对外交流完全停滞

D. 政策差异导致了中西历史发展方向的迥异

二、非选择题（本题共3小题，25题18分，26题14分，27题20分，共52分）

25.（18分）**（2018·天津卷）**阅读材料，回答问题。

材料一：从下图可以看出，汉代粮食亩产已达到一定水平。明和清前期，随着稻田复种指数增加，玉米、甘薯种植推广，亩产又有一定的提高。但从汉代到清中叶的两千年中，粮食亩产只增长了39%。

中国历代粮食平均亩产量示意图（市斤/市亩）

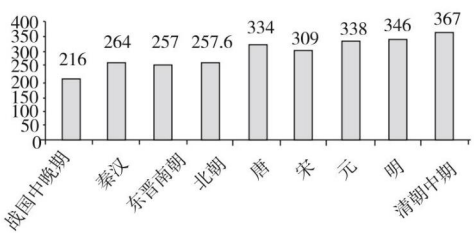

——编自吴慧《中国历代粮食亩产研究》

材料二：在中国，小农经济一锄一镰，一个主要劳动力加上一些辅助劳力，一旦和土地结合，就可以到处组织起简单再生产，虽然脆弱，但被破坏后极易复活和再生，又非常顽强。小农经济这种顽强的再生机制所造成的结果便是中国传统农业经济的水平位移——横向发展。

——编自王家范《中国历史通论》

材料三：中国传统农业是在国家全力倡导、监督下得以发展成为一种进步的形态。但是，“农为国本”，这话的反面，农业受到特别“照顾”的同时，也意味着国家的一切都得靠它滋养支撑。正是高度中央集权的大一统国家对农业的强控制，使农业本身受到重压，更使农业发展的成果无法扩散、转化、辐射到其他的经济领域，整个经济结构缺乏自身运行的独立机制，变得非常僵硬，难以变革。

——编自王家范《中国历史通论》

（1）材料一反映了中国古代农业怎样的发展概况？结合所学知识，指出明和清前期粮食亩产提高的外来因素。（4分）

（2）结合材料二和所学知识，分析我国小农经济既脆弱又顽强的原因。（5分）举例说明“中国传统农业经济的水平位移”的具体表现。（2分）

（3）概括材料三中“农为国本”的两面性。（2分）从经济角度分析农业发展的成果“无法扩散、转化、辐射到其他的经济领域”的原因。（5分）

26.（14分）诗歌作为文学的重要组成部分，与历史有着千丝万缕的联系，古人用诗歌反映当时社会现实，用诗歌吟咏王朝兴替、世事变迁。阅读材料，完成下列要求。

材料一：海客乘天风，将船远行役。譬如云中鸟，一去无踪迹。

——[唐]李白《估客乐》

夜雨千灯照碧云，高楼红袖客纷纷。如今不似时平日，犹自笙歌彻晓闻。

——[唐]王建《夜看扬州市》

材料二：今朝半醉归草市，指点青帘上酒楼。

——[宋]陆游《杂赋》

尔来盗贼往往有，劫杀贾客沉其艘。

——[宋]王安石《商感》

关注微信公众号“教辅资料站”获取更多学习资料

(1)根据材料一，概括唐朝商业发展的基本情况。(6分)

(2)根据材料二你能得出哪些历史信息？面对商品经济发展的状况，宋政府依旧实行什么经济政策？(8分)

27.(20分)**(2019·浙江选考)**站在时间的刻度上回望，更能感知时代的面貌和意义。阅读下列材料，回答问题。

材料一：在艰苦抗战的岁月里，一位建筑学家在四川南溪李庄的斗室仍潜心于他所热爱的事业，奋笔写下一个学者的良知文字：

研究中国建筑可以说是逆时代的工作。……自“西式楼房”盛行于通商大埠以来，豪富商贾及中产之家无不深爱新异，以中国原有建筑为陈腐。他们虽不是蓄意将中国建筑完全毁灭，而在事实上……主要城市今日已拆改逾半，芜杂可哂……雄峙已数百年的古建筑，充沛艺术特殊趣味的街市，为一民族文化之显著表现者，亦常在“改善”的旗帜之下完全牺牲。……这与在战争炮火下被毁者同样令人伤心……一切时代趋势是历史因果，似乎含着不可免的因素。幸而同在这时代中，我国也产生了民族文化的自觉，搜集实物，考证过往，已是现代的治学精神，在传统的血流中另求新的发展，也成为今日应有的努力。

——摘自梁思成《为什么研究中国建筑》

材料二：徜徉在世界文化遗产——平遥古城，宛若置身于一幅大写意的清明上河图，让人体味一个商帮曾经的芳华。高耸的市楼，居于城的中央，一城风光尽收眼底。吟咏着梁思成先生的文字：街市、民居、市楼、桥梁、寺塔、城垣等等，“它们的壮丽或它们的朴实，它们的工艺与大胆的结构，或它们的亲切部署与简单的秩序”，对于我们都是那么可爱，那么有意义。

有感于山西商人的创造力，梁启超任公先生曾在某一场合发言：“鄙人在海外十余年，对于外人批评吾国商业能力，常无辞以对，独至此，有历史，有基础，能继续发达之山西商业……有改良中国金融业之资格者……。诸君一举手，一投足，非徒诸君自身利害之所系，于国民经济、国家财政且有莫大影响焉”。

——选编自梁思成《我国伟大的建筑传统与遗产》、梁启超《饮冰室合集》

(1)分析指出材料一中作者所做的“逆时代”思考是什么？这位建筑学家的祈愿与思考在20世纪70年代变成了世界范围内人们的共识。根据材料一，结合所学，概括指出那些促使人们保护文化环境和自然环境的历史教训。(10分)

(2)根据材料二，结合所学，请选择阐述：①由平遥古城的市楼，分析说明中国古代市楼角色的演变，并指出古代城中特定商业区的名称。②梁启超认为晋商具备了“改良中国金融业之资格”的依据是什么？请用一段话简要评价晋商活动的作用。(10分)

班级 姓名 考场号 准考证号
密 封 线
历史 必修2 YL
关注微信公众号“教辅资料站”获取更多学习资料

班级_____ 姓名_____ 考场号_____ 准考证号_____

密 封 线

阶段测试二

（第二单元　工业文明的崛起和对中国的冲击）

时间：90分钟　满分：100分

一、选择题（本大题共24小题，每小题2分，共48分）

1. 斯塔夫里阿诺斯在《全球通史》中说："那时的西欧是无可匹敌的，它拥有向外猛冲的推动力——宗教动力、思想骚动、经济活力、技术进步和有效动员人力物力的民族君主国。"作者评论的是　（　）
A. 新航路开辟的原因和条件
B. 启蒙运动的历史影响
C. 工业革命开展的社会基础
D. 殖民扩张的客观作用

2. 意大利在经历了两个世纪活跃的发明创造之后，大约到1550年衰落，这一转变发生的主要原因是　（　）
A. 世界贸易中心变动　B. 文艺复兴中心转移
C. 宗教改革运动兴起　D. 理性主义成为潮流

3. **（2017·北京卷）**下图取材于欧洲画家斯泰达努斯的画作《新发现》《NOVA REPERTA》。图中所描绘的新发现　（　）



A. 有助于罗马帝国的海外扩张
B. 密切了世界各地之间的联系
C. 宣告了人文主义思想的诞生
D. 标志着英国海上霸权的确立

4. **（2018·衡水联考）**"战略目标的冲突和长期海上对抗决定了这场战争的形式——与近四个世纪英国所参加的战争相比，它是完完全全的贸易战争。交战的任何一方几乎都没有入侵对方领土的意图，英国所要求的是至高无上的贸易统治地位，……是为了求得海上生存而极力抗争。"这场发生于17世纪的战争带来的直接影响是　（　）
A. 资本主义世界市场初步形成
B. 西欧国家工业化进程加快
C. 英国建立起"日不落帝国"
D. 荷兰的殖民霸权逐渐丧失

5. **（2018·北京丰台区高三一模）**下图是18世纪以来欧洲人口变化示意图。其中阶段2为19世纪人口变化情况，下列对该阶段解释合理的是　（　）

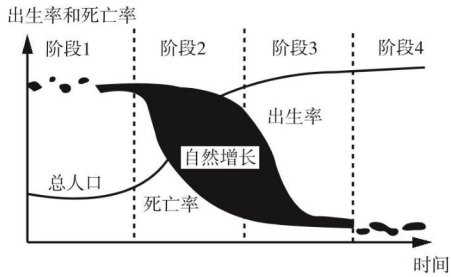

A. 科技进步导致死亡率下降
B. 黑奴贸易促欧洲人口增长
C. 义务教育促人口素质提升
D. 工业革命导致出生率增长

6. **（2018·洛阳联考）**"1700年时，英国总人口中尚有60%在田野中耕作，而到18世纪末时，只剩不到33%"。这种现象的出现主要是由于　（　）
A. 近代交通促进了人口迁移
B. 环境严重污染导致了人口死亡
C. 社会经济结构发生了变化
D. 工业化发展加剧了耕地的减少

7. **（2019·浙江选考）**第二次工业革命时期，一位发明家偶然发现，簧片在带铁芯线圈附近的振动可以导致圈内电流的强弱变化，反过来，同样的电流变化可以导致磁铁线圈附近簧片的振动。根据这一物理原理，他发明了通过电流传播人的声音和语言的重要通讯工具。这位发明家是　（　）
A. 爱迪生　　B. 莫尔斯
C. 贝尔　　D. 马可尼

8. 1830年，英国议会颁布了《啤酒法》，解除了地方官对啤酒经营长达近两个世纪的管制，导致了酗酒等社会治安问题，直到1879年，才通过《酗酒法》重新强化地方对酒类的管理权。这一过程反映了英国　（　）
A. 自由主义理论内涵的渐变
B. 立法服务于经济利益的原则
C. 工业化带来议会制度改革
D. 中央与地方之间的权力较量

9. **（2018·全国卷Ⅰ）**传统观点认为，英国成为工业革命发源地，是因为英国最早具备了技术、市场等经济条件；后来有研究者认为，其主要原因是英国建立了君主立宪制度；又有学者提出，煤铁资源丰富、易于开采等自然条件是其重要因素。据此可知，关于工业革命首先在英国发生的认识　（　）

关注微信公众号"教辅资料站"获取更多学习资料

A. 只能有一种正确合理的观点
B. 随着研究视角拓展而趋于全面
C. 缺少对欧洲其他国家的观察
D. 后期学者研究比传统观点可信

10. **(2018·广东深圳市高三二调)**19世纪中后期，有近20多万广东人拖家带口、扎根上海、聚族而居，活跃在各行各业中。出现这一现象最主要的原因是（　　）
A. 民族资本主义初步发展
B. 上海经济发展迅速
C. 宗族观念仍然根深蒂固
D. 华南地区战乱不断

11. **(2019·全国卷Ⅲ)**19世纪六七十年代，外国人将自己的名字租借给中国人经办新式企业的做法，在通商口岸较为盛行。这一做法（　　）
A. 导致民间设厂高潮局面的出现
B. 有利于中国新的社会阶层发展
C. 加剧了外国资本对中国的输入
D. 扭转了中国对外贸易入超局面

12. **(2018·江苏卷)**江南制造总局是个十足的封建衙门。管理者是以督办为首的一群大大小小的官吏。他们对军器制造一窍不通，一切生产技术大权都操纵于洋人手中。有些洋匠不懂技术，招摇撞骗，因造不出火药，竟称“中国天气异于外国，与造此药不宜”。这表明，洋务企业（　　）
A. 管理体系逐步完善
B. 过度依赖西方技术
C. 逐渐成为外资企业
D. 所雇洋匠皆为外行

13. 罗荣渠先生在《现代化新论》一书中说：“在此以后，外国渗透中国的方式从外贸领域扩大到投资、生产、销售、金融各个领域，直接改变了原有的‘小农—手工业生产方式’，使中国在经济上和财政上都日益陷入对资本主义世界经济体系的依附地位。”最符合材料意思的是（　　）
A. 自然经济开始逐渐解体
B. 外国经济侵略以商品输出为主
C. 中国开始卷入世界市场
D. 外国经济侵略以资本输出为主

14. **(2018·四川省高三一联)**据统计，中国在1842～1894年间，新建的工业企业中，民营企业仅为144家，占46%；而在1895～1916年间，新建民营企业达到877家，占同期新建企业的81%。出现这一变化的主要原因是（　　）
A. 一战爆发导致国际市场需求大增
B. 外国资本主义放松了对中国的掠夺
C. 政府对民营企业管理政策的变化
D. 民族资产阶级实业救国热情的推动

15. 近代民族工商业的发展，福建省具有代表性。1875～1895、1896～1911、1912～1913、1914～1918四个时段福建民族工矿企业年均注册数，与选项有对应关系。其中1896～1911年应是（　　）
A. 4.6个　　B. 3个
C. 2.5个　　D. 0.55个

16. 1916年1月《农商公报》记载，“济南棉花之行情，日日变动。其原因，一方为需要供给之关系，他方为占输出棉花之大部分者，首日本，因之大阪行情时时变动，故济南市场亦因之受影响焉。济南重要之花行，有每日致电大阪询问行情者。”这反映出（　　）
A. 中国已沦为资本主义世界市场的一个部分
B. 中国农产品的市场价格由日本决定
C. 中国近代农产品生产的商品化、专门化趋势日益明显
D. 中国政权和海关的半殖民地化的现实状况

17. “东洋分沪有银行，亿万金钱进出忙。钞票流通皆信用，与英与法并争强。”此竹枝词反映出（　　）
A. 社会生活发生巨变
B. 传统重农抑商已然破产
C. 实业救国蔚然成风
D. 资本输出竞争激烈

18. 曾有人这样形容中国的近代经济：在民国时期的经济大家庭中，既有又老又保守的“婆婆”，也有年轻且掌握大权的“丈夫”，还有一个像可怜的寄人篱下的“童养媳”，仰人鼻息，举步维艰。“童养媳”指的是（　　）
A. 自然经济
B. 官僚资本主义经济
C. 外国资本主义经济
D. 民族资本主义经济

19. 民国初年，中国民族工业有了进一步发展。以天津为例，在工商部注册、资产达万元以上的企业就有数十家。出现上述状况的政治前提是（　　）
A. 辛亥革命推翻了清朝统治
B. 华侨们竞相回国投资办厂
C. 列强放松了对华经济侵略
D. 各类实业团体的广泛建立

20. 1931年，《中国矿业报告》记载：“能与外煤相竞争者，唯山东枣庄中兴煤矿公司。”至1936年底，中兴公司已拥有3座近代化的大型矿井和台枣铁路，还拥有3个大公司、5个厂、29个分销厂以及码头等设施。此时，中兴煤矿公司的发展主要得益于（　　）
A. 西方国家的经济危机
B. 列强暂时放松了对华侵略
C. 政府政策的支持鼓励
D. 实业救国思潮开始兴起

关注微信公众号“教辅资料站”获取更多学习资料

21. **(2019·江苏卷)**民国时期，有学者认为，“在发展过程中，为着帝国主义间，彼此有矛盾，所以中国民族资本主义有某限度的蓬勃，但总不能蓬勃到可以脱离半殖民地的地位”。在他看来　（　）

A. 民族资本主义在当时的中国没有发展空间

B. 民族资本主义发展依赖于帝国主义间矛盾

C. 民族独立以民族资本主义蓬勃发展为前提

D. 民族资本主义蓬勃发展以民族独立为前提

22. **(2019·江苏卷)**近代上海报纸刊登《纪苏州一车夫》，昨日经过观前街，见一日本人，正在叫车，大呼：“至盘门(租界)大日本领事馆去！”车夫操吴侬软语道：“只拉我国的大国民，倭奴是不拉的。”这一记载可能出现于　（　）

A. 1840～1894 年　　B. 1895～1911 年

C. 1912～1945 年　　D. 1946～1949 年

23. **(2018·黑龙江试验中学高一期中)**19 世纪中期以后，中国市场上的洋货日益增多，火柴、洋布等日用品，“虽穷乡僻壤，求之于市，必有所供。”这种状况表明　（　）

A. 中国市场由被动开放转为主动开放

B. 商品经济基本取代自然经济

C. 日常生活与世界市场联系日趋密切

D. 中国关税主权开始丧失

24. 阅读我国古代历史文献可以发现，“马上”“马甲”“马头”“马褂”“马蹄”“马前卒”“马到成功”“马革裹尸”“马首是瞻”等有关“马”的用语特别多，而现代常用文字中“机器”“机舱”“机车”“机电”“机工”“机构”“机械”“机帆船”“机关枪”等关于“机”的词汇比较多。造成这种变化的根本原因是　（　）

A. 生态恶化，物种消失

B. 农业文明转变到工业文明

C. 洋务运动引进西方文明

D. 自然经济逐步解体

二、非选择题(本题共 3 小题，25 题 14 分，26 题 26 分，27 题 12 分，共 52 分)

25. (14 分)**(2019·江苏卷)**新航路开辟之后，出现了物种在全球范围内的交流，被称为“哥伦布大交换”，其影响深远。阅读下列材料，完成下列要求。

材料一：在美洲被征服的过程中，大量印第安人死于屠杀和折磨。更悲惨的是，新大陆没有天花、白喉等疾病，印第安人对这些疾病毫无免疫力，欧洲人带来的这些疾病造成他们死亡的数量可能更大，有的村子因此整个灭绝。据估计原来有 1 000 万到 2 500 万人口的新西班牙(阿兹特克帝国)，到 17 世纪初只剩下不到 200 万人，同时期印加人从约 700 万减少到只有约 50 万……随着印第安人大量死亡，劳动力来源日趋紧张，于是殖民者又从非洲运来黑人，迫使他们在种植园里劳动。

——王加丰《世界文化史导论》

材料二：(欧洲人)不但自己大发其财，同时一手塑造了整个新世界的风貌与历史……看不见的病毒以外，另一批因哥伦布航行引发的生物大交换，是由肉眼可见的生命形式组成，从南瓜到野水牛均是。这个大交换的结果——从人类观点视之——也是正负参半……时至今日，两半球之间的动植物交换并未停止，依然在进行。

——[美]艾尔弗雷德·克罗斯比《哥伦布大交换》

(1)据材料一，指出欧洲征服美洲的后果。结合所学知识，说明欧洲征服美洲的经济动因。(6 分)

(2)据材料二，概括“哥伦布大交换”的特点。(5 分)

(3)据材料并结合所学知识，简析“哥伦布大交换”的积极影响。(3 分)

26. (26 分)阅读材料，完成下列要求。

材料一：19 世纪，外国工厂中的部分投资归住在通商口岸的中国股东所有，他们主要是洋行买办或经营丝、茶和进口纱、布的商人。在外资的海轮和江轮公司、保险公司和货栈业方面情况更是如此，缫丝业、电灯电力和 1895 年以后新设立的棉纺织厂也有这种情况。一份研究材料确定，有 130 个中国的大股东曾在 1860 年至 1900 年期间向 44 家外国企业投资。外国人的特殊地位，通商口岸的租界，都为赚钱提供了保证。中央政府在思想上和政治上都不能建立和保证一个有法律、商业和教育等制度的体制。由于没有关税自主权，它不能保护新生的华资企业，使他们能和进口货和在华外资企业的产品竞争。

——《剑桥中国晚清史》

关注微信公众号“教辅资料站”获取更多学习资料

材料二：由于没有社会和地理条件的限制，没有明显的外来危险，大量外国和本国的投资日益增长。美国似乎拥有某些其他大国部分拥有的全部经济优势，而没有其他的劣势。它幅员辽阔，到1914年已拥有大约40多万千米铁路。美国的耕地面积、农机效率以及不断降低的运输费用，使美国农产品的价格都低于欧洲任何国家。美国一些处于领先地位的公司，都相当于甚至往往优于世界其他任何公司，并且它们拥有巨大的国内市场和经济规模。到1914年，美国国民收入，无论是绝对值还是人均值，都远比其他任何国家要高。

——[美]保罗·肯尼迪《大国的兴衰》

(1)根据材料一，指出晚清时期在华外商企业创办的特点。结合所学知识，分析形成这一特点的原因。(10分)

(2)根据材料二并结合所学知识，分析20世纪初大量外国资本投资美国的原因。(8分)

(3)综合上述材料并结合所学知识，评析外国投资对当时国家社会经济发展的影响。(8分)

27.(12分)**(2018·全国卷Ⅱ)**阅读材料，完成下列要求。

材料：1889年，两广总督张之洞从英国预购炼铁机炉，有人提醒先要确定煤、铁质地才能配置合适的机炉，张之洞认为不必“先觅煤、铁而后购机炉”。张之洞调任湖广总督，购得大冶铁矿，开始筹建汉阳铁厂，由于找不到合适的煤，耗费六年时间和巨资，仍未能炼出合格的钢铁。盛宣怀接手后，招商股银200万两，并开办萍乡煤矿，但由于原来定购的机炉不适用，依然未能炼出好钢，只得贷款改装设备，才获得成功。通过克服种种困难，汉阳铁厂成为中国第一家大型的近代化钢铁企业，1949年后收归国有。

——摘编自陈真等编《中国近代工业史资料》等

材料提供了一个中国近代企业发展的案例，蕴含了现代化的诸多启示。从材料中提炼一个启示，并结合所学的中国近现代史知识予以说明。(要求：观点明确，史论结合，言之成理。)

关注微信公众号“教辅资料站”获取更多学习资料

班级 姓名 考场号 准考证号
密 封 线
历史 必修2 YL

班级_____ 姓名_____ 考场号_____ 准考证号_____

密 封 线

阶段测试三

(第三单元　各国经济体制的创新和调整)

时间:90 分钟　满分:100 分

一、选择题(本大题共 24 小题,每小题 2 分,共 48 分)

1. "当人民忍饥受饿,失业现象日益猖獗的时候,凡是隐藏一普特余粮的人,凡是使国家损失一普特燃料的人,都是穷凶极恶的罪犯。"这种宣传应出现在 (　　)
A. 1917 年的沙俄　　B. 1920 年的苏俄
C. 1923 年的苏联　　D. 1924 年的苏联

2. 列宁说:"我们上层制定的经济政策是同下层脱离的,这一政策没有造成生产力的提高,而这一点在我们的党纲里却被认为是刻不容缓的任务。"材料中的"经济政策"是指 (　　)
A. 农业集体化政策
B. 新经济政策
C. 优先发展重工业政策
D. 战时共产主义政策

3. 1918 年 7 月,苏维埃人民委员会根据列宁的提议,拟定了《俄国吸收外国资本的条件提纲》,10 月又通过了向农民征收实物税的法令。这些举措表明苏俄 (　　)
A. 决定实施战时共产主义政策
B. 已意识到商品经济的重要性
C. 实行国家资本主义经济方针
D. 作出废除余粮收集制的决定

4. **(2019·天津卷)**1918 年初,德军逼近彼得格勒。苏俄被迫接受德国提出的割地赔款条件,签订"布列斯特和约",退出大战,赢得了巩固苏维埃政权的时间。有历史学家借"布列斯特和约"的寓意,把新经济政策称为"农民的布列斯特"。这说明苏维埃政权 (　　)
A. 已把农民视为当前最危险的敌人
B. 确定武装对抗是处理内政的方针
C. 通过妥协让步维护革命根本利益
D. 开辟了苏联社会主义建设新道路

5. 1928 年,苏联按照国家计划在乌拉尔地区建设两个钾矿矿井,一个由苏联自主建设,另一个由德国公司负责。这反映出苏联在工业化初期 (　　)
A. 缺少基本的技术基础
B. 突破了计划经济指令的制约
C. 依赖外资建设重工业
D. 采用新经济政策的某些做法

6. **(2018·吉林调研)**1918 年 1 月,苏维埃政权颁布法令,使学校教育与教会彻底分离,教育面向大众,学校完全世俗化。斯大林提出:"技术决定一切"的口号,指导办教育。1931 年,全国高校已经达到 579 所。1938 年,苏联基本完成了扫盲任务。由此可知苏联教育 (　　)
A. 摆脱了意识形态的干扰
B. 为社会主义现代化服务
C. 为美苏争霸奠定了基础
D. 为反法西斯战争储备了人才

7. **(2019·张家界模拟)**"斯大林与马克思、恩格斯、列宁不同,他是一个带有俄罗斯农民意识的马克思主义者。较少接触资产阶级民主思想。对当时欧洲发达的资本主义社会生活,包括政治生活都是陌生的。"材料意在说明 (　　)
A. 苏联工业化的历史地位
B. 斯大林的经济思想
C. 斯大林模式的形成因素
D. 斯大林的革命活动

8. **(2017·全国卷Ⅱ)**1953 年,苏共中央决定,改变集体农庄劳动报酬发放办法,由以前每年发放一次物质报酬改为按季度或者按月发放,同时在一些集体农庄试行工资制度,农民可以像工人一样每月领取工资。这一措施旨在 (　　)
A. 调动农民生产积极性
B. 改变计划经济管理体制
C. 消除城乡之间的差别
D. 推动农民走集体化道路

9. **(2018·全国卷Ⅲ)**1959 年,苏共二十一大讨论通过了七年经济计划,规定 7 年内工业生产总值提高 80%,其中发电量、钢铁产量都要求成倍增长。这反映出七年经济计划 (　　)
A. 未能摆脱斯大林模式
B. 是应对马歇尔计划的举措
C. 是新经济政策的延续
D. 加强了国家对经济的控制

10. "20 世纪 50 年代,苏联科技人员发明了连续铸钢法,铸出的钢锭比传统方法质地均匀,且能将产量提高 1/10 到1/5,因而被 28 个国家买去专利。但直到 1980 年,苏联自身只有 11%的钢锭采用此项技术生产。"对材料解读最准确的是 (　　)
A. 制度变革激发技术创新
B. 经济模式决定科研方向
C. 科技交流不受冷战影响
D. 经济体制制约技术转化

关注微信公众号"教辅资料站"获取更多学习资料

11. “20世纪七八十年代的苏联青年人都是出生于卫国战争之后，他们被告知自幼生活在无比优越的社会主义制度之下，当长为青年人之后又被告知生活在‘最发达的社会主义国家’中。但‘最发达’的社会制度却无法提供足够的生活用品；在‘人民当家作主的国家’里，从来没有机会真正表达自己的意愿；官僚的子女拥有无可比拟的机会，而普通人家的子女在社会的下层挣扎，连改善命运的机会也极其渺茫。……”上述材料表明 （ ）
①军备竞赛加剧了苏联的经济负担 ②当时的苏联政治经济危机严重 ③信仰丧失是苏联解体的重要原因之一 ④“腐败”问题困扰着苏联社会
A. ①②③ B. ②③④
C. ①③④ D. ①②③④

12. 1971年，苏联政府在关于五年计划的报告中说：“商品货币关系在我国具有新的、社会主义的内容。当然，我们要批驳主张用市场调节作用取代国家集中计划的主导作用的各种错误观点。”这表明苏联政府试图 （ ）
A. 废除对企业的指令性计划
B. 由市场决定产品价格
C. 鼓励私营企业发展
D. 减少对企业的行政干预

13. 自由放任的经济政策有着“市场失灵”的缺陷，国家干预经济有着“政策失灵”的不足。能体现上述观点的分别是 （ ）
A. 罗斯福新政与新经济政策
B. 经济大危机与“战时共产主义”政策
C. “战时共产主义”政策与新经济政策
D. 罗斯福新政与“战时共产主义”政策

14.《美国自由的故事》写道：美国人遇到了“两套对立的自由概念的体系”，一种是“为私营企业”自由服务；另一种是以“一种对财富平等的分享”为基础的“社会化的自由”。事实表明，大多数美国人在1936年时都接受了这样的观点：自由必须包含由政府保证的经济安全。由此可知 （ ）
A. 罗斯福新政体现了第一种关于“自由”的观念
B. 罗斯福新政体现了“另一种”关于“自由”的观念
C. 大多数美国人认为政府应当保障公民的政治自由
D. 大多数美国人认为“自由代表着从物质的无保障中得到解放”

15. 1933年的某一天，美国纽约股票交易所又重新响起了电锣声，道琼斯的股票行情发报机传出了这样一句话：“幸福的日子又来到了。”出现这一现象的原因是美国政府 （ ）
A. 整顿财政金融 B. 调整工业生产
C. 调节农业生产 D. 实行以工代赈

16. **(2019·全国卷Ⅱ)**表 苏联1970年计划完成情况 （单位：吨）

类别	1961年对1970年的预测或计划任务	1970年实际产量
钢	1.45亿	1.15亿
煤	3.9亿	3.35亿
肉	2 500万	1 230万
蔬菜与瓜类	4 700万	1 300万

上表可以说明当时苏联 （ ）
A. 经济发展的问题积重难返
B. 经济政策保持了连续性
C. 经济改革的重点转向农业
D. 社会生活需求发生变化

17. 下图反映了1929～1937年美国失业工人人数的变化情况，导致这个时期失业人数逐步回落的直接有效的措施是 （ ）

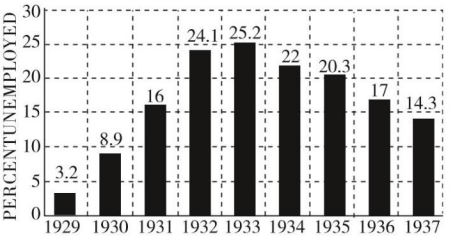

A. 整顿金融 B. 颁布《工业复兴法》
C. 以工代赈 D. 建立社会保障体系

18. “世界近两年正在倒退，各国之间非但没有更加接近，非但没有增进友好的程度，非但没有在向稳定的和平迈进，反而还采取了危及世界和平的猜疑、恐惧和威胁的态度。”这一现象出现的主要原因是 （ ）
A. 经济危机 B. 罗斯福新政
C. “斯大林模式” D. 经济互助委员会

19. 1929年的经济大危机来临时，美国一对母子有如下一段对话：“妈妈，为什么不生火？”“因为我们家没有煤了。”“为什么没有煤了呢？”“你爸爸失业了，我们没钱买。”“爸爸为什么失业了呢？”“因为矿上出产的煤太多了。”为解决“没有煤”与“煤太多”的矛盾，罗斯福采取的针对性措施主要是 （ ）
A. 银行休业整顿
B. 政府对工业的计划指导
C. 推行以工代赈
D. 建立社会保障体系

关注微信公众号“教辅资料站”获取更多学习资料

20. **(2018·西安八校联考)**程锡庚在预测1934年世界发展趋势时甚至说,资本主义与共产主义将"渐次融合","在资本主义之国家,均已盛行社会主义……美国以资本主义立国,但经济复兴计划中所采用之方法,如统制生产,强迫做工等,实与共产主义之苏俄相似"。材料旨在强调 ( )
A. 资本主义正在向社会主义转变
B. 社会主义比资本主义更优越
C. 资本主义与社会主义差异消失完全融合
D. 资本主义在发展中可以借鉴社会主义

21. **(2018·福建四校联考)**1932年,罗斯福竞选基金的25%来自银行家和经纪人的捐助。1936年,罗斯福第二次竞选,由25%下降到4%。罗斯福曾说:"有组织的大财团,在美国历史上……紧紧抱成一团,反对一个总统候选人,这还是第一次!"导致上述现象的原因是 ( )
A. 签署《全国劳工关系法》
B. 政府成立农业调整署
C. 放弃金本位制使美元贬值
D. 大力推行"以工代赈"

22. **(2018·武汉外国语学校高三一模)**撒切尔夫人就任英国首相后,将20家大型国企私有化,包括捷豹汽车、英国电讯、英国石油及工厂和港口等。这些公司在上市时,把股价故意定得偏低,并面向所有的人销售。这一举措 ( )
A. 加强了国家干预力度
B. 扩大了市场机制的作用
C. 恢复了自由放任政策
D. 提高了国民的工资收入

23. 1987年接任美联储主席的格林斯潘,在沿用前任主席沃尔克坚决反对通货膨胀做法的同时,更加强调采取"预防性"的措施,在通货膨胀还没有明显出现苗头的情况下就实行紧缩政策,将通货膨胀消灭在萌芽状态,从而保持经济的持续稳定增长。格林斯潘采取的经济政策是 ( )
A. 加强自由放任的经济政策
B. 减少政府对经济的干预
C. 加强政府对经济的干预
D. 采用介于自由放任和国家干预之间的经济政策

24. 下图是某同学根据必修2第16课《战后资本主义经济的调整》一课的内容整理出的资本主义经济政策调整知识结构图。图中的变化反映的本质问题是 ( )

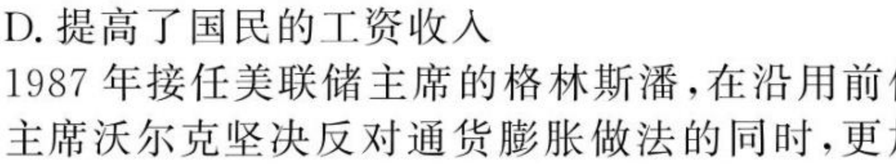

A. 随着生产力发展,资本主义生产关系相应调整
B. 资本主义国家的经济政策摇摆不定
C. 没有哪种经济政策可以保证资本主义经济持续繁荣
D. 资本主义国家最终将选择计划加市场的"混合"经济

二、非选择题(本题共3小题,25题21分,26题17分,27题14分,共52分)

25. (21分)阅读材料,完成下列要求。

材料一:



图一 1913年沙俄工业产值占全世界的比重



图二 1937年苏联工业产值占全世界的比重

材料二:

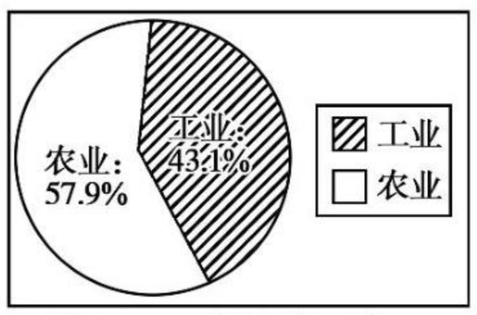

图三 1913年沙俄工农业产值比例图

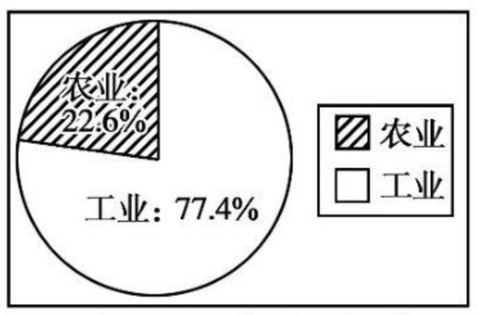

图四 1937年苏联工农业产值比例图

材料三:

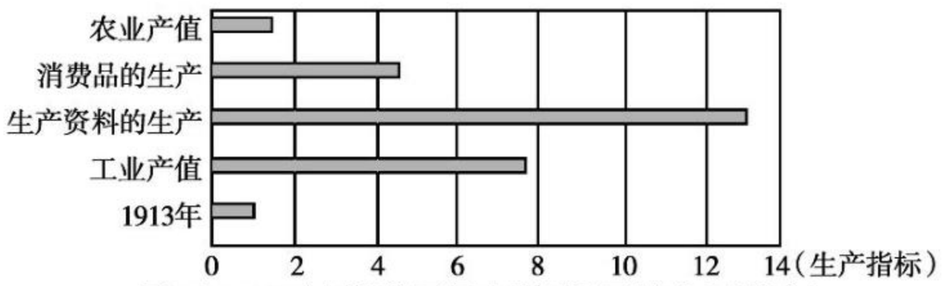

图五 1940年苏联国民经济发展的主要指标(以1913年产值为1)

(1)结合材料一、二,说明到1937年苏联经济发生的变化。(6分)
(2)根据材料三,说明苏联经济发展具有的特点。试分析形成这一特点的原因及其对后来经济发展的影响。(15分)

关注微信公众号"教辅资料站"获取更多学习资料

26.(17分)**(2019·浙江选考)**阅读材料,回答问题。

材料一:1933年3月4日,刚刚就任美国第32届总统的罗斯福要求国会授予他"一件惟一足以应付目前危机的武器,这就是,让我拥有足以对紧急事态发动一场大战的广泛行政权。"……3月8日,联邦储备委员会宣布:凡2月1日以后向银行提取过黄金,而到下周一为限还不退回储存的,银行便公布其姓名。几小时之内,各地银行门前又排起了长龙,如上周争先提款的情景一般。3月9日晚,罗斯福签署《紧急银行法》。当晚国家印制局添雇375名职工,印钞机全部开工。不出一周,13 500家银行复业,交易所又重新响起了电锣声。

——摘自[美]威廉·曼彻斯特《光荣与梦想:1932~1972年美国社会实录》

材料二:1990~2000年美国经济数据(部分)

类别	年份	增长率或产值	备注
通货膨胀率	1990	4.3%	
	1999	1.1%	60年来最低
失业率	1991	6.8%	
	2000	4%左右	30年来最低
国内生产总值	1991	-0.2%	1991.3~2000.12持续高增长
	2000	4.1%	
互联网产业产值	1999	5 070亿美元	超过其他传统产业,成为美国第一大产业

——选自[美]诺顿等《美国全史》、《历史》必修二等

(1)根据材料一,并结合所学,简述《紧急银行法》的主要内容,概括指出罗斯福新政对战后美国及西方资本主义国家社会、经济改革的影响。(8分)

(2)20世纪美国资本主义经济一直处于变与不变的状态之中。根据材料二并结合所学,概括20世纪90年代美国经济运行的新变化。根据材料一、二,并结合所学,指出美国经济一直没有改变的是什么?(9分)

27.(14分)社会保障制度建设是当今世界各国普遍关注的重大问题。阅读材料,完成下列要求。

材料一:社会保障制度起源于19世纪80年代俾斯麦执政时期的德国。当时的德国,随着工业化的发展,由于种种原因,资本家和工人的矛盾已经激化到一触即发的状态。在这种情况下,俾斯麦被迫转向了软化工人与调和阶级对立的政策。在德皇威廉一世的支持下,帝国议会通过了法令,先后于1883年、1884年和1889年颁布了《疾病保险法》《工伤保险法》和《老年保险法》三项法案。其后,各资本主义国家陆续予以仿效。而社会保障制度真正全面建立和发展是在美国罗斯福总统实行新政时期。这与本世纪(20世纪)二十、三十年代经济大萧条,以及凯恩斯福利国家理论的诞生是分不开的。

——《发达国家社会保障制度的经验教训》

材料二:20世纪70年代中期以后,发达资本主义国家的福利经济开始陷入困境。随着经济全球化和贸易自由化的蓬勃兴起与加速发展,资本可以随意跃出国界,工会对福利的任何进一步要求和政府扩大福利支出的政策都会促使资本"外逃",资本"外逃"反过来又加剧了国内的失业压力。庞大的社会福利支出用于消费,既增加了西欧国家产品的生产成本,导致这些国家在对外经济竞争中处于劣势。国民对福利的过度依赖导致工作积极性不高和劳动力市场僵化,"福利经济"培养出一批坐享其成的懒汉,诱发了长期困扰西方社会的"福利道德"问题。

——摘编自代恒猛《全球化与欧洲"福利国家"》

(1)根据材料一并结合所学知识分析,促使西方资本主义国家建立社会保障制度的因素有哪些?(5分)

(2)根据材料二,概括20世纪70年代以来,欧美国家的福利制度带来了哪些社会问题。(5分)

(3)综合上述材料,说明欧洲社会保障制度的发展变化对我国当前社会经济改革有何启示。(4分)

班级 姓名 考场号 准考证号
密 封 线
历史 必修2 YL
关注微信公众号"教辅资料站"获取更多学习资料

班级_____ 姓名_____ 考场号_____ 准考证号_____

密 封 线

阶段测试四

（第四单元　中国社会主义建设发展道路的探索）

时间：90 分钟　满分：100 分

一、选择题（本大题共 24 小题，每小题 2 分，共 48 分）

1. 1953 年中共中央通过的一份决议指出：领导农民在自愿的基础上“由低级到高级，由小到大，由少到多，由点到面；就能够引导农民群众——在开始是一部分，随之将是大部分，而最后将是全部——跟着我们走向社会主义。”此决议目的是（　　）
A. 动员农民打土豪分田地
B. 推动农业合作化运动
C. 鼓励农民加入人民公社
D. 实行家庭联产承包责任制

2. **（2018·四川成都外国语学院高一期中）**1956 年，毛泽东在谈到上海出现的地下工厂时指出：“要使它成为地上（工厂），合法化可以雇工。现在做衣服要三个月，合作工厂做的衣服裤腿一长一短，扣子没眼，质量很差。最好开私营工厂，同地上的（工厂）做对手，还可以开夫妻店，请工也可以。这叫新经济政策。”这说明当时（　　）
A. 三大改造已经完成
B. 主张不同经济成分进行竞争
C. 私营经济优于国营经济
D. 领导人对现行政策路线的动摇

3. 1961 年，中共中央农村工作部的一份报告指出：现在部分干部和农民对集体生产信心不足，以致发展到变相恢复单干，有的地方出现了“父子队”“兄弟队”式家庭作业。这则材料作为例证，可用于说明（　　）
A. 当时土地所有制发生改变
B. 农业合作化运动的历史背景
C. 当时国民经济调整成效显著
D. 家庭联产承包责任制的起源

4. 城镇人口数量的变化能够反映一个国家经济发展的状况。与下图现象直接相关的是（　　）

新中国初期城镇总人口的变化

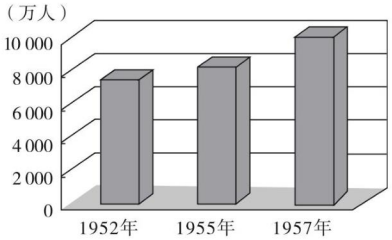

A. “一五”计划实施
B. “大跃进”运动开展
C. 人民公社化运动掀起
D. 工业化基本实现

5. **（2019·全国卷Ⅲ）**如图，是 1953 年创作的年画。该作品（　　）



《数他劳动强》

A. 继承了中国传统文人画作的基本风格
B. 描绘了农民参与社会主义生产的场景
C. 体现了“双百”方针提倡的创作精神
D. 倡导了适应国家建设需要的社会新风

6. 中共“八大”报告指出，第二个五年计划期间，在国家统一市场的领导下，将有计划地组织一部分自由市场，对所有商品，将实行按质分等论价办法，不仅不会破坏国家的统一市场，相反地，将会对国家的统一市场起有益的补充作用。由此可见，这个报告（　　）
A. 有效纠正了公社化运动的失误
B. 全面总结“一五”计划的建设经验
C. 提出社会主义市场经济的理论
D. 针对苏联经济模式的有效反思

7. 田汉诗云：“枝干横斜叶半黄，漳州炉焰对斜阳。炼钢何惜相思树，一寸相思一寸钢。”对于这首诗理解正确的是，它（　　）
A. 颂扬“一五”计划时期重工业的巨大成就
B. 反映了“大跃进”违背客观规律对环境的破坏
C. 反映了人民群众建设社会主义的热情
D. 展现了十年探索时期我国钢铁工业的发展

8. 1958 年 6 月 2 日，中共中央发出《关于企业、事业单位和技术力量下放的规定》。规定要求下放的交接工作“应该一律于 6 月 15 日以前完成”。到 6 月 25 日，中央工业部门所属的企业和事业单位，已经有百分之八十左右下放地方管理。“下放”在当时造成的结果是（　　）
A. 各地经济发展缓慢
B. 资源浪费和管理混乱
C. 促进工业化的进程
D. 人民公社体制的建立

关注微信公众号“教辅资料站”获取更多学习资料

9. 下图是1949年到1960年我国粮食产量的变化情况，根据所学史实判断下列对1952年粮食产量上升和1960年粮食产量下降的主要原因分析正确的是（　　）

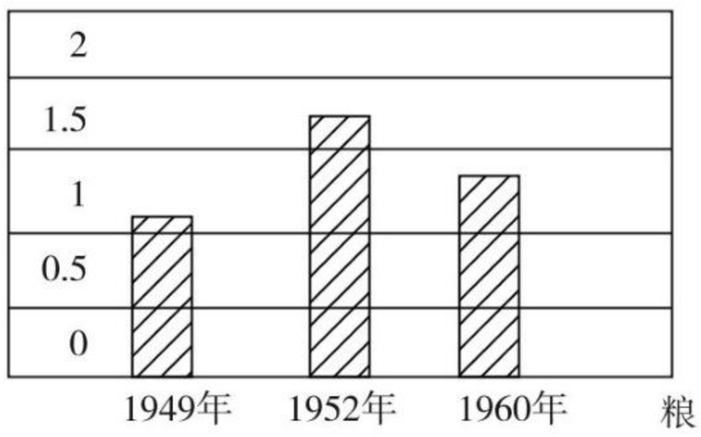

A. 三大改造的基本完成——自然灾害
B. 土地改革的基本完成——“大跃进”和人民公社化运动
C. 互助合作运动开展——“八字方针”的提出
D. 过渡时期总路线的提出——人民公社化运动和自然灾害

10. **(2019·河北衡水高三模拟)** 1959年我国城镇人口增加了1 650万人，城市化水平提高了2.2%，到1960年全国城镇人口达13 073万，城市化水平达到19.8，三年净增31.4%。材料表明（　　）
A. 生产力发展推动城市化
B. 城乡社会结构严重失衡
C. 城市化脱离城市承受力
D. 人民生活水平得到提高

11. 1962年，中共中央通过“农村十六条”指出：“人民公社社员的家庭副业，是社会主义经济的必要补充部分。它附属于集体所有制经济和全民所有制经济，是它们的助手。”中央这一政策是为了（　　）
A. 纠正农村工作中的“左”倾错误
B. 改变所有制经济结构
C. 减轻农民负担
D. 缓解国家的经济困难

12. 1961年，陈云通过对青浦县的实地调研，向中央递交了《母猪也应该下放给农民私养》《种双季稻不如种蚕豆和单季稻》《按中央规定留足自留地》等报告。这次调研活动（　　）
A. 纠正了农业社会主义改造的偏差
B. 响应了经济战线“大跃进”的号召
C. 体现了对人民公社化运动的反思
D. 推动了家庭联产承包责任制的开展

13. 十一届三中全会后，中国农村率先进行了改革。当时在农村中盛传一些民谣：“全家一齐干，不到天黑不吃饭”“交够国家的，留足集体的，剩下都是自己的”“农业实行大包干，粮食年年都翻番”。下列对民谣解读有误的是（　　）
A. 农民获得土地所有权后的高兴心情
B. 农民获得了自主分配农产品的权利
C. 兼顾了国家、集体、个人三者的利益
D. 家庭联产承包责任制推动了农业生产的发展

14. 邓小平同志指出：“农村改革中，我们完全没有预料到的最大收获是乡镇企业发展起来了……搞多种行业、搞商品经济、搞各种小型企业，异军突起。”乡镇企业崛起（　　）
A. 打破了计划经济体制
B. 有助于产业结构调整
C. 推动城乡一体化发展
D. 成为农民致富主渠道

15. **(2018·河南天一大联考)** 1982年，可口可乐在北京各大商场进行了中国现代市场第一次“买一瓶可乐，送一个气球”的促销活动，由于受到上层领导的批评，商业部通知北京各商场停止销售可口可乐。这说明（　　）
A. 我国当时急需进行经济体制改革
B. 对外开放政策遭受挫折
C. 企业现代经营理念需要政策支持
D. 国有企业改革面临阻力

16. **(2018·广东茂名高三二模)** 下表反映了我国私营企业和个体工商业的发展情况，其影响是（　　）

年份	私营企业		个体工商业	
	注册（万户）	从业人员（万）	注册（万户）	从业人员（万）
1988	4		1 000多	2 300多
1990	9.8	170.2	1 328.3	2 092.8
1992	13.9	230	1 533.7	2 467.7

A. 改变了我国公有制为主体的现状
B. 促进了我国农村产业结构的调整
C. 推动了我国经济体制改革目标的确立
D. 充分体现了我国按劳分配的原则

17. 1981年底，经过调查研究，国家相关部门认为，扩大出口创汇存在三大问题：一是外贸垄断体制，二是产品质量低，三是出口亏损。为解决这些问题，他们提出了若干建议，其中包括（　　）
A. 对国营企业进行股份制改革
B. 扩大外贸企业的经营自主权
C. 争取早日加入世界贸易组织
D. 在广东等省市设立经济特区

18. **(2019·福建上杭一中期中)** 一位学者研究了中国共产党“十一大”(1977年)至“十七大”(2007年)七个报告的词汇变迁，其中四个报告的词汇使用有如下特点，按照时间先后排序正确的是（　　）
①“中国特色”和“市场经济”成为报告的新词汇　②“改革”“对外开放”第一次出现在报告中　③报告中“毛主席”一词高居所有实词的第一位，平均每个自然段提及两次　④报告中“理论”和“邓小平”成为高频词汇
A. ①②③④　　B. ③②①④
C. ③②④①　　D. ②③①④

关注微信公众号“教辅资料站”获取更多学习资料

19. 深圳在建特区的25年间，用前18年的时间使GDP达到了1 000亿元人民币，接着用5年时间使GDP达到了2 000亿元，然后仅用2年时间就使GDP达到了5 000亿元，平均每年的增长速度接近30%。“深圳速度”充分说明（　　）
A. 只有经济特区才能创造经济奇迹
B. 改革可促进局部地区的经济发展
C. 改革开放有利于生产力快速发展
D. 深圳是经济发展最快的经济特区

20. 1992年成为国家经济发展的重点，被誉为“进入中国经济的大门，打开中国市场的金钥匙，连接中国与世界经济的桥梁”的地方是（　　）
A. 海南岛　　B. 深圳
C. 上海浦东　　D. 广州

21. 它被认为是中国从“市场开放阶段”过渡到“规则或制度开放阶段”的重大的战略举措，是中国的第二次“改革开放”。它是指（　　）
A. 开放浦东　　B. 中国加入APEC
C. 中国加入WTO　　D. 成立上海合作组织

22. 有人说：“网络一半是‘红颜’，一半是‘祸水’！沉迷网络，可能会改写人生！”之所以说网络是“红颜”，是因为网络（　　）
①信息量很大，开阔了人们的视野　②可以购物，极大地方便了人们的生活　③可以学习，开拓了新的学习渠道　④可能造成社会问题、人们的心理问题
A. ①②③　　B. ①②④
C. ②③④　　D. ①③④

23. 21世纪以来，中国许多地方的农民在实践中不断探索农村土地经营的新办法，通过租赁转让、大户承包、以地入股、合作经营等多种形式，在确保所有权、稳定承包权的前提下，搞活土地使用权，既打破了制约农业规模化发展、集约化经营的瓶颈，又有效地增加了农民收入。对这一现象解读正确的是（　　）
A. 反映农村土地所有制结构的变革
B. 中国小农经济的理性回归
C. 面对国际市场冲击下的政策性调整
D. 农村经济改革深化的表现

24. **(2018·浙江余姚高一期中)**由当代历史学者编著的《中国现代化历程》第三卷共有四编，每编由若干章节组成。下图所示是该书其中一编的部分目录，这些章节应属于（　　）

第十八章　南方吹来春天的风
第一节　改革走到十字路口
第二节　又一篇解放思想的宣言
第三节　迈出改革新步伐
第十九章　市场经济终于植根中国
第一节　配套的改革规划
第二节　重大的改革措施
第三节　改革向深度和广度发展

A. 第一编　改道与转型(1949～1956)
B. 第二编　受挫与调整(1957～1978)
C. 第三编　改革与发展(1978～1991)
D. 第四编　辉煌岁月(1992～2000)

二、非选择题(本题共3小题，25题18分，26题12分，27题22分，共52分)

25. (18分)**(2019·全国卷Ⅰ)**阅读材料，完成下列要求。

材料一：表　1950～1980年部分国家钢产量变化表

(单位：万吨)

年份	中国	美国	苏联	日本
1950	61	8 785	2 733	484
1955	285	10 617	4 527	941
1965	1 223	11 926	9 102	4 116
1975	2 390	10 582	14 134	10 231
1980	3 712	10 080	14 800	11 141

——摘编自《1949～1984中国工业的发展统计资料》

材料二：20世纪80年代以来，我国钢产量迅速增长，1983年达到4 002万吨，1986年达到5 205万吨，至2002年达到18 224.89万吨，钢产量已连续7年保持世界第一。2002年全行业完成固定资产投资比2001年增长39.30%，2002年重点大中型钢铁企业科技活动经费筹集总额比2001年增长33.82%。钢材品种结构继续改善，国民经济发展需要的特殊品种和高附加值品种大幅增加。

——摘编自《中国统计年鉴》等

(1)根据材料一并结合所学知识，分别说明四个国家钢产量的总体发展趋势及基本原因。(12分)

(2)根据材料二并结合所学知识，简析改革开放以来中国钢铁业发展的主要原因。(6分)

关注微信公众号“教辅资料站”获取更多学习资料

26.(12分)**(2018·江西上饶高一联考)**新中国的经济体制随时代的发展不断调整。阅读材料,结合所学回答问题。

材料一:到1957年,中央各部直接管理的工业企业,从1953年的2 800多个增加到9 300多个,中央下达给工业企业的指标有:总产值、主要产品产量、职工总数、工资总额、劳动生产率、利润等12个指标。企业利润和折旧基金全部上缴国家,纳入国家预算,企业全部费用由国家拨款解决。

——摘自《中国近现代经济史》

材料二:全国工业总产值的所有制结构图

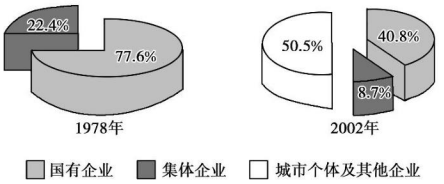

材料三:建国后至1978年前,我国的物价水平总体上是稳定的。在政府的指导下,若干工农业产品实行全省一价,某市大米价格0.139元/斤,粮食由政府统购统销20几年这价格几乎没变。1992~1994年物价上涨幅度是我国改革开放以来最高的,特别是食品类和服务项目的价格上涨最为明显。据当时的报纸记载,"人们像昏了头一样,见东西就买,既抢购保值商品,也抢购基本消费品,连滞销的也不放过"。

——白杨《改革开放30年我国物价的发展》

(1)材料一反映了我国哪种经济体制,指出这种体制产生的历史背景。(4分)

(2)材料二反映了城市经济体制改革过程中的什么现象,它表明所有制转变的方向是什么?(4分)

(3)根据材料三及所学知识,分析1978年前我国物价水平总体上稳定的原因。导致1992~1994年我国物价大幅上涨的最主要原因?(4分)

27.(22分)阅读材料,完成下列要求。

材料一:新中国成立初期工农业生产统计表(金额单位:亿元)

	1952年	1956年	1957年
工业总产值	343.3	703.6	783.9
农业总产值	483.9	582.9	604.0
工农业总产值	827.2	1 286.5	1 387.9

注:1952年工业比1949年增加187%,农业增加50%。

材料二:改革开放以来我国对外贸易情况表(单位:亿美元)

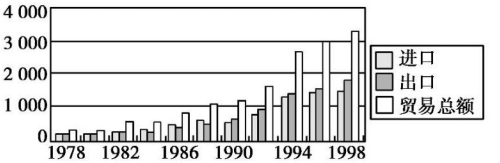

材料三:

	1978年	2000年
城市数量	193个	663个
小城镇	2 173个	20 312个
市镇总人口	1.7亿	4.56亿
城市化水平	17.9%	36.1%

(1)材料一说明了什么现象?出现这一现象的原因是什么?(8分)

(2)材料二反映了什么现象?出现这一现象的原因是什么?(8分)

(3)材料三反映了我国经济发展的什么现象?21世纪以来,该现象进入高速发展阶段,为此政府提出了怎样的发展战略?(6分)

关注微信公众号"教辅资料站"获取更多学习资料

班级 姓名 考场号 准考证号
密 封 线
历史 必修2 YL

班级_____ 姓名_____ 考场号_____ 准考证号_____

密 封 线

阶段测试五

(第五单元 经济全球化的趋势)

时间:90 分钟 满分:100 分

一、选择题(本大题共 24 小题,每小题 2 分,共 48 分)

1.《怎样做大国》指出:"以粗略的线条勾勒现代金融市场,那就是从以佛罗伦萨等独立城市为中心的'北意大利金融'发展到以阿姆斯特丹为中心的'荷兰金融',然后发展到以伦敦为中心的'英国金融',最后到达以纽约华尔街为中心的'美国金融'。"导致现代金融市场中心第三次转移的主要原因是 ( )

A. 对外扩张,英国成为"日不落"帝国
B. 工业革命后英国成为"世界工厂"
C. "新经济"出现,美国经济高速发展
D. "二战"后美国成为世界经济霸主

2. 下图形象地反映了布雷顿森林体系的本质。据此判断,布雷顿森林体系的本质是 ( )



A. 国际货币基金组织和世界银行
B. 使世界经济实现了体系化、制度化
C. 以美元为中心的国际货币金融体系
D. 以美国为中心的国际贸易体系

3. **(2018·天津卷)**京津塘高速公路是第一条经国务院批准并部分利用世界银行贷款建设的跨省、市高速公路,1987 年 12 日动工。这条高速公路的修建能够得到世界银行贷款,主要是因为改革开放后我国 ( )

A. 加入亚太经合组织
B. 将天津设为沿海开放城市
C. 恢复世界银行席位
D. 成功加入世界贸易组织

4. 国际货币基金组织于 2015 年 11 月 30 日批准人民币加入特别提款权货币篮子,新的货币篮子将于 2016 年 10 月 1 日正式生效。IMF 发表声明说,人民币被认定为可自由使用的货币,并将与美元、欧元、日元和英镑一道构成 SDR 货币篮子。这充分说明 ( )

A. 经济体系制度化建设的突破
B. 发展中国家主导世界经济话语权
C. 美国经济霸主地位逐渐丧失
D. 世界经济体系化的格局弊端凸显

5. 第二次世界大战中,美国财政部长摩根索曾向参议院指出,美国要建立一种世界体系,以便让"企业家们可以按照商业原则进行国际贸易和国际投资"。战争结束后,这一建议体现为 ( )

A. "冷战"秩序的建立
B. 《关税及贸易总协定》的签署
C. 世界贸易组织建立
D. 布雷顿森林体系的建立

6. **(2018·湖南师大附中期末)**20 世纪 70 年代初,美国不得不承认西欧的伙伴地位,并把 1973 年定为"欧洲年"。西欧地位的提高主要得益于 ( )

A. 欧共体的成立
B. 布雷顿森林体系瓦解
C. 欧盟的成立
D. "滞胀"现象的产生

7. 欧盟委员会这样解释欧盟旗帜的文化含义:12 是完美和丰饶的象征,使我们同时联想起《圣经》中的 12 圣徒、罗马的 12 铜表法、一天的 12 小时、一年的 12 月……最后,圆形的排列代表了联盟。对这一解释,理解正确的是 ( )

A. 联合欧洲十二国为统一国家
B. 封建神学在欧洲占统治地位
C. 罗马法确立了欧盟法制规范
D. 欧洲联合有共同的文化基础

8. 下面的漫画旨在表现 ( )



A. 西欧国家开始摆脱美国控制
B. 欧盟与美国在金融领域的竞争
C. 美国控制西欧共同对抗苏联
D. 欧共体经济上与美国平分秋色

9. 20 世纪后半期形成的欧洲共同体与北美自由贸易区 ( )

①都是区域性经济和政治联盟 ②成员国都享有减免关税的待遇 ③都实行了统一货币 ④都促进了区域经济集团化的发展

A. ①② B. ①③
C. ②④ D. ②③

10. "这一组织还制定了将其扩大到……所有非共产主义国家的计划,强调取消关税和其他阻碍地区和全球贸易的障碍。但是它是一个较为松散的组织,缺少像欧盟那样典型的经济合作"。该组织 ( )

关注微信公众号"教辅资料站"获取更多学习资料

A. 正式成立于 1992 年
B. 对该区域经济发展无甚裨益
C. 具有一定意识形态色彩
D. 违背了经济全球化的趋势

11. 第二十七届东南亚国家联盟领导人会议于 2015 年 11 月 21 日在马来西亚首都吉隆坡开幕，这次峰会正式宣布在 2015 年 12 月 31 日建成东盟共同体。有关东南亚国家联盟的性质的表述正确的是（　　）
A. 东南亚地区的经济组织
B. 东南亚地区的政治组织
C. 东南亚地区的政治经济组织
D. 东南亚地区的贸易联盟

12. 2014 年 11 月 11 日，亚太经合组织第二十二次领导人非正式会议在北京落下帷幕，会议通过了《亚太经合组织推动实现亚太自由贸易区路线图》。下列对“路线图”的认识正确的是（　　）
①各成员已实现贸易自由化　②有利于推进亚太地区经济一体化　③决议对成员不具有约束力　④开始走向政治一体化
A. ①②③　　B. ②③④
C. ②③　　D. ①④

13. **(2019·广东阳春一中月考)** 最近，欧盟开始对中国不锈钢无缝钢管续收五年反倾销税，最高税率近 72%。美国总统特朗普也以“国家安全”为由对包括中国在内的进口钢铁和铝分别征税 25%和 10%。中国已连续多年成为全球遭遇反倾销调查和反补贴调查最多的国家。这些现象说明（　　）
A. 经济全球化遭遇重大挫折
B. 世界各国贸易保护主义盛行
C. 经济全球化趋势已不可逆转
D. 中国成为全球化中流砥柱

14. 1995 年 11 月，美国财政部副部长萨默斯在一次会议上说：“这么多的国家转向以市场为基础的经济，也许是更震动更大的变化。这是一场把亚洲、东欧、拉美和非洲几十亿人送上通往繁荣的快速电梯的运动。”他所评价的事件最可能是（　　）
A. 欧洲联盟宣告成立
B. 世界贸易组织的建立
C. 中国加入亚太经合组织
D. 北美自由贸易区的诞生

15. 世贸组织争端解决机制以专家组调解为中心，以争端解决机构审议、批准专家组建议或裁定为常规，以在特殊情况下争端解决机构授权和监控的贸易报复为强制实施的最后手段，日益取得了发展中国家的信赖。这表明争端解决机制（　　）
A. 推崇贸易报复，不具建设性
B. 宗旨是维护发展中国家利益
C. 重程序建设，忽视法律功能
D. 有助于国际经济秩序有序发展

16. 世界贸易组织被称为“经济联合国”，主要是因为它的（　　）
A. 公平性　　B. 开放性
C. 广泛性　　D. 非歧视性

17. 20 世纪 90 年代后，跨国公司大制造商“以世界为工厂，以国家为车间”。导致此现象形成的主要原因是（　　）
A. 各国贸易保护主义重新盛行
B. 世界各区域经济集团的形成
C. 西方新殖民主义扩张的结果
D. 经济全球化加速了国际分工

18. 下图是某位同学学习过程中设计的思维导图。最适合在“②”处填入的内容是（　　）

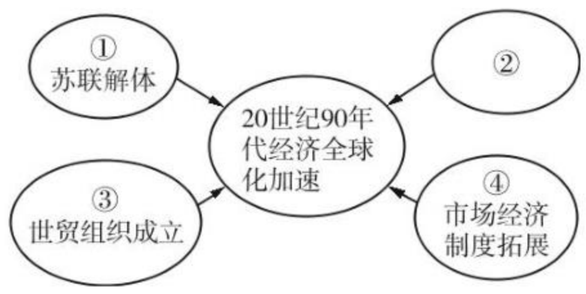

A. 信息技术迅猛发展
B. 垄断组织的出现
C. 关贸总协定的签署
D. 欧共体的成立

19. 《今日美国报》披露：当前，美国平均关税尽管只有 3%，但对浓缩橙汁征收的关税为 30%，玻璃制品和瓷器为 38%。美国有 300 多种反倾销税，还有配额、补贴、法律阻碍等手段以保护本国相关产业不受冲击。这反映出（　　）
A. 经济全球化加剧国家间利益的争夺
B. 美国一贯坚持关税保护主义政策
C. 美国竭力主张国际贸易自由化
D. 美国的做法实质是反对经济全球化

20. 一学者这样写道：“(经济全球化时代)穷国……必须养成一种持怀疑态度的信仰，避免教条，善于听和善于观察，努力明确目的并使之逐渐完善，选择更好的手段以促其实现。”该学者认为“穷国”面对全球化应该持有的态度是（　　）
A. 排斥、抵制　　B. 怀疑、选择
C. 顺应、理性　　D. 独立、自强

21. **(2019·北京卷)** 日本自 1963 年起成为世界上最大的钢铁出口国。同年，美国指责日本对美进行钢铁倾销，日本遂减少对美出口。1968 年美国迫使日本签署协定，日本再次大幅减少对美钢铁出口。这说明（　　）
A. “一超多强”的世界格局已形成
B. 世界经济一体化的进程加速
C. 日本难以摆脱美国的经济控制
D. 美国开始建立世界经济霸权

关注微信公众号“教辅资料站”获取更多学习资料

22. **(2019·江苏卷)**“在世界许多地方,普遍的商业化和通过外来影响对国家或地区文化的重塑,刺激人们寻找回归,寻求他们本身的传统和价值。”作者意在强调,在全球化进程中应重视 ( )

A. 传统文化的价值

B. 文化理念的趋同

C. 商业的文化功能

D. 外来文化的影响

23. **(2018·广西钦州一中期中)**第二次世界大战后,为了稳定经济,在多国协调下新的国际货币体系——布雷顿森林体系诞生。在这一体系下,美元与黄金挂钩,其他国家货币与美元挂钩等。上个世纪70年代,布雷顿森林体系崩溃,国际货币体系演变为被学术界称为牙买加体系的现行货币体系:汇率制度多元化;储备货币多元化;黄金非货币化等。70年代出现这一变化的主要原因是 ( )

A. 美国经济霸权急剧衰落

B. 资本主义世界经济多极化趋势加强

C. 美国对外贸易出现逆差

D. 世界经济体系化、制度化趋势加强

24. 右面漫画出自杰里·本特利等著的《新全球史》,反映了有关经济全球化的内容。其寓意是 ( )



A. 科技发展推动全球化

B. 全球化存在一定风险

C. 全球化造成贫富分化

D. 因势利导参与全球化

二、非选择题(本题共3小题,25题20分,26题16分,27题16分,共52分)

25. (20分)阅读材料,完成下列要求。

材料一:美国经济学家克鲁格曼认为:全世界都在努力生产美元能够购买的商品,而美国则负责生产美元……以印刷品的价格换取石油。

——摘自《证券时报》(2010年10月11日)

材料二:近期,国际汇率市场风云变幻。美欧货币当局释放出继续扩大流动性信号,日本央行推出零利率政策,韩国、巴西、泰国和新加坡等国均酝酿或采取市场操作影响本币汇率,一些发达国家指责中国等新兴经济体低估本币汇率……人们担心“货币战争”的潘多拉盒子可能就此开启。

——摘自中国网(2010年10月11日)

材料三:新西兰《中文先驱报》9日刊出评论说,美国推出新一轮的定量宽松货币政策,想当然地开动印钞机,“放水”6 000亿(下图),但这不是解决经济衰退的办法,其直接的结果就是让美元继续贬值。可以预见的是,随着美元的贬值,信任危机的来临,砸下6 000亿,无疑是美元在自掘坟墓。



——摘自中新网(2010年11月9日)

材料四:G20峰会召开在即,国外媒体热炒“货币战争(Currency War)”,目的是将全球经济不平衡的责任归咎于中国,从而发达国家在各项国际政治、经济问题的讨价还价中占得舆论的先机。作为刚刚进入国际货币问题“漩涡中心”的中国,必须小心应对,切不可盲目跟风。

——摘自凤凰网(2010年11月12日)

(1)结合所学知识,材料一反映的现象的历史渊源是什么?其主要内容有哪些?(7分)

(2)据材料二,你怎样理解“货币战争”,请用一句话概括说明。(3分)

(3)据材料三,结合所学知识,试从美国和国际两方面分析美国新一轮货币政策的影响。(4分)

(4)据材料四,结合所学知识,面对“货币战争”,中国政府应当如何应对?(6分)

关注微信公众号“教辅资料站”获取更多学习资料

26.(16分)阅读材料,完成下列要求。

材料一:谋求欧洲统一有相当远的历史渊源。然而在千余年的发展中,欧洲的政治家和统治者们虽不惜使用最强大的武力,却都失败了。经过两次世界大战的剧烈厮杀后,昔日称雄于世界的欧洲列强均已降为二等国、三等国,它们面对的是一个虚弱不堪、支离破碎的欧洲。在东方,来自苏联和东欧盟国的威胁日益严重;在西方,来自美国的经济渗透和政治控制不断加强。欧洲政治家们清醒地认识到,如此下去,欧洲将不再是欧洲人的欧洲。

——《世界史》

材料二:1950年,法国提出《舒曼计划》。

1951年,法、德、荷、比、卢、意签订《巴黎和约》,成立欧洲煤钢共同体。

1957年,法、德、荷、比、卢、意签订《罗马条约》,成立欧洲经济共同体和欧洲原子能共同体。

1993年,欧洲联盟宣告成立。

1999年,欧元问世。

材料三:结束了在阿尔卑斯山的度假之后,英国首相特雷莎·梅回到白金汉宫之后向其内阁解释了英国脱欧的原委,并称本次脱欧是一个彻底的英国行为。

材料四:巴西众议院要求政府退出为建立美洲自由贸易区而进行的谈判,理由是美国采取了保护主义措施。委内瑞拉也要求考虑自由贸易区计划给拉美各国经济发展带来的风险和冲击。

(1)据材料一与所学知识,指出20世纪50年代推动欧洲统一的因素。据材料二,概括指出欧洲统一进程呈现出的特点。(8分)

(2)据材料二、三与所学知识,指出欧洲统一过程中的不利因素。(4分)

(3)根据材料四与所学知识,指出发展中国家加入区域经济集团要注意哪些问题。(4分)

27.(16分)阅读材料,完成下列要求。

材料一:"太平洋两岸繁荣的共同体概念"已成为近年来"信任的纽带"。这是一个新的时代,在前所未有的经济发展推动下,太平洋地区已取代大西洋地区,成为地缘政治的轴心,国际关系将围绕这个轴心构建。

——智利《第三版时报》(2004年)

材料二:美国比以往更注重自己在这一地区(亚太地区)的作用,这一地区的成功对整个世界而言至关重要,我相信,21世纪是太平洋世纪。

——美国总统布什(2002年)

材料三:APEC的成员组成及加入年代

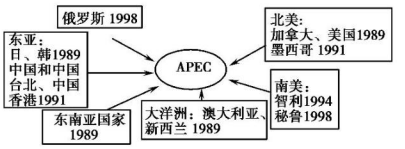

(1)亚太经合组织(APEC)的建立与"太平洋世界"的到来有什么联系?(8分)

(2)太平洋两岸各国和地区在社会制度、经济发展水平、文化方面存在很大差异,但都陆续地加入了亚太经合组织并发挥了各自积极的作用,其原因是什么?(8分)

关注微信公众号"教辅资料站"获取更多学习资料

班级 姓名 考场号 准考证号
密 封 线
历史 必修2 YL

班级_____ 姓名_____ 考场号_____ 准考证号_____

密 封 线

本册综合测评

时间：90 分钟　满分：100 分

一、选择题（本大题共 24 小题，每小题 2 分，共 48 分）

1. **（2018·黑龙江双鸭山一中高一期中）**下表是中国古代农民称谓变化表。这一变化反映了（　　）

朝代	夏商周	秦汉	魏晋	宋元
称谓	臣、人、众、野人	夫、仆	田客、部曲	佃客、庄客、农户

A. 自给自足的小农经济的形成与强化
B. 农民对地主和国家的依附关系的松弛
C. 士大夫阶层不断丧失对土地的占有权
D. 自耕农阶级在曲折中渐趋发展壮大

2. **（2019·江苏卷）**宋时，太平州当涂县黄池镇“商贾所聚，市井贸易，稍稍繁盛。州县官凡有需索，皆取办于一镇之内”。据此可知（　　）
A. 商税成为政府收入主要来源
B. 城市商业活动打破时空限制
C. 政府积极扶持市镇经济发展
D. 宋代市镇经济已经相当发达

3. **（2018·江西赣州十四县高一联考）**下图是“湖州等地农业、手工业分工演化图谱”。据此图可知宋代（　　）

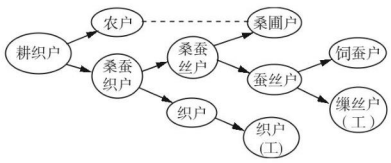

A. 手工业生产的专业化倾向
B. 自然经济开始解体
C. 农产品商品化的程度提高
D. 经济重心南移完成

4. **（2019·天津卷）**明朝嘉靖年间，山西武城县县令鉴于该县“集日寡而旷多”，每逢集日，便组织“歌舞剧戏之徒，各呈其技于要街”，结果“众且观且市，远近毕至，喧声沸腾……粟米丝麻布帛，禽而鸡鹜，兽而牛羊，食而鱼肉果蓏，与夫南北水陆之产，可以供民生所需者，错然填街溢巷”。从史料可知，当时武城县（　　）
A. 农村集市贸易从无到有
B. 文化与商业结合活跃经济
C. 居民日常文化活动丰富
D. 乡村城镇化发展比较迅速

5. **（2018·江苏卷）**明清时期，江南“桑蚕之利，厚于稼穑，公私赖焉”。在太湖流域，地主催收田租常不在秋收之后，却在农户蚕丝收获之际，俗称“蚕罢米”。这说明，当时江南地区（　　）
A. 小农经济已经开始瓦解
B. 农耕技术呈现衰退趋势
C. 农户收入多赖家庭副业
D. 地主剥削程度有所减轻

6. 水手成了最令人羡慕和尊敬的职业；罗马教廷建立了“东方事务部”“传教问题部”等海外传教机构；信贷机构、殖民贸易公司、交易所等商业金融机构纷纷建立。对以上现象出现的背景概括最为准确的是（　　）
A. 新航路开辟带来的影响
B. 工业革命引发的连锁反应
C. 世界市场的基本形成
D. 殖民扩张的方式有所变化

7. **（2018·天津卷）**1830 年，剑桥大学数学教授查尔斯·巴比奇出版《论英国科学的衰退》一书，分析了欧洲各国的科学状况，指出英国的业余科研传统正在使英国丧失曾经拥有的优势。他呼吁英国人必须将科学作为一项事业来加以关注，科学家应受到良好的培养和教育，并成为一种职业。这反映出（　　）
A. 欧洲其他国家科学水平超越英国
B. 英国丧失原有优势地位
C. 英国科学家普遍缺乏培养和教育
D. 工业革命的不断扩展

8. **（2018·湖南十四校高三联考）**在欧洲，19 世纪后半叶至 20 世纪初，有着成千上万雇佣工人的现代工厂迅速取代家庭或小型的作坊，产业工人阶级作为人数最多的社会阶层进入现代社会。下列情况不可能出现的是（　　）
A. 导致欧洲初步踏入工业社会
B. 价格低廉的餐馆在城市越来越多
C. 政府经常为工人的游行示威问题烦恼
D. 产生了某些“巨无霸”的企业

9. **（2018·黑龙江试验中学高一期中）**1882 年，德国的人口普查中，还没有电力工业工人一栏，可是，到了 1895 年，电力工人就有 25 000 人，到 1906～1907 年则达到 107 000 人。这表明（　　）
A. 科技发明逐步产业化
B. 工业革命促进人口迅速增长
C. 垄断资本主义发展迅速
D. 第三产业迅速崛起

关注微信公众号“教辅资料站”获取更多学习资料

10. **(2019·北京卷)**为下表选取表名，最恰当的是(　　)

名称	相关信息
开滦唐山煤矿	1878 年建，中国近代煤炭工业
北洋水师大沽船坞	1880 年建，北方最早的船舶修造厂
北洋银元局	1902 年建，位于天津，造币中心
京师自来水公司	1908 年建，北京第一座官营自来水厂

A. 京津冀地区晚清民族企业简表
B. 北京近代民族企业简表
C. 洋务运动时期北方企业简表
D. 近代民族资本主义企业简表

11. 从 1888 年至 1911 年，除了 1899 年一年外，中国原棉的出口大于进口。与棉花出口增加一起出现的情况是原棉价格的稳步上涨，同时又从印度和日本运进了价格较低的机制纱。这一现象(　　)
A. 扭转了中国贸易的入超局面
B. 加剧了自然经济的解体
C. 增加了政府的财政收入
D. 加强了工业国产品竞争优势

12. 中国近代民族工业发展曾出现三次高潮：19 世纪六七十年代，中国资本主义工业兴起；19 世纪末 20 世纪初，民族工业获得初步发展；一战期间，民族工业出现了短暂的春天。这“三次高潮”都得益于(　　)
A. 清政府放宽民间办厂限制
B. 欧洲列强忙于“一战”
C. 近代民族资产阶级地位提高
D. 商品经济发展和自然经济的解体

13. 据学者统计，20 世纪二三十年代，婚俗在教育发达地区已改变很大，如集体婚礼、西式婚礼等，但即便在大城市，丧葬旧俗依然盛行，如丧事披麻戴孝，期内不洗脸、不洗衣服等，南北各地均如此。究其原因主要是(　　)
A. 传统忠孝礼节观念根深蒂固
B. 年轻人与年长者观念不一
C. 资本主义经济不够发达
D. 西方教育影响的地域差异

14. 1909 年上海环球社印行的《图画日报》，下图《妇女亦乘脚踏车之敏捷》是一则该报印行的上海妇女着旗袍骑自行车郊游的图文报道。据此可以直接看出近代中国的进步体现在(　　)



①信息传媒　②妇女服饰　③交通手段　④政治生活
A. ①②④　　B. ①③④
C. ①②③　　D. ②③④

15. **(2019·全国卷Ⅲ)**20 世纪 30 年代中期，《新中华》载文，“现在你随便拉住一个稍稍留心中国经济问题的人，问他中国经济性质如何，他就毫不犹豫地答复你：中国经济是半殖民地性半封建性经济。”这可以用来说明当时(　　)
A. 知识界对中国社会性质的认识相同
B. 官僚资本主义在中国迅速膨胀
C. 经济理论问题引起民众的普遍关注
D. 马克思主义思想方法得到传播

16. 有学者评论说：“20 世纪中叶，俄罗斯的农村成了国家农奴制农村，而且国家从农民那里夺去了除空气以外的所有东西。”导致这些现象产生的主要原因是(　　)
A. 农奴制改革的不彻底
B. 斯大林时期推行农业集体化运动
C. 赫鲁晓夫在农业方面的改革
D. 勃列日涅夫改革只注重发展重工业

17. **(2018·全国卷Ⅱ)**图为 1956 年的一幅漫画《两把尺》(画中字：“奶奶的尺——量布做新衣，阿姨的尺——测量祖国，建设社会主义。”)该漫画反映了(　　)



A. 社会主义建设以工业化为中心
B. 女性成为国家建设的重要力量
C. 人民公社化运动蓬勃开展
D. 城乡差别发生根本性改变

18. 到 1957 年，我国国有制企业每一职工占有的全部资金由 2 878 元上升到 4 416 元，工业总产值占工农业总产值的比重由 1952 年的 43.1% 上升到 56.7%，农业总产值由 56.9% 下降到 43.3%，重工业在整个工业中的比重由 35.5% 上升到 45%。这表明(　　)
A. 所有制结构发生了根本性变化
B. 国家的产业结构发生了重大变化
C. 国家实现了向社会主义的过渡
D. 中国经济建设照搬了斯大林体制

19. 泉州“源和堂”原是晋江庄杰茂、庄杰赶兄弟于 1915 年着手创办的，厂址初设于青阳镇。1954 年公私合营，并于翌年迁址泉州市区，企业性质由合

关注微信公众号“教辅资料站”获取更多学习资料

营变为国营。1992 年泉州市国营企业与外商合资，该厂更名为“泉州中侨（集团）股份有限公司源和堂公司”。结合所学知识判断，泉州“源和堂”（　　）

A. 是泉州地区最早的民族资本主义企业
B. 其创办顺应了“实业救国”的潮流
C. 通过社会主义改造确立了现代企业制度
D. 最终恢复了原来的资本主义工商业身份

20. 新中国成立后，为了开辟一条与世界交往的通道，换取外汇，购买我国大规模经济建设急需的进口物资，中国政府决定创办广交会。1957 年 4 月，首届中国出口商品交易会在广州中苏友好大厦成功举办。第一届广交会（　　）

A. 利用了毗邻香港的地理优势
B. 标志着工业化建设起步
C. 奠定了全方位对外开放格局
D. 打破了我国的外交僵局

21. **（2019 · 全国卷Ⅱ）**1979～1981 年，中国减少粮食播种面积 5 000 万亩，有计划地扩大了经济作物的种植面积，在有条件的地方还开始逐步退耕还林还牧，鼓励农村在经济合理原则下举办社队企业。这些政策（　　）

A. 推动了农村经济结构的调整
B. 加快了私营企业发展
C. 完善了家庭联产承包责任制
D. 健全了市场经济体制

22. 早在 20 世纪 60 年代，美国利用特权制造货币泡沫以掠夺其他国家和民族的财富和资源，这遭到许多学者和政治家的严厉谴责。法国总统戴高乐于 1965 年批判道：“美国享受着美元所创造的超级特权和不流眼泪的赤字。他用一钱不值的废纸去掠夺其他国家和民族的资源和工厂。”材料中“美元所创造的超级特权”表现为（　　）

A. 便利了美国进行大规模的商品输出
B. 操纵了世界各国货币发行权
C. 美元取得等同黄金的特殊地位
D. 操纵了国际贸易的发展

23. 欧洲联盟与欧洲共同体的主要区别是，欧洲联盟在国际协调、合作机制化方面达到较高水平，超出一般“政府间”合作范畴，实现了“超国家”管辖。以下对这一论点的解读，最准确的是（　　）

A. 欧盟已经实现了“超国家”的全员管辖
B. 欧盟大大超出欧共体的合作水平和范畴
C. 两极格局和美苏争霸加快欧洲合作进程
D. 经济区域集团化和欧洲一体化趋势不断加强

24. 中国加入世界贸易组织的原因，一言以蔽之是“世界需要中国，中国需要世界”。其中“中国需要世界”体现在（　　）

A. 中国经济实力和综合国力不断增加，地位举足轻重
B. 可以直接参与 21 世纪国际贸易规则的决策过程，摆脱被动接受规则的不利状况
C. 发展中的中国有着广阔的市场和无限的商机
D. 中国与世界经济联系日益加强，对外依赖程度日益加深

二、非选择题（本题共 3 小题，25 题 16 分，26 题 20 分，27 题 16 分，共 52 分）

25.（16 分）**（2018 · 江西赣州市高一联考）**我国工商业发展在不同时期受到了不同的重视态度。阅读材料，完成下列要求。

材料一：商籍农而立，农赖商而行，求以相辅，而非求以相病，则良法美意，何尝一日不行于天下哉……官民农商，各安其所而乐其生，夫是以为至治之极。

——[宋]陈亮《四弊》

材料二：明万历年间徽州人汪道昆的《太函集》中说：“吾乡左（轻视）儒右（崇尚）贾，喜厚利而薄名高，纤啬之夫，挟一缗而起巨万……要之，良贾何负于闳儒！”

——选自《中国全史 · 商贾史》

材料三：古今国势，必先富而后能强，犹必富在民生，而国本乃可益固。溯自各国通商以来，进口洋货日增月盛……出口土货，年减一年，往往不能相敌。推其缘故，由于各国制造均用机器，较中国土货成于人工者，省费数倍。售价既廉，行销愈广，自非逐渐设法仿造，自为运销，不足以分其利权。……臣拟选派绅商，在上海购买机器，设局仿造布匹，冀稍分洋商之利

——李鸿章《试办织布局折》

材料四：阿里巴巴集团主要创始人认为：“如果你想做企业家，想把企业做大，那就该去解决社会问题。”“事实上我觉得每一次的成功，都要感谢这个时代，感谢中国经济的发展”。阿里巴巴的发展吻合了新商业文明的特征……2010 年 3 月，淘宝网对外宣布，向全球开放淘宝数据，让合作伙伴和消费者与之共享其海量原始数据。

——习美、李绍钻编著《马云教你创业赚大钱》

（1）材料一反映的主要经济观点是什么？依据材料二，指出明清时期人们在思想观念上发生了怎样的变化。（4 分）

（2）结合材料三，谈谈鸦片战争后中国在对外贸易方面面临着什么问题。李鸿章认为应该如何解决这一问题？（6 分）

（3）据材料四，概括“新商业文明”的特征。结合所学分析导致这一特征的经济因素。（6 分）

关注微信公众号“教辅资料站”获取更多学习资料

26.（20分）**（2019·天津卷）**阅读材料，回答问题。

材料一：目前，我国实行经济开放政策，争取利用国际上的资金和先进技术，来帮助我们发展经济。这一政策已开始有些效果。但是，从发达国家取得资金和先进技术不是容易的事情……必须在自力更生的基础上争取外援，主要依靠自己的艰苦奋斗。

——邓小平《我国经济建设的历史经验》（1982年）

材料二：1992年后，天津滨海新区“三资”企业发展迅速。2003年，已有几十家世界五百强企业在此投资，“三资”企业工业总产值完成1 037亿元。1993年到2003年，滨海新区外贸出口由5.03亿美元增长到89.38亿美元，电子信息、生物医药、新材料、新能源、环保等高新技术产业群已初具规模。2006年，滨海新区正式纳入国家整体发展战略。2009年，根据国务院的批复，天津滨海新区行政区成立。

——据国家发改委《天津滨海新区重点产业选择和布局研究》

材料三：2012～2016年中国对外直接投资净额

（单位：亿美元）

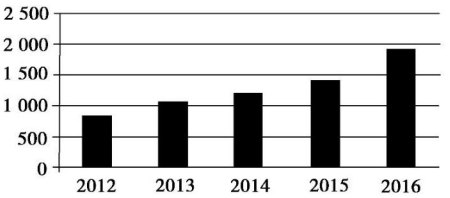

（数据来源：“中国一带一路网”）

我们要坚定不移发展开放型世界经济，在开放中分享机会和利益、实现互利共赢……我们要下大气力发展全球互联互通，让世界各国实现联动增长，走向共同繁荣。我们要坚定不移发展全球自由贸易和投资，在开放中推动贸易和投资自由化便利化，旗帜鲜明反对保护主义。

——国家主席习近平《共担时代责任，共促全球发展》（2017年）

（1）依据材料一，概括邓小平的对外开放思想。结合中国社会主义经济建设的历程，指出邓小平主张对外开放的原因。（6分）

（2）依据材料二，结合所学知识，简述20世纪80年代以来天津对外开放的历史机遇和90年代以来滨海新区经济发展的新变化。（8分）

（3）中国对外开放经历了探索与发展的历程，结合材料一、二、三及所学知识，简述对这一历程的认识。（要求：史论结合，逻辑清晰，结论正确。）（6分）

27.（16分）**（2018·全国卷Ⅲ）**阅读材料，完成下列要求。

材料一：19世纪40年代初，上海开始“依港兴市”，租界中“华洋杂居”；60年代后，上海由一个古老的县城逐渐发展成港口与商业中心；19世纪下半叶形成了沪东、沪西、沪南等工业区。甲午战争后，民族资本参与上海发展，形成新的商业区。1929年，由市政府主导，建成以江湾五角场为中心的“大上海市中心区”。1949年后，上海一直是国家重要的经济中心。十一届三中全会以后，上海作为国际化大都市，世界影响力日益增强。

——摘编自张仲礼编《近代上海城市研究》等

材料二：16世纪开始，曼彻斯特从军事要塞逐渐发展成为工商业城市。1830年已有棉纺厂99家，并开通世界最早的现代化铁路。1838年，设立议会和市政府，摆脱了封建管理体制。19世纪下半期，从传统的棉纺业衍生出许多新门类，开通了通海运河，可通往世界各地。20世纪初，不断与周围工业社区及城镇连接，发展为大城市。1961～1981年，因过于拥挤，人口大量外迁，老龄化日益严重，纺织业日趋衰落。20世纪后期，城市中心被废弃的工业区包围，几个大面积的旧贫民区仍然存在。

——摘编自[英]克拉潘《现代英国经济史》等

（1）根据材料并结合所学知识，概述上海和曼彻斯特发展成为近代大都市的相同因素。（4分）

（2）根据材料并结合所学知识，说明20世纪中期以后上海相对于曼彻斯特的有利发展条件。（8分）

（3）根据材料并结合所学知识，以曼彻斯特为例，简析现代城市发展中应当注意的问题。（4分）

班级＿＿＿＿ 姓名＿＿＿＿ 考场号＿＿＿＿ 准考证号＿＿＿＿
密 封 线
历史 必修2 YL

关注微信公众号“教辅资料站”获取更多学习资料

骄子之路®
the Road to Pride
让 学习更快乐，人生更精彩

答案与解析

与45分钟课时作业与单元测试配套使用

历史

必修2·YL

班级：_____

姓名：_____

关注微信公众号“教辅资料站”获取更多学习资料

第一部分　课时作业

第一单元　中国古代的农耕经济

第1课　精耕细作农业生产模式的形成

课前预习·抓双基

自主预习

一、1.种植经济
2.黄河流域　长江流域
3.粟　水田稻作
4.种植业　五谷
二、1.(1)耒　耜　春秋战国　(2)牛耕　唐
2.翻车　筒车
三、1.(1)芍陂　都江堰　白渠　(2)坎儿井
四、1.简单协作
2.自耕农　(1)家庭　家庭手工业　男耕女织　(2)自给自足　交换经济　赋税徭役

正误判断

1.×　2.×　3.√　4.×　5.√

课堂达标·点对点

对点训练

1.A　相传神农是远古时代农业的发明者，“乃始教民播百谷”，故A项正确；神农“尝百草之滋味”，但无法据此推测他最早发现百谷，故B项错误；垄作法最早出现在春秋战国时期，原始农业不可能使用垄作法，故C项错误；“百草”泛指农作物，故D项错误。

2.C　我国是世界上最早培植水稻的国家之一，C项正确；玉米、马铃薯和番茄都原产于美洲，A、B、D三项错误。

3.B　“耕用牛犁，使用铁器”指的是铁犁牛耕，它出现在春秋战国时期，B项正确。

4.D　从材料中“进之则箭下，入土也深；退之则箭上，入土也浅”“江东之田器”可知，这指的是唐朝江南地区的曲辕犁，D项正确。

5.B　翻车是一种脚踏或手摇的灌溉工具，从材料中的“脚痛腰酸晓夜忙，田头车响浪浪”来看，这首词描写的灌溉工具是翻车，故答案为B项；耧车是播种工具，不是灌溉工具，排除A项；筒车是以水流作动力、风力水车是以风力为动力取水灌田的工具，均与材料信息不符，材料反映的是以人力为动力，排除C、D两项。

6.A　根据题目中“于是沃野千里，……旱则引水浸润，雨则杜塞水门”可知，该水利工程为都江堰，使成都平原成为千里沃野，所以“华阳国”位于今天的四川，A项正确；B、C、D三项不符合题意。

7.B　坎儿井起源于西汉时期，B项错误，符合题意，故选B项。

8.C　材料反映的是战国时期，以家庭为单位的小农经济产生，农民能耕种更多的土地，其根本原因是生产力的发展，具体表现为铁犁牛耕的推广，C项正确。

9.C　从材料中“养牛为种田，养猪为过年，养鸡为换油盐针线”可知，家畜饲养主要是满足家庭生产生活，是自给自足的体现，C项正确。

综合训练

10.(1)自给自足的自然经济；铁犁牛耕；精耕细作；受制于自然环境，具有脆弱性。
(2)政府赋税沉重；贫富分化严重；贫苦农民陷入绝境；富人生活奢靡；贫苦农民逃到山区生活。
(3)自耕农是封建国家长治久安的基础，是赋税和徭役的保证；自耕农具有较强的生产积极性，有利于社会生产的发展。

课后提能·再巩固

1.B　“满天星斗”也就是说“多元一体”即多个源头，只有B项能体现出农业的多个源头，B项正确；其他三项都不能反映出农业的多个源头，排除。

2.D　题目中春秋时期齐国尽管出现铁农具，但长江流域出土农具为青铜制造、中原地区还普遍存在着石、骨、蚌器等，可知当时铁制农具并没有普遍使用，D项正确；中原地区(如齐国)已使用铁农具，但是长江流域的农具仍为青铜制造，A项不符合史实；当时中国经济重心在黄河流域，不是关中平原，排除B项；C项中“中原地区的战乱”在题目中没有体现，排除。

3.B　导致黄河流域生态遭到破坏的根本原因是生产力的发展，农耕经济的进步，而生产力发展的体现是生产工具的改进，B项正确；其他三项都不是根本原因，排除。

4.A　本题考查的主要知识点是小农经济的特点。从材料中的“农业经济社会交易物品，必在秋收冬藏之际。农忙既毕，女家始肯令之适人”可知，小农经济限定了人们生活规律，A项正确；材料说的是“婚礼大多在秋冬之交”，B项太绝对，错误；C、D两项不符合史实，排除。

5.C　从材料中的“蜀守冰凿离碓”“穿二江成都之中”可知，这一水利工程是都江堰，C项正确。

6.C　民谣一定程度上反映了社会民众主流思想或思想意识，题目中的民谣内容反映出人们不希望生产、生活组织规模过大，即规模较小的男耕女织式的小农经济是其理想中的生存状态，C项正确；A项中“手工业”、B项中“商品化”、D项中“土地兼并”在题目中没有涉及，排除。

7.C　本题主要考查学生对中国古代农业的认识。中国古代农业以铁犁牛耕为主要耕作方式，讲究精耕细作，自给自足，形成独立发展的自然经济模式的生产体系，①②③④都符合中国古代农业的基本特点，C项正确。

8.D　根据题干“冬至后五旬七日昌生”及“和土，务粪泽，早锄早获”体现了古代农业既注重农业时令，又注重耕作技术，体现了传统农业精耕细作的特点，故D项正确；注重农业时令、对自然规律的尊重以及重视历法指导是《吕氏春秋》中所介绍的，未涉及《氾胜之书》中的材料，概括不全面，故A、B、C三项错误。

9.C　西汉政府对灾民实施救济是为了保护小农经济，其根本原因在于小农经济是支撑封建王朝统治的经济基础，C项正确；A、B、D三项都是表象和表层原因。

10.A　材料反映了中国古代在单位面积的土地上投入更多的劳力来进行生产，以期提高最大产量，来满足人多地少的需要，A项正确。

11.D　“农夫行饷田，闺妾起缝素”反映了以家庭为生产单位，男耕女织，农业和手工业相结合，自给自足，A、B、C三项正确，不符合题意；小农经济下，农民生活困苦，D项错误，符合题意。

12.D　由材料可知，农妇每天纺棉织布，可以到市场上卖出换钱，可以供给家庭用度，或者交税给政府。小农经济是男耕女织的自给自足的经济形式，但是在满足家庭自身需求之后，可以在市场上出售，对外有交流，这说明小农经济并非完全封闭。故本题答案为D。重农抑商政策是中国古代封建社会基本的经济政策，排除A；材料没有体现农业是财政收入的主要来源，排除B；小农经济是男耕女织自给自足的经济形式，并不具有近代化的曙光，排除C。

13.(1)范围：妇女、农民和行人日常生产和生活中的必备用品。说明：战国时期铁器普遍使用，铁制农具已在农业生产中居主导地位。
(2)进步：对牛的控制，反映了当时牛耕的出现和推广。作用：利用畜力可以节省人力、提高耕作效率，有利于农业生产力的发展，是农业动力的一次巨大进步。
(3)根据农时，适时耕作；沤制肥料；麦麻轮作。

14.(1)战国：修筑都江堰，使成都平原成为“天府之国”。
西汉：修建了漕渠、白渠，推动了农业生产的快速发展。
(2)曹魏：改制翻车。唐朝：创制筒车。
(3)①唐初，北方中原地区经过连年战乱，生产破坏、人口减少、交通堵塞，不利于统治。②水利是农业的命脉。水利工程的兴修，有利于农业生产的恢复和发展。③水利工程的兴修有利于治理水患、疏通道路，加强封建统治。

第2课　中国古代的土地制度

课前预习·抓双基

自主预习

一、1.井田制
2.(1)国家公有　(2)贵族　份田
3.国有制
4.(1)春秋　税制改革　齐　初税亩　私有制　(2)法律
二、1.战国　井田制
2.(2)自耕农　(3)土地兼并
3.(1)北魏　(2)土地兼并　(3)自耕农　(4)买卖　租税　(5)不抑兼并　(6)商品货币
三、1.租佃
2.(1)战国　(2)自耕农
3.人身依附关系

关注微信公众号“教辅资料站”获取更多学习资料

正误判断

1.√　2.√　3.√　4.×　5.√

课堂达标·点对点

对点训练

1. A　夏、商、西周时期，实行井田制，一切土地属于国家，国王把土地层层分封，受封者世代享用，但不许买卖与转让，即“普天之下，莫非王土”，A项正确。

2. C　材料中“雨我公田，遂及我私”意为在下雨浇灌井田的同时，也下到我的私田上吧。由此可知当时已经出现了土地私有，C项正确。

3. A　春秋时期，鲁国针对私田产生，而又不向国家交税的现象，为了增加国家赋税收入而实行初税亩，A项正确。

4. A　材料反映的措施废除了井田制，承认土地买卖和土地私有制的合法性，这是生产关系的变革，因此是最重要的意义所在，A项正确。

5. B　中国封建社会中占主导地位的土地所有制是地主土地所有制，B项正确；小农土地私有制一直处于弱势，A项错误；政府土地所有制占主导只是在北魏至唐初这一阶段，C项错误；庄园制是地主土地所有制的一种形式，D项不够全面，排除。

6. C　庄园是一个自给自足程度相当高的经济、政治、文化单位，并且庄园制是地主土地所有制的一种形式。唐代均田制实行后，“庄园”一词的使用更普遍。这反映了均田制实行后，地主依旧圈占成片土地，存在土地集中现象，C项正确。

7. B　“人有田园山地，界至不可不分明”反映了宋代人们对土地所有权的重视，这是封建土地私有制发展的体现，B项正确；宋代不抑兼并，A项错误；材料没有土地买卖和租佃关系的体现，C、D两项错误。

8. C　“地主则失去了和土地的直接联系”等字眼足以证明这一现象会加速土地所有权与经营权的分离，C项正确；不拖欠地租说明政府的财政收入不会减少，选项A不符合题意，排除；明清时期地主土地所有制并未瓦解，农民也尚未摆脱封建人身依附关系，选项B、D均不符合史实，排除。

9. A　材料表明明洪武年间，对新开垦的土地不再征收赋税，这有利于农民积极垦荒，扩大播种面积，A项正确。

综合训练

10. (1)制度：奴隶社会的井田制；性质：周王所有的贵族土地所有制。
(2)变化：井田制被废除，土地私有制从法律上得以确认。影响：土地私有制的确立适应了生产力的发展要求，推动了生产的发展，但是土地兼并造成大土地私有制的发展，严重影响了国家收入。农民失去土地，生活困难，引起社会动荡不安。
(3)实行情况：均田制在北魏开始实行，隋唐时期继续实施。说明：均田制的实行是为保护自耕农经济，限制土地兼并，但是由于土地私有制的存在，均田制虽在一定程度上起到了抑制作用，但不可能从根本上遏制土地兼并。

课后提能·再巩固

1. A　从材料中的“乃经土地而井牧其田野”“九夫为井”“以任地事而令贡赋”等信息可知这是奴隶社会的井田制，它是一种土地国有制，A项正确。B项错在“皇帝”，C项错在“农民”，D项错在“自由买卖和转让”。

2. A　“田里不鬻”意为不允许土地买卖，这说明当时的土地制度是奴隶社会的土地国有制，即井田制，它存在于夏商、西周时期，A项正确。

3. C　“私自移动田界，将被处以‘赎耐’之刑”反映了商鞅变法承认土地私有，这是保护私有财产的体现，C项正确，A项错误；B项在材料中没有体现；“私自”带有不被人所知的意思，而土地兼并不是偷着干的事，D项错误。

4. D　由图片内容可知，这一块地上有6人在劳作，其中4人翻地，后面跟着两人播种，这反映了集体劳作的情形。汉代土地兼并加剧，贫富差距不断扩大，庄园经济在此基础上建立起来，因而出现了图片中的情形，故D项正确；其他选项均不符合图片情况，排除。

5. B　根据所学知识可知，封建社会由于土地兼并现象严重，从而导致“有力者无田可耕，有田者无力可耕”，而土地之所以能够被兼并，其根源为土地私有制的确立，故B项正确；A、D两项的表述均由B项所致，故与题目中的设问要求“根本原因”不符；面对土地兼并现象，封建政府曾采取措施进行抑制，故C项的表述错误。

6. A　注意材料中的关键信息“豫省连岁不登，凡有恒产之家……贫民已经失业，虽遇丰稔之年，亦无凭借”，说明明清时期土地兼并导致农民失去土地，靠租种土地为生，A项正确；土地兼并加剧易导致流民问题，不利于政府财政收入的增加和社会稳定，B、C两项排除；均田制为北魏到唐朝中期时期推行，D项与史实不符，排除。

7. B　依据所学知识可知，材料现象出现的原因是北宋政府的不抑兼并政策导致严重的土地兼并，大量无地和少地的农民只能租种地主的土地，故B项正确；土地兼并不代表经济的衰退，故A项错误；坊市制度是城市中的制度，故C项错误；D项不符合史实，排除。

8. C　据材料“通过中人验证……须把契约送至官府验证、盖印”并结合所学知识可知，这反映了宋代政府重视土地所有权的转移，重视管理土地交易，故C项正确；材料无法体现土地交易受到严格限制，只能说明政府的管理，故A项错误；材料未涉及不抑兼并的政策，故B项错误；材料也没有反映商业环境相对宽松，故D项错误。

9. B　租佃经营大量出现的原因主要是土地兼并导致农民失去土地，被迫租种地主的土地，B项正确。

10. D　从材料中的“土豪大姓”“归官庄者”“欲只理一熟。如稻田又种麦，仍只理稻，其麦佃户得收”可知，政府通过让地主收取垦荒土地上的一熟作物，让佃户收取另一熟作物的方法来提高佃农生产的积极性，D项正确。

11. C　“田中事，田主一切不问，皆佃农任之”，“交租之外，两不相问”说明佃户对土地生产使用拥有较大的自主权，农民的人身依附关系松弛，C项正确。明朝雇佣关系出现在纺织手工业部门，A项错误。租佃关系使土地所有权与经营权分离，同时一定程度上激发了佃农的生产积极性，B、D两项错误。

12. A　本题作为组合选择题，可采用排除法。在封建社会前期，农民是当时先进生产力的代表，不是落后阶级，④错误，排除含④的选项即可。

13. (1)明太祖统治时期，农业生产发展，耕地面积增加，人口增长，政府的财政收入增加。
(2)调查全国土地，清查地主隐瞒的土地；奖励垦荒；军队屯田。
(3)作用：朱元璋的上述措施促进了生产的发展，稳定了社会秩序，增加了政府财政收入。弊端：朱元璋不可能从根本上解决在土地私有制不断发展条件下土地兼并等社会问题。

14. (1)变化：由国有小农转变为自由佃农。
原因：生产规模化，生产资料迅速集中；商品经济发展，土地买卖频繁；国家政策变化，均田制崩溃，宋初不抑兼并等。
(2)作用：一定程度上明确土地所有权，保护农民利益，抑制土地兼并；赋役征收具备确实根据，保证政府的税收。
(3)趋势：农民对国家的人身依附关系逐渐松弛；农村经济结构开始发生变化。
影响：农民生产的自主性和积极性逐渐增强，推动了经济的继续发展；农民与市场的联系日益紧密。

第3课　区域经济和重心的南移

课前预习·抓双基

自主预习

一、1. 山东　江南
2. (1)重心　(3)畜牧区
3. 多样性

二、1. 两晋
2. 唐朝
3. 两宋

三、1. (1)生产工具　(2)稳定
2. (1)稻麦兼种　(3)南强于北
3. (1)文化　(2)多样性　不平衡

正误判断

1.×　2.√　3.√　4.√　5.√

课堂达标·点对点

对点训练

1. B　山东、山西是以河南崤山为界，以东为山东，以西为山西，其地理范围主要是指黄河流域，B项正确。

2. D　关中指的是函谷关以西地区，该地区在战国秦汉时期也曾历经战乱，D项错误，符合题意，故选D。

3. B　西晋王朝爆发八王之乱，导致社会经济凋敝，出现中国历史上第一次人口南迁的高潮，B项正确。

4. B　题中的意思是说北人为逃避“胡”带来的战乱到南方去。家乡的方言还很熟练。材料反映了北人南迁的原因和民族融合的状况，故选B。

关注微信公众号“教辅资料站”获取更多学习资料

5. D　本题考查学生提取有效历史信息的能力。材料反映了由于北人南迁带来了南方风俗习惯的变化，说明了北人南迁促进了南北文化的融合，①③在材料中没有反映，故选D。

6. D　鲜卑族是北方少数民族，主要以游牧为主，蚕桑图和制陶图说明当时鲜卑族开始了纺织和制陶的手工业生产，这主要是受中原手工业的影响，体现出少数民族汉化的特点，D项正确；贵族生活奢侈材料无从体现，A项错误；画面不是佛教题材，B项错误；材料中也没有商业繁荣的信息，C项错误。

7. D　隋朝时长安、洛阳是全国的政治和经济中心，A项错误；只有扬州在户数上占全国的10.46%不能证明南方人口数量超过北方，B项错误；经济重心南移完成是在南宋时期，C项错误；从材料中扬州的郡县数和户数比重可知扬州在全国占有重要地位，D项正确。

8. A　南宋偏安江南一隅，其税收竟能达到6 000余万，这是经济重心南移的结果。

综合训练

9. (1)黄河流域经济处于重心地位。
(2)宋代南方农业迅速发展，国家赋税仰仗南方。
(3)随着南方经济发展，我国古代经济重心从北方转移到南方。

课后提能·再巩固

1. D　两汉时期全国的经济重心位于山东、山西经济区。

2. B　胡人是牧业经济，而中原地区是农业经济，生产的产品不同，表现在服饰上也就会有不同。

3. A　南宋以前，经济重心一直在北方黄河流域，故从材料中的“秦汉时代”即可排除B、C两项；郡国并存于汉初，排除D项；南方的郡面积都比北方的大得多主要是因为南方开发程度低，地广人稀，故选择A项。

4. C　唐朝的都城在长安，这一王朝的统治中心仍在关中地区；五代十国时期，政治中心比较分散；两宋的都城分别在中原和江南。可见，C项是转折时期。

5. D　从西汉到东汉，关中及北方诸州人口锐减而南方诸州人口不同程度增长的原因是北方战乱，而南方相对稳定，这也使北方经济遭到破坏，而南方经济发展，D项符合题意。

6. A　本题主要考查学生从材料中获取信息的能力。“大疾疫”“饥馑”“寇贼”反映了魏晋南北朝时期中原出现了瘟疫、灾荒和战乱，少数民族内迁和统治阶级内乱都造成了战乱，A项正确。

7. D　本题主要考查学生读图获取信息的能力。从图片信息可知黄河流域城市较多，且多分布在河流附近，而且主要城市分布在经济较发达地区，A、B、C三项正确；D项不能从材料中体现出来。

8. B　隋朝大运河以洛阳为中心，而元代大运河则取直，不再经过洛阳，这说明经济重心东移。根据所学知识可知，大运河的修建主要是为了将南方的物产运往北方，满足北方的需要，说明经济重心已经南移，B项正确。

9. A　隋唐时，江南成为粮食的重要产地；安史之乱后，我国经济重心继续南移；南宋时，经济重心最终完成了南移；材料即反映了隋唐时期经济重心南移速度加快。故选A项。

10. D　根据材料信息“故水利大兴”“昔之曰江曰湖，今皆田也”表明南方地区不断得到开发并开发完成。反映出其实质为经济重心南移完成，D项正确。

11. C　经济重心开始南移是在魏晋南北朝时期，A项错误；B项在材料中没有体现，排除；材料中朱仙镇因水运方便而兴盛，大量粮食经水路运到汴京说明宋代水运占有重要地位，C项正确；大量粮食运到汴京是为了满足京城的粮食需要，而不能体现长途贩运，且长途贩运兴盛出现在明清时期，D项错误。

12. A　结合唐朝中后期经济重心南移的历史史实来理解“立国于西北而植根于东南”可知，唐朝的政治中心在西北，经济中心在东南，这说明唐代政治中心与经济中心分离，A项正确。

13. (1)材料一：安史之乱后为逃避战乱，北民纷纷南迁；材料二：安史之乱导致中原荒凉残破，人口大量减少；材料三：元和年间与开元年间相比，南方人口数量剧增。
(2)安史之乱、藩镇割据所造成的破坏主要在北方，南方战乱较少，相对安定；北方居民的大量南迁。
(3)导致我国人口的大迁移，改变了我国人口的分布状况；给南方带来了劳动力，促进南方经济的进一步发展；对我国古代经济重心的南移产生了重要影响。

14. (1)进程：魏晋南北朝时长江流域开发进程加快，唐宋时长江流域经济持续发展，南方逐步成为古代中国的经济重心。原因：江南地区自然条件优越；政治安定；北方战乱，劳动人民南迁。
(2)问题：生态环境遭到破坏，水灾逐年增加。原因：落后的耕作方式导致植被被破坏，造成水土流失。
(3)认识：古代长江流域的开发，只注重了自然的经济价值，而忽视了自然的生态价值；这种片面的价值观，导致对大自然过度开发，最终人们遭到了大自然的惩罚。因此今后在发展经济的过程中，应重视环境保护，坚持可持续发展。

第4课　农耕时代的手工业

课前预习·抓双基

自主预习

一、1. (1)青铜　(2)商周
2. 春秋
3. (1)煤　北宋　(2)焦炭

二、1. (2)西周　(3)丝国　(4)唐
2. (1)宋末元初　(2)黄道婆　(3)明代

三、1. (2)黑陶
2. (1)南北朝　(2)唐代　(3)景德镇　(4)元

四、1. (1)农业
2. (1)西周　雇募工匠　明　(3)强制
3. (1)春秋战国　私营手工业　(2)雇佣劳动

正误判断

1. √　2. ×　3. ×　4. ×　5. √

课堂达标·点对点

对点训练

1. B　“祀”指祭祀，“戎”指战争，图片中的四羊方尊、人面纹方鼎和乐府钟都是祭祀用的礼器，三角援戈是兵器，B项正确。

2. B　西周晚期中国已有铁器，因此中国历史上冶铁技术的出现应当不晚于春秋时期，故答案为B项；商周时期青铜铸造进入繁荣时期，后母戊鼎代表了商朝的高超工艺成就，排除A项；唐朝时期官营手工业代表当时的最高水平，明代中后期，私营手工业取代官营手工业地位，排除C项；北朝已烧出成熟的白瓷，排除D项。

3. B　素纱禅衣是丝织品，其既薄又轻，反映了汉代丝织业工艺水平高超，A项错误，B项正确；汉代人们的衣料主要是丝麻织品，明代后期，棉布取代丝、麻、毛成为人们的主要衣料，C项错误；汉代素纱禅衣上的绘画不是写实风格，而带有玄幻色彩，D项错误。

4. D　中国古代的纺织材料有麻、葛和丝绸。明朝后期，棉布成为人们的主要衣料，所以选D；其他说法不符合我国古代手工业发展状况，均排除。故选D。

5. D　粉彩瓷出现于清朝康熙年间，故A项不符合题意。黑瓷主要产于浙江，故B项不符合题意。青花瓷产生于唐朝，唐朝青花瓷的产地是河南巩县窑，故C项不符合题意。唐朝昌南除产青瓷外，还与四川大邑窑一样出产白瓷，故选D项。

6. B　“一坯工力，过手七十二”体现了景德镇制瓷业分工细密，故B项正确；古代中国没有机器生产，故A项错误；与传统官办手工工厂相比发生质的变化指的是出现资本主义萌芽，但是材料未体现出雇佣关系，故C、D两项错误。

7. A　“工商食官”指官府垄断手工业和商业，故A正确；材料表明官府垄断手工业，与私(民)营手工业得到发展无关，排除B；春秋战国时期出现家庭手工业，C时间不符合题意，排除；材料“工商食官”只表明手工业和商业都被官府垄断，不能反映手工业开始成为独立的生产部门，故D错误。

8. A　从材料中的“所出布匹，日以万计。以织助耕，女红有力焉”可知家庭手工业有了较大发展，A项正确；自然经济的特点之一是男耕女织，材料并不能体现出自然经济受到冲击和重农抑商观念淡化，更不能反映雇佣关系出现，B、C、D三项错误。

9. A　从材料中的“比屋皆工织作”和“机杼之声，比户相闻”可知这是民营手工业的兴盛，A项正确；材料中并没有体现出雇佣关系的存在，当时也不可能出现大机器生产，也反映不出实行工官制度。

综合训练

10. (1)优势：国家扶持；资金充足，设备先进；经营规模大，分工细密；工匠技术水平高。
劣势：管理腐败，成本高昂；工匠劳动积极性低。

关注微信公众号“教辅资料站”获取更多学习资料

(2)特点:父子相传。根本原因:小农经济的狭隘性、封闭性;控制技术外传,以保持竞争力。

课后提能·再巩固

1. B　商周时期的青铜器大多是礼器,祭祀时所采用的祭器大都是青铜器,青铜器也就成为权力的象征,如鼎,B项正确;商周时期主要的农具是耒耜,青铜器很少使用,A项错误;食具和货币与材料中的"祀,国之大节"无关,排除C、D两项。
2. B　春秋时期人们发明了冶炼生铁的技术,在高温下冶炼,杂质较少,质地硬脆,此为生铁技术。
3. B　材料中诗的意思是从事丝织业生产的织者个人衣着粗陋,而高档的丝织品主要供上层社会消费,B项正确,D项错误;中国古代的丝织业发达,A项错误;材料中没有丝织品出口的信息,C项错误。
4. C　联系所学,在明朝中期开始,民营手工业制瓷业已经超过了官营手工业,排除A项;官营手工业的产品服务于帝王皇室,产品不流向市场,技术传承带有封闭性,不利于传承,排除B项;题目中"它集高温……至今无法复制"可知集权体制下国家可以调用大量的人力、物力、财力,体现了强大的动员能力,C项正确;D项表述正确,但与题意无直接关系,排除。
5. D　从"釉呈天青色"可知这是青瓷,A、C两项错误;在制瓷业中,官窑瓷器代表了先进的生产工艺,官窑瓷器价格要远高于民窑,B项错误;北宋汝窑以青瓷著称,D项正确。
6. B　唐朝时形成南青北白两大制瓷系统,因此排除②,答案为B。
7. D　材料反映兵车、田车、乘车轮径虽稍有不同,对轮径有总的要求,即以人的下体高度为标准,正好适宜人们上下车,体现出车的生产标准化并兼顾人性化,故D项正确;A、B、C三项材料没有体现,排除。
8. B　"非岁功及无命书,敢为它器,工师及丞赀(罚)各二甲"即不是官府宫室本年度应生产产品,又没有朝廷的特别命书,而擅敢制作其他器物,工师与丞各要罚二甲。这表明当时官营作坊生产不能自主,B项正确;其他三项与材料信息不符,排除。
9. B　材料中"宣州产的宣纸""浙东产的藤纸""益州产的麻纸"类型不同,作用也不同,说明当时造纸业地区特色比较明显,故B正确;材料说明是造纸业发展,不是文化水平的提高,故A错误;材料中属于私营手工业,不是官营手工业,故C错误;材料说明的是地区特色,故D错误。
10. D　清朝废除元代的"匠户制度",使手工业者有了更大的人身自由,可以从事民营手工业生产,促进了民营手工业的发展,A项错误,D项正确;在古代重农抑商的现实中,工匠并不能得到政治上的独立地位,B项错误;C项说法太绝对。
11. D　材料反映了家庭手工业主要是为了实现自用和交纳租税,材料未体现家庭手工业超过官营手工业,D项错误,符合题意。
12. A　从"官搭民烧"和"形器走天下"可知,A项正确;B项与史实不符;材料没有反映资本主义萌芽,故C项错误;D项与题干材料信息不符。
13. (1)从材料得出中国手工业出现的时间最早可以追溯到原始社会。主要是制陶业、纺织业。
(2)手工业技术先进,制作工艺复杂,产品质量高,分工明确。
(3)特点:私营手工业、"男耕女织"式的家庭手工业、官营手工业等多种经营方式长期并存;官营手工业长期占据统治地位。管理情况:官府对手工业的制造、管理有严格的制度和规定,必须在官府作坊进行生产劳动。如材料五所说:"使雕琢、文采不敢专造于家",意思是使各种工匠不敢私自在家制造供统治者使用的产品。
14. (1)特点:元代将天下工匠集中到京师分类编入专门的户籍进行管理。户籍世袭,不能脱籍,无人身自由,子女婚嫁也由政府控制。弊端:这种管理模式极大地影响了工匠的生产积极性,并常常引起他们的反抗,导致产品质量低劣,生产效益低下。
(2)进步:明朝有班匠和坐匠,班匠定期服役,还可以以银代役对匠户的人身控制有所放松。清朝最终废除了匠户制度。影响:大大提高了工匠的生产积极性,促进了私营手工业和商品经济的发展。
(3)原因:社会生产的进步,商品经济的发展。

第5课　农耕时代的商业与城市

课前预习·抓双基

自主预习

一、1. 职业
2. 工商食官
3. 私商
4. 海上
5. 纸币
6. 货币　徽商

二、1. (1)民居　政治中心　(2)坊市经济
2. (1)广州　蕃客

三、1. 流动性大
2. (1)战国　(2)汉高祖　(3)松动
3. (2)新经济

正误判断

1. √　2. ×　3. √　4. ×　5. ×

课堂达标·点对点

对点训练

1. B　本题材料提到,春秋战国时期,商人频频交结王侯,各诸侯国君也非常重视商人阶层。结合所学知识可知,这反映了各诸侯国君重视与商人阶层关系的主要目的是成就霸业政治的需要。因此选B;古代是重农抑商,A错误;改变社会风气不符合材料主旨,C错误;D中官营商业不符合材料主旨,排除。
2. A　由"朝廷设立会子务负责发行'官会子'"可以分析出南宋会子得以流通主要是因为是朝廷设立的,具有国家信用来担保,A项正确;题干没有提及纸币使用的历史基础,排除B项;题干没有提到工商业者的态度,C项排除;题干没有体现政府的强制,D项错误。
3. B　"凡有麻雀能飞到的地方,都有山西商人"意在强调晋商的活动范围广,B项正确。
4. C　根据关键信息"也有人感慨""六街鼓歇行人绝,九衢茫茫空有月"等,分析、判断选项,可知:A项表述本身正确,但与题干材料核心意思不相符合;B项"规模过大",具有片面性;D项,材料无从体现;进一步可知,C项表述准确,符合题意。故选C。
5. C　A、B两项不能全面反映材料信息,排除;由"杭都旧俗""自隔宿及五更,沿门唱卖声,满街不绝"可知,杭州不仅是政治中心而且商业繁荣,城市职能不断完善,故C项正确;D项材料无法体现,排除。
6. A　从材料中镇、村的名称"三七市镇""二六市村"等信息可知这些城镇的兴起与农村中的集市的兴起密切相关,而农村中的集市即草市,A项正确。
7. A　"事末"主要是指从事商业会导致社会治安混乱,故A项正确;"重农"便于对百姓管理不是压制商业的主要原因,故B项错误;"事末"会阻碍粮食生产不是主要原因,故C项错误;"重农"可维系安土重迁,不是主要原因,故D项错误。
8. A　针对材料的现象西汉政府采取的措施是盐铁官营,即实行官营专卖的措施,A项符合题意,正确;材料根本就不涉及轻徭薄赋和劝课农桑,所以B、D两项不符合题意,排除;西汉政府是抑制商业,C项不符合题意,排除。故本题选A。
9. D　从题目所给的四个选项来看,C项明显不对,因为材料只谈税收问题,并未涉及土地兼并;由于材料说的是国内贸易,因此A项也可排除;比较B、D两项,显然D项更符合题意。

综合训练

10. (1)主题:明清商业诚信问题。
(2)经营现象:诚实守信,注重声誉;掺假造假,骗取钱财。
原因:明朝中后期,商品经济发展,人们追求财富,一部分人遵守传统道德,合法经营,但有的人为牟取暴利,坑蒙拐骗。
(3)背景:小农经济与市场联系日益密切,城镇经济空前繁荣。
(4)认识:商业活动要遵守诚信,奉行商业道德,取信于民;要重视产品的质量和服务;要树立顾客至上的思想,持续发展;要提高文化素质,营造良好的商业氛围。

课后提能·再巩固

1. D　由金属货币向纸币的转变,反映了商品经济的繁荣,D项正确;中国自战国时期开始一直到清朝政府都在推行重农抑商政策,A项错误;商帮是私商不可能垄断货币发行,B项错误;C项错在了"完全"。
2. C　本题是逆向式选择题,要求选择不符合唐朝民间商贸的史实。草市在唐朝时逐渐成为相对集中的地方商业中心,作用十分显著,故A项和B项均正确,但不符合题意。草市是地方乡村集市,与海外贸易基本无关,故C项不符合史实,但符合题意。题中诗句反映了唐朝草市大多集中在水运方便的地方,故D项符合史实,但不符合题意,综上所述,本题选C项。

关注微信公众号"教辅资料站"获取更多学习资料

3. C　根据题目中南宋明州港“城外千帆海舶风”“船舶往来，物货丰衍”可知是指南宋时期的海外贸易兴盛，C项正确；经济重心开始南移是在两晋时期，南宋时期经济重心转移到南方，排除A项；南宋时期政府奉行的依然是重农抑商政策，没有弱化，排除B项；区域间长途贩运发达是在明清时期，D项在题目中没有体现，排除。

4. B　商帮是以地域为中心、以血缘乡谊为纽带自发形成的商人群体，B项错误，符合题意。

5. B　从材料中的“每处坊、市皆有围墙”“此外110坊以朱雀大街为界由万年县、长安县分半统辖”“东西市共4坊中，亦有坊墙与其他居民区坊院隔开”等信息可知，这种市坊分开的布局体现了分化管理便于控制的理念，B项正确；东西市能够反映出商业的功能，但A项不能体现材料中市坊分开，便于管理的理念，A项不够全面，排除；儒家思想中没有市坊分开的政治理念，C项错误；材料中没有政治以及军事中心的价值的体现，D项错误。

6. B　从材料“宋太宗时期，东京开始出现侵街现象”“权豪大户侵街现象仍是屡禁不止”中可以看出，宋代“侵街现象”的屡屡发生及屡禁不止，也就是商业的发展冲击着市坊制度，对城市的基本管理制度提出挑战，故B项正确；“草市”“墟市”都是在乡村的，故A项排除；C项中的“欠缺和疏漏”一词错误；材料没有涉及豪强地主，D项排除。

7. C　“集”指的是在农村交通便利的地方形成的商品交易场所，在宋代应属于草市，C项正确。

8. A　神农、后稷都是农耕文明的代表，尧舜都是儒家推崇的圣人，《诗》《书》是儒家经典，材料表明儒家对农业的重视，A项正确。

9. D　材料反映了在清代江西南康县，来自闽粤的外来人口大量种植甘蔗，获利颇丰，而当地南康人却很少种植甘蔗，仍以种植粮食为主，这说明当地人仍以重农抑商思想为主，而外来人口的商品意识却较强，当地人的重农抑末思想并未改变当地商品经济发展的结果，D项错误，符合题意。

10. C　本题以古代文献中关于宋代地方官员重农行为的记载切入，考查古代重农抑商经济思想的相关内容。根据材料信息“知县张咏下令毁百姓茶树、改种桑麻，以及要求百姓自己种菜”可知，作为地方官员的知县反对百姓从事商业活动而要求其致力于农桑，这是宋代地方官员固守传统重农抑商思想的表现，故C项正确。材料反映了知县反对百姓种茶获利，但并没有说明政府对茶叶实行垄断经营，故A项错误。材料中并未提到货币使用率问题，故B项错误。材料中从事商业活动的并非商人，而是经营商品性农业生产的农民，不能说明商人社会地位的变化，故D项错误。

11. B　本题考查的主要知识点是中国古代的经济政策。材料表明管仲主张减少征收商税，而商鞅则主张加重商税，其原因在于二人的治国思想不同，B项正确；管仲改革和商鞅变法体现不出宗族利益的不同，A项错误；二者都是改革，都要改变传统，C项错误；二者的直接目的都是富国强兵，直接目的相同，D项错误。

12. C　从材料信息可知，清代中期大商人的资本比明代增加了很多，这表明清代中期商业活动的规模在不断扩大，故答案为C项。商人的地位发生根本性改变缺乏史实支撑，故A项错误。结合所学知识可知，重农抑商政策明显松弛不符合史实，故B项错误。D项错在“开始”，排除。

13. (1)商业资本活跃，出现地域性商帮。
(2)现象：反映了商品贸易的兴盛，商人群体的壮大。作用：推动明清时期商品经济的发展；增加了政府的税收；带动了工商业市镇的发展。

14. (1)正确。说明了农工商之间相互依存和相互促进的关系。
(2)政策：雍正帝提倡重农抑商政策。依据：在人多地少的情况下，更需要驱民归农，才能使民富国安；农业为人民提供粮食，是本业；工商业不能生产粮食，且与农业争夺劳动力。
(3)采取歧视商人的政策，对其生活方式进行限制。清政府广设钞关，不法官吏巧立名目，对商人课征重税。

第6课　近代前夜的发展与迟滞

课前预习·抓双基

自主预习

一、1. (2)双季稻　玉米　(3)衣食
2. 私营手工业
3. 白银　江南
4. 中国

二、2. 明中叶
3. (1)劳动力市场　(2)景德镇
4. 小农经济
5. (1)自给自足　(2)购买力　(3)海禁　(4)重本抑末

三、1. (1)西方殖民　小农　(2)限制　(3)海外市场

正误判断

1. √　2. √　3. √　4. √　5. √

课堂达标·点对点

对点训练

1. A　从材料给出的时间来看，主要是从1685～1790年，这一时期处于中国的清朝。结合所学知识可知，美洲传来的马铃薯和玉米等作物使得人口温饱问题得以满足，人口激增，因此本题选择A项；B项是中国传统的农作物，不是外来的；C项中小麦不符合要求；D项中水稻不符合要求。

2. B　从材料中的“商贾从旁郡贩棉花列肆吾土，则小民以纺织所成，或纱或布，顷晨入市，易棉花而归，仍治而纺织之，明旦复持以易”可知，农村中商品经济得到较大发展，B项正确；材料中的“民以纺织所成，或纱或布”和“仍治而纺织之”指的是家庭纺织业，不是私营手工业，A项错误；明朝仍然实行重农抑商政策，C项错误；资本主义萌芽出现的标志是雇佣关系的出现，材料中没有雇佣关系的信息，D项错误。

3. C　从材料中的“北方生产的棉花，水运卖至南方；南方织成的布，水运卖至北方”“江苏松江的织造很有名”“安徽芜湖的浆染很有名”可知，当时商品区域分工明显，这应出现在明清时期，C项正确；其他三项或时间不对，或特点不对，排除。

4. C　“近代”指的是资本主义社会，“近代的前夜”指的是封建社会中出现了资本主义萌芽，C项中出现了雇佣关系，是资本主义萌芽的体现。

5. B　从材料中的“辄募旁邑民为佣”和“一夕作，佣值二铢而赢”等信息可知万历年间出现了雇佣关系，这是资本主义萌芽的体现，B项正确。

6. C　材料“不得愈百张，以抑兼并”主要反映了对于织机限制，说明清初主张实行重农抑商的政策，C正确；生产能力不符合材料主旨，A错误；清政府是限制发展工商业，B错误；宏观调控不是清初政府的措施，D错误。

7. B　题干中“市通则寇转为商，市禁则商转为寇”的含义是开市后，寇就会与沿海居民进行正常的贸易，转变为商人，如果禁市，商人就会转变为寇。所以此题意在强调海禁政策加剧了寇患。A项对材料的理解不全面；C项完全错误，材料在表述海禁的消极作用；D项与材料意思相反。

8. D　本题为最佳选择题，A、B、C三项都有一定道理，但都是从某一角度来评价“海禁”和“闭关锁国”政策的影响，不全面；D项包含了A、B、C三项，是“海禁”和“闭关锁国”政策的最严重后果。

9. C　从材料中的“海禁政策的出台并不是单独出现的，而是与朝贡贸易一起出台的”和“很大程度上是消极地抗倭”可知，明朝“海禁”政策的出台受国际和国内形势发展的影响，C项正确。

综合训练

10. (1)现象：纺织业发达，工匠与机户之间存在着雇佣关系；工匠无生产、生活资料。本质：资本主义萌芽产生。
(2)相同点：都有资本主义生产关系的存在。不同点：早期资本家身份的变化，清朝时商人打入生产领域，成为早期资本家。
(3)不同。原因：材料三反映的是自然经济下男耕女织的生产方式，不是资本主义萌芽。影响：起了阻碍作用。
(4)作用：“重农抑商”政策有利于自然经济的稳定，不利于资本主义萌芽的发展。

课后提能·再巩固

1. C　中国自然经济解体开始于鸦片战争后，A项错误；中国从战国到清代鸦片战争前，都推行重农抑商政策，B项错误；在中国封建社会中，手工业一直作为农业经济的补充存在，D项错误；明朝中后期江南农民有目的的“迁业”，由种田到植棉、栽桑，纺纱织布反映了工商业的发展，农村经济结构在发生改变，C项正确。

2. D　“江浙百姓全赖湖广米粟”“松之为郡，售布于秋，日十万焉”“一岁所交易，不下数十百万”都体现了江浙商品经济发展，交易量大，D项正确；A、B两项在材料中没有体现；经济重心南移在宋朝完成，C项错误。

3. C　材料表明清代随着人口的不断增长，政府为解决粮食不足问题，大力鼓励垦荒和推进高产作物玉米的种植面积，这反映了传统的农业转型动力不足，C项正确；A项不够全面，排除；鸦片战争前，清政府推行闭关锁国政策，B项不符合史实，排除；材料中传统的粮食种植业没有改变，D项错误。

关注微信公众号“教辅资料站”获取更多学习资料

4. B　材料反映了孙春阳的南货铺有着较为完善的管理制度，B项正确；材料没有商铺受政府的直接监管的信息，A项错误；材料中没有注重血缘亲族关系的体现，C项错误；材料中没有关于道德规范的信息，D项错误。
5. B　材料反映的是当时存在不法之徒侵犯别人商标的现象，只能反映当时的商业活动比较发达，故选B项；A项判断的标准是雇佣关系的出现，材料中没有体现；C项中商业法律材料中体现不出；D项劳资矛盾与材料无关。
6. C　从传统的四民严格区分到明清“士商相混”反映了明清时期商业发展，商人地位提高，传统等级观念淡化，C项正确；A项错在“礼教束缚解除”；B项错在“平等观念深入人心”；D项错在“传统社会结构解体”。
7. D　材料反映了明清时期江南工商业市镇的兴起，同时在纺织业中出现了资本主义萌芽，③④正确；明清时期自然经济仍占主导地位，①②错误。
8. C　从材料中的“与500年前出游该国的马可·波罗的记叙比较，几乎没有什么区别……中国的财富就已完全达到了该国法律制度允许的发展程度”可知，亚当·斯密认为中国经济停滞的根源是封建专制制度阻碍了经济的发展，C项正确；其他三项材料中没有体现，排除。
9. B　材料表明谭纶认为福建人以海为田，靠海生存，禁海导致人民贫困，滋生盗贼，因此主张开放海禁政策，A项错误，B项正确；C、D两项材料中没有体现，排除。
10. D　从材料中《丝路山水地图》“描绘了东起嘉峪关西至天方城（今沙特麦加）的辽阔地域范围，共画出了211个地理坐标，许多丝路上的重要城市在图上都有清晰的标注”可知，陆上丝绸之路发展，这从侧面反映了明朝实行海禁，陆上贸易有所发展，A项错误，D项正确；地图应强调写实，而文人画注重写意，B项错误；材料中没有“西学东渐”的信息，排除C项。
11. B　从材料中的“请开市舶，当私贩而为公贩”，可知这是开放“海禁”“只通东西二洋，不得往日本倭国，亦禁不得以硝黄、铜、铁违禁之物夹带出海”又体现了对“海禁”开放有一定的限制，B项正确。
12. B　明清时期所谓的“开放”是政府有条件的“开放”，具有官方垄断的性质，并不是完全开放民间贸易，A项错误，B项正确；明清时期中国占统治地位的仍是自然经济，C项错误；明清时期实行的是重农抑商政策，D项错误。
13. (1)途径：科举（免役）；发展工商业。
(2)变化：崇尚奢侈；逾越传统伦理（道德沦丧）；好诉讼。
(3)促进：带动了商品经济的发展。
阻碍：士大夫受到“重农抑商”观念的束缚；致富后主要用于购地、消费；没有用于扩大再生产。
14. (1)共同点：海陆并举，以海路为主；政府设置专门机构加强管理；政府有成熟完善的税收管理程序；政府直接参与对外贸易的过程；是政府财政收入的重要来源。
(2)特点：外贸管理机构减少；政府完全垄断对外贸易；外贸政策过于严苛，弊端较多。
评价：一定程度上保障了清朝海域边境的安定；政府完全垄断海外贸易，过度与民争利，不利于国内经济的发展；不利于构建中国近代贸易体系，拉开中国与世界其他地区的经济差距；使清朝时期的中国日益封闭，加速封建制度的衰落。

第二单元　工业文明的崛起和对中国的冲击

第7课　新航路的开辟

课前预习·抓双基

自主预习

一、1. (1)商品经济
2. 王权
3. 基督教会
4. 造船
二、1. (1)迪亚士　(2)达·伽马
2. (1)哥伦布　(2)麦哲伦
三、1. (1)初步　(2)大西洋
2. 资本原始积累
4. 白银
5. 欧洲

正误判断

1. ×　2. ×　3. √　4. √　5. √

课堂达标·点对点

对点训练

1. D　依据所学可知，对财富尤其是黄金的追求是新航路开辟的主要动力之一，材料“……当这班冒险家到达一个未曾被发现的海岸时，首先调查的就是那里有没有金矿可以发现”揭示了这一点，所以应选D项；A、B、C三项都是新航路开辟的影响而不是原因。
2. D　新航路开辟前，欧洲商品经济发展，资本主义萌芽产生，人们需要进行资本原始积累，因此渴望黄金，而《马可·波罗游记》中对东方的描述刺激了欧洲人到东方的“寻金热”，D项正确。
3. C　从材料信息“上帝”“洗礼”“灵魂”等可看出，这段文字反映了新航路开辟的宗教因素，C项正确。
4. B　从材料中的“印度洋”“15世纪末”可知，这里的“海盗”指的是开辟通往印度航路的航海家达·伽马，B项正确。
5. B　哥伦布为了寻找通往印度的航线而向西航行发现了美洲，但他错误地认为，他到达的就是印度，因此有了“极大的错误导致了一次极其伟大的发现”，B项正确。
6. A　本题考查的主要知识点是新航路开辟的影响。材料意在说明哥伦布远洋航行开辟了新航路，打破了世界各地彼此孤立隔绝的状态，使世界日益联系成密不可分的整体，这具有世界性意义，A项正确；B、C、D三项都不是从全球史观的角度分析其意义的，都不全面，排除。
7. A　新航路开辟之后，随着贵金属的大量流入，西欧市场的金银持续贬值，商品价格直线上升，最终引发“价格革命”；15世纪末，新航路开辟后，英国由于其地处大西洋航路中心的有利条件，积极发展对外贸易，1588年英国海军打败西班牙无敌舰队，1600年成立的“东印度公司”垄断了中英、印英之间的贸易。1610～1640年期间，英国的外贸额增长了十倍，商业发展迅速。联系材料，此处英国麦价上涨当为“价格革命”影响的客观结果，故A项正确。就国际市场而言，英国小麦出口无明显优势，过度依赖表述错误，故B项错误。1588年，英国海军打败西班牙无敌舰队，1600年成立“东印度公司”垄断了中英、印英之间的贸易，英国逐步崛起。英国在殖民争夺中取得初步胜利表述无误，但其不是导致英国麦价上涨的主要原因，故C项错误。英国在与荷兰的贸易竞争中获利当为三次英荷战争、荷兰丧失海上霸权地位之后的结果，故D项错误。
8. D　世界市场的形成指的是商品在世界各地之间的流通。“三角航程”客观上促进了世界各地的商品流通，因此也促进了世界市场的形成，D项正确。
9. D　本题要求选出错误的选项。新航路的开辟，密切了世界的联系，使世界开始成为整体，欧洲出现商业革命，排除A、C两项；伴随早期殖民扩张，贵金属输入西欧，引起了价格革命，削弱了欧洲封建势力，排除B项，故选D项。

综合训练

10. (1)欧洲人狂热追求黄金、白银等贵金属；传播基督教成为推动力。
(2)奥斯曼帝国崛起后，传统的东西方贸易秩序和环境遭到破坏，所以必须把目光投向大西洋，开辟直达东方的新航路，而且哥伦布坚信地球是圆的。
(3)他们探险的目的是为了金钱和财富，他们不畏艰难，勇敢坚毅，克服了常人难以想象的困难，其壮举为人类做出了巨大的贡献，使世界逐渐成为一个整体；但同时给被殖民地区的人民带来了极大的灾难。

课后提能·再巩固

1. C　新航路开辟前，人类科技水平低，无法克服地理障碍带来的交通不便，使人类的活动不能超出地域发展，造成了不同区域间的彼此隔绝，C项正确。
2. B　材料表明15世纪的欧洲，人们对财富的追求，这是受商品经济发展的影响，B项正确；15世纪的欧洲还没有打通东西方的贸易通道，A项错误；价格革命和商业革命是在16世纪出现，C、D两项错误。
3. C　从材料中的“为上帝和陛下服务，将光明带给那些尚处于黑暗中的人们”可知新航路的开辟者要宣传基督教，让人们皈依基督教，C项正确。
4. D　本题主要考查学生透过现象看本质的能力。材料认为欧洲的海外扩张的最重要推动者是拥有资本的企业家们，即在强调资本主义萌芽的产生是新航路开辟和海外扩张的根本原因。
5. A　葡萄牙的主要扩张方向集中在非洲和亚洲，这符合材料中葡萄牙国王给自己加封新头衔的事实，而达·伽马船队抵达印度海岸，正是葡萄牙的海外扩张行为，A项正确；B、C两项是西班牙的活动；“海上马车夫”指的是荷兰，D项错误。
6. A　新航路的开辟，一方面促进了欧洲资本主义的发展，另一方面也给印第安人带来了巨大的灾难，A项正确；B、C、D三项都不是针对印第安人而言的，均排除。

关注微信公众号“教辅资料站”获取更多学习资料

7. B　从材料中的“这种传统的地区自治便开始让位于全球统一”“各个种族不再互相隔绝”可知，材料意在强调 1500 年前后的世界各地之间的联系逐步加强，B 项正确；A 项说法绝对；C 项错在了“完全”上；D 项中走向政治一体化的说法不正确。
8. D　从材料中美洲“种族之日”纪念的是“欧洲与美洲首次碰撞后，产生新的混血种族及其文化”可知该节日纪念的是文明的交流与碰撞，D 项正确；A、C 两项与材料信息无关；殖民扩张给美洲带来的是灾难，不能说开启了美洲历史的新篇章，B 项错误。
9. B　“中世纪”指的是欧洲的封建社会，超出了这种“动机”和“设想”指的是超出了封建社会的资本主义的发展，B 项正确；A、C、D 三项都不符合超出封建社会的内容，排除。
10. B　近代化指的是由农业文明到工业文明的转变，西、葡两国大量黄金、白银的掠夺给欧洲带来了价格革命，打击了封建势力，加速了封建贵族的衰落，B 项正确；A 项不符合“近代化”的要求，西、葡两国并非资本主义国家，掠夺来的财富也没有转化为资本，C、D 两项错误。
11. B　依据所学知识可知，材料中所讲的物价上涨是由于价格革命引起的，而价格革命加速了欧洲封建制度的解体，促进了资本主义的发展，所以选择 B 项。
12. C　材料表明明末欧洲、美洲、亚洲的交流加深，造成这一现象出现的原因是新航路开辟引发的“商业革命”，故 C 项正确；世界市场最终形成是在 19 世纪末 20 世纪初，明末大致是 17 世纪初，工业革命是在 18 世纪 60 年代开始的，故 A、B 两项错误；人口的膨胀不是“餐桌革命”出现的主要原因，故 D 项错误。
13. (1)攫取荣誉、地位和占有他人土地的欲望等。
(2)提出了施加武力和强权的战略，这使哥伦布加入了挥舞战刀的恶魔行列。
(3)材料三：高度评价哥伦布的美洲之行，给他戴上“发现者”的桂冠。
材料四：认为不能称哥伦布为发现者，他只不过是一个殖民开拓者。
(4)赞同材料三的观点。理由：因为哥伦布发现了美洲，使得欧洲和美洲这两个彼此隔绝的大陆从此密不可分地联系在一起，真正意义上的世界历史也从此开始。
赞同材料四的观点。理由：因为哥伦布及后来的殖民者是带着对金钱和土地的渴望而进行探险的，他们所进行的殖民活动给美洲大陆带来了毁灭性的灾难。
我的观点：两个观点都有道理，但又有一定的片面性。评价一个历史人物或历史现象，要本着客观的态度，做出全面评价。任何一个历史人物的所作所为，都有可能既推动历史的前进，又在某些方面留下罪孽。哥伦布对美洲的发现也不例外。因此可以说，哥伦布既是一个文明的传播者，又是一个凶神恶煞的强盗，集天使与恶魔于一身。
14. 示例：情节：鲁滨逊遇险漂流到海岛上，在那里建立了自己的领地。历史现象：这一情节反映出近代早期的西欧殖民扩张。概述和评价：近代西方殖民扩张始于新航路开辟，在亚非拉地区依靠武力等方式强占殖民地，掠夺财富，进行移民，开展贸易。殖民扩张掠夺的大量财富流入西欧，为资本主义发展提供了资本原始积累，给遭受侵略的地区和人民造成极大灾难，客观上带动了世界市场的发展。（“示例”只作参考，不作为唯一标准答案）
解析：本题涉及新航路的开辟、早期殖民扩张，宗教改革等知识，可以从材料中的某一情节入手，如“航海冒险”“贩卖黑奴”“自己阅读《圣经》”等，联系所学知识，概述评价该事件，要注意史实正确，逻辑严密，史论结合。

第 8 课　欧洲的殖民扩张与掠夺

课前预习 · 抓双基

自主预习

一、1.(2)亚洲　(3)商路
2.(3)大种植园
二、1.(2)海上马车夫
2.(1)对外贸易　(2)荷兰东印度公司
三、1.(1)海盗国家　(4)黑奴
2.18 世纪
3.(1)世界市场　(2)三角贸易

正误判断

1. ×　2. ×　3. √　4. ×　5. √

课堂达标 · 点对点

对点训练

1. B　“扩张的时代”指的是在新航路开辟后，欧洲殖民者向海外扩张，争夺殖民地和殖民霸权，B 项正确。
2. A　根据葡萄牙率先开辟新航路，建立马六甲等殖民据点和 1999 年葡占澳门回归中国怀抱的史实，可知 A 项符合题意。
3. C　西班牙仍然是封建国家，商品经济并不发达，没有成为世界商贸中心，也没有走上发展资本主义的道路，故 A、B 两项错误；打败西班牙，掌握世界殖民霸权的是英国，故 D 项错误；综上所述，故选 C 项。
4. D　从材料中的“17 世纪前期”“合股公司”“这些新组织是经济动员和经济渗透的最有效的工具”等信息可知，材料中的“合股公司”指的是股份制大型商业公司。荷兰利用这些商业公司建立了遍布世界的商业殖民帝国，D 项正确；A 项错在“一直长期领先于世界”；英国确立了海上霸主的地位是在 18 世纪下半叶，B 项错误；中国开始沦为半殖民地半封建社会是在 19 世纪中期鸦片战争后，C 项错误。
5. D　根据题干“十七世纪中期”“它的造船业占当时世界的首位，商船吨位占欧洲总吨位的四分之三”，结合所学可以知道，17 世纪荷兰垄断了世界的航运业，被称为“海上马车夫”，故 D 项正确；西班牙、葡萄牙主要是 16 世纪的殖民帝国，在 17 世纪时已经衰落，故 A、B 两项错误；英国称为世界殖民帝国是在 18 世纪中期，与题干时间不符，故 C 项错误。
6. C　从材料中两图的时间和英国的版图可知，英国 18 世纪中期的版图要远远大于 15 世纪的版图，其原因在于殖民扩张，到 18 世纪中期，英国成为殖民霸主，C 项正确。
7. C　材料表明英国通过《主要产物法令》妄图控制欧洲通往美洲的贸易，以获得垄断性的贸易利润，C 项正确；A 项不是英国的主要目的，排除；17 世纪的西班牙早已衰落，B 项错误；17 世纪英国遏制荷兰商业发展是手段，不是目的，D 项错误。
8. A　七年战争发生在 18 世纪中期，是英法争夺北美殖民地和世界霸权的战争，英国的胜利使英国获得了法属北美殖民地，确立了其世界殖民霸主地位，A 项正确；打败“无敌舰队”是在 1588 年，B 项错误；七年战争发生在工业革命前，C 项错误；“光荣革命”发生在 1688 年，七年战争时，英国早已确立了君主立宪制，D 项错误。
9. A　欧洲的殖民扩张，使大量欧洲白人迁徙到北美洲和大洋洲等世界各地，A 项正确。

综合训练

10.(1)途径：组建大型贸易公司，进行广泛的对外贸易。结果：17 世纪荷兰掌握了世界商业霸权，有“海上马车夫”之称。
(2)先进的政治制度，发达的工商业，海盗精神，地理位置。
(3)条件：经济发达，政治稳定，文化上的吸引力，军事实力，内部凝聚力等。
启示：把握机遇，抢占先机，打破旧有的价值观念等。

课后提能 · 再巩固

1. C　“运输队”意为为他国的发展提供运输财富的作用，而本国并未很好地利用这些财富发展起来。西、葡两国从美洲大陆掠夺的财富流入英、荷等国，为英、荷的发展提供了资本原始积累，C 项正确。
2. C　材料中的现象指的是货币贬值，物价膨胀的价格革命，其原因在于西班牙在殖民地掠夺大量财富，导致白银贬值，商品价格直线上升。
3. D　17 世纪的荷兰被称为“海上马车夫”，凭借其强大的海上实力开展海外贸易和殖民掠夺，获取巨额财富，也为国内的福利事业的发展奠定了基础，D 项正确；A、B、C 三项都说的是英国，排除。
4. D　荷兰并没有确立世界工厂的地位，英国直到 19 世纪中期才成为世界工厂，排除②；资本主义世界体系的建立是在 19 世纪末 20 世纪初，排除③；当时的英国和荷兰都推行重商主义，进行资本原始积累和海外殖民掠夺，①④正确，故选 D 项。
5. B　荷兰衰落是在 17 世纪后半期，英国的工业资本战胜了荷兰的商业资本，但此时的英国处在工场手工业时期，①错误，排除含①的选项即可，B 项正确。
6. A　结合时间“17 世纪上半叶”可知，当时荷兰称霸，控制世界航运业，成为“海上马车夫”，故 A 项正确；英国打败法国是在 18 世纪“七年战争”，故 B 项错误；17 世纪上半叶当时中国处于明清时期，实行海禁政策，故 C 项错误；世界贸易中心位于西太平洋沿岸是在 15、16 世纪新航路开辟后，故 D 项错误。

关注微信公众号“教辅资料站”获取更多学习资料

7. A　16～18世纪处于工业革命前，属于早期资本主义时代，奴隶贸易是当时资本主义扩张的主要手段之一，A项正确；世界殖民体系最终形成是在19世纪末20世纪初，B项错误；英国成为“日不落帝国”的主要原因是殖民扩张抢占殖民地，C项错误；奴隶贸易达到极盛的原因是美洲种植园经济的发展，D项错误。

8. D　据材料表格数据可知，1500～1599年葡萄牙抵达亚洲的商船数量最多，不是荷兰，故A项错误；17到18世纪荷兰抵达亚洲的商船数量从1 770到2 950，英格兰抵达亚洲的商船数量从811到1 865，英格兰的增长率高于荷兰，故B项错误；葡萄牙开辟新航路是在15、16世纪，不是18世纪，故C项错误；18世纪英格兰抵达亚洲的商船数量为1 865，增长迅速，结合所学知识可知，当时英国逐渐成为海上霸主，故D项正确。

9. B　18世纪的英国早已确立了资本主义制度，而此时的法国仍处在封建君主专制统治下，英国打败法国成为殖民霸主，从实质上反映了先进制度对落后制度的胜利，B项正确。

10. A　“只要英国人‘把机器用于……的国家的交通上’”“就无法阻止这个国家去制造这些机器了”，意为英国在进行殖民活动的同时，客观上传播了新的生产方式，促进了当地的近代化，A项正确；殖民活动客观上促进了殖民地的发展，B项错误；殖民活动的罪恶不能忽视，C项错误；D项不是材料主旨。

11. C　从材料中，英国人的糖消费量要远高于欧洲其他国家的情况可知，英国在糖的运输中占据优势，这反映了英国逐渐控制了海上霸权和占据贸易优势，比其他国家享有更多的廉价糖。

12. C　A项中“生产萎缩”的表述与15世纪前后西欧国家商品经济发展，出现了资本主义萌芽的史实不符，故排除；15世纪末16世纪初的新航路的开辟，使得西欧国家走上了对外殖民扩张与掠夺的道路，导致大批黄金、白银流入欧洲，造成物价上涨，C项符合题意；B项由C项所致，与设问要求“主要原因”不符，故排除；工业革命在英国的展开是在18世纪中后期，与题干时间信息不符，排除D项。

13. (1)贸易内容丰富：商品流通数量、品种急剧增加，出现了黑奴贸易。
贸易范围增大：从以亚欧贸易为主到全球性贸易。
贸易主导者转化：由穆斯林、意大利商人转为西欧商人。
贸易中心转移：由地中海沿岸转移到大西洋沿岸。
(2)对欧洲而言，西欧主导的世界市场开始形成，西欧成为世界贸易中心(物流中心)和财富中心，促进了西欧资本主义的发展(或促进了其资本原始积累)。对亚、非、美而言，亚、非、美地区被卷入到西欧主导的资本主义世界市场中，逐渐成为其经济附庸甚至沦为其殖民地。对全球而言，随着全球贸易的扩张，全球一体化的时代开启。

14. (1)兴起背景：新航路的开辟；早期殖民扩张的兴起；英国政府的授权；有创业心和有影响力的商人的努力。
侵略特点：凭借政府授予贸易独占权展开侵略；建立军队(包括舰队)；建立殖民机构；与其他殖民势力展开竞争；进行残暴的政治统治；疯狂的经济掠夺。
(2)性质：军、政、经合一的殖民机构。
评价：英国东印度公司产生和存在于17世纪初到19世纪中期，是商业垄断资本的代表，促进国内资本主义的发展，加速了资本主义原始积累。排挤了欧洲其他殖民大国，扩张大英帝国领土，推动了“日不落”帝国的形成。
随着英国工业革命的开展和逐步完成，自由竞争、自由贸易已成为新兴工业资产阶级的强烈要求，东印度公司这种商业特权公司已不适应资本主义进一步发展的要求，最终因不适应历史潮流而退出历史舞台。

第9课　改变世界的工业革命

课前预习·抓双基

自主预习

一、1. (1)工场手工业
2. (1)棉纺织业　哈格里夫斯　水力纺纱机　(3)万能蒸汽机　(4)交通运输业　史蒂芬孙　汽轮
3. (1)世界工厂
二、2. 科学
3. (1)电气时代　(2)内燃机　(3)化学工业
4. 重工业
三、1. 工厂
2. (1)中小企业　(2)经营权
四、2. (2)资本
3. 欧美

正误判断

1. √　2. ×　3. √　4. ×　5. √

课堂达标·点对点

对点训练

1. A　由材料“1765年，修理过唧筒的瓦特发明了一种单动式蒸汽机……终于改进制成‘万能蒸汽机’，并广泛使用到工业领域”可知，第一次工业革命期间生产领域的主要发明创造源自于劳动实践，故选A项；由所学知识可知，第一次工业革命时，科学与技术尚未真正结合，排除B项；C项错在“取决于”，故排除；D项错在“各阶层广泛参与”，第一次工业革命中的发明大多来自一线工人，故排除。

2. A　本题考查的是1740年至1852年的英国生铁产量，此时仍然是第一次工业革命时期，因此，生铁产量的增加与机器动力的投入使用密切相关，故A项正确。生铁产量不断增加，是大工厂制度建立的结果，B项的叙述不正确，故排除。电力的广泛使用是第二次工业革命的内容，与题中信息不符，故排除C项。D项在材料中没有体现，故排除。

3. A　19世纪上半期，正值工业革命期间，人口死亡率上升的主要原因在于工业革命带来的环境污染问题，特别是城市环境恶化，A项正确；化学工业兴起于第二次工业革命，不符合题干19世纪上半期的要求，B项错误；C、D两项都不符合当时的史实，排除。

4. A　“将抽象的理论应用于实用技术”指的是科学理论与技术的完美结合，它出现在第二次工业革命中，西门子制成发电机是这一体现，A项正确；B、D两项都是第一次工业革命的成果，排除；达尔文的进化论与技术进步无关，C项错误。

5. D　第二次工业革命科学和技术紧密结合，主要是运用科学家成就，发电机是第二次工业革命主要发明，D项正确；A、B、C三项都是第一次工业革命的发明。

6. D　结合所学知识可知，A、C两项所述不属于第二次工业革命的成就，排除；B项虽是汽车发明的核心技术，但是材料强调的是流水线标准化生产，因此过于片面。因此D项正确。

7. B　从材料中别针的制作工艺可知，生产的分工更加细密，这体现了工厂制下劳动分工明确，生产效率提高，B项正确。

8. C　材料中的铁路大王、石油大王、钢铁大王等的出现反映的是垄断组织的形成，C项正确。

9. D　资本主义世界市场是以欧美国家为主导的，D符合题意；工业革命是资本主义世界市场初步形成的根本推动力，A不符合题意，排除；资本主义世界市场一方面打破了殖民地半殖民地落后的经济结构，另一方面也传播了先进的生产方式，B不符合题意，排除；资本主义世界市场以资本主义国家为主导，为资产阶级攫取更广阔的市场和更丰富的原料提供了便利，C不符合题意，排除。故本题选D。

综合训练

10. (1)动力：主要是自然力，如畜力、风力、水力等。影响：使工厂摆脱水力等自然条件的限制，工业生产速度加快；工厂开始集中，工业城市兴起；带来交通运输业的革命；把人类带进蒸汽时代。
(2)影响：加剧了整个社会流动的速度和规模，对当时的社会关系造成了冲击。
(3)托克维尔从积极性和消极性两个方面评论工业革命：一方面工业革命的成果推动了英国和世界的进步；另一方面资产阶级对工人的压迫，资本主义国家对其他国家的侵略，使其进步性蒙上了阴影。

课后提能·再巩固

1. C　从材料信息可知15世纪的英国商业资本主要投资于农业生产，而到17世纪则主要投资于海外殖民和工矿企业，这表明17世纪的英国商业资金的投入促进了英国从农业文明向工业文明的转型，C项正确。

2. C　从材料信息可知，英国原棉大量进口，其原因在于棉纺织生产机器的发明促进了棉纺织领域生产效率的极大提高，急需大量原材料，C项正确。

3. B　从材料中的“近代的机器与其说是需要的结果，不如说是被迫无奈时有意的发明产物”可知，材料意在强调技术革命着力解决生活中的迫切问题，B项正确；材料中“有意的发明”表明A项错误；材料中的新式纺纱机和织布机属于第一次工业革命的成果，垄断是第二次工业革命的产物，C项错误；科学与技术的密切结合是第二次工业革命的特点，D项错误。

关注微信公众号“教辅资料站”获取更多学习资料

4. D　结合材料中“纺纱—织布—动力”的递进展示的是技术的革新，反映了工业革命正常的发展轨迹，因此D项正确；A、B、C三项表述与此材料无关。

5. C　从材料中的“由于个人利益而与群众处于斗争状态，对群众不怀好意”“医生希望自己的同胞患寒热病，律师则希望每个家庭都发生诉讼”可知傅立叶认为工业革命加剧了人们的私利观念，C项正确；A项不具有针对性，不如C项更准确；B、D两项在材料中没有体现。

6. A　工业革命使工厂制成为新的生产组织形式，而工厂制的发展促进了以工厂为中心的工业城市的兴起，因此符合题意的是A项。

7. D　从材料中的前两个阶段国民总收入和工人工资变化情况可知，A项中的“同步增长”的说法错误；推动经济快速发展的是生产力，B项错误；工人工资水平整体是上升的，C项错误；国民总收入增长幅度要远大于工资增长幅度，说明社会贫富差距进一步拉大，D项正确。

8. C　资本原始积累阶段指的是工业革命前，当时欧洲资本主义对外经济扩张主要以殖民活动为主；自由资本主义阶段指的是工业革命后，这时资本主义经济扩张以商品输出为主；垄断资本主义阶段指第二次工业革命后，这时资本主义经济扩张以资本输出为主，C项正确。

9. A　材料表明从18世纪后半期到20世纪初，欧美的工业生产能力大大提高，其主要原因在于两次工业革命的推动，A项正确；B、C、D三项虽也有推动作用，但远不如工业革命作用大，排除。

10. C　题目中的信息“这些新工业部门中的大企业具有较高的劳动生产率……促使生产和资本的进一步集中”反映了第二次工业革命期间，伴随工业的大发展，生产和资本高度集中，产生了垄断组织，推进了大工业发展的进程，在一定程度上促进了生产力发展的史实，C项符合题意；A、B、D三项均是垄断组织产生的表现，与题干“本质”的要求不符。

11. A　第二次工业革命推动了世界一体化的进程主要内容有物资和物种交流；人口迁徙与种族融合；各种文化的交流与撞击。故②③④正确，故选A；自由主义原则的确立是第一次工业革命的影响，故①错误，故排除B、C、D。

12. B　结合材料时间和主题，以及主要原因的要求可知，是两次工业革命推动产业结构的变化，工业化程度提升因而推动了城市化的进程，所以B项正确。

13. (1)因素：欧洲从亚洲获取了生产、市场和贸易的利益。途径：新航路的开辟；殖民活动。
(2)条件：降低了生活必需品的价格，节约了土地和劳动力。
(3)现象：英国君主立宪政体确立；圈地运动提供了自由的劳动力；文艺复兴和宗教改革等思想解放；经典力学等科技进步。
(4)史观：全球史观。特点：整体性或全面性。

14. (1)新航路开辟后，世界市场的雏形开始形成；19世纪中期，工业革命促使世界市场初步形成；19世纪晚期至20世纪初，第二次工业革命推动世界市场最终形成。
(2)同意。促进了资本主义国家经济的发展；传播了先进的生产方式；加强了世界各地的联系。
不同意。加剧了世界各国的贫富分化；给亚非拉人民带来了深重的灾难；形成了不合理的国际经济秩序。
(3)新式交通工具和电讯器材的出现；运河的修建和轮船的改进；跨洲铁路的修建；世界通讯网络的形成。

第10课　近代中国社会经济结构的变动

课前预习·抓双基

自主预习

一、1. 耕织结合
2. (1)鸦片战争　(2)手工业者
3. (1)资本主义体系　(2)买办

二、1. 自强　求富
2. (1)安庆内军械所　(2)近代工业
(3)李鸿章　(4)70
3. (2)近代化

三、1. (1)70　(2)外资企业　(3)上海发昌机器厂
2. (2)商部　实业救国　荣宗敬　收回利权
3. (2)特权　本国官府

正误判断

1. ×　2. √　3. ×　4. ×　5. √

课堂达标·点对点

对点训练

1. C　解答本题的关键是注意题干的限定词“从侧面”。材料表明国产粮食商品量、值都有较大提高，这从侧面表明自然经济逐步解体，C项正确；从材料中国产粮食商品量和所占比例可知，粮食总产量没有明显提高，A项错误；B项是直接体现，不符合“从侧面”的要求，排除；材料中没有经济结构变化的体现，D项错误。

2. C　题目中未涉及上海是民族工业的集中地及成为国际大都会，故无法得出B、D两项的结论；A项应为鸦片战争的影响，早于题目中的时间段“光绪年间(1875～1908年)”，故排除；由题目中的信息“光绪年间……上海……西人所购者，以丝茶为大宗……其售于华者，呢、布、羽毛等物，销亦不细”可知晚清时期的中国沦为列强的原料产地和商品销售市场，即中国卷入了资本主义世界市场，故选C。

3. C　洋务运动开启了中国近代工业化的进程，C项正确。

4. C　安庆内军械所是洋务派创办的军事工业，其目的是利用西方先进技术富国强兵以维护清朝的封建统治，C项正确；洋务运动的指导思想是“中体西用”，不学习西方政治体制，A项错误；洋务派是地主阶级的代表，不主张发展资本主义，B项错误；破除对民间设厂的限制是在《马关条约》后，D项错误。

5. B　从材料中的“必须劝民自置……解商民之困，而作自强之气”等信息可知，洋务派要创办近代民用企业，B项正确。

6. B　从材料中的福州船政局所造之船最先均“派拨各省，并不索取原价分文”到后来造船所用材料费由用船方拟付可知，福州船政局遭遇经费不足问题，这反映出洋务企业遇到了经费问题，B项正确，D项错误；商办指的是资本家经办，企业属于民族资本主义企业，而洋务派的军事企业属于政府官办企业，A项错误；材料中福州船政局生产的船只不投入市场，C项不符合史实，排除。

7. D　从材料中的“该机器厂已拥有车床10多台，可容纳200名工人”可知，新式机器的使用促进了企业的发展，而新式机器生产属于生产经营方式的转变，D项正确；1890年前清政府压制新式工业的发展，A项错误；半殖民地下的中国技术水平较低，B项错误；近代中国的工业品技术水平低，没有扩大海外市场，C项错误。

8. B　19世纪中后期出现的发昌机器厂、继昌隆缫丝厂、大生纱厂、保兴面粉厂等企业都是私人建立的资本主义企业，故选B；A项中“地主”不当，排除；上述企业均非洋务企业，排除C；发昌机器厂和继昌隆缫丝厂是民族工业兴起的表现，排除D。

9. B　从图片中民族工业被封建主义、帝国主义和官僚资本主义压迫的步履维艰可知民族资产阶级的两面性是由中国半殖民地半封建社会的历史条件决定的。

综合训练

10. (1)外国资本主义的入侵进一步破坏中国的自然经济；清政府放宽对民间设厂的限制。
(2)地点：沿海地区。行业：以轻工业为主。
(3)受到殖民主义和封建主义的双重压迫。

课后提能·再巩固

1. B　根据“在促进英国对华出口贸易方面，没有发生丝毫影响”，结合所学可知，《南京条约》签订后，虽然实现五口通商，但是由于受到中国自然经济的顽强抵抗，英国商品在中国并不畅销，这是由中国传统社会经济结构造成的，即自然经济占统治地位，故B项正确；英国工业革命，生产能力大大提高，机器生产，产品质量好，A、D两项错误；C项不是最主要原因，排除。

2. B　注意题干中的时间提示“鸦片战争前后”。鸦片战争后签订《南京条约》，上海开埠通商，逐渐成为经济重心，取代了苏州的地位，B项正确。

3. D　本题以江浙地区经济变化为切入点，旨在考查学生准确解读材料并提取有效信息的能力。解答本题要特别注意时间19世经60年代。A项是在甲午战争后，与材料中时间不一致，排除；B项中民族工业产生的时间是在19世纪70年代前后，而且“家家置纺车”，应该表现的是小农经济，不是民族工业，B项错误，排除；C项表述不符合史实，这一时期中国对外贸易处于入超地位，排除。故正确答案为D项。

关注微信公众号“教辅资料站”获取更多学习资料

4. C　“买办唐廷枢、徐润接手以后，短时间内即招足100万股本”说明买办在近代民族工业发展中占据主导，成为先进生产力的代表，C项正确；材料没有说明洋务运动对于近代化的作用，A项错误；民族资产阶级并不是兴起于近代官办企业，B项错误；D项出现在甲午战争后，与轮船招商局创建时间不符，排除。

5. A　李鸿章是地主阶级洋务派，材料中他主张“开煤铁……购洋器、雇洋匠，以资倡导，因为铸造军器要需，亦欲渐开风气以利民用也”意为兴办近代民用企业以解决军用企业资金不足的问题，汉阳铁厂是近代洋务派民用企业，A项正确；发昌机器厂是民族资本主义企业，B项错误；北洋水师属于军事近代化的体现，C项错误；江南制造总局是军事企业，D项错误。

6. B　1895年的《马关条约》规定外国资本家可以在通商口岸开设工厂，外国人在华开设工厂合法化，而材料中的时间是“1872～1894年”，A项错误；通过图片可以看出商办企业资本所占比重小，企业数量较多，这说明民族企业资本力量弱小，B项正确；甲午战争后，清政府才放宽民间设厂的限制，C项错误；中国近代自然经济一直占据主导地位，D项错误。

7. B　黄彬、朱纯祖、姚光第分别为科举制下的国学生、监生、生员，但是随着社会形势的变化，他们纷纷从事近代企业生产。这说明社会经济和政治结构受到外来势力冲击，发生了一定的变化，故B项正确。

8. C　“中国多织一匹布，英国就会少销一匹布”表明英国不愿看到中国发展近代工业，目的是争夺中国商品市场，C项正确。

9. A　从材料中的“其中绝大部分是小型或中型企业，只有750家公司雇工超过100人”可知，近代中国企业面临规模小、资金少的问题，这表明民族企业在前行中仍有不足，A项正确；B项在材料中没有体现，排除；新政是促进民族工业发展的原因之一，但不是主要原因，C项错误；D项说法太过笼统，不具有材料的针对性，排除。

10. A　从材料中19世纪80年代以后棉布进口减少，而棉纱进口增多的情况分析可知，由于民族工业的创办，民族纺织业兴起，需要进口棉纱，而生产的棉布对外洋棉布有一定的抵制作用。

11. B　本题考查的主要知识点是民族资本主义的产生与初步发展。张謇向商部申请了：“二十年内、百里之内不准别家纺纱厂”的特权反映了张謇要通过政府力量垄断这一地区的纺纱生产，这从侧面反映了当时民族纺织业有了较大发展，兴办纺纱厂成为一股潮流，大生集团面临挑战，存在潜在危机，B项正确；A项与材料无关，排除；C项不符合史实，且在材料中没有体现，排除；D项不符合材料主旨，排除。

12. B　从材料中的企业“各项机械均自意、法等国”“乃延意麦登斯为工程师，指导常务且所有产品需运往国外市场”可知，该企业从机械设备到人才和市场都严重依赖外国资本主义，B项正确。

13. (1)原因：外商利用了中国的鸦片市场；外商减少了从中国的进口；西方实现了机械化生产。
(2)影响：自然经济开始解体；洋务运动兴起；民族资本主义产生和发展。

14. (1)问题：中国民族企业资金少，规模小，受外国资本主义和本国封建势力的双重压迫，处境十分困难，许多企业破产倒闭。影响：严重阻碍了中国民族资本主义的发展，使民族资产阶级呈现出两面性的特点。
(2)①中国商品经济的发展为民族资本主义的发展创造了一定的条件。②外国的经济入侵加速了自然经济的解体，客观上为民族资本主义的发展提供了便利。③洋务企业、外资企业客观上为民族资本主义企业带来了先进的技术、人才和经营管理方法。④民族资产阶级设法利用外国技术、市场等，并寻求本国封建势力的保护。

第11课　民国时期民族工业的曲折发展

课前预习·抓双基

自主预习

一、1. 民国建立
2. (1)政治　国货　货币　(2)第一次世界大战　(3)反帝爱国
3. (2)化学　范旭东

二、1. 适地适产主义
2. (1)委托经营

三、1. 跌价
2. (1)国家资本主义　(2)经济统制

正误判断

1. √　2. ×　3. √　4. √　5. √

课堂达标·点对点

对点训练

1. D　据材料表格数据可知，1913～1920年中国国内工业品和原料价格除了汉口货小麦价格下降外，其余都是上涨趋势，结合所学知识可知，当时处于民族资本主义短暂春天时期，民族工业此时得到了较快发展，故价格上涨，D项正确；工业品和原料价格与传统自然经济无关，A项错误；中国卷入到资本主义世界市场的表现是中国自然经济逐步解体，外国对中国扩大商品输出，材料未涉及这类现象，B项错误；一战期间西方国家暂时放松对中国的经济侵略，但材料关于国内工业品和原料价格指数变化的信息无法体现这一史实，C项错误。

2. B　中国近代工人阶级队伍的壮大是与民族工业的发展分不开的，随着民族资本主义的不断发展，产业工人数量也在不断增加。抓住时间，辛亥革命后和一战期间是民族工业的短暂春天。故选B项。

3. D　从材料中的时间提示和各家火柴公司的发展情况可知，一战为民族工业的发展提供了机遇，D项正确；材料中没有列强加紧对华资本输出的信息，且当时欧洲列强忙于战争，暂时放松了对中国的经济侵略，A项错误；材料只是反映了天津火柴工业的发展情况，缺少和其他地区的比较，B项结论无从得出，排除；政府放宽对民间设厂的限制出现在甲午战争后，不是20世纪早期民族工业迅速发展的原因，C项错误。

4. A　材料中的“禄字、五福、寿字、狮球、金鼎”“福全牌、福纶牌”“天字、地字九福”等均是中国民众喜爱的象征，这说明民族工业比较注重迎合民众的心理，A项正确；其他三项都不能准确反映材料信息，排除。

5. B　提高进口关税有利于本国商品与外国商品进行市场竞争，从而起到保护民族工业的作用，B项正确；国民政府提高关税表明关税已经可以自主，A项错误；20世纪30年代初的提高关税行为主要是为了应对经济危机的冲击，不是改变政府财政困难，C项错误；提高关税与抵抗日本侵略战争无关，且九一八事变后，国民政府并未积极抵抗日本侵略，D项错误。

6. A　1943年的武汉、上海被日本占领，因此其经济政策应为日本服务，由此可以推断出该政策有利于日本掠夺中国战略资源，以实现其以战养战的目的，A项正确。

7. D　材料表明在抗战期间，西北地区的工业有了较大发展，这与日本侵华，民族企业内迁关系紧密，D项正确，B项错误；A、C两项说法不符合史实。

8. C　1947年正值解放战争时期，将介石为取得美国援助，与美国签订《中美友好通商航海条约》，大量美国货进入中国市场排挤国货。C项正确。

9. C　“有什么买什么”说明当时货物的极度缺乏，1948年是国民党统治通货膨胀时期，故C项正确；A、B两项不符合材料主旨；D项中美国物品材料中没有信息说明。

综合训练

10. (1)中国资本主义代表着先进的生产关系，促进了生产力的发展。
(2)民族工业发展进一步瓦解自然经济，推动中国现代化进程，对外国资本主义侵略有一定的抵制作用；民族工业的产生、发展为资产阶级进行政治斗争提供经济基础；民族资本主义发展为西方资本主义思想文化在中国传播提供社会基础，最终动摇了封建正统思想的统治地位。

课后提能·再巩固

1. B　从材料中的“更多地产生于第一次世界大战所造成的经济奇迹，而较少地受惠于一场早已被军人接管了的革命”可知，材料认为民族工业出现奇迹的主要原因在于“一战”而非辛亥革命，B项正确。

2. C　一战期间，日本利用欧洲列强忙于战争，无暇东顾的机会，加紧扩大在华利益，使日本在华商品输出中迅速增长，C项正确；放松了对中国的侵略的是欧洲列强，而日本和美国加紧对中国的经济侵略，A项表述不够清晰，排除；B项不符合史实，排除；D项错在了“始终”，排除。

3. A　据材料“诸企业之失败……推原其故，则由创立之始……无法律之导之故也”并结合所学知识可知，张謇认为民族工业进程迟缓的主要原因是缺乏必要的法律保障，故A项正确；材料未涉及中外反动势力双重压迫的问题，故B项错误；材料也没有反映官僚资本的经济垄断，故C项错误；材料也没有体现资本和技术的支持的问题，故D项错误。

4. D　材料反映了大生纱厂兴衰过程，特别是“一战”后的衰落，说明民族独立是实现近代化的前提，D项正确；中国实现近代化的先决条件是民族独立，A项错误；单凭一个企业的发展情况不能反映出民族工业的先

关注微信公众号“教辅资料站”获取更多学习资料

天不足、后天畸形，B 项错误；材料中，大生纱厂的衰落原因主要是帝国主义卷土重来，C 项错误。

5. B　A 项中的“全面抗战”开始于 1937 年，晚于题目中的时间段“1927～1936 年”，故排除；C 项中的“国共合作”的时间段分别为 1924～1927 年、1937～1945 年，均与题目中的时间段“1927～1936 年”不符，故排除；D 项的表述与第一次世界大战结束后，欧洲列强卷土重来，加紧了对中国的经济侵略的史实不符，故排除；1927 年，南京国民政府成立，开展“国民经济建设运动”，鼓励发展工业、农业和交通运输业，1927～1936 年，民族工业得到较快的发展，故选 B。

6. D　本题主要考查学生获取信息的能力。从材料中的宣传词可知，当时中国的社会生活受到了西方文明的影响，且体现了实业救国的思想，①②③正确；20 世纪初的中国人民生活困苦，④错误。

7. C　“增加外国火柴进口税、减免铁道运输收费”的要求从侧面反映了外国商品在中国享受着低关税和内地税的优惠，这是由不平等条约所造成的，而民族工业则不具有这些优势，C 项符合题意。

8. C　本题主要考查学生准确解读材料信息，运用所学知识解决问题的能力。1929～1933 年资本主义世界爆发了一场史无前例的经济危机，这场经济危机席卷了整个世界，造成了巨大的灾难，同时也促使人们对资本主义制度产生了强烈的质疑，上述材料所述现象即是此种情况的反映，C 项符合题意；A 项说法错误，南京国民政府代表大资产阶级的利益；B 项是上述现象产生的结果而非原因；D 项说法不够准确，五四运动后马克思主义在中国有了广泛传播，但马克思主义在中国被广为接受发生在解放战争时期。所以答案选 C。

9. A　从材料中 20 世纪 30 年代末 40 年代初中国各行业内迁工厂数及其分布情况可知，大量工厂内迁促进了西南地区社会经济结构的改变，A 项正确；B 项中的“协调发展”不符合史实，排除；西南地区在抗日战争中也遭到了日军的侵扰，C 项错误；工厂内迁是抗战的需要，是不得已而为之，不是工业近代化的捷径，D 项错误。

10. D　1944 年正值抗日战争时期，后方专利数量的大量增加，且集中在机器、电器、交通工具和化学药品方面，这都说明战争需要刺激了科技的发展，D 项正确；后方与此前的全国比较，数量增多与科技人员内迁无关，A 项错误；材料没有反映出是军工企业还是民营工业，排除 B、C 两项。

11. D　根据所学知识可知，洋务运动随着甲午中日战争的失败而破产，故 A 项错误；B 项说法错误，错在“停止对华商品输出”；丙段下降主要由于官僚资本的压制，故 C 项错误；丁段下降是由于受到内外势力双重打压，故 D 项正确。

12. B　注意本题问的是“外部原因”，①属于内因，故排除。从 1934 年后，日本加紧侵华，再经抗日战争、解放战争，民族企业既受到了美、日的压迫又受到官僚资本的抑制，再加上战乱使经济环境恶化，使启新洋灰公司每况愈下，B 项正确。

13. (1)原因：小农经济高度发达，局限于小农经济；列强入侵；重农抑商和海禁的政策。
(2)成效：引进先进的技术，培养了一批技术人员；在一定程度上抵制了列强的经济侵略；刺激了民族资本主义的产生。因素：第一次世界大战；辛亥革命。
(3)因素：实业救国的思潮；技术设备先进；国民经济建设运动。原因：日本侵华战争的爆发。
(4)应对：维护民族独立是基本前提；其次应顺应时代潮流，发展近代企业。
解析：(1)根据材料一内容进行归纳，由“精耕细作的密集型农业，传统技术发展到了极其完美的水平，中国的经济好像已陷入了一种‘高水平平衡的陷阱’之中。”可分析第一个原因为小农经济高度发达；由“西方的干预对中国经济体制的运转，产生了深刻的冲击”可分析第二个原因为列强的入侵；由“明清两代政府抑制贸易和航海事业，中国的经济变成了内向型的”可分析第三个原因为重农抑商和海禁的政策。
(2)第一小问根据材料二内容可知“自强”运动指的是洋务运动，结合所学知识可知洋务运动的主要成效是一定程度上抵制了列强的经济侵略，引进先进的技术，培养了一批技术人员，刺激了民族资本主义的产生。第二小问中的“革命”之后指的是辛亥革命以后，结合所学知识可知辛亥革命之后也就是 1911 年之后，民族资本主义迅速发展的因素有第一次世界大战和辛亥革命。
(3)根据材料三中“著名的实业家宋棐卿 1932 年成立了‘东亚毛呢纺织有限公司’，决心走实业救国之路”可分析其快速发展的因素有实业救国；由材料“1935 年 4 月，筹建新厂，设备齐全，机器先进，使‘东亚’成为天津民族工业中的佼佼者”可分析其因素为技术设备先进；最后结合 30 年代时代背景，分析其因素为当时国民政府正进行国民经济建设运动。
(4)根据社会经济发展的潮流趋势作答。

14. 示例：信息 1：清末和民初都很重视发展实业。
说明：民族危机严重，发展实业是救亡图存的重要手段。清末和民初的经济政策具有一定的延续性，都促进了民族工业的发展。
信息 2：清末的奖励以爵位为主要形式，民初以奖章为主要形式。
说明：政治体制和社会观念发生了变化。民初更注重精神鼓励。
信息 3：与清末相比，民初奖励的对象更加广泛，奖励的条件降低。
说明：民国时期民主政治和民族工业得到进一步发展。有利于形成重工商、兴实业的社会风气。
信息 4：民初鼓励出口贸易。
说明：第一次世界大战期间，西方国家忙于战事，为国货出口提供机遇，推动了民族工业的发展。

第 12 课　新潮冲击下的社会生活

课前预习·抓双基

自主预习

一、1. (1)官定　男女礼服　(2)民间　西服革履　(3)中山装
2. (1)政治　(2)民国　(3)女权

二、1. (2)太平天国起义　申报　(3)维新运动　新文化
2. (1)19 世纪末期　(2)定军山　(4)有声片

三、1. (2)握手　(3)平等
2. (1)国民革命
4. (2)人文　(4)不平衡

正误判断

1. √　2. √　3. ×　4. ×　5. √

课堂达标·点对点

对点训练

1. C　从中山装所体现的“四维”“五权”“三民主义”等信息可知服饰变化受政治影响。

2. A　辛亥革命之后，民主共和观念开始深入人心，故 B 项错误；传统的习俗理念有些变化，但还没有被颠覆，故 C 项错误；民众心理发生本质变化不符合史实，排除 D 项；题干中清政府对剪辫子的态度，实际上反映了中国社会近代化的趋势，故 A 项正确。

3. C　题目中阐述的江南地区国民及学生们的“剪辫”的行为，联系所学，这是清末移风易俗的结果，该措施具有明显反清的色彩，C 项符合题意；A、B 两项时期没有出现剪辫的行为；题目中学生们还在参加乡试，可知科举制仍存在，排除 D 项。

4. B　《万国公报》主要介绍西方各国的情况，材料中从皇帝到洋务大臣，从孙中山到康有为、梁启超都阅读和支持该报表明民族危机刺激国人了解西方，B 项正确；A 项错在了“各界”；仅从美籍传教士办了一份报刊不能表明中美文化交流密切，C 项错误；材料中没有体现出学习西方制度的内容，D 项错误。

5. A　从 1909 年可知当时不可能有电视，排除 D 项；从材料中的“如同身历其境，亲眼得见一样”可知使人们“开眼界”的是电影，A 项正确。

6. B　中国人自己摄制的第一部无声电影是《定军山》，B 项正确。

7. D　从材料中的“1918 年”“又过旧年”“有的鞠躬，有的拜跪”可知当时社会风尚新旧并存，D 项错误，符合题意；A、B、C 三项都符合题干材料主旨。

8. C　通过对材料的分析可知，“延年会”的《章程》规定没有涉及资产阶级革命政党的政治主张，因此无法知道“延年会”是不是资产阶级革命政党，故可排除 A 项；材料所显示的时间是 19 世纪末，新文化运动的时间是 20 世纪初，据此可排除 B 项；依据材料的内容可知，“延年会”的《章程》规定起到了“移风易俗”的作用，体现了时代发展的需要，故选 C 项；D 项的说法犯了绝对化的错误，可以直接排除。

9. C　依据题干说明传统婚姻观念受到新的挑战，这则“启事”使说媒的人顿时退避三舍说明新思想传播的阻力较大，C 项符合题意；A 项中“彻底转变”说法错误，排除；“新文化运动”始于 1915 年，排除 B；“近代报刊”在题干中无法体现，排除 D。

综合训练

10. (1)理由：影响邦交；不适应大机器生产；不利于强兵；不卫生；浪费时间；被外国人讥笑。
目的：通过习俗的改革推动政治上的变法运动。
(2)传统思想、习俗根深蒂固；社会的变革艰难曲折；辛亥革命的不彻底性。

关注微信公众号“教辅资料站”获取更多学习资料

(3)西方自由平等思想的传播;中国民族工业产生和发展的推动;进步政治运动的推动。

课后提能·再巩固

1. C　由材料“共和国无阶级之分,受治于同一之法律”“一旦罢职,即与齐民无异”可以得出材料意在强调法律面前人人平等,C项符合题意;材料没有涉及自由、民主和共和思想等,A、B、D三项不正确。
2. B　从材料中的“大体上,自以中国的服饰为较适宜。现在崇尚西装,不过一时的风气罢了”反映了作者认为中国传统服饰比西方服饰有更强大的生命力,B项正确;A、C两项与材料观点相悖;D项在材料中没有体现。
3. A　材料表明清末中国在衣、食、住、行等方面都出现了西化的趋势,这说明中国受西方生活方式影响深刻,但并不能说全盘西化,A项正确,D项错误;B、C两项虽有一定道理,但与材料关系不如A项更密切,排除B、C两项。
4. A　题图中两个男人仍然穿着长袍马褂,故①正确。“知识女性”由材料不能得出,故②在题中没有体现。题中服装不能明显反映等级身份,故③不正确,排除。题中左图反映了服饰趋向短袍窄袖的时代特征,故④符合题意。因此,本题答案为A项。
5. C　本题主要考查学生解读漫画的能力。图中人物剪掉一段辫子是崇尚西法,留下一段辫子是保留国粹,这反映了当时人们受传统观念的影响较大,即反映出旧有观念根深蒂固。
6. C　“清帝丢皇位”是在1912年,因此在1909年不可能出现“交头接耳说紫禁,争看清帝丢皇位”的现象,C项正确。
7. A　鸦片战争后,清政府和英国签订不平等条约《南京条约》,上海成为通商口岸,而后英国、法国、美国相继在这里开辟出租界。从本质上说,租界是西方列强在中国建立的“国中之国”,也是其对华实施政治渗透、经济掠夺的基地。但殖民当局在租界内采取严格的市政管理方法和先进的建设手段,客观上促进了上海的近代化。与此同时华侨大量迁入,长期的华洋共处实际上是一个中西文化剧烈碰撞的复杂过程,最终它们都在不同程度上得到了融合,这种融合为海派文化产生的基础。本题选A。材料没有说明海派对于京派的批评,故B项错误;京派鄙视海派的经商,体现出重农抑商思想,故C项错误;“京海之争”实际上是官商之争,并不能说明南北文化的融合,故D项错误。
8. B　材料从20世纪初节日变化说明近代中国发生社会转型、国家政治体制出现更替、国人民族民主意识觉醒,但近代民权平等主张并没得以实现,排除④,B项符合题意。
9. D　“民国成立第一天”即1912年,“新国成立,百度维新”“夫妇二人张新国旗,穿新冠服,新头新脑,在室中行新婚”可知部分民众遵守新政权在国旗、习俗等方面的规则,客观上反映出对该政权的认可,D项正确;A项与“夫妇二人张新国旗,穿新冠服,新头新脑,在室中行新婚”不符合;题目反映的是辛亥革命后对社会生活的不断冲击和影响,B项中“已完成了近代化”表述绝对;题目中没有涉及民主共和观念,排除C项。
10. C　题中歌谣劝卖脚带者弃行的原因是裹足对女性是一种凌虐,而不是脚带无销售市场,A项错误,排除;“普遍解放”说法以偏概全,B项错误,排除;材料信息“四乡八镇销场远”折射出女子裹足现象非常普遍,C项正确;歌谣的唱词可以反映一定的社会舆论方向,但并不一定说明已达成社会共识,D项错误,排除。
11. A　“西餐刀叉”代表了西方文明;大规模祝寿是中国传统文化的体现。“寿宴上最忌讳使用西餐刀叉,影响着寿宴喜庆的氛围”反映了东西方文明的冲突,A项正确。
12. C　社会风俗的变化归根到底是受经济发展水平影响的,中国各地经济发展水平的不平衡导致了社会风俗变化的不平衡性,C项正确。
13. (1)信息:出现了西式和中西风格融合的建筑;外来宗教得到传播;大量使用和仿制西方日常生活用品;西式服装成为当时的时尚;店铺林立,商业繁荣;重视广告宣传,出现了报刊、杂志。
(2)内容:材料一中体现“重商”的内容是:“两边商铺雕梁画栋,旗幡飘扬”和“商店类似南欧城市的‘骑楼’风格。”材料二中体现“开放与兼容”的内容是“清式和西式的阁楼、宝塔、博物馆、清真寺、大厦、仓库、商铺等等,这些建筑物看上去并没有分成街道,而是毫不间断地紧紧挨在一起。远处可见英国领事馆的小教堂,上面有钟楼和高高的十字架。”材料三中体现“创新与开拓”的内容是“广州大量地仿制欧洲洋伞并运往其他口岸和内地销售”。
(3)原因:自古就是海上丝绸之路起点,使其具有开放兼容的文化特征;清代闭关锁国后,广州是唯一对外贸易港口,深受外来文化的影响;鸦片战争后,是第一批开放的口岸,最早受到西方冲击;近代生产方式产生较早,带动了社会生活方式的变化;毗邻港澳,易受西方风尚的影响。(该问答案涉及政治、经济、文化、地理等多个方面)
(4)方法:查阅文献资料;网上搜索;求教专家学者;观看音像资料;调查访问等。
14. (1)创办者:中国知识分子。内容:宣传西方先进科学技术和文化。原因:中国近代资本主义经济的产生与发展,为报刊业提供了物质条件;西方先进科技、文化的传播在客观上的促进作用;外国人在华办报潮流的推动。
(2)核心内容:救亡图存,变法图强。特点:报刊以中国人自办为主;办报数量多;地区广;社会影响大。
(3)意义:宣扬资产阶级新文化,推动了维新变法运动的进程;使中国的印刷出版及整个文化事业迅猛发展。

第13课　交通与通讯的变化

课前预习·抓双基

自主预习

一、1. 1881
2. (1)甲午战争　(3)詹天佑
3. 国有

二、1. (1)轮船招商局
2. (1)1918　(2)北京

三、1. (1)鸦片战争　大清邮政局　海关
(2)台湾
2. (1)思想观念

正误判断

1. ×　2. √　3. √　4. ×　5. √

课堂达标·点对点

对点训练

1. A　铁路成为中国近代交通运输建设的重点,有其自身的原因,如①;也有西方先进生产技术传入的影响,如题中②③。铁路建设在近代中国的发展并非一帆风顺,一开始清政府并不支持铁路建设,故④错误。
2. A　从材料信息可知,在19世纪的时候,蚌埠还是一个小镇,但在铁路开通后,很快成为交通枢纽,推动了当地商业的发展,A项正确。
3. D　根据材料信息“轮随铁路与周旋,飞往吴淞客亦仙”可以得出近代交通工具的快捷,“他省不知机器巧,艳传陆地可行船”可以得出上海人对引进这种新式交通工具的自豪感,进而得出新旧交替时期的认知。19世纪70年代,近代铁路业在中国刚刚起步,算不上发达,故选D。
4. A　“火轮船自入中国以来”说明中国已有了新式交通工具,A项正确;“天下商民称便”说明主要用于民用,B项错误;“以是知火轮船为中国必不能废之物”说明商民认可轮船运输,C、D两项错误。
5. C　1910年福州到厦门还没有火车和飞机,排除A、B两项;轮船要比自行车更方便实惠,C项正确,D项错误。
6. D　①与题意不符,不正确。“行行复行行”反映了新式交通工具对民众出行的改变,故②符合题意。③夸大了交通工具的作用,不正确。“马拉火车”到磁悬浮列车的运行,反映了交通事业现代化的进程以及人类社会的进步历程,故④正确。因此,本题答案为D项。
7. A　四题肢都符合中国近代航空业的发展史实。
8. D　题干中材料提供的关键信息是“举头铁索路行空”“音书万里一时通”,这是对有线电报的形象描述。
9. D　从材料中“入手而能用,著耳而得声”可以判断应为电话。

综合训练

10. (1)特点:帝国主义列强在华修筑的铁路长度远远超过中国人自建的铁路。后果:帝国主义国家利用修筑铁路,便于从军事上镇压中国人民的反抗,从经济上掠夺中国。
(2)影响:活跃了闭塞地区的经济;推动了商业城镇的发展;带动了与铁路有关的行业的发展;有利于知识、信息的流通传播;但冲击了传统的交通运输业及其从业人员的生活。
(3)看法:修建铁路是近代世界经济发展的必然要求,铁路的修建有利于中国经济的近代化;清政府修建铁路值得肯定;但在半殖民地半封建的中国,帝国主义控制了中国的铁路修筑权,加大了对中国的掠夺,加深了中国半殖民地化的程度。

关注微信公众号“教辅资料站”获取更多学习资料

课后提能·再巩固

1. C　材料中没有比较，因此不能证明近代交通工具首现中国，A 项错误；B 项错在了“彻底”；“人们纷纷涌来，争相乘坐”说明铁路火车已经影响了人们生活，C 项正确；材料只是反映了铁路运输业的发展，没有反映出旅游业，D 项错误。
2. A　“别肠转如轮，一刻既万州……送者未及返，君在天尽头”描述的是火车运输的快速，这反映了新式交通工具的传入改变了人们的生活方式，A 项正确。
3. A　“男女杂处，不以为嫌”反映了男尊女卑观念受到冲击，这是社会的进步，A 项正确；B 项反映的是列强对中国的压制，不能反映平等观念，排除；C 项反映出对近代交通的仇视，排除；D 项中的马车供游玩而设也不能反映出社会的进步，排除。
4. A　“乘客不分男女座，可怜坐下挤非常”是对传统“男女有别”伦理观念的冲击，A 项正确。
5. B　从刘锡鸿等人反对修建铁路的理由是惊扰山神，大借外债可知这反映迷信思想和资金短缺对近代铁路事业的阻碍。
6. B　两者分别反映了中国近代水运和铁路运输的发展，其共同的时代意义是推动了中国交通事业的近代化进程。
7. C　从材料判断，上海市民由排斥电车到接受电车，车身广告发挥了重要作用，C 项符合题意。
8. D　20 世纪 20 年代初的上海交通工具混杂，反映了新旧交通工具的共存和不同层次人群对交通工具的使用和需求。
9. D　由题干信息“电线疾雷霆。万里语言同面晤，重洋信息霎时听”可知，该事物具有语言通讯功能，A、B、C 三项都没有此功能。
10. B　中国首次参加万国邮联大会是在 1920 年，清政府设立邮传部是在 1896 年，“大清邮政局”成立于 1896 年但要早于设立邮传部，外国在华“客邮”一律撤销是在 20 世纪 20 年代。
11. A　本题主要考查学生阅读史料，提取有效信息的能力。由材料“实因轮船畅行，民间衣食之途，尽为攘夺，江河船只顿减十之六七，失业之人不可胜计。而襄樊一带行店关闭，车户歇业，瘠苦情状，尤不堪寓目。”可见材料是突出社会的转型发展往往伴随着部分群体的苦痛。故选 A 项。
12. A　注意关键词“上海”“属西国”“台湾”“力筹防御”“无西人襄助”，结合信息判断选项。
13. (1)建议：架设有线电报、兴办火车铁路。理由：军情瞬息万变，电报可以一刻千里，迅速传达军令情报；火车可以一日数千里，快速运兵增援，不误军情。
(2)主张：把铁路收归国有。理由：符合三民主义中的民生主义；发展铁路是世界大势，关系国家命运；中国幅员辽阔，铁路收归国有，可以统一筹划，有计划地发展。
(3)趋势：在向西方学习以救亡图存的过程中走上近代化的道路。
14. (1)理由：国土面积太大，中央政府难以有效治理；交通落后，国内各地区之间联系十分困难；主要靠儒家思想（伦常制度）维护统治。措施：修驰道（加强全国道路交通网建设）；建立和健全驿传制度；建立中央集权制度（皇帝制度）；强化思想控制（或：统一思想以巩固国家统一）。
(2)时间：1877 年（或 19 世纪 70 年代）。地点：台湾。特点：速度更快，效率更高；距离远，范围广。
(3)作用：有利于加强国内各地区之间的政治、经济和文化联系；有利于中央政府加强对地方的有效管辖和治理；有利于巩固国家统一；大大提高了全国人民的民族意识（或：现代国家共同体的意识）；推动了全国性反帝爱国运动的发展；为民族民主革命的发展提供了物质条件（或：技术基础）。

第三单元　各国经济体制的创新和调整

第 14 课　社会主义经济体制的建立

课前预习·抓双基

自主预习

一、1. (2)国内战争
2. (2)社会主义
3. (1)余粮征集制　(2)国有化　(4)强制
4. (1)军事

二、1. 战时共产主义
2. 政治危机
3. 1921
4. (1)粮食税　(2)私人小企业　(3)自由贸易

三、1. 工业化　农业集体化
2. (1)公有制　高度集中　指令性行政
3. (1)工业体系　(2)轻工业　地方

正误判断

1. ×　2. √　3. √　4. ×　5. √

课堂达标·点对点

对点训练

1. A　从材料中的“疯狂的抢劫”“把我们家的粮食全搞走啦”等信息可知，这是实行余粮征集制。故选 A 项。
2. A　从材料中的“列宁参加义务劳动”可知这是实施战时共产主义政策。其目的是集中全国的人力、物力来满足国内战争的需要，打败国内外反动势力，巩固新生的苏维埃政权，A 项正确。B、C、D 三项均是新经济政策的作用，排除。
3. A　战时共产主义政策确保了集中全国的人力、物力来打赢国内战争，但损害了农民的利益，引起经济危机和政治危机，威胁到了苏维埃政权的巩固，这是“水能载舟，亦能覆舟”的体现，A 项正确。
4. B　从题中材料“用资本家拣来打我们的砖头建设共产主义”等信息可知，列宁主张一定程度上恢复发展资本主义，这与新经济政策的措施相符，故 B 项正确；A、C、D 三项与题意不符合，故排除。
5. B　“允许农民和小商人自由买卖，只有国民经济的主要控制力如银行、工厂、对外贸易和交通保持在国家手里”表明这些政策的实施充分利用商品价值规律以恢复发展经济，故 B 项正确；A、C、D 三项材料未体现，排除。
6. A　“学会做生意”指的是利用商品、货币关系来恢复和发展生产，承认市场和价值规律，A 项正确。
7. B　从材料中的“每一双皮鞋或每一件内衣都要由中央调配”可知，这是完全的计划经济，完全排斥市场调节，是一种高度集中的指令性的计划管理，A 项错误，B 项正确；C、D 两项在材料中没有体现。
8. B　斯大林模式的经济特点就是高度集中的计划经济，故 A 项表述错误；计划经济体制并不是所有落后国家的最佳途径，二战后社会主义国家经济发展的史实就已经证明了这一点，故 C 项错误；计划经济在苏联迅速实现工业化方面曾经发挥过重要作用，使苏联在短时间内建成了比较完整的工业体系，据此判断 D 项错误。故正确答案应为 B 项。
9. D　苏联实行优先发展重工业的政策，由农业和轻工业为重工业的发展提供资金。因此当时苏联进行“暴风骤雨般的农业集体化”是为了促进国家的工业化建设，故答案为 D 项；当时苏联没有处于战争状态，排除 A 项；这种政策导致国民经济比例严重失调，排除 B 项；这种片面发展重工业的政策导致农业长期处于落后状态，排除 C 项。

综合训练

10. (1)进步之处：①实行固定粮食税有利于保证生产经营活动，提高生产效率。②纳税后剩余粮食归农民支配，提高了农民的生产积极性。③降低税额减轻了农民负担。
(2)没有改变社会主义的性质。原因：因为国家掌握经济命脉，其目的是通过在一定限度内恢复资本主义，发展商品生产，恢复农业，恢复整个国民经济，在生产发展的基础上使社会主义成分战胜资本主义成分，建立社会主义的经济基础。
(3)如何：放弃直接向社会主义过渡的战时共产主义政策，实行新经济政策，利用市场和商品货币关系恢复和发展经济。含义：恢复经济，巩固政权；向社会主义过渡等。

课后提能·再巩固

1. A　从材料中的“只不过是仓皇应付非常态的各种措施”可知，这是针对战时的特殊情况而制定的临时政策，这反映出战时共产主义政策的仓促性，A 项正确。
2. A　由材料中的“红军”“分了土地”“却又把每一粒粮食收走了”等信息可知，这是十月革命后苏维埃政权面对国内外反动势力的进攻，实行余粮收集制，导致农民的不满，①②正确；③是斯大林时期的政策，不符合材料中的时间要求；战时共产主义政策不是向社会主义过渡的正确途径，④错误。故选 A 项。
3. D　战时共产主义政策时期实行食物配给制和义务劳动，而不是按劳分配，D 项符合题意。
4. D　从 1918 年到 1921 年苏俄实行战时共产主义政策，对农民实行余粮收集制，严重挫伤了农民的生产积极性，导致粮食播种面积减少，D 项正确。
5. B　从材料中的“20 世纪初期”“苏俄”和“能雇佣劳力，并能保留他们的经营利润的农民和新商人”等信息可知这是实施新经济政策，恢复私人小企业的结果。故选 B 项。

关注微信公众号“教辅资料站”获取更多学习资料

6. C　从材料中的“民主的”“多元市场的”“社会取向”的资本主义等信息可知，指的是列宁所推行的国家资本主义，即利用市场和商品货币关系，建立各种经济形式，并将其纳入社会主义经济范畴上来的新经济政策。故选C项。

7. D　“若无十九世纪资产阶级社会的解体在先，势无十月革命以及苏联的成立在后。”说明了资本主义的弱点和缺陷造就了十月革命。“发生于二十世纪三十年代的大萧条，使人们认为苏联的经济制度成为一条全球性的可行之路。”说明了资本主义的固有缺陷给了社会主义发展的机会。故选D项。

8. C　根据题目中“1922年”可知苏俄处于新经济政策时期，苏俄政府积极参加国际议会，营造良好的国际环境，目的是为国内新经济政策的实施创造条件，C项正确；A项是在1920年，排除；B项是1918年签订《布列斯特和约》退出帝国主义战争，排除；题目中内容并不是在探索社会主义模式，排除D项。

9. A　联系所学，苏联从1925年开始工业化建设，采用的五年计划的形式和优先发展重工业的战略，题干中政府向“民营企业”进攻，就是通过压缩私人企业而将燃料、金属、军事等转向工业投资，即废除私有制，实施五年计划和工业化生产的需要，A项正确；新经济政策的实施恢复发展了经济、巩固了政权，找到了一条向社会主义过渡的正确途径，题干内容不是新经济政策的必然结果，排除B项；C项中“反动势力”在题目中无法体现，排除；世界经济危机是1929年～1933年，苏联不受经济危机的影响，排除D项。

10. B　1928年，苏联开始了第一个五年计划。其工业化的特点是牺牲农业发展工业，向农民索取的太多。结合材料信息“我们不得不暂时征收这种税”可知，这属于斯大林的辩解，B项正确；A、D两项与材料和史实无关，排除；C项表述的是这种税收政策产生的影响，排除。

11. A　苏联从1928年开始施行工业化，材料中“苏联高等技术学校（工学院）的数量从32所增至1929～1930学年度的96所”显然是发展工业化经济需要进行的调整，A项正确；此时苏联没有施行经济体制的调整，B项错误；C、D两项不符合此时现状，排除。

12. B　从时间上看属于第二个五年计划期间，从做法上看是政府对乌克兰地区强行征粮。结合所学知识可知，此时的这种做法是执行牺牲农业、农民利益来满足工业化的建设，所以B项正确。

13. (1)形势：国内：严重的经济危机；国外：资本主义国家的封锁包围。原因：国内战争和外国武装力量的干涉。（答世界大战也可）
(2)理解：放弃直接过渡到社会主义的设想和实践，开始利用市场和商品货币关系指导生产，逐步向社会主义过渡。
(3)意义：对内：实施新经济政策，使国民经济得到恢复和发展，苏维埃政权得到巩固。对外：积极改善与德国的关系，打破了西方国家孤立苏联的政策，提高了苏联的国际地位。
(4)依据：实事求是；依据国情和形势采取灵活的政策。

14. (1)途径：先轻工业后重工业。原因：发展轻工业投资少，周期短，见效快，可以为重工业积累资金。
(2)不同：优先发展重工业。原因：苏联重工业基础较弱，资金缺乏，受到帝国主义封锁、敌视，只有优先发展重工业，才能巩固边防和捍卫社会主义制度。
(3)问题：片面发展重工业，忽视农业；农民生活水平提高缓慢；挫伤了农民生产积极性。
(4)教训：农业、轻工业、重工业比例平衡，经济才能协调发展；工业化建设要关注农业建设，提高农民的生活水平。

第15课　大萧条与罗斯福新政

课前预习·抓双基

自主预习

一、1. (1)供给　需求　(2)自由放任　(3)股票投机
2. 纽约
二、2. 关税　货币
3. (2)资本主义
三、1. (1)财政金融　(2)全国工业复兴法　最低工资　(3)市场价格　(4)以工代赈
3. (1)国家
四、1. 自由放任
2. 干预经济

正误判断

1. ×　2. ×　3. √　4. √　5. ×

课堂达标·点对点

对点训练

1. B　结合所学知识可知，20世纪20年代美国总体上属于柯立芝繁荣时期，生产超出了人们的实际消费水平，衍生出分期付款，刺激消费，使得人们传统的观念改变，大肆超前消费，这又大大刺激了生产的发展，供需矛盾日益激化，蕴含着危机，1929年的危机说明了一切，因此B项正确；C、D两项都只介绍了材料的一个分支，且是表象，排除；政策调整一般是出现问题之后，而当时经济繁荣，政府不会调整，A项错误。

2. A　1929年的经济危机首先从股市崩盘开始，这属于金融领域，A项正确。

3. A　1929～1933年的经济危机具有持续时间长、破坏性大、波及范围广的特点，危机加剧了资本主义各国之间的矛盾，世界形势日趋紧张。危机只是对资本主义国家构成较大危害，而对苏联没有什么影响，④错误，排除含④的选项即可。故选A项。

4. B　经济民族主义类似于重商主义，指通过政府政策的形式对进口商品建立贸易壁垒，并施加各种各样的保护主义政策以保护其国内产业。根据题干提供的信息和所学史实“严格的进口限额和双边贸易”可知，应该是有利于发展外贸，A项、C项和D项是针对国内调整生产关系和民生，只有B项是对外贸易，所以此题应该选择B项。

5. D　罗斯福新政是在坚持自由资本主义制度的前提下对资本主义生产关系的调整，不可能彻底克服经济危机，A、B两项错误；从材料中的“被空前地扩大了，以致面目一新，无从辨认”可知，作者认为罗斯福新政是对胡佛政府政策的大胆突破，故C项错误，D项正确。

6. D　“由政府本身直接募工”指的是兴修公共工程以工代赈，这是罗斯福新政在社会福利方面的措施，D项正确。

7. C　结合所学知识可知，为了稳定农产品市场价格，而采取了削减产量的做法，因此C项正确；A、B两项不是其主要目的；D项是手段特点。

8. D　从材料中的“子女就将不再赡养父母，工人也会辞工不干”以及“从共产党的著作中抄来的”等内容可知，这是罗斯福新政中保障工人利益的社会保障措施，D项正确。

9. B　20世纪30年代的美国的体制创新指的是罗斯福新政开创了国家对经济干预的新模式，B项正确。

综合训练

10. (1)内容：加强对工业的计划指导。目的：防止盲目竞争导致生产相对过剩。
(2)措施：成立农业调整署，调整农业政策，调控市场，为减耕减产的农民提供补贴，提高并稳定农产品价格。
(3)作用：增加就业；刺激消费；稳定社会；改善基础设施。
(4)特点：全面加强政府对经济的干预；避免国有化形式而力图保持资本主义自由企业制度；采取了一些有利于工人和小生产者的措施，缓和国内阶级矛盾。

课后提能·再巩固

1. C　由材料信息“少数人暴富而多数人贫穷，民主制度国家的自由就不会是安全的”可知，罗斯福新政是为了维护民主制度国家的自由，即维护资本主义政治制度，C项正确；完善社会福利制度是手段，不是目的，故A项错误；防止贫富差距过大也是为了维护资本主义制度，B项从属于C项，故B项错误；推行以工代赈，增加就业也是手段，不是目的，故D项错误。

2. C　材料反映了美国总统柯立芝反对政府对经济的干预，主张自由放任，维护资产阶级利益，这使贫富差距进一步拉大，为经济危机的爆发埋下伏笔，A、B、D三项正确，不符合题意；材料并不能体现出对民主制度的破坏，C项错误，符合题意。

3. C　从材料中胡佛面对危机，召集美国的产业领袖开会，并以总统的名义宣布工人“工资水平不应该下调、不应该减少、更不应该解雇工人”可知，胡佛政府对经济进行了干预，C项正确。

4. C　材料信息表明1929～1931年，美国部分行业工人工资大幅下降，这反映了美国经济危机不断加深，C项正确；美国制定最低工资标准是在罗斯福新政期间，与材料中的时间不符，A项错误；B项在材料中没有体现，排除；美国工人工资的支付方式以私人资本家支付为主，与政府的财政支出关系不大，D项错误。

5. D　从材料中的“你挑一个办法试试看嘛。失败了，就另换一个”表明罗斯福新政是在摸索中进行的，D项正确。

6. B　注意时间：1930年是经济大危机时期，美国通过增加进口货物的税率，实行贸易保护主义，转嫁危机。故选B项。

7. D　结合所学知识，20世纪30年代美元贬值的大背景是经济危机，但题干问题中的限制条件是“直接因素”，经济危机是从金融业开始，为了解决经济危机，罗斯福新政实施，加强对经济干预，整顿金融业，D项与题意相符。

关注微信公众号“教辅资料站”获取更多学习资料

8. C　结合所学知识可知，胡佛政府应对危机的政策为放任自由，反对政府对经济的干预，罗斯福新政则强调国家对经济的全面干预，因此必然遭到胡佛的反对，所以选 C 项。

9. B　“伤筋动骨”的“大手术”说明是对资本主义生产关系的调整，即罗斯福新政加强国家对经济的干预，故 B 项正确；A、D 两项属于新政的具体表现，C 项属于自由放任政策，排除 A、C、D 三项。所以选 B 项。

10. D　从材料中的“‘新政’并没有使美国走出‘大萧条’”“美国真正的救星是二战”等信息可知，“新政的作用是有限的”，二战对美国经济的恢复起着重要作用，①③正确；二战虽然使美国走出了危机，但不可能完全消除危机，②错误；二战刺激了生产，造成劳动力不足，但美国人口并未锐减，④错误。D 项符合题意。

11. D　“私营企业经济不应消灭，应当保留”指的是保持资本主义，A 项正确，不符合题意；“这种经济的运营”指的是资本主义市场经济机制，但要对其“加以改进和补充”指的是国家对经济的干预，B、C 两项正确，不符合题意；罗斯福新政之前福利制度并不完备，“福利国家”是在二战后建立起来的，D 项错误，符合题意。

12. A　本题主要考查学生对材料的分析理解能力。凯恩斯主义认为应当运用国家权力扩大需求，主张国家干预经济，但这种理论绝不是计划经济体制，其主要目的仍是发展资本主义经济，故不会完全排斥经济自由。因此，A 项符合题意。

13. (1)特点：对经济进行有限的国家干预。
原因：1929 年经济大危机需要国家干预经济；胡佛相信地方政府、企业和民众可以自救，同时他认为过度的国家干预会破坏美国的立国原则和民主制度。
(2)原因：《农业调整法》提出成立农业调整署调控市场，规定农民减耕减产并给予补贴。这反映政府用行政手段调节农业生产，带有典型的计划特色，而计划经济在当时被认为是社会主义的经济特征。根本出发点：维护美国的立国原则和民主制度。
解析：(1)特点：题目要求“根据材料一概括”。由材料一中的“他相信面对灾难，联邦政府要有所作为，但联邦政府的作为应该是有限的”和“政府应该是最后一个介入者，也应该是最谨慎的介入者”等信息可以得出，其特点是对经济进行有限的国家干预。
原因：由材料一中的“他相信面对灾难，联邦政府要有所作为”“地方政府、企业和民众都是可以自救的”“他坚定地认为任何政府的大规模干预行为都与美国制度的传统相抵触”“将侵蚀美国的立国原则”等信息可以得出，其原因有：1929 年经济大危机需要国家干预经济；胡佛相信地方政府、企业和民众可以自救；同时他认为过度的国家干预会破坏美国的立国原则和民主制度。
(2)原因：题目要求“结合《农业调整法》内容”分析，根据所学《农业调整法》中的内容，即提出成立农业调整署调控市场，规定农民减耕减产并给予补贴，可以知道政府是在用行政手段调节农业生产，这明显的带有典型的计划特色，而计划经济在当时被认为是社会主义的经济特征，所以该法案在国会引起争议。
出发点：由材料一中的“认为过度的国家干预会破坏美国的立国原则和民主制度”和材料二中的“是一种争取民主政治生存的战争”可以得出，其共同的出发点是维护美国的立国原则和民主制度。

14. (1)现象：经济危机破坏性强；美国和德国受害最严重等。
(2)变化：由升到降(或 1929～1933 年失业率逐渐上升，1933～1937 年失业率逐渐降低)。
原因：胡佛采用自由放任的经济政策。罗斯福采用调整恢复工农业生产、以工代赈、保护劳工经济利益等政策，大力干预国家经济。
(3)特点：政府干预经济。手段：法律手段、经济手段、行政手段。

第 16 课　战后资本主义经济的调整

课前预习·抓双基

自主预习

一、1. (2)凯恩斯主义
2. (1)国营企业　(2)经济计划　(3)政府开支　税收
4. (1)盲目性　(2)国有企业

二、1. (1)股份公司　(2)分散化　(3)社会化
2. (1)科技含量　(2)管理人员　(3)新中间阶层

三、1. 社会福利　英国
2. (1)社会权利　(2)低收入　(3)福利国家
3. (1)分配领域　(3)财政赤字

四、1. 滞胀
2. 减少

正误判断

1. √　2. ×　3. ×　4. √　5. √

课堂达标·点对点

对点训练

1. C　本题考查当代资本主义的发展。当今美国社会经济、政治发展程度远远超过其他国家，是唯一的超级大国，由于经济发展，面临着众多新变化、新问题，引领着当代资本主义的新变化。故选 C 项。

2. A　从材料中政府加大财政支出和“鼓励资本家按照政府的计划进行投资”等信息可知，政府加强了对国民经济的宏观调控。故选 A 项。

3. B　从表格数据看，A 项显然错误；C 项材料未涉及；D 项知识经济兴起于 90 年代，且会促进经济发展；因此只有 B 项符合新变化的原因。

4. A　B 项为无关项，材料叙述的内容是二战后资本分散化的现象，所以与“经营者革命”的内容无关，排除；“人民资本主义”并没有使资本家丧失企业的决定权，企业的决定权仍然掌握在少数的大股东手中，所以 C 项错误；D 项在题中没有体现，是无关项，排除。综上，本题选 A 项。

5. B　员工持有公司的股份说明了企业已与工人的切身利益密切联系在了一起，这反映了“公众公司”的出现，使所有权发生了某种转变，故选 B 项。

6. D　据材料“从事体力劳动的工人人数正在日益减少”和“非生产性知识型人员的队伍却在不断地扩大”等信息可知，产业结构已发生了革命性变化，故 D 项正确。

7. C　材料表明，二战后资本主义国家加大了对社会保险的支出，这是福利制度完善的体现，这说明资本主义国家建立起了“福利国家”。故选 C 项。

8. D　从材料中“希腊等欧盟国家发生了严重的债务危机……采取缩减社会福利的措施，减少赤字”可知，西方原有的福利政策造成国家财政紧张，赤字严重，D 项正确；福利制度有利于缓和矛盾，A 项错误；福利制度中获益的是下层低收入者，B 项错误；福利制度的建立主要得益于政府政策的支持，C 项错误。

9. C　面对资本主义世界 20 世纪 70 年代的滞胀，凯恩斯主义失灵，凯恩斯主义逐渐被质疑和放弃，C 项正确。

综合训练

10. (1)趋势：1938～1973 年呈逐年上升趋势，1973～1999 年略有下降。原因：1938～1973 年的逐年上升趋势，与战后英国政府对经济干预有关，扩大政府开支是国家干预经济的重要手段。1973～1999 年的下降是因为 1973 年后英国等发达国家出现经济“滞胀”现象，开始调整政策，减少国家对经济的干预，政府开支也有所削减。
(2)构成：政府补贴。性质：福利制度是国家进行国民收入再分配的一种形式。
(3)特点：国家对经济的干预。

课后提能·再巩固

1. D　本题考查罗斯福新政的影响。罗斯福新政特点在于国家加强对经济的干预，同时通过保障就业、以工代赈等福利措施来缓和阶级矛盾，可知选择 D 项。②第三产业蓬勃发展是第三次科技革命后的必然产物，与罗斯福新政并无关系；③“新经济”出现则是克林顿时期的经济发展战略，与罗斯福新政无关。

2. C　“国家垄断资本主义”指的是国家放弃自由放任的经济政策，加强国家对经济的干预和指导。故选 C 项。

3. B　材料一方面说明政府的大财政在 1929 年以后“变成常态了”，说明凯恩斯主义曾经起到了刺激经济增长的作用；另一方面明确指出现在正在流行的凯恩斯主义“已摧毁了很多国家潜在增长的能力”，因此“是个不幸的事情”，即凯恩斯主义的失灵，说明凯恩斯主义并不是所有时候都能起到刺激经济的作用，具有时效性。

4. C　解题关键是把握材料中的关键信息“仅终止”。也就是大多数行业继续维持着原有的国有化程度，说明继续运用了凯恩斯主义，所以 C 项正确；“在国民保健方面减少一些政府开支”表明 B 项错误；A 项表述与材料角度无关，排除；D 项未能把握材料主旨，排除。

5. B　从材料中经理控制的工业公司所占比重可以看出，企业更多的是专业的管理人员和技术人员进行管理，这是“经营者革命”的体现。故选 B 项。

关注微信公众号“教辅资料站”获取更多学习资料

6. C　从材料中的“它是由无数个受过专业训练的管理人才在经营”可知，这反映了经营者革命，而“它是藏富于民的一种手段”则体现了股份的分散化，这是人民资本主义的体现，①②正确；③④与材料无关。

7. A　本题以20世纪七八十年代法国经济发展为切入点，考查西方国家经济政策的调整，依据材料信息可知，当时法国经济陷入滞胀，但密特朗仍推行国家干预经济的措施，这只会加剧经济的恶化，故A项正确。

8. D　A项说法错误，错在“根除”二字；B项说法错误，资本主义国家出现“滞胀”现象的根本原因是资本主义基本矛盾决定的；C项说法错误，资本主义的基本矛盾伴随资本主义始终，无法解决；D项说法正确，符合题意。

9. D　撒切尔夫人执政期间，在经济上推行“自由市场”政策，大力推行私有化和非国有化的战略，减少国家对经济的干预，改革社会福利制度，建立一个更有竞争力的自由的社会，以增强英国经济复苏和发展的活力，故答案为D项；撒切尔夫人的执政减少了国家对经济的干预，并非完全放弃，排除A项；撒切尔夫人的改革适当减少了社会福利，B项不是主要目的，排除；C项材料不能反映，排除。

10. A　芬兰是一个社会福利程度很高的福利国家。而材料表明芬兰也是一个高税收的国家，芬兰的社会福利是建立在高税收基础之上的。

11. B　从里根总统进行的社会保障制度的改革内容中鼓励“私营保险业”和参加个人退休储蓄账户可知，里根政府迫于公共福利制度的完善导致财政紧张，因此进行社会保障制度的改革，B项正确。

12. A　凯恩斯主义主张国家干预经济，即国家垄断资本主义。20世纪70年代资本主义世界经济的“滞胀”说明凯恩斯主义失灵，这从侧面反映了国家垄断资本主义政策并非万能，A项正确；B、C两项说法错误；凯恩斯主义失灵后资本主义国家普遍减少了国家对经济的干预，D项错误。

13. (1)特征：自由资本主义或“自由放任”(自由经营、自由竞争、自由贸易)。
(2)核心理论：主张国家干预经济。标志：美国罗斯福新政。主要原因：自由放任发展模式的弊端；严重的社会失控；贫富差距扩大；结构性矛盾；经济危机爆发；失业严重。
(3)调整：国家干预与市场调节相结合；适度减少国家垄断资本主义(或发展国有制与私有制相结合的“混合经济”)。主要原因：芝加哥学派的主张逐渐被英美等国采用；社会福利的完善使个人独创精神减弱，财富创造意识削弱。
(4)体会：必须从实际出发；随着经济发展的变化适时调整国家政策。

14. (1)特点：以立法的形式建立；由政府主导；实行以工代赈；关注弱势群体；致力缩小贫富差距(社会公平)等。
意义：1929～1933年，美国爆发严重经济危机。社会保障制度的建立，有利于解决失业问题，缓和社会矛盾，稳定社会秩序；有利于经济的恢复和发展。
(2)20世纪70年代，资本主义经济出现“滞胀”现象，需要削减社会福利开支，以走出困境；福利制度本身存在弊端，过度的福利也降低了劳动者的积极性；过高的福利开支加重了政府的财政负担，是导致债务危机的主要原因。
(3)民众和政治团体必须放弃眼前的政治、经济利益，着眼于长远利益；必须对福利制度进行改革；必须建立与经济发展水平相适应的社会福利制度。

第17课　苏联的经济改革

课前预习·抓双基

自主预习

一、1. (1)斯大林体制
2. (1)收购制　开垦荒地　(2)管理权　物质利益原则
4. (2)全面　盲目性

二、2. (1)价值规律　经营自主权　(2)农场和农庄

三、2. 公有制
3. (1)加速发展战略　(3)政治

正误判断

1. √　2. ×　3. √　4. ×　5. √

课堂达标·点对点

对点训练

1. D　赫鲁晓夫改革在理论上并未突破斯大林模式，只是在维持原有体制的基础上的局部改革。“赶上和超过美国”的目标严重脱离了苏联的实际，这是缺乏实事求是作风，急于冒进的体现，A、B、C三项正确；赫鲁晓夫改革并未背离社会主义方向，D项错误，符合题意。

2. C　A项是新经济政策时期的口号；B项是斯大林推行农业集体化的反映；C项反映了赫鲁晓夫鼓励垦荒的史实；D项是戈尔巴乔夫改革的内容。

3. C　题干是说赫鲁晓夫对斯大林的批判为苏联党内变故和社会主义阵营动乱等带来了严重消极影响，据此可以得出，C项符合题意；A、B、D三项说法均不符合史实，故排除。

4. D　1953～1964年赫鲁晓夫改革，提高农产品的收购价格，D项正确；赫鲁晓夫扩大了集体农庄的权力，A项错误；实行“加速发展战略”的是戈尔巴乔夫，B项错误；20世纪五六十年代，美苏冷战，苏联农产品价格与世界农产品价格波动关系不大，C项错误。

5. B　勃列日涅夫改革是继赫鲁晓夫改革之后，苏联的又一次改革，改革内容涉及农业、工业等领域，前期取得了较大成就，后期走向失败，其原因在于没有摆脱斯大林模式的束缚。

6. B　材料表明勃列日涅夫时期，苏联的建设重点放在了军事工业方面，这导致了国民经济比例严重失调。

7. B　勃列日涅夫的改革，只是对苏联原有经济体制的某种修补，没有实质性的突破，再加上与美国进行军备竞赛，苏联经济负担不断加重，改革最终失败，B项正确。

8. D　“摆弄卷心菜”以及“剥烂叶子”是指改革，但是结果“剥光”，也就是什么也没有了。所以是苏联解体了。故选D项。

9. A　戈尔巴乔夫改革试图用经济管理的方式代替行政命令，A项正确；B、C、D三项都不是戈尔巴乔夫改革的内容，排除。

综合训练

10. (1)相同点：目的：都是为了解决斯大林体制的弊端。结果：都取得一些成果，但最终失败。失败的主要原因：都没有从根本上破除高度集中的斯大林体制。不同点：前者的重点在农业领域，后者重点在工业领域。
(2)问题：经济发展极为缓慢，人民生活水平低。根本原因：苏联斯大林体制(或高度集中的政治经济体制)。改革：戈尔巴乔夫的经济改革。结果：失败，导致苏联解体。

课后提能·再巩固

1. D　从材料中的“这里是工人的乐园，是世界上工人们混日子的最好地方”可知，苏联工人的生产积极性不高，①错误，排除含①的选项即可，D项正确。

2. C　在斯大林模式下，国家压低农产品的收购价格，国家从农民身上索取太多，C项符合题意；根据斯大林时期经济体制的特点可知A、B、D三项符合其调查结果。故选C项。

3. C　“把被撤的全联盟部所管辖的企业移交给相应的经济行政区”表明适度扩大地方经济自主权，C项正确；材料反映的是企业管理权由中央向地方的转移，但仍然是计划管理，没有突破斯大林模式，也就不会削弱公有制经济的主导地位，故A、B、D三项错误。

4. D　1953～1964年正值赫鲁晓夫改革时期，其在一定程度上冲击了斯大林模式，调动了农民和企业的生产积极性，故取得一定成效，D项正确；A项与材料中的现象关系不大；B、C两项不符合史实。

5. A　本题主要考查赫鲁晓夫改革。依据所学可知，“一只脚跨进了新时代”表明赫鲁晓夫推进改革，在一定程度上冲击了斯大林模式；“深陷在旧时代的泥淖”指改革没有打破斯大林模式的桎梏。分析选项，A项符合题意；B项错误，赫鲁晓夫也陷入个人崇拜泥淖；C项为勃列日涅夫改革的举措；D项为戈尔巴乔夫改革的内容。

6. C　勃列日涅夫的改革下放了企业权力，意在调动企业的生产积极性，来发展经济。故选C项。

7. B　苏联20世纪60年代到70年代的改革没有突破斯大林模式，A项错误；苏联赫鲁晓夫改革和勃列日涅夫前期的改革，促进了苏联工业化发展；而美国20世纪70年代后凯恩斯主义失灵，出现“滞胀”局面，B项正确；扩军备战争夺霸权导致了苏联的衰落，C项错误；D项与材料信息无关，排除。

8. D　20世纪70年代苏联处在勃列日涅夫执政时期，他改革重点放在工业方面，继续大力发展重工业，忽视农业生产，这是造成苏联对粮食进口依赖越来越大的主要原因，D项正确。

9. D　A、B、C三项都只符合戈尔巴乔夫改革，勃列日涅夫改革和赫鲁晓夫改革都没有做到；运用价值规律调节生产是对赫鲁晓夫改革的发展，D项正确。

10. B　本题考查学生材料解析和对所学知识综合运用的能力。从材料内容看戈尔巴乔夫试图突破斯大林模式的弊端，结合所学知识可知，戈尔巴乔夫当时实际上承认了市场对经济的调节作用。A项材料没有涉及；C项与史实不符；D项说法错误。故选B项。

关注微信公众号“教辅资料站”获取更多学习资料

11. D　根据材料中的“不同年代版本的内容均有所不同”，说明由于时代的不同而对历史著作的内容进行取舍，反映出时代对历史叙述的影响，D项正确。
12. C　斯大林“枪决”司机是为推卸责任，A项错误；赫鲁晓夫给司机平反是为了获得更多人支持，他并没有反对这种模式，B项错误；勃列日涅夫“拉上窗帘派人摇摆”造成列车行进假象是说明其改革给人们带来苏联经济发展的错觉，C项正确；戈尔巴乔夫大喊“前面没有铁轨了”是说苏联走到了尽头，D项错误。
13. (1)情况：粮食短缺，生活困难。原因：农业集体化政策。
(2)原因：斯大林体制严重挫伤了人民的生产积极性，阻碍社会生产力的发展，致使经济效率低下；勃列日涅夫改革没有突破斯大林模式；美苏争霸和巨额军费的拖累。结果：东欧剧变、苏联解体。
(3)启示：经济政策的制定必须从实际生产力出发，遵循客观经济规律；重视农业发展，正确处理农业、重工业、轻工业之间的关系，促使各生产部门协调发展；要以经济建设为中心，提高人民生活水平；完善社会主义民主，调动各阶层进行社会主义建设的积极性。
14. (1)角度：时代背景(环境、国情)、实践效果。分析合理性：时代背景：从国内看，苏联重工业落后；国防力量薄弱；粮食供应困难。从国际看，新生的苏维埃政权处于帝国主义政权的包围和敌视之中；20世纪20年代美国及其他资本主义国家经济快速恢复和发展；1929年经济危机爆发；德意日法西斯势力日益猖獗。实践效果：迅速实现了工业化；经济实力大增，为反法西斯战争的胜利奠定了物质基础；促进了科技文化教育的发展，提高了国民素质；苏联成为世界强国。
(2)积极：改革取得了一定经济成效，在一定程度上冲击了斯大林模式。不足：经济改革没有从根本上突破斯大林模式；与美国争霸，影响了经济建设。
(3)戈尔巴乔夫在经济改革上没有取得预期成果；在政治改革上，以“人道的民主的社会主义”取代科学社会主义，使改革走进误区；1990年，苏共放弃党的领导地位，实行多党制；1991年俄罗斯等11个加盟共和国成立独联体。

第四单元　中国社会主义建设发展道路的探索

第18课　中国社会主义经济建设的曲折发展

课前预习·抓双基

自主预习

一、1. (2)工业化
2. 1953
3. 重工业　农业
4. (1)重型机械　(2)中西部
5. 工业布局

二、1. 社会主义
2. (1)土地入股　高级农业合作社
(3)加工订货　公私合营
3. 1956

三、1. (1)农业国　工业国　(2)调整
2. (1)社会主义建设总路线　大炼钢铁　生态环境

正误判断

1. √　2. √　3. ×　4. ×　5. √

课堂达标·点对点

对点训练

1. C　过渡时期指的是1949年新中国成立到1956年三大改造基本完成这一时间段。
2. A　从材料中的“计划供应，中央统一调拨”和统配物资、部管物资种类的增加可知，我国在“一五”期间，逐步形成了计划经济体制，A项正确。
3. D　“1954年”处于“一五”计划期间，当时中国借鉴苏联经验，进行社会主义工业化建设，材料中现象正是当时中国工业化建设需求迫切的反映，故答案为D项。中华人民共和国成立初期我国的科学研究与国际前沿仍有很大差距，并且俄文书刊借阅量增加不等于我国科研已和国际前沿接轨，故A项错误。科教兴国战略是20世纪90年代提出的，排除B项。“一五”计划期间学习苏联，并非国人全面反思苏联经验，故C项错误。
4. B　根据材料和结合所学知识可知，新中国成立初期进行了土地改革，废除了封建地主土地所有制，农民成为了土地的主人。由材料“1953年比1952年都增加5倍多”可知，农村重新出现土地买卖，证明土地私有制不符合社会主义方向，故要加快农业合作化步伐，推行农业集体化方针，B项正确；材料没有涉及土地改革的问题，而是强调农村重现土地买卖的情况促使中国共产党加快农业合作化步伐，排除A项；农村重新出现土地买卖，反映了小农经济的不稳定性，排除C项；材料强调农村重现土地买卖的情况促使中国共产党加快农业合作化步伐，而不是农村城镇化的效果显著，排除D项。
5. B　从材料中的“失去的是我个人的一些剥削所得”“一五计划”“经过一个公私合营的过程”“成为光荣的社会主义社会的自食其力的劳动者”可知，这是对资本主义工商业的社会主义改造，B项正确。
6. B　1954年中国正在进行三大改造，而材料又说的是农村，由此可知，为解决这一矛盾，农村实行了农业合作化，B项正确。
7. C　中共八大正确分析了中国的国情，认为中国当时的主要矛盾是人民对于建立先进工业国的要求同落后的农业国现实之间的矛盾。故C项正确。
8. B　根据宣传画中“以钢为纲，全面跃进”可知是指1958年的“大跃进”，该运动体现出国人希望赶超英美的愿望，但是不符合国情，是“左”倾错误的体现，②③正确；中共“八大”是在1956年，排除①；宣传画反映的是“大跃进”，不是人民公社化运动，排除④。正确选项为B项。
9. C　八字方针的内容是调整、巩固、充实、提高。

综合训练

10. (1)原因：①从历史原因看，我国重工业基础差，底子薄。②从现实需要看，增强综合国力，尤其是增强国防实力的需要。③从苏联影响看，借鉴苏联优先发展重工业的经验。④从行业关系看，重工业的发展有助于推动轻工业和农业的发展。
(2)特点：社会主义建设与社会主义改造并举，发展生产力与变革生产关系有机统一，“一体两翼”。实质：解决所有制问题，即变各种形式的私有制为社会主义公有制，使生产资料的社会主义公有制成为我国唯一的经济基础。
(3)经验：从国情出发，量力而行，合理规定国民经济发展的速度和比例；正确选择发展方向，集中力量保证重点部门。
(4)实质：盲目追求生产的高速度，是“左”的错误在经济建设领域的表现。

课后提能·再巩固

1. B　题干史料源于毛泽东在中共七届二中全会上讲话的部分内容，体现了中华人民共和国成立前夕对我国农村经济建设的探索。结合材料中的关键信息“废除”“封建的土地所有制”“个体”等可推理出，这反映的是三大改造前中国共产党对农业的经济政策，结合选项中涉及的几次会议的内容可推断出中共七届二中全会与此有关，B项正确。
2. B　从材料中的新中国“一五”计划期间工业生产产量表的信息可知，重工业增长快，轻工业增长慢，这是借鉴苏联工业化模式，优先发展重工业的结果，B项正确；“大跃进”运动开始于1958年，与材料中的时间不符，A项错误；“一五”计划优先发展重工业符合国情，轻重工业都有发展，不能说农轻重工业比例严重失衡，C项错误；材料中没有能源效益的体现，D项错误。
3. B　本题主要考查中华人民共和国成立初期经济建设的有关情况。结合题中关键信息“第一个五年计划期间”“一万多个工矿建设单位”等可知，此时我国工业化开始有所发展，初步改变了我国工业的落后面貌，B项正确。第一个五年计划的完成，为国民经济的进一步发展奠定了基础，A项错误，排除。中国国民经济恢复时期指的是1949年至1952年，C项与题中时间信息不符，排除。“一五”计划期间我国采取的是优先发展工业，特别是重工业的不协调发展策略，D项错误，排除。
4. B　材料中1958年中央会议决定“把工作重点由农业转到工业上来，决定将钢产量增加到1957年的两倍”表明，中共中央对当时的经济形势过于乐观，即将开展“大跃进”运动，B项正确；A项不是材料主旨，排除；三大改造从根本上改变了生产关系，C项错误；材料中的“将钢产量增加到1957年的两倍”明显超越了当时的生产力水平，不是对国民经济的合理调整，D项错误。
5. A　中共八大正确分析了中国社会的主要矛盾，提出了尽快使中国从落后的农业国变为先进的工业国的总任务，①③正确；提出社会主义改造的任务的是过渡时期总路线，②错误；提出多快好省地建设社会主义的是八大二次会议总路线，④错误，A项符合题意。
6. D　本题考查的知识点是社会主义的探索与失误。“过渡时期”指的是新中国成立到1956年三大改造完成，从材料可知，1956年以前，农业产值要高于工业产值，到1956年，工业产值已经超过农业

关注微信公众号“教辅资料站”获取更多学习资料

产值，A、B两项错误；“一五”计划完成是在1957年，当时农业产值有所下降，C项错误；1958年大跃进开始，造成国民经济比例严重失调，工农业总产值增长呈现背离状态，D项正确。

7. A　从图片信息可知，这是大跃进时期的浮夸风。它过分强调了人的主观能动性，忽视了经济发展的客观规律，A项与其一致，符合题意；B项是人民公社化运动，排除；C项是农村经济体制改革，排除；D项是农业的社会主义改造，排除。

8. C　本题考查的知识点是社会主义的探索与失误。从材料中的粮食产量整体下降，职工人数不断上升，国家财政收入出现较大负增长可知，这应发生在1957～1960年间，为解决职工人数增加，粮食产量下降的矛盾，我国政府采取了调整城镇人口总量，下放职工到农村中去的措施，C项正确；优先发展重工业更不利于粮食问题的解决，A项错误；B、D两项不符合材料中的时间要求，排除。

9. C　据材料“允许社员经营少量自留地和小规模的家庭副业，恢复农村集市；压缩城镇人口，减轻农民负担”并结合所学知识可知，这体现了对人民公社化运动的局部调整，恢复农村集市、压缩城镇人口也有利于农业经济的恢复和发展，使国民经济协调发展，故C项正确；材料体现了对“左”倾错误的局部调整，故A项错误；材料“加强生产队的基本所有制”说明当时没有改变生产资料所有制的性质，故B项错误；农业合作化运动在1953年到1956年，发生于人民公社化运动之前，故D项错误。故选C项。

10. B　“大跃进”以大炼钢铁为中心，不仅在农业领域展开，①错误，排除含①的选项即可。故选B项。

11. D　1958年开始的人民公社化运动破坏了农村生产力，导致农村经济出现困难，刘少奇、邓小平、陈云等支持实行包产到户等多种农业生产责任制是为了克服人民公社化运动的弊端，D项正确；当时的人民公社化运动已经结束了小农经济的存在，A项错误；“大跃进”主要是在工业建设中进行，B项错误；农业合作化运动是社会主义改造的正确途径，材料中的措施针对的是人民公社化运动，不是针对农业合作化运动，C项错误。

12. C　从材料中成都军区军训部为购买一辆自行车而给成都五金公司负责人写信的情况可知，当时处在计划经济体制时代，生活物资紧缺，C项正确。

13. (1)将西方先进质量管理科学引进中国；倡导并推动建立严格的全面质量管理制度；丰富了中国质量管理理论，将质量管理运用到生产实践，产生良好经济效益；在国家质量发展规划等制定工作中发挥重要作用。

(2)热爱、报效祖国；对科学的执着追求，奋发图强的精神；理论与实践结合。

解析：第(1)问，可从史料中对留美归来的刘源张的生平介绍提炼出中华人民共和国成立之初、改革开放新时期不同历史活动所产生的历史贡献，包含理论、实践等几个方面。第(2)问，可结合史料出处从中华人民共和国成立以来刘源张、李四光等的爱国和奉献精神及实践创新等方面进行概括。

14. (1)特点：对生产资料私有制改造基本完成；工业发展迅速；重工业成就尤为突出。

(2)没有。原因：人民公社化运动超越了生产力发展水平；政治上“左”倾错误的扩大；农业生产并没有得到实际重视；自然灾害严重；中苏关系恶化。

(3)认识：实事求是；遵循经济发展的客观规律；不应片面发展某一方面等。

第19课　经济体制改革

课前预习·抓双基

自主预习

一、(一)2. 改革开放

3. 生产力

(二)1. (1)公有制　自主经营　(2)自主权

2. (1)个人

二、1. 增强企业活力

2. (1)1984　(2)现代企业

3. (2)国有

三、1. (1)十四　(2)社会主义市场经济

(3)非公有制　(4)21

正误判断

1. √　2. ×　3. √　4. √　5. √

课堂达标·点对点

对点训练

1. C　从材料中的“改革开放……从这里拉开序幕”可知，这指的是十一届三中全会的召开。因为十一届三中全会做出了改革开放的伟大决策，C项正确。

2. B　结合所学知识可知，家庭联产承包责任制首先是中国农民的创举，这在材料中也有所体现，即“安徽、四川等部分地区的制度创新收益”“包产到户”，然后中央加以总结在全国推广，因此B项正确；A项“逐步推进”和C项“完全一致”表述错误，排除；材料与意识形态无关，D项错误。

3. B　从材料中的“1979年”可知，当时家庭联产承包责任制处于试行阶段，并未普遍推广，③正确，④错误；材料表明该干部重视农业生产，①错误；“责任田的办法是农民的一个创举，是适应当前农村生产力发展的必然趋势”说明该干部认为责任田有利于农业生产，②正确，B项正确。

4. C　生产力决定生产关系，家庭联产承包责任制之所以能在全国范围内普遍推行，是因为它适应了当时农村的生产力发展水平。

5. D　本题通过解读材料中的国务院对8大企业实行的改革措施，可见是在放权让利，扩大企业的自主权。

6. B　由图表可看出，国有企业、集体企业的比重明显下降；城市个体及其他企业成分占有较大比重；由单一公有制经济向公有制经济为主体的多种所有制经济转变。国有企业改革是一个不断持续发展深入的过程，说国有企业改革已经完成显然是不对的，故排除④，选B项。

7. D　结合所学知识可知，改革开放以来我国所有制形式一直是以公有制为主体多种所有制形式并存，只是程度在变化，因此B项错误；A、C两项不符合题意，排除；材料所说的体制转型只是管理体制的变化，所以D项正确。

8. D　“粮票”是计划经济的产物，其退出历史舞台反映的是计划经济时代的终结和市场经济时代的来临。

9. A　材料表明改革开放、经济体制改革的成果不断得到法律，尤其是宪法的认可，所以说明A项正确；B、C两项不能体现宪法修正与改革成果的关系；D项忽略了1988年的内容。

综合训练

10. (1)原因：①从历史上看，长期实行的政社合一的人民公社体制，严重挫伤了农民的生产积极性，农业发展十分缓慢，亿万农民没有解决温饱问题。②从现实来看，农业是国民经济的基础，农业的长期落后制约国民经济的发展。

(2)问题：计划经济体制限制企业发展活力；企业产品结构不合理，忽视品种、质量；没有严格的经济责任制等。

(3)处理措施：政企分开，推进国有企业改革，增强企业活力；发展社会主义商品经济；建立多种形式的经济责任制，扩大企业自主权，企业内部实行厂长(经理)负责制。

(4)关系：①改革是发展的动力。不改革不适应生产力发展的政治经济体制，生产力就不可能得到发展，社会主义经济也不可能腾飞。②发展推动改革的深化。在改革过程中保持良好的发展势头，使人们尽快看见改革的经济成果，尝到改革的甜头，获得改革的利益，这样，改革就会赢得人民群众的支持，改革才能不断深化。

课后提能·再巩固

1. B　结合1978年7月正值关于真理标准问题的讨论这一活动背景下，打破个人崇拜，解放思想是当时的当务之急，因此刊登毛泽东的这份讲话意在打破个人崇拜，促进思想解放，为十一届三中全会做准备。

2. D　“上工人喊人，下地人等人，干活人看人，收工人撵人”的劳动状态是人民公社体制下的生产积极性低的写照，改变这一状态的措施是进行农村经济体制改革，实行家庭联产承包责任制，D项正确。

3. B　材料时间设定在了改革开放初期，内容讨论姓“资”、姓“社”的问题，合资企业申报要中央最高层签字。说明此时人们还存在观念上的误区，存在新旧体制和观念的交锋碰撞，因此B项正确；A、C两项不能体现此主旨；D项是在1978年之前，因而错误。

4. A　材料表明1988年与1982年相比，乡镇企业中从事农业生产的企业数量减少，而从事工业、建筑业、交通运输业和商饮服务业的企业数量大幅增加，这表明农村剩余劳动力大量转移，A项正确；材料中没有体现城乡一体化，且一直到现在都没有实现，B项错误；社会主义市场经济体制初步建立是在21世纪初，C项错误；材料中所反映的乡镇企业行业分布，无法体现整体工业结构，D项错误。

5. D　材料只是反映了农村消费与非农村消费的变化情况，从中得不到经济持续发展，和对农村投资少的信息，A、B两项错误；从农村消费和非农村消费的对比比率来看，农村的增长速度要高于城市，这说明农村经济体制改革成效显著，城乡差别相对缩小，C项错误，D项正确。

关注微信公众号“教辅资料站”获取更多学习资料

6. D　20世纪80年代初允许返城的知青和工人开办“个体企业”但又对其进行一定的限制，说明当时还未完全摆脱计划经济的束缚，但单一公有制经济结构已有所突破，公有制仍占主体地位，A、B两项错误，D项正确；社会主义市场经济体制开始建立是在21世纪初，C项错误。
7. A　1984年城市经济体制改革全面展开，推动了温州的发展，A项正确；B项主要在农村进行，对温州市影响不大，排除；社会主义市场经济体制确立是在21世纪初，与材料时间不符，排除C项；温州在浙江，不属于闽东南经济开放区，排除D项。
8. B　材料的关键是邓小平会见“证券交易所代表团”“股票”，结合所学知识可知B项正确；中美关系正常化是在1979年，因此A项错误；C、D两项也不符合材料时间限定。
9. A　材料表明从1992年开始，公有制经济以外的其他经济成分增长较快，国家计划的影响减少，这说明市场在国民经济中的地位增强，A项正确；总体上达到小康水平是在20世纪末，B项错误；21世纪初，我国基本确立了社会主义市场经济体制，实现与世界经济的接轨，C、D两项错误。
10. A　根据材料20世纪90年代以来，我国农村出现了“超越地域的专业性、综合性集体经济组织，以及多种形式的合作与联合”。这说明原有家庭联产承包责任制不能适应新形势的发展，而这种新联合组织的出现，恰恰在现有政策下，弥补了原有土地制度的不足，因此A项正确。
11. C　据材料信息可知，改革开放初期的1980年已经有了市场经济成分，故A、B两项错误；1980～2006年中国市场指数不断上升，尤其在1992年以后上升幅度加大，说明经济体制改革在不断深化，故C项正确；中国加入世贸组织(WTO)后仍然是社会主义市场经济，没有发生质变，故D项错误。
12. C　材料中中国共产党在建设社会主义过程中的不断尝试，表明中共“摸着石头过河”的谨慎精神，中间也出现了一些失误和挫折，但最后找到了一条适合国情的正确道路，①②③都正确。
13. (1)原因：战乱；人地矛盾；经济重心南移；官职迁调或经商。
背景：鸦片战争后清朝闭关政策被打破；通商口岸的开放；交通运输业的发展；国内太平天国运动爆发等动乱；列强贩卖华工出国。
(2)原因：1978～1983年：人口流动较少是因为家庭联产承包责任制的实施，农村主要劳力集中在发展农业上(或城市工业化整体水平不高)。
1987年后：人口流动猛增是因为城市经济体制改革全面展开；对外开放扩大，如设立沿海开放城市、沿海经济开放区等。
90年代后：改革开放进入新阶段，市场经济体制的实行；农业现代化进程加快，剩余劳动力增多。
变化：由多发生于社会动荡时期到发生在和平时期；由被动流动到主动流动为主；原因由政治(战争)因素到经济因素为主；由大规模迁移到分散流动为主；由向落后地区到向发达地区流动；由举族迁移到以青壮年劳动力迁移为主。
14. (1)问题：工业化水平尤其是重工业远远落后于发达国家。措施：制定过渡时期总路线；实施第一个五年计划；进行社会主义工业化建设，并优先发展重工业。
(2)态势：1953～1978年曲折发展，1978年后相对稳定。
因素：①以经济建设为中心，使经济得到较快较稳定发展。②对内改革，农村和城市先后进行经济体制改革，逐步建立社会主义市场经济体制。③对外开放，吸收外资、技术，加入WTO，融入世界。
(3)作者的观点是片面的。市场经济不是区分社会制度的标准，而是经济全球化发展趋势的客观要求；社会主义市场经济体制的建立和不断完善，促进了中国社会主义现代化建设蓬勃发展，使中国综合国力和国际影响力不断提高；中国建立市场经济体制，是社会主义模式的自我完善和发展，而不是共产主义模式的萎缩。

第20课　对外开放格局的形成

课前预习·抓双基

自主预习

一、1. (1)深圳　海南　(2)经济体制　(3)资金
2. 大连
3. 长江三角洲
4. (1)浦东
5. 沿海开放城市
二、1. (1)1981　(2)关贸总协定　(3)2001
2. (2)对外开放

正误判断

1. √　2. √　3. √　4. √　5. √

课堂达标·点对点

对点训练

1. A　我国对外开放的首先尝试是设立四个经济特区，A项正确。
2. D　广东、福建两省是著名侨乡，且离港、澳、台较近，与海外有密切交往，这是其与其他省份相比的特殊地位。故选D项。
3. B　“追赶世界、融入世界的决策”是指改革开放，在广东和福建设立经济特区是在1980年，与材料时间接近，故B项正确。
4. C　据材料提到，长江三角洲经济开放区的一个城市——杭州对外开放，结合所学知识可知，杭州属于长江三角洲经济开放区，在1985年对外开放，故C项正确。
5. C　浦东的崛起主要得益于政府设立浦东新区，这属于政策因素，C项正确。
6. C　联系所学，我国形成的对外开放格局是“点—线—面”全方位、多层次、宽领域的对外开放格局。点是最初开放的经济特区，线指的是沿海开放的十几个开放城市，面则是包括四个开放区，根据“长江三角洲”这一地理名词可知，它属于沿海经济开放区，因此C项正确；A、B、D三项均排除。
7. B　世贸组织是经济全球化的产物，中国加入世贸组织适应了经济全球化的趋势，故选B项。
8. D　加入世贸组织从整体来说符合中国的根本利益，已被人们普遍接受，D项错误，符合题意。
9. C　中国加入世贸组织是为了更好地融入世界，参与国际竞争，而不是减少国际竞争，②错误，排除含②的选项即可。故选C项。

综合训练

10. (1)作用：引进外国先进技术和管理经验；发展外向型经济；使特区成为我国对外开放的窗口和基地。
(2)标志：浦东的开发与开放。
目的：进一步发展上海和利用上海这个基地发展长江三角洲和长江流域。

课后提能·再巩固

1. C　经济特区的“特”主要在于国家给予这些地区特殊经济政策和特殊经济管理体制，但特殊经济管理体制的前提是坚持中央的领导，②错误，排除含②的选项即可。故选C项。
2. D　“蛇口宣扬拜金主义”“袁庚要人钱还要人命”从侧面反映了市场经济理念，其逐渐成为人们的共识和准则，体现出市场理念被民众逐渐接受，D项正确；领导人决策不会决定社会意识，A项错误；此时“左”倾错误思想已经不再占据主流，B项错误；C项不符合材料主旨，排除。
3. D　从图片信息可知，这是珠三角和长三角。20世纪80年代中国政府在珠三角和长三角等地开辟经济开放区，D项正确。
4. D　国家把长江三角洲的开放范围扩大，说明是要深化对外开放，促进本地区经济的发展，故D项正确；A项应该是经济特区的设立；B项浦东的开发是在1992年；C项是经济特区的设立。
5. C　由材料中“实行类似特区的政策”来兴办新企业，改造老企业，优化经济结构可判断该“区域”应是沿海经济开放区，C项正确。
6. C　材料体现的是中国加速融入世界经济体系，A项错误，排除；中国大力发展市场经济是在1992年“南方谈话”发表以后，故B项错误；中国政府颁布一系列法规、文件，意在规范和保障经济活动的正常运行，吸引外资，故本题选C项；材料与巩固社会主义公有制经济无关，故D项错误。
7. C　解答本题的关键是注意时间“1984年”。家庭联产承包责任制与引进外资无关，A项错误；经济特区最早设立是在1980年，B项错误；1984年我国决定开放十四个沿海开放城市，逐步兴办经济技术开发区，C项符合题意；建立现代企业制度是1992年深化国企改革的目标，D项错误。
8. D　本题为组合选择题，可采用排除法。入世使中国融入了经济全球化的大潮之中，对中国来说，既是机遇，也是挑战，中国民族经济也面临更大的压力，③错误，排除即可。故选D项。
9. D　清政府开辟通商口岸损害了中国的主权，是一种屈辱的开放，而新中国建立经济特区是在主权独立的基础上的对外开放，这是二者的最主要区别。故选D项。

关注微信公众号“教辅资料站”获取更多学习资料

10. C　从产业结构的变化可知，第一产业逐渐下降，第二产业有所波动，第三产业逐步上升，这表明随着改革开放的进行和科技进步，以服务业和科技含量较高的新经济形式取得了较大发展。故选C项。

11. D　中国商会在美国做广告，并宣传与外国元素的结合，这是中国企业主动融入全球化的表现，D项正确；A、B、C三项与材料信息无关，排除。

12. A　比较长三角和珠三角，京津冀没有连成一片，雄安新区的设立从地理位置上看，把南北经济连成一体，A项正确；经济格局依然没有改变，B项错误；C项不符合材料中心主旨，排除；D项不符合材料经济发展信息，排除。

13. (1)世界观：以天朝上国自居。
影响：造成战前中国盲目自大，不了解敌情，成为鸦片战争失败的重要原因。
(2)变化：放弃以自我为中心，逐渐形成近代世界观；对西方从鄙视到平等再到尊崇。原因：近代战争战败，民族危机加剧；开眼看世界，对西方了解的深入。
(3)区别：主动开放，积极融入世界。
措施：加入APEC和WTO，融入全球化进程；以联合国为中心开展多边外交；推动地区内交流合作；发展和周边国家睦邻友好关系；倡导成立上合组织，维护地区稳定和安全。
(4)从以世界中心自居到向西方学习，从被动开放到积极主动开放。

14. (1)事件：第二次鸦片战争期间，列强强迫清政府签订的不平等条约的规定。
条件：近代开放较早；是我国东南地区的商业中心；著名侨乡，与港、澳、台及海外联系较多；地理位置优越，交通便利等。
(2)含义：经济发展规模和速度均落后于其他经济特区，没有起到经济特区对整个广东经济的拉动作用。
(3)核心措施：加快重大战略平台建设、扭转交通落后局面、促进产业园扩容增效、保持社会稳定和生态保护。

第21课　经济腾飞与生活巨变

课前预习·抓双基

自主预习

一、1. (2)六　四
2. (2)十六　2020
二、1. (2)北京城市群
2. 城市化
三、2. (3)价值观
四、1. 竞争意识
2. (4)装修热

正误判断

1. √　2. ×　3. ×　4. ×　5. √

课堂达标·点对点

对点训练

1. A　1957年三大改造完成，社会主义生产关系确定，1979我国开始改革开放，1993已经明确社会主义市场经济体制的目标，深化改革开放，三者都是对生产关系的合理调整，A项正确。

2. A　粮票是计划经济的产物，股票的发行体现市场运行机制的逐渐形成。故选A项。

3. B　从图中可以看出“GDP同比增速”并不是持续加快的，中间出现过曲折。故排除含①的选项。故选B项。

4. B　中国改革开放以来，中小城市迅速增长的主要原因在于乡镇企业的崛起和发展，B项正确；A、C、D三项都促进的是大城市的发展，故排除。

5. D　E～F段主要指的是20世纪70年代后期以来，这与十一届三中全会后的改革开放密切相关；A、B两项的时间不符；C项与城市化关系不大。

6. B　大中城市数量不断增多和城市出现区域化倾向是城市化发展的表现，而不是城镇化的途径。故选B项。

7. B　互联网产生的条件是计算机技术和通讯技术的发展，B项正确。

8. D　应该辩证地看待互联网带给人们的便利，一方面要利用，同时也要注意鉴别一些不良影响。所以答案是D。

9. A　20世纪50年代流行苏式女装“布拉吉”是受中苏关系影响；20世纪60年代流行绿军装是受“左”倾错误思想和“文化大革命”影响，二者都反映了政治观念对社会生活的影响，A项正确。

综合训练

10. (1)变化：由单一服饰到多元化服饰。
因素：改革开放；经济和社会发展，人民生活水平提高；民众思想观念变化；外来文化影响。
(2)因素：时代潮流；经济发展；社会进步；外来影响；思想观念。

课后提能·再巩固

1. B　从材料“讨论真理的标准”并结合所学知识可知，材料相对应的事件为1978年关于真理标准问题的大讨论，故B项正确；A、C、D三项不符合题意。

2. B　从图片信息可知，在“十五”期间GDP的增长大于财政收入，财政收入也随着GDP的增长而增长，但增长幅度要低于GDP的增长，财政收入的增长是由GDP的增长决定的，①③正确。

3. B　大规模工程的修建是以国家财力为后盾的，而20世纪90年代中国国力的发展有赖于改革开放。A项是直接原因，B项是主要原因。

4. A　“大跃进”和人民公社化时代，社会经济发展曲折，只能讨饭吃；改革开放以后，家庭联产承包责任制的实行，使农民生产积极性提高，农业发展，粮食产量提高，人民生活水平提高，A项正确。

5. A　注意时间信息1978年、1984年。1984年以后，城市经济体制改革全面展开，同时，国家开放14个沿海港口城市，正是改革开放使城市职工家庭就业者的负担大大降低，工业积累与消费趋于平衡，故A项为最佳答案。

6. B　注意题干中的要求“弊”。①④都属于互联网的积极作用，②③是其消极影响。故选B项。

7. D　材料中的“不作死就不会死”“大妈”“你行你上啊”等都属于网络语言，其流行主要借助于互联网的日益普及。

8. C　本题主要考查学生的分析理解能力。网络聊天、网络日志等的出现都体现了互联网对人们的生活与交往方式产生了深刻的影响。A、B、D三项与材料无关，都不符合题目要求。故选C项。

9. B　在互联网中有一些信息的准确性受到怀疑，②错误；在互联网发展迅速的今天，电视、报纸等传统媒介仍发挥着重要作用，④错误，排除②④即可。故选B项。

10. B　粮票是计划经济的产物，取消粮票反映了由计划经济体制向市场经济体制的转变。

11. B　本题考查学生的分析能力。从太阳、挂钟、手表、BP机到手机的变化说明人民生活水平逐渐提高。

12. A　观察图片可知，中国美食分布广泛、类型多样。这说明中国餐饮文化极其丰富，也说明各地的饮食习惯不同。人们可以通过“吃”来感受不同的民族、地域风情。“吃”文化备受关注也反映出人们生活水平的提高。而美食以地图的形式呈现出来则反映了现代传媒技术发展对人们生产、生活习惯的影响，它使人们形成读图的习惯。故①②③④正确，A项符合题意。

13. (1)变化：核心家庭日益成为社会的基本单位；核心家庭越来越多，主干家庭逐渐减少，联合家庭基本消失。
(2)变化：从贫穷到富裕，生活水平大大提高。原因：从计划经济到市场经济的转变。过程：十一届三中全会开始了改革开放；实行以家庭联产承包责任制为主的经济体制改革；大量引进外资，建立了许多外资和合资企业，突破了计划经济的管理体制；十二届三中全会鼓励私营经济发展。
(3)原因：城市化进程加速了农村的发展；现代城市文明对农村的改造和冲击；电视等大众传媒对农村产生了影响。

14. (1)变化：城市化迅速发展；互联网普及；服装日益时尚，住房得到改善，出行更为便捷。原因：进行经济体制改革后，我国生产力水平及人民生活水平的提高；西方生活方式和观念的传入；科学技术的发展等。
(2)年代：①是在20世纪五六十年代；②是在20世纪六七十年代；③是在20世纪七八十年代；④是在20世纪90年代；⑤是在21世纪初。
(3)问题：环境质量下降；交通拥堵；就业困难，失业人数增多。解决办法：建立卫星城，开发新区；改善城市交通；保护和治理城市环境；建立健全社会保障机制等。

第22课　综合探究：调查改革以来发生在日常生活中的新变化(略)

第五单元　经济全球化的趋势

第23课　战后资本主义世界经济体系的形成

课前预习·抓双基

自主预习

一、1. (2)欧洲
2. 布雷顿森林
3. 国际货币基金组织
二、1. 1945
2. (1)稳定国际汇率　短期贷款
(2)国际贸易

关注微信公众号“教辅资料站”获取更多学习资料

3.(1)投票权　(2)美元
4.(1)美元　金融货币　(2)对外扩张
三、1.(1)经济危机　(2)商品输出
2.关税及贸易总协定
3.贸易壁垒
4.(2)自由贸易
5.(1)世界银行　(2)全球化　体系化

正误判断

1.√　2.×　3.√　4.√　5.√

课堂达标·点对点

对点训练

1.D　①②④都是二战后布雷顿森林体系确立的背景，③是布雷顿森林体系确立的影响，D项正确。

2.B　在布雷顿森林体系中起主导作用的是美国。

3.D　二战后为稳定国际货币金融秩序，建立了布雷顿森林体系，D项正确。

4.A　从材料中世界银行出资援助海地灾后重建，可知其宗旨是促进援助国的经济的恢复与发展，A项正确。

5.C　本题考查学生阅读图片解决问题的能力。结合所学知识，图片是国际货币基金组织和世界银行的徽章，这两个国际金融组织是“布雷顿森林体系”的重要组成部分，它们由成员国认缴资金，并根据认缴资金的数额决定投票权的多少，战后初期，美国认缴资金最多，掌握大约1/3的决定权；②说法与史实不符。故本题选C项。

6.A　在世界银行和国际货币基金组织成立时，美国和西欧依靠其经济实力分别把持了这两个金融机构的最高职位，并一直延续到今天，这表明在国际经济领域美欧仍占主导地位。

7.D　本题主要考查学生解读和获取材料信息、调动和运用知识的能力，考查的知识点是国际货币基金组织。“金砖四国”出资份额增加，四国在该组织中的投票权份额也增加，故D项正确。

8.A　美国倡议成立关贸总协定的目的是便利于其商品输出，控制更广阔的国际市场。

9.B　本题主要考查学生解读和获取材料信息、调动和运用知识的能力，考查的知识点是关贸总协定。材料揭示了国际贸易中不断增多的摩擦。法制化、规范化的贸易体制的建立有助于解决这些问题。

综合训练

10.(1)作用：①有利于金融秩序的稳定和世界货币体系的正常运转；②有利于韩国改革经济体制中的缺陷，推动经济的恢复和发展。
(2)因素：关贸总协定。影响：积极方面：有利于创造一个自由贸易的环境，推动世界各地经济的发展，对发展相对缓慢的国家可以更多地得到先进产品和技术。
消极方面：对发达国家有利，它可以大量地向发展中国家倾销商品，是美国对外经济扩张的工具。

课后提能·再巩固

1.D　本题考查学生知识迁移能力。1945年，“布雷顿森林体系”建立，它实行固定的汇率制，各国货币与美元挂钩，美元与黄金的比价固定，美国掌握了资本主义世界的经济命脉。

2.B　1944年美国、英国、中国等44个国家的代表举行了联合国国际货币金融会议，通过了《布雷顿森林协定》。布雷顿森林体系的建立，为世界货币关系提供了统一的标准和基础，有利于维持战后世界货币体系的正常运转，为世界经济的恢复和发展创造了条件。

3.D　本题考查的知识点是布雷顿森林体系。20世纪50年代后期西欧和日本经济快速增长，已经冲击了美国的经济霸主地位，而布雷顿森林体系下美元与黄金的固定汇率使大量黄金流入西欧和日本，不利于美国经济的发展，这表明固定汇率制不适应经济格局的变化，D项正确；从美国获得大量黄金的不只有西欧，还有日本，A、B两项不全面，排除；C项说法不符合事实，排除。

4.C　本题考查的主要知识点是布雷顿森林体系。20世纪五六十年代正是布雷顿森林体系期间，美元在国际货币中的中心地位和美国的金融霸主地位并未动摇，A、B、D三项错误；美国官方黄金持有量的下降和外国银行持有的未偿付的对美国的美元债权的增加使世界对美元信心有所下降，C项正确。

5.B　1929年经济大危机后，世界主要资本主义国家纷纷提高关税，导致贸易体系混乱。深刻的教训促使各国开始认识到国际贸易协调与合作的必要性，故二战后初期国际社会建立了关税与贸易总协定，故B项正确；欧盟、北美自由贸易区和亚太经合组织是区域经济集团，不是协调国际贸易的组织，排除A、C、D三项。

6.A　以稳定国际汇率为宗旨的是国际货币基金组织，而不是世界银行，A项错误。

7.A　国际货币基金组织和世界银行确立了以美国为主导的世界货币金融体系，关贸总协定则确立了以美国为主导的国际贸易体系，三者共同构成了支撑世界经济体的三大支柱，A项正确。

8.B　希腊债务危机需要短期的资金救助，国际货币基金组织对在国际收支出现暂时困难的成员国提供短期贷款，B项正确；世界银行为成员国提供长期贷款，A项错误；关贸总协定主要处理贸易纠纷，而且1995年已经被世界贸易组织取代，C项错误；联合国是当今最大的政治组织，与稳定金融秩序无关，D项错误。

9.B　布雷顿森林体系建立后，美元处于资本主义世界货币的中心地位，美元与黄金挂钩，各国货币与美元挂钩，实行固定汇率制，美元等同于黄金，美国可以通过印制美元购买其他国家资产。

10.D　题干材料反映了《关贸总协定》意在消除贸易壁垒，实现贸易自由化，这有利于世界各国平均关税的大幅下降，D项正确；A项太绝对；B、C两项不符合史实。

11.C　依据题意，“它”的作用在于在国际贸易中规范市场、削减关税、解决纠纷。关贸总协定就是战后建立的以此为目的的国际贸易协定，故C项正确。

12.A　《关贸总协定》的宗旨是通过削减关税和其他贸易壁垒，消除国际贸易中的差别待遇，促进国际贸易自由化，以充分利用世界资源，扩大商品的生产与流通；国际货币基金组织职能之一是制定成员国间的汇率政策和经常项目的支付以及货币兑换性方面的规则，并进行监督。A项正确。

13.(1)关系：因果关系。二战后，美国经济实力空前膨胀，为美国建立以美元为中心的布雷顿森林体系奠定了基础。
(2)方法：建立国际货币基金组织和国际复兴开发银行；规定美元与黄金直接挂钩，国际货币基金组织会员国的货币与美元挂钩。
(3)原因：建立以美国为主导的资本主义世界经济体系。
(4)支柱：世界银行、国际货币基金组织和关贸总协定。

14.(1)特点：贸易保护，政府干预。原因：1929～1933年经济危机的困扰；资本主义国家纷纷大幅度提高进口商品的关税。消极影响：加剧了各国在海外市场的争夺，恶化了国际关系，加速了二战的爆发。
(2)原因：经济全球化的需要(答贸易全球化也可)。否。影响：这将使中国许多产业更直接地面临国外产品的竞争，同时国家财政收入有可能会相应减少，但最终可使广大国内消费者受益。

第24课　欧洲的经济区域一体化

课前预习·抓双基

自主预习

一、1.(1)心理认同感　(2)战争　(3)美苏
2.(1)欧洲煤钢共同体　(2)1967
3.(1)关税　(2)农业　(3)货币
(4)统一大市场　1993
二、1.(1)马斯特里赫特条约　(2)1993
(3)欧元　2002
2.(1)主权

正误判断

1.√　2.√　3.×　4.×　5.×

课堂达标·点对点

对点训练

1.B　1952年欧洲煤钢共同体正式成立，标志着欧洲经济一体化的开始。

2.B　本题主要考查学生理解、分析问题的能力。二战后，欧洲走向一体化是吸取了历史上冲突和战争不断，从而影响发展的教训。

3.C　从材料中的“积极向上”“充满生机的和富有创造性的文明”可知，这指的是欧洲共同体，C项正确；A、B、D三项都不能体现“积极向上”“富有创造性”。

4.B　根据题干提供的信息和所学史实可知，“拿破仑的欧洲”和“希特勒的欧洲”指的是靠军事力量统一欧洲，所以材料反映的是反对武力统一欧洲。所以正确选项是B。

5.C　根据题意欧共体经济实力大大上升，A项经济实力大大超越美国的说法错误；1993年欧盟正式成立，标志着欧共体从经济实体向经济政治实体过渡，排除B项；欧共体实力上升与两极格局解体无关联，推动两极格局解体的是东欧剧变和苏联解体，排除D项。故选C项。

关注微信公众号“教辅资料站”获取更多学习资料

6. D　欧洲的联合是对国家至上观念的挑战，是对“陈旧结构”的根本性突破。A、B两项发生时欧洲仍然是以单个国家的身份，并没有摆脱“陈旧结构”；C项是欧洲与美国的关系问题，不涉及材料所述的自身发展途径。故排除A、B、C三项，选择D项。
7. A　据所学知识可知，“舒曼计划”“欧共体”“欧元”“欧盟”等词汇都和西欧一体化有关，A项正确。
8. C　欧洲一体化需要欧盟国家出让一些国家主权，这会弱化民族国家的主权，④错误，排除含④的选项即可。
9. D　欧元的问世使欧洲一体化成为由欧洲公众参与推动的自下而上的进程，推动了欧洲一体化进程，D项正确；欧元只在欧盟内部的欧元区流通，它体现的是经济区域集团化，欧元推动了欧洲经济、政治一体化，但没有实现国家一体化，A、B、C三项错误。

综合训练

10. (1)特点：从经济一体化到政治一体化；持续时间长；规模逐渐扩大；建立起超国家权力机构；适应了世界多极化趋势的发展。
(2)论证：欧洲经济一体化使经济活动跨越了欧洲民族国家的疆界，加强了欧洲国家之间的相互依存，促进了经济全球化的深入发展。欧洲一体化使欧盟成为一支重要的国际力量，改变了世界格局，加强了世界多极化趋势。

课后提能·再巩固

1. D　二战后，西欧国家开始思考走向联合以解决其内部存在的一些问题，故D项正确。
2. C　材料“一种实用的而非意识形态的事业”“加速经济恢复”“把德国融入欧洲各国阵营里的第一步”等反映的都是1951年欧洲煤钢共同体的内容，故C项正确。A项与材料信息不符，故排除。B项发生在1958年，欧洲联合的步伐加快，不是“第一步”，故排除。欧洲建立双重性区域合作组织即欧盟，是在1993年，故排除D项。
3. A　欧共体成立后在关税、农业政策、货币体系、统一市场等方面加强合作，这体现了“通过共同的商业政策，促进国际贸易限制的逐步废除”和“增进和平与自由”的目标。
4. B　“修补资本主义”是指资本主义生产关系的调整，即推行国家垄断资本主义；而“修正民族国家”即建立超越民族国家的国家联合体，欧洲煤钢联营、欧共体等都是这一体现，B项正确。
5. B　20世纪60～70年代，由于欧洲经济一体化的推动，法国、联邦德国和意大利三国农产品获得了更为广阔的市场，这有利于三国农村迅速实现机械化，B项正确；马歇尔计划在20世纪50年代初期已经结束，A项错误；西欧社会福利制度的确立与农村中的机械化水平提高没有必然联系，C项错误；布雷顿森林体系瓦解于20世纪70年代初，与题干中的时间要求不符，D项错误。
6. B　“整个资本主义世界正在刮起狂风”指的是欧洲国家的联合，不是指中英建交，故A项错误；英国当时追随美国，不支持中国重返联合国，故C项错误；北约成立于1949年，与题干时间不符合，故D项错误。“英国不能‘听任自己陷于孤立’”表明英国谋求加入欧共体，B项正确。
7. B　A项应为1967年欧洲共同体成立的影响，早于题中时间“1987年”，故排除A项；1987年，欧洲共同体成员国倡导创建“没有国界的欧洲”，有利于进一步深化集团内部的合作，为欧洲联盟的诞生奠定了基础，故B项正确；1993年欧洲联盟的成立，标志着欧共体从经济实体向经济政治实体过渡，与题中时间不符，故排除C项；D项中“扫清障碍”的表述夸大了该文件的作用，故排除D项。
8. B　根据题干信息“他们已经有了共同的认同……而且做得比主权国家还好”可知，欧盟形式上不是一个主权统一的组织，但是欧盟各国通过让出部分国家主权建立起共同的管理和协调机制，促使了欧洲的一体化，故本题选B项；A项非材料主旨；C、D两项题干没有涉及。
9. C　欧洲一体化是建立的欧洲经济政治一体化的区域集团，在集团内各国拥有自己独立的主权，而联邦制下的邦不是主权独立的国家，都要服从统一的中央政府的领导，欧共体或欧盟不具备联邦的功能，C项错误。
10. C　因欧元具有欧洲身份的象征，从而使欧洲一体化成为由欧洲公众参与推动的自下而上的进程。故选C项。
11. D　材料表明西欧经济实力大大增强，欧洲共同体成立，这些都冲击了美国的霸主地位，有利于世界格局的多极化趋势，D项正确；布雷顿森林体系建立于1944年，A项错误；二战后到20世纪70年代主导世界的是美苏两国，B项错误；西欧经济的发展会加剧其与美国的竞争，加深美欧之间的矛盾，C项错误。
12. A　“欧洲不是在寻求更紧密的团结，而是正在这场危机中重新国家化，让自己回到过去”体现了欧洲一体化进程受挫，A项正确。
13. (1)必要性：二战后，欧洲国际地位下降或欧洲传统优势地位的消失；两极格局形成或美苏“冷战”局面出现。
(2)概况：战后欧洲主要国家经济恢复并迅速发展，德国经济位居前列；20世纪70年代英国加入欧共体后经济发展迅速。
(3)启迪：从对抗走向联合，开辟了区域和平发展的模式；区域经济一体化，促进了经济的发展；推动欧洲政治一体化的进程，使国际格局走向多极化；促进欧洲文化认同。
14. (1)冲突：普法战争，“一战”、“二战”中的法德冲突。目的和内容：建立欧洲煤钢共同体，防止法德之间再次爆发战争，逐步使欧洲走向统一。
(2)目标：成员国之间逐步实现商品、人员、劳务和资本的自由交流；推行统一的对外关税和对外贸易政策。
(3)原因：20世纪70年代以来欧共体在许多经济领域已经赶上或超过美国，对美国的经济霸主地位构成挑战。
(4)名称：欧洲联盟。趋势：体现了欧洲一体化的发展趋势。

第25课　亚洲和美洲的经济区域集团化

课前预习·抓双基

自主预习

一、1. (1)宗教　(2)地区联合
2. 1967
3. (1)政治合作　经济合作　(3)自由贸易区
4. (1)东盟意识
二、1. (2)欧共体　(4)墨西哥
2. (1)北美自由贸易协定　(2)1994
4. (1)经济互补　(3)关税
三、2. 澳大利亚
3. 多边贸易体制
4. (2)地区主义原则　自愿　APEC方式

正误判断

1. ×　2. √　3. √　4. ×　5. √

课堂达标·点对点

对点训练

1. C　本题主要考查学生的知识再现能力。《东南亚国家联盟成立宣言》发表是在1967年，东盟自由贸易区正式启动是在2002年；《东南亚友好合作条约》签署是在1976年。C项正确。
2. B　1976年东盟召开第一次首脑会议，通过决议，正式将政治合作列入联盟合作范围，并就经济合作制定具体原则，同时加强了组织上的联系，标志着东盟进入新的发展阶段，B项正确。
3. B　1967年东盟建立；1999年，东南亚10个国家全部加入了东盟，东盟建立以后，在成员国中逐渐培养起“东盟意识”，增强了内部的凝聚力和团结意识。
4. A　本题主要考查北美自由贸易区建立的背景。美国有感于欧共体日益成熟，亚洲经济区域化起步，美国感到了威胁和挑战而倡议建立北美自由贸易区。
5. B　本题考查学生再认、再现历史知识及分析、理解问题的能力。加拿大作为发达的资本主义国家，主要目的是扩大农产品出口市场，提高本国工业制成品的竞争力，转移夕阳工业。A项是美国追求的目标；C、D两项则是墨西哥的经济要求。
6. B　材料中的观点是墨西哥加入北美自由贸易区并不能解决墨西哥的一切问题，但是加入北美自由贸易区对墨西哥的经济发展有利，故选B项。
7. B　从材料中的这一国际组织的成员国构成涉及到亚洲和环太平洋众多国家可知，这一国际组织指的是亚太经合组织。
8. C　因为亚太经合组织既包括世界最发达的国家和地区，也包括大量发展中国家和地区，各成员之间差异性明显，但经济结构上又有很强的互补性，因此实行“APEC方式”。
9. A　由图表可知，越南自1998年以来经济迅速发展。表格反映出的越南经济年均增长率、亚太经合组织成员的出口额占越南总出口额的比率和亚太经合组织成员在越南的投资占外国投资的比率等信息，说明越南经济的发展与加入亚太经合组织关系密切，故A项正确。

关注微信公众号“教辅资料站”获取更多学习资料

综合训练

10. (1)合作特点：欧盟：合作领域涉及货币、市场、环境保护、司法、国家安全等多方面，具有高度统一性。亚太经合组织：合作领域只是涉及经济领域，而且合作松散、相对开放，统一性相对较弱。
(2)地位：从经济实力、工业化程度和发展水平等方面相比，美国都处于绝对的优势地位，对加拿大和墨西哥具有很强的制约力。

课后提能·再巩固

1. C　东南亚国家联盟虽然成立了，但各国间的矛盾仍然存在，由于民族、宗教、领土等争端的存在，国家间的矛盾不可能消除，C 项错误。
2. B　本题考查学生阅读材料、归纳信息的能力。从表中可以看出，1987～1991 年东盟各国经济都有不同程度的发展，而这正是东盟内部合作的结果。
3. D　从材料中的数字信息可知，中国与欧美国家间贸易非常重要，但从百分之十几的比重不能说依赖性强，A 项错误；B 项错在了“完全”；欧盟与中国的贸易额呈下降趋势，美国也有波动，C 项错误；中国与东盟的贸易比重呈上升趋势，D 项正确。
4. C　A 项与材料无关；中国与东盟成立的是自贸区合作，远远没有实现经济一体化，B 项错误；材料反映了中国与东盟的经济文化交流日益密切，体现的是区域集团化趋势的加强，而不是市场竞争激烈，C 项正确，D 项错误。
5. B　“一个大块头”指的是美国的主导地位，“带着两个小个子”指的是加拿大和墨西哥处于从属地位，B 项正确；加拿大是发达国家，A 项错误；北美自由贸易区对三国都有益，C 项错误；三国合作只是美国目标的第一步而不是最终目标，D 项错误。
6. C　本题考查学生的分析理解能力。在北美自由贸易区内墨西哥为发展中国家，美国、加拿大为发达国家，经济、科技水平差别较大，对于墨西哥来讲，可以利用美、加两国先进的技术和雄厚的资金加速本国经济的发展，但本国民族经济也会受到一定的冲击。
7. C　本题考查学生获取和解读信息的能力。根据《北美自由贸易协定》，美、加、墨三国取消贸易壁垒，进行公平竞争，这为美国公司打入墨西哥市场提供了便利。再从时间看 1994 年北美自由贸易区正式成立，也符合题干要求，故选 C 项。
8. C　本题主要考查学生的分析比较能力。亚太经合组织中既有资本主义国家，也有社会主义国家，③错误，其余①②④都是二者的共同之处。
9. B　材料体现不了 A、C 的观点；D 项说法错误。
10. D　在欧盟、东盟、石油输出国组织、亚太经合组织四个区域性经济组织中，承认多样性、强调灵活性和自主自愿的原则、单边行动和集体行动相结合的区域性经济组织只有亚太经合组织。
11. A　“太平洋时代”指的是太平洋地区对世界的影响力会越来越大，A 项正确；B 项不能体现出太平洋地区的经济实力；C 项不够全面；D 项说法太夸张。
12. C　欧盟是区域经济集团，经济区域集团化是经济全球化在现实条件下的具体表现，经济区域集团化的最终发展趋势是经济全球化，所以 C 项错误，符合题意；A、B、D 三项都正确，不符合题意。
13. (1)原因：①促进东南亚地区的和平、稳定和发展。②吸引更多的外来投资，发展民族经济。③加强邻国之间的经济合作。④促进区域内消费者更方便地获得更廉价的商品，推动区域内贸易的发展，从而促进地区经济的整体发展。（言之有理，答出两个要点以上即可）
(2)积极参与合作的原因：①当今世界是开放的世界，任何一国都不可能孤立于世界之外而独自发展。②国家利益和国家力量是国际关系的决定性因素，我国积极参与地区经济合作，有利于进一步扩大我国的对外开放。③加速我国社会主义市场经济的发展，加快社会主义现代化建设。④增进与各国的友好交往，促进地区的和平与稳定，为我国的经济建设创造良好的环境。⑤维护国家的安全等。“年年有进步”的原因：中国与东盟各国互有诚意、互相尊重、平等相待。
14. (1)原因：经济发展的需要；世界政治经济中心地位的丧失；美苏争霸的影响；相似的文化传统和统一情结的历史渊源。
(2)背景：①20 世纪 70 年代后，亚太地区国家经济的迅速发展。②欧洲经济一体化进程和经济区域集团化趋势。
性质：是世界上最大的区域经济组织。
(3)原因：①当今世界竞争是以科技和经济实力为基础的综合国力的竞争，发展是当今世界的主题。在这个主题下，欧元区各国和 APEC 成员开展了有效的经济合作。②国家间的共同利益是国际合作的基础。欧元区各国和 APEC 成员之间有着共同的利益，这是它们合作的根本原因。

第 26 课　经济全球化的趋势

课前预习·抓双基

自主预习

一、1. (1)新航路　(2)20 世纪 90
2. (1)科学技术　(2)通讯　(3)两极格局　(4)市场经济体制
3. (3)跨国公司　(4)货币
二、1. (1)民族经济　(2)投机性　(4)生态

正误判断

1. √　2. ×　3. √　4. ×　5. ×

课堂达标·点对点

对点训练

1. C　漫画主题为发达国家和发展中国家之间的“不平等的‘赌局’”，没有涉及金融风险的内容，故 A 项错误；漫画无法体现恐怖主义，故 B 项错误；在这不平等的“赌局”中，发展中国家的财富集中到发达国家，两者的经济实力差距拉大，故 C 项正确；两极格局指以美苏为中心的资本主义阵营和社会主义阵营的全面对抗格局，与漫画中的发展中国家和发达国家不符，故 D 项错误。
2. A　从跨国公司的规模、投资、生产、贸易和技术占世界总额的比重可知跨国公司是推动经济全球化的重要力量。
3. C　经济半球化指的是资本主义世界的全球化，其具有排斥社会主义的意识形态特征，这是由两极格局所导致的。
4. D　根据题意，领悟古典新意的思维方式使我们认识自己并融入世界，是一种艺术常识，排除 A 项；题干不是强调中国融入全球化的必然性，排除 B 项；C 项中“只能”表述绝对，排除；根据题目中“在全球化的语境下，……而古典新意的思维方式便成为我们认识自己，融入世界的一种可能性”即强调对传统文化精髓的吸收才能更好融入世界，D 项正确。
5. B　早期殖民扩张为资本主义发展提供了原始资本，推动了经济的发展。第一次工业革命后，资本主义国家对外进行商品输出。第二次工业革命后，资本主义国家对外进行资本输出。20 世纪 90 年代以来的经济全球化体现的是资本主义在世界范围内的新一轮扩张，因此是资本主义对外殖民扩张的本性推动了经济全球化的发展，故 B 项正确。
6. D　材料所述为美国采取的贸易保护主义，提高关税，设置贸易壁垒的措施最终伤害到了自己，由此可以得出贸易壁垒危及美国自身利益，D 项正确；A 项与材料无关；材料旨在反映的是美国的贸易保护主义的危害，与经济危机的影响无关，B 项不正确；C 项与史实不符，排除。
7. A　从材料中的“民族国家发展和科技进步达到前所未有的程度，同时全球化也使某些国家遭到不公正对待并远远落在后面”可知，该学者指出了全球化带来的利弊，A 项正确；B、C 两项都不能全面体现材料观点，排除；材料只是指出了全球化带来的利弊，并没有提出应对全球化的策略，D 项错误。
8. C　经济全球化是世界经济发展的趋势，从整体来说有利于世界经济的交流和发展，但反全球化示威说明全球化损害了一些国家的利益，这说明经济全球化是一把双刃剑，利弊共存，C 项正确。
9. C　广大发展中国家一般都资源丰富，⑤不是发展中国家处于劣势的原因。

综合训练

10. (1)现象：在经济全球化过程中，发展中国家与发达国家的经济发展水平的差距越来越大，已经影响到了全球经济的进一步发展。实质：资本主义发达国家主导的资本在全球范围内的新一轮扩张。
(2)评价：材料二的观点是片面的。尽管在全球化进程中，发达国家凭借全球性技术占据主导地位，拉大了发达国家与发展中国家的差距，但全球化是世界生产力发展的必然结果，是历史进步的体现。

课后提能·再巩固

1. C　科技发展为经济全球化提供了坚实的物质基础和根本推动力，新型交通、通讯方式为经济全球化提供了基本的技术手段，市场经济为全球化提供了制度保障，跨国公司成为经济全球化的重要推动力。
2. D　题干反映劳动和资本密集型企业向高科技产业发展的现象，说明社会经济结构发生变化，D 项正确；A 项无法从题干中体现；B 项中的“不断减弱”说法错误；C 项是新科技革命的影响，但无法从题干中体现。

关注微信公众号“教辅资料站”获取更多学习资料

3. D　从材料可以看出，在经济全球化过程中，西方发达国家抢占了优势资源、市场份额，它们利用手中雄厚的资本，对发展中国家进行巧取豪夺，使其损失惨重，因此经济全球化加剧了世界经济发展的不平衡性，D项符合题意；材料没有体现出发达国家是世界性金融危机频繁爆发的元凶，故A项错误；B项说法太绝对，排除；从材料只能看出经济全球化对发展中国家带来的挑战，而不是机遇，排除C项。

4. B　本题主要考查学生准确解读材料信息的能力。材料中“中国股市开市第一天上证指数暴跌7%，触发熔断机制，并带动美股收跌”引起“英股富时100指数收低2.39%、法股CAC指数急跌2.47%、德国DAX指数重挫4.28%”，说明中国股市的震动引起全球股市的变化，主要原因是经济全球化的必然趋势，故B项正确；A项是二战后资本主义经济体系建立；C项只是材料中现象，不是实质；材料体现的是经济全球化，不是区域化，故D项错误。

5. B　由材料可知，发展中国家吸引大量外资、外国资本大量流向发展中国家，这为发展中国家的经济发展提供了大量资金支持，故B项正确。

6. A　B、C、D三项表述错误，材料的意思是发展中国家虽然取得了政治独立，但在全球化的背景下处于劣势，故选A项。

7. D　从图表信息可知，在世界“500强”跨国公司当中，美国、欧盟和日本占据绝对优势，这说明发达资本主义国家主导着经济全球化。

8. D　美国禁止进口中国禽肉是违反世贸组织相关规则的贸易保护主义。而世贸组织裁定美国这一行为损害了中方的合理利益，说明世贸组织在规范世界贸易方面起了重要作用。

9. B　从表格中数据可以看出，进出口依存度呈上升趋势，说明了世界不同类型国家间的经济相互依存加强，这是经济全球化的表现之一，B项正确；表格反映的是国家间的经济依存度，没有反映国际贸易总量的发展情况，也没有涉及区域经济集团化与各类国家经济发展水平差距缩小，A、C、D三项错误。

10. A　从图表中发达国家与发展中国家的人均国民生产总值的对比可以看出，国家间的贫富差距越来越悬殊，A项正确；B、C、D三项在材料中都没有体现。

11. B　根据图示信息“当前跨国公司各产业链的利润情况”和所学知识可知，发达国家通过控制高利润的开发设计和售后两个环节，转移低利润的组装环节等，对发展中国家进行隐形掠夺，说明国际经济旧秩序的影响依然存在，B项正确；题干强调的是跨国公司各产业链的利润情况，实际上是生产全球化，不只是资本主义国家，还有广大发展中国家，A项错误；发达国家转移的是组装环节，它属于低利润环节，而不是落后产业，C项错误；题干强调国际经济合作，与世界多极化无关，D项错误。

12. B　该观点认为经济全球化会伴生一系列社会问题，如“自己不得不忍受诸如失业率持续上涨，少数群体不断被边缘化这样的后果”，故B项正确。

13. (1)资本在全球的新一轮扩张；发展中国家与发达国家经济相互依存，贫富差距加大；发展中国家工业落后，缺乏竞争力。

(2)发达国家在资金、技术和贸易等方面具有绝对的优势。

(3)发展中国家应顺应经济全球化发展的趋势，保持清醒头脑，制定合理的对策，积极主动参与全球化并谋求发展。

14. (1)不同：主体不同：“全球化3.0”阶段的主体是个人，而前两个阶段的主体分别是国家和跨国公司。推动力不同：“全球化3.0”阶段的推动力是网络的普及和软件的创新，而前两个阶段的推动力分别是劳动力和各种硬件的革新。根本原因：科技的进步。

(2)

观点明确	真正意义上的“世界史”是人类社会历史发展的结果，人类历史日益成为真正意义上的“世界史”
论据	新航路开辟前，世界各地处于相对隔绝状态
	新航路的开辟，结束了世界各地相对孤立的状态，各地文明汇合交融，日益连成一个整体
	两次工业革命，使社会生产力迅速发展，交通、通讯技术革新，世界联系更加紧密
	随着第三次科技革命的进行，世界经济区域集团化、经济全球化趋势加强
论证、语言表达	运用历史学科语言表述，条理清晰

第27课　综合探究：中国如何应对全球化的挑战(略)

第二部分　阶段检测

阶段测试一

1. D　秦国自商鞅变法后，国力不断增强，建立起中央集权制国家，国家组织能力强，能够集中物力、财力和人力办大事，故答案为D项。结合所学知识可知，春秋战国时期井田制(公田制)走向瓦解，故A项错误。战国后期铁制生产工具普及，对修建大型水利工程起了重要作用，但起决定作用的是人，而不是物(工具)，故B项错误。当时的交通落后，故C项排除。

2. A　根据材料“用13块耕地……换取了在王室仪式上穿戴的盛服和玉饰”可知，土地成为可以交换的私有物品，这说明土地私有制出现，土地国有的井田制度松动，故选A项。材料主要反映了矩和裘卫之间的交易，没有涉及世袭制度的变化，也没有体现对商业的抑制，故排除B、C两项。矩和裘卫之间的交易和礼乐制度无直接关系，故排除D项。

3. A　从材料中的《戈射收获图》可知，这反映了狩猎、生产的状况，这说明当时存在多元化的生产劳动状态，A项正确；材料反映的是集体劳作，不是小农经济，B项错误；材料反映不出精耕细作，C项错误；汉代土地已是私有制，D项错误。

4. C　从材料中的“厚(侯)之为宝”“用粪犹用药也”“时至而作，竭时而止”和“麦黄种麻，麻黄种麦”可知，中国古代农业生产注重节气和施肥，这反映了在土地上投入更多的生产以期获得更多收获，这是精耕细作的体现，C项正确；A、D两项不全面；B项在材料中没有体现。

5. C　材料反映了南宋富阳县农民轻视粮食种植，而重视蚕桑，而家庭收入中商业收入的比重大大增加。由此判断当地的市场意识相对浓厚，C项正确。

6. C　根据材料中“皆委之佃户”“余皆佃农”等信息可知，当时江南个体农耕经济普遍，故C正确。

7. A　本题考查的主要知识点是明朝时期改革赋税制度，实行一条鞭法，按亩征银，因此有了材料中的如实记录土地买卖的情况，A项正确；材料中的造册方式与土地兼并严重无关，B项错误；户籍主要记录的是人口，C项错误；材料中的土地变化情况与专制集权无关，D项错误。

8. A　根据材料信息“新疆发现东周时期楚国的丝绸”及所学知识可知，东周时期中原丝织品技术先进、做工精良，已经远播新疆地区，故A项正确。材料现象说明汉代丝绸之路开通前，中原与西域地区就有了交往，而不是没有交往，故C项错误。B、D两项在材料中均无体现，故排除。

9. B　结合材料可知，明朝晚期人们对待贫穷的态度由道德上的中立转变为“怀疑贫穷是短视和懒惰的结果”，这与商品经济发展、人人有机会通过自身努力获得财富的社会观念盛行有关，B项正确。明朝晚期，江南地区出现资本主义萌芽未发展成资产阶级，我国资产阶级产生于近代民族工商业，A项错误，排除。材料反映的是财富观的变化，这不能等同于道德沦丧，C项错误，排除。结合所学可知，D项说法错误。

10. A　从材料中的“密布着成百上千个采用新制盐技术的竹筒井。井主所雇工匠大多来自‘他州别县’，以‘佣身赁力’为生”可知，北宋时期民营手工业得到发展，A项正确；仅从材料中“若对工作条件或待遇不满意，辄另谋高就”不能得出手工业者社会地位高的结论，且宋代手工业者的地位低下，B项错误；材料只是反映了四川某一地区的制盐业出现雇佣关系，不能得出雇佣劳动普及的结论，C项错误；D项在材料中没有体现，排除。

关注微信公众号“教辅资料站”获取更多学习资料

11. A　花楼机是明朝中叶以后出现的纺织机械，专门织造精细的丝织品，但由于当时自给自足的自然经济占据主导地位，市场需求有限，导致手工生产并没有出现向机器生产转变，故答案为A项；B、C两项不符合史实，排除；明朝中叶以后民间手工业超过官营手工业，占据全社会手工业生产的主导地位，排除D项。

12. C　材料中并未体现出手工业的发展情况，且官营手工业逐渐衰落与唐宋时期史实不符，A项错误；材料和图表中并没有体现出地理方位信息，B项错误；从图表中不难看出，国家收入中钱的数量逐年上升，而谷物和布帛逐渐降低，从侧面反映出商品经济的迅速发展，C项正确；自然经济开始解体是在第一次鸦片战争以后，与题意不符，D项错误。

13. A　材料中的政府物品采购制度表明政府严禁在政府采购过程中勒索商人，这体现了政府注重规范市场秩序，A项正确；材料表明宋代政府没有严格限制工商业，但不能说抑商政策完全崩溃，B项错误；宋朝官营手工业仍占主导地位，C、D两项不符合史实，排除。

14. C　由材料可知，汉武帝将“皮币”定价为40万钱一张，而一个“千户侯”一年的租税收入约为20万钱，因而诸侯王置办一张“皮币”就得花费较多的收入，这从经济上削弱了诸侯的实力，故C项正确。“皮币”不是货币，因而制作“皮币”不是对货币进行管理，故A项错误。制作“皮币”是经济手段，非文化教育措施，无法确立思想上的统一，故B项错误。制作“皮币”并规定诸侯王参加献礼必须购买“皮币”，不能实现朝廷对地方的控制，故D项错误。

15. A　材料中的“商业革命”指的是宋代商业出现的新变化。依据所学可知，A项反映了宋代的市突破了时间和空间限制的新变化的体现，A项正确；B项是唐代诗人杜甫的诗，反映出唐代丝绸之路的繁荣，错误；C项反映的是明代的商业情况，错误；D项反映的是清代的对外贸易情况，错误。

16. D　从材料中的“行会不限制行内成员的经营方式”可知A项错误；“行会的首要任务是协调与其他行业，尤其是与官府的关系，如交纳税收、组织应役”反映了行会发挥了政府管理私营手工业的职能，但并不会推动政府抑制工商业，B项错误，D项正确；C项在材料中没有体现。

17. A　“经营棉布、粮食”说明农产品的商品化程度较高，①正确；“积累了巨额财富，用于购田置地”说明农本思想依然占主导地位，②正确；明清时期政府仍推行盐铁官营政策，③错误；明清时期商人地位不高，④错误；A项正确。

18. B　从材料中的“自大内和宁门外，新路南北……天下所无者，悉集于此”“其夜市……与日间无异”可知，南宋杭州的商业打破时空限制，商品种类繁多，满足了不同人群的需要，A、C、D三项错误，B项正确。

19. D　根据材料可知，明朝中后期东昌府是山东最重要的棉花产区，棉花被江淮商人收购后，在江南生产棉布，之后棉布又被卖回山东，三个地区具有不同的经济特色，故D项正确。运河运输是隋唐以后重要的常规航运方式，交通方式没有出现变革，故A项错误。不同区域呈现不同经济特色，是社会经济发展的产物，非土地制度调整的产物，与货币制度改变没有关系，故B、C两项错误。

20. C　土地神由地位崇高到宋代之后成为城隍的下属，反映了随着商品经济的发展，城市经济在社会经济中的重要性增强，城市文化功能增强的事实，C项正确。

21. D　“量其劳力，日给钞贯”反映了人身依附关系的减轻而且工钱货币化，这客观上有利于商品经济的发展，D项正确；材料反映的是官营手工业的情况，A项错误；工匠人身依附关系的减轻会冲击小农经济，B项错误；C项是主观上的作用，排除。

22. B　明中叶以来，松江府所辖市镇数量增长反映了当地工商业的发展，但体现不出商人地位的提高，①错误，②正确；1862～1911年松江府所辖市镇数量增长与鸦片战争后开放通商口岸有关，③正确；中华民国建立于1912年，与材料中的时间不符，④错误。B项符合题意。

23. C　西方“选择了海洋”指的是发展对外贸易，中国“选择了陆地”指的是固步自封，闭关锁国，C项正确。

24. D　明朝前期中国还没有明显落后于西方，A项错误；材料突出的是郑和航海中的贡赐贸易与西方大航海时代的扩张和掠夺政策的差异，导致了中西历史不同的发展趋向，D项正确，B项错误；C项中的“完全停滞”的说法过于绝对，排除。

25. (1)概况：粮食亩产总体呈增长趋势，但增速较缓。
外来因素：新航路开辟后，玉米、甘薯等高产农作物的传入。
(2)原因：生产规模小，封建剥削沉重，自然灾害等，都使小农经济易于破产；而小农经济下的农民具有生产积极性，当简单生产工具、个体劳动力和土地结合，就能使其再生。
表现：宋朝以后，经济重心逐渐转移到江浙地区。
(3)两面性：一方面重视农业，促其发展，另一方面过度依赖，严控重压，使其难以变革。
原因：自然经济的封闭性；对农业的重压，使农民缺乏剩余和积累；对工商业的抑制，使农业资源难以进入工商领域。
解析：(1)第一小问要结合示意图和文字材料进行概括。第二小问要结合明和清前期的国际形势加以分析。
(2)第一小问有两个角度，脆弱的原因要联系小农经济的局限性分析，顽强的原因要联系小农经济的优点分析。第二小问要列举出最典型的经济重心南移这一事例。
(3)第一小问要从对农业的有利影响与不利影响方面概括。第二小问主要从自然经济的特点，古代政府的经济政策等角度分析。

26. (1)情况：唐朝时，商业贸易活跃，一些商人为追逐利润而远离家乡，海上贸易发达；出现不受时限的喧闹夜市；酒店和娱乐业兴旺。
(2)信息：商业发展深入农村，出现草市；富商的人身和财产安全得不到保障。政策：重农抑商。

27. (1)思考：以科学精神保护中国古建筑。
教训：自然灾难，战争，工业化和城市化，环境污染，生态失衡。
(2)选择阐述①，演变：起源于西汉长安，最初是管理市场的官署，后有的演变为聚民交易的场所。名称：市。
选择阐述②，依据：晋商创办了中国最早的私人金融机构——票号。评价：造就许多富商巨贾和商界精英；推动山西经济进步；促进中国商品经济和对外贸易发展。
解析：第(1)问，第一小问，根据材料中“民族文化的自觉，搜集实物，考证过往，已是现代的治学精神”，可以得出，以科学精神保护中国古代建筑遗产。第二小问，由材料中“虽不是蓄意将中国建筑完全毁灭”“已拆改逾半，芜杂可哂”“亦常在‘改善’的旗帜之下完全牺牲”“战争炮火下被毁者”“一切时代趋势”等并结合所学知识，可从人为破坏、自然灾难、战争影响、工业化和城市化进程的影响、环境污染、生态失衡等方面分析。第(2)问是开放性设问，如果选择①阐述，可以结合所学知识“汉代进行集中贸易的‘市’有专门的管理机构”等进行论证。如果选择②阐述，可以结合晋商创办了中国最早的私人金融机构——票号进行分析说明；评价可结合材料中“山西商业”“改良中国金融业”“于国民经济、国家财政且有莫大影响”等信息，从造就许多富商巨贾、商界精英，推动山西社会经济发展，促进中国商品经济繁荣和对外贸易发展等角度归纳说明。

阶段测试二

1. A　“向外猛冲”指的是新航路的开辟。而“宗教动力、思想骚动、经济活力、技术进步和有效动员人力物力的民族君主国”是新航路开辟的原因和条件，A项正确。

2. A　新航路开辟后，世界贸易中心从地中海沿岸转移到大西洋沿岸，处在地中海沿岸的意大利经济日益衰落，故A项正确；文艺复兴中心的转移不是意大利衰落的主要原因，故B项错误；宗教改革运动兴起不是意大利衰落的主要原因，故C项错误；理性主义成为潮流出现在17、18世纪启蒙运动中，不符合时间限制，故D项错误。

3. B　根据题目的“《新发现》(NOVA REPERTA)”以及图片中的“罗盘”、南、北美洲等信息可知，图片反映的是新航路开辟。新航路开辟密切了世界各地之间的联系，B项正确；其他三项都与材料信息不符，排除。

关注微信公众号“教辅资料站”获取更多学习资料

4. D　据材料“战略目标的冲突和长期海上对抗决定了这场战争的形式……英国所要求的是至高无上的贸易统治地位,……是为了求得海上生存而极力抗争”并结合所学知识可知,这反映了英荷战争的原因和特点,英荷战争以荷兰失败告终,直接影响是荷兰的殖民霸权逐渐丧失,故D项正确;资本主义世界市场初步形成是第一次工业革命的后果,故A项错误;西欧国家工业化进程加快也是工业革命的影响,故B项错误;英国建立起“日不落帝国”是在打败法国后,故C项错误。

5. A　由图中信息可知,阶段2死亡率大幅度下降,结合所学知识可知,这和工业革命后科技进步有关,故A项正确;黑奴贸易发生于新航路开辟后,故B项错误;义务教育促人口素质提升和死亡率下降无关,故C项错误;阶段2反映不出出生率的增长,故D项错误。

6. C　18世纪末英国正在进行工业革命,社会经济结构发生了变化,导致从事农业的劳动力减少,C项正确;近代交通发展不是主要原因,排除A项;环境严重污染导致人口死亡与材料无关,B项错误;耕地的减少并不是主要原因,排除D项。

7. C　材料“第二次工业革命时期”“他发明了通过电流传播人的声音和语言的重要通讯工具”等反映了电话这一发明成果,故C项符合题意。

8. A　本题考查的知识点是工业革命。1830年英国议会颁布《啤酒法》解除地方官对啤酒经营的管制,是自由主义经济思想的体现,政府放弃对经济的干预,而随着酗酒等社会问题出现,1879年议会通过《酗酒法》强化地方对酒类的管理权,这表明自由主义理论中“管得最少的政府,就是最好的政府”思想发生了改变,A项正确;《酗酒法》的颁布,不是追求经济利益的体现,而是服务于社会利益,B项错误;材料中没有议会改革的信息,C项错误;D项在材料中没有体现,排除。

9. B　材料表明不同的研究者从不同的角度分析了英国工业革命发生的原因,这些研究使人们对于工业革命首先发生在英国的认识更加全面,B项正确;材料中的观点是从不同角度研究工业革命最先开始于英国,都有合理之处,A、D两项错误;C项不符合材料主旨,排除。

10. B　鸦片战争后,上海作为通商口岸开放,促进了当地经济的发展,也吸引了大批广东人来到上海并扎根上海,B项正确;民族资本主义初步发展是在19世纪末甲午战争后,与材料中的时间不符,A项错误;聚族而居一定程度上反映了宗族观念深厚,但从广东迁居上海并扎根上海也反映了宗族观念淡化,C项错误;华南地区战乱不一定就使广东人扎根上海,D项错误。

11. B　在近代中国,外国列强享有一定特权,而清政府对国人及企业实行高压政策,因此一些中国人及企业常常使用外国人名字以维护自己的经济利益,这有利于中国新的社会阶层发展,即有利于民族资产阶级的发展,故B项正确。19世纪六七十年代中国民间设厂没有出现高潮局面,故A项错误。中国人及企业使用外国人名字是为维护自身利益,与外国资本对中国的输入无关,故C项错误。材料中的做法虽然可以减少进口,但不足以扭转中国对外贸易入超局面,故D项错误。

12. B　从材料中的“他们对军器制造一窍不通,一切生产技术大权都操纵于洋人手中”“有些洋匠不懂技术,招摇撞骗”可知,洋务企业过度依赖西方技术,B项正确;材料反映的是洋务企业管理的不合理之处,A项错误;洋务企业并不是外资企业,C项错误;材料信息说明个别洋匠属于外行,并不是所有洋匠都是外行,D项错误。

13. D　从材料中的“外国渗透中国的方式从外贸领域扩大到投资、生产、销售、金融各个领域”可知,甲午战争后,列强对中国的经济侵略以资本输出为主,D项正确。

14. C　甲午战争后清政府放宽民间开矿设厂的限制,刺激了民间开矿设厂的热潮,促进了民族资本主义的发展,C项正确;一战爆发于1914年,与材料中的“1895年～1916年”的时间不符,A项错误;甲午战争后外国资本主义进一步加紧对中国的经济侵略,B项错误;实业救国思潮对资本主义经济发展有一定作用,但不是最主要的原因,D项错误。

15. C　1875～1895年是民族资本主义产生时期;1896～1911年民族资本主义有了初步发展;1912～1918年是民族资本主义发展的“春天”,由此可以判断与这四个阶段相对应的注册数分别是0.55个、2.5个、3个、4.6个,C项正确。

16. A　材料表明中国棉花的行情与日本大阪的棉花价格紧密相关,这说明中国已沦为资本主义世界市场的一部分。

17. D　材料中的“东洋”指的是日本,材料表明日本、英国、法国等资本主义国家纷纷在中国开设银行进行资本输出,D项正确;A、B、C三项在材料中没有体现。

18. D　材料揭示了民国时期,民族资本主义在夹缝中艰难发展的史实。“婆婆”指的是封建主义,“丈夫”指的是官僚资本主义,而“童养媳”则指的是民族资本主义。

19. A　注意题干的时间“民国初年”。A、B、C、D四项都是民国初年民族工业发展的原因,而题干要求的是“政治前提”,符合条件的是A项。

20. C　1931年到1936年正值国民经济建设运动时期,政府采取了鼓励民族工业发展的政策措施,C项正确;西方的经济危机也影响到了中国,A项错误;B项发生在一战期间,与题干中的时间不符,排除;实业救国思潮开始兴起是在19世纪末,D项错误。

21. D　结合题中关键信息“有某限度的蓬勃”“不能蓬勃到……脱离半殖民地的地位”等可知,该学者认为中国近代民族资本主义的发展始终处于半殖民地半封建社会的羁绊之中,如果不摆脱殖民压迫、赢得民族独立,民族资本主义就不可能有真正的蓬勃发展,D项正确;有限度的蓬勃发展不等于没有发展空间,A项说法错误,排除;材料强调帝国主义间彼此有矛盾,使民族资本主义有某种限度的发展但不能蓬勃发展,B项“依赖”说法与之不符,排除;C项观点错误,排除。

22. C　由材料关键信息“只拉我国的大国民,倭奴是不拉的”并结合所学知识可知,中华民国建立后的国人称“国民”,甲午战后中国人民痛恨日本侵略者才不拉倭奴,由此可知这一记载的时间是1912年中华民国建立之后,故C项正确;A、B两项处于清朝晚期,国人称臣民,与材料中的“国民”不符,排除;1946～1949年处于解放战争时期,日本侵略者已经在此前无条件投降,退出中国,排除D项。

23. C　根据材料信息“虽穷乡僻壤,求之于市,必有所供”说明中国的生活用品被外国市场占领,日常生活也融入了资本主义世界市场,C项表述准确,符合题意;A项错误,“主动开放”与近代中国史实不符,排除;B项“取代”一词错误,自然经济仍然占据主导地位;D项“开始丧失”于1842年《南京条约》。故选C。

24. B　“马”是农业文明下的主要动力,在农耕文明中占有重要地位,而“机”则代表的是工业文明,材料中词汇变化根本原因是农业文明转变到工业文明,这符合经济基础决定上层建筑的原理,B项正确。

25. (1)后果:大量印第安人被屠杀;新疾病肆虐;非洲黑人被贩卖;种植园经济出现。动因:商品经济的发展,资本主义的萌芽;对黄金等财富的渴求。

(2)特点:欧洲具有主导性;内容具有丰富性;范围具有全球性;结果具有两重性(积极和消极);时间具有长期性。

(3)积极影响:促进了全球动植物(物种)的多样化,丰富了人类经济生活;密切了世界经济的联系;有助于文明的交流与融合。

26. (1)特点:利用特权;部分中国买办商人参与投资;投资行业广(或:中外合资;股份制);应用两次工业革命成果。

原因:列强通过不平等条约获得特权和租界;清政府制度落后、政治腐败,关税主权遭到破坏,不能保护民族工业;外商也需要利用中国买办商人打开中国市场和掠夺原料;两次工业革命相继展开。

(2)原因:第二次工业革命,欧洲大国加紧资本输出;政局稳定;交通发达;农业发达;国内市场广阔;大企业制度先进;科技领先;地理环境优越。

(3)影响:外国投资带来资金、先进技术和经营方式,推动所在国经济发展和近代化进程;对制度落后和主权受到破坏的国家而言,会给企业带来竞争压力,严重阻碍民族工业发展;对主权独立、制度先进国家而言,会促进发展。

27. 略

解析:本题为开放性试题,要求从材料中提炼启示并加以说明。首先要从材料所述现象中总结出自己从中获得的启示,注意启示一定要深刻。既可以从

关注微信公众号“教辅资料站”获取更多学习资料

经验的角度谈启示，也可以从教训的角度来谈。然后运用典型史实论证说明提炼出来的启示，注意论证要充分，做到史论结合，有理有据。

阶段测试三

1. B　题干材料体现了余粮征集制，余粮征集制是战时共产主义政策的内容，该政策是苏俄在 1918 年至 1921 年采取的，故选 B 项。
2. D　战时共产主义政策是苏俄在战争特定环境下实行的经济政策，与材料意思相符，故 D 项正确。
3. B　从材料中的“吸收外国资本”和“向农民征收实物税”可知，苏俄已经认识到了商品经济的重要性，B 项正确；1918 年的苏俄已经实施战时共产主义政策，A 项错误；国家资本主义经济是新经济政策的内容，1918 年的苏俄实行的是战时共产主义政策，对农民实行余粮收集制，C、D 两项错误。
4. C　结合材料和所学知识可知，无论是十月革命之初还是 1921 年新经济政策实施之初，布尔什维克党都面临着巩固政权、解决内忧外患的问题，前者是综合考量西方协约国可能会武装干预无产阶级新政权所做出的让步，后者则是在面对农民不满余粮收集制所造成的巨大牺牲而引发的社会动荡的情况下做出的调整，这说明在政权需要巩固的时候，布尔什维克党都能审时度势，以暂时的妥协换取长远利益，C 项正确；苏维埃政权是无产阶级领导的、以工农联盟为基础的政权，没有把农民当作敌人，A 项错误，排除；新经济政策并未采取武装手段，B 项错误，排除；新经济政策只是列宁对俄国社会主义建设的有益探索，并未开辟苏联社会主义建设新道路，D 项错误，排除。
5. D　由材料中的“按照国家计划”设立矿井可知 B 项错误；A、C 两项与材料无关，且不符合史实；在国家计划的基础上，由德国公司负责一个钾矿矿井，带有利用资本主义经济为社会主义经济服务的特点，这与新经济政策中的国家资本主义相似。故 B 项正确。
6. B　据材料及所学知识，“教育面向大众”体现了社会主义原则，“技术决定一切”体现出苏联当时要提升科技水平，为工业化建设服务，B 项正确；A 项中的“摆脱”过于绝对，排除；C 项与题目中时间相去甚远，排除；题目中并未明确体现出军事色彩，故 D 项不符合题意，排除。
7. C　材料表明，斯大林带有俄罗斯农民意识，对欧洲资产阶级民主思想、社会政治生活等较为陌生，从而忽视社会主义建设的客观因素，意即强调斯大林模式形成的个人因素，C 项正确。
8. A　由材料中的“由以前每年发放一次物质报酬改为按季度或按月发放，同时在一些集体农庄试行工资制度，农民可以像工人一样每月领取工资”可知，这种做法使集体农庄农民的生活得到相应的保障，旨在调动农民生产的积极性，故 A 项正确；1953 年的苏联仍然实行计划经济体制，B 项错误；农庄实行工资制与消除城乡差别关系不大，C 项错误；1953 年的苏联早已实行了集体化，D 项错误。
9. A　从材料中“规定 7 年内工业生产总值提高 80%，其中发电量、钢铁产量都要成倍增长”可知，七年经济计划的重点仍是发展重工业，这体现了斯大林模式的特征，A 项正确；马歇尔计划在 20 世纪 50 年代初期已经结束，B 项错误；材料反映的是经济发展的计划性，与新经济政策注重市场的特点不符，C 项错误；在此之前国家对经济的控制就很强，七年经济计划没有再加强，D 项错误。
10. D　材料表明苏联先进技术发明之后不能有效转化为生产力，这是由其高度集中的计划经济体制导致的，D 项正确；苏联在这一时期没有突破计划经济体制，A 项错误；B 项与材料无关，排除；C 项说法不符合事实。
11. B　材料表明苏联人民对社会主义制度失去信心，苏联政治经济危机严重，而且腐败现象严重，②③④都符合材料内容，① 在材料中没有体现。故 B 项正确。
12. D　材料主张用商品货币关系来发展经济，但是又充分肯定了计划经济的合理性，说明勃列日涅夫的改革没有突破高度集中的计划经济体制，因此，A、B 两项都是错误的，材料没有涉及所有制问题，C 项也是错误的。
13. B　“自由放任的经济政策有着‘市场失灵’的缺陷”指的是引发经济危机，“国家干预经济有着‘政策失灵’的不足”指的是社会主义国家因政策失误带来危害，“战时共产主义”政策引起的经济、政治危机可以证明这点，B 项正确。
14. D　由材料中的“大多数美国人”都接受了“自由必须包含由政府保证的经济安全”的观点可知，大多数美国人主张国家应加强对经济的干预，保障人民的物质生活，即“自由代表着从物质的无保障中得到解放”，D 项正确。
15. A　结合 1933 年的时间提示理解罗斯福新政中对财政金融的整顿，通过整顿银行、统制货币、改革银行体系、恢复股票交易来重振人们的信心，A 项正确。
16. A　材料表明，苏联 1970 年多项经济计划均未完成，这是由苏联高度集中的计划经济体制所致，反映了苏联经济发展的问题积重难返，故 A 项正确。苏联的经济政策保持了连续性，但材料不能体现 B 项，排除。经济改革的重点转向农业出现于赫鲁晓夫时期，而材料涉及的史实主要发生在勃列日涅夫时期，C 项错误，排除。材料中心阐述的是苏联 1970 年计划完成情况与既定目标相差甚远，D 项“社会生活需求发生变化”的观点缺乏材料依据，排除。
17. C　材料表明从 1934 年开始，工人失业人数减少，这与罗斯福新政中的以工代赈关系最大，C 项正确。
18. A　材料表明各国间的矛盾和不信任不断加剧，威胁到了世界的安全与和平，再结合“世界近两年正在倒退”可知，这是经济危机使国际关系紧张，A 项正确。
19. B　材料表明因为资本主义生产的盲目性，导致供需矛盾加剧，罗斯福新政为解决这一矛盾，加强对工业生产的计划指导，B 项正确；A、C、D 三项都不是工业领域的措施，排除。
20. D　材料反映了罗斯福新政借鉴了社会主义计划经济的某些做法，D 项符合题意；A、B、C 三项不符合史实。
21. A　材料表明，罗斯福失去大量的垄断资产阶级的支持，联系所学可知，这主要是因为新政中的某些措施触犯了垄断资产阶级的利益，有利于劳工利益保障，引起了垄断资产阶级的强烈不满。《全国劳工关系法》作出工人最低工资以及最多劳动时间的限制，一定程度上触犯了垄断资产阶级的利益，有利于劳工利益保障，四个选项中只有 A 项涉及资产阶级的利益让步，而 B、C、D 三项没有直接涉及损害垄断资产阶级的利益，故 A 项正确，B、C、D 三项排除。
22. B　结合人物信息，撒切尔夫人当政可知英国处于七十年代末、八十年代初，从材料内容来看，英国放弃凯恩斯主义，减少政府的干预，加强市场的调节作用，因此 B 项正确；结合所学知识可知，A、C 两项都与当时的史实不相符合；D 项表述与材料无关。
23. C　本题考查学生从材料中提取有效信息及分析理解问题的能力。由题干“实行紧缩政策”“采取‘预防性’的措施”等信息可知这体现了政府干预经济，故 C 项正确。
24. A　从自由主义到凯恩斯主义再到混合经济是资本主义根据生产力的发展而对生产关系的相应调整，A 项是本质体现。
25. (1)变化：苏联工业产值在全世界仅低于美国，居世界第二，由落后的资本主义国家发展为社会主义经济强国；由落后的农业国变为先进的工业国。
(2)特点：工业发展快，农业发展慢；在工业领域内部生产资料的生产高于消费品的生产。
原因：在帝国主义敌视的国际环境中，出于安全考虑，首先发展工业；苏联经济落后，社会主义工业化道路不同于资本主义国家，不能通过海外殖民扩张积累资本只能集中国内财富，集中发展工业，尤其是重工业。
影响：由于集中发展工业，使国民经济比例失调，农业长期处于停滞状态；由于片面强调优先发展重工业的政策，制约了后来苏联工业的发展速度；由于利用国家政权的力量调控经济，导致高度集中经济管理体制的形成。
26. (1)内容：禁止兑换和出口黄金；授权联邦银行增发钞票；加强国家对银行的管控。影响：国家干预。
(2)新变化：发展高新技术产业；经济持续增长，通货膨胀和失业率逐年走低。
不变：美国资本主义生产关系没有改变，垄断资本依然占据支配地位。
解析：第(1)问，第一小问，根据材料中“凡 2 月 1 日以后向银行提取过黄金，而到下周一为限还不退回储存的，银行便公布其姓名”可以得出，国家禁止兑换和出口黄金；根据材料中“罗斯福签署《紧急银行法》。当晚国家印制局添雇 375 名职工，印钞机全部开工。不出一周，13 500 家银行复业，交易所又重新响起了电锣声”并结合所学知识可以得出，美国加强国家对银行的管控，授

关注微信公众号“教辅资料站”获取更多学习资料

权联邦银行增发钞票。第二小问，根据材料中罗斯福新政的举措并结合所学知识，从“新政”对经济大规模干预的做法，为二战后资本主义国家所仿效这一角度分析作答。第(2)问，第一小问，从材料中“通货膨胀率”“失业率”等数据，可以得出美国通货膨胀和失业率逐年走低；从“国内生产总值”“互联网产业产值”等数据，可以得出美国支持发展高新技术产业，实现了经济高速持续增长。第二小问，结合材料一、二及所学知识进行分析即可。

27. (1)因素：工业革命后贫富差距扩大，资本家与工人间矛盾激化；经济危机激化社会矛盾，罗斯福新政对社会保障制度的发展；凯恩斯福利国家理论的影响。
(2)问题：资本外逃，加剧国内失业压力；产品生产成本提高，削弱国家经济竞争力；人们的劳动生产积极性降低(培养了懒汉)，不利于发挥市场经济的作用；诱发福利道德问题。
(3)启示：建立完善的社会保障制度有利于稳定社会秩序，促使社会经济持续健康发展；建立完善的社会保障制度必须量力而行，不可操之过急；在完善社会保障过程中，国家不应大包大揽，应建立国家与个人共同承担的责任和风险机制。

阶段测试四

1. B　结合“1953年”的时间提示来理解引导农民群众走向社会主义，可知，这是要通过农业合作化运动来实现对农业的社会主义改造，B项正确；A、C、D三项从时间和内容上都与题干不一致。
2. B　“雇工”“最好开私营工厂”等关键信息说明三大改造时期，主张不同经济成分进行竞争，B项正确；A项是1956年底；材料没有比较私营经济和国营经济，C项错误；材料并没有说明路线的动摇，D项错误。
3. D　本题考查的知识点是社会主义的探索与失误。1961年正值大跃进和人民公社化运动所引起的经济困难时期，当时土地公有制没有改变，A项错误；农业合作化运动发生在1953～1956年间，B项不符合题干时间要求，排除；1961年国民经济调整工作刚刚开始，效果并不显著，C项错误；从材料中的“部分干部和农民对集体生产信心不足，以致发展到变相恢复单干”“家庭作业”等关键信息可知，这是家庭联产承包责任制的起源，D项正确。
4. A　从材料中的时间可知，当时主要是在“一五”期间，“一五”计划的实施促进了工业化的发展，A项正确；“大跃进”和人民公社化运动开始于1958年，B、C两项错误；“一五”计划完成只是奠定了社会主义工业化的基础，D项错误。
5. D　1953年，国家开展大规模经济建设，再结合年画名称《数他劳动强》可知，当时年画成为宣传国家大政方针的重要形式，故D项正确。年画《数他劳动强》是风俗画，不是文人画，故A项错误。1953年中国还没有进入社会主义时期，因而年画所描绘的不是社会主义生产的场景，故B项错误。“双百”方针是在1956年提出的，故C项错误。
6. D　中共“八大”是对社会主义经济建设的有益探索。“在国家统一市场的领导下，将有计划地组织一部分自由市场”“将会对国家的统一市场起有益的补充作用”说明中共在计划经济的前提下，允许部分“自由市场”的存在，这是针对苏联经济模式的有效反思，D项正确。
7. B　通过“炼钢何惜相思树，一寸相思一寸钢”可知，在大炼钢铁过程中毁坏了大片森林，造成了严重的环境破坏，B项正确。
8. B　本题考查的主要知识点是社会主义建设的起步。1958年正值大跃进时期，结合所学知识可知，中央企业下放，不利于生产效率的提高，反而会造成重复建设，各自为政，造成资源浪费和管理混乱，B项正确；A项不是材料主旨，排除；C项与事实相反，排除；人民公社化是改变生产关系，D项与材料无关，排除。
9. B　1952年土地改革完成，废除了地主阶级封建剥削的土地所有制，实现了农民土地所有制，调动了农民生产积极性，解放了农村生产力，因此粮食产量有了较大增长；到1958年开展人民公社化运动，损害了农民利益，降低了农民生产积极性，因此导致1960年粮食产量下降，B项正确。
10. C　从材料中的时间信息及城镇人口的急剧增加可知，这是受“大跃进”运动的影响所致。材料表明城市化脱离了城市承受能力，C项正确；1959年到1960年正值三年困难时期，生产力受到很大破坏，A项错误；B、D两项在材料中没有体现且不符合事实，排除。
11. A　从1960年开始，中共开始纠正农村工作中的“左”倾错误。在“农村十六条”中肯定了社员的家庭副业，即是一定程度上否定“一大二公”的人民公社的“左”倾错误。
12. C　结合1961年我国正在纠正“左”倾错误，对国民经济进行调整的史实理解材料中的报告，可知这是要降低公有化程度，这体现的是对人民公社化运动的反思，C项正确；农业的社会主义改造是正确的，A项错误；材料是在纠正“左”倾错误，B项错误；家庭联产承包责任制开始于20世纪70年代末80年代初，D项错误。
13. A　根据所学知识，在家庭联产承包责任制下，农民对土地只有使用权，没有所有权，故A项说法错误，符合题意；B、C、D三项均正确，不符合题意。
14. B　1978年，农村开始推行家庭联产承包责任制，计划经济体制被打破，故A项错误；乡镇企业的崛起，增加了农村就业的机会，也有助于农业的发展，从而有助于产业结构的调整，故B项正确；C项在材料中不能体现，故排除；农民致富主渠道仍是农业，故D项错误。
15. C　材料显示，由于可口可乐进行市场化的促销导致被停售的结果，说明当时国家还缺乏对市场营销这种现代企业经营方式的支持，C项正确；当时经济体制改革已经进行，A项错误；材料反映的是对内改革的阻力，而不是对外开放的挫折，B项错误；国有企业改革开始于1984年，D项错误。
16. C　结合时间是在改革开放的新时期，涉及的主体是私营企业和个体工商业，涉及经济体制的改革，结合所学知识可知，A项表述错误；材料是在城市，因此B项错误；材料涉及所有制问题，不涉及分配问题，因此D项错误。
17. B　材料主要反映的是外贸垄断体制、产品质量低、出口亏损等问题，这主要与当时的计划经济体制有关，在计划经济体制下，企业缺乏自主权，导致难以扩大出口创汇，因此，对应的建议应是扩大企业的经营自主权，B项正确；对国营企业进行股份制改革是对内改革的内容，与扩大出口创汇关系不大，A项错误；1995年世界贸易组织成立，因此1981年不可能提出争取早日加入世界贸易组织，C项错误；第一批经济特区是在1980年设立，D项错误。
18. B　①在十四大之后；②在1978年；③在文革时期或文革结束初期；④在1997年之后，故正确的顺序应当是③②①④，B项符合题意。
19. C　深圳的发展证明了改革开放有利于生产力的快速发展，C项正确；A、B两项不够全面；D项的结论缺乏比较。
20. C　1992年我国将开发上海浦东作为经济建设的重点，也成为中国进一步对外开放的标志。
21. C　20世纪70年代末开始实行的改革开放，主要是引进西方资金、技术，学习西方发展市场经济的经验；而加入WTO是中国与世界经济全面接轨的一个契机，表明中国进入到规则或制度开放阶段，故C项正确；A、B、D三项均与题干描述不符，均排除。
22. A　这里的“红颜”是要体现网络的积极作用，④属于消极影响，排除含④的选项。
23. D　加强农村土地流转，发展现代农业模式反映了农村经济改革深化，D项正确。
24. D　从材料“南方吹来春天的风”“又一篇解放思想的宣言”“市场经济”可知，这是1992年邓小平南方谈话后，中共十四大上确立了改革开放的目标是建立社会主义市场经济体制，故D项正确；A、B、C三项不符合时间界限。所以答案选D项。
25. (1)趋势：美国：产量长期稳步增长，到70年代中后期出现下降现象。日本：50年代中期到60年代末产量增长迅猛，70年代放缓。苏联：稳步增长，70年代中后期放缓。中国：快速增长。原因：美国：国家采取大力干预经济政策促进经济发展，受滞胀影响。日本：采取引进技术等方式促进经济高速发展，70年代在经济滞胀冲击下，经济发展减速。苏联：国家优先发展重工业，后经济发展逐渐停滞。中国：重视发展重工业。
(2)原因：经济体制改革推进，现代企业制度逐步建立；现代化建设加快，需求增大；科技水平提高；对外开放、引进外资；投资大幅增加。
解析：第(1)问，“趋势”在分析中国、美国等四国钢产量变化情况基础上得出。回答“原因”时，联系四国在这个时期经济发展的相关内容，从中国工业化建

关注微信公众号“教辅资料站”获取更多学习资料

设、改革开放，二战后美国和日本国家垄断资本主义发展和 20 世纪 70 年代后经济出现“滞胀”局面，苏联优先发展重工业等方面回答。第(2)问，“原因”根据材料中的时间“20 世纪 80 年代以来”“2002 年”并结合所学从城市经济体制改革、现代企业制度逐步建立、现代化建设加快、科技发展等方面回答。

26. (1)体制：高度集中的计划经济体制
背景：三大改造完成，社会主义制度确立。
(2)现象：国有经济、集体经济的比重明显下降，城市个体及其他经济占有较大比重。
方向：由单一公有制经济向以公有制经济为主体的多种所有制经济转变。
(3)稳定原因：实行计划经济体制；生产力水平低；人们消费水平低。
上涨原因：社会主义市场经济体制的建立。
解析：(1)第一小问，由材料“从 1953 年的 2 800 多个增加到9 300 多个，中央下达给工业企业的指标……企业利润和折旧基金全部上缴国家，纳入国家预算，企业全部费用由国家拨款解决”体现了高度集中的计划经济体制。第二小问，由时间“1953 年”“到 1957 年”，可知，到 1956 年底，三大改造基本完成，我国社会主义制度基本建立。(2)第一小问，由全国工业总产值的所有制结构图来看，显然国有经济、集体经济的比重明显下降，城市个体及其他经济占有较大比重。第二小问，由时间“1978 年”“2002 年”来看，我国深化经济体制改革，由单一公有制经济向以公有制经济为主体的多种所有制经济转变。(3)第一小问，由材料“在政府的指导下，若干工农业产品实行全省一价”反映了当时实行计划经济体制。由材料“某市大米价格 0.139 元/斤，粮食由政府统购统销 20 几年这价格几乎没变”反映了生产力水平低，人们消费水平低。第二小问，1992 年以来，我国社会主义市场经济体制逐步建立。

27. (1)现象：国民经济得到迅速发展；工业化的程度在提高。原因：过渡时期总路线的提出；制定了“一五”计划；苏联的帮助；中共八大正确分析了中国社会主要矛盾，制定了正确的经济建设方针。
(2)现象：我国对外贸易蓬勃发展，连年攀升。原因：我国的对外开放政策；20 世纪 90 年代中期形成了全方位、多层次的对外开放新格局；1992 年社会主义市场经济体制目标提出；世界经济全球化的有力推动。
(3)城镇化(城市化)进程加快。战略：实施积极的城镇化战略，走大中小城市和小城镇协调发展的多样化城市道路，逐步形成合理的城镇体系。

阶段测试五

1. D　对外扩张，英国成为日不落帝国是以伦敦为中心的英国金融形成的重要原因，故 A 项错误；工业革命后英国成为世界工厂是以伦敦为中心的英国金融中心形成的重要原因，故 B 项错误；新经济出现是在 20 世纪 90 年代，此时美国早就已经确立了以华尔街为中心的美国金融，故 C 项错误；二战后，美国成为世界经济霸主，确立了以美国和美元为中心的战后资本主义世界经济体系，从而形成了以纽约华尔街为中心的美国金融，故 D 项正确。

2. C　国际货币基金组织和世界银行是布雷顿森林体系的两个机构，不是其本质，故 A 项错误；布雷顿森林体系使世界经济朝着体系化、制度化的方向发展，故 B 项错误；由图片信息可知，布雷顿森林体系下美元和黄金直接挂钩，这意味美元取得了高于其他国家货币的地位，从实质上说明布雷顿森林体系是以美元为中心的国际货币金融体系，故 C 项正确；D 项说的是关贸总协定，故 D 项错误。

3. C　世界银行成立初期的宗旨是致力于战后欧洲的经济复兴，后来转向全球性的发展援助，为成员国提供长期贷款和技术援助，中国恢复世界银行席位为京津塘高速公路争取世界银行贷款提供了可能，C 项正确；1991 年中国加入亚太经合组织，A 项错误；天津成为沿海开放城市与世界银行贷款没有必然联系，B 项错误；2001 年，中国加入世贸组织，D 项错误。

4. A　人民币取得了美元、欧元、日元和英镑相同的地位说明国际货币基金组织的原有体系制度有所突破，A 项正确；B、C 两项不符合史实；材料反映的是制度变革，而非凸显弊端，D 项错误。

5. B　由材料中“战争结束后”的时间信息，可以排除 C、D 两项；由材料中信息“国际贸易”“国际投资”可以看出，这一建议涉及的是国际贸易方面的内容，排除 A 项；B 项符合题意。

6. A　欧洲国家走联合自强之路，从“20 世纪 70 年代”可知，应该是欧共体的成立提高了其整体经济竞争力。

7. D　材料“12 是完美和丰饶的象征，使我们同时联想起《圣经》中的 12 圣徒、罗马的 12 铜表法”说明欧洲各国在历史上有过共同的文化，故 D 项正确。

8. B　左边“$”是美元的符号，右边“€”是欧元的符号。1967 年成立的欧洲共同体已经在经济领域努力摆脱美国的控制，力图改变不对等的欧美关系，故 A 项错误；漫画内容为美元与欧元角力，实质是美国与欧盟的经济竞争，故 B 项正确，D 项错误；苏联已于 1991 年解体，C 项排除。

9. C　根据欧洲共同体与北美自由贸易区的内容分析可知，①不符合北美自由贸易区，③不符合北美自由贸易区，故选②④，C 项正确。

10. C　材料描述的是北美自由贸易区，它是由美国、加拿大、墨西哥三个资本主义国家构成，并且由材料的关键信息“这一组织还制度了将其扩大到……所有非共产主义国家的计划”可知，具有一定的意识形态色彩，故 C 项正确；北美自由贸易区正式成立于 1994 年，A 项排除；北美自由贸易区顺应了经济全球化的趋势，促进了经济的发展，B、D 两项排除。

11. C　东盟起初是个经济组织，1976 年，东盟第一次首脑会议召开，正式将政治合作列入联盟合作范围。故答案为 C。

12. C　亚太经合组织各成员尚未实现贸易自由化，故①错误；亚太经合组织有利于推进亚太地区经济一体化，故②正确；作为论坛性的组织，其决议对成员不具有约束力，故③正确；亚太经合组织并未开始走向政治一体化，故④错误。C 项符合题意。

13. A　作为最大的发展中国家，我国已连续 16 年成为全球遭遇反倾销调查最多的国家，连续 5 年成为全球遭遇反补贴最多的国家，说明经济全球化遭遇重大挫折，故选 A 项；B 项中“各国”表述太绝对，排除；材料说明经济全球化受到经济民族主义的抵制，排除 C 项；材料没有体现中国在全球化中的地位，排除 D 项。

14. B　结合“1995 年 11 月”的时间提示理解“这是一场把亚洲、东欧、拉美和非洲几十亿人送上通往繁荣的快速电梯的运动”可知，这是推动经济全球化的运动，世贸组织的建立有利于经济全球化的发展，B 项正确。

15. D　世贸组织争端解决机制以专家组调解为中心，贸易报复只是最后手段，A 项错误；世贸组织争端解决机制主要调解、规范贸易行为并不针对哪些国家，B 项错误；世贸组织具有一定的超国家性和强制性，C 项错误；争端解决机制有利于规范各国的贸易行为，推动国际经济秩序有序发展，D 项正确。

16. C　联合国是全球性的国际组织，世贸组织被称为“经济联合国”是指其具有广泛性。

17. D　从材料的时间和描述上看，其反映的是经济全球化带来的影响，即经济全球化加速了国际分工，使生产和销售向全球化发展，只有 D 项与之相符，其他几项均与之不符。

18. A　思维导图中时间是 20 世纪 90 年代，信息技术迅猛发展，是经济全球化加速发展的重要原因，故 A 项正确；垄断组织出现在 19 世纪末 20 世纪初，故 B 项错误；关贸总协定的签署是在 1947 年，故 C 项错误；欧共体的成立是在 1967 年，故 D 项错误。

19. A　美国的平均关税为 3%说明 B 项错误；美国对部分产品征收高关税和 300 多种反倾销税及保护本国相关产业的手段说明 C 项错误；材料反映了美国面对经济全球化的大潮而努力保护本国企业，这也使国家间的利益争夺更加激烈，D 项错误，A 项正确。

20. C　从材料中的“持怀疑态度”“善于听和善于观察”“使之逐渐完善，选择更好的手段以促其实现”等关键信息可知，作者认为“穷国”对待全球化要顺应并理性地对待，C 项正确。

21. C　本题通过第二次世界大战后美日之间钢铁贸易的案例考查第二次世界大战后世界经济发展的有关情况，结合题意和所学知识可知，1963 年日本成为世界上最大的钢铁出口国是第二次世界大战后日本经济迅速发展的具体表现，日本减少对美钢铁出口是由于美国的

关注微信公众号“教辅资料站”获取更多学习资料

指责和迫使，这体现了日本虽然经济实力增强但无法摆脱美国的经济控制的现实，C项正确；“一超多强”格局出现在20世纪末苏东剧变之后，A项排除；美国的做法体现了其阻挠世界经济一体化的意图，B项排除；由材料时间信息和所学可知，“开始建立世界经济霸权”与史实不符，D项排除。

22. A　根据材料“普遍的商业化和通过外来影响对国家或地区文化的重塑”“刺激人们寻找回归，寻求他们本身的传统和价值”可知，作者意在强调在经济全球化的大背景下，应重视传统文化，故A项正确。文化理念的趋同会导致文化霸权主义，显然不符合经济全球化的趋势，故B项说法错误，排除。材料强调的是在世界经济联系加强的大背景下应重视传统文化的价值，没有强调商业的文化功能和外来文化的影响，故C、D两项错误，排除。

23. B　A项是布雷顿森林体系瓦解的原因之一，不是最主要的；70年代，除美国之外，欧共体和日本经济迅速崛起，形成资本主义世界三足鼎立局面，经济多极化趋势加强，冲击了美国主导的布雷顿森林体系，B项正确；C项是布雷顿森林体系受到冲击的表现，不是原因；D项是二战后世界经济发展的趋势不是布雷顿森林体系瓦解的原因。故本题答案选B项。

24. B　漫画与科技无关，故A项错误；漫画中地球在金字塔的塔尖，而一个正方体立在地球上，摇摇欲坠，这说明全球化有风险，故B项正确；图片信息与贫富分化无关，故C项错误；漫画未包含因势利导参与全球化的信息，故D项错误。

25. (1)历史渊源：1944年召开布雷顿森林会议，建立起布雷顿森林体系，确立了以美元为中心的资本主义世界货币体系。
主要内容：一是美元与黄金直接挂钩；二是国际货币基金组织会员国的货币与美元直接挂钩。
(2)“货币战争”：各国操纵本国汇率，展开竞争，为本国谋取利益。
(3)美国：美元贬值，大大动摇了美元的地位。国际：加剧全球的不平衡，改革国际货币体系的呼声日渐强烈。
(4)①立足国情，不畏外界压力，继续发展社会主义市场经济。②加强货币监管，注重宏观调控。③积极寻求国际合作，迎接挑战。（任答其中两点即可，其他言之成理，酌情给分）

26. (1)因素：欧洲统一的历史渊源；二战后欧洲的衰落；美苏对峙，欧洲各国生存的需要；法德两国有识之士的推动；经济发展需要统一市场。（任答4点即可）
特点：主要由法德两国推动；从经济入手，全面推向政治、经济等各领域；以法律为保障。（任答2点即可）
(2)不利因素：英国摇摆不定；欧洲各国经济、政治发展不平衡；美国对欧洲统一的干扰。（任答2点即可）
(3)问题：国家安全和经济主权问题；民族经济受到冲击的问题；环境和生态保护问题；传统文化和意识形态的冲突与保护问题。（任答2点即可）

27. (1)联系：亚太地区是世界上经济增长最快、最有活力的地区。亚太经合组织(APEC)的建立是这一地区经济联系日益密切的发展形势的产物。
(2)原因：亚太经合组织包括了一批资本主义发达国家和地区，也容纳了为数不少的发展中国家和地区，成员之间政治、经济、文化差异性很大，但在经济发展中又有很强的互补性。APEC各成员相互尊重、地位平等，依据自主自愿、协商一致等原则进行合作，在区域经济一体化发展中开辟出了一条新路，创造出APEC合作新方式。

本册综合测评

1. B　由材料中“仆”“部曲”“庄客”等信息可知，农民逐渐由没有人身自由到可以自由选择地主，这反映了农民对地主和国家的依附关系的松弛，故B项正确；夏商西周时期还没有小农经济，故A项错误；土地的所有权仍然归地主，变化的是土地经营权，故C项错误；“仆”“部曲”“庄客”等都不是自耕农，故D项错误。

2. D　根据材料“黄池镇”“稍稍繁盛”“州县官凡有需索，皆取办于一镇之内”可知，当时黄池镇一个市镇就能满足官府需求，这说明黄池镇经济发达，也从侧面说明宋代市镇经济已经相当发达，故选D项。

3. A　根据材料中耕织户下面进行了详细的分工，说明当时手工业出现了专业化的倾向，故A项正确；自然经济开始解体是在鸦片战争后，故B项错误；材料中强调耕织户的分工更细化，不是强调农产品的商品化，故C项错误；我国的经济重心南移是在南宋且材料并未体现，故D项错误。

4. B　由材料“歌舞剧戏之徒，各呈其技于要街”“众且观且市，远近毕至，喧声沸腾”可知，集市中既有文化娱乐活动，也有商业交易，说明当时武城县文化和商业活动紧密结合，故B项正确。材料强调当时武城县集市贸易的繁荣，并非强调农村集市贸易从无到有的情况，故A项错误。材料不仅体现文化生活，还体现了商业活动繁荣，C项说法不全面，故排除。材料只是强调了武城县集市繁荣的情况，并未涉及乡村城镇化发展的相关内容，故D项错误。

5. C　从材料中的“桑蚕之利，厚于稼穑，公私赖焉”和地主催租“不在秋收之后，却在农户蚕丝收获之际”可知，农户收入多赖家庭副业，C项正确；小农经济解体开始于鸦片战争后，A项错误；蚕桑业的发展并不能代表农耕技术的衰退，B项错误；材料中没有地主对农民剥削程度的信息，D项错误。

6. A　从材料中的“水手成了最令人羡慕和尊敬的职业”罗马教廷的海外传教机构和商业金融机构的建立等信息可知，当时正处于新航路开辟后。新航路开辟后，海外殖民活动、海外贸易和传教活动发展，因此水手的地位上升，A项符合题意。

7. D　1830年，英国即将完成工业革命，生产的发展对科学技术提出了更高的要求，促使科学向专业化、职业化发展，也对科学家的培养提出了新的要求，D项正确；1830年的英国在科学技术领域领先于欧洲其他国家，A、B两项错误；材料反映的是业余科研不能适应社会的进步，不能表明英国科学家普遍缺乏培养和教育，C项错误。

8. A　通过材料时间来看是在第二次工业革命之后，资本主义已经进入稳定而成熟的垄断资本主义阶段。结合所学知识可知，A项中的初步踏入工业社会，是在工业革命之时，不符合要求。

9. A　德国电力工业从无到有，电力工业工人数量的增长速度，可知在第二次工业革命时期，电力工业作为新兴产业在德国工业生产中越来越重要，说明科技发明逐渐产业化，故A项正确。材料中反映的是电力工人的增加，没有体现出人口的增长，故B项错误；材料中没有体现出垄断组织，故C项错误；电力工业是工业，不属于第三产业，故D项错误。所以答案选A项。

10. A　解题关键是分析表格，依据表中左栏四个企业与右栏建立时间和地区看，都位于京津冀地区，都属于民族企业，故A项符合题意。B项仅限于北京，与材料信息不符；C项洋务运动与材料中北洋银元局、京师自来水公司建立的时间不符；D项中“民族资本主义企业”与材料信息不符，故排除B、C、D三项，选A项。

11. B　原棉出口增加和机制纱进口的增加对中国的小农经济和传统手工业构成更大冲击，加剧了自然经济的解体进程，B项正确；当时中国在对外贸易中仍是入超，A项错误；C、D两项与材料信息不符，排除。

12. D　清政府放宽民间办厂限制只符合“第二次高潮”，A项错误；欧洲列强忙于“一战”只符合“第三次高潮”，B项错误；近代民族资产阶级地位提高只符合“第三次高潮”，C项错误；商品经济发展和自然经济的解体是民族资本主义产生和发展的三次高潮的共同原因，D项正确。

13. A　材料反映了传统的丧葬习俗没有太大变化，其原因在于中国传统的忠孝礼节观念根深蒂固，A项正确；在传统丧葬观上，年轻人与年老人没太大区别，B项错误；婚俗变化大，丧俗变化不大，说明与资本主义经济发展的程度关系不大，C项错误；材料中全国各地的丧俗变化都不大，说明与教育影响的地域差异无关，D项错误。

14. C　报刊属于信息传媒，旗袍属于妇女服饰，自行车属于交通手段，材料没有政治生活的体现，排除含有④的选项即可，C项正确。

15. D　半殖民地性半封建性经济属于马克思主义内容之一，再结合材料“随便拉住一个稍稍留心中国经济问题的人”“他就毫不犹豫地答复你：中国经济是半殖民地性半封建性经济”可知，当时马克思主义在中国得到传播，故D项正

关注微信公众号“教辅资料站”获取更多学习资料

确。根据材料“一个稍稍留心中国经济问题的人”可知，材料涉及的人群并非知识界，只是民众中的一部分，此外，知识界“认识相同”“经济理论问题引起民众的普遍关注”是不可能的，故A、C两项错误。材料只涉及对中国社会经济性质的认识，与官僚资本主义在中国迅速膨胀没有必然联系，故B项错误。

16. B　本题主要考查学生回忆、再现所学知识，比较、分析，并作出正确认知和判断的能力。根据题干关键信息“20世纪中叶”“国家从农民那里夺去了除空气以外的所有东西”等，结合所学知识，分析、判断选项，可知，A、D两项的表述均不符合题干时间“20世纪中叶”，排除；进一步分析B、C两项，可知，B项最符合题意；C项是赫鲁晓夫着手解决斯大林农业集体化带来的诸多问题而推行的农业改革，农业上赫鲁晓夫扩大集体农庄和国营农场的自主权。综上，故本题正确答案选B项。

17. B　漫画中的“奶奶”“阿姨”都为社会主义建设做出了重大贡献，这说明女性成为国家建设的重要力量，B项正确；材料中既有工业建设，也有人民生活方面，A项无从体现，排除；人民公社化运动开始于1958年，C项错误；材料中没有城乡差别改变的信息，且当时城乡差别也未发生根本改变，D项错误。

18. B　材料只是反映了农业、轻工业和重工业在社会经济中的比重的变化，反映的是产业结构的变化，不能体现出所有制结构是否变化，A项错误，B项正确；C、D两项在材料中也没有体现。

19. B　依据题意不能得出A项；三大改造是将其变成了公有制企业，应是计划经济的范畴，而不是建立了现代企业制度，所以C项不正确；1992年的改革并没有改变它的公有制性质，所以D项的说法也不对，其创建于1915年“一战”期间，恰好顺应了当时民族资本家们要求“实业救国”的思潮，所以选B项。

20. A　将广交会的地点设在广州的主要原因是要利用毗邻香港的地理优势，A项正确；工业化建设起步标志是1953年的“一五”计划的实施，B项错误；全方位对外开放开始于1980年经济特区的设立，C项错误；打破新中国外交僵局是在20世纪70年代，D项错误。

21. A　减少粮食播种面积，扩大经济作物种植面积，还林还牧，举办社队企业，这使得农村比较单一的农耕经济结构发生变化，A对；社队企业属于集体企业，B错；家庭联产承包责任制主要指农业的自主经营，不涉及企业，C错；1992年，中共十四大提出我国经济体制改革的目标是建立社会主义市场经济体制，D错。

22. C　解题关键在于理解布雷顿森林体系。布雷顿森林体系下美元与黄金直接挂钩、各成员国货币与美元挂钩。这样，美国就可以通过滥发货币来掠夺别国财富。A项与题干材料不符，排除；美国不可能操纵世界各国货币发行权，B项错误；材料阐述的是金融而非贸易，排除D项。

23. B　欧共体是欧盟的前身，是一个以经济合作为主的组织。欧盟成立于1993年，是一个具有政治经济双重性质的组织，其合作内容从经济合作扩大到政治、经济、军事一体化，故B项正确；A项中实现了“全员管辖”的说法错误；C项中两极格局在1991年已经瓦解，说法错误；D项中经济区域集团化趋势不断加强在题干中没有体现，排除。

24. B　“中国需要世界”指的是在经济全球化的大潮中，中国应主动融入全球化之中，直接参与国际贸易规则的制定，而不能被动地接受，B项正确；A、C两项是“世界需要中国”的体现，排除；中国在融入世界的过程中要避免过分依赖海外市场的不利局面，D项错误。

25. (1)观点：农商并重，相辅相成。

变化：由传统观念中对商业、商人的轻视，变为重视和推崇。

(2)问题：资本主义国家在中国倾销商品，掠夺原料；在正当的中外贸易中，中国入超越来越严重。

解决：在中国建立用机器生产的民用工业。

(3)特征：网络经济或知识经济或开放、透明、分享。

因素：改革开放的深入；市场经济体制建立；加入世贸组织；全球步入信息化。

解析：(1)第一小问，据材料“商籍农而立，农赖商而行，求以相辅”可以得出：农商并重，相辅相成。第二小问，据材料“吾乡左(轻视)儒右(崇尚)贾，喜厚利而薄名高，纤啬之夫，挟一缯而起巨万……要之，良贾何负于闳儒！”并结合所学知识可知，人们的观念由传统的抑制轻视商业变为重视和推崇商业。(2)第一小问，据材料“溯自各国通商以来，进口洋货日增月盛”“出口土货，年减一年，往往不能相敌”加以归纳概括即可。第二小问，据材料“臣拟选派绅商，在上海购买机器，设局仿造布匹，冀稍分洋商之利”可以得出其主张在中国建立机器生产的企业。(3)第一小问，据材料“淘宝网对外宣布，向全球开放淘宝数据，让合作伙伴和消费者与之共享其海量原始数据”加以归纳概括。第二小问，据材料“感谢中国经济的发展”，并结合经济全球化的相关信息加以回答。

26. (1)思想：在自力更生的基础上引进资金和先进技术，发展经济。原因：基本建立社会主义经济体系；在探索中取得一定成绩，但也出现较大失误；中国经济落后于世界发达国家，现代化经济建设已经启动，急需资金和技术。

(2)历史机遇：1984年天津成为第一批沿海对外开放城市，后又成为环渤海经济开放区的重要组成部分；党的十四大提出建立社会主义市场经济体制；2006年天津滨海新区正式纳入国家整体发展战略。

新变化：大力吸收外资，“三资”企业发展迅速；外商投资及外贸出口迅速增长；引进高新技术，高新技术产业群初具规模。

(3)示例一：中国对外开放不断扩大，逐渐深入。党的十一届三中全会提出改革开放，实现伟大历史转折。20世纪80年代，设立经济特区、沿海经济开放区等，引进外资和技术，对外开放不断扩大。1992年后，随着社会主义市场经济体制建立，逐步形成全方位、多层次、宽领域的对外开放格局。当前，随着“一带一路”建设，推进与世界互利共赢。中国对外开放不断扩大，逐渐深入。

示例二：中国对外开放具有历史必然性。党的十一届三中全会提出对外开放，发展经济，符合现代化建设需要。20世纪80年代，为适应改革开放的进一步开展，大力引进外资和技术；90年代，建立和发展社会主义市场经济，为天津等地对外开放提供了历史机遇。当前，推进“一带一路”建设，与世界分享机会和利益，互利共赢。中国对外开放具有历史必然性。

27. (1)相同因素：交通便捷；工商业的发展，工业化的推动；制度突破。

(2)有利条件：内河主航道入海口，沿海港口城市，中西文明交汇，近现代民族工业的基础，持续的规划建设，浦东新区的开放和开发，国家发展战略推动。

(3)问题：人口拥挤和贫民窟现象；人口老龄化；传统产业转型升级。

解析：(1)结合两个城市的地理位置、兴起的过程进行分析，从交通条件、工业化的推动、制度方面的突破等角度回答。(2)上海的崛起既有近代奠定的基础，也有现代中国改革开放的推动。答题时主要从优越的地理位置，近现代民族工业的基础、浦东的开放和开发、国家发展战略的推动等角度具体分析。(3)主要从曼彻斯特衰败的教训角度进行归纳，如人口拥挤和贫民窟现象、人口老龄化、传统产业的转型升级等。

关注微信公众号“教辅资料站”获取更多学习资料

责任编辑　周建图　赵黎黎
美术编辑　李　欣
封面设计　欣　羽

45 分钟
课时作业与单元测试

45FENZHONG KESHIZUOYEYUDANYUANCESHI LISHI

丛书科目

语文　数学　英语　物理　化学　生物　历史　地理　思想政治

同学们，你想了解丛书的更多信息吗？详情请登录 http://www.dfjc100.com

※ 各科配有教师用书及教学课件光盘 (word 文档可自主编辑)，英语配有原声磁带 / MP3 光盘。

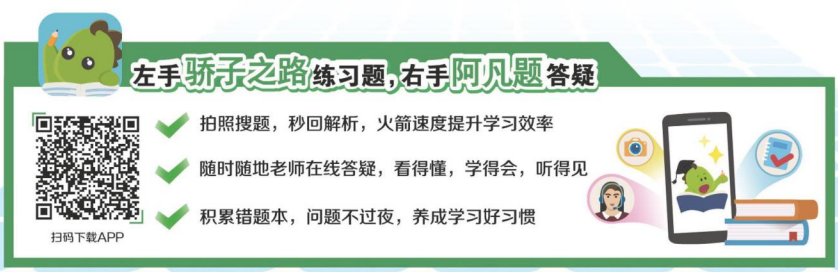

手机扫一扫
获取配套学习资源

ISBN 978-7-202-08021-4
9 787202 080214
定价：43.00 元

关注微信公众号“教辅资料站”获取更多学习资料